Join Telegram Group "HaryanaJobs.in"

SSC MTS 2022

(Official Papers)

HaryanaJobs.in

(57 Sets)

(HINDI Version)

Join Telegram Group "HaryanaJobs.in"

Multi Tasking Non Technical Staff and Havaldar CBIC and CBN Examination 2022

Roll Number	HaryanaJobs.in
Candidate Name	HaryanaJobs.in
Venue Name	iON Digital Zone iDZ4 Patliputra
Exam Date	02/05/2023
Exam Time	9:00 AM - 10:30 AM
Subject	MTS Non Tech Havaldar CBIC and CBN Examination 2022

Section : **Numerical and Mathematical Ability**

Q.1 p, q, r और s का औसत 30 है। यदि p और q का औसत 12 है, तो r और s का औसत क्या होगा?

Ans

✗ 1. 52

✗ 2. 50

✓ 3. 48

✗ 4. 56

Question Type : **MCQ**
Question ID : **264330139079**
Option 1 ID : **264330544925**
Option 2 ID : **264330544923**
Option 3 ID : **264330544926**
Option 4 ID : **264330544924**
Status : **Answered**
Chosen Option : **3**

Q.2 जया ने Rs. 14800 की धनराशि को 8.5% वार्षिक दर पर साधारण ब्याज पर निवेश किया। 6 माह पश्चात अर्जित ब्याज कितना है?

Ans

✗ 1. Rs. 642

✓ 2. Rs. 629

✗ 3. Rs. 598

✗ 4. Rs. 580

Question Type : **MCQ**
Question ID : **264330138711**
Option 1 ID : **264330543453**
Option 2 ID : **264330543451**
Option 3 ID : **264330543454**
Option 4 ID : **264330543452**
Status : **Answered**
Chosen Option : **2**

Join Telegram Group "HaryanaJobs.in"

Q.3 A, B और C अकाउंटेंट हैं। A अकेले 6 घंटों में रिटर्न फाइल कर सकता है और B अकेले उसी रिटर्न को 10 घंटों में फाइल कर सकता है। तीनों मिलकर इसे 3 घंटे में कर सकते हैं। C अकेले वही रिटर्न कितने समय में फाइल करेगा?

Ans

1. ✗ 7 घंटे
2. ✓ 15 घंटे
3. ✗ 8 घंटे
4. ✗ 4 घंटे

Question Type : **MCQ**
Question ID : **264330135428**
Option 1 ID : **264330530619**
Option 2 ID : **264330530622**
Option 3 ID : **264330530621**
Option 4 ID : **264330530620**
Status : **Answered**
Chosen Option : **2**

Q.4 एक कंप्यूटर का अंकित मूल्य Rs.10000 है। कंप्यूटर का विक्रय मूल्य Rs.7650 है। यदि 15 प्रतिशत और x प्रतिशत के दो क्रमागत बट्टे दिए जाते हैं, तो x का मान क्या है?

Ans

1. ✓ 10 प्रतिशत
2. ✗ 20 प्रतिशत
3. ✗ 5 प्रतिशत
4. ✗ 15 प्रतिशत

Question Type : **MCQ**
Question ID : **264330139088**
Option 1 ID : **264330544959**
Option 2 ID : **264330544960**
Option 3 ID : **264330544961**
Option 4 ID : **264330544962**
Status : **Answered**
Chosen Option : **1**

Q.5 A अपनी आय का 18% बचाता है। यदि उसकी आय में 41% की वृद्धि होती है और फिर भी वह उतनी ही धनराशि बचा पाता है, तो उसके व्यय में कितने प्रतिशत वृद्धि हुई?

Ans

1. ✗ 60%
2. ✓ 50%
3. ✗ 40%
4. ✗ 35%

Question Type : **MCQ**
Question ID : **264330138418**
Option 1 ID : **264330542282**
Option 2 ID : **264330542279**
Option 3 ID : **264330542281**
Option 4 ID : **264330542280**
Status : **Answered**
Chosen Option : **2**

Join Telegram Group "HaryanaJobs.in"

Q.6 यदि दो गोलों के पृष्ठीय क्षेत्रफल 81 : 25 के अनुपात में हैं, तो उनकी त्रिज्याओं का अनुपात क्या है?

Ans
1. 9 : 5 ✔
2. 5 : 7 ✘
3. 7 : 9 ✘
4. 5 : 8 ✘

Question Type : **MCQ**
Question ID : **264330135433**
Option 1 ID : **264330530642**
Option 2 ID : **264330530640**
Option 3 ID : **264330530641**
Option 4 ID : **264330530639**
Status : **Answered**
Chosen Option : **1**

Q.7 15 और 25 का लघुत्तम समापवर्त्य (LCM) क्या है?

Ans
1. 125 ✘
2. 25 ✘
3. 105 ✘
4. 75 ✔

Question Type : **MCQ**
Question ID : **264330139091**
Option 1 ID : **264330544973**
Option 2 ID : **264330544972**
Option 3 ID : **264330544974**
Option 4 ID : **264330544971**
Status : **Answered**
Chosen Option : **4**

Q.8 अमन, कमल और मनन की चाल का अनुपात क्रमशः 2 : 3 : 4 है। अमन, कमल और मनन द्वारा समान दूरी तय करने में लगने वाले समय का क्रमशः अनुपात क्या है?

Ans
1. 8 : 9 : 16 ✘
2. 2 : 3 : 4 ✘
3. 6 : 4 : 3 ✔
4. 4 : 3 : 2 ✘

Question Type : **MCQ**
Question ID : **264330139085**
Option 1 ID : **264330544949**
Option 2 ID : **264330544947**
Option 3 ID : **264330544950**
Option 4 ID : **264330544948**
Status : **Answered**
Chosen Option : **3**

Join Telegram Group "HaryanaJobs.in"

Q.9 एक बस 45 मिनट में 45 km की दूरी तय करती है। यदि इसकी चाल को 20 km/hr कम कर दिया जाए, तो समान दूरी तय करने में इसे कितना समय लगेगा?

Ans

1. ✗ 78.5 मिनट
2. ✗ 72.5 मिनट
3. ✓ 67.5 मिनट
4. ✗ 62.5 मिनट

Question Type : **MCQ**
Question ID : **264330139078**
Option 1 ID : **264330544921**
Option 2 ID : **264330544919**
Option 3 ID : **264330544920**
Option 4 ID : **264330544922**
Status : **Answered**
Chosen Option : **3**

Q.10 M अकेले किसी कार्य को 50 दिनों में पूरा कर सकता है और N अकेले उसी कार्य को 100 दिनों में पूरा कर सकता है। यदि वे दोनों साथ मिलकर कार्य करें, तो 25 दिनों में कुल कार्य का कितना प्रतिशत कार्य पूरा हो जाएगा?

Ans

1. ✗ 60 प्रतिशत
2. ✗ 80 प्रतिशत
3. ✓ 75 प्रतिशत
4. ✗ 55 प्रतिशत

Question Type : **MCQ**
Question ID : **264330138996**
Option 1 ID : **264330544593**
Option 2 ID : **264330544592**
Option 3 ID : **264330544591**
Option 4 ID : **264330544594**
Status : **Answered**
Chosen Option : **3**

Join Telegram Group "HaryanaJobs.in"

Q.11 नीचे दी गई तालिका में पाँच अलग-अलग वस्तुओं के अंकित मूल्य और छूट के मूल्य को दर्शाया गया है।

वस्तु	अंकित मूल्य	छूट
A	Rs. 350	Rs. 70
B	Rs. 650	Rs. 75
C	Rs. 450	Rs. 66
D	Rs. 750	Rs. 72
E	Rs. 850	Rs. 80

विक्रय मूल्य = अंकित मूल्य - छूट

L1 = वस्तु C और D की छूट के औसत का मूल्य।

L2 = सभी वस्तुओं के विक्रय मूल्य का योग।

(L1 + L2) का मान क्या है?

Ans

✗ 1. 2816

✗ 2. 2618

✓ 3. 2756

✗ 4. 2687

Question Type : **MCQ**
Question ID : **264330137172**
Option 1 ID : **264330537334**
Option 2 ID : **264330537331**
Option 3 ID : **264330537332**
Option 4 ID : **264330537333**
Status : **Answered**
Chosen Option : **3**

Q.12 यदि किसी घनाभ की लंबाई और चौड़ाई दोनों में 50 प्रतिशत की वृद्धि कर दी जाए, तो इसकी ऊँचाई में कितने प्रतिशत की कमी करनी होगी ताकि इसका आयतन वही रहे?

Ans

✓ 1. 55.55 प्रतिशत

✗ 2. 37.25 प्रतिशत

✗ 3. 48.75 प्रतिशत

✗ 4. 62.34 प्रतिशत

Question Type : **MCQ**
Question ID : **264330139009**
Option 1 ID : **264330544646**
Option 2 ID : **264330544643**
Option 3 ID : **264330544644**
Option 4 ID : **264330544645**
Status : **Answered**
Chosen Option : **1**

Join Telegram Group "HaryanaJobs.in"

Q.13 एक व्यक्ति को एक स्थान तक पैदल जाने और वहाँ से पैदल वापस आने में 6 घंटे का समय लगता है। यदि वह दोनों ओर गाड़ी से जाता तो 2 घंटे का समय बचा सकता था। पूरी यात्रा में तय की गई दूरी 20 मील है। यदि वह पैदल जाता है और गाड़ी से वापस आता है, तो पूरी यात्रा के दौरान उसकी औसत चाल कितनी है?

Ans
1. 6 मील/घंटा
2. 4 मील/घंटा
3. 5 मील/घंटा
4. 8 मील/घंटा

Question Type : **MCQ**
Question ID : **264330138093**
Option 1 ID : **264330540980**
Option 2 ID : **264330540979**
Option 3 ID : **264330540982**
Option 4 ID : **264330540981**
Status : **Answered**
Chosen Option : **2**

Q.14 28 × 25 ÷ 7 × 15 + 63 × 56 ÷ 72 × 5 + 24 × 7 + 8 का मान क्या है?

Ans
1. 2101
2. 1901
3. 1821
4. 1921

Question Type : **MCQ**
Question ID : **264330137171**
Option 1 ID : **264330537330**
Option 2 ID : **264330537329**
Option 3 ID : **264330537327**
Option 4 ID : **264330537328**
Status : **Answered**
Chosen Option : **4**

Q.15 यदि दो मिक्सर और एक टीवी का मूल्य Rs.700 है। जबकि दो टीवी और एक मिक्सर का मूल्य Rs.980 है, तो एक टीवी का मूल्य कितना है?

Ans
1. Rs.450
2. Rs.420
3. Rs.400
4. Rs.480

Question Type : **MCQ**
Question ID : **264330141043**
Option 1 ID : **264330552521**
Option 2 ID : **264330552520**
Option 3 ID : **264330552519**
Option 4 ID : **264330552522**
Status : **Answered**
Chosen Option : **2**

Join Telegram Group "HaryanaJobs.in"

Q.16 यदि (7x + y) : (7x - y) = 7 : 3, तो x : y का मान क्या है?

Ans
1. 6 : 15
2. 4 : 3
3. 5 : 14
4. 15 : 6

Question Type : **MCQ**
Question ID : **264330139084**
Option 1 ID : **264330544945**
Option 2 ID : **264330544946**
Option 3 ID : **264330544943**
Option 4 ID : **264330544944**
Status : **Answered**
Chosen Option : **3**

Q.17 दो अभाज्य संख्याओं X और Y का महत्तम समापवर्तक (HCF) क्या है?

Ans
1. X
2. 2
3. Y
4. 1

Question Type : **MCQ**
Question ID : **264330135370**
Option 1 ID : **264330530389**
Option 2 ID : **264330530388**
Option 3 ID : **264330530390**
Option 4 ID : **264330530387**
Status : **Answered**
Chosen Option : **4**

Q.18 Rs. 16,000 की राशि पर दो वर्ष के लिए चक्रवृद्धि ब्याज और साधारण ब्याज के बीच का अंतर Rs. 160 है। वार्षिक ब्याज दर ज्ञात कीजिए।

Ans
1. 11%
2. 12%
3. 10%
4. 15%

Question Type : **MCQ**
Question ID : **264330138425**
Option 1 ID : **264330542308**
Option 2 ID : **264330542310**
Option 3 ID : **264330542307**
Option 4 ID : **264330542309**
Status : **Answered**
Chosen Option : **3**

Join Telegram Group "HaryanaJobs.in"

Q.19 एक आदमी एक बाइक को एक निश्चित मूल्य पर बेचकर 45 प्रतिशत का लाभ अर्जित करता है। यदि वह उस बाइक को दोगुने मूल्य पर बेचता है, तो उसका लाभ प्रतिशत क्या होगा?

Ans

✔ 1. 190 प्रतिशत

✗ 2. 90 प्रतिशत

✗ 3. 80 प्रतिशत

✗ 4. 180 प्रतिशत

Question Type : **MCQ**
Question ID : **264330139083**
Option 1 ID : **264330544942**
Option 2 ID : **264330544940**
Option 3 ID : **264330544941**
Option 4 ID : **264330544939**
Status : **Answered**
Chosen Option : **1**

Q.20 नीचे दिए गए वृत्त आलेख में एक वर्ष में छः कंपनियों द्वारा निर्मित ट्रकों की संख्या को दर्शाया गया है। इन सभी छः कंपनियों द्वारा निर्मित कुल ट्रक 1800 हैं। इनमें से किसी एक विशिष्ट कंपनी द्वारा निर्मित ट्रकों की संख्या को इन सभी छः कंपनियों द्वारा निर्मित ट्रकों की कुल संख्या के सापेक्ष डिग्री में दर्शाया गया है।

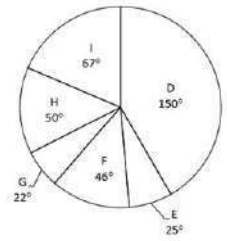

D और F द्वारा निर्मित कुल ट्रकों की संख्या, G और I द्वारा निर्मित कुल ट्रकों की संख्या का कितना प्रतिशत है?

Ans

✗ 1. 140.2 प्रतिशत

✔ 2. 220.2 प्रतिशत

✗ 3. 260.4 प्रतिशत

✗ 4. 234.3 प्रतिशत

Question Type : **MCQ**
Question ID : **264330139095**
Option 1 ID : **264330544988**
Option 2 ID : **264330544989**
Option 3 ID : **264330544990**
Option 4 ID : **264330544987**
Status : **Answered**
Chosen Option : **2**

Section : **Reasoning Ability and Problem Solving**

Join Telegram Group "HaryanaJobs.in"

Q.1 एक निश्चित कूट भाषा में, 'ACCENT' को 'CCATNE' लिखा जाता है। इस कूट भाषा में 'VENDOR' को कैसे लिखा जाएगा?

Ans

1. VENROD ✗
2. NEVROD ✓
3. NVEDOR ✗
4. NEVORD ✗

Question Type : **MCQ**
Question ID : **264330138607**
Option 1 ID : **264330543037**
Option 2 ID : **264330543038**
Option 3 ID : **264330543036**
Option 4 ID : **264330543035**
Status : **Answered**
Chosen Option : **2**

Q.2 उस विकल्प को चुनिए जो पाँचवें पद से ठीक उसी प्रकार संबंधित है जिस प्रकार दूसरा पद पहले पद से संबंधित है और चौथा पद तीसरे पद से संबंधित है।
PRAY : UWFD :: MONK : RTSP :: FAIT : ?

Ans

1. KEMY ✗
2. KENY ✗
3. KFMY ✗
4. KFNY ✓

Question Type : **MCQ**
Question ID : **264330138852**
Option 1 ID : **264330544017**
Option 2 ID : **264330544016**
Option 3 ID : **264330544018**
Option 4 ID : **264330544015**
Status : **Answered**
Chosen Option : **4**

Join Telegram Group "HaryanaJobs.in"

Q.3 यदि एक दर्पण को रेखा AB पर रखा जाए, तो दिए गए विकल्पों में से कौन-सी आकृति प्रश्न आकृति का सही प्रतिबिम्ब होगी?

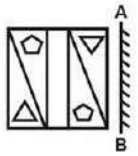

Ans

✔ 1.

✘ 2.

✘ 3.

✘ 4.

Question Type : **MCQ**
Question ID : **264330137128**
Option 1 ID : **264330537155**
Option 2 ID : **264330537157**
Option 3 ID : **264330537158**
Option 4 ID : **264330537156**
Status : **Answered**
Chosen Option : **1**

Join Telegram Group "HaryanaJobs.in"

Q.4 उस विकल्प को चुनिए जिसमें समुच्चय की संख्याएँ वही संबंध साझा करती हैं जो दिए गए समुच्चय में संख्याओं द्वारा साझा किया जाता है। (ध्यान दें: संख्याओं को उनके घटक अंकों में अलग-अलग किए बिना, पूर्ण संख्याओं पर संक्रियाएँ की जानी चाहिए। उदा. 13 - 13 पर संक्रियाएँ जैसे 13 को जोड़ना /घटाना /गुणा करना आदि किया जा सकता है। 13 को 1 और 3 में अलग-अलग करने और फिर 1 और 3 पर गणितीय संक्रियाएँ करने की अनुमति नहीं है)
(8, 27, 125)
(64, 1331, 1728)

Ans
✗ 1. (125, 172, 144)
✗ 2. (289, 212, 196)
✗ 3. (200, 215, 256)
✓ 4. (216, 343, 512)

Question Type : **MCQ**
Question ID : **264330138865**
Option 1 ID : **264330544070**
Option 2 ID : **264330544069**
Option 3 ID : **264330544068**
Option 4 ID : **264330544067**
Status : **Answered**
Chosen Option : **4**

Q.5 सात लड़के J, K, L, M, N, P और Q एक वृत्ताकार मेज के चारों ओर केंद्र की ओर मुख करके बैठे हैं (परंतु जरूरी नहीं कि वे इसी क्रम में बैठें हों)। P, Q के दाईं ओर से दूसरे स्थान पर है। M, J और Q दोनों का निकटतम पड़ोसी है। L, Q का निकटतम पड़ोसी नहीं है। N, P के दाईं ओर से दूसरे स्थान पर है। L के ठीक बाईं ओर कौन है?

Ans
✓ 1. P
✗ 2. N
✗ 3. J
✗ 4. M

Question Type : **MCQ**
Question ID : **264330138858**
Option 1 ID : **264330544039**
Option 2 ID : **264330544040**
Option 3 ID : **264330544041**
Option 4 ID : **264330544042**
Status : **Answered**
Chosen Option : **1**

Join Telegram Group "HaryanaJobs.in"

Q.6 निम्नलिखित प्रश्न में कुछ कथन दिए गए हैं और उन कथनों के आधार पर कुछ निष्कर्ष दिए गए हैं। आपको मानना है कि दिए गए कथन सत्य हैं चाहे वे समान्यतः ज्ञात तथ्यों से अलग प्रतीत होते हों। सभी निष्कर्षों को पढ़िए और फिर निश्चय कीजिए कि दिए गए निष्कर्षों में से कौन-सा निष्कर्ष तार्किक रूप से दिए गए कथनों के अनुसार है।

कथन:

I. सभी H, G हैं।

II. कुछ G, I हैं।

निष्कर्ष:

I. कोई I, H नहीं है।

II. सभी I, G हैं।

Ans

✗ 1. केवल निष्कर्ष I कथनों के अनुसार है

✗ 2. केवल निष्कर्ष II कथनों के अनुसार है

✓ 3. कोई भी निष्कर्ष कथनों के अनुसार नहीं है

✗ 4. दोनों निष्कर्ष I और II कथनों के अनुसार हैं

Question Type : **MCQ**
Question ID : **264330138860**
Option 1 ID : **264330544047**
Option 2 ID : **264330544048**
Option 3 ID : **264330544050**
Option 4 ID : **264330544049**
Status : **Answered**
Chosen Option : **3**

Q.7 एक निश्चित कूट भाषा में, 'APPLE' को '25' लिखा जाता है और 'JUNIOR' को '36' लिखा जाता है। उस कूट भाषा में 'PACKAGE' को कैसे लिखा जाएगा?

Ans

✗ 1. 36

✓ 2. 49

✗ 3. 64

✗ 4. 81

Question Type : **MCQ**
Question ID : **264330137347**
Option 1 ID : **264330538017**
Option 2 ID : **264330538015**
Option 3 ID : **264330538016**
Option 4 ID : **264330538018**
Status : **Answered**
Chosen Option : **2**

Join Telegram Group "HaryanaJobs.in"

Q.8 उस विकल्प आकृति को चुनिए जिसमें दी गई आकृति निहित है। (घूर्णन की अनुमति नहीं है)

Ans

✗ 1.

✗ 2.

✗ 3.

✓ 4.

Question Type : **MCQ**
Question ID : **264330137127**
Option 1 ID : **264330537151**
Option 2 ID : **264330537153**
Option 3 ID : **264330537152**
Option 4 ID : **264330537154**
Status : **Answered**
Chosen Option : **4**

Q.9 Words given on the left side of (::) are related with each other by some Logic/Rule/Relation. Select the missing word/word pair on the right side of (::) from the given alternatives based on the same Logic/Rule/Relation.
Electric Current : Ampere :: ?

Ans

✗ 1. Resistance : Seconds

✗ 2. Temperature : Watt

✓ 3. Force : Newton

✗ 4. Joule : Work

Question Type : **MCQ**
Question ID : **264330138853**
Option 1 ID : **264330544020**
Option 2 ID : **264330544022**
Option 3 ID : **264330544021**
Option 4 ID : **264330544019**
Status : **Answered**
Chosen Option : **3**

Join Telegram Group "HaryanaJobs.in"

Q.10 उस विकल्प को चुनिए जो पाँचवी संख्या से ठीक उसी प्रकार संबंधित है जिस प्रकार दूसरी संख्या पहली संख्या से संबंधित है और चौथी संख्या तीसरी संख्या से संबंधित है।

7 : 36 :: 16 : 225 :: 21 :?

Ans

1. 441 ✗
2. 385 ✗
3. 395 ✗
4. 400 ✓

Question Type : **MCQ**
Question ID : **264330138533**
Option 1 ID : **264330542740**
Option 2 ID : **264330542739**
Option 3 ID : **264330542742**
Option 4 ID : **264330542741**
Status : **Answered**
Chosen Option : **4**

Q.11 एक निश्चित कूट भाषा में, 'He is my nephew' को 'Co Pv Zs Mn' लिखा जाता है, 'That is my car' को 'Zs Pt Pv Ga' लिखा जाता है, 'He is your uncle' को 'Co Pv Ex Yz' लिखा जाता है। उस कूट भाषा में 'nephew' को कैसे लिखा जाएगा?

Ans

1. Co ✗
2. Zs ✗
3. Mn ✓
4. Pv ✗

Question Type : **MCQ**
Question ID : **264330133491**
Option 1 ID : **264330522996**
Option 2 ID : **264330522995**
Option 3 ID : **264330522998**
Option 4 ID : **264330522997**
Status : **Answered**
Chosen Option : **3**

Q.12 एक श्रृंखला दी गई है जिसमें एक पद लुप्त है। दिए गए विकल्पों में से उस सही विकल्प को चुनिए जो श्रृंखला को पूरा करेगा।

LAGB, NDIE, PGKH, RJMK, ?

Ans

1. TMOM ✗
2. TMNO ✗
3. TNON ✗
4. TMON ✓

Question Type : **MCQ**
Question ID : **264330138850**
Option 1 ID : **264330544009**
Option 2 ID : **264330544010**
Option 3 ID : **264330544008**
Option 4 ID : **264330544007**
Status : **Answered**
Chosen Option : **4**

Join Telegram Group "HaryanaJobs.in"

Q.13 निम्नलिखित प्रश्न में, दी गई श्रृंखला में लुप्त संख्या को चुनिए।

108, 129, 104, ?, 100, 137, 96

Ans
1. 140 ✗
2. 138 ✗
3. 133 ✓
4. 135 ✗

Question Type : **MCQ**
Question ID : **264330138863**
Option 1 ID : **264330544062**
Option 2 ID : **264330544061**
Option 3 ID : **264330544059**
Option 4 ID : **264330544060**
Status : **Answered**
Chosen Option : **3**

Q.14 किन दो चिन्हों को आपस में बदलने पर निम्न समीकरण सही होगा?

15 + 5 ÷ 2 - 9 × 3 = 22

Ans
1. + और - ✗
2. × और ÷ ✓
3. ÷ और + ✗
4. × और - ✗

Question Type : **MCQ**
Question ID : **264330138866**
Option 1 ID : **264330544072**
Option 2 ID : **264330544071**
Option 3 ID : **264330544074**
Option 4 ID : **264330544073**
Status : **Answered**
Chosen Option : **2**

Q.15 पाँच कारों C1, C2, C3, C4 और C5 की चाल की तुलना की जाती है। C1 की चाल केवल एक कार से अधिक है। C5 की चाल चार कारों से अधिक है। C4 की चाल C1 से अधिक लेकिन C3 और C5 से कम है। कितनी कारों की चाल C3 की चाल से कम है?

Ans
1. 0 ✗
2. 1 ✗
3. 2 ✗
4. 3 ✓

Question Type : **MCQ**
Question ID : **264330138859**
Option 1 ID : **264330544046**
Option 2 ID : **264330544045**
Option 3 ID : **264330544043**
Option 4 ID : **264330544044**
Status : **Answered**
Chosen Option : **4**

Join Telegram Group "HaryanaJobs.in"

Q.16 सात लड़के राम, सुमित, सुनील, राहुल, राज, अमन और अमित एक वृत्ताकार मेज के चारों ओर केंद्र की ओर मुख करके बैठे हैं (परंतु जरूरी नहीं कि वे इसी क्रम में बैठें हों)। राज, अमन के दाईं ओर से दूसरे स्थान पर है। सुनील, अमन के बाईं ओर से तीसरे स्थान पर है। राम, अमन का निकटतम पड़ोसी नहीं है। अमित, राम के दाईं ओर से दूसरे स्थान पर है। राहुल, अमित का निकटतम पड़ोसी नहीं है। सुमित के बाईं ओर से तीसरे स्थान पर कौन है?

Ans

1. सुनील ✗
2. राज ✗
3. राहुल ✗
4. राम ✓

Question Type : **MCQ**
Question ID : **264330138857**
Option 1 ID : **264330544038**
Option 2 ID : **264330544036**
Option 3 ID : **264330544035**
Option 4 ID : **264330544037**
Status : **Answered**
Chosen Option : **4**

Q.17 दी गई दो संख्याओं को आपस में बदलने पर, निम्नलिखित में से कौनसा समीकरण सही होगा?

1 और 6

I. 7 - 5 + 1 × 3 ÷ 6 = 20

II. 1 × 7 + 6 - 4 ÷ 2 = 40

Ans

1. केवल II ✗
2. न तो I और न ही II ✗
3. I और II दोनों ✗
4. केवल I ✓

Question Type : **MCQ**
Question ID : **264330138578**
Option 1 ID : **264330542920**
Option 2 ID : **264330542922**
Option 3 ID : **264330542921**
Option 4 ID : **264330542919**
Status : **Answered**
Chosen Option : **4**

Join Telegram Group "HaryanaJobs.in"

Q.18 निम्नलिखित प्रश्न में कुछ कथन दिए गए हैं और उन कथनों के आधार पर कुछ निष्कर्ष दिए गए हैं। आपको मानना है कि दिए गए कथन सत्य हैं चाहे वे समान्यतः ज्ञात तथ्यों से अलग प्रतीत होते हों। सभी निष्कर्षों को पढ़िए और फिर निश्चय कीजिए कि दिए गए निष्कर्षों में से कौन-सा निष्कर्ष तार्किक रूप से दिए गए कथनों के अनुसार है।

कथन:

I. सभी Z, Y हैं।

II. कुछ Y, B हैं।

निष्कर्ष:

I. कुछ B, Z नहीं हैं।

II. कुछ Y, Z नहीं हैं।

III. कुछ Z, Y हैं।

Ans

✗ 1. दोनों निष्कर्ष II और III कथनों के अनुसार हैं

✗ 2. दोनों निष्कर्ष I और III कथनों के अनुसार हैं

✓ 3. केवल निष्कर्ष III कथनों के अनुसार है

✗ 4. सभी निष्कर्ष कथनों के अनुसार हैं

Question Type : **MCQ**
Question ID : **264330138861**
Option 1 ID : **264330544052**
Option 2 ID : **264330544053**
Option 3 ID : **264330544051**
Option 4 ID : **264330544054**
Status : **Answered**
Chosen Option : **3**

Q.19 निम्नलिखित प्रश्न में, दी गई श्रृंखला में लुप्त संख्या चुनिए ।

342, 365, 388,?, 434, 457

Ans

✗ 1. 425

✗ 2. 430

✗ 3. 435

✓ 4. 411

Question Type : **MCQ**
Question ID : **264330138531**
Option 1 ID : **264330542732**
Option 2 ID : **264330542733**
Option 3 ID : **264330542734**
Option 4 ID : **264330542731**
Status : **Answered**
Chosen Option : **4**

Join Telegram Group "HaryanaJobs.in"

Q.20 कौन-सी उत्तर आकृति प्रश्न आकृति में दिए गए पैटर्न को पूरा करेगी?

Ans

✗ 1. 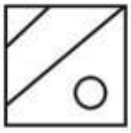

✗ 2. 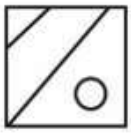

✗ 3.

✓ 4.

Question Type : **MCQ**
Question ID : **264330138870**
Option 1 ID : **264330544088**
Option 2 ID : **264330544090**
Option 3 ID : **264330544089**
Option 4 ID : **264330544087**
Status : **Answered**
Chosen Option : **4**

Section : **General Awareness**

Q.1 करगम लोक नृत्य किस राज्य से संबंधित है?

Ans

✗ 1. हरियाणा

✗ 2. राजस्थान

✓ 3. तमिलनाडु

✗ 4. असम

Question Type : **MCQ**
Question ID : **264330133975**
Option 1 ID : **264330524925**
Option 2 ID : **264330524926**
Option 3 ID : **264330524923**
Option 4 ID : **264330524924**
Status : **Answered**
Chosen Option : **3**

Join Telegram Group "HaryanaJobs.in"

Q.2 ऐसे अपराध, जिनके लिए पुलिस न्यायालय के आदेश के बिना किसी व्यक्ति को गिरफ्तार कर सकती है, उसे _____ कहते हैं।

Ans
1. असंज्ञेय अपराध (Non-Cognizable offences)
2. क्रॉस अपराध (Cross offences)
3. नजरबंदी अपराध (Detention offences)
4. संज्ञेय अपराध (Cognizable offences)

Question Type : **MCQ**
Question ID : **264330138635**
Option 1 ID : **264330543148**
Option 2 ID : **264330543149**
Option 3 ID : **264330543150**
Option 4 ID : **264330543147**
Status : **Answered**
Chosen Option : **3**

Q.3 सोने की खदान के धंसने के कारण खबरों में रहा शिनजियांग (Xinjiang) प्रांत किस देश में स्थित है?

Ans
1. उत्तर कोरिया
2. जापान
3. दक्षिण कोरिया
4. चीन

Question Type : **MCQ**
Question ID : **264330138929**
Option 1 ID : **264330544324**
Option 2 ID : **264330544326**
Option 3 ID : **264330544323**
Option 4 ID : **264330544325**
Status : **Answered**
Chosen Option : **4**

Q.4 "मैग्नस कार्लसन (Magnus Carlsen)" निम्नलिखित में से किस खेल से संबंधित हैं?

Ans
1. शतरंज
2. गोल्फ़
3. मुक्केबाज़ी
4. टेबल टेनिस

Question Type : **MCQ**
Question ID : **264330138300**
Option 1 ID : **264330541808**
Option 2 ID : **264330541809**
Option 3 ID : **264330541810**
Option 4 ID : **264330541807**
Status : **Answered**
Chosen Option : **1**

Join Telegram Group "HaryanaJobs.in"

Q.5 18वीं शताब्दी में, ब्रिटेन में सूती कपड़ा उद्योग के विकास का क्या परिणाम हुआ?

Ans
✔ 1. भारत में कपड़ा उत्पादन में गिरावट
✘ 2. भारत में ब्रिटिश कपड़ा उद्योगों में गिरावट
✘ 3. ब्रिटेन में भारतीय वस्त्रों की मांग में वृद्धि
✘ 4. भारत में भारतीय वस्त्रों की मांग में वृद्धि

Question Type : **MCQ**
Question ID : **264330138647**
Option 1 ID : **264330543198**
Option 2 ID : **264330543197**
Option 3 ID : **264330543195**
Option 4 ID : **264330543196**
Status : **Not Answered**
Chosen Option : **--**

Q.6 वर्ष 1982 के एशियाई खेलों की मेजबानी किस देश ने की थी?

Ans
✘ 1. पाकिस्तान
✔ 2. भारत
✘ 3. चीन
✘ 4. कतर

Question Type : **MCQ**
Question ID : **264330138924**
Option 1 ID : **264330544304**
Option 2 ID : **264330544305**
Option 3 ID : **264330544303**
Option 4 ID : **264330544306**
Status : **Not Answered**
Chosen Option : **--**

Q.7 "एस्किमो (Eskimos)" किस भौगोलिक क्षेत्र से संबंधित हैं?

Ans
✘ 1. सवाना घास के मैदान
✘ 2. शुष्क क्षेत्र
✘ 3. उष्णकटिबंधीय वर्षावन क्षेत्र
✔ 4. ध्रुवीय क्षेत्र

Question Type : **MCQ**
Question ID : **264330138941**
Option 1 ID : **264330544373**
Option 2 ID : **264330544372**
Option 3 ID : **264330544371**
Option 4 ID : **264330544374**
Status : **Answered**
Chosen Option : **4**

Join Telegram Group "HaryanaJobs.in"

Q.8 भारतीय संविधान की प्रस्तावना में, _____ किसी व्यक्ति की गरिमा को सुनिश्चित करता है।

Ans
1. समानता
2. स्वतंत्रता
3. बंधुता
4. न्याय

Question Type : **MCQ**
Question ID : **264330138933**
Option 1 ID : **264330544341**
Option 2 ID : **264330544340**
Option 3 ID : **264330544342**
Option 4 ID : **264330544339**
Status : **Answered**
Chosen Option : **2**

Q.9 अशोक के अभिलेखों के अनुसार निम्नलिखित में से कौनसा मगध साम्राज्य में एक प्रांतीय केंद्र नहीं था?

Ans
1. तोसलि
2. उज्जयिनी
3. इंद्रप्रस्थ
4. तक्षशिला

Question Type : **MCQ**
Question ID : **264330137049**
Option 1 ID : **264330536841**
Option 2 ID : **264330536840**
Option 3 ID : **264330536842**
Option 4 ID : **264330536839**
Status : **Answered**
Chosen Option : **3**

Q.10 The cells having well - organized nucleus with a nuclear membrane are designated as _____.

Ans
1. Cheek cells
2. prokaryotic cells
3. eukaryotic cells
4. autokaryotic cells

Question Type : **MCQ**
Question ID : **264330138310**
Option 1 ID : **264330541847**
Option 2 ID : **264330541848**
Option 3 ID : **264330541850**
Option 4 ID : **264330541849**
Status : **Answered**
Chosen Option : **3**

Join Telegram Group "HaryanaJobs.in"

Q.11 विश्व बैंक वर्गीकरण (World Bank classification) 2020-2021 के अनुसार, भारत _____ की श्रेणी में आता है।

Ans
1. उच्च आय वाले देश ✗
2. उच्च-मध्यम आय वाले देश ✗
3. निम्न-मध्यम आय वाले देश ✓
4. निम्न आय वाले देश ✗

Question Type : **MCQ**
Question ID : **264330134068**
Option 1 ID : **264330525297**
Option 2 ID : **264330525295**
Option 3 ID : **264330525296**
Option 4 ID : **264330525298**
Status : **Answered**
Chosen Option : **3**

Q.12 भारतीय राष्ट्रीय कांग्रेस का पहला अधिवेशन _____ में आयोजित हुआ।

Ans
1. कलकत्ता ✗
2. बंबई ✓
3. लाहौर ✗
4. सूरत ✗

Question Type : **MCQ**
Question ID : **264330137052**
Option 1 ID : **264330536854**
Option 2 ID : **264330536853**
Option 3 ID : **264330536852**
Option 4 ID : **264330536851**
Status : **Answered**
Chosen Option : **2**

Join Telegram Group "HaryanaJobs.in"

Q.13 Fungi can grow on which of the following items?

I. Bread

II. Pickles

III. Leather

IV. Clothes

Select the correct option.

Ans
1. I, II and III
2. I and II
3. I and III
4. I, II, III and IV

Question Type : **MCQ**
Question ID : **264330138934**
Option 1 ID : **264330544345**
Option 2 ID : **264330544343**
Option 3 ID : **264330544344**
Option 4 ID : **264330544346**
Status : **Answered**
Chosen Option : **4**

Q.14 किस प्रकार की कृषि में भूमि का उपयोग भोजन व चारे की फ़सलें उगाने और पशुधन पालन के लिए किया जाता है?

Ans
1. दुग्ध कृषि
2. मिश्रित कृषि
3. रोपण कृषि
4. वाणिज्यिक कृषि

Question Type : **MCQ**
Question ID : **264330133965**
Option 1 ID : **264330524883**
Option 2 ID : **264330524885**
Option 3 ID : **264330524886**
Option 4 ID : **264330524884**
Status : **Answered**
Chosen Option : **2**

Join Telegram Group "HaryanaJobs.in"

Q.15 निम्नलिखित में से कौन-सा अरुणाचल प्रदेश का एक कृषि उत्सव है जो गालो जनजाति द्वारा मनाया जाता है?

Ans
1. लोसर ✗
2. उगादि ✗
3. कर्मा ✗
4. मोपिन ✓

Question Type : **MCQ**
Question ID : **264330137039**
Option 1 ID : **264330536801**
Option 2 ID : **264330536800**
Option 3 ID : **264330536802**
Option 4 ID : **264330536799**
Status : **Answered**
Chosen Option : **4**

Q.16 भारत में कितने जैवमण्डल आरक्षित क्षेत्र हैं?

Ans
1. अठारह ✓
2. सोलह ✗
3. सत्रह ✗
4. उन्नीस ✗

Question Type : **MCQ**
Question ID : **264330138939**
Option 1 ID : **264330544365**
Option 2 ID : **264330544363**
Option 3 ID : **264330544364**
Option 4 ID : **264330544366**
Status : **Answered**
Chosen Option : **1**

Q.17 वर्ष 2023 – 24 के बजट के अनुसार, सरकार द्वारा प्रत्येक 1 रुपए की प्राप्ति में कोरपोरेशन टैक्स (corporation tax) कितना होता है?

Ans
1. 17 पैसे ✗
2. 7 पैसे ✗
3. 15 पैसे ✓
4. 4 पैसे ✗

Question Type : **MCQ**
Question ID : **264330133980**
Option 1 ID : **264330524946**
Option 2 ID : **264330524945**
Option 3 ID : **264330524943**
Option 4 ID : **264330524944**
Status : **Not Answered**
Chosen Option : **--**

Join Telegram Group "HaryanaJobs.in"

Q.18 निम्नलिखित में से कौन तीन प्रमुख प्रकार की शैलों में से एक 'नहीं' है?

Ans
1. आग्नेय शैल
2. चुंबकीय शैल
3. कायांतरित शैल
4. अवसादी शैल

Question Type : **MCQ**
Question ID : **264330138311**
Option 1 ID : **264330541851**
Option 2 ID : **264330541852**
Option 3 ID : **264330541854**
Option 4 ID : **264330541853**
Status : **Answered**
Chosen Option : **2**

Q.19 'द रेस ऑफ माई लाइफ (The Race of My Life)' प्रसिद्ध भारतीय खिलाड़ी _____ की आत्मकथा है।

Ans
1. कपिल देव
2. मिल्खा सिंह
3. सानिया मिर्ज़ा
4. युवराज सिंह

Question Type : **MCQ**
Question ID : **264330133973**
Option 1 ID : **264330524915**
Option 2 ID : **264330524916**
Option 3 ID : **264330524918**
Option 4 ID : **264330524917**
Status : **Answered**
Chosen Option : **2**

Q.20 खजुराहो के मंदिर किस राजवंश के दौरान बनाए गए थे?

Ans
1. नंद वंश
2. चंदेल वंश
3. विजयनगर वंश
4. मौर्य वंश

Question Type : **MCQ**
Question ID : **264330138626**
Option 1 ID : **264330543112**
Option 2 ID : **264330543113**
Option 3 ID : **264330543114**
Option 4 ID : **264330543111**
Status : **Answered**
Chosen Option : **2**

Join Telegram Group "HaryanaJobs.in"

Q.21 गैर नृत्य राजस्थान के _____ समुदाय द्वारा किया जाता है।

Ans
1. गुज्जर
2. जाट
3. भील
4. गोंड

Question Type : **MCQ**
Question ID : **264330138921**
Option 1 ID : **264330544292**
Option 2 ID : **264330544294**
Option 3 ID : **264330544293**
Option 4 ID : **264330544291**
Status : **Answered**
Chosen Option : **3**

Q.22 दक्कन में मराठों द्वारा वसूले जाने वाले भू-राजस्व के 25 प्रतिशत को _____ कहा जाता था।

Ans
1. चौथ
2. भोग
3. भाग
4. सरदेशमुखी

Question Type : **MCQ**
Question ID : **264330138318**
Option 1 ID : **264330541881**
Option 2 ID : **264330541880**
Option 3 ID : **264330541882**
Option 4 ID : **264330541879**
Status : **Answered**
Chosen Option : **4**

Q.23 इलियास खान का जन्म लखनऊ के संगीतकारों के घराने में हुआ था। वह _____ बजाने के लिए जाने जाते थे।

Ans
1. सितार
2. वीना
3. तबला
4. मृदंगम

Question Type : **MCQ**
Question ID : **264330138927**
Option 1 ID : **264330544315**
Option 2 ID : **264330544316**
Option 3 ID : **264330544318**
Option 4 ID : **264330544317**
Status : **Not Answered**
Chosen Option : **--**

Join Telegram Group "HaryanaJobs.in"

Q.24 मानव शरीर का सामान्य तापमान _____ होता है।

Ans
✔ 1. 37° C
✘ 2. 32° C
✘ 3. 31° C
✘ 4. 34° C

Question Type : **MCQ**
Question ID : **264330138312**
Option 1 ID : **264330541858**
Option 2 ID : **264330541856**
Option 3 ID : **264330541855**
Option 4 ID : **264330541857**
Status : **Answered**
Chosen Option : **1**

Q.25 अगस्त 2022 में, भारत के प्रधानमंत्री ने _____ में होमी भाभा कैंसर अस्पताल का उद्घाटन किया।

Ans
✔ 1. मोहाली
✘ 2. नई दिल्ली
✘ 3. चेन्नई
✘ 4. पुणे

Question Type : **MCQ**
Question ID : **264330138930**
Option 1 ID : **264330544327**
Option 2 ID : **264330544330**
Option 3 ID : **264330544329**
Option 4 ID : **264330544328**
Status : **Answered**
Chosen Option : **1**

Section : **English Language and Comprehension**

Q.1 Find the part of the given sentence that has an error in it. If there is no error, choose 'No error'.
Adding aloe vera gel will prevent the hand sanitizer of drying out your skin.

Ans
✘ 1. No error
✔ 2. will prevent the hand sanitizer of
✘ 3. Adding aloe vera gel
✘ 4. drying out your skin.

Question Type : **MCQ**
Question ID : **264330136875**
Option 1 ID : **264330536190**
Option 2 ID : **264330536188**
Option 3 ID : **264330536187**
Option 4 ID : **264330536189**
Status : **Answered**
Chosen Option : **2**

Join Telegram Group "HaryanaJobs.in"

Q.2 Choose the word that can substitute the given group of words.

The young of a frog

Ans
✔ 1. Tadpole
✘ 2. Kitten
✘ 3. Antelope
✘ 4. Pup

Question Type : **MCQ**
Question ID : **264330136888**
Option 1 ID : **264330536238**
Option 2 ID : **264330536237**
Option 3 ID : **264330536236**
Option 4 ID : **264330536235**
Status : **Answered**
Chosen Option : **1**

Q.3 Select the most appropriate option to fill in the blank.

Wheat is widely _____ but the output is not large.

Ans
✘ 1. gross
✘ 2. groan
✔ 3. grown
✘ 4. grilled

Question Type : **MCQ**
Question ID : **264330135332**
Option 1 ID : **264330530235**
Option 2 ID : **264330530237**
Option 3 ID : **264330530238**
Option 4 ID : **264330530236**
Status : **Answered**
Chosen Option : **3**

Q.4 Select the appropriate synonym for the underlined word.

Make sure that you always challenge yourself.

Ans
✘ 1. Approve
✘ 2. Carry
✘ 3. Place
✔ 4. Question

Question Type : **MCQ**
Question ID : **264330136889**
Option 1 ID : **264330536241**
Option 2 ID : **264330536239**
Option 3 ID : **264330536242**
Option 4 ID : **264330536240**
Status : **Answered**
Chosen Option : **4**

Join Telegram Group "HaryanaJobs.in"

Q.5 Select the most appropriate word for the given group of words.

Tending to associate with others of one's kind

Ans
1. Pungent ✗
2. Venial ✗
3. Gregarious ✓
4. Pedantic ✗

Question Type : **MCQ**
Question ID : **264330136679**
Option 1 ID : **264330535434**
Option 2 ID : **264330535433**
Option 3 ID : **264330535431**
Option 4 ID : **264330535432**
Status : **Answered**
Chosen Option : **2**

Q.6 Select the most appropriate antonym of the given word.

Viscous

Ans
1. Watery ✓
2. Grim ✗
3. Brutal ✗
4. Thick ✗

Question Type : **MCQ**
Question ID : **264330136735**
Option 1 ID : **264330535649**
Option 2 ID : **264330535648**
Option 3 ID : **264330535647**
Option 4 ID : **264330535650**
Status : **Not Answered**
Chosen Option : **--**

Q.7 In the following question, out of the given four alternatives, select the alternative which best expresses the meaning of the Idiom/Phrase.
A blind spot

Ans
1. A person who is blind ✗
2. A situation where no progress is made ✗
3. A person with no emotional feelings ✗
4. ✓
An area in your range of vision that you cannot see properly

Question Type : **MCQ**
Question ID : **264330136894**
Option 1 ID : **264330536262**
Option 2 ID : **264330536261**
Option 3 ID : **264330536260**
Option 4 ID : **264330536259**
Status : **Answered**
Chosen Option : **2**

Join Telegram Group "HaryanaJobs.in"

Q.8 Fill in the blank with the most appropriate choice.

His intent was to become sole lord and to _____ his tiny principality.

Ans

✗ 1. subsidize

✗ 2. jeopardize

✗ 3. methodize

✓ 4. aggrandize

Question Type : **MCQ**
Question ID : **264330135774**
Option 1 ID : **264330531975**
Option 2 ID : **264330531978**
Option 3 ID : **264330531976**
Option 4 ID : **264330531977**
Status : **Answered**
Chosen Option : **3**

Q.9 Find the part of the given sentence that has an error in it. If there is no error, choose 'No error'.

In my opinion, you should went for higher studies in London.

Ans

✗ 1. No error

✗ 2. In my opinion,

✓ 3. you should went for

✗ 4. higher studies in London.

Question Type : **MCQ**
Question ID : **264330135257**
Option 1 ID : **264330529950**
Option 2 ID : **264330529947**
Option 3 ID : **264330529948**
Option 4 ID : **264330529949**
Status : **Answered**
Chosen Option : **3**

Q.10 Improve the underlined part of the sentence. Choose 'No improvement' as an answer if the sentence is grammatically correct.

That movie is so sad; the ending always makes me bawling.

Ans

✗ 1. made me bawl

✗ 2. No improvement

✓ 3. makes me bawl

✗ 4. makes me bawled

Question Type : **MCQ**
Question ID : **264330136877**
Option 1 ID : **264330536195**
Option 2 ID : **264330536198**
Option 3 ID : **264330536197**
Option 4 ID : **264330536196**
Status : **Answered**
Chosen Option : **3**

Join Telegram Group "HaryanaJobs.in"

Q.11 Improve the underlined part of the sentence. Choose 'No improvement' as an answer if the sentence is grammatically correct.
It is the most effective means of mass communication.

Ans
1. the most effectively
2. a most effectives
3. a most effecting
4. No improvement

Question Type : **MCQ**
Question ID : **264330141162**
Option 1 ID : **264330552992**
Option 2 ID : **264330552991**
Option 3 ID : **264330552993**
Option 4 ID : **264330552994**
Status : **Answered**
Chosen Option : **4**

Q.12 Choose the sentence with no spelling error.

Ans
1. Protest is also a safety valvve.
2. Protest is also a saffety valve.
3. Protast is also a safety valve.
4. Protest is also a safety valve.

Question Type : **MCQ**
Question ID : **264330135331**
Option 1 ID : **264330530234**
Option 2 ID : **264330530232**
Option 3 ID : **264330530231**
Option 4 ID : **264330530233**
Status : **Answered**
Chosen Option : **4**

Q.13 Select the most appropriate synonym to substitute the bracketed word in the given sentence.
In the twentieth century, many (radical) intellectuals embraced the mass media.

Ans
1. sabbatical
2. egotistical
3. sceptical
4. fanatical

Question Type : **MCQ**
Question ID : **264330135784**
Option 1 ID : **264330532012**
Option 2 ID : **264330532014**
Option 3 ID : **264330532011**
Option 4 ID : **264330532013**
Status : **Answered**
Chosen Option : **4**

Join Telegram Group "HaryanaJobs.in"

Q.14 Find the part of the given sentence that has an error in it. If there is no error, choose 'No error'.
Restoring soil health would help at mitigate the effects of climate change.

Ans
✔ 1. help at mitigate the
✘ 2. Restoring soil health would
✘ 3. effects of climate change.
✘ 4. No error

Question Type : **MCQ**
Question ID : **264330136874**
Option 1 ID : **264330536184**
Option 2 ID : **264330536183**
Option 3 ID : **264330536185**
Option 4 ID : **264330536186**
Status : **Answered**
Chosen Option : **1**

Q.15 Select the most appropriate option to substitute the bracketed segment in the given sentence. If there is no need to substitute it, select 'no substitution required'.
The unit twitched like a bird (preening it's plumage and becomes motionless).

Ans
✘ 1. No substitution required
✔ 2. preening its plumage and became motionless
✘ 3. to preen it's plumage and becomes motionless
✘ 4. preening it's plumage while becoming motionless

Question Type : **MCQ**
Question ID : **264330135770**
Option 1 ID : **264330531962**
Option 2 ID : **264330531959**
Option 3 ID : **264330531960**
Option 4 ID : **264330531961**
Status : **Answered**
Chosen Option : **2**

Q.16 Select the appropriate antonym for the underlined word.
The arms and legs lay in a careless way.

Ans
✘ 1. Forgetful
✘ 2. Unsafe
✘ 3. Neglectful
✔ 4. Vigilant

Question Type : **MCQ**
Question ID : **264330136892**
Option 1 ID : **264330536254**
Option 2 ID : **264330536253**
Option 3 ID : **264330536251**
Option 4 ID : **264330536252**
Status : **Answered**
Chosen Option : **4**

Join Telegram Group "HaryanaJobs.in"

Q.17 Select the most appropriate meaning of the given idiom.

Get down to brass tacks

Ans
1. Compromise, cooperation between people
2. To become serious about something
3. Get fired from the job
4. To be ready

Question Type : **MCQ**
Question ID : **264330136685**
Option 1 ID : **264330535457**
Option 2 ID : **264330535455**
Option 3 ID : **264330535456**
Option 4 ID : **264330535458**
Status : **Answered**
Chosen Option : **2**

Q.18 Select the most appropriate option to fill in the blank.

Police used _____ evidence to convict a victim who was innocent.

Ans
1. stunted
2. authentic
3. hateful
4. fabricated

Question Type : **MCQ**
Question ID : **264330136898**
Option 1 ID : **264330536275**
Option 2 ID : **264330536278**
Option 3 ID : **264330536276**
Option 4 ID : **264330536277**
Status : **Answered**
Chosen Option : **2**

Q.19 Choose the incorrectly spelt word.

Ans
1. Locker
2. Rift
3. Tihgt
4. Stock

Question Type : **MCQ**
Question ID : **264330136895**
Option 1 ID : **264330536265**
Option 2 ID : **264330536263**
Option 3 ID : **264330536266**
Option 4 ID : **264330536264**
Status : **Answered**
Chosen Option : **3**

Join Telegram Group "HaryanaJobs.in"

Q.20 A sentence has been given with a blank to be filled with an appropriate option. Choose the correct alternative.
The person driving the car _____ control over the wheels and knocked her down.

Ans
✗ 1. loose
✗ 2. losing
✓ 3. lost
✗ 4. lose

Question Type : **MCQ**
Question ID : **264330136879**
Option 1 ID : **264330536205**
Option 2 ID : **264330536206**
Option 3 ID : **264330536204**
Option 4 ID : **264330536203**
Status : **Answered**
Chosen Option : **3**

Comprehension:

In the following passage some words have been deleted. Fill in the blanks with the help of the alternatives given. Select the most appropriate option for each number.

Salvador Dali (1) _____ a prominent Spanish surrealist painter (2) _____ in Figueres, Catalonia, on 11 May 1904. Dali's father was strict in the education of his children unlike (3) _____ mother. Dali had a brother named Salvador (4) _____ was born nine months before him and died of gastroenteritis. When he was five, Dalí was taken to his brother's grave and was told that he was his brother's (5) _____.

SubQuestion No : 21

Q.21 Select the most appropriate option to fill in the blank No. 1.

Ans
✗ 1. has
✗ 2. is
✓ 3. was
✗ 4. were

Question Type : **MCQ**
Question ID : **264330136726**
Option 1 ID : **264330535614**
Option 2 ID : **264330535611**
Option 3 ID : **264330535612**
Option 4 ID : **264330535613**
Status : **Answered**
Chosen Option : **3**

Join Telegram Group "HaryanaJobs.in"

Comprehension:

In the following passage some words have been deleted. Fill in the blanks with the help of the alternatives given. Select the most appropriate option for each number.

Salvador Dali (1) _____ a prominent Spanish surrealist painter (2) _____ in Figueres, Catalonia, on 11 May 1904. Dali's father was strict in the education of his children unlike (3) _____ mother. Dali had a brother named Salvador (4) _____ was born nine months before him and died of gastroenteritis. When he was five, Dalí was taken to his brother's grave and was told that he was his brother's (5) _____.

SubQuestion No : 22

Q.22 Select the most appropriate option to fill in the blank No. 2.

Ans

✗ 1. bought

✗ 2. rooted

✓ 3. born

✗ 4. brought

Question Type : **MCQ**
Question ID : **264330136727**
Option 1 ID : **264330535617**
Option 2 ID : **264330535618**
Option 3 ID : **264330535615**
Option 4 ID : **264330535616**
Status : **Answered**
Chosen Option : **3**

Comprehension:

In the following passage some words have been deleted. Fill in the blanks with the help of the alternatives given. Select the most appropriate option for each number.

Salvador Dali (1) _____ a prominent Spanish surrealist painter (2) _____ in Figueres, Catalonia, on 11 May 1904. Dali's father was strict in the education of his children unlike (3) _____ mother. Dali had a brother named Salvador (4) _____ was born nine months before him and died of gastroenteritis. When he was five, Dalí was taken to his brother's grave and was told that he was his brother's (5) _____.

SubQuestion No : 23

Q.23 Select the most appropriate option to fill in the blank No. 3.

Ans

✗ 1. her

✗ 2. him

✗ 3. their

✓ 4. his

Question Type : **MCQ**
Question ID : **264330136728**
Option 1 ID : **264330535622**
Option 2 ID : **264330535621**
Option 3 ID : **264330535619**
Option 4 ID : **264330535620**
Status : **Answered**
Chosen Option : **1**

Join Telegram Group "HaryanaJobs.in"

Comprehension:

In the following passage some words have been deleted. Fill in the blanks with the help of the alternatives given. Select the most appropriate option for each number.

Salvador Dali (1) _____ a prominent Spanish surrealist painter (2) _____ in Figueres, Catalonia, on 11 May 1904. Dali's father was strict in the education of his children unlike (3) _____ mother. Dali had a brother named Salvador (4) _____ was born nine months before him and died of gastroenteritis. When he was five, Dalí was taken to his brother's grave and was told that he was his brother's (5) _____.

SubQuestion No : 24

Q.24 Select the most appropriate option to fill in the blank No. 4.

Ans

✔ 1. who

✘ 2. whose

✘ 3. that

✘ 4. whom

Question Type : **MCQ**
Question ID : **264330136729**
Option 1 ID : **264330535623**
Option 2 ID : **264330535625**
Option 3 ID : **264330535626**
Option 4 ID : **264330535624**
Status : **Answered**
Chosen Option : **1**

Comprehension:

In the following passage some words have been deleted. Fill in the blanks with the help of the alternatives given. Select the most appropriate option for each number.

Salvador Dali (1) _____ a prominent Spanish surrealist painter (2) _____ in Figueres, Catalonia, on 11 May 1904. Dali's father was strict in the education of his children unlike (3) _____ mother. Dali had a brother named Salvador (4) _____ was born nine months before him and died of gastroenteritis. When he was five, Dalí was taken to his brother's grave and was told that he was his brother's (5) _____.

SubQuestion No : 25

Q.25 Select the most appropriate option to fill in the blank No. 5.

Ans

✘ 1. ordination

✘ 2. detonation

✔ 3. reincarnation

✘ 4. stagnation

Question Type : **MCQ**
Question ID : **264330136730**
Option 1 ID : **264330535627**
Option 2 ID : **264330535628**
Option 3 ID : **264330535630**
Option 4 ID : **264330535629**
Status : **Answered**
Chosen Option : **3**

Join Telegram Group "HaryanaJobs.in"

Multi Tasking Non Technical Staff and Havaldar CBIC and CBN Examination 2022

Roll Number	HaryanaJobs.in
Candidate Name	HaryanaJobs.in
Venue Name	TCS Gito Bitan
Exam Date	02/05/2023
Exam Time	12:00 PM - 2:00 PM
Subject	MTS Non Tech Havaldar CBIC and CBN Examination 2022

Section : **Numerical and Mathematical Ability**

Q.1 एक व्यक्ति ने 150 कुर्सियाँ बेचीं और उसे 25 कुर्सियों के विक्रय मूल्य के बराबर लाभ हुआ। उसका लाभ प्रतिशत ज्ञात कीजिए।

Ans

✗ 1. 13%

✗ 2. 15%

✓ 3. 20%

✗ 4. 18%

Question Type : **MCQ**
Question ID : **264330135071**
Option 1 ID : **264330529222**
Option 2 ID : **264330529219**
Option 3 ID : **264330529220**
Option 4 ID : **264330529221**
Status : **Answered**
Chosen Option : **3**

Q.2 एक परिवार के 6 सदस्यों की औसत आयु 20 वर्ष है। यदि नौकर की आयु को भी जोड़ लिया जाए, तो औसत आयु में 20 प्रतिशत की वृद्धि हो जाती है। नौकर की आयु कितनी है?

Ans

✗ 1. 50 वर्ष

✗ 2. 56 वर्ष

✗ 3. 52 वर्ष

✓ 4. 48 वर्ष

Question Type : **MCQ**
Question ID : **264330139000**
Option 1 ID : **264330544610**
Option 2 ID : **264330544609**
Option 3 ID : **264330544607**
Option 4 ID : **264330544608**
Status : **Answered**
Chosen Option : **4**

Join Telegram Group "HaryanaJobs.in"

Q.3 एक बगीचे की सफाई में 6 घंटे का समय लगता है। 2 घंटे 30 मिनट में बगीचे का कितना हिस्सा साफ किया जा सकता है?

Ans
1. $\frac{5}{8}$ ✗
2. $\frac{5}{12}$ ✓
3. $\frac{5}{6}$ ✗
4. $\frac{5}{2}$ ✗

Question Type : **MCQ**
Question ID : **264330133829**
Option 1 ID : **264330524342**
Option 2 ID : **264330524339**
Option 3 ID : **264330524341**
Option 4 ID : **264330524340**
Status : **Answered**
Chosen Option : **2**

Q.4 $(0.18 \div 0.9 + 0.8) \times 0.001$ का मान है:

Ans
1. 0.001 ✓
2. 0.1 ✗
3. 0.01 ✗
4. 1.001 ✗

Question Type : **MCQ**
Question ID : **264330133627**
Option 1 ID : **264330523532**
Option 2 ID : **264330523534**
Option 3 ID : **264330523533**
Option 4 ID : **264330523531**
Status : **Answered**
Chosen Option : **1**

Q.5 दो संख्याएँ 11:6 के अनुपात में हैं। यदि उनका महत्तम समापवर्तक (HCF) 4 है, तो सबसे छोटी संख्या ज्ञात कीजिए।

Ans
1. 12 ✗
2. 18 ✗
3. 30 ✗
4. 24 ✓

Question Type : **MCQ**
Question ID : **264330135132**
Option 1 ID : **264330529464**
Option 2 ID : **264330529465**
Option 3 ID : **264330529466**
Option 4 ID : **264330529463**
Status : **Answered**
Chosen Option : **4**

Join Telegram Group "HaryanaJobs.in"

Q.6 Rs.14136 की राशि को A, B और C के बीच इस प्रकार बाँटिए कि A के हिस्से का 2 गुना, B के हिस्से का 3 गुना और C के हिस्से का 5 गुना सभी बराबर हों। C का हिस्सा कितना है?

Ans

✗ 1. Rs.456
✗ 2. Rs.1413
✓ 3. Rs.2736
✗ 4. Rs.3680

Question Type : **MCQ**
Question ID : **264330133636**
Option 1 ID : **264330523567**
Option 2 ID : **264330523568**
Option 3 ID : **264330523569**
Option 4 ID : **264330523570**
Status : **Answered**
Chosen Option : **3**

Q.7 जब एक तार को एक वर्ग के आकार में मोड़ा जाता है, तो इसके द्वारा परिबद्ध क्षेत्रफल 5929 cm^2 होता है। यदि तार को एक वृत्त के आकार में मोड़ा जाए, तो तार द्वारा परिबद्ध क्षेत्रफल कितना होगा?

Ans

✓ 1. 7546 cm^2
✗ 2. 8542 cm^2
✗ 3. 7632 cm^2
✗ 4. 6954 cm^2

Question Type : **MCQ**
Question ID : **264330138029**
Option 1 ID : **264330540725**
Option 2 ID : **264330540726**
Option 3 ID : **264330540724**
Option 4 ID : **264330540723**
Status : **Answered**
Chosen Option : **2**

Q.8 यदि $A + \{5 \times 8 \div 2^2\} \times 11 = 134$, तो A का मान क्या है?

Ans

✗ 1. 4
✗ 2. 14
✓ 3. 24
✗ 4. 34

Question Type : **MCQ**
Question ID : **264330138036**
Option 1 ID : **264330540751**
Option 2 ID : **264330540752**
Option 3 ID : **264330540753**
Option 4 ID : **264330540754**
Status : **Answered**
Chosen Option : **3**

Join Telegram Group "HaryanaJobs.in"

Q.9 एक धनराशि पर 7 वर्षों में 6% वार्षिक दर पर Rs. 3360 का साधारण ब्याज प्राप्त होता है। वह धनराशि ज्ञात कीजिए।

Ans

1. ✗ Rs. 9500
2. ✗ Rs. 6000
3. ✓ Rs. 8000
4. ✗ Rs. 7500

Question Type : **MCQ**
Question ID : **264330135142**
Option 1 ID : **264330529506**
Option 2 ID : **264330529503**
Option 3 ID : **264330529505**
Option 4 ID : **264330529504**
Status : **Answered**
Chosen Option : **3**

Q.10 दो संख्याओं का अनुपात 5 : 9 है। यदि बड़ी संख्या में 6 जोड़ा जाए और छोटी संख्या में से 6 घटाया जाए, तो बड़ी संख्या छोटी संख्या का 6 गुना हो जाती है। संख्याएँ क्या हैं?

Ans

1. ✗ 20 और 36
2. ✗ 15 और 27
3. ✓ 10 और 18
4. ✗ 25 और 45

Question Type : **MCQ**
Question ID : **264330133635**
Option 1 ID : **264330523564**
Option 2 ID : **264330523563**
Option 3 ID : **264330523565**
Option 4 ID : **264330523566**
Status : **Answered**
Chosen Option : **3**

Q.11 अंकित मूल्य क्रय मूल्य से 10% अधिक है। अंकित मूल्य पर 10% का बट्टा दिया जाता है। लाभ या हानि प्रतिशत क्या है?

Ans

1. ✗ 1% लाभ
2. ✓ 1% हानि
3. ✗ 5% लाभ
4. ✗ 5% हानि

Question Type : **MCQ**
Question ID : **264330133634**
Option 1 ID : **264330523560**
Option 2 ID : **264330523559**
Option 3 ID : **264330523562**
Option 4 ID : **264330523561**
Status : **Answered**
Chosen Option : **2**

Join Telegram Group "HaryanaJobs.in"

Q.12 निम्नलिखित दंड आलेख में वर्ष 2021 के दौरान एक शहर में हुई दुर्घटनाओं की संख्या को दर्शाया गया है।

B = दुपहिया वाहनों और बसों की दुर्घटनाओं में अंतर।

B, कुल दुर्घटनाओं का कितना प्रतिशत है?

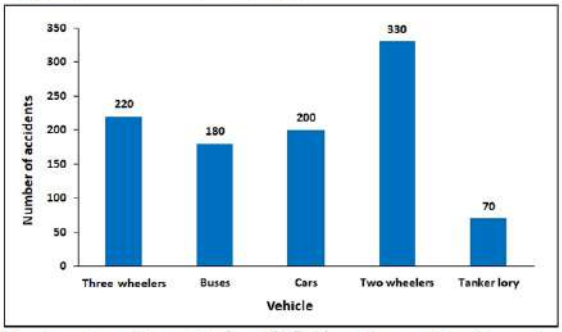

Number of accidents = दुर्घटनाओं की संख्या Buses = बस Two wheelers = दुपहिया वाहन Vehicle = वाहन

Ans
✔ 1. 15%
✘ 2. 18%
✘ 3. 10%
✘ 4. 33%

Question Type : **MCQ**
Question ID : **264330133643**
Option 1 ID : **264330523596**
Option 2 ID : **264330523598**
Option 3 ID : **264330523597**
Option 4 ID : **264330523595**
Status : **Answered**
Chosen Option : **1**

Q.13 3.6 मीटर परिमाप वाले अर्धवृत्त का क्षेत्रफल क्या होगा?

Ans
✔ 1. $0.77\ m^2$
✘ 2. $1.54\ m^2$
✘ 3. $1.76\ m^2$
✘ 4. $1.10\ m^2$

Question Type : **MCQ**
Question ID : **264330133834**
Option 1 ID : **264330524359**
Option 2 ID : **264330524362**
Option 3 ID : **264330524361**
Option 4 ID : **264330524360**
Status : **Answered**
Chosen Option : **3**

Join Telegram Group "HaryanaJobs.in"

Q.14 एक सेंटर टेबल को Rs.13440 में बेचने पर अर्जित लाभ प्रतिशत समान सेंटर टेबल को Rs.10560 में बेचने पर हुई हानि के प्रतिशत के बराबर है। 20% का लाभ अर्जित करने के लिए इस टेबल को किस मूल्य पर बेचा जाना चाहिए?

Ans

✔ 1. Rs.14400

✘ 2. Rs.18000

✘ 3. Rs.24000

✘ 4. Rs.12000

Question Type : **MCQ**
Question ID : **264330133633**
Option 1 ID : **264330523556**
Option 2 ID : **264330523558**
Option 3 ID : **264330523557**
Option 4 ID : **264330523555**
Status : **Answered**
Chosen Option : **1**

Q.15 ग्यारह दोस्तों में हर एक ने एक टूर पर Rs. 18 खर्च किए और बारहवें दोस्त ने उन सभी बारह दोस्तों के औसत खर्च से Rs. 11 कम खर्च किए। बारह दोस्तों द्वारा खर्च की गई कुल धनराशि कितनी है?

Ans

✘ 1. Rs.212

✘ 2. Rs.208

✔ 3. Rs.204

✘ 4. Rs.215

Question Type : **MCQ**
Question ID : **264330137178**
Option 1 ID : **264330537355**
Option 2 ID : **264330537356**
Option 3 ID : **264330537358**
Option 4 ID : **264330537357**
Status : **Answered**
Chosen Option : **3**

Q.16 नीचे दी गई तालिका में वर्ष 2014 से 2017 के बीच दो कंपनियों द्वारा बेचे गए म्यूजिक सिस्टम की संख्या को दर्शाया गया है।

कंपनी A और कंपनी B की औसत बिक्री में कितना अंतर है?

Year	Company A	Company B
2014	5640	6980
2015	8412	10512
2016	7148	8620
2017	8424	10020

Year - वर्ष, Company A - कंपनी A, Company B - कंपनी B

Ans

✔ 1. 1627

✘ 2. 7406

✘ 3. 9033

✘ 4. 2016

Question Type : **MCQ**
Question ID : **264330138052**
Option 1 ID : **264330540815**
Option 2 ID : **264330540817**
Option 3 ID : **264330540816**
Option 4 ID : **264330540818**
Status : **Answered**
Chosen Option : **4**

Join Telegram Group "HaryanaJobs.in"

Q.17 एक पुलिसकर्मी को एक चोर 150 m की दूरी पर दिखाई देता है। चोर भागने लगता है और पुलिसकर्मी उसका पीछा करता है। चोर और पुलिसकर्मी क्रमशः 8 kmph और 10 kmph की चाल से दौड़ते हैं। पुलिसकर्मी चोर को कितनी दूरी पर पकड़ लेगा?

Ans

✔ 1. 750 मीटर

✘ 2. 1000 मीटर

✘ 3. 500 मीटर

✘ 4. 850 मीटर

Question Type : **MCQ**
Question ID : **264330133639**
Option 1 ID : **264330523581**
Option 2 ID : **264330523579**
Option 3 ID : **264330523580**
Option 4 ID : **264330523582**
Status : **Answered**
Chosen Option : **1**

Q.18 Rs. 7205 को चक्रवृद्धि ब्याज (वार्षिक रूप से संयोजित) की एक योजना में निवेश किया जाता है। यदि ब्याज दर 20% वार्षिक है, तो 1 वर्ष में अर्जित ब्याज (Rs में) कितना है?

Ans

✘ 1. Rs. 1544

✘ 2. Rs. 1540

✘ 3. Rs. 1422

✔ 4. Rs. 1441

Question Type : **MCQ**
Question ID : **264330135143**
Option 1 ID : **264330529508**
Option 2 ID : **264330529509**
Option 3 ID : **264330529510**
Option 4 ID : **264330529507**
Status : **Answered**
Chosen Option : **4**

Q.19 10 संख्याओं का औसत 42 है। यदि प्रत्येक संख्या में 5 की वृद्धि कर दी जाए, तो नया औसत क्या होगा?

Ans

✘ 1. 57

✘ 2. 42

✘ 3. 92

✔ 4. 47

Question Type : **MCQ**
Question ID : **264330133629**
Option 1 ID : **264330523540**
Option 2 ID : **264330523541**
Option 3 ID : **264330523539**
Option 4 ID : **264330523542**
Status : **Answered**
Chosen Option : **4**

Join Telegram Group "HaryanaJobs.in"

Q.20 यदि किसी संख्या का 33.33%, 16 में जोड़ा जाता है, तो परिणाम वही संख्या होती है। वह संख्या ज्ञात कीजिए।

Ans
1. 30
2. 36
3. 24
4. 33

Question Type : **MCQ**
Question ID : **264330135136**
Option 1 ID : **264330529482**
Option 2 ID : **264330529480**
Option 3 ID : **264330529481**
Option 4 ID : **264330529479**
Status : **Answered**
Chosen Option : **3**

Section : **Reasoning Ability and Problem Solving**

Q.1 एक निश्चित कूट भाषा में, 'ACTOR' को '52' लिखा जाता है और 'PACK' को '27' लिखा जाता है। उस कूट भाषा में 'SEVEN' को कैसे लिखा जाएगा?

Ans
1. 72
2. 60
3. 65
4. 59

Question Type : **MCQ**
Question ID : **264330137350**
Option 1 ID : **264330538030**
Option 2 ID : **264330538028**
Option 3 ID : **264330538027**
Option 4 ID : **264330538029**
Status : **Answered**
Chosen Option : **4**

Q.2 पाँच मित्र X, Y, Z, A और B एक परिधि में केंद्र की ओर मुख करके बैठे हैं। X, Y के ठीक बाएँ पर और Z के ठीक दाएँ पर है। B, A के ठीक दाएँ पर है। A के ठीक बाएँ पर कौन है?

Ans
1. Z
2. X
3. Y
4. B

Question Type : **MCQ**
Question ID : **264330133373**
Option 1 ID : **264330522525**
Option 2 ID : **264330522524**
Option 3 ID : **264330522523**
Option 4 ID : **264330522526**
Status : **Answered**
Chosen Option : **3**

Join Telegram Group "HaryanaJobs.in"

Q.3 पाँच मित्र अमन, बिराज, चमन, सौरव और राजेश एक वृत्ताकार मेज़ के चारों ओर केंद्र की ओर मुख करके बैठे हैं। अमन, चमन के ठीक दाएँ पर है, जो सौरव के दाएँ से दूसरे स्थान पर है। बिराज, चमन के ठीक बाएँ पर है। अमन के दाएँ से दूसरे स्थान पर कौन है?

Ans
✔ 1. सौरव
✘ 2. राजेश
✘ 3. बिराज
✘ 4. चमन

Question Type : **MCQ**
Question ID : **264330133372**
Option 1 ID : **264330522519**
Option 2 ID : **264330522521**
Option 3 ID : **264330522522**
Option 4 ID : **264330522520**
Status : **Answered**
Chosen Option : **2**

Q.4 दी गई श्रृंखला में निम्नलिखित में से कौन-सी संख्या प्रश्न चिन्ह (?) के स्थान पर आएगी?
7, 14, 21, 28, 35, 42, 49, ?

Ans
✘ 1. 63
✔ 2. 56
✘ 3. 68
✘ 4. 82

Question Type : **MCQ**
Question ID : **264330133378**
Option 1 ID : **264330522545**
Option 2 ID : **264330522544**
Option 3 ID : **264330522546**
Option 4 ID : **264330522543**
Status : **Answered**
Chosen Option : **2**

Q.5 दी गई श्रृंखला में निम्नलिखित में से कौन-सी संख्या प्रश्न चिन्ह (?) के स्थान पर आएगी?
7, 7, 5, 15, 11, 55, 49, 343, ?

Ans
✘ 1. 395
✔ 2. 335
✘ 3. 194
✘ 4. 293

Question Type : **MCQ**
Question ID : **264330135033**
Option 1 ID : **264330529067**
Option 2 ID : **264330529069**
Option 3 ID : **264330529070**
Option 4 ID : **264330529068**
Status : **Answered**
Chosen Option : **2**

Join Telegram Group "HaryanaJobs.in"

Q.6 किसी एक खास कूट भाषा में, '231' का अर्थ 'Pant is Brown' है,'307' का अर्थ 'His Brown Shirt' है, और '781' का अर्थ 'Shirt and Pant' है। 'is' के लिए क्या कोड होगा?

Ans
1. 8 ✗
2. 0 ✗
3. 1 ✗
4. 2 ✓

Question Type : **MCQ**
Question ID : **264330133471**
Option 1 ID : **264330522918**
Option 2 ID : **264330522916**
Option 3 ID : **264330522917**
Option 4 ID : **264330522915**
Status : **Answered**
Chosen Option : **4**

Q.7 दिए गए पैटर्न का ध्यानपूर्वक अध्ययन कीजिए और उस संख्या को चुनिए जो इसमें प्रश्न चिन्ह (?) के स्थान पर आ सकती है।
प्रथम पंक्ति- 14, 42, 84
द्वितीय पंक्ति- 28, 84, 168
तृतीय पंक्ति- 19, 57, ?

Ans
1. 114 ✓
2. 126 ✗
3. 112 ✗
4. 129 ✗

Question Type : **MCQ**
Question ID : **264330133380**
Option 1 ID : **264330522554**
Option 2 ID : **264330522552**
Option 3 ID : **264330522553**
Option 4 ID : **264330522551**
Status : **Answered**
Chosen Option : **1**

Q.8 उस विकल्प को चुनिए जो तीसरी संख्या से ठीक उसी प्रकार संबंधित है जिस प्रकार दूसरी संख्या पहली संख्या से संबंधित है।
9 : 28 :: 13 : ?

Ans
1. 28 ✗
2. 39 ✗
3. 40 ✓
4. 54 ✗

Question Type : **MCQ**
Question ID : **264330135035**
Option 1 ID : **264330529078**
Option 2 ID : **264330529075**
Option 3 ID : **264330529076**
Option 4 ID : **264330529077**
Status : **Answered**
Chosen Option : **3**

Join Telegram Group "HaryanaJobs.in"

Q.9 दिए गए समीकरण को सही करने के लिए किन दो संख्याओं को आपस में बदला जाना चाहिए?
13 + 4 ÷ 16 × 5 − 22 = 11

Ans
1. 13 और 16
2. 13 और 22
3. 16 और 22
4. 4 और 16

Question Type : **MCQ**
Question ID : **264330133381**
Option 1 ID : **264330522555**
Option 2 ID : **264330522558**
Option 3 ID : **264330522557**
Option 4 ID : **264330522556**
Status : **Answered**
Chosen Option : **4**

Q.10 निम्नलिखित में से कौन-सा अक्षर-समूह दी गई श्रृंखला में रिक्त स्थानों को पूरा करेगा ?
ca_pcaa_caa_caap_aap

Ans
1. appc
2. appp
3. aapp
4. aacp

Question Type : **MCQ**
Question ID : **264330133366**
Option 1 ID : **264330522498**
Option 2 ID : **264330522495**
Option 3 ID : **264330522496**
Option 4 ID : **264330522497**
Status : **Answered**
Chosen Option : **1**

Q.11 यदि A का अर्थ 'जोड़ना', B का अर्थ 'गुणा करना', C का अर्थ 'घटाना' और D का अर्थ 'भाग' है, तो निम्नलिखित समीकरण का मान क्या होगा?
14 C (18 D 3) A 5 = ?

Ans
1. 17
2. 20
3. 31
4. 13

Question Type : **MCQ**
Question ID : **264330135038**
Option 1 ID : **264330529090**
Option 2 ID : **264330529087**
Option 3 ID : **264330529089**
Option 4 ID : **264330529088**
Status : **Answered**
Chosen Option : **4**

Join Telegram Group "HaryanaJobs.in"

Q.12 एक कोचिंग सेंटर के सात छात्रों, परम, काज़ी, रवि, सुरेश, तनवीर, उदय और वर्षा ने अलग-अलग प्रतिशत प्राप्त किए। कोचिंग सेंटर में दूसरे स्थान पर परम ने सबसे अधिक प्रतिशत प्राप्त किया। वर्षा द्वारा प्राप्त किया गया प्रतिशत केवल एक छात्र से अधिक था। सुरेश का प्रतिशत तनवीर से अधिक लेकिन परम से कम था। तीन छात्रों को तनवीर से अधिक प्रतिशत और तीन को तनवीर से कम प्रतिशत प्राप्त हुए। रवि और काज़ी दोनों में से किसी को भी सबसे कम प्रतिशत नहीं मिले। किसका प्रतिशत सबसे कम था?

Ans

✗ 1. परम

✗ 2. काज़ी

✓ 3. उदय

✗ 4. तनवीर

Question Type : **MCQ**
Question ID : **264330133374**
Option 1 ID : **264330522529**
Option 2 ID : **264330522530**
Option 3 ID : **264330522528**
Option 4 ID : **264330522527**
Status : **Answered**
Chosen Option : **2**

Q.13 उस विकल्प को चुनिए जो तीसरे शब्द से ठीक उसी तरह संबंधित है जिस तरह दूसरा शब्द पहले शब्द से संबंधित है।
रवींद्रनाथ टैगोर : साहित्य : : मदर टेरेसा: ?

Ans

✗ 1. गणित

✓ 2. शांति

✗ 3. रसायन विज्ञान

✗ 4. भौतिकी

Question Type : **MCQ**
Question ID : **264330133367**
Option 1 ID : **264330522500**
Option 2 ID : **264330522502**
Option 3 ID : **264330522501**
Option 4 ID : **264330522499**
Status : **Answered**
Chosen Option : **2**

Q.14 उस विकल्प को चुनिए जो पाँचवे पद से ठीक उसी प्रकार संबंधित है जिस प्रकार दूसरा पद पहले पद से संबंधित है और चौथा पद तीसरे पद से संबंधित है।

KP2 : PK16 :: AG3 : FB81 :: TR5 :?

Ans

✓ 1. YM625

✗ 2. MY125

✗ 3. MY625

✗ 4. YM125

Question Type : **MCQ**
Question ID : **264330138520**
Option 1 ID : **264330542688**
Option 2 ID : **264330542690**
Option 3 ID : **264330542687**
Option 4 ID : **264330542689**
Status : **Answered**
Chosen Option : **2**

Join Telegram Group "HaryanaJobs.in"

Q.15 दो कथन दिए गए हैं और उनके बाद दो निष्कर्ष I और II दिए गए हैं। कथनों को सत्य मानते हुए, चाहे वे सामान्यतः ज्ञात तथ्यों से अलग प्रतीत होते हों, निश्चय कीजिए कि कौन-सा निष्कर्ष तार्किक रूप से कथनों के अनुसार है।

कथन:

सभी पेन, कार हैं।

कुछ कार, बल्ब हैं।

निष्कर्ष:

I. कुछ कारें, बल्ब नहीं हैं।

II. कुछ पेन का बल्ब होना एक संभावना है।

Ans

✗ 1. सिर्फ निष्कर्ष I कथनों के अनुसार है

✗ 2. निष्कर्ष I और II में से कोई भी कथनों के अनुसार नहीं है

✗ 3. निष्कर्ष I और II दोनों कथनों के अनुसार हैं

✓ 4. सिर्फ निष्कर्ष II कथनों के अनुसार है

Question Type : **MCQ**
Question ID : **264330133376**
Option 1 ID : **264330522535**
Option 2 ID : **264330522538**
Option 3 ID : **264330522537**
Option 4 ID : **264330522536**
Status : **Answered**
Chosen Option : **4**

Join Telegram Group "HaryanaJobs.in"

Q.16 उस विकल्प आकृति को चुनिए जिसमें नीचे दी गई आकृति उसके भाग के रूप में निहित है (घूर्णन की अनुमति नहीं है)।

Ans

✗ 1.

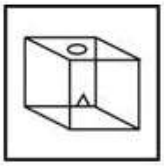

✓ 2.

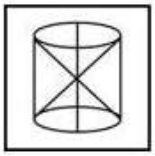

✗ 3.

✗ 4.

Question Type : **MCQ**
Question ID : **264330137849**
Option 1 ID : **264330540006**
Option 2 ID : **264330540004**
Option 3 ID : **264330540003**
Option 4 ID : **264330540005**
Status : **Answered**
Chosen Option : **2**

Join Telegram Group "HaryanaJobs.in"

Q.17 उस विकल्प आकृति को चुनिए जो नीचे दी गई आकृति में पैटर्न को पूरा करने के लिए प्रश्न चिन्ह (?) के स्थान पर आएगी। (घूर्णन की अनुमति नहीं है)।

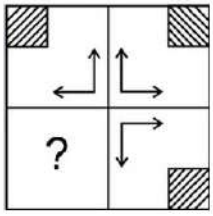

Ans

✔ 1.

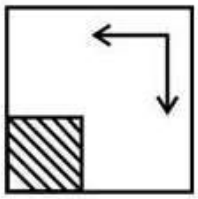

✘ 2.



✘ 3.

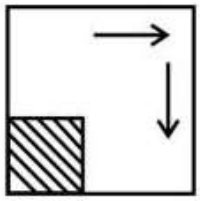

✘ 4.

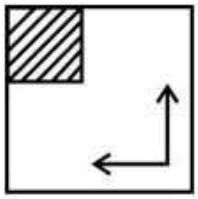

Question Type : **MCQ**
Question ID : **264330133385**
Option 1 ID : **264330522573**
Option 2 ID : **264330522572**
Option 3 ID : **264330522574**
Option 4 ID : **264330522571**
Status : **Answered**
Chosen Option : **1**

Join Telegram Group "HaryanaJobs.in"

Q.18 दो कथन दिए गए हैं और उनके बाद दो निष्कर्ष I और II दिए गए हैं। कथनों को सत्य मानते हुए, चाहे वे सामान्यतः ज्ञात तथ्यों से अलग प्रतीत होते हों, निश्चय कीजिए कि कौन-सा निष्कर्ष तार्किक रूप से कथनों के अनुसार है।

कथन:

सभी लड़कियाँ, होशियार हैं।

सभी होशियार, बुद्धिमान हैं।

निष्कर्ष:

I. सभी लड़कियाँ, बुद्धिमान हैं।

II. कुछ लड़कियाँ, बुद्धिमान नहीं हैं।

Ans

✗ 1. निष्कर्ष I और II दोनों कथनों के अनुसार हैं

✓ 2. सिर्फ निष्कर्ष I कथनों के अनुसार है

✗ 3. सिर्फ निष्कर्ष II कथनों के अनुसार है

✗ 4. निष्कर्ष I और II में से कोई भी कथनों के अनुसार नहीं है

Question Type : **MCQ**
Question ID : **264330133375**
Option 1 ID : **264330522533**
Option 2 ID : **264330522531**
Option 3 ID : **264330522532**
Option 4 ID : **264330522534**
Status : **Answered**
Chosen Option : **4**

Join Telegram Group "HaryanaJobs.in"

Q.19 दी गई आकृति के उस सही दर्पण प्रतिबिंब को चुनिए जो दर्पण MN को आकृति के दाईं ओर रखने पर बनेगा।

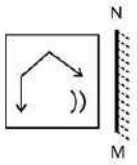

Ans

✗ 1. 

✗ 2.

✓ 3.

✗ 4.

Question Type : **MCQ**
Question ID : **264330137850**
Option 1 ID : **264330540008**
Option 2 ID : **264330540007**
Option 3 ID : **264330540009**
Option 4 ID : **264330540010**
Status : **Answered**
Chosen Option : **3**

Q.20 उस विकल्प को चुनिए जो तीसरे शब्द से ठीक उसी तरह संबंधित है जिस तरह दूसरा शब्द पहले शब्द से संबंधित है।
त्याग देना : छोड़ना : : विचारमग्न (Pensive) : ?

Ans

✓ 1. विचारशील

✗ 2. ख़ुश

✗ 3. नाचना

✗ 4. अवसाद-ग्रस्त

Question Type : **MCQ**
Question ID : **264330133368**
Option 1 ID : **264330522503**
Option 2 ID : **264330522505**
Option 3 ID : **264330522506**
Option 4 ID : **264330522504**
Status : **Answered**
Chosen Option : **4**

Section : **General Awareness**

Join Telegram Group "HaryanaJobs.in"

Q.1 भारतीय संविधान का अनुच्छेद 17 _____ से संबंधित है।

Ans
1. शिक्षा के अधिकार
2. अस्पृश्यता के उन्मूलन
3. कानून के समक्ष समानता
4. उपाधियों के उन्मूलन

Question Type : **MCQ**
Question ID : **264330133868**
Option 1 ID : **264330524497**
Option 2 ID : **264330524495**
Option 3 ID : **264330524498**
Option 4 ID : **264330524496**
Status : **Answered**
Chosen Option : **2**

Q.2 2011 की जनगणना के अनुसार, भारत में निम्न में से किस राज्य का लिंगानुपात सबसे अधिक है?

Ans
1. महाराष्ट्र
2. आंध्रप्रदेश
3. केरल
4. तमिलनाडु

Question Type : **MCQ**
Question ID : **264330134705**
Option 1 ID : **264330527776**
Option 2 ID : **264330527775**
Option 3 ID : **264330527777**
Option 4 ID : **264330527778**
Status : **Answered**
Chosen Option : **3**

Q.3 भारतीय अर्थव्यवस्था के FRBM अधिनियम, 2003 में 'F' का क्या अर्थ है?

Ans
1. फाइनेंशियल (Financial)
2. फंक्शनल (Functional)
3. फिस्कल (Fiscal)
4. फ्रीडम (Freedom)

Question Type : **MCQ**
Question ID : **264330133955**
Option 1 ID : **264330524843**
Option 2 ID : **264330524846**
Option 3 ID : **264330524844**
Option 4 ID : **264330524845**
Status : **Answered**
Chosen Option : **1**

Join Telegram Group "HaryanaJobs.in"

Q.4 गैल्वनीकरण(यशदलेपन)वह प्रक्रिया है जिसमें लोहे को जंग लगने से बचाने के लिए इस पर _____ की एक पतली परत चढ़ाई जाती है।

Ans
✔ 1. जस्ते
✘ 2. ताँबे
✘ 3. चाँदी
✘ 4. निकल

Question Type : **MCQ**
Question ID : **264330134699**
Option 1 ID : **264330527754**
Option 2 ID : **264330527752**
Option 3 ID : **264330527753**
Option 4 ID : **264330527751**
Status : **Answered**
Chosen Option : **2**

Q.5 निम्नलिखित में से किसने सल्तनत काल के दो मूल सिक्के - 'चाँदी का टंका (silver tanka)' और 'ताँबे का जीतल (copper jital)' चलवाया था?

Ans
✘ 1. अलाउद्दीन खिलजी
✘ 2. इब्राहिम लोदी
✔ 3. इल्तुतमिश
✘ 4. कुतुबुद्दीन ऐबक

Question Type : **MCQ**
Question ID : **264330134708**
Option 1 ID : **264330527789**
Option 2 ID : **264330527790**
Option 3 ID : **264330527787**
Option 4 ID : **264330527788**
Status : **Answered**
Chosen Option : **3**

Q.6 वॉकर (Walker) कप निम्नलिखित में से किस खेल से संबंधित है?

Ans
✔ 1. गॉल्फ़
✘ 2. शतरंज
✘ 3. हॉकी
✘ 4. फ़ुटबॉल

Question Type : **MCQ**
Question ID : **264330134717**
Option 1 ID : **264330527824**
Option 2 ID : **264330527826**
Option 3 ID : **264330527825**
Option 4 ID : **264330527823**
Status : **Answered**
Chosen Option : **3**

Join Telegram Group "HaryanaJobs.in"

Q.7 निम्नलिखित में से कौन-सा विटामिन हमारी त्वचा और आँखों को स्वस्थ रखने में सहायता करता है?

Ans
1. विटामिन C
2. विटामिन B
3. विटामिन A
4. विटामिन D

Question Type : **MCQ**
Question ID : **264330133869**
Option 1 ID : **264330524501**
Option 2 ID : **264330524500**
Option 3 ID : **264330524499**
Option 4 ID : **264330524502**
Status : **Answered**
Chosen Option : **3**

Q.8 निम्नलिखित में से कौन-सा एक जोवियन (Jovian) ग्रह नहीं है?

Ans
1. बृहस्पति
2. बुध
3. नेपच्यून
4. शनि

Question Type : **MCQ**
Question ID : **264330134702**
Option 1 ID : **264330527763**
Option 2 ID : **264330527766**
Option 3 ID : **264330527764**
Option 4 ID : **264330527765**
Status : **Answered**
Chosen Option : **3**

Q.9 नवंबर 2022 तक, निम्नलिखित में से कौन-सा राज्य भारत में कपास का अग्रणी उत्पादक है?

Ans
1. मध्यप्रदेश
2. कर्नाटक
3. गुजरात
4. तेलंगाना

Question Type : **MCQ**
Question ID : **264330133940**
Option 1 ID : **264330524783**
Option 2 ID : **264330524784**
Option 3 ID : **264330524786**
Option 4 ID : **264330524785**
Status : **Answered**
Chosen Option : **3**

Join Telegram Group "HaryanaJobs.in"

Q.10 भारतीय रेलवे की वर्ष _____ तक शुद्ध-शून्य कार्बन उत्सर्जक (Net Zero Carbon Emitter) बनने की योजना है।

Ans
1. 2025
2. 2027
3. 2030
4. 2032

Question Type : **MCQ**
Question ID : **264330133865**
Option 1 ID : **264330524483**
Option 2 ID : **264330524484**
Option 3 ID : **264330524485**
Option 4 ID : **264330524486**
Status : **Answered**
Chosen Option : **3**

Q.11 ब्रिटेन के किस प्रधानमंत्री ने 44 दिनों तक कार्यभार संभालने के बाद 20 अक्टूबर, 2022 को इस्तीफा दे दिया था?

Ans
1. थेरेसा मे (Theresa May)
2. लिज़ ट्रस (Liz Truss)
3. बोरिस जॉनसन (Boris Johnson)
4. ऋषि सुनक (Rishi Sunak)

Question Type : **MCQ**
Question ID : **264330133864**
Option 1 ID : **264330524481**
Option 2 ID : **264330524480**
Option 3 ID : **264330524479**
Option 4 ID : **264330524482**
Status : **Answered**
Chosen Option : **2**

Q.12 दिल्ली नगर निगम (संशोधन) विधेयक, 2022 का उद्देश्य दिल्ली के _____ नगर निगमों को एक इकाई में एकीकृत करना है जिससे तालमेल और रणनीतिक योजना और संसाधनों के इष्टतम उपयोग के लिए एक मजबूत व्यवस्था सुनिश्चित की जा सकेगी।

Ans
1. तीन
2. पाँच
3. दो
4. चार

Question Type : **MCQ**
Question ID : **264330134695**
Option 1 ID : **264330527736**
Option 2 ID : **264330527738**
Option 3 ID : **264330527735**
Option 4 ID : **264330527737**
Status : **Not Answered**
Chosen Option : **--**

Join Telegram Group "HaryanaJobs.in"

Q.13 वर्ष 2011 की जनगणना के अनुसार नई दिल्ली जिले की साक्षरता दर कितनी है?

Ans
✔ 1. 88.01 प्रतिशत
✘ 2. 54.12 प्रतिशत
✘ 3. 64.09 प्रतिशत
✘ 4. 98.42 प्रतिशत

Question Type : **MCQ**
Question ID : **264330137406**
Option 1 ID : **264330538251**
Option 2 ID : **264330538254**
Option 3 ID : **264330538252**
Option 4 ID : **264330538253**
Status : **Answered**
Chosen Option : **1**

Q.14 भारतीय राष्ट्रीय कांग्रेस के निम्नलिखित अधिवेशनों में से किस अधिवेशन की अध्यक्षता पहली बार एक महिला ने की थी?

Ans
✔ 1. कलकत्ता - 1917
✘ 2. सूरत - 1907
✘ 3. कानपुर - 1925
✘ 4. लाहौर - 1929

Question Type : **MCQ**
Question ID : **264330134709**
Option 1 ID : **264330527792**
Option 2 ID : **264330527794**
Option 3 ID : **264330527791**
Option 4 ID : **264330527793**
Status : **Answered**
Chosen Option : **1**

Q.15 भरतनाट्यम नृत्य किस राज्य से संबंधित है?

Ans
✘ 1. महाराष्ट्र
✘ 2. मध्यप्रदेश
✘ 3. केरल
✔ 4. तमिलनाडु

Question Type : **MCQ**
Question ID : **264330133856**
Option 1 ID : **264330524447**
Option 2 ID : **264330524449**
Option 3 ID : **264330524450**
Option 4 ID : **264330524448**
Status : **Answered**
Chosen Option : **4**

Join Telegram Group "HaryanaJobs.in"

Q.16 निम्नलिखित में से किसे "पैरा शूटिंग (Para Shooting)" के लिए मेजर ध्यानचंद खेल रत्न पुरस्कार 2021 से सम्मानित किया गया है?

Ans
1. प्रमोद भगत
2. कृष्णा नागर
3. सुमित अंतिल
4. अवनी लेखरा

Question Type : **MCQ**
Question ID : **264330133859**
Option 1 ID : **264330524461**
Option 2 ID : **264330524462**
Option 3 ID : **264330524460**
Option 4 ID : **264330524459**
Status : **Not Answered**
Chosen Option : **--**

Q.17 निम्नलिखित में से किस तत्व का उपयोग इसके आर्द्रताग्राही गुणों (hygroscopic properties) के कारण मॉइस्चराइजिंग क्रीम और साबुन में किया जाता है?

Ans
1. ग्लिसरॉल (Glycerol)
2. फ़ेयॉन (Galena)
3. एथेनॉल (Ethanol)
4. गैलेना (Galena)

Question Type : **MCQ**
Question ID : **264330134701**
Option 1 ID : **264330527760**
Option 2 ID : **264330527762**
Option 3 ID : **264330527759**
Option 4 ID : **264330527761**
Status : **Answered**
Chosen Option : **1**

Q.18 प्रसिद्ध भारतीय वैज्ञानिक, डॉ. एपीजे अब्दुल कलाम की आत्मकथा को _____ के नाम से जाना जाता है।

Ans
1. वेटिंग फॉर ए वीसा (Waiting for a Visa)
2. द रेस ऑफ माई लाइफ (The Race of My Life)
3. वन लाइफ इस नॉट इनफ़ (One Life is Not Enough)
4. विंग्स ऑफ फायर (Wings of Fire)

Question Type : **MCQ**
Question ID : **264330133948**
Option 1 ID : **264330524818**
Option 2 ID : **264330524816**
Option 3 ID : **264330524815**
Option 4 ID : **264330524817**
Status : **Answered**
Chosen Option : **4**

Join Telegram Group "HaryanaJobs.in"

Q.19 निम्नलिखित में से कौन-सा भारत के मेघालय का एक प्रसिद्ध फसल कटाई उत्सव है?

Ans
1. हॉर्नबिल उत्सव (Hornbill festival)
2. चपचार कुट उत्सव (Chapcharkut festival)
3. नोंगक्रम उत्सव (Nongkrem festival)
4. सनबर्न उत्सव (Sunburn festival)

Question Type : **MCQ**
Question ID : **264330137947**
Option 1 ID : **264330540397**
Option 2 ID : **264330540395**
Option 3 ID : **264330540396**
Option 4 ID : **264330540398**
Status : **Not Answered**
Chosen Option : **--**

Q.20 कुचिपुड़ी नृत्य शैली के किस गुरु को वर्ष 1998 में पद्म भूषण मिला था?

Ans
1. उदय शंकर
2. गुरु वेम्पति चिन्ना सत्यम
3. गुरु बिपिन सिंह
4. केलुचरण महापात्र

Question Type : **MCQ**
Question ID : **264330133950**
Option 1 ID : **264330524823**
Option 2 ID : **264330524826**
Option 3 ID : **264330524825**
Option 4 ID : **264330524824**
Status : **Not Answered**
Chosen Option : **--**

Q.21 भारत का क्षेत्रफल विश्व के कुल भौगोलिक क्षेत्रफल का कितना प्रतिशत है?

Ans
1. 5.2 प्रतिशत
2. 4.8 प्रतिशत
3. 2.4 प्रतिशत
4. 3.2 प्रतिशत

Question Type : **MCQ**
Question ID : **264330133874**
Option 1 ID : **264330524522**
Option 2 ID : **264330524521**
Option 3 ID : **264330524519**
Option 4 ID : **264330524520**
Status : **Answered**
Chosen Option : **3**

Join Telegram Group "HaryanaJobs.in"

Q.22 मनुष्य के आरंभिक विकास के प्रागैतिहासिक काल को समान्यतः _____ के नाम से जाना जाता है।

Ans
1. लौह युग (Iron age)
2. मध्यपाषाण युग (Mesolithic age)
3. नवपाषाण युग (New stone age)
4. पुरापाषाण युग (Old stone age)

Question Type : **MCQ**
Question ID : **264330137957**
Option 1 ID : **264330540437**
Option 2 ID : **264330540435**
Option 3 ID : **264330540436**
Option 4 ID : **264330540438**
Status : **Answered**
Chosen Option : **4**

Q.23 भारतीय संगीतकार और कंपोज़र पंडित शिव कुमार शर्मा _____ के एक सर्वश्रेष्ठ प्रतिपादक थे।

Ans
1. संतूर
2. गिटार
3. हारमोनियम
4. वायलिन

Question Type : **MCQ**
Question ID : **264330133862**
Option 1 ID : **264330524471**
Option 2 ID : **264330524473**
Option 3 ID : **264330524474**
Option 4 ID : **264330524472**
Status : **Answered**
Chosen Option : **1**

Q.24 वर्ष 1922 में गठित स्वराज पार्टी के अध्यक्ष कौन थे?

Ans
1. चितरंजन दास
2. सी. राजगोपालाचारी
3. मोतीलाल नेहरू
4. महात्मा गांधी

Question Type : **MCQ**
Question ID : **264330137960**
Option 1 ID : **264330540450**
Option 2 ID : **264330540447**
Option 3 ID : **264330540449**
Option 4 ID : **264330540448**
Status : **Answered**
Chosen Option : **3**

Join Telegram Group "HaryanaJobs.in"

Q.25 पट्टदकल (Pattadakal) में जैन मंदिर का निर्माण _____ वंश द्वारा करवाया गया था।

Ans
✗ 1. चोल
✗ 2. होयसल (Hoyasalas)
✗ 3. चालुक्य
✓ 4. राष्ट्रकूट (Rashtrakutas)

Question Type : **MCQ**
Question ID : **264330134698**
Option 1 ID : **264330527747**
Option 2 ID : **264330527748**
Option 3 ID : **264330527750**
Option 4 ID : **264330527749**
Status : **Answered**
Chosen Option : **3**

Section : **English Language and Comprehension**

Q.1 Select the most appropriate synonym to substitute the bracketed word in the given sentence.

They wanted me to (expound) on this topic because I had some decent ideas on the subject.

Ans
✗ 1. notoriety
✗ 2. partisan
✗ 3. paucity
✓ 4. expatiate

Question Type : **MCQ**
Question ID : **264330136526**
Option 1 ID : **264330534846**
Option 2 ID : **264330534843**
Option 3 ID : **264330534844**
Option 4 ID : **264330534845**
Status : **Answered**
Chosen Option : **4**

Q.2 **Select the appropriate antonym for the underlined word.**
There can't be anything positive about plastics with pathogens floating around.

Ans
✗ 1. fundamental
✗ 2. approving
✓ 3. depreciative
✗ 4. flattering

Question Type : **MCQ**
Question ID : **264330134339**
Option 1 ID : **264330526345**
Option 2 ID : **264330526343**
Option 3 ID : **264330526344**
Option 4 ID : **264330526346**
Status : **Answered**
Chosen Option : **3**

Join Telegram Group "HaryanaJobs.in"

Q.3 Identify the segment that contains a grammatical error. If there is no error, select 'No error'.
The front part is used for carving / the lines and the back end / for scratching of whole areas.

Ans
✗ 1. the lines and the back end
✓ 2. for scratching of whole areas.
✗ 3. No Error
✗ 4. The front part is used for carving

Question Type : **MCQ**
Question ID : **264330135793**
Option 1 ID : **264330532048**
Option 2 ID : **264330532049**
Option 3 ID : **264330532050**
Option 4 ID : **264330532047**
Status : **Answered**
Chosen Option : **4**

Q.4 Choose the word that is opposite in meaning to the given word.

Curtailed

Ans
✗ 1. Pruned
✗ 2. Slashed
✓ 3. Lengthened
✗ 4. Trimmed

Question Type : **MCQ**
Question ID : **264330134841**
Option 1 ID : **264330528302**
Option 2 ID : **264330528300**
Option 3 ID : **264330528301**
Option 4 ID : **264330528299**
Status : **Answered**
Chosen Option : **3**

Q.5 **Choose the word that can substitute the given group of words.**
A group of people who have no permanent abode but wander from place to place

Ans
✓ 1. Nomad
✗ 2. Truant
✗ 3. Usurer
✗ 4. Ponderer

Question Type : **MCQ**
Question ID : **264330134335**
Option 1 ID : **264330526328**
Option 2 ID : **264330526329**
Option 3 ID : **264330526327**
Option 4 ID : **264330526330**
Status : **Answered**
Chosen Option : **1**

Join Telegram Group "HaryanaJobs.in"

Q.6 **In the following question, out of the given four alternatives, select the alternative which best expresses the meaning of the Idiom/Phrase.**
Break sweat

Ans
✗ 1. To lie
✗ 2. To make a futile attempt
✗ 3. To be caught stealing
✓ 4. To use a lot of energy or effort

Question Type : **MCQ**
Question ID : **264330134341**
Option 1 ID : **264330526351**
Option 2 ID : **264330526354**
Option 3 ID : **264330526353**
Option 4 ID : **264330526352**
Status : **Answered**
Chosen Option : **1**

Q.7 **Improve the underlined part of the sentence. Choose 'No improvement' as an answer if the sentence is grammatically correct.**
He started a newly jobs on Tuesday.

Ans
✗ 1. No improvement
✓ 2. a new job
✗ 3. a new jobs
✗ 4. an new job

Question Type : **MCQ**
Question ID : **264330134298**
Option 1 ID : **264330526190**
Option 2 ID : **264330526188**
Option 3 ID : **264330526187**
Option 4 ID : **264330526189**
Status : **Answered**
Chosen Option : **2**

Q.8 In the following question, out of the given four alternatives, select the alternative which best expresses the meaning of the Idiom/Phrase.

To poke one's nose into

Ans
✗ 1. To give permission
✓ 2. To interfere
✗ 3. To bring no sense
✗ 4. To show disrespect

Question Type : **MCQ**
Question ID : **264330134843**
Option 1 ID : **264330528307**
Option 2 ID : **264330528308**
Option 3 ID : **264330528310**
Option 4 ID : **264330528309**
Status : **Answered**
Chosen Option : **2**

Join Telegram Group "HaryanaJobs.in"

Q.9 **Find the part of the given sentence that has an error in it. If there is no error, choose 'No error'.**
This is most unique thing I have ever seen in my life.

Ans
✗ 1. seen in my life.
✗ 2. thing I have ever
✓ 3. This is most unique
✗ 4. No error

Question Type : **MCQ**
Question ID : **264330134322**
Option 1 ID : **264330526281**
Option 2 ID : **264330526280**
Option 3 ID : **264330526279**
Option 4 ID : **264330526282**
Status : **Answered**
Chosen Option : **3**

Q.10 Fill in the blank with the most appropriate option.

Rohan was now standing on tiptoe to _____ over at the inhabitants of the two beds.

Ans
✗ 1. view
✗ 2. stare
✗ 3. peep
✓ 4. look

Question Type : **MCQ**
Question ID : **264330136408**
Option 1 ID : **264330534398**
Option 2 ID : **264330534397**
Option 3 ID : **264330534396**
Option 4 ID : **264330534395**
Status : **Answered**
Chosen Option : **4**

Q.11 **Select the most appropriate option to fill in the blank.**
Plastic inhabits the oceans, _____ up in the guts of seagulls and great white sharks.

Ans
✗ 1. provoking
✗ 2. sailing
✓ 3. building
✗ 4. burning

Question Type : **MCQ**
Question ID : **264330134345**
Option 1 ID : **264330526370**
Option 2 ID : **264330526368**
Option 3 ID : **264330526367**
Option 4 ID : **264330526369**
Status : **Answered**
Chosen Option : **3**

Join Telegram Group "HaryanaJobs.in"

Q.12 Fill in the blank with the most appropriate option.

"May I _____ your coats, Mr. and Mrs. Mason?"

Ans
1. trek
2. taste
3. track
4. take

Question Type : **MCQ**
Question ID : **264330136594**
Option 1 ID : **264330535110**
Option 2 ID : **264330535108**
Option 3 ID : **264330535107**
Option 4 ID : **264330535109**
Status : **Answered**
Chosen Option : **4**

Q.13 **Select the appropriate synonym for the underlined word.**
It is not that you seem heartless.

Ans
1. mild
2. cruel
3. robust
4. warm

Question Type : **MCQ**
Question ID : **264330134336**
Option 1 ID : **264330526331**
Option 2 ID : **264330526332**
Option 3 ID : **264330526334**
Option 4 ID : **264330526333**
Status : **Answered**
Chosen Option : **2**

Q.14 **Find the part of the given sentence that has an error in it. If there is no error, choose 'No error'.**
Make sure you known how to swim.

Ans
1. Make sure
2. No error
3. you known
4. how to swim.

Question Type : **MCQ**
Question ID : **264330134476**
Option 1 ID : **264330526871**
Option 2 ID : **264330526874**
Option 3 ID : **264330526872**
Option 4 ID : **264330526873**
Status : **Answered**
Chosen Option : **3**

Join Telegram Group "HaryanaJobs.in"

Q.15 Choose the incorrectly spelt word.

Ans

✗ 1. Robber

✗ 2. Banker

✓ 3. Artiset

✗ 4. Teacher

Question Type : **MCQ**
Question ID : **264330134342**
Option 1 ID : **264330526356**
Option 2 ID : **264330526355**
Option 3 ID : **264330526358**
Option 4 ID : **264330526357**
Status : **Answered**
Chosen Option : **3**

Q.16 Four sentences are given, out of which three have spelling errors. Choose the sentence with all correctly spelt words.

Ans

✗ 1. The paralel lives of two contemporaries.

✗ 2. She took a pair of sissors and cut his hair.

✗ 3. He made the most delicious pumkin pie.

✓ 4. I need a strong adhesive.

Question Type : **MCQ**
Question ID : **264330136407**
Option 1 ID : **264330534391**
Option 2 ID : **264330534393**
Option 3 ID : **264330534394**
Option 4 ID : **264330534392**
Status : **Answered**
Chosen Option : **3**

Q.17 Select the most appropriate option to substitute the bracketed segment in the given sentence. If there is no need to substitute it, select 'no substitution required'.
No, they are normal people, (although they perceive the world different).

Ans

✗ 1. No substitution required

✓ 2. but they perceive the world differently

✗ 3. from they perceive the world differently

✗ 4. while they perceive the world different

Question Type : **MCQ**
Question ID : **264330135796**
Option 1 ID : **264330532062**
Option 2 ID : **264330532059**
Option 3 ID : **264330532061**
Option 4 ID : **264330532060**
Status : **Answered**
Chosen Option : **2**

Join Telegram Group "HaryanaJobs.in"

Q.18 **Improve the underlined part of the sentence. Choose 'No improvement' as an answer if the sentence is grammatically correct.**
We went to the mall; however, us only gone window-shopping.

Ans
1. we only gone
2. we only went
3. they only going
4. No improvement

Question Type : **MCQ**
Question ID : **264330134325**
Option 1 ID : **264330526293**
Option 2 ID : **264330526292**
Option 3 ID : **264330526291**
Option 4 ID : **264330526294**
Status : **Answered**
Chosen Option : **2**

Q.19 Choose the word that can substitute the given group of words.

That can be carried or moved easily

Ans
1. Handful
2. Potable
3. Portable
4. Illegible

Question Type : **MCQ**
Question ID : **264330134837**
Option 1 ID : **264330528285**
Option 2 ID : **264330528283**
Option 3 ID : **264330528284**
Option 4 ID : **264330528286**
Status : **Answered**
Chosen Option : **2**

Q.20 **A sentence has been given with a blank to be filled with an appropriate option. Choose the correct alternative.**
I strained _____ to catch his options.

Ans
1. hardest
2. hardness
3. hardly
4. hard

Question Type : **MCQ**
Question ID : **264330134326**
Option 1 ID : **264330526296**
Option 2 ID : **264330526295**
Option 3 ID : **264330526298**
Option 4 ID : **264330526297**
Status : **Answered**
Chosen Option : **4**

Join Telegram Group "HaryanaJobs.in"

Comprehension:

In the following passage some of the words have been deleted. Read the passage carefully and select the correct answer for the given blank out of the four alternatives.

A young man walks toward me with a stick slung across his back and a (1)_____ of sheep at his feet, which carry him down the path (2)_____ a crowd of rowdy children. An older man follows, weatherworn but still (3)_____, a rifle over his left shoulder. He clicks his tongue to (4)_____ the flock. Behind him are two women on horses; I guess (5)_____ are his wife and daughter.

SubQuestion No : 21

Q.21 Select the most appropriate option to fill in blank number 1.

Ans

✗ 1. shoal

✓ 2. flock

✗ 3. horde

✗ 4. army

Question Type : **MCQ**
Question ID : **264330134832**
Option 1 ID : **264330528265**
Option 2 ID : **264330528263**
Option 3 ID : **264330528264**
Option 4 ID : **264330528266**
Status : **Answered**
Chosen Option : **2**

Comprehension:

In the following passage some of the words have been deleted. Read the passage carefully and select the correct answer for the given blank out of the four alternatives.

A young man walks toward me with a stick slung across his back and a (1)_____ of sheep at his feet, which carry him down the path (2)_____ a crowd of rowdy children. An older man follows, weatherworn but still (3)_____, a rifle over his left shoulder. He clicks his tongue to (4)_____ the flock. Behind him are two women on horses; I guess (5)_____ are his wife and daughter.

SubQuestion No : 22

Q.22 Select the most appropriate option to fill in blank number 2.

Ans

✓ 1. like

✗ 2. liking

✗ 3. likeness

✗ 4. likely

Question Type : **MCQ**
Question ID : **264330134833**
Option 1 ID : **264330528268**
Option 2 ID : **264330528267**
Option 3 ID : **264330528270**
Option 4 ID : **264330528269**
Status : **Answered**
Chosen Option : **1**

Join Telegram Group "HaryanaJobs.in"

Comprehension:

In the following passage some of the words have been deleted. Read the passage carefully and select the correct answer for the given blank out of the four alternatives.

A young man walks toward me with a stick slung across his back and a (1)_____ of sheep at his feet, which carry him down the path (2)_____ a crowd of rowdy children. An older man follows, weatherworn but still (3)_____, a rifle over his left shoulder. He clicks his tongue to (4)_____ the flock. Behind him are two women on horses; I guess (5)_____ are his wife and daughter.

SubQuestion No : 23

Q.23 Select the most appropriate option to fill in blank number 3.

Ans

✔ 1. strong

✘ 2. slow

✘ 3. sick

✘ 4. thin

Question Type : **MCQ**
Question ID : **264330134834**
Option 1 ID : **264330528272**
Option 2 ID : **264330528271**
Option 3 ID : **264330528273**
Option 4 ID : **264330528274**
Status : **Answered**
Chosen Option : **1**

Comprehension:

In the following passage some of the words have been deleted. Read the passage carefully and select the correct answer for the given blank out of the four alternatives.

A young man walks toward me with a stick slung across his back and a (1)_____ of sheep at his feet, which carry him down the path (2)_____ a crowd of rowdy children. An older man follows, weatherworn but still (3)_____, a rifle over his left shoulder. He clicks his tongue to (4)_____ the flock. Behind him are two women on horses; I guess (5)_____ are his wife and daughter.

SubQuestion No : 24

Q.24 Select the most appropriate option to fill in blank number 4.

Ans

✘ 1. dress

✘ 2. claim

✔ 3. encourage

✘ 4. punish

Question Type : **MCQ**
Question ID : **264330134835**
Option 1 ID : **264330528278**
Option 2 ID : **264330528275**
Option 3 ID : **264330528277**
Option 4 ID : **264330528276**
Status : **Answered**
Chosen Option : **3**

Join Telegram Group "HaryanaJobs.in"

Comprehension:

In the following passage some of the words have been deleted. Read the passage carefully and select the correct answer for the given blank out of the four alternatives.

A young man walks toward me with a stick slung across his back and a (1)_____ of sheep at his feet, which carry him down the path (2)_____ a crowd of rowdy children. An older man follows, weatherworn but still (3)_____, a rifle over his left shoulder. He clicks his tongue to (4)_____ the flock. Behind him are two women on horses; I guess (5)_____ are his wife and daughter.

SubQuestion No : 25

Q.25 Select the most appropriate option to fill in blank number 5.

Ans

✗ 1. this

✓ 2. they

✗ 3. them

✗ 4. these

Question Type : **MCQ**
Question ID : **264330134836**
Option 1 ID : **264330528280**
Option 2 ID : **264330528281**
Option 3 ID : **264330528282**
Option 4 ID : **264330528279**
Status : **Answered**
Chosen Option : **2**

Join Telegram Group "HaryanaJobs.in"

Multi Tasking Non Technical Staff and Havaldar CBIC and CBN Examination 2022

Roll Number	HaryanaJobs.in
Candidate Name	HaryanaJobs.in
Venue Name	iON Digital Zone iDZ Trinity 2 Headway 2 Kokta Bypass Road
Exam Date	02/05/2023
Exam Time	3:30 PM - 5:00 PM
Subject	MTS Non Tech Havaldar CBIC and CBN Examination 2022

Section : **Numerical and Mathematical Ability**

Q.1 Rs.8000 की राशि पर 2 वर्षों के लिए 15% वार्षिक दर पर वार्षिक रूप से संयोजित चक्रवृद्धि ब्याज ज्ञात कीजिए।

Ans
✗ 1. Rs. 6345.51
✓ 2. Rs. 2580.00
✗ 3. Rs. 2778.81
✗ 4. Rs. 26548.81

Question Type : **MCQ**
Question ID : **264330138758**
Option 1 ID : **264330543639**
Option 2 ID : **264330543642**
Option 3 ID : **264330543641**
Option 4 ID : **264330543640**
Status : **Answered**
Chosen Option : **2**

Q.2 मैनी ने Rs. 12000 में एक AC खरीदा और उसकी ढुलाई के लिए Rs. 400 का भुगतान किया। फिर उसे Rs. 14000 में बेच दिया। उसका लाभ % ज्ञात कीजिए।

Ans
✓ 1. 12.90%
✗ 2. 13%
✗ 3. 13.1%
✗ 4. 12.80%

Question Type : **MCQ**
Question ID : **264330138753**
Option 1 ID : **264330543620**
Option 2 ID : **264330543619**
Option 3 ID : **264330543622**
Option 4 ID : **264330543621**
Status : **Answered**
Chosen Option : **1**

Join Telegram Group "HaryanaJobs.in"

Q.3 प्रतिदिन 12 घंटे कार्य करते हुए, राज एक कार्य को 12 दिनों में पूरा कर सकता है। उसे प्रतिदिन कितने घंटे कार्य करना चाहिए ताकि वह उसी कार्य को 9 दिनों में पूरा कर सके?

Ans
1. 12 घंटे ✗
2. 20 घंटे ✗
3. 24 घंटे ✗
4. 16 घंटे ✓

Question Type : **MCQ**
Question ID : **264330138761**
Option 1 ID : **264330543652**
Option 2 ID : **264330543653**
Option 3 ID : **264330543651**
Option 4 ID : **264330543654**
Status : **Answered**
Chosen Option : **4**

Q.4 निम्नलिखित संख्याओं के समुच्चय का महत्तम समापवर्तक (HCF) क्या होगा: 30, 45, 150, ?

Ans
1. 15 ✓
2. 16 ✗
3. 30 ✗
4. 20 ✗

Question Type : **MCQ**
Question ID : **264330138748**
Option 1 ID : **264330543599**
Option 2 ID : **264330543600**
Option 3 ID : **264330543601**
Option 4 ID : **264330543602**
Status : **Answered**
Chosen Option : **1**

Q.5 अनीता ने 120 में से 36 अंक प्राप्त किए लेकिन बाद में उसके शिक्षक ने उसके 6 अंक बढ़ा दिए। उसके प्रतिशत में कितनी वृद्धि होगी?

Ans
1. 6% ✗
2. 8% ✗
3. 10% ✗
4. 5% ✓

Question Type : **MCQ**
Question ID : **264330138751**
Option 1 ID : **264330543611**
Option 2 ID : **264330543612**
Option 3 ID : **264330543613**
Option 4 ID : **264330543614**
Status : **Answered**
Chosen Option : **4**

Join Telegram Group "HaryanaJobs.in"

Q.6 A1 अकेले किसी कार्य को 12 दिनों में कर सकता है और A2 अकेले उसी कार्य को 15 दिनों में कर सकता है। A3 की सहायता से वे दोनों उसी कार्य को 5 दिनों में पूरा कर लेते हैं। A3 अकेले उसी कार्य को कितने दिनों में कर सकता है?

Ans

✗ 1. 27 दिन

✗ 2. 24 दिन

✓ 3. 20 दिन

✗ 4. 16 दिन

Question Type : **MCQ**
Question ID : **264330137131**
Option 1 ID : **264330537170**
Option 2 ID : **264330537167**
Option 3 ID : **264330537168**
Option 4 ID : **264330537169**
Status : **Answered**
Chosen Option : **3**

Q.7 Rs. 2000 की राशि साधारण ब्याज की किसी दर पर 12 माह में Rs.2400 हो जाती है। वह वार्षिक ब्याज दर ज्ञात कीजिए।

Ans

✓ 1. 40 %

✗ 2. 45 %

✗ 3. 25 %

✗ 4. 20 %

Question Type : **MCQ**
Question ID : **264330138757**
Option 1 ID : **264330543637**
Option 2 ID : **264330543638**
Option 3 ID : **264330543636**
Option 4 ID : **264330543635**
Status : **Answered**
Chosen Option : **4**

Q.8 $\frac{1}{2}$ of $\frac{16}{5} + \frac{1}{8}$ of $\frac{24}{9} \times \frac{18}{12} - \frac{5}{8}$ का मान क्या है?

Ans

✗ 1. $\frac{51}{40}$

✓ 2. $\frac{59}{40}$

✗ 3. $\frac{68}{39}$

✗ 4. $\frac{61}{50}$

Question Type : **MCQ**
Question ID : **264330138700**
Option 1 ID : **264330543410**
Option 2 ID : **264330543407**
Option 3 ID : **264330543408**
Option 4 ID : **264330543409**
Status : **Answered**
Chosen Option : **2**

Join Telegram Group "HaryanaJobs.in"

Q.9 एक कार्य दिवस में एक बच्चे द्वारा विभिन्न गतिविधियों पर बिताए गए घंटों की संख्या को तालिका में दर्शाया गया है। उसने सोने में कितने प्रतिशत समय बिताया?

Activities	Number of hours
School	8
Play	3
Sleep	8
Eat	2
Music	3
Total	24

Activities - गतिविधियाँ, Number of hours - घंटों की संख्या, School - स्कूल,

Play - खेलना, Sleep - सोना, Eat - खाना, Music - संगीत, Total - कुल

Ans

✗ 1. 37.22%

✓ 2. 33.33%

✗ 3. 48.11%

✗ 4. 41.12%

Question Type : **MCQ**
Question ID : **264330138716**
Option 1 ID : **264330543474**
Option 2 ID : **264330543472**
Option 3 ID : **264330543473**
Option 4 ID : **264330543471**
Status : **Answered**
Chosen Option : **2**

Q.10 एक दुकानदार अपने माल पर 20% का लाभ अर्जित करता है। चोरी के दौरान वह अपना 20% माल गँवा देता है। उसका लाभ या हानि प्रतिशत क्या है?

Ans

✓ 1. 4% हानि

✗ 2. 6% हानि

✗ 3. 4% लाभ

✗ 4. 6% लाभ

Question Type : **MCQ**
Question ID : **264330141028**
Option 1 ID : **264330552460**
Option 2 ID : **264330552462**
Option 3 ID : **264330552459**
Option 4 ID : **264330552461**
Status : **Answered**
Chosen Option : **1**

Join Telegram Group "HaryanaJobs.in"

Q.11 13 cm लंबाई, 11 cm चौड़ाई और 20 cm ऊँचाई वाले घनाभ के सबसे लंबे विकर्ण की लंबाई क्या होगी?

Ans

✔ 1. 26.27 cm

✘ 2. 22.65 cm

✘ 3. 23.45 cm

✘ 4. 34.65 cm

Question Type : **MCQ**
Question ID : **264330138765**
Option 1 ID : **264330543667**
Option 2 ID : **264330543670**
Option 3 ID : **264330543668**
Option 4 ID : **264330543669**
Status : **Answered**
Chosen Option : **4**

Q.12 यदि A : B = 3 : 2, B : C = 7 : 5 और C : D = 10 : 3 है, तो A : D निम्न में से किसके बराबर है?

Ans

✔ 1. 7 : 1

✘ 2. 1 : 7

✘ 3. 4 : 3

✘ 4. 3 : 4

Question Type : **MCQ**
Question ID : **264330138756**
Option 1 ID : **264330543632**
Option 2 ID : **264330543631**
Option 3 ID : **264330543634**
Option 4 ID : **264330543633**
Status : **Answered**
Chosen Option : **1**

Q.13 महेश, सुरेश और राजू मिलकर एक कार्य को 18 दिनों में पूरा कर सकते हैं। महेश और सुरेश मिलकर उसी कार्य को 72 दिनों में पूरा कर सकते हैं। राजू अकेले उसी कार्य को कितने दिनों में पूरा कर सकता है?

Ans

✔ 1. 24 दिनों में

✘ 2. 18 दिनों में

✘ 3. 34 दिनों में

✘ 4. 21 दिनों में

Question Type : **MCQ**
Question ID : **264330139056**
Option 1 ID : **264330544832**
Option 2 ID : **264330544834**
Option 3 ID : **264330544831**
Option 4 ID : **264330544833**
Status : **Answered**
Chosen Option : **1**

Join Telegram Group "HaryanaJobs.in"

Q.14 एक कार को 20 घंटों में 288 km की दूरी तय करनी है। यदि वह समय के 1/5 भाग में आधी यात्रा तय करती है, तो बचे हुए समय में शेष दूरी को तय करने के लिए चाल ज्ञात कीजिए।

Ans

✗ 1. 8 km/hr
✗ 2. 7 km/hr
✓ 3. 9 km/hr
✗ 4. 6 km/hr

Question Type : **MCQ**
Question ID : **264330141017**
Option 1 ID : **264330552417**
Option 2 ID : **264330552418**
Option 3 ID : **264330552416**
Option 4 ID : **264330552415**
Status : **Answered**
Chosen Option : **3**

Q.15 37, 41 का लघुत्तम समापवर्त्य (LCM) क्या होगा?

Ans

✓ 1. 1517
✗ 2. 1765
✗ 3. 1761
✗ 4. 1254

Question Type : **MCQ**
Question ID : **264330135088**
Option 1 ID : **264330529287**
Option 2 ID : **264330529289**
Option 3 ID : **264330529290**
Option 4 ID : **264330529288**
Status : **Answered**
Chosen Option : **1**

Q.16 Rs. 1800 को A और B के बीच क्रमशः 2:3 के अनुपात में बाँटा जाता है। इसमें A का हिस्सा कितना है?

Ans

✗ 1. Rs. 900
✗ 2. Rs. 840
✓ 3. Rs. 720
✗ 4. Rs. 780

Question Type : **MCQ**
Question ID : **264330138755**
Option 1 ID : **264330543630**
Option 2 ID : **264330543629**
Option 3 ID : **264330543627**
Option 4 ID : **264330543628**
Status : **Answered**
Chosen Option : **3**

Join Telegram Group "HaryanaJobs.in"

Q.17 6 के पहले चार गुणकों का औसत क्या है?

Ans
1. 14 ✗
2. 25 ✗
3. 15 ✓
4. 20 ✗

Question Type : **MCQ**
Question ID : **264330138749**
Option 1 ID : **264330543603**
Option 2 ID : **264330543606**
Option 3 ID : **264330543605**
Option 4 ID : **264330543604**
Status : **Answered**
Chosen Option : **3**

Q.18 पेन के बॉक्स का क्रय मूल्य Rs.400 है। दुकानदार ने क्रय मूल्य पर 10% का बट्टा दिया। विक्रय मूल्य क्या होगा?

Ans
1. Rs. 350 ✗
2. Rs. 360 ✓
3. Rs. 380 ✗
4. Rs. 300 ✗

Question Type : **MCQ**
Question ID : **264330138754**
Option 1 ID : **264330543624**
Option 2 ID : **264330543625**
Option 3 ID : **264330543626**
Option 4 ID : **264330543623**
Status : **Answered**
Chosen Option : **2**

Q.19 एक लम्बवृत्तीय बेलन की त्रिज्या उसकी ऊँचाई की तीन गुनी है। यदि बेलन की ऊँचाई 3.5 cm है, तो बेलन का आयतन कितना है?

Ans
1. 1212.75 cm^3 ✓
2. 1468.25 cm^3 ✗
3. 1124.25 cm^3 ✗
4. 1324.75 cm^3 ✗

Question Type : **MCQ**
Question ID : **264330139069**
Option 1 ID : **264330544885**
Option 2 ID : **264330544883**
Option 3 ID : **264330544884**
Option 4 ID : **264330544886**
Status : **Answered**
Chosen Option : **1**

Join Telegram Group "HaryanaJobs.in"

Q.20 एक वृत्ताकार पथ की बाहरी और आंतरिक परिधि का अनुपात 17 : 15 है। यदि पथ की चौड़ाई 40 मीटर है, तो आंतरिक वृत्त की त्रिज्या कितनी है?

Ans

✗ 1. 360 मीटर

✗ 2. 280 मीटर

✓ 3. 300 मीटर

✗ 4. 340 मीटर

Question Type : **MCQ**
Question ID : **264330137146**
Option 1 ID : **264330537230**
Option 2 ID : **264330537229**
Option 3 ID : **264330537228**
Option 4 ID : **264330537227**
Status : **Answered**
Chosen Option : **1**

Section : **Reasoning Ability and Problem Solving**

Q.1 यदि एक दर्पण को रेखा AB पर रखा जाए, तो दिए गए विकल्पों में से कौन-सी आकृति प्रश्न आकृति का सही प्रतिबिम्ब होगी?

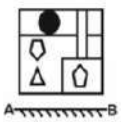

Ans

✗ 1.

✗ 2.

✓ 3.

✗ 4.

Question Type : **MCQ**
Question ID : **264330138580**
Option 1 ID : **264330542927**
Option 2 ID : **264330542929**
Option 3 ID : **264330542928**
Option 4 ID : **264330542930**
Status : **Answered**
Chosen Option : **3**

Join Telegram Group "HaryanaJobs.in"

Q.2 एक निश्चित कूट भाषा में, 'MEDIUM' को 'LDCGSK' लिखा जाता है। उस कूट भाषा में 'PREFER' को कैसे लिखा जाएगा?

Ans

✗ 1. OQCDDP

✓ 2. OQDDCP

✗ 3. OQDDBQ

✗ 4. OQDDDP

Question Type : **MCQ**
Question ID : **264330138833**
Option 1 ID : **264330543942**
Option 2 ID : **264330543939**
Option 3 ID : **264330543940**
Option 4 ID : **264330543941**
Status : **Answered**
Chosen Option : **2**

Q.3 उस विकल्प को चुनिए जिसमें समुच्चय की संख्याएँ वही संबंध साझा करती हैं जो दिए गए समुच्चय में संख्याओं द्वारा साझा किया जाता है। (ध्यान दें: संख्याओं को उनके घटक अंकों में अलग-अलग किए बिना, पूर्ण संख्याओं पर संक्रियाएँ की जानी चाहिए। उदा. 13 – 13 पर संक्रियाएँ जैसे 13 को जोड़ना /घटाना /गुणा करना आदि किया जा सकता है। 13 को 1 और 3 में अलग-अलग करने और फिर 1 और 3 पर गणितीय संक्रियाएँ करने की अनुमति नहीं है)

(14, 20, 26)

(22, 28, 34)

Ans

✓ 1. (32, 38, 44)

✗ 2. (25, 30, 44)

✗ 3. (10, 20, 24)

✗ 4. (4, 6, 11)

Question Type : **MCQ**
Question ID : **264330138618**
Option 1 ID : **264330543082**
Option 2 ID : **264330543081**
Option 3 ID : **264330543080**
Option 4 ID : **264330543079**
Status : **Answered**
Chosen Option : **1**

Q.4 एक श्रृंखला दी गई है जिसमें एक पद लुप्त है। दिए गए विकल्पों में से उस सही विकल्प को चुनिए जो श्रृंखला को पूरा करेगा।

MOG, OMI, QKK, SIM, ?

Ans

✗ 1. VHO

✗ 2. UHO

✗ 3. VGO

✓ 4. UGO

Question Type : **MCQ**
Question ID : **264330138603**
Option 1 ID : **264330543022**
Option 2 ID : **264330543021**
Option 3 ID : **264330543020**
Option 4 ID : **264330543019**
Status : **Answered**
Chosen Option : **4**

Join Telegram Group "HaryanaJobs.in"

Q.5 दी गई दो संख्याओं को आपस में बदलने पर, दिए गए समीकरण का मान क्या होगा?

6 और 2 ; 9 ÷ 2 × 6 + 5 − 1

Ans
1. 9
2. 5
3. 13
4. 7

Question Type : **MCQ**
Question ID : **264330138619**
Option 1 ID : **264330543085**
Option 2 ID : **264330543084**
Option 3 ID : **264330543086**
Option 4 ID : **264330543083**
Status : **Answered**
Chosen Option : **4**

Q.6 आठ लड़के अनिल, कमल, राम, संजय, आकाश, विवेक, राहुल और रामू एक वृत्ताकार मेज के चारों ओर केंद्र की ओर मुख करके बैठे हैं (परंतु जरूरी नहीं कि वे इसी क्रम में बैठे हों)। विवेक, अनिल के दाईं ओर से दूसरे स्थान पर है। अनिल, रामू के दाईं ओर से चौथे स्थान पर है। संजय, राम के दाईं ओर से तीसरे स्थान पर है। राम, विवेक या कमल का निकटतम पड़ोसी नहीं है। रामू, राहुल का निकटतम पड़ोसी नहीं है।

अनिल और राम का निकटतम पड़ोसी कौन है?

Ans
1. रामू
2. संजय
3. राहुल
4. विवेक

Question Type : **MCQ**
Question ID : **264330138610**
Option 1 ID : **264330543050**
Option 2 ID : **264330543048**
Option 3 ID : **264330543047**
Option 4 ID : **264330543049**
Status : **Answered**
Chosen Option : **3**

Q.7 उस विकल्प को चुनिए जो चौथे पद से ठीक उसी प्रकार संबंधित है जिस प्रकार पहला पद दूसरे पद से संबंधित है और पाँचवाँ पद छठवें पद से संबंधित है।

AJM : KHY :: ? : TBC :: PKS : QIN

Ans
1. FDV
2. FCU
3. EDV
4. EDU

Question Type : **MCQ**
Question ID : **264330138605**
Option 1 ID : **264330543028**
Option 2 ID : **264330543030**
Option 3 ID : **264330543027**
Option 4 ID : **264330543029**
Status : **Answered**
Chosen Option : **3**

Join Telegram Group "HaryanaJobs.in"

Q.8 दी गई दो संख्याओं को (न कि अंकों को) आपस में बदलने पर, निम्नलिखित में से कौन-सा समीकरण सही नहीं होगा?

5 और 6

Ans
1. $6 - 5 + 2 = 1$
2. $6 \times 8 - 5 \times 4 = 16$
3. $5 \times 2 - 4 + 6 = 13$
4. $5 - 3 \times 6 + 4 = -3$

Question Type : **MCQ**
Question ID : **264330138620**
Option 1 ID : **264330543090**
Option 2 ID : **264330543088**
Option 3 ID : **264330543087**
Option 4 ID : **264330543089**
Status : **Answered**
Chosen Option : **4**

Q.9 निम्नलिखित प्रश्न में, दी गई श्रृंखला में लुप्त संख्या को चुनिए।

94, 105, 92, 107, 90, ?

Ans
1. 109
2. 115
3. 110
4. 122

Question Type : **MCQ**
Question ID : **264330138616**
Option 1 ID : **264330543071**
Option 2 ID : **264330543074**
Option 3 ID : **264330543072**
Option 4 ID : **264330543073**
Status : **Answered**
Chosen Option : **1**

Q.10 एक निश्चित कूट भाषा में, 'GLOBE' को '40' लिखा जाता है, 'GRASS' को '63' लिखा जाता है। उस कूट भाषा में 'HANDY' को कैसे लिखा जाएगा?

Ans
1. 51
2. 50
3. 49
4. 52

Question Type : **MCQ**
Question ID : **264330137091**
Option 1 ID : **264330537010**
Option 2 ID : **264330537009**
Option 3 ID : **264330537008**
Option 4 ID : **264330537007**
Status : **Answered**
Chosen Option : **1**

Join Telegram Group "HaryanaJobs.in"

Q.11 किसी एक खास कूट भाषा में, 'FAN' को '21' लिखा जाता है। उस भाषा में 'TORCH' को कैसे लिखा जाएगा?

Ans
1. 53
2. 64
3. 74
4. 23

Question Type : **MCQ**
Question ID : **264330133391**
Option 1 ID : **264330522596**
Option 2 ID : **264330522598**
Option 3 ID : **264330522597**
Option 4 ID : **264330522595**
Status : **Answered**
Chosen Option : **2**

Q.12 कौन-सी उत्तर आकृति प्रश्न आकृति में दिए गए पैटर्न को पूरा करेगी?

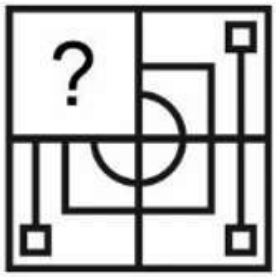

Ans
1.
2.
3.
4.

Question Type : **MCQ**
Question ID : **264330138623**
Option 1 ID : **264330543099**
Option 2 ID : **264330543100**
Option 3 ID : **264330543102**
Option 4 ID : **264330543101**
Status : **Answered**
Chosen Option : **4**

Join Telegram Group "HaryanaJobs.in"

Q.13 आठ लड़के अनिल, कमल, राम, संजय, आकाश, विवेक, राहुल और रामू एक वृत्ताकार मेज के चारों ओर केंद्र से विपरीत दिशा की ओर मुख करके बैठे हैं (परंतु जरूरी नहीं कि वे इसी क्रम में बैठे हों)। रामू, आकाश या संजय का निकटतम पड़ोसी नहीं है। रामू, अनिल के ठीक दाईं ओर है। राहुल, आकाश का निकटतम पड़ोसी है। विवेक, कमल के ठीक बाईं ओर है। राम, आकाश और विवेक दोनों का निकटतम पड़ोसी है। संजय के बाईं ओर से तीसरे स्थान पर कौन बैठा है?

Ans

✗ 1. राहुल

✓ 2. राम

✗ 3. आकाश

✗ 4. विवेक

Question Type : **MCQ**
Question ID : **264330138611**
Option 1 ID : **264330543051**
Option 2 ID : **264330543052**
Option 3 ID : **264330543054**
Option 4 ID : **264330543053**
Status : **Answered**
Chosen Option : **2**

Q.14 निम्नलिखित प्रश्न में, दी गई श्रृंखला में लुप्त संख्या को चुनिए।

50, 39, 27, 14, 0, ?

Ans

✗ 1. −8

✗ 2. −14

✗ 3. −10

✓ 4. −15

Question Type : **MCQ**
Question ID : **264330138615**
Option 1 ID : **264330543069**
Option 2 ID : **264330543070**
Option 3 ID : **264330543068**
Option 4 ID : **264330543067**
Status : **Answered**
Chosen Option : **4**

Q.15 छः गेंदबाजों अनिल, कमल, लक्ष्मण, मोहन, बिट्टू और राहुल द्वारा लिए गए विकेटों की संख्या की तुलना की जाती है। कमल द्वारा लिए गए विकेटों की संख्या केवल अनिल द्वारा लिए गए विकेटों की संख्या से अधिक है। बिट्टू द्वारा लिए गए विकेटों की संख्या केवल दो गेंदबाजों से कम है। मोहन द्वारा लिए गए विकेटों की संख्या बिट्टू से अधिक नहीं है। निम्नलिखित में से किसने बिट्टू से अधिक विकेट लिए हैं?

Ans

✓ 1. राहुल

✗ 2. अनिल

✗ 3. मोहन

✗ 4. कमल

Question Type : **MCQ**
Question ID : **264330138612**
Option 1 ID : **264330543058**
Option 2 ID : **264330543057**
Option 3 ID : **264330543055**
Option 4 ID : **264330543056**
Status : **Answered**
Chosen Option : **1**

Join Telegram Group "HaryanaJobs.in"

Q.16 उस विकल्प को चुनिए जो पाँचवें पद से ठीक उसी प्रकार संबंधित है जिस प्रकार दूसरा पद पहले पद से संबंधित है और चौथा पद तीसरे पद से संबंधित है।

TOP : ZIW :: PAM : VUT :: SQB : ?

Ans

✔ 1. YKI

✘ 2. XKI

✘ 3. YKJ

✘ 4. ZKI

Question Type : **MCQ**
Question ID : **264330138606**
Option 1 ID : **264330543034**
Option 2 ID : **264330543033**
Option 3 ID : **264330543032**
Option 4 ID : **264330543031**
Status : **Answered**
Chosen Option : **1**

Q.17 उस विकल्प आकृति को चुनिए जिसमें दी गई आकृति निहित है। (घूर्णन की अनुमति नहीं है)

Ans

✔ 1.

✘ 2. 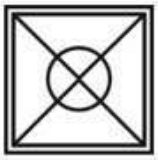

✘ 3.

✘ 4.

Question Type : **MCQ**
Question ID : **264330138579**
Option 1 ID : **264330542923**
Option 2 ID : **264330542924**
Option 3 ID : **264330542926**
Option 4 ID : **264330542925**
Status : **Answered**
Chosen Option : **1**

Join Telegram Group "HaryanaJobs.in"

Q.18 उस विकल्प को चुनिए जो पाँचवीं संख्या से ठीक उसी प्रकार संबंधित है जिस प्रकार दूसरी संख्या पहली संख्या से संबंधित है और चौथी संख्या तीसरी संख्या से संबंधित है।

11 : 122 :: 14 : 197 :: 18 : ?

Ans

✗ 1. 317

✗ 2. 328

✗ 3. 320

✓ 4. 325

Question Type : **MCQ**
Question ID : **264330138617**
Option 1 ID : **264330543078**
Option 2 ID : **264330543076**
Option 3 ID : **264330543077**
Option 4 ID : **264330543075**
Status : **Answered**
Chosen Option : **4**

Q.19 निम्नलिखित प्रश्न में कुछ कथन दिए गए हैं और उन कथनों के आधार पर कुछ निष्कर्ष दिए गए हैं। आपको मानना है कि दिए गए कथन सत्य हैं चाहे वे सामान्यतः ज्ञात तथ्यों से अलग प्रतीत होते हों। सभी निष्कर्षों को पढ़िए और फिर निश्चय कीजिए कि दिए गए निष्कर्षों में से कौन-सा निष्कर्ष तार्किक रूप से दिए गए कथनों के अनुसार है।

कथन:

I. सभी R, M हैं।

II. कुछ S, R हैं।

निष्कर्ष:

I. कुछ R, S हैं।

II. कुछ M, R नहीं हैं।

III. कुछ R, M हैं।

Ans

✓ 1. दोनों निष्कर्ष I और III कथनों के अनुसार हैं

✗ 2. सभी निष्कर्ष कथनों के अनुसार हैं

✗ 3. दोनों निष्कर्ष I और II कथनों के अनुसार हैं

✗ 4. केवल निष्कर्ष II कथनों के अनुसार है

Question Type : **MCQ**
Question ID : **264330138614**
Option 1 ID : **264330543065**
Option 2 ID : **264330543064**
Option 3 ID : **264330543063**
Option 4 ID : **264330543066**
Status : **Answered**
Chosen Option : **1**

Join Telegram Group "HaryanaJobs.in"

Q.20 निम्नलिखित प्रश्न में कुछ कथन दिए गए हैं और उन कथनों के आधार पर कुछ निष्कर्ष दिए गए हैं। आपको मानना है कि दिए गए कथन सत्य हैं चाहे वे समान्यतः ज्ञात तथ्यों से अलग प्रतीत होते हों। सभी निष्कर्षों को पढ़िए और फिर निश्चय कीजिए कि दिए गए निष्कर्षों में से कौन-सा निष्कर्ष तार्किक रूप से दिए गए कथनों के अनुसार है।

कथन:

I. कोई J, K नहीं है।

II. कुछ K, L हैं।

निष्कर्ष:

I. कुछ K, J नहीं हैं।

II. कुछ L, J नहीं हैं।

Ans

✗ 1. केवल निष्कर्ष I कथनों के अनुसार है

✓ 2. दोनों निष्कर्ष I और II कथनों के अनुसार हैं

✗ 3. केवल निष्कर्ष II कथनों के अनुसार है

✗ 4. कोई भी निष्कर्ष कथनों के अनुसार नहीं है

Question Type : **MCQ**
Question ID : **264330138613**
Option 1 ID : **264330543059**
Option 2 ID : **264330543061**
Option 3 ID : **264330543060**
Option 4 ID : **264330543062**
Status : **Answered**
Chosen Option : **2**

Section : **General Awareness**

Q.1 लखनऊ समझौते (Lucknow Pact) पर _____ के बीच हस्ताक्षर हुए थे।

Ans

✗ 1. भारतीय राष्ट्रीय कांग्रेस और आर्य समाज

✓ 2. भारतीय राष्ट्रीय कांग्रेस और मुस्लिम लीग

✗ 3. भारतीय राष्ट्रीय कांग्रेस और सैय्यद अहमद खान

✗ 4. मुस्लिम लीग और महात्मा गांधी

Question Type : **MCQ**
Question ID : **264330138648**
Option 1 ID : **264330543202**
Option 2 ID : **264330543201**
Option 3 ID : **264330543200**
Option 4 ID : **264330543199**
Status : **Answered**
Chosen Option : **2**

Join Telegram Group "HaryanaJobs.in"

Q.2 ग़ज़नी के सुलतान महमूद ने किस प्रसिद्ध भारतीय मंदिर पर हमला किया था?

Ans
1. यमुनोत्री मंदिर, उत्तराखंड
2. लिंगराज मंदिर, उड़ीसा
3. सोमनाथ मंदिर, गुजरात
4. जगन्नाथ पुरी मंदिर, उड़ीसा

Question Type : **MCQ**
Question ID : **264330138696**
Option 1 ID : **264330543394**
Option 2 ID : **264330543392**
Option 3 ID : **264330543393**
Option 4 ID : **264330543391**
Status : **Answered**
Chosen Option : **3**

Q.3 पॉमेल हॉर्स (Pommel Horse), रोमन रिंग्स (Roman Rings) और वॉल्टिंग टेबल (Vaulting Table) का संबंध निम्नलिखित में से किस खेल से है?

Ans
1. पोलो
2. तैराकी
3. घुड़सवारी
4. जिम्नास्टिक्स

Question Type : **MCQ**
Question ID : **264330138678**
Option 1 ID : **264330543321**
Option 2 ID : **264330543320**
Option 3 ID : **264330543322**
Option 4 ID : **264330543319**
Status : **Answered**
Chosen Option : **4**

Q.4 'द ज़ोया फैक्टर (The Zoya Factor)' _____ द्वारा लिखित एक उपन्यास है।

Ans
1. सुकेतु मेहता
2. अनुजा चौहान
3. जेरी पिंटो
4. राजश्री

Question Type : **MCQ**
Question ID : **264330133886**
Option 1 ID : **264330524568**
Option 2 ID : **264330524567**
Option 3 ID : **264330524570**
Option 4 ID : **264330524569**
Status : **Answered**
Chosen Option : **2**

Join Telegram Group "HaryanaJobs.in"

Q.5 "अर्थशास्त्र (Arthashastra)" _____ द्वारा लिखा गया था।

Ans
1. चंद्रगुप्त
2. कालिदास
3. चाणक्य
4. विष्णु शर्मा

Question Type : **MCQ**
Question ID : **264330138645**
Option 1 ID : **264330543189**
Option 2 ID : **264330543187**
Option 3 ID : **264330543188**
Option 4 ID : **264330543190**
Status : **Answered**
Chosen Option : **3**

Q.6 जीव विज्ञान में, " IVF " शब्द का पूर्णरूप _____ है।

Ans
1. इंटरनल विट्रो फ्रेग्मेंटेशन (Internal vitro fragmentation)
2. इन विट्रो फर्टिलाइजेशन (In vitro fertilization)
3. इन विट्रो फ्रेग्मेंटेशन (In vitro fragmentation)
4. इंटरनल वेनम फ्रोस्टिंग (Internal venom frosting)

Question Type : **MCQ**
Question ID : **264330138688**
Option 1 ID : **264330543361**
Option 2 ID : **264330543360**
Option 3 ID : **264330543359**
Option 4 ID : **264330543362**
Status : **Answered**
Chosen Option : **1**

Q.7 भूत आराधना अनुष्ठानिक नृत्य "भूत कोला" का संबंध किस राज्य से है?

Ans
1. आंध्रप्रदेश
2. केरल
3. कर्नाटक
4. तमिलनाडु

Question Type : **MCQ**
Question ID : **264330138674**
Option 1 ID : **264330543306**
Option 2 ID : **264330543305**
Option 3 ID : **264330543303**
Option 4 ID : **264330543304**
Status : **Answered**
Chosen Option : **3**

Join Telegram Group "HaryanaJobs.in"

Q.8 1854 में ईस्ट इंडिया कंपनी के कोर्ट ऑफ डायरेक्टर्स द्वारा भेजा गया वुड का नीतिपत्र (वुड्स डिस्पैच) _____ से संबंधित था।

Ans
1. अकाल ✗
2. शिक्षा ✓
3. सैन्य ✗
4. कपड़ा ✗

Question Type : **MCQ**
Question ID : **264330138697**
Option 1 ID : **264330543396**
Option 2 ID : **264330543398**
Option 3 ID : **264330543395**
Option 4 ID : **264330543397**
Status : **Answered**
Chosen Option : **3**

Q.9 भारत का पड़ोसी देश नेपाल भारत के _____ में स्थित है

Ans
1. पूर्व ✗
2. उत्तर ✓
3. पश्चिम ✗
4. दक्षिण ✗

Question Type : **MCQ**
Question ID : **264330135496**
Option 1 ID : **264330530891**
Option 2 ID : **264330530894**
Option 3 ID : **264330530892**
Option 4 ID : **264330530893**
Status : **Answered**
Chosen Option : **2**

Q.10 किस मुगल सम्राट ने एलोरा के कैलाश मंदिर को तोड़ने का प्रयास किया था?

Ans
1. औरंगज़ेब ✓
2. शाहजहाँ ✗
3. हुमायूँ ✗
4. बाबर ✗

Question Type : **MCQ**
Question ID : **264330138676**
Option 1 ID : **264330543314**
Option 2 ID : **264330543313**
Option 3 ID : **264330543312**
Option 4 ID : **264330543311**
Status : **Answered**
Chosen Option : **1**

Join Telegram Group "HaryanaJobs.in"

Q.11 जब नदी मैदानी क्षेत्र में प्रवेश करती है, तो वह मोड़दार मार्ग पर बहने लगती है। नदी के इन्हीं बड़े मोड़ों को _____ कहते हैं।

Ans
✔ 1. विसर्प
✘ 2. चापझील
✘ 3. तटबंध
✘ 4. स्टैक

Question Type : **MCQ**
Question ID : **264330138689**
Option 1 ID : **264330543363**
Option 2 ID : **264330543364**
Option 3 ID : **264330543365**
Option 4 ID : **264330543366**
Status : **Answered**
Chosen Option : **1**

Q.12 पत्तियों में एक हरा वर्णक होता है, जिसे _____ कहते हैं। यह सूर्य के प्रकाश की ऊर्जा का संग्रहण करने में पत्तियों की सहायता करता है।

Ans
✘ 1. कोशिका द्रव्य
✘ 2. ज़ैंथोफ़िल
✔ 3. क्लोरोफ़िल
✘ 4. क्लैडोफ़िल

Question Type : **MCQ**
Question ID : **264330138687**
Option 1 ID : **264330543356**
Option 2 ID : **264330543357**
Option 3 ID : **264330543358**
Option 4 ID : **264330543355**
Status : **Answered**
Chosen Option : **3**

Q.13 भारत में, राष्ट्रीय मतदाता दिवस _____ को मनाया जाता है।

Ans
✘ 1. 24 फरवरी
✔ 2. 25 जनवरी
✘ 3. 27 दिसंबर
✘ 4. 26 मार्च

Question Type : **MCQ**
Question ID : **264330138685**
Option 1 ID : **264330543347**
Option 2 ID : **264330543348**
Option 3 ID : **264330543350**
Option 4 ID : **264330543349**
Status : **Answered**
Chosen Option : **4**

Join Telegram Group "HaryanaJobs.in"

Q.14 एक बैंक के लिये, मुख्य देनदारी इसकी/इसके _____ हैं।

Ans
1. आस्तियाँ ✗
2. आर्थिक लगान ✗
3. जमाएँ ✓
4. ऋण ✗

Question Type : **MCQ**
Question ID : **264330133891**
Option 1 ID : **264330524587**
Option 2 ID : **264330524588**
Option 3 ID : **264330524590**
Option 4 ID : **264330524589**
Status : **Answered**
Chosen Option : **3**

Q.15 वर्ष 1965 में 'पद्म श्री' प्राप्त करने वाली मृणालिनी साराभाई _____ की एक जानी मानी नर्तकी थीं।

Ans
1. भरतनाट्यम ✓
2. कुचिपुड़ी ✗
3. मणिपुरी ✗
4. ओडिसी ✗

Question Type : **MCQ**
Question ID : **264330133888**
Option 1 ID : **264330524577**
Option 2 ID : **264330524578**
Option 3 ID : **264330524575**
Option 4 ID : **264330524576**
Status : **Answered**
Chosen Option : **1**

Q.16 जून 2022 में, भारतीय रिज़र्व बैंक (RBI) ने _____ शीर्षक के साथ एक रिपोर्ट जारी की है।

Ans
1. पेमेंट्स विजन (Payments Vision) 2025 ✓
2. पेमेंट्स विजन (Payments Vision) 2030 ✗
3. डिजिटल करेंसी विजन (Digital Currency Vision) 2025 ✗
4. डिजिटल करेंसी विजन (Digital Currency Vision) 2030 ✗

Question Type : **MCQ**
Question ID : **264330138683**
Option 1 ID : **264330543339**
Option 2 ID : **264330543340**
Option 3 ID : **264330543341**
Option 4 ID : **264330543342**
Status : **Answered**
Chosen Option : **3**

Join Telegram Group "HaryanaJobs.in"

Q.17 इस भारतीय संगीत हस्ती को पहचानिए।

इनके तत्वाधान में शहनाई एक अनुष्ठानिक वाद्ययंत्र मात्र न रहकर एक शास्त्रीय संगीत वाद्ययंत्र के रूप में पहचानी जाने लगी।

Ans
1. उस्ताद बुंदू खां
2. उस्ताद बिस्मिल्ला खां
3. अल्ला रक्खा
4. पंडित राम नारायण

Question Type : **MCQ**
Question ID : **264330138680**
Option 1 ID : **264330543329**
Option 2 ID : **264330543327**
Option 3 ID : **264330543328**
Option 4 ID : **264330543330**
Status : **Answered**
Chosen Option : **2**

Q.18 जियोर्जिया मेलोनी (Giorgia Meloni) हाल ही में किस देश की पहली महिला प्रधानमंत्री बनी?

Ans
1. स्पेन
2. यूक्रेन
3. ऑस्ट्रिया
4. इटली

Question Type : **MCQ**
Question ID : **264330138682**
Option 1 ID : **264330543335**
Option 2 ID : **264330543337**
Option 3 ID : **264330543338**
Option 4 ID : **264330543336**
Status : **Answered**
Chosen Option : **4**

Q.19 भारतवर्ष में, कौन-से वन बहुतायत में पाए जाते हैं?

Ans
1. पर्वतीय वन
2. उष्ण कटिबंधीय सदाबहार वन
3. मैंग्रोव वन
4. उष्ण कटिबंधीय पर्णपाती वन

Question Type : **MCQ**
Question ID : **264330138692**
Option 1 ID : **264330543378**
Option 2 ID : **264330543376**
Option 3 ID : **264330543375**
Option 4 ID : **264330543377**
Status : **Answered**
Chosen Option : **2**

Join Telegram Group "HaryanaJobs.in"

Q.20 टेबल टेनिस में, टेबल की ऊपरी सतह की लंबाई _____ होती है।

Ans
1. 780 cm ✗
2. 274 cm ✓
3. 270 cm ✗
4. 264 cm ✗

Question Type : **MCQ**
Question ID : **264330138677**
Option 1 ID : **264330543318**
Option 2 ID : **264330543317**
Option 3 ID : **264330543316**
Option 4 ID : **264330543315**
Status : **Answered**
Chosen Option : **4**

Q.21 जो प्रतिबिंब पर्दे पर प्राप्त किया जा सके, _____ कहलाता है।

Ans
1. वास्तविक प्रतिबिंब ✓
2. वर्णक्रमीय प्रतिबिंब ✗
3. आभासी प्रतिबिंब ✗
4. वेक्टर प्रतिबिंब ✗

Question Type : **MCQ**
Question ID : **264330138690**
Option 1 ID : **264330543367**
Option 2 ID : **264330543370**
Option 3 ID : **264330543368**
Option 4 ID : **264330543369**
Status : **Answered**
Chosen Option : **1**

Q.22 निम्नलिखित में से कौन-सा मोटे अनाज का एक उदाहरण नहीं है?

Ans
1. गेहूँ ✓
2. ज्वार ✗
3. रागी ✗
4. बाजरा ✗

Question Type : **MCQ**
Question ID : **264330133898**
Option 1 ID : **264330524616**
Option 2 ID : **264330524615**
Option 3 ID : **264330524618**
Option 4 ID : **264330524617**
Status : **Answered**
Chosen Option : **3**

Join Telegram Group "HaryanaJobs.in"

Q.23 किसी राष्ट्र की जनसंख्या के कार्यशील आयु वर्ग को समान्यतः_____ के बीच वर्गीकृत किया जाता है।

Ans
1. 16 - 60 वर्ष
2. 15 - 59 वर्ष
3. 18 - 62 वर्ष
4. 14 - 58 वर्ष

Question Type : **MCQ**
Question ID : **264330138915**
Option 1 ID : **264330544269**
Option 2 ID : **264330544268**
Option 3 ID : **264330544270**
Option 4 ID : **264330544267**
Status : **Answered**
Chosen Option : **3**

Q.24 भारतीय संविधान का निम्नलिखित में से कौन-सा अनुच्छेद "नागरिकों के लिए समान नागरिक संहिता" से संबंधित है?

Ans
1. अनुच्छेद 42
2. अनुच्छेद 41
3. अनुच्छेद 43
4. अनुच्छेद 44

Question Type : **MCQ**
Question ID : **264330138686**
Option 1 ID : **264330543352**
Option 2 ID : **264330543351**
Option 3 ID : **264330543353**
Option 4 ID : **264330543354**
Status : **Answered**
Chosen Option : **2**

Q.25 हॉर्नबिल महोत्सव निम्नलिखित में से किस राज्य में मनाया जाता है?

Ans
1. तमिलनाडु
2. राजस्थान
3. लद्दाख
4. नगालैंड

Question Type : **MCQ**
Question ID : **264330138625**
Option 1 ID : **264330543107**
Option 2 ID : **264330543110**
Option 3 ID : **264330543108**
Option 4 ID : **264330543109**
Status : **Answered**
Chosen Option : **4**

Section : **English Language and Comprehension**

Join Telegram Group "HaryanaJobs.in"

Q.1 In the following question, out of the given four alternatives, select the alternative which best expresses the meaning of the Idiom/Phrase.
Beat about the bush

Ans
1. ✗ Play tricks with someone
2. ✓ Avoid talking about the main topic
3. ✗ Divide something into many parts
4. ✗ To plan an ambush

Question Type : **MCQ**
Question ID : **264330136815**
Option 1 ID : **264330535956**
Option 2 ID : **264330535958**
Option 3 ID : **264330535957**
Option 4 ID : **264330535955**
Status : **Answered**
Chosen Option : **2**

Q.2 A sentence has been given with a blank to be filled with an appropriate option. Choose the correct alternative.
It's _____ for someone to buy a product that contains no sugar.

Ans
1. ✗ easiest
2. ✓ easier
3. ✗ ease
4. ✗ easily

Question Type : **MCQ**
Question ID : **264330136802**
Option 1 ID : **264330535910**
Option 2 ID : **264330535908**
Option 3 ID : **264330535909**
Option 4 ID : **264330535907**
Status : **Answered**
Chosen Option : **2**

Q.3 Choose the incorrectly spelt word.

Ans
1. ✗ Lastly
2. ✗ Boldly
3. ✓ Happilly
4. ✗ Barely

Question Type : **MCQ**
Question ID : **264330136817**
Option 1 ID : **264330535965**
Option 2 ID : **264330535966**
Option 3 ID : **264330535964**
Option 4 ID : **264330535963**
Status : **Answered**
Chosen Option : **3**

Join Telegram Group "HaryanaJobs.in"

Q.4 Select the most appropriate option to fill in the blank.

She reduced the volume because the _____ music was becoming too much for her.

Ans
1. competent ✗
2. constant ✓
3. concede ✗
4. content ✗

Question Type : **MCQ**
Question ID : **264330136820**
Option 1 ID : **264330535978**
Option 2 ID : **264330535976**
Option 3 ID : **264330535975**
Option 4 ID : **264330535977**
Status : **Answered**
Chosen Option : **2**

Q.5 Choose the word that can substitute the given group of words.

The art of cutting gems

Ans
1. Mining ✗
2. Lapidary ✓
3. Jewelry ✗
4. Philately ✗

Question Type : **MCQ**
Question ID : **264330136810**
Option 1 ID : **264330535936**
Option 2 ID : **264330535937**
Option 3 ID : **264330535935**
Option 4 ID : **264330535938**
Status : **Answered**
Chosen Option : **2**

Q.6 Choose the word that is opposite in meaning to the given word.

Abridge

Ans
1. Syncopate ✗
2. Taper ✗
3. Fortify ✗
4. Elongate ✓

Question Type : **MCQ**
Question ID : **264330136813**
Option 1 ID : **264330535947**
Option 2 ID : **264330535950**
Option 3 ID : **264330535949**
Option 4 ID : **264330535948**
Status : **Answered**
Chosen Option : **4**

Join Telegram Group "HaryanaJobs.in"

Q.7 Select the appropriate synonym for the underlined word.

You were mad at me for having the same ability as you.

Ans
1. Flexibility ✗
2. Skill ✓
3. Feature ✗
4. Inefficacy ✗

Question Type : **MCQ**
Question ID : **264330136811**
Option 1 ID : **264330535942**
Option 2 ID : **264330535941**
Option 3 ID : **264330535940**
Option 4 ID : **264330535939**
Status : **Answered**
Chosen Option : **2**

Q.8 Choose the word that can substitute the given group of words.

The sound made by frogs

Ans
1. Moo ✗
2. Roar ✗
3. Croak ✓
4. Trumpet ✗

Question Type : **MCQ**
Question ID : **264330136809**
Option 1 ID : **264330535932**
Option 2 ID : **264330535934**
Option 3 ID : **264330535933**
Option 4 ID : **264330535931**
Status : **Answered**
Chosen Option : **2**

Q.9 Improve the underlined part of the sentence. Choose 'No improvement' as an answer if the sentence is grammatically correct.

At the grocery store, coffee is in an same aisles as tea.

Ans
1. a same aisles as ✗
2. same aisle is ✗
3. No improvement ✗
4. the same aisle as ✓

Question Type : **MCQ**
Question ID : **264330136850**
Option 1 ID : **264330536091**
Option 2 ID : **264330536093**
Option 3 ID : **264330536094**
Option 4 ID : **264330536092**
Status : **Answered**
Chosen Option : **1**

Join Telegram Group "HaryanaJobs.in"

Q.10 Improve the underlined part of the sentence. Choose 'No improvement' as an answer if the sentence is grammatically correct.

I had to got up early, so I have been in a daze all morning.

Ans

✗ 1. has to get on

✗ 2. No improvement

✓ 3. had to get up

✗ 4. have to got in

Question Type : **MCQ**
Question ID : **264330136826**
Option 1 ID : **264330535999**
Option 2 ID : **264330536002**
Option 3 ID : **264330536000**
Option 4 ID : **264330536001**
Status : **Answered**
Chosen Option : **3**

Q.11 Select the wrongly spelt word.

Ans

✗ 1. Decorous

✗ 2. Declivity

✓ 3. Copous

✗ 4. Cosmopolitan

Question Type : **MCQ**
Question ID : **264330136740**
Option 1 ID : **264330535670**
Option 2 ID : **264330535669**
Option 3 ID : **264330535668**
Option 4 ID : **264330535667**
Status : **Answered**
Chosen Option : **3**

Q.12 Find the part of the given sentence that has an error in it. If there is no error, choose 'No error'.
Factoring is, of course, different from and superior than bill discounting, from the point of view of a small company.

Ans

✗ 1. view of a small company.

✗ 2. No error

✗ 3. bill discounting, from the point of

✓ 4. Factoring is, of course, different from and superior than

Question Type : **MCQ**
Question ID : **264330136797**
Option 1 ID : **264330535889**
Option 2 ID : **264330535890**
Option 3 ID : **264330535888**
Option 4 ID : **264330535887**
Status : **Answered**
Chosen Option : **4**

Join Telegram Group "HaryanaJobs.in"

Q.13 Select the most appropriate option to fill in the blank.

The last man standing was _____, a fully paid vacation to Las Vegas.

Ans

✗ 1. appreciated

✓ 2. rewarded

✗ 3. allotted

✗ 4. discarded

Question Type : **MCQ**
Question ID : **264330136741**
Option 1 ID : **264330535671**
Option 2 ID : **264330535672**
Option 3 ID : **264330535674**
Option 4 ID : **264330535673**
Status : **Answered**
Chosen Option : **3**

Q.14 In the following question, out of the given four alternatives, select the alternative which best expresses the meaning of the Idiom/Phrase.

A bed of nails

Ans

✗ 1. A person with no moral ethics

✗ 2. A fiercely contested fight or dispute

✗ 3. A quick and automatic response

✓ 4. A problematic or uncomfortable situation

Question Type : **MCQ**
Question ID : **264330136816**
Option 1 ID : **264330535960**
Option 2 ID : **264330535959**
Option 3 ID : **264330535961**
Option 4 ID : **264330535962**
Status : **Answered**
Chosen Option : **1**

Q.15 Find the part of the given sentence that has an error in it. If there is no error, choose 'No error'.

Companies will go after one other in their marketing campaigns.

Ans

✓ 1. after one other in

✗ 2. their marketing campaigns.

✗ 3. Companies will go

✗ 4. No error

Question Type : **MCQ**
Question ID : **264330136847**
Option 1 ID : **264330536080**
Option 2 ID : **264330536081**
Option 3 ID : **264330536079**
Option 4 ID : **264330536082**
Status : **Answered**
Chosen Option : **1**

Join Telegram Group "HaryanaJobs.in"

Q.16 Improve the underlined part of the sentence. Choose 'No improvement' as an answer if the sentence is grammatically correct.

You'll have to brakes hard when you go down the hill.

Ans

✔ 1. brake hard

✘ 2. No improvement

✘ 3. brake hardly

✘ 4. braked hard

Question Type : **MCQ**
Question ID : **264330135286**
Option 1 ID : **264330530059**
Option 2 ID : **264330530062**
Option 3 ID : **264330530061**
Option 4 ID : **264330530060**
Status : **Answered**
Chosen Option : **1**

Q.17 A sentence has been given with a blank to be filled with an appropriate option. Choose the correct alternative.
He was stable _____ they met.

Ans

✘ 1. hence

✔ 2. when

✘ 3. lest

✘ 4. while

Question Type : **MCQ**
Question ID : **264330136801**
Option 1 ID : **264330535904**
Option 2 ID : **264330535905**
Option 3 ID : **264330535903**
Option 4 ID : **264330535906**
Status : **Answered**
Chosen Option : **2**

Q.18 Choose the word that means the same as the given word.

Ulterior

Ans

✘ 1. Ancient

✘ 2. Prior

✘ 3. Anterior

✔ 4. Eventual

Question Type : **MCQ**
Question ID : **264330136786**
Option 1 ID : **264330535845**
Option 2 ID : **264330535843**
Option 3 ID : **264330535844**
Option 4 ID : **264330535846**
Status : **Answered**
Chosen Option : **2**

Join Telegram Group "HaryanaJobs.in"

Q.19 Find the part of the given sentence that has an error in it. If there is no error, choose 'No error'.

Where can I find a good Chinese restaurant about here?

Ans

1. No error
2. a good Chinese
3. Where can I find
4. restaurant about here?

Question Type : **MCQ**
Question ID : **264330135283**
Option 1 ID : **264330530050**
Option 2 ID : **264330530048**
Option 3 ID : **264330530047**
Option 4 ID : **264330530049**
Status : **Answered**
Chosen Option : **3**

Q.20 Select the appropriate antonym for the underlined word.

I need to spend some time fixing the <u>disorder</u> of my bookshelves.

Ans

1. Plague
2. Condition
3. Regulate
4. Chaos

Question Type : **MCQ**
Question ID : **264330136814**
Option 1 ID : **264330535954**
Option 2 ID : **264330535952**
Option 3 ID : **264330535951**
Option 4 ID : **264330535953**
Status : **Answered**
Chosen Option : **3**

Join Telegram Group "HaryanaJobs.in"

Comprehension:

In the following passage some of the words have been deleted. Read the passage carefully and select the correct answer for the given blank out of the four alternatives.

In Switzerland these glacial meltwaters are (1) _____ for hydropower. In fact, water falling on 93% of Switzerland ultimately passes (2) _____ at least one electric power plant before even (3) _____ the country. So one consequence is that melting glaciers help to (4) _____ for low rainfall in times of drought, filling reservoirs to supply the nation's (5) _____ supply.

SubQuestion No : 21

Q.21 Select the most appropriate option to fill in the blank No. 1.

Ans

✔ 1. used

✘ 2. chosen

✘ 3. glued

✘ 4. plotted

Question Type : **MCQ**
Question ID : **264330136804**
Option 1 ID : **264330535911**
Option 2 ID : **264330535912**
Option 3 ID : **264330535913**
Option 4 ID : **264330535914**
Status : **Answered**
Chosen Option : **1**

Comprehension:

In the following passage some of the words have been deleted. Read the passage carefully and select the correct answer for the given blank out of the four alternatives.

In Switzerland these glacial meltwaters are (1) _____ for hydropower. In fact, water falling on 93% of Switzerland ultimately passes (2) _____ at least one electric power plant before even (3) _____ the country. So one consequence is that melting glaciers help to (4) _____ for low rainfall in times of drought, filling reservoirs to supply the nation's (5) _____ supply.

SubQuestion No : 22

Q.22 Select the most appropriate option to fill in the blank No. 2.

Ans

✔ 1. through

✘ 2. beneath

✘ 3. for

✘ 4. with

Question Type : **MCQ**
Question ID : **264330136805**
Option 1 ID : **264330535916**
Option 2 ID : **264330535918**
Option 3 ID : **264330535915**
Option 4 ID : **264330535917**
Status : **Answered**
Chosen Option : **1**

Join Telegram Group "HaryanaJobs.in"

Comprehension:

In the following passage some of the words have been deleted. Read the passage carefully and select the correct answer for the given blank out of the four alternatives.

In Switzerland these glacial meltwaters are (1) _____ for hydropower. In fact, water falling on 93% of Switzerland ultimately passes (2) _____ at least one electric power plant before even (3) _____ the country. So one consequence is that melting glaciers help to (4) _____ for low rainfall in times of drought, filling reservoirs to supply the nation's (5) _____ supply.

SubQuestion No : 23

Q.23 Select the most appropriate option to fill in the blank No. 3.

Ans

✗ 1. throwing

✗ 2. sieving

✓ 3. leaving

✗ 4. catching

Question Type : **MCQ**
Question ID : **264330136806**
Option 1 ID : **264330535919**
Option 2 ID : **264330535921**
Option 3 ID : **264330535920**
Option 4 ID : **264330535922**
Status : **Answered**
Chosen Option : **4**

Comprehension:

In the following passage some of the words have been deleted. Read the passage carefully and select the correct answer for the given blank out of the four alternatives.

In Switzerland these glacial meltwaters are (1) _____ for hydropower. In fact, water falling on 93% of Switzerland ultimately passes (2) _____ at least one electric power plant before even (3) _____ the country. So one consequence is that melting glaciers help to (4) _____ for low rainfall in times of drought, filling reservoirs to supply the nation's (5) _____ supply.

SubQuestion No : 24

Q.24 Select the most appropriate option to fill in the blank No. 4.

Ans

✓ 1. compensate

✗ 2. slate

✗ 3. surrender

✗ 4. stall

Question Type : **MCQ**
Question ID : **264330136807**
Option 1 ID : **264330535925**
Option 2 ID : **264330535924**
Option 3 ID : **264330535926**
Option 4 ID : **264330535923**
Status : **Answered**
Chosen Option : **4**

Join Telegram Group "HaryanaJobs.in"

Comprehension:

In the following passage some of the words have been deleted. Read the passage carefully and select the correct answer for the given blank out of the four alternatives.

In Switzerland these glacial meltwaters are (1) _____ for hydropower. In fact, water falling on 93% of Switzerland ultimately passes (2) _____ at least one electric power plant before even (3) _____ the country. So one consequence is that melting glaciers help to (4) _____ for low rainfall in times of drought, filling reservoirs to supply the nation's (5) _____ supply.

SubQuestion No : 25

Q.25 Select the most appropriate option to fill in the blank No. 5.

Ans

✗ 1. stage

✗ 2. cooking

✗ 3. air

✓ 4. energy

Question Type : **MCQ**
Question ID : **264330136808**
Option 1 ID : **264330535927**
Option 2 ID : **264330535929**
Option 3 ID : **264330535928**
Option 4 ID : **264330535930**
Status : **Answered**
Chosen Option : **4**

Join Telegram Group "HaryanaJobs.in"

Multi Tasking Non Technical Staff and Havaldar CBIC and CBN Examination 2022

Roll Number	HaryanaJobs.in
Candidate Name	HaryanaJobs.in
Venue Name	Uma Digital Online Mock And Assessment Centre
Exam Date	03/05/2023
Exam Time	9:00 AM - 10:30 AM
Subject	MTS Non Tech Havaldar CBIC and CBN Examination 2022

Section : **Numerical and Mathematical Ability**

Q.1 यदि एक वर्ग का क्षेत्रफल 529 cm^2 है, तो इसके विकर्ण की लंबाई क्या है?

Ans

✗ 1. 46 cm

✗ 2. 23 cm

✓ 3. $23\sqrt{2}$ cm

✗ 4. $26\sqrt{3}$ cm

Question Type : **MCQ**
Question ID : **264330133645**
Option 1 ID : **264330523606**
Option 2 ID : **264330523605**
Option 3 ID : **264330523603**
Option 4 ID : **264330523604**
Status : **Answered**
Chosen Option : **3**

Q.2 P अकेले एक कार्य को 15 दिनों में पूरा कर सकता है और Q अकेले उसी कार्य को 12 दिनों में पूरा कर सकता है। वे एक साथ कार्य शुरू करते हैं लेकिन 3 दिन बाद P कार्य छोड़ देता है। शेष कार्य को पूरा करने में Q को कितना समय लगेगा?

Ans

✗ 1. 7.8 दिन

✗ 2. 8.5 दिन

✓ 3. 6.6 दिन

✗ 4. 7.2 दिन

Question Type : **MCQ**
Question ID : **264330137322**
Option 1 ID : **264330537915**
Option 2 ID : **264330537916**
Option 3 ID : **264330537918**
Option 4 ID : **264330537917**
Status : **Answered**
Chosen Option : **3**

Join Telegram Group "HaryanaJobs.in"

Q.3 Rs. 11000 की धनराशि पर 11% वार्षिक दर पर 2 वर्ष के लिए चक्रवृद्धि ब्याज और साधारण ब्याज के बीच का अंतर ज्ञात कीजिए।

Ans
1. Rs.155.6
2. Rs.133.1
3. Rs.144.4
4. Rs.121.1

Question Type : **MCQ**
Question ID : **264330135381**
Option 1 ID : **264330530434**
Option 2 ID : **264330530432**
Option 3 ID : **264330530433**
Option 4 ID : **264330530431**
Status : **Answered**
Chosen Option : **2**

Q.4 221 + 207 - 3 of 44 + 7 × 4 का मान ज्ञात कीजिए।

Ans
1. 324
2. 355
3. 320
4. 333

Question Type : **MCQ**
Question ID : **264330135412**
Option 1 ID : **264330530555**
Option 2 ID : **264330530557**
Option 3 ID : **264330530558**
Option 4 ID : **264330530556**
Status : **Answered**
Chosen Option : **1**

Q.5 स्थिर जल में एक नाव की चाल 44 km/hr है और धारा की चाल 26 km/hr है। नाव की धारा के प्रतिकूल चाल ज्ञात कीजिए।

Ans
1. 13 km/hr
2. 18 km/hr
3. 12 km/hr
4. 14 km/hr

Question Type : **MCQ**
Question ID : **264330135426**
Option 1 ID : **264330530612**
Option 2 ID : **264330530611**
Option 3 ID : **264330530614**
Option 4 ID : **264330530613**
Status : **Answered**
Chosen Option : **2**

Join Telegram Group "HaryanaJobs.in"

Q.6 एक आदमी एक रुपए में 21 आम खरीदता है। उसे एक रुपए में कितने आम बेचने होंगे जिससे उसे 30 प्रतिशत की हानि हो?

Ans

✔ 1. 30

✘ 2. 40

✘ 3. 25

✘ 4. 35

Question Type : **MCQ**
Question ID : **264330138021**
Option 1 ID : **264330540694**
Option 2 ID : **264330540693**
Option 3 ID : **264330540691**
Option 4 ID : **264330540692**
Status : **Answered**
Chosen Option : **1**

Q.7 चीनी के मूल्य में 40% की वृद्धि होती है। चीनी की खपत में कितने प्रतिशत की कटौती करनी होगी ताकि चीनी पर कोई अतिरिक्त राशि खर्च न करनी पड़े?

Ans

✘ 1. 66.6%

✘ 2. 33.5%

✘ 3. 26.6%

✔ 4. 28.5%

Question Type : **MCQ**
Question ID : **264330135374**
Option 1 ID : **264330530406**
Option 2 ID : **264330530403**
Option 3 ID : **264330530404**
Option 4 ID : **264330530405**
Status : **Answered**
Chosen Option : **4**

Join Telegram Group "HaryanaJobs.in"

Q.8 निम्न दंड आलेख में चार अलग-अलग गाँवों की जनसंख्या, उसमें पुरुषों की संख्या और महिलाओं की संख्या को दर्शाया गया है। उन चार गाँवों में बच्चों की कुल संख्या ज्ञात कीजिए।

कुल जनसंख्या = पुरुषों की संख्या + महिलाओं की संख्या + बच्चों की संख्या।

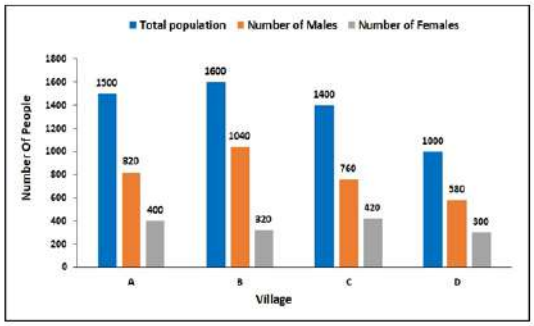

Total population - कुल जनसंख्या, Number of Males - पुरुषों की संख्या, Number of Females - महिलाओं की संख्या, Number of People - व्यक्तियों की संख्या, Village - गाँव

Ans
✔ 1. 860
✘ 2. 760
✘ 3. 940
✘ 4. 990

Question Type : **MCQ**
Question ID : **264330135430**
Option 1 ID : **264330530628**
Option 2 ID : **264330530629**
Option 3 ID : **264330530627**
Option 4 ID : **264330530630**
Status : **Answered**
Chosen Option : **1**

Q.9 साधारण ब्याज दर से 2 वर्ष में Rs.11500 की राशि Rs.12880 हो जाती है। ब्याज दर क्या है?

Ans
✔ 1. 6% वार्षिक
✘ 2. 8% वार्षिक
✘ 3. 4% वार्षिक
✘ 4. 10% वार्षिक

Question Type : **MCQ**
Question ID : **264330133683**
Option 1 ID : **264330523756**
Option 2 ID : **264330523755**
Option 3 ID : **264330523757**
Option 4 ID : **264330523758**
Status : **Answered**
Chosen Option : **1**

Join Telegram Group "HaryanaJobs.in"

Q.10 यदि A : B बराबर 7 : 4 है और A - B = 9 है, तो A + B का मान क्या है?

Ans
1. 33 ✔
2. 23 ✘
3. 40 ✘
4. 21 ✘

Question Type : **MCQ**
Question ID : **264330135423**
Option 1 ID : **264330530602**
Option 2 ID : **264330530601**
Option 3 ID : **264330530599**
Option 4 ID : **264330530600**
Status : **Answered**
Chosen Option : **1**

Q.11 77 cm, 110 cm और 121 cm लंबाई वाली, धातु की तीन छड़ों को बराबर लंबाई के टुकड़ों में काटा जाना है। प्रत्येक भाग यथासंभव लंबा होना चाहिए। काटे जा सकने वाले टुकड़ों की अधिकतम संख्या कितनी है?

Ans
1. 28 ✔
2. 11 ✘
3. 21 ✘
4. 18 ✘

Question Type : **MCQ**
Question ID : **264330138091**
Option 1 ID : **264330540974**
Option 2 ID : **264330540972**
Option 3 ID : **264330540971**
Option 4 ID : **264330540973**
Status : **Answered**
Chosen Option : **2**

Q.12 छः भाइयों की औसत आयु 15 वर्ष है। यदि उनके पिता की आयु को भी शामिल कर लिया जाए, तो औसत में 7 वर्ष की वृद्धि हो जाती है। पिता की (वर्षों में) आयु ज्ञात कीजिए।

Ans
1. 44 वर्ष ✘
2. 64 वर्ष ✔
3. 60 वर्ष ✘
4. 77 वर्ष ✘

Question Type : **MCQ**
Question ID : **264330135415**
Option 1 ID : **264330530570**
Option 2 ID : **264330530569**
Option 3 ID : **264330530567**
Option 4 ID : **264330530568**
Status : **Answered**
Chosen Option : **2**

Join Telegram Group "HaryanaJobs.in"

Q.13 एक व्यक्ति ने किसी एक वस्तु को 4% की हानि पर बेचा। यदि उसने इसे 1% के लाभ पर बेचा होता, तो उसे Rs.42.5 अधिक प्राप्त होते। 18% लाभ अर्जित करने के लिए, उस वस्तु का विक्रय मूल्य कितना होना चाहिए?

Ans

1. ✗ Rs.900
2. ✗ Rs.850
3. ✓ Rs.1003
4. ✗ Rs.756

Question Type : **MCQ**
Question ID : **264330135420**
Option 1 ID : **264330530587**
Option 2 ID : **264330530589**
Option 3 ID : **264330530590**
Option 4 ID : **264330530588**
Status : **Answered**
Chosen Option : **3**

Q.14 तालिका में 4 छात्रों के अंक दिए गए हैं। सभी अंक 100 में से प्राप्त किए गए हैं। सभी छः विषयों को मिलाकर रवीना ने कुल कितने प्रतिशत अंक प्राप्त किए हैं?

Student Name	Marks					
	Hindi	English	Social Science	Science	Mathematics	Computer
Kavita	84	82	74	90	94	90
Anuradha	62	74	70	60	80	55
Anchal	56	60	64	55	68	62
Ravina	80	78	84	70	85	70

Student Name = छात्र का नाम, Marks = अंक, Hindi = हिन्दी, English = अंग्रेज़ी , Social Science = सामाजिक विज्ञान,
Science = विज्ञान, Mathematics = गणित, Compute = कंप्यूटर
Kavita = कविता, Anuradha = अनुराधा, Anchal = अंचल, Ravina = रवीना

Ans

1. ✗ 75%
2. ✗ 74%
3. ✓ 78%
4. ✗ 71%

Question Type : **MCQ**
Question ID : **264330135125**
Option 1 ID : **264330529435**
Option 2 ID : **264330529436**
Option 3 ID : **264330529438**
Option 4 ID : **264330529437**
Status : **Answered**
Chosen Option : **3**

Join Telegram Group "HaryanaJobs.in"

Q.15 $[0.004 \times \{5 \div (21 - 6) \times 3\} + 0.8]$ का मान निम्न में से _____ के बीच स्थित है।

Ans

✔ 1. 0.5 और 0.9

✘ 2. 1.0 और 1.4

✘ 3. 1.5 और 1.9

✘ 4. 0 और 0.4

Question Type : **MCQ**
Question ID : **264330135109**
Option 1 ID : **264330529372**
Option 2 ID : **264330529373**
Option 3 ID : **264330529374**
Option 4 ID : **264330529371**
Status : **Answered**
Chosen Option : **1**

Q.16 X और Y मिलकर किसी काम को 30 दिनों में पूरा कर सकते हैं। Z अकेले इसे 60 दिनों में कर सकता है। यदि वे साथ मिलकर काम करते हैं, तो वे कितने दिनों में काम को पूरा कर सकते हैं?

Ans

✘ 1. 45 दिन

✘ 2. 25 दिन

✔ 3. 20 दिन

✘ 4. 50 दिन

Question Type : **MCQ**
Question ID : **264330133640**
Option 1 ID : **264330523583**
Option 2 ID : **264330523585**
Option 3 ID : **264330523586**
Option 4 ID : **264330523584**
Status : **Answered**
Chosen Option : **3**

Q.17 एक समलंब की दो समानांतर भुजाओं की लंबाई 15 मीटर और 20 मीटर है। यदि इसकी ऊँचाई 22 मीटर है, तो समलंब का क्षेत्रफल कितना है?

Ans

✘ 1. 295 metre^2

✔ 2. 385 metre^2

✘ 3. 315 metre^2

✘ 4. 425 metre^2

Question Type : **MCQ**
Question ID : **264330137337**
Option 1 ID : **264330537976**
Option 2 ID : **264330537975**
Option 3 ID : **264330537977**
Option 4 ID : **264330537978**
Status : **Answered**
Chosen Option : **2**

Join Telegram Group "HaryanaJobs.in"

Q.18 यदि 750 को दो भागों में इस प्रकार बाँटा जाए कि एक संख्या दूसरी संख्या से 8 : 7 के अनुपात में हो, तो सबसे छोटी संख्या ज्ञात कीजिए।

Ans
1. 350 ✓
2. 90 ✗
3. 120 ✗
4. 135 ✗

Question Type : **MCQ**
Question ID : **264330135422**
Option 1 ID : **264330530595**
Option 2 ID : **264330530596**
Option 3 ID : **264330530597**
Option 4 ID : **264330530598**
Status : **Answered**
Chosen Option : **1**

Q.19 एक मैच में, 4 बल्लेबाजों द्वारा बनाए गए औसत रन 48 हैं। यदि तीन बल्लेबाजों द्वारा बनाए गए रन क्रमशः 58, 28 और 24 हैं, तो चौथे खिलाड़ी ने कितने रन बनाए?

Ans
1. 82 ✓
2. 94 ✗
3. 68 ✗
4. 72 ✗

Question Type : **MCQ**
Question ID : **264330137628**
Option 1 ID : **264330539120**
Option 2 ID : **264330539122**
Option 3 ID : **264330539119**
Option 4 ID : **264330539121**
Status : **Answered**
Chosen Option : **1**

Q.20 15% और 35% के क्रमागत बट्टे कितने एकल बट्टे के बराबर हैं?

Ans
1. 42.28% ✗
2. 12.5% ✗
3. 44.75% ✓
4. 33.33% ✗

Question Type : **MCQ**
Question ID : **264330135421**
Option 1 ID : **264330530594**
Option 2 ID : **264330530593**
Option 3 ID : **264330530591**
Option 4 ID : **264330530592**
Status : **Answered**
Chosen Option : **3**

Section : **Reasoning Ability and Problem Solving**

Join Telegram Group "HaryanaJobs.in"

Q.1 नीचे दिए गए प्रश्न में कुछ कथन दिए गए हैं और उन कथनों के आधार पर कुछ निष्कर्ष दिए गए हैं। आपको मानना है कि दिए गए कथन सत्य हैं चाहे वे समान्यतः ज्ञात तथ्यों से अलग प्रतीत होते हों। सभी निष्कर्षों को पढ़िए और फिर निश्चय कीजिए कि दिए गए निष्कर्षों में से कौन-सा निष्कर्ष तार्किक रूप से दिए गए कथनों के अनुसार है।

कथन:

I. कुछ पुरुष, कमजोर हैं।

II. कोई कमजोर, मज़बूत नहीं है।

निष्कर्ष:

I. कुछ कमजोर, पुरुष हैं।

II. सभी मज़बूत, पुरुष हैं।

III. कुछ मज़बूत, कमजोर हैं।

Ans
1. सभी निष्कर्ष कथनों के अनुसार हैं
2. दोनों निष्कर्ष I और III कथनों के अनुसार हैं
3. केवल निष्कर्ष II कथनों के अनुसार है
4. केवल निष्कर्ष I कथनों के अनुसार है

Question Type : **MCQ**
Question ID : **264330135627**
Option 1 ID : **264330531410**
Option 2 ID : **264330531408**
Option 3 ID : **264330531407**
Option 4 ID : **264330531409**
Status : **Answered**
Chosen Option : **4**

Q.2 निम्नलिखित प्रश्न में दी गई श्रृंखला में लुप्त संख्या को चुनिए।

100, 105, 92, 113, 84, ?

Ans
1. 120
2. 122
3. 118
4. 121

Question Type : **MCQ**
Question ID : **264330135629**
Option 1 ID : **264330531415**
Option 2 ID : **264330531417**
Option 3 ID : **264330531416**
Option 4 ID : **264330531418**
Status : **Answered**
Chosen Option : **4**

Join Telegram Group "HaryanaJobs.in"

Q.3 छः लड़कियाँ तान्या, पूजा, ऋचा, नेहा, निशा और अर्पिता एक गोलाकार मेज के चारों ओर केंद्र की ओर मुख करके बैठी हैं (परंतु जरूरी नहीं कि वे इसी क्रम में बैठी हों)। तान्या और पूजा एक-दूसरे के बगल में बैठी हैं। नेहा और निशा एक दूसरे के बगल में बैठी हैं। ऋचा और तान्या के बीच केवल दो लड़कियाँ बैठी हैं। पूजा,अर्पिता के ठीक बाईं ओर बैठी है। नेहा तान्या के बगल में नहीं बैठी है। तान्या के ठीक बाईं ओर कौन बैठा है?

Ans

✔ 1. निशा

✘ 2. ऋचा

✘ 3. अर्पिता

✘ 4. पूजा

Question Type : **MCQ**
Question ID : **264330135624**
Option 1 ID : **264330531395**
Option 2 ID : **264330531398**
Option 3 ID : **264330531397**
Option 4 ID : **264330531396**
Status : **Answered**
Chosen Option : **1**

Q.4 एक श्रृंखला दी गई है जिसमें एक पद लुप्त है। दिए गए विकल्पों में से उस सही विकल्प को चुनिए जो श्रृंखला को पूरा करेगा।

TP, VM, XJ, ZG, ?

Ans

✘ 1. CD

✘ 2. BE

✘ 3. CE

✔ 4. BD

Question Type : **MCQ**
Question ID : **264330135615**
Option 1 ID : **264330531361**
Option 2 ID : **264330531359**
Option 3 ID : **264330531362**
Option 4 ID : **264330531360**
Status : **Answered**
Chosen Option : **4**

Q.5 उस विकल्प को चुनिए जिसमें समुच्चय में दी गई संख्याएँ वही संबंध साझा करती हैं जो दिए गए समुच्चय में संख्याओं द्वारा साझा किया जाता है। (ध्यान दें: संख्याओं को उनके घटक अंकों में अलग-अलग किए बिना, पूर्ण संख्याओं पर संक्रियाएँ की जानी चाहिए। उदा. 13 - 13 पर संक्रियाएँ जैसे 13 को जोड़ना /घटाना /गुणा करना आदि किया जा सकता है। 13 को 1 और 3 में अलग-अलग करने की और फिर 1 और 3 पर गणितीय संक्रियाएँ करने की अनुमति नहीं है)

(12, 60, 5)

(14, 56, 4)

Ans

✔ 1. (10, 100, 10)

✘ 2. (4, 20, 8)

✘ 3. (20, 5, 7)

✘ 4. (7, 70, 8)

Question Type : **MCQ**
Question ID : **264330135631**
Option 1 ID : **264330531423**
Option 2 ID : **264330531426**
Option 3 ID : **264330531424**
Option 4 ID : **264330531425**
Status : **Answered**
Chosen Option : **1**

Join Telegram Group "HaryanaJobs.in"

Q.6 निम्नलिखित प्रश्न में, दी गई श्रृंखला में लुप्त संख्या को चुनिए।

115, 117, 119, 121, 123, ?

Ans
1. 124 ✗
2. 127 ✗
3. 131 ✗
4. 125 ✓

Question Type : **MCQ**
Question ID : **264330135574**
Option 1 ID : **264330531195**
Option 2 ID : **264330531196**
Option 3 ID : **264330531198**
Option 4 ID : **264330531197**
Status : **Answered**
Chosen Option : **4**

Q.7 (::) के बाईं ओर दिए गए शब्द एक-दूसरे से किसी तर्क/नियम/संबंध से संबंधित हैं। उसी तर्क/नियम/संबंध के आधार पर दिए गए विकल्पों में से (::) के दाईं ओर लुप्त शब्द/शब्द युग्म को चुनिए।

कृंतक : चूहा :: ?

Ans
1. क्रॉकरी : कप ✓
2. आदमी : स्तनपायी ✗
3. सरीसृप : हाथी ✗
4. कलम : स्टेशनरी ✗

Question Type : **MCQ**
Question ID : **264330135618**
Option 1 ID : **264330531372**
Option 2 ID : **264330531374**
Option 3 ID : **264330531373**
Option 4 ID : **264330531371**
Status : **Answered**
Chosen Option : **2**

Q.8 पाँच कारों B, M, J, N और U के मूल्यों की तुलना की जाती है। J का मूल्य U, M और N के मूल्य से कम है। B का मूल्य सबसे कम है। कोई भी दो कारों का मूल्य एक समान नहीं है। U का मूल्य M के मूल्य से कम है। न तो U और न ही M का मूल्य सबसे अधिक है। कितनी कारों का मूल्य M के मूल्य से कम है?

Ans
1. 1 ✗
2. 4 ✗
3. 2 ✗
4. 3 ✓

Question Type : **MCQ**
Question ID : **264330135625**
Option 1 ID : **264330531399**
Option 2 ID : **264330531401**
Option 3 ID : **264330531402**
Option 4 ID : **264330531400**
Status : **Answered**
Chosen Option : **4**

Join Telegram Group "HaryanaJobs.in"

Q.9 एक निश्चित कूट भाषा में, 'NAMED' को 'MBLFC' लिखा जाता है। उस भाषा में 'RAZOR' को कैसे लिखा जाएगा?

Ans

✔ 1. QBYPQ

✘ 2. QYBPQ

✘ 3. YQBPQ

✘ 4. QBYQP

Question Type : **MCQ**
Question ID : **264330137834**
Option 1 ID : **264330539944**
Option 2 ID : **264330539945**
Option 3 ID : **264330539946**
Option 4 ID : **264330539943**
Status : **Answered**
Chosen Option : **1**

Q.10 उस विकल्प को चुनिए जो पाँचवें पद से ठीक उसी प्रकार संबंधित है जिस प्रकार दूसरा पद पहले पद से संबंधित है और चौथा पद तीसरे पद से संबंधित है।

AR37 : DW44 :: PQ43 : SV5O :: GF31 : ?

Ans

✘ 1. JJ38

✘ 2. KK38

✔ 3. JK38

✘ 4. KM38

Question Type : **MCQ**
Question ID : **264330135617**
Option 1 ID : **264330531370**
Option 2 ID : **264330531368**
Option 3 ID : **264330531367**
Option 4 ID : **264330531369**
Status : **Answered**
Chosen Option : **3**

Join Telegram Group "HaryanaJobs.in"

Q.11 कौन-सी उत्तर आकृति प्रश्न आकृति में पैटर्न को पूरा करेगी?

Ans

✗ 1.

✗ 2.

✗ 3.

✓ 4.

Question Type : **MCQ**
Question ID : **264330135636**
Option 1 ID : **264330531446**
Option 2 ID : **264330531444**
Option 3 ID : **264330531445**
Option 4 ID : **264330531443**
Status : **Answered**
Chosen Option : **4**

Q.12 दिए गए दो चिन्हों को आपस में बदलने पर, दिए गए समीकरण का मान क्या होगा?

× और + ; 24 × 8 + 6 ÷ 3 − 18

Ans

✓ 1. 22

✗ 2. 24

✗ 3. 20

✗ 4. 23

Question Type : **MCQ**
Question ID : **264330135632**
Option 1 ID : **264330531429**
Option 2 ID : **264330531428**
Option 3 ID : **264330531427**
Option 4 ID : **264330531430**
Status : **Answered**
Chosen Option : **1**

Join Telegram Group "HaryanaJobs.in"

Q.13 एक निश्चित कूट भाषा में, 'FOLDER' को 'PCBJMD' लिखा जाता है। उस कूट भाषा में 'DOLLAR' को कैसे लिखा जाएगा?

Ans
1. PZJJMB
2. PYJJMB
3. PYJJMC
4. PYKKMC

Question Type : **MCQ**
Question ID : **264330137114**
Option 1 ID : **264330537102**
Option 2 ID : **264330537099**
Option 3 ID : **264330537101**
Option 4 ID : **264330537100**
Status : **Answered**
Chosen Option : **2**

Q.14 एक निश्चित कूट भाषा में, 'HUMP' को 'GTLO' लिखा जाता है और 'LIKE' को 'KHJD' लिखा जाता है। उस भाषा में 'PLAY' को कैसे लिखा जाएगा?

Ans
1. QKZX
2. OKZX
3. OKYX
4. OJZX

Question Type : **MCQ**
Question ID : **264330133565**
Option 1 ID : **264330523286**
Option 2 ID : **264330523283**
Option 3 ID : **264330523284**
Option 4 ID : **264330523285**
Status : **Answered**
Chosen Option : **2**

Q.15 उस विकल्प को चुनिए जो पाँचवीं संख्या से ठीक उसी प्रकार संबंधित है जिस प्रकार दूसरी संख्या पहली संख्या से संबंधित है और चौथी संख्या तीसरी संख्या से संबंधित है।

5 : 127 :: 6 : 218 :: 3 : ?

Ans
1. 29
2. 39
3. 28
4. 42

Question Type : **MCQ**
Question ID : **264330135576**
Option 1 ID : **264330531203**
Option 2 ID : **264330531206**
Option 3 ID : **264330531204**
Option 4 ID : **264330531205**
Status : **Answered**
Chosen Option : **1**

Join Telegram Group "HaryanaJobs.in"

Q.16 दी गई आकृति के उस सही दर्पण प्रतिबिंब को चुनिए जो दर्पण MN को आकृति की दाहिनी ओर रखने पर बनेगा।

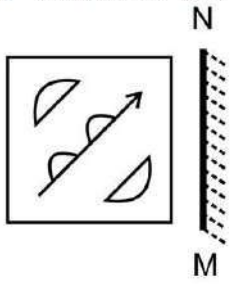

Ans

✗ 1.



✗ 2.



✗ 3.

✓ 4.

Question Type : **MCQ**
Question ID : **264330135018**
Option 1 ID : **264330529007**
Option 2 ID : **264330529009**
Option 3 ID : **264330529008**
Option 4 ID : **264330529010**
Status : **Answered**
Chosen Option : **4**

Join Telegram Group "HaryanaJobs.in"

Q.17 छः लड़के राहुल, राम, रमेश, सोहन, साहिल और अनिल एक पंक्ति में उत्तर की ओर मुख करके बैठे हैं (परंतु जरूरी नहीं कि वे इसी क्रम में बैठे हों)। राहुल, अनिल के बाईं ओर चौथे स्थान पर बैठा है। राम, सोहन के दाईं ओर दूसरे स्थान पर बैठा है। रमेश, राम के दाईं ओर दूसरे स्थान पर बैठा है। अनिल पंक्ति के किसी भी अंतिम छोर पर नहीं बैठा है। राहुल के दाईं ओर दूसरे स्थान पर कौन बैठा है?

Ans

✗ 1. सोहन

✗ 2. अनिल

✗ 3. राम

✓ 4. साहिल

Question Type : **MCQ**
Question ID : **264330135623**
Option 1 ID : **264330531391**
Option 2 ID : **264330531394**
Option 3 ID : **264330531393**
Option 4 ID : **264330531392**
Status : **Answered**
Chosen Option : **4**

Join Telegram Group "HaryanaJobs.in"

Q.18 उस विकल्प आकृति को चुनिए जिसमें दी गई आकृति (X) उसके भाग के रूप में निहित है (घूर्णन की अनुमति नहीं है)।

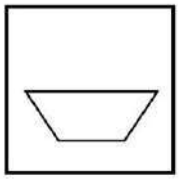

X

Ans

✗ 1.

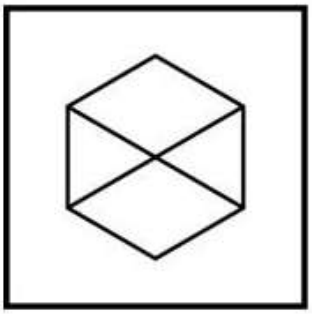

✗ 2.

✗ 3.

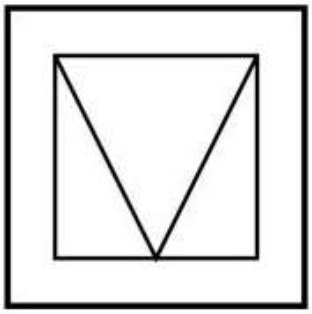

✓ 4.

Question Type : **MCQ**
Question ID : **264330135017**
Option 1 ID : **264330529004**
Option 2 ID : **264330529003**
Option 3 ID : **264330529006**
Option 4 ID : **264330529005**
Status : **Answered**
Chosen Option : **4**

Join Telegram Group "HaryanaJobs.in"

Q.19 दिए गए समीकरण को सही करने के लिए किन दो चिन्हों को आपस में बदला जाना चाहिए?
63 = 56 + 88 ÷ 11 - 15

Ans
1. + और ÷
2. + और =
3. - और =
4. ÷ और -

Question Type : **MCQ**
Question ID : **264330133402**
Option 1 ID : **264330522641**
Option 2 ID : **264330522639**
Option 3 ID : **264330522640**
Option 4 ID : **264330522642**
Status : **Answered**
Chosen Option : **3**

Q.20 नीचे दिए गए प्रश्न में कुछ कथन दिए गए हैं और उन कथनों के आधार पर कुछ निष्कर्ष दिए गए हैं। आपको मानना है कि दिए गए कथन सत्य हैं चाहे वे समान्यतः ज्ञात तथ्यों से अलग प्रतीत होते हों। सभी निष्कर्षों को पढ़िए और फिर निश्चय कीजिए कि दिए गए निष्कर्षों में से कौन-सा निष्कर्ष तार्किक रूप से दिए गए कथनों के अनुसार है।

कथन:

I. कुछ B, A हैं।

II. कोई C, B नहीं है।

निष्कर्ष:

I. कोई C, A नहीं है।

II. कोई B, C नहीं है।

Ans
1. केवल निष्कर्ष II कथनों के अनुसार है
2. केवल निष्कर्ष I कथनों के अनुसार है
3. दोनों निष्कर्ष I और II कथनों के अनुसार हैं
4. कोई भी निष्कर्ष कथनों के अनुसार नहीं है

Question Type : **MCQ**
Question ID : **264330135626**
Option 1 ID : **264330531404**
Option 2 ID : **264330531403**
Option 3 ID : **264330531405**
Option 4 ID : **264330531406**
Status : **Answered**
Chosen Option : **1**

Section : **General Awareness**

Join Telegram Group "HaryanaJobs.in"

Q.1 अक्टूबर 2022 तक भारत में, _____ तक की वार्षिक आय वाले परिवार को दिया जाने वाला संपार्श्विक-मुक्त ऋण (collateral-free loan) एक सूक्ष्म वित्तीय (microfinance) ऋण कहलाता है।

Ans
1. Rs. 5 लाख
2. Rs. 8 लाख
3. Rs. 3 लाख
4. Rs. 1 लाख

Question Type : **MCQ**
Question ID : **264330137060**
Option 1 ID : **264330536883**
Option 2 ID : **264330536886**
Option 3 ID : **264330536884**
Option 4 ID : **264330536885**
Status : **Not Answered**
Chosen Option : **--**

Q.2 2011 की जनगणना के अनुसार, निम्न में से किस केंद्र शासित प्रदेश का लिंगानुपात सबसे कम है?

Ans
1. दमन और दीव
2. अंडमान और निकोबार द्वीप समूह
3. लक्षद्वीप
4. दादरा और नगर हवेली

Question Type : **MCQ**
Question ID : **264330137980**
Option 1 ID : **264330540530**
Option 2 ID : **264330540528**
Option 3 ID : **264330540529**
Option 4 ID : **264330540527**
Status : **Answered**
Chosen Option : **1**

Q.3 "ड्रीम्स फ्रॉम माई फादर (Dreams From My Father)" _____ की आत्मकथा है।

Ans
1. ऐन फ्रैंक (Anne Frank)
2. बेनिटो मुसोलिनी (Benito Mussolini)
3. बेंजामिन फ्रैंकलिन (Benjamin Franklin)
4. बराक ओबामा (Barack Obama)

Question Type : **MCQ**
Question ID : **264330137053**
Option 1 ID : **264330536856**
Option 2 ID : **264330536855**
Option 3 ID : **264330536857**
Option 4 ID : **264330536858**
Status : **Answered**
Chosen Option : **3**

Join Telegram Group "HaryanaJobs.in"

Q.4 निम्नलिखित में से किस गीत की रचना प्रसिद्ध भारतीय संगीतकार राहुल देव बर्मन ने की थी?

Ans
1. किसी की मुस्कुराहटों पे हो निसार (Kisi Ki Muskurahaton Pe Ho Nisar)
2. ये दोस्ती हम नहीं तोड़ेंगे (Yeh Dosti Hum Nahi Todenge)
3. ऐ दिल है मुश्किल (Ae Dil Hai Mushkil)
4. केसरिया (Kesariya)

Question Type : **MCQ**
Question ID : **264330135502**
Option 1 ID : **264330530917**
Option 2 ID : **264330530916**
Option 3 ID : **264330530915**
Option 4 ID : **264330530918**
Status : **Not Answered**
Chosen Option : **--**

Q.5 बैटरी में किस प्रकार का ऊर्जा रूपांतरण होता है?

Ans
1. रासायनिक ऊर्जा का ध्वनि ऊर्जा में
2. रासायनिक ऊर्जा का विद्युत ऊर्जा में
3. रासायनिक ऊर्जा का प्रकाश ऊर्जा में
4. यांत्रिक ऊर्जा का रासायनिक ऊर्जा में

Question Type : **MCQ**
Question ID : **264330135439**
Option 1 ID : **264330530664**
Option 2 ID : **264330530666**
Option 3 ID : **264330530663**
Option 4 ID : **264330530665**
Status : **Answered**
Chosen Option : **2**

Q.6 पुधुमई पेन्न (Pudhumai Penn) योजना किस राज्य सरकार द्वारा शुरू की गई है?

Ans
1. महाराष्ट्र
2. आंध्रप्रदेश
3. केरल
4. तमिलनाडु

Question Type : **MCQ**
Question ID : **264330135484**
Option 1 ID : **264330530846**
Option 2 ID : **264330530843**
Option 3 ID : **264330530844**
Option 4 ID : **264330530845**
Status : **Answered**
Chosen Option : **4**

Join Telegram Group "HaryanaJobs.in"

Q.7 रामप्पा मंदिर किस देवता को समर्पित है?

Ans
1. भगवान इंद्र
2. भगवान राम
3. भगवान शिव
4. भगवान विष्णु

Question Type : **MCQ**
Question ID : **264330133883**
Option 1 ID : **264330524558**
Option 2 ID : **264330524555**
Option 3 ID : **264330524557**
Option 4 ID : **264330524556**
Status : **Answered**
Chosen Option : **4**

Q.8 The President of India shall be elected by the members of an electoral college consisting of:

I. The elected members of both Houses of Parliament

II. The elected members of the Legislative Assemblies of the States.

Ans
1. Only I
2. Neither I nor II
3. Both I and II
4. Only II

Question Type : **MCQ**
Question ID : **264330135505**
Option 1 ID : **264330530927**
Option 2 ID : **264330530930**
Option 3 ID : **264330530929**
Option 4 ID : **264330530928**
Status : **Answered**
Chosen Option : **3**

Q.9 गयासुद्दीन तुगलक की मृत्यु के बाद गद्दी पर कौन बैठा?

Ans
1. महमूद तुगलक
2. मोहम्मद बिन तुगलक
3. खुसरो खान
4. मुबारक खान

Question Type : **MCQ**
Question ID : **264330135448**
Option 1 ID : **264330530700**
Option 2 ID : **264330530701**
Option 3 ID : **264330530699**
Option 4 ID : **264330530702**
Status : **Answered**
Chosen Option : **2**

Join Telegram Group "HaryanaJobs.in"

Q.10 निम्नलिखित में से किस अनुच्छेद में, "सार्वजनिक क्षेत्र में रोजगार से संबंधित मामलों में अवसर की समानता" का उल्लेख किया गया है?

Ans
1. अनुच्छेद 14
2. अनुच्छेद 17
3. अनुच्छेद 16
4. अनुच्छेद 15

Question Type : **MCQ**
Question ID : **264330135504**
Option 1 ID : **264330530923**
Option 2 ID : **264330530926**
Option 3 ID : **264330530925**
Option 4 ID : **264330530924**
Status : **Answered**
Chosen Option : **3**

Q.11 लियोनेल मेसी _____ खेल के एक प्रसिद्ध खिलाड़ी हैं।

Ans
1. क्रिकेट
2. बैडमिंटन
3. बास्केटबॉल
4. फुटबॉल

Question Type : **MCQ**
Question ID : **264330135506**
Option 1 ID : **264330530932**
Option 2 ID : **264330530934**
Option 3 ID : **264330530933**
Option 4 ID : **264330530931**
Status : **Answered**
Chosen Option : **4**

Q.12 रुक्मिणी देवी को इंडिया टुडे की '100 पीपल हू शेप्ड इंडिया (100 People Who Shaped India)' की सूची में शामिल किया गया था। उन्हें वर्ष 1956 में 'पद्म भूषण' और 1967 में 'संगीत नाटक अकादमी फैलोशिप' से सम्मानित किया गया था। उनका संबंध निम्नलिखित में से किस नृत्य से था?

Ans
1. कथकली
2. मणिपुरी
3. भरतनाट्यम
4. ओडिसी

Question Type : **MCQ**
Question ID : **264330137055**
Option 1 ID : **264330536865**
Option 2 ID : **264330536863**
Option 3 ID : **264330536866**
Option 4 ID : **264330536864**
Status : **Answered**
Chosen Option : **3**

Join Telegram Group "HaryanaJobs.in"

Q.13 निम्नलिखित में से कौन-सा विटामिन सी का सबसे बड़ा स्रोत है?

Ans
✔ 1. नींबू
✘ 2. खीरा
✘ 3. आलू
✘ 4. गाय का दूध

Question Type : **MCQ**
Question ID : **264330135441**
Option 1 ID : **264330530672**
Option 2 ID : **264330530673**
Option 3 ID : **264330530674**
Option 4 ID : **264330530671**
Status : **Answered**
Chosen Option : **1**

Q.14 मेगस्थनीज (Megasthenes) _____ के दरबार में एक यूनानी राजदूत था।

Ans
✔ 1. चंद्रगुप्त मौर्य
✘ 2. पुष्यमित्र शुंग
✘ 3. अशोक
✘ 4. हर्षवर्धन

Question Type : **MCQ**
Question ID : **264330134682**
Option 1 ID : **264330527686**
Option 2 ID : **264330527684**
Option 3 ID : **264330527685**
Option 4 ID : **264330527683**
Status : **Answered**
Chosen Option : **1**

Q.15 निम्नलिखित में से कौन-सा विद्रोह सन् 1855-56 के बीच हुआ था?

Ans
✔ 1. संथाल विद्रोह
✘ 2. कोल विद्रोह
✘ 3. रामोसी विद्रोह
✘ 4. पाइका विद्रोह

Question Type : **MCQ**
Question ID : **264330133904**
Option 1 ID : **264330524642**
Option 2 ID : **264330524640**
Option 3 ID : **264330524641**
Option 4 ID : **264330524639**
Status : **Not Answered**
Chosen Option : **--**

Join Telegram Group "HaryanaJobs.in"

Q.16 काई और लाइकेन किस प्रकार के वनों में पाए जाते हैं?

Ans
✔ 1. टुंड्रा वन
✘ 2. उष्णकटिबंधीय वर्षावन
✘ 3. शंकुधारी वन
✘ 4. समशीतोष्ण वन

Question Type : **MCQ**
Question ID : **264330135442**
Option 1 ID : **264330530677**
Option 2 ID : **264330530675**
Option 3 ID : **264330530678**
Option 4 ID : **264330530676**
Status : **Answered**
Chosen Option : **4**

Q.17 कोशिका के किस घटक में कोशिका का आनुवंशिक पदार्थ, DNA होता है?

Ans
✘ 1. कोशिका द्रव्य
✔ 2. केंद्रक
✘ 3. कोशिका भित्ति
✘ 4. कोशिका झिल्ली

Question Type : **MCQ**
Question ID : **264330135490**
Option 1 ID : **264330530867**
Option 2 ID : **264330530868**
Option 3 ID : **264330530869**
Option 4 ID : **264330530870**
Status : **Answered**
Chosen Option : **2**

Q.18 सिख सुधारकों द्वारा अपने धार्मिक स्थलों में धीरे-धीरे फैल रही सामाजिक करीतियों को हटा कर उन्हें शुद्ध करने के लिए _____ की शुरुआत की गई थी।

Ans
✔ 1. अकाली आंदोलन
✘ 2. नामधारी आंदोलन
✘ 3. निरंकारी आंदोलन
✘ 4. गदर आंदोलन

Question Type : **MCQ**
Question ID : **264330134685**
Option 1 ID : **264330527695**
Option 2 ID : **264330527696**
Option 3 ID : **264330527697**
Option 4 ID : **264330527698**
Status : **Answered**
Chosen Option : **3**

Join Telegram Group "HaryanaJobs.in"

Q.19 बैसाखी का प्राचीन कृषि उत्सव किस महीने में मनाया जाता है?

Ans
1. जनवरी
2. अगस्त
3. अप्रैल
4. नवंबर

Question Type : **MCQ**
Question ID : **264330134672**
Option 1 ID : **264330527644**
Option 2 ID : **264330527646**
Option 3 ID : **264330527643**
Option 4 ID : **264330527645**
Status : **Answered**
Chosen Option : **3**

Q.20 दक्कन का पठार भारत में एक त्रिकोणीय भूभाग है जो _____ नदी के दक्षिण में स्थित है।

Ans
1. नर्मदा
2. गंगा
3. तापी
4. कृष्णा

Question Type : **MCQ**
Question ID : **264330135494**
Option 1 ID : **264330530884**
Option 2 ID : **264330530883**
Option 3 ID : **264330530886**
Option 4 ID : **264330530885**
Status : **Answered**
Chosen Option : **1**

Q.21 भारत में पहला उच्च न्यायालय सन् _____ में स्थापित किया गया था।

Ans
1. 1860
2. 1862
3. 1857
4. 1867

Question Type : **MCQ**
Question ID : **264330133892**
Option 1 ID : **264330524592**
Option 2 ID : **264330524593**
Option 3 ID : **264330524591**
Option 4 ID : **264330524594**
Status : **Not Answered**
Chosen Option : **--**

Join Telegram Group "HaryanaJobs.in"

Q.22 जनवरी 2022 में, भारत ने _____ के साथ USD 374.96 मिलियन के अपने सबसे बड़े रक्षा निर्यात ऑर्डर के सौदे पर हस्ताक्षर किए।

Ans
1. ईरान
2. संयुक्त अरब अमीरात
3. इराक
4. फिलीपींस

Question Type : **MCQ**
Question ID : **264330137045**
Option 1 ID : **264330536824**
Option 2 ID : **264330536823**
Option 3 ID : **264330536825**
Option 4 ID : **264330536826**
Status : **Answered**
Chosen Option : **4**

Q.23 राष्ट्रमंडल खेल 2022 में बजरंग पुनिया ने किस खेल में स्वर्ण पदक जीता?

Ans
1. मुक्केबाज़ी
2. भाला फेंक
3. कुश्ती
4. भारोत्तोलन

Question Type : **MCQ**
Question ID : **264330135457**
Option 1 ID : **264330530735**
Option 2 ID : **264330530738**
Option 3 ID : **264330530737**
Option 4 ID : **264330530736**
Status : **Answered**
Chosen Option : **3**

Q.24 1989 में राष्ट्रीय ग्रामीण रोजगार कार्यक्रम को _____ में शामिल कर लिया गया था।

Ans
1. जवाहर रोजगार योजना
2. इंदिरा आवास योजना
3. ग्रामीण भूमिहीन रोजगार गारंटी कार्यक्रम
4. रोजगार आश्वासन योजना

Question Type : **MCQ**
Question ID : **264330133993**
Option 1 ID : **264330524998**
Option 2 ID : **264330524995**
Option 3 ID : **264330524997**
Option 4 ID : **264330524996**
Status : **Answered**
Chosen Option : **1**

Join Telegram Group "HaryanaJobs.in"

Q.25 सुग्गी (Suggi) भारत के _____ राज्य का एक प्रसिद्ध लोक नृत्य है।

Ans
✗ 1. छत्तीसगढ़
✗ 2. सिक्किम
✓ 3. कर्नाटक
✗ 4. पंजाब

Question Type : **MCQ**
Question ID : **264330135486**
Option 1 ID : **264330530852**
Option 2 ID : **264330530854**
Option 3 ID : **264330530853**
Option 4 ID : **264330530851**
Status : **Not Answered**
Chosen Option : **--**

Section : **English Language and Comprehension**

Q.1 Choose the word that can substitute the given group of words.

That can be seen through

Ans
✗ 1. Defatigable
✓ 2. Transparent
✗ 3. Opaque
✗ 4. Reverent

Question Type : **MCQ**
Question ID : **264330135192**
Option 1 ID : **264330529695**
Option 2 ID : **264330529696**
Option 3 ID : **264330529697**
Option 4 ID : **264330529698**
Status : **Answered**
Chosen Option : **2**

Q.2 **Find the part of the given sentence that has an error in it. If there is no error, choose 'No error'**
I ate a few brown rice this morning.

Ans
✗ 1. No error
✓ 2. I ate a few
✗ 3. brown rice
✗ 4. this morning.

Question Type : **MCQ**
Question ID : **264330134320**
Option 1 ID : **264330526274**
Option 2 ID : **264330526271**
Option 3 ID : **264330526272**
Option 4 ID : **264330526273**
Status : **Answered**
Chosen Option : **2**

Join Telegram Group "HaryanaJobs.in"

Q.3 In the following question, out of the given four alternatives, select the alternative which best expresses the meaning of the Idiom/Phrase.

To have an itching palm

Ans

✗ 1. To have no mercy

✗ 2. To have an urge to slap

✗ 3. To gain strength

✓ 4. To be greedy for money

Question Type : **MCQ**
Question ID : **264330135277**
Option 1 ID : **264330530025**
Option 2 ID : **264330530026**
Option 3 ID : **264330530024**
Option 4 ID : **264330530023**
Status : **Answered**
Chosen Option : **2**

Q.4 **Choose the word that is opposite in meaning to the given word.**
Subtracted

Ans

✗ 1. Separated

✓ 2. Adjunct

✗ 3. Recap

✗ 4. Annihilatory

Question Type : **MCQ**
Question ID : **264330134364**
Option 1 ID : **264330526439**
Option 2 ID : **264330526442**
Option 3 ID : **264330526441**
Option 4 ID : **264330526440**
Status : **Answered**
Chosen Option : **2**

Q.5 Identify the segment that contains a grammatical error. If there is no error, select 'No error'.

Now its referring to the same/ big lug who met his fate/ thanks to David's slingshot.

Ans

✗ 1. thanks to David's slingshot.

✗ 2. big lug who met his fate

✓ 3. Now its referring to the same

✗ 4. No error

Question Type : **MCQ**
Question ID : **264330136509**
Option 1 ID : **264330534781**
Option 2 ID : **264330534780**
Option 3 ID : **264330534779**
Option 4 ID : **264330534782**
Status : **Answered**
Chosen Option : **2**

Join Telegram Group "HaryanaJobs.in"

Q.6 Choose the word that means the same as the given word.

Explicit

Ans
1. Nebulous ✗
2. Vogue ✗
3. Perfect ✗
4. Specific ✓

Question Type : **MCQ**
Question ID : **264330134840**
Option 1 ID : **264330528296**
Option 2 ID : **264330528295**
Option 3 ID : **264330528298**
Option 4 ID : **264330528297**
Status : **Answered**
Chosen Option : **3**

Q.7 Select the most appropriate option to fill in the blank.

An excellent career _____ has now arisen with a leading recruitment agency.

Ans
1. division ✗
2. opportunity ✓
3. preferability ✗
4. severance ✗

Question Type : **MCQ**
Question ID : **264330135281**
Option 1 ID : **264330530042**
Option 2 ID : **264330530040**
Option 3 ID : **264330530041**
Option 4 ID : **264330530039**
Status : **Answered**
Chosen Option : **2**

Q.8 A sentence has been given with a blank to be filled with an appropriate option. Choose the correct alternative.

We are getting support from a _____ number of textile traders.

Ans
1. larging ✗
2. largest ✗
3. largely ✗
4. large ✓

Question Type : **MCQ**
Question ID : **264330135262**
Option 1 ID : **264330529967**
Option 2 ID : **264330529970**
Option 3 ID : **264330529969**
Option 4 ID : **264330529968**
Status : **Answered**
Chosen Option : **4**

Join Telegram Group "HaryanaJobs.in"

Q.9 Choose the sentence with no spelling error.

Ans
✔ 1. They completely rely on your accessory.
✘ 2. They completely relie on your accessory.
✘ 3. They completlly rely on your accessory.
✘ 4. They completely rely on your acessory.

Question Type : **MCQ**
Question ID : **264330134820**
Option 1 ID : **264330528222**
Option 2 ID : **264330528219**
Option 3 ID : **264330528221**
Option 4 ID : **264330528220**
Status : **Answered**
Chosen Option : **1**

Q.10 Select the most appropriate option to fill in the blank.

Mr. Sharma opened the door of the stove to _____.

Ans
✘ 1. pike
✘ 2. peak
✘ 3. piece
✔ 4. peek

Question Type : **MCQ**
Question ID : **264330134821**
Option 1 ID : **264330528226**
Option 2 ID : **264330528225**
Option 3 ID : **264330528223**
Option 4 ID : **264330528224**
Status : **Answered**
Chosen Option : **4**

Q.11 Choose the incorrectly spelt word.

Ans
✘ 1. Thunder
✔ 2. Obsreve
✘ 3. Club
✘ 4. Bulb

Question Type : **MCQ**
Question ID : **264330135278**
Option 1 ID : **264330530027**
Option 2 ID : **264330530030**
Option 3 ID : **264330530028**
Option 4 ID : **264330530029**
Status : **Answered**
Chosen Option : **2**

Join Telegram Group "HaryanaJobs.in"

Q.12 In the following question, out of the given four alternatives, select the alternative which best expresses the meaning of the Idiom/Phrase.

To get on one's nerves

Ans

✔ 1. To irritate or provoke one

✘ 2. To become highly successful

✘ 3. To get in someone's mind

✘ 4. To unnecessary stretch the conversation

Question Type : **MCQ**
Question ID : **264330135198**
Option 1 ID : **264330529722**
Option 2 ID : **264330529720**
Option 3 ID : **264330529719**
Option 4 ID : **264330529721**
Status : **Answered**
Chosen Option : **1**

Q.13 Find the part of the given sentence that has an error in it. If there is no error, choose 'No error'.

Despite of technological innovations and powerful analytical tools, nothing is happening.

Ans

✘ 1. and powerful analytical tools,

✘ 2. No error

✘ 3. nothing is happening.

✔ 4. Despite of technological innovations

Question Type : **MCQ**
Question ID : **264330135258**
Option 1 ID : **264330529952**
Option 2 ID : **264330529954**
Option 3 ID : **264330529953**
Option 4 ID : **264330529951**
Status : **Answered**
Chosen Option : **4**

Q.14 Select the appropriate antonym for the underlined word.

We should have <u>warned</u> you that they were coming.

Ans

✘ 1. waked

✘ 2. predicted

✘ 3. prepared

✔ 4. imperiled

Question Type : **MCQ**
Question ID : **264330135275**
Option 1 ID : **264330530017**
Option 2 ID : **264330530018**
Option 3 ID : **264330530015**
Option 4 ID : **264330530016**
Status : **Answered**
Chosen Option : **4**

Join Telegram Group "HaryanaJobs.in"

Q.15 Choose the word that can substitute the given group of words.

A house of shelter for a dog

Ans
✔ 1. Kennel
✘ 2. Den
✘ 3. Barns
✘ 4. Hangar

Question Type : **MCQ**
Question ID : **264330135271**
Option 1 ID : **264330530000**
Option 2 ID : **264330530002**
Option 3 ID : **264330530001**
Option 4 ID : **264330529999**
Status : **Answered**
Chosen Option : **1**

Q.16 Select the appropriate synonym for the underlined word.

My parents have been lying to me since I was a kid.

Ans
✔ 1. misleading
✘ 2. crying
✘ 3. stopping
✘ 4. framing

Question Type : **MCQ**
Question ID : **264330135272**
Option 1 ID : **264330530004**
Option 2 ID : **264330530005**
Option 3 ID : **264330530006**
Option 4 ID : **264330530003**
Status : **Answered**
Chosen Option : **1**

Q.17 **Improve the underlined part of the sentence. Choose 'No improvement' as an answer if the sentence is grammatically correct.**
The waiter giving the diners some complimentary mints.

Ans
✘ 1. No improvement
✘ 2. given the diners
✔ 3. gave the diners
✘ 4. give the diner

Question Type : **MCQ**
Question ID : **264330134506**
Option 1 ID : **264330526990**
Option 2 ID : **264330526989**
Option 3 ID : **264330526988**
Option 4 ID : **264330526987**
Status : **Answered**
Chosen Option : **3**

Join Telegram Group "HaryanaJobs.in"

Q.18 Improve the underlined part of the sentence. Choose 'No improvement' as an answer if the sentence is grammatically correct.

Helen Keller was borne on 27 June 1880 in Tuscumbia.

Ans

✔ 1. was born on

✘ 2. No improvement

✘ 3. was birth on

✘ 4. is borne in

Question Type : **MCQ**
Question ID : **264330135287**
Option 1 ID : **264330530065**
Option 2 ID : **264330530066**
Option 3 ID : **264330530064**
Option 4 ID : **264330530063**
Status : **Answered**
Chosen Option : **1**

Q.19 A sentence has been given with a blank to be filled with an appropriate option. Choose the correct alternative. A pair of Eurasian jays _____ over the forest yesterday.

Ans

✘ 1. did flew

✘ 2. fly

✔ 3. flew

✘ 4. flown

Question Type : **MCQ**
Question ID : **264330134830**
Option 1 ID : **264330528262**
Option 2 ID : **264330528259**
Option 3 ID : **264330528260**
Option 4 ID : **264330528261**
Status : **Answered**
Chosen Option : **3**

Q.20 Select the most appropriate option to substitute the bracketed segment in the given sentence. If there is no need to substitute it, select 'no substitution required'.

The rodeo is (great way to unite soldier's skills and build) esprit de corps.

Ans

✘ 1. a great way to unite an soldier's skill and build

✘ 2. great way to unite soldier's skills and building

✘ 3. No substitution required

✔ 4. a great way to unite soldiers' skills and build

Question Type : **MCQ**
Question ID : **264330136512**
Option 1 ID : **264330534793**
Option 2 ID : **264330534792**
Option 3 ID : **264330534794**
Option 4 ID : **264330534791**
Status : **Answered**
Chosen Option : **4**

Join Telegram Group "HaryanaJobs.in"

Comprehension:

In the following passage some of the words have been deleted. Read the passage carefully and select the correct answer for the given blank out of the four alternatives.
The thought here is that because saliva is (1) _____ alkaline, stimulating it by chewing gum after eating (2) _____ help neutralize the acidity in your mouth and throat. (3) _____ a very small study from 2005 did (4) _____ some merit to this approach, the size of the study makes it difficult to (5) _____ any real conclusions.

SubQuestion No : 21

Q.21 Select the most appropriate option to fill in blank number 1.

Ans

✗ 1. slighter

✗ 2. slight

✓ 3. slightly

✗ 4. slightest

Question Type : **MCQ**
Question ID : **264330134355**
Option 1 ID : **264330526403**
Option 2 ID : **264330526405**
Option 3 ID : **264330526406**
Option 4 ID : **264330526404**
Status : **Answered**
Chosen Option : **2**

Comprehension:

In the following passage some of the words have been deleted. Read the passage carefully and select the correct answer for the given blank out of the four alternatives.
The thought here is that because saliva is (1) _____ alkaline, stimulating it by chewing gum after eating (2) _____ help neutralize the acidity in your mouth and throat. (3) _____ a very small study from 2005 did (4) _____ some merit to this approach, the size of the study makes it difficult to (5) _____ any real conclusions.

SubQuestion No : 22

Q.22 Select the most appropriate option to fill in blank number 2.

Ans

✗ 1. shall

✗ 2. need to

✗ 3. could

✓ 4. may

Question Type : **MCQ**
Question ID : **264330134356**
Option 1 ID : **264330526410**
Option 2 ID : **264330526407**
Option 3 ID : **264330526409**
Option 4 ID : **264330526408**
Status : **Answered**
Chosen Option : **2**

Join Telegram Group "HaryanaJobs.in"

Comprehension:

In the following passage some of the words have been deleted. Read the passage carefully and select the correct answer for the given blank out of the four alternatives.
The thought here is that because saliva is (1) _____ alkaline, stimulating it by chewing gum after eating (2) _____ help neutralize the acidity in your mouth and throat. (3) _____ a very small study from 2005 did (4) _____ some merit to this approach, the size of the study makes it difficult to (5) _____ any real conclusions.

SubQuestion No : 23

Q.23 Select the most appropriate option to fill in blank number 3.

Ans
✔ 1. While
✘ 2. So
✘ 3. Yet
✘ 4. As

Question Type : **MCQ**
Question ID : **264330134357**
Option 1 ID : **264330526413**
Option 2 ID : **264330526414**
Option 3 ID : **264330526411**
Option 4 ID : **264330526412**
Status : **Answered**
Chosen Option : **1**

Comprehension:

In the following passage some of the words have been deleted. Read the passage carefully and select the correct answer for the given blank out of the four alternatives.
The thought here is that because saliva is (1) _____ alkaline, stimulating it by chewing gum after eating (2) _____ help neutralize the acidity in your mouth and throat. (3) _____ a very small study from 2005 did (4) _____ some merit to this approach, the size of the study makes it difficult to (5) _____ any real conclusions.

SubQuestion No : 24

Q.24 Select the most appropriate option to fill in blank number 4.

Ans
✘ 1. founded
✘ 2. finds
✔ 3. find
✘ 4. found

Question Type : **MCQ**
Question ID : **264330134358**
Option 1 ID : **264330526416**
Option 2 ID : **264330526415**
Option 3 ID : **264330526418**
Option 4 ID : **264330526417**
Status : **Answered**
Chosen Option : **3**

Join Telegram Group "HaryanaJobs.in"

Comprehension:

In the following passage some of the words have been deleted. Read the passage carefully and select the correct answer for the given blank out of the four alternatives.
The thought here is that because saliva is (1) _____ alkaline, stimulating it by chewing gum after eating (2) _____ help neutralize the acidity in your mouth and throat. (3) _____ a very small study from 2005 did (4) _____ some merit to this approach, the size of the study makes it difficult to (5) _____ any real conclusions.

SubQuestion No : 25

Q.25 Select the most appropriate option to fill in blank number 5.

Ans

✗ 1. sell

✓ 2. draw

✗ 3. expel

✗ 4. repel

Question Type : **MCQ**
Question ID : **264330134359**
Option 1 ID : **264330526419**
Option 2 ID : **264330526422**
Option 3 ID : **264330526421**
Option 4 ID : **264330526420**
Status : **Answered**
Chosen Option : **3**

Join Telegram Group "HaryanaJobs.in"

Multi Tasking Non Technical Staff and Havaldar CBIC and CBN Examination 2022

Roll Number	HaryanaJobs.in
Candidate Name	HaryanaJobs.in
Venue Name	Maa Santoshi Computers Pvt. Ltd.
Exam Date	03/05/2023
Exam Time	12:00 PM - 2:00 PM
Subject	MTS Non Tech Havaldar CBIC and CBN Examination 2022

Section : **Numerical and Mathematical Ability**

Q.1 $\sqrt{[(13^2 - 8^2) \times 5 + 4]}$ का मान ज्ञात कीजिए:

Ans
✗ 1. 22
✗ 2. 26
✗ 3. 24
✓ 4. 23

Question Type : **MCQ**
Question ID : **264330135369**
Option 1 ID : **264330530383**
Option 2 ID : **264330530384**
Option 3 ID : **264330530385**
Option 4 ID : **264330530386**
Status : **Answered**
Chosen Option : **4**

Q.2 $\frac{14+7-12+15-17+2-3+17}{2+7-9+2-4+22}$ का मान क्या है?

Ans
✓ 1. 23/20
✗ 2. 17/20
✗ 3. 19/20
✗ 4. 33/20

Question Type : **MCQ**
Question ID : **264330135060**
Option 1 ID : **264330529175**
Option 2 ID : **264330529178**
Option 3 ID : **264330529176**
Option 4 ID : **264330529177**
Status : **Answered**
Chosen Option : **1**

Join Telegram Group "HaryanaJobs.in"

Q.3 तृप्ति अकेले 4 दिनों में एक डिवाइडर का निर्माण कर सकती है जबकि राजन अकेले इसे 3 दिनों में बना सकता है। यदि वे इसे साथ मिलकर बनाते हैं और उन्हें Rs.14000 का कुल भुगतान किया जाता है, तो इसमें तृप्ति का हिस्सा कितना है?

Ans
✔ 1. Rs.6000
✘ 2. Rs.8000
✘ 3. Rs.5000
✘ 4. Rs.7000

Question Type : **MCQ**
Question ID : **264330133686**
Option 1 ID : **264330523768**
Option 2 ID : **264330523769**
Option 3 ID : **264330523770**
Option 4 ID : **264330523767**
Status : **Answered**
Chosen Option : **1**

Q.4 अजय स्थिर जल में अपनी नाव को 11 km/hr की चाल से चला सकता है। यदि धारा की चाल 7 km/hr है, तो उसे धारा के अनुकूल 54 km की दूरी तय करने में कितना समय लगेगा?

Ans
✘ 1. 2 घंटे
✔ 2. 3 घंटे
✘ 3. 2.5 घंटे
✘ 4. 4 घंटे

Question Type : **MCQ**
Question ID : **264330135382**
Option 1 ID : **264330530436**
Option 2 ID : **264330530435**
Option 3 ID : **264330530437**
Option 4 ID : **264330530438**
Status : **Answered**
Chosen Option : **2**

Q.5 एक आदमी एक रुपये में 13 पेन खरीदता है। 30 प्रतिशत का लाभ अर्जित करने के लिए उसे एक रुपये में कितने पेन बेचने चाहिए?

Ans
✔ 1. 10
✘ 2. 15
✘ 3. 8
✘ 4. 5

Question Type : **MCQ**
Question ID : **264330137671**
Option 1 ID : **264330539291**
Option 2 ID : **264330539294**
Option 3 ID : **264330539293**
Option 4 ID : **264330539292**
Status : **Answered**
Chosen Option : **1**

Join Telegram Group "HaryanaJobs.in"

Q.6 180 लीटर के एक मिश्रण में, दूध और पानी का अनुपात 5 : 1 है। यदि इस अनुपात को 3 : 2 करना हो, तो इसमें पानी की और कितनी मात्रा मिलानी होगी?

Ans
1. 72 लीटर
2. 70 लीटर
3. 88 लीटर
4. 66 लीटर

Question Type : **MCQ**
Question ID : **264330135068**
Option 1 ID : **264330529208**
Option 2 ID : **264330529210**
Option 3 ID : **264330529207**
Option 4 ID : **264330529209**
Status : **Answered**
Chosen Option : **2**

Q.7 एक किसान की भूमि एक समलंब के आकार की है जिसकी समानांतर भुजाएँ 6.32 गज (yards) और 7.68 गज हैं और समानांतर भुजाओं के बीच की दूरी 5.50 गज है। भूमि की जुताई की लागत Rs. 1200 प्रति वर्ग गज है। पूरी भूमि को जोतने के लिए कितनी राशि खर्च करनी होगी?

Ans
1. Rs. 36600
2. Rs. 46200
3. Rs. 32500
4. Rs. 55400

Question Type : **MCQ**
Question ID : **264330137617**
Option 1 ID : **264330539078**
Option 2 ID : **264330539076**
Option 3 ID : **264330539075**
Option 4 ID : **264330539077**
Status : **Answered**
Chosen Option : **2**

Q.8 एक मोबाइल का मूल्य Rs.30,000 है। पहले वर्ष के अंत में मोबाइल का मूल्य 12% घट जाता है और उसके अगले वर्ष के अंत में, यह 15% घट जाता है। 2 वर्ष बाद मोबाइल का मूल्य क्या होगा?

Ans
1. Rs. 22,440
2. Rs. 25,255
3. Rs. 20,000
4. Rs. 25,000

Question Type : **MCQ**
Question ID : **264330133766**
Option 1 ID : **264330524087**
Option 2 ID : **264330524090**
Option 3 ID : **264330524088**
Option 4 ID : **264330524089**
Status : **Answered**
Chosen Option : **1**

Join Telegram Group "HaryanaJobs.in"

Q.9 माया ने 14% GST सहित Rs.7980 में एक टीवी खरीदा। GST के बिना टीवी का वास्तविक मूल्य क्या है?

Ans
1. Rs.8880
2. Rs.7000
3. Rs.7900
4. Rs.7080

Question Type : **MCQ**
Question ID : **264330135376**
Option 1 ID : **264330530411**
Option 2 ID : **264330530414**
Option 3 ID : **264330530413**
Option 4 ID : **264330530412**
Status : **Answered**
Chosen Option : **2**

Q.10 9 बक्सों का औसत भार 61 kg है। यदि 70 kg के औसत भार वाले तीन बक्सों को हटा दिया जाए, तो शेष बक्सों का नया औसत भार क्या होगा?

Ans
1. 55.5 kg
2. 56.5 kg
3. 45.5 kg
4. 54 kg

Question Type : **MCQ**
Question ID : **264330135371**
Option 1 ID : **264330530392**
Option 2 ID : **264330530393**
Option 3 ID : **264330530391**
Option 4 ID : **264330530394**
Status : **Answered**
Chosen Option : **2**

Q.11 यदि 3 और x का तृतीय समानुपाती 27 है और 2 और y का तृतीय समानुपाती 8 है, तो x:y का मान ज्ञात कीजिए।

Ans
1. 4:5
2. 3:7
3. 9:4
4. 7:9

Question Type : **MCQ**
Question ID : **264330135379**
Option 1 ID : **264330530424**
Option 2 ID : **264330530425**
Option 3 ID : **264330530423**
Option 4 ID : **264330530426**
Status : **Not Answered**
Chosen Option : **--**

Join Telegram Group "HaryanaJobs.in"

Q.12 निम्न तालिका में वर्ष 2018 से 2021 तक चार कंपनियों A, B, C और D द्वारा भर्ती किए गए उम्मीदवारों की संख्या को दर्शाया गया है। वर्ष 2019 में कंपनी B द्वारा भर्ती किए गए उम्मीदवारों की संख्या और वर्ष 2020 में कंपनी D द्वारा भर्ती किए गए उम्मीदवारों की संख्या का अनुपात ज्ञात कीजिए।

Years	A	B	C	D
2018	55	40	25	15
2019	60	75	50	25
2020	65	30	40	65
2021	45	35	70	35

years - वर्ष

Ans
1. 13:12
2. 15:13
3. 12:11
4. 15:11

Question Type : **MCQ**
Question ID : **264330135385**
Option 1 ID : **264330530449**
Option 2 ID : **264330530447**
Option 3 ID : **264330530450**
Option 4 ID : **264330530448**
Status : **Answered**
Chosen Option : **2**

Q.13 एक अर्धगोले का आयतन $486\pi\ cm^3$ है। त्रिज्या ज्ञात कीजिए।

Ans
1. 9 cm
2. 7 cm
3. 4 cm
4. 8 cm

Question Type : **MCQ**
Question ID : **264330135388**
Option 1 ID : **264330530461**
Option 2 ID : **264330530460**
Option 3 ID : **264330530459**
Option 4 ID : **264330530462**
Status : **Answered**
Chosen Option : **1**

Q.14 एक वस्तु का अंकित मूल्य Rs. 400 है। इसे Rs. 300 में बेचा जाता है। यदि 15% की हानि होती है, तो वस्तु को क्रय मूल्य से कितने प्रतिशत अधिक मूल्य पर अंकित किया गया है?

Ans
1. 35.25%
2. 25.05%
3. 28.24%
4. 13.33%

Question Type : **MCQ**
Question ID : **264330135377**
Option 1 ID : **264330530415**
Option 2 ID : **264330530417**
Option 3 ID : **264330530418**
Option 4 ID : **264330530416**
Status : **Answered**
Chosen Option : **4**

Join Telegram Group "HaryanaJobs.in"

Q.15 $4 \times \{44 + (84 + 18 \div 3 \times 3 - 40)\}$ का मान ज्ञात कीजिए:

Ans
1. 331 ✗
2. 424 ✓
3. 330 ✗
4. 250 ✗

Question Type : **MCQ**
Question ID : **264330135368**
Option 1 ID : **264330530380**
Option 2 ID : **264330530379**
Option 3 ID : **264330530381**
Option 4 ID : **264330530382**
Status : **Not Answered**
Chosen Option : **--**

Q.16 एक कॉलेज के 19 लड़कों के प्राप्तांकों का औसत 48 है। यदि प्राप्तांकों में से अधिकतम अंक और न्यूनतम अंक हटा दिए जाए, तो औसत में 4 की कमी आ जाती है। प्राप्तांकों में से अधिकतम और न्यूनतम अंकों का औसत क्या है?

Ans
1. 76 ✗
2. 82 ✓
3. 80 ✗
4. 84 ✗

Question Type : **MCQ**
Question ID : **264330137669**
Option 1 ID : **264330539284**
Option 2 ID : **264330539286**
Option 3 ID : **264330539283**
Option 4 ID : **264330539285**
Status : **Answered**
Chosen Option : **2**

Join Telegram Group "HaryanaJobs.in"

Q.17 निम्न दंड आलेख में तीन वर्षों में एक कंपनी द्वारा किए गए कंप्यूटर के कुल उत्पादन और निर्यात (हजारों में) को दर्शाया गया है। दिए गए वर्षों में कंपनी द्वारा किया गया औसत निर्यात ज्ञात कीजिए।

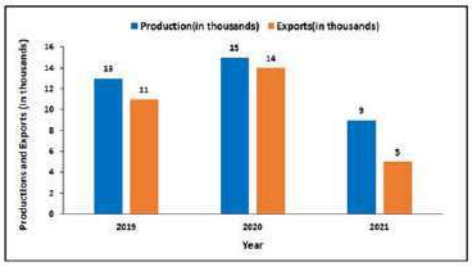

Production (in thousands) - उत्पादन (हजारों में), export (in thousands) - निर्यात (हजारों में), Production and export (in thousands) - उत्पादन और निर्यात (हजारों में), year - वर्ष

Ans

✗ 1. 15,000

✗ 2. 16,000

✓ 3. 10,000

✗ 4. 12,000

Question Type : **MCQ**
Question ID : **264330135386**
Option 1 ID : **264330530451**
Option 2 ID : **264330530452**
Option 3 ID : **264330530453**
Option 4 ID : **264330530454**
Status : **Answered**
Chosen Option : **3**

Q.18 C1, C2 और C3 अकेले किसी कार्य को क्रमशः 10, 12 और 15 दिनों में कर सकते हैं। उन तीनों ने एक साथ कार्य शुरू किया लेकिन कार्य पूरा होने से 2 दिन पहले C2 ने कार्य छोड़ दिया। कार्य कितने दिनों में पूरा हुआ?

Ans

✗ 1. (17/3) दिन

✗ 2. (12/5) दिन

✓ 3. (14/3) दिन

✗ 4. (18/5) दिन

Question Type : **MCQ**
Question ID : **264330137604**
Option 1 ID : **264330539024**
Option 2 ID : **264330539025**
Option 3 ID : **264330539026**
Option 4 ID : **264330539023**
Status : **Answered**
Chosen Option : **3**

Join Telegram Group "HaryanaJobs.in"

Q.19 यदि Rs. 4200 को A, B और C के बीच इस प्रकार बाँटा जाता है कि A : B = 2 : 3 और B : C = 6 : 5 है, तो B का हिस्सा ज्ञात कीजिए।

Ans

1. Rs.1770 ✗
2. Rs.1680 ✓
3. Rs.1800 ✗
4. Rs.1550 ✗

Question Type : **MCQ**
Question ID : **264330135378**
Option 1 ID : **264330530419**
Option 2 ID : **264330530420**
Option 3 ID : **264330530422**
Option 4 ID : **264330530421**
Status : **Answered**
Chosen Option : **2**

Q.20 Rs. 64000 की धनराशि पर 5% वार्षिक दर पर 2 वर्षों के लिए वार्षिक रूप से संयोजित चक्रवृद्धि ब्याज कितना होगा?

Ans

1. Rs. 4580 ✗
2. Rs. 6560 ✓
3. Rs. 8550 ✗
4. Rs. 3050 ✗

Question Type : **MCQ**
Question ID : **264330138447**
Option 1 ID : **264330542398**
Option 2 ID : **264330542395**
Option 3 ID : **264330542397**
Option 4 ID : **264330542396**
Status : **Answered**
Chosen Option : **2**

Section : **Reasoning Ability and Problem Solving**

Q.1 उस विकल्प को चुनिए जिसमें समुच्चय की संख्याएँ वही संबंध साझा करती हैं जो दिए गए समुच्चय में संख्याओं द्वारा साझा किया जाता है। (ध्यान दें: संख्याओं को उनके घटक अंकों में अलग-अलग किए बिना, पूर्ण संख्याओं पर संक्रियाएँ की जानी चाहिए। उदा. 13 - 13 पर संक्रियाएँ जैसे 13 को जोड़ना /घटाना /गुणा करना आदि किया जा सकता है। 13 को 1 और 3 में अलग-अलग करने की और फिर 1 और 3 पर गणितीय संक्रियाएँ करने की अनुमति नहीं है)

(100, 150, 125)

(500, 400, 450)

Ans

1. (200, 400, 300) ✓
2. (180, 140, 260) ✗
3. (14, 16, 28) ✗
4. (120, 100, 130) ✗

Question Type : **MCQ**
Question ID : **264330135577**
Option 1 ID : **264330531209**
Option 2 ID : **264330531210**
Option 3 ID : **264330531208**
Option 4 ID : **264330531207**
Status : **Not Answered**
Chosen Option : **--**

Join Telegram Group "HaryanaJobs.in"

Q.2 उस विकल्प को चुनिए जो पाँचवें पद से ठीक उसी प्रकार संबंधित है जिस प्रकार दूसरा पद पहले पद से संबंधित है और चौथा पद तीसरे पद से संबंधित है।

K4N : P9N :: A5Z : B11D :: P6R : ?

Ans
1. T13S ✔
2. R13T ✘
3. R13S ✘
4. S13T ✘

Question Type : **MCQ**
Question ID : **264330135564**
Option 1 ID : **264330531156**
Option 2 ID : **264330531158**
Option 3 ID : **264330531157**
Option 4 ID : **264330531155**
Status : **Not Answered**
Chosen Option : **--**

Q.3 निम्नलिखित प्रश्न में, दी गई श्रृंखला में लुप्त संख्या को चुनिए।

10, 9, 17, -10, 54, ?

Ans
1. -82 ✘
2. -71 ✔
3. -67 ✘
4. -103 ✘

Question Type : **MCQ**
Question ID : **264330135575**
Option 1 ID : **264330531199**
Option 2 ID : **264330531201**
Option 3 ID : **264330531202**
Option 4 ID : **264330531200**
Status : **Not Answered**
Chosen Option : **--**

Q.4 Select the option that is related to the third word in the same way as the second word is related to the first word.
Garage : Bike : : Aquarium : ?

Ans
1. Fish ✔
2. Rat ✘
3. Rabbit ✘
4. Sparrow ✘

Question Type : **MCQ**
Question ID : **264330134955**
Option 1 ID : **264330528757**
Option 2 ID : **264330528755**
Option 3 ID : **264330528756**
Option 4 ID : **264330528758**
Status : **Answered**
Chosen Option : **1**

Join Telegram Group "HaryanaJobs.in"

Q.5 एक निश्चित कूट भाषा में, 'CORRECT' को '3Q1818G320' लिखा जाता है। उस भाषा में 'WRONG' को कैसे लिखा जाएगा?

Ans

✔ 1. 2318Q147

✘ 2. 2218P147

✘ 3. 2138Q741

✘ 4. 2314Q147

Question Type : **MCQ**
Question ID : **264330133530**
Option 1 ID : **264330523151**
Option 2 ID : **264330523153**
Option 3 ID : **264330523154**
Option 4 ID : **264330523152**
Status : **Answered**
Chosen Option : **1**

Q.6 सात कर्मचारी राहुल, राम, रमेश, सोहन, साहिल, अनिल और सोनू एक वृत्ताकार मेज के चारों ओर केंद्र की ओर मुख करके बैठे हैं(परंतु जरूरी नहीं कि वे इसी क्रम में बैठे हों)। अनिल, राम और सोनू दोनों का निकटतम पड़ोसी है। राम, साहिल के दाईं ओर से दूसरे स्थान पर है। राहुल, साहिल और सोहन दोनों का निकटतम पड़ोसी है। राहुल के बाईं ओर से दूसरे स्थान पर कौन है?

Ans

✘ 1. रमेश

✘ 2. राम

✘ 3. अनिल

✔ 4. सोनू

Question Type : **MCQ**
Question ID : **264330135570**
Option 1 ID : **264330531179**
Option 2 ID : **264330531180**
Option 3 ID : **264330531182**
Option 4 ID : **264330531181**
Status : **Answered**
Chosen Option : **1**

Q.7 उस विकल्प को चुनिए जो चौथे पद से ठीक उसी प्रकार संबंधित है जिस प्रकार पहला पद दूसरे पद से संबंधित है और पाँचवाँ पद छठवें पद से संबंधित है।

FAR : HDT :: ? : ODD :: PQR : RTT

Ans

✘ 1. NBB

✘ 2. NAB

✔ 3. MAB

✘ 4. MAC

Question Type : **MCQ**
Question ID : **264330135563**
Option 1 ID : **264330531153**
Option 2 ID : **264330531151**
Option 3 ID : **264330531154**
Option 4 ID : **264330531152**
Status : **Answered**
Chosen Option : **3**

Join Telegram Group "HaryanaJobs.in"

Q.8 छः लड़कियाँ मानसी, श्वेता, मोनिका, पायल, आरती और काजल एक वृत्ताकार मेज के चारों ओर केंद्र की ओर मुख करके बैठी हैं(परंतु जरूरी नहीं कि वे इसी क्रम में बैठीं हों)। काजल, मानसी के ठीक बाईं ओर है। श्वेता, मानसी के बाईं ओर से तीसरे स्थान पर है। पायल, काजल के दाईं ओर से दूसरे स्थान पर है। मोनिका, मानसी के बाईं ओर से दूसरे स्थान पर नहीं है। आरती की दाईं ओर से चौथे स्थान पर कौन है?

Ans

1. ✗ काजल
2. ✓ मोनिका
3. ✗ श्वेता
4. ✗ पायल

Question Type : **MCQ**
Question ID : **264330135569**
Option 1 ID : **264330531178**
Option 2 ID : **264330531176**
Option 3 ID : **264330531175**
Option 4 ID : **264330531177**
Status : **Answered**
Chosen Option : **2**

Q.9 एक श्रृंखला दी गई है जिसमें एक पद लुप्त है। दिए गए विकल्पों में से उस सही विकल्प को चुनिए जो श्रृंखला को पूरा करेगा।

PV, RZ, TD, ?, XL

Ans

1. ✗ VG
2. ✗ UG
3. ✓ VH
4. ✗ UH

Question Type : **MCQ**
Question ID : **264330135561**
Option 1 ID : **264330531143**
Option 2 ID : **264330531144**
Option 3 ID : **264330531146**
Option 4 ID : **264330531145**
Status : **Answered**
Chosen Option : **3**

Join Telegram Group "HaryanaJobs.in"

Q.10 यदि एक दर्पण को रेखा AB पर रखा जाए, तो दिए गए विकल्पों में से कौन-सी आकृति प्रश्न आकृति का सही प्रतिबिम्ब होगी?

Ans

✔ 1.

✘ 2.

✘ 3.

✘ 4.

Question Type : **MCQ**
Question ID : **264330135581**
Option 1 ID : **264330531224**
Option 2 ID : **264330531226**
Option 3 ID : **264330531223**
Option 4 ID : **264330531225**
Status : **Answered**
Chosen Option : **1**

Q.11 किसी एक खास कूट भाषा में, 'ZEBRA' को ' YDAQZ' लिखा जाता है। उस कूट भाषा में 'HORSE' को कैसे लिखा जाएगा?

Ans

✔ 1. GNQRD

✘ 2. GNRQA

✘ 3. GNQRS

✘ 4. GQDRE

Question Type : **MCQ**
Question ID : **264330133325**
Option 1 ID : **264330522337**
Option 2 ID : **264330522335**
Option 3 ID : **264330522338**
Option 4 ID : **264330522336**
Status : **Answered**
Chosen Option : **1**

Join Telegram Group "HaryanaJobs.in"

Q.12 निम्नलिखित प्रश्न में, दी गई श्रृंखला में लुप्त संख्या को चुनिए ।

44, 20, - 4, ?, - 52, -76

Ans
1. -10 ✗
2. -28 ✓
3. -20 ✗
4. 0 ✗

Question Type : **MCQ**
Question ID : **264330138552**
Option 1 ID : **264330542817**
Option 2 ID : **264330542816**
Option 3 ID : **264330542815**
Option 4 ID : **264330542818**
Status : **Answered**
Chosen Option : **2**

Q.13 एक निश्चित कूट भाषा में, 'JUNO' को '1356' लिखा जाता है और 'HATE' को '8125' लिखा जाता है। उस भाषा में 'TOWER' को कैसे लिखा जाएगा?

Ans
1. 26559 ✓
2. 25659 ✗
3. 26569 ✗
4. 26659 ✗

Question Type : **MCQ**
Question ID : **264330134961**
Option 1 ID : **264330528781**
Option 2 ID : **264330528779**
Option 3 ID : **264330528780**
Option 4 ID : **264330528782**
Status : **Answered**
Chosen Option : **1**

Join Telegram Group "HaryanaJobs.in"

Q.14 निम्नलिखित प्रश्न में कुछ कथन दिए गए हैं और उन कथनों के आधार पर कुछ निष्कर्ष दिए गए हैं। आपको यह मानना है कि दिए गए कथन सत्य हैं चाहे वे समान्यतः ज्ञात तथ्यों से अलग प्रतीत होते हों। सभी निष्कर्षों को पढ़िए और फिर निश्चय कीजिए कि दिए गए निष्कर्षों में से कौन-सा निष्कर्ष तार्किक रूप से दिए गए कथनों के अनुसार है।

कथन:

I. कोई चूहा, गाय नहीं है।

II. कुछ जानवर, चूहे हैं।

निष्कर्ष:

I. कुछ जानवर, गाय हैं।

II. कुछ गाय, चूहे नहीं हैं।

III. सभी चूहे, जानवर हैं।

Ans
1. दोनों निष्कर्ष I और II कथनों के अनुसार हैं
2. केवल निष्कर्ष II कथनों के अनुसार है
3. कोई भी निष्कर्ष कथनों के अनुसार नहीं है
4. दोनों निष्कर्ष I और III कथनों के अनुसार हैं

Question Type : **MCQ**
Question ID : **264330135573**
Option 1 ID : **264330531193**
Option 2 ID : **264330531192**
Option 3 ID : **264330531194**
Option 4 ID : **264330531191**
Status : **Answered**
Chosen Option : **1**

Q.15 किन दो संख्याओं को आपस में बदलने पर, दिए गए समीकरण का मान '5' होगा?

7 - 3 ÷ 9 × 2 + 4

Ans
1. 7 और 4
2. 3 और 9
3. 4 और 2
4. 2 और 9

Question Type : **MCQ**
Question ID : **264330135578**
Option 1 ID : **264330531211**
Option 2 ID : **264330531214**
Option 3 ID : **264330531213**
Option 4 ID : **264330531212**
Status : **Answered**
Chosen Option : **2**

Join Telegram Group "HaryanaJobs.in"

Q.16 निम्नलिखित प्रश्न में कुछ कथन दिए गए हैं और उन कथनों के आधार पर कुछ निष्कर्ष दिए गए हैं। आपको यह मानना है कि दिए गए कथन सत्य हैं चाहे वे समान्यतः ज्ञात तथ्यों से अलग प्रतीत होते हों। सभी निष्कर्षों को पढ़िए और फिर निश्चय कीजिए कि दिए गए निष्कर्षों में से कौन-सा निष्कर्ष तार्किक रूप से दिए गए कथनों के अनुसार है।

कथन:

I. सभी L, P हैं।

II. सभी P, V हैं।

निष्कर्ष:

I. कुछ L, V हैं।

II. कोई V, L नहीं है।

Ans

✔ 1. केवल निष्कर्ष I कथनों के अनुसार है

✘ 2. कोई भी निष्कर्ष कथनों के अनुसार नहीं है

✘ 3. दोनों निष्कर्ष I और II कथनों के अनुसार हैं

✘ 4. केवल निष्कर्ष II कथनों के अनुसार है

Question Type : **MCQ**
Question ID : **264330135572**
Option 1 ID : **264330531187**
Option 2 ID : **264330531190**
Option 3 ID : **264330531189**
Option 4 ID : **264330531188**
Status : **Answered**
Chosen Option : **1**

Join Telegram Group "HaryanaJobs.in"

Q.17 उस विकल्प आकृति को चुनिए जिसमें दी गई आकृति निहित है। (घूर्णन की अनुमति नहीं है)

Ans

✔ 1.

✘ 2.

✘ 3.

✘ 4.

Question Type : **MCQ**
Question ID : **264330135580**
Option 1 ID : **264330531219**
Option 2 ID : **264330531222**
Option 3 ID : **264330531220**
Option 4 ID : **264330531221**
Status : **Answered**
Chosen Option : **1**

Q.18 एक निश्चित कूट भाषा में, 'DOGS' को '5279' लिखा जाता है, 'DRAW' को '1032' लिखा जाता है, 'DOWN' को '8205' लिखा जाता है। उस कूट भाषा में 'S' को कैसे लिखा जाएगा?

Ans

✘ 1. 5

✘ 2. 0

✘ 3. 2

✔ 4. 7

Question Type : **MCQ**
Question ID : **264330138608**
Option 1 ID : **264330543039**
Option 2 ID : **264330543041**
Option 3 ID : **264330543040**
Option 4 ID : **264330543042**
Status : **Answered**
Chosen Option : **4**

Join Telegram Group "HaryanaJobs.in"

Q.19 कौन-सी उत्तर आकृति प्रश्न आकृति में दिए गए पैटर्न को पूरा करेगी?

Ans

✗ 1.

✓ 2. 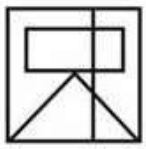

✗ 3. 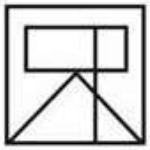

✗ 4.

Question Type : **MCQ**
Question ID : **264330135582**
Option 1 ID : **264330531229**
Option 2 ID : **264330531227**
Option 3 ID : **264330531228**
Option 4 ID : **264330531230**
Status : **Answered**
Chosen Option : **2**

Q.20 पाँच पार्किंग क्षेत्रों S1, S2, S3, S4 और S5 में खड़े ट्रकों की संख्या की तुलना की जाती है। S3 में खड़े ट्रकों की संख्या केवल S2 से अधिक है। S5 में खड़े ट्रकों की संख्या केवल S1 से कम है। यदि पार्किंग क्षेत्र S3 में खड़े ट्रकों की संख्या 1200 है, तो पार्किंग क्षेत्र S1 में कितने ट्रक खड़े किए जा सकते हैं?

Ans

✗ 1. 1197

✗ 2. 1154

✗ 3. 1184

✓ 4. 1346

Question Type : **MCQ**
Question ID : **264330135571**
Option 1 ID : **264330531184**
Option 2 ID : **264330531186**
Option 3 ID : **264330531185**
Option 4 ID : **264330531183**
Status : **Answered**
Chosen Option : **4**

Join Telegram Group "HaryanaJobs.in"

Section : **General Awareness**

Q.1 निम्नलिखित में से किस सामाजिक धार्मिक समुदाय की स्थापना राजा राम मोहन राय ने की थी?

Ans

✗ 1. आर्य समाज

✗ 2. प्रार्थना समाज

✓ 3. ब्रह्म समाज

✗ 4. अकाली दल

Question Type : **MCQ**
Question ID : **264330133946**
Option 1 ID : **264330524807**
Option 2 ID : **264330524810**
Option 3 ID : **264330524808**
Option 4 ID : **264330524809**
Status : **Answered**
Chosen Option : **3**

Q.2 दिल्ली सल्तनत के दौरान, "उलेमा (Ulema)" शब्द का संबंध _____ से था।

Ans

✗ 1. ग्राम राजस्व अधिकारी

✗ 2. प्रमुख कमांडर

✗ 3. डाक अधिकारी

✓ 4. विद्वान धर्मशास्त्री और न्याय-शास्त्री

Question Type : **MCQ**
Question ID : **264330138343**
Option 1 ID : **264330541979**
Option 2 ID : **264330541981**
Option 3 ID : **264330541980**
Option 4 ID : **264330541982**
Status : **Answered**
Chosen Option : **4**

Q.3 2008-2010 की मंदी के कारण हुई बेरोजगारी निम्न में से किस प्रकार की बेरोजगारी का उदाहरण है?

Ans

✗ 1. शास्त्रीय

✗ 2. संरचनात्मक

✓ 3. चक्रीय

✗ 4. प्रतिरोधात्मक

Question Type : **MCQ**
Question ID : **264330134018**
Option 1 ID : **264330525097**
Option 2 ID : **264330525095**
Option 3 ID : **264330525096**
Option 4 ID : **264330525098**
Status : **Answered**
Chosen Option : **3**

Join Telegram Group "HaryanaJobs.in"

Q.4 कौन-सा पादप ऊतक मृदा से जल और खनिज पोषकों को तनों और पत्तियों तक पहुँचाने के लिए उत्तरदायी है?

Ans
1. पैरेन्काइमा
2. कोलेन्काइमा
3. फ्लोएम
4. जाइलम

Question Type : **MCQ**
Question ID : **264330135440**
Option 1 ID : **264330530668**
Option 2 ID : **264330530670**
Option 3 ID : **264330530669**
Option 4 ID : **264330530667**
Status : **Answered**
Chosen Option : **4**

Q.5 किसी अम्ल और किसी क्षारक के बीच होने वाली अभिक्रिया _____ कहलाती है।

Ans
1. ऑक्सीकरण अभिक्रिया (Oxidation reaction)
2. संघनन अभिक्रिया (Condensation reaction)
3. उदासीनीकरण अभिक्रिया (Neutralisation reaction)
4. उप-परिवर्तन अभिक्रिया (Sub-alteration reaction)

Question Type : **MCQ**
Question ID : **264330138337**
Option 1 ID : **264330541956**
Option 2 ID : **264330541958**
Option 3 ID : **264330541955**
Option 4 ID : **264330541957**
Status : **Answered**
Chosen Option : **3**

Q.6 कर्नाटक के गुलबर्गा में स्थित बहमनी स्मारक, वास्तुकला की _____ शैली को दर्शाते हैं।

Ans
1. मामलुक
2. दक्कन
3. नागर
4. सिख

Question Type : **MCQ**
Question ID : **264330133935**
Option 1 ID : **264330524763**
Option 2 ID : **264330524765**
Option 3 ID : **264330524764**
Option 4 ID : **264330524766**
Status : **Answered**
Chosen Option : **2**

Join Telegram Group "HaryanaJobs.in"

Q.7 'ए लाइफ ऑफ द जीनियस: द मैन हू न्यू इनफिनिटी (A Life of the Genius: The Man Who Knew Infinity)' भारतीय गणितज्ञ _____ की जीवनी है।

Ans
✔ 1. श्रीनिवास रामानुजन
✘ 2. आर्यभट्ट
✘ 3. नीना गुप्ता
✘ 4. आचार्य पिंगला

Question Type : **MCQ**
Question ID : **264330133665**
Option 1 ID : **264330523683**
Option 2 ID : **264330523684**
Option 3 ID : **264330523685**
Option 4 ID : **264330523686**
Status : **Answered**
Chosen Option : **1**

Q.8 किस केंद्र शासित प्रदेश का अपना एक उच्च न्यायालय है?

Ans
✘ 1. दादरा और नगर हवेली
✘ 2. चंडीगढ़
✔ 3. दिल्ली
✘ 4. अंडमान और निकोबार द्वीप समूह

Question Type : **MCQ**
Question ID : **264330135455**
Option 1 ID : **264330530727**
Option 2 ID : **264330530730**
Option 3 ID : **264330530729**
Option 4 ID : **264330530728**
Status : **Answered**
Chosen Option : **3**

Q.9 दुनिया में सबसे पुराना टेनिस टूर्नामेंट कौन-सा है?

Ans
✘ 1. फ्रेंच ओपन
✘ 2. ऑस्ट्रेलियन ओपन
✘ 3. यू.एस. ओपन
✔ 4. विंबलडन

Question Type : **MCQ**
Question ID : **264330138325**
Option 1 ID : **264330541907**
Option 2 ID : **264330541910**
Option 3 ID : **264330541909**
Option 4 ID : **264330541908**
Status : **Answered**
Chosen Option : **4**

Join Telegram Group "HaryanaJobs.in"

Q.10 रुक्मिणी देवी अरुंडेल किस नृत्य शैली की प्रसिद्ध नृत्यांगना थीं?

Ans
1. मोहिनीअट्टम
2. भरतनाट्यम
3. कथकली
4. कुचिपुड़ी

Question Type : **MCQ**
Question ID : **264330135436**
Option 1 ID : **264330530653**
Option 2 ID : **264330530654**
Option 3 ID : **264330530651**
Option 4 ID : **264330530652**
Status : **Answered**
Chosen Option : **4**

Q.11 निम्नलिखित में से कौन-सा भारत के संविधान में एक मौलिक अधिकार है?

Ans
1. मताधिकार (Right to Vote)
2. अवसरों का अधिकार (Right to Opportunities)
3. स्वतंत्रता का अधिकार (Right to Freedom)
4. रोज़गार का अधिकार (Right to Work)

Question Type : **MCQ**
Question ID : **264330135454**
Option 1 ID : **264330530726**
Option 2 ID : **264330530724**
Option 3 ID : **264330530723**
Option 4 ID : **264330530725**
Status : **Answered**
Chosen Option : **3**

Q.12 निम्न में से कौन-सा फसल कटाई त्योहार प्रसिद्ध रूप से असम में मनाया जाता है?

Ans
1. भोगाली बिहू
2. ओणम
3. लोहड़ी
4. मकर संक्रांति

Question Type : **MCQ**
Question ID : **264330135437**
Option 1 ID : **264330530655**
Option 2 ID : **264330530658**
Option 3 ID : **264330530656**
Option 4 ID : **264330530657**
Status : **Answered**
Chosen Option : **1**

Join Telegram Group "HaryanaJobs.in"

Q.13 वर्ष 1947 में जब भारत में ब्रिटिश शासन समाप्त हुआ तो साक्षरता दर सिर्फ _____ थी।

Ans
✔ 1. 12 प्रतिशत
✘ 2. 22 प्रतिशत
✘ 3. 18 प्रतिशत
✘ 4. 20 प्रतिशत

Question Type : **MCQ**
Question ID : **264330137955**
Option 1 ID : **264330540428**
Option 2 ID : **264330540430**
Option 3 ID : **264330540429**
Option 4 ID : **264330540427**
Status : **Answered**
Chosen Option : **2**

Q.14 नेशनल इंस्टीट्यूट ऑफ इंडियन क्लासिकल डांस (National Institute of Indian Classical Dance) द्वारा 2021 का प्रतिष्ठित अभिनंदन सरोजा राष्ट्रीय पुरस्कार किसे दिया गया?

Ans
✘ 1. सरोज खान
✘ 2. पंडित बिरजू महाराज
✘ 3. श्रीमंत शंकरदेव
✔ 4. अपर्णा सतीसन (Aparna Satheesan)

Question Type : **MCQ**
Question ID : **264330133667**
Option 1 ID : **264330523693**
Option 2 ID : **264330523694**
Option 3 ID : **264330523691**
Option 4 ID : **264330523692**
Status : **Answered**
Chosen Option : **4**

Q.15 उस्ताद शफात अहमद खान निम्नलिखित में से किस वाद्य यंत्र के लिए प्रसिद्ध थे?

Ans
✘ 1. हरमोनियम
✔ 2. तबला
✘ 3. वायलिन
✘ 4. रुद्र वीणा

Question Type : **MCQ**
Question ID : **264330135452**
Option 1 ID : **264330530717**
Option 2 ID : **264330530715**
Option 3 ID : **264330530716**
Option 4 ID : **264330530718**
Status : **Answered**
Chosen Option : **4**

Join Telegram Group "HaryanaJobs.in"

Q.16 हर्षवर्धन के दरबारी कवि कौन थे?

Ans
1. हेम सरस्वती
2. श्री पोन्ना
3. बाणभट्ट
4. परमानन्द

Question Type : **MCQ**
Question ID : **264330135447**
Option 1 ID : **264330530697**
Option 2 ID : **264330530696**
Option 3 ID : **264330530698**
Option 4 ID : **264330530695**
Status : **Answered**
Chosen Option : **3**

Q.17 जो बल पृथ्वी के आंतरिक भाग में घटित होते हैं उन्हें _____कहते हैं।

Ans
1. बहिर्जनिक बल
2. गुरुत्वाकर्षण बल
3. अंतर्जनित बल
4. घर्षण बल

Question Type : **MCQ**
Question ID : **264330138336**
Option 1 ID : **264330541951**
Option 2 ID : **264330541953**
Option 3 ID : **264330541952**
Option 4 ID : **264330541954**
Status : **Answered**
Chosen Option : **3**

Q.18 सर्वप्रथम कॉर्क की कोशिकाओं की खोज _____ ने 1665 में की।

Ans
1. एडवर्ड जेनर (Edward Jenner)
2. रॉबर्ट हुक (Robert Hooke)
3. थिओफ्रेस्टस (Theophrastus)
4. एंटोनी वॉन ल्यूवेनहुक (Anton van Leeuwenhoek)

Question Type : **MCQ**
Question ID : **264330138335**
Option 1 ID : **264330541948**
Option 2 ID : **264330541947**
Option 3 ID : **264330541950**
Option 4 ID : **264330541949**
Status : **Answered**
Chosen Option : **4**

Join Telegram Group "HaryanaJobs.in"

Q.19 चुनाव कानून (संशोधन) विधेयक, 2021 भारत के _____ मंत्रालय से संबंधित है।

Ans
✔ 1. कानून और न्याय
✘ 2. पृथ्वी विज्ञान
✘ 3. जनजातीय कार्य
✘ 4. गृह मंत्रालय

Question Type : **MCQ**
Question ID : **264330133932**
Option 1 ID : **264330524754**
Option 2 ID : **264330524753**
Option 3 ID : **264330524752**
Option 4 ID : **264330524751**
Status : **Answered**
Chosen Option : **1**

Q.20 प्रार्थना समाज के संस्थापक कौन थे?

Ans
✘ 1. तुलसी राम
✔ 2. आत्माराम पांडुरंग
✘ 3. राम सिंह
✘ 4. स्वामी विवेकानंद

Question Type : **MCQ**
Question ID : **264330135450**
Option 1 ID : **264330530710**
Option 2 ID : **264330530707**
Option 3 ID : **264330530709**
Option 4 ID : **264330530708**
Status : **Answered**
Chosen Option : **2**

Q.21 किस राज्य सरकार ने "पंचामृत योजना (Panchamrut Yojana)" शुरू की है?

Ans
✘ 1. कर्नाटक
✔ 2. उत्तरप्रदेश
✘ 3. उड़ीसा
✘ 4. पश्चिम बंगाल

Question Type : **MCQ**
Question ID : **264330135434**
Option 1 ID : **264330530646**
Option 2 ID : **264330530643**
Option 3 ID : **264330530645**
Option 4 ID : **264330530644**
Status : **Answered**
Chosen Option : **3**

Join Telegram Group "HaryanaJobs.in"

Q.22 सरकार का हस्तक्षेप, चाहे वह माँग का विस्तार करने के लिए हो अथवा इसे कम करने के लिए _____ कहलाता है।

Ans
1. व्यय कार्य (expenditure function)
2. संक्रमण कार्य (transition function)
3. पुनर्वितरण कार्य (redistribution function)
4. स्थिरीकरण कार्य (stabilisation function)

Question Type : **MCQ**
Question ID : **264330133672**
Option 1 ID : **264330523712**
Option 2 ID : **264330523714**
Option 3 ID : **264330523713**
Option 4 ID : **264330523711**
Status : **Answered**
Chosen Option : **4**

Q.23 एक हॉकी टीम में मैदान पर कितने खिलाड़ी (field players) होते हैं?

Ans
1. 14
2. 7
3. 9
4. 11

Question Type : **MCQ**
Question ID : **264330135456**
Option 1 ID : **264330530731**
Option 2 ID : **264330530733**
Option 3 ID : **264330530734**
Option 4 ID : **264330530732**
Status : **Answered**
Chosen Option : **4**

Q.24 किस नदी को दक्षिण गंगा के नाम से भी जाना जाता है?

Ans
1. कृष्णा
2. गोदावरी
3. कावेरी
4. तुंगभद्रा

Question Type : **MCQ**
Question ID : **264330135444**
Option 1 ID : **264330530683**
Option 2 ID : **264330530686**
Option 3 ID : **264330530684**
Option 4 ID : **264330530685**
Status : **Answered**
Chosen Option : **2**

Join Telegram Group "HaryanaJobs.in"

Q.25 गोरखपुर भारत के _____ रेलवे का मुख्यालय है।

Ans
1. पूर्वी ✗
2. पश्चिमी ✗
3. उत्तर-पूर्वी ✓
4. उत्तरी ✗

Question Type : **MCQ**
Question ID : **264330133657**
Option 1 ID : **264330523654**
Option 2 ID : **264330523653**
Option 3 ID : **264330523652**
Option 4 ID : **264330523651**
Status : **Answered**
Chosen Option : **1**

Section : **English Language and Comprehension**

Q.1 Choose the incorrectly spelt word.

Ans
1. Start ✗
2. Discribe ✓
3. Melting ✗
4. Advance ✗

Question Type : **MCQ**
Question ID : **264330135200**
Option 1 ID : **264330529730**
Option 2 ID : **264330529727**
Option 3 ID : **264330529728**
Option 4 ID : **264330529729**
Status : **Answered**
Chosen Option : **2**

Q.2 In the following question, out of the given four alternatives, select the alternative which best expresses the meaning of the Idiom/Phrase.

Out of the woods

Ans
1. Out of danger ✓
2. To meet with disaster ✗
3. Not adhering to rules ✗
4. To lose contact ✗

Question Type : **MCQ**
Question ID : **264330135199**
Option 1 ID : **264330529724**
Option 2 ID : **264330529725**
Option 3 ID : **264330529726**
Option 4 ID : **264330529723**
Status : **Answered**
Chosen Option : **3**

Join Telegram Group "HaryanaJobs.in"

Q.3 Choose the sentence with no spelling error.

Ans
1. Servise industries rely on a set of processes.
2. Service industreis relie on a set of processes.
3. Service industries rely on a set of processes.
4. Service industries rely on a set of procceses.

Question Type : **MCQ**
Question ID : **264330135201**
Option 1 ID : **264330529734**
Option 2 ID : **264330529733**
Option 3 ID : **264330529732**
Option 4 ID : **264330529731**
Status : **Answered**
Chosen Option : **3**

Q.4 Select the most appropriate option to fill in the blank.

We didn't mean to _____ all of you waiting.

Ans
1. make
2. seep
3. creep
4. keep

Question Type : **MCQ**
Question ID : **264330135202**
Option 1 ID : **264330529738**
Option 2 ID : **264330529737**
Option 3 ID : **264330529736**
Option 4 ID : **264330529735**
Status : **Answered**
Chosen Option : **4**

Q.5 Select the word segment that substitutes (replaces) the bracketed word segment correctly and completes the sentence meaningfully. Select the option 'no correction required' if the sentence is correct as given.

Now, (how much autograph) would you like? I can do joined-up writing now, you know!'

Ans
1. how much many autographs
2. how many autographs
3. how most autographs
4. No correction required

Question Type : **MCQ**
Question ID : **264330136387**
Option 1 ID : **264330534317**
Option 2 ID : **264330534315**
Option 3 ID : **264330534316**
Option 4 ID : **264330534318**
Status : **Answered**
Chosen Option : **2**

Join Telegram Group "HaryanaJobs.in"

Q.6 Select the most appropriate meaning of the given idiom.

Buy a lemon

Ans
1. To buy something that is worthless
2. The ability to know what's happening
3. To not complain
4. Wear fashionable clothing

Question Type : **MCQ**
Question ID : **264330136711**
Option 1 ID : **264330535556**
Option 2 ID : **264330535555**
Option 3 ID : **264330535558**
Option 4 ID : **264330535557**
Status : **Answered**
Chosen Option : **1**

Q.7 Find the part of the given sentence that has an error in it. If there is no error, choose 'No error'.

Some plants secrete oils during dry periods, and when it rains, these oils are released on the air.

Ans
1. Some plants secrete oils during
2. dry periods, and when it rains,
3. these oils are released on the air.
4. No error

Question Type : **MCQ**
Question ID : **264330135180**
Option 1 ID : **264330529651**
Option 2 ID : **264330529652**
Option 3 ID : **264330529653**
Option 4 ID : **264330529654**
Status : **Answered**
Chosen Option : **3**

Q.8 **Improve the underlined part of the sentence. Choose 'No improvement' as an answer if the sentence is grammatically correct.**
The water leaked in with a hole in the roof.

Ans
1. through a holes
2. through a hole
3. by a holed
4. No improvement

Question Type : **MCQ**
Question ID : **264330134480**
Option 1 ID : **264330526887**
Option 2 ID : **264330526888**
Option 3 ID : **264330526889**
Option 4 ID : **264330526890**
Status : **Answered**
Chosen Option : **2**

Join Telegram Group "HaryanaJobs.in"

Q.9 Select the most appropriate option to fill in the blank.

Everyone who studies forests knows trees have been dying in large and _____ numbers.

Ans

1. scanty ✗
2. massive ✓
3. minority ✗
4. peculiar ✗

Question Type : **MCQ**
Question ID : **264330135203**
Option 1 ID : **264330529741**
Option 2 ID : **264330529742**
Option 3 ID : **264330529740**
Option 4 ID : **264330529739**
Status : **Answered**
Chosen Option : **2**

Q.10 Select the appropriate synonym for the underlined word.

He wasn't entirely convinced.

Ans

1. doubting ✗
2. trustless ✗
3. submerged ✗
4. accepting ✓

Question Type : **MCQ**
Question ID : **264330135194**
Option 1 ID : **264330529706**
Option 2 ID : **264330529704**
Option 3 ID : **264330529703**
Option 4 ID : **264330529705**
Status : **Answered**
Chosen Option : **4**

Q.11 A sentence has been given with a blank to be filled with an appropriate option. Choose the correct alternative.

Air Travel is the _____ growing emitter of climate change gases.

Ans

1. fast ✗
2. fasting ✗
3. fastest ✓
4. fastly ✗

Question Type : **MCQ**
Question ID : **264330135184**
Option 1 ID : **264330529670**
Option 2 ID : **264330529667**
Option 3 ID : **264330529668**
Option 4 ID : **264330529669**
Status : **Answered**
Chosen Option : **3**

Join Telegram Group "HaryanaJobs.in"

Q.12 Choose the word that means the same as the given word.

Valiance

Ans
1. Cravenness
2. Patience
3. Gallantry
4. Dastardliness

Question Type : **MCQ**
Question ID : **264330135221**
Option 1 ID : **264330529809**
Option 2 ID : **264330529807**
Option 3 ID : **264330529810**
Option 4 ID : **264330529808**
Status : **Answered**
Chosen Option : **3**

Q.13 Choose the word that can substitute the given group of words.

A diagram showing the path of planets

Ans
1. Platitude
2. Horoscope
3. Zodiac
4. Planetarium

Question Type : **MCQ**
Question ID : **264330135193**
Option 1 ID : **264330529701**
Option 2 ID : **264330529702**
Option 3 ID : **264330529700**
Option 4 ID : **264330529699**
Status : **Answered**
Chosen Option : **4**

Q.14 **Find the part of the given sentence that has an error in it. If there is no error, choose 'No error'.**
Just because I am quiet doesn't mean I can't scold you.

Ans
1. quiet doesn't mean
2. Just because I am
3. No error
4. I can't scold you.

Question Type : **MCQ**
Question ID : **264330134346**
Option 1 ID : **264330526372**
Option 2 ID : **264330526371**
Option 3 ID : **264330526374**
Option 4 ID : **264330526373**
Status : **Answered**
Chosen Option : **1**

Join Telegram Group "HaryanaJobs.in"

Q.15 Select the most appropriate word for the given group of words.

One who makes an active effort to promote human welfare

Ans

✔ 1. Philanthropist

✘ 2. Misogynist

✘ 3. Feminist

✘ 4. Sexist

Question Type : **MCQ**
Question ID : **264330136705**
Option 1 ID : **264330535533**
Option 2 ID : **264330535532**
Option 3 ID : **264330535531**
Option 4 ID : **264330535534**
Status : **Answered**
Chosen Option : **1**

Q.16 A sentence has been given with a blank to be filled with an appropriate option. Choose the correct alternative.

The home I _____ with my husband in 1986 still smelled like him.

Ans

✘ 1. shared

✔ 2. had shared

✘ 3. sharing

✘ 4. have shared

Question Type : **MCQ**
Question ID : **264330135211**
Option 1 ID : **264330529773**
Option 2 ID : **264330529774**
Option 3 ID : **264330529771**
Option 4 ID : **264330529772**
Status : **Answered**
Chosen Option : **2**

Q.17 Choose the word that is opposite in meaning to the given word.
Proceed

Ans

✘ 1. Wide

✔ 2. Withdraw

✘ 3. Local

✘ 4. Accidental

Question Type : **MCQ**
Question ID : **264330134416**
Option 1 ID : **264330526639**
Option 2 ID : **264330526641**
Option 3 ID : **264330526642**
Option 4 ID : **264330526640**
Status : **Answered**
Chosen Option : **2**

Join Telegram Group "HaryanaJobs.in"

Q.18 Identify the segment that contains a grammatical error. If there is no error, select 'No error'.

Much of the art he / discusses is funny, playing / and mischievous.

Ans

✗ 1. No error

✗ 2. Much of the art he

✗ 3. and mischievous.

✓ 4. discusses is funny, playing

Question Type : **MCQ**
Question ID : **264330136384**
Option 1 ID : **264330534306**
Option 2 ID : **264330534303**
Option 3 ID : **264330534305**
Option 4 ID : **264330534304**
Status : **Answered**
Chosen Option : **4**

Q.19 Improve the underlined part of the sentence. Choose 'No improvement' as an answer if the sentence is grammatically correct.

My parents used to encouraged me to devote more time to study.

Ans

✗ 1. encouraging me devoting

✗ 2. encourages me to devote

✓ 3. encourage me to devote

✗ 4. No improvement

Question Type : **MCQ**
Question ID : **264330135209**
Option 1 ID : **264330529764**
Option 2 ID : **264330529763**
Option 3 ID : **264330529765**
Option 4 ID : **264330529766**
Status : **Answered**
Chosen Option : **3**

Q.20 Select the appropriate antonym for the underlined word.

A war has been unleashed on financial untouchability.

Ans

✗ 1. regarded

✗ 2. unchained

✓ 3. confined

✗ 4. free

Question Type : **MCQ**
Question ID : **264330135197**
Option 1 ID : **264330529718**
Option 2 ID : **264330529715**
Option 3 ID : **264330529717**
Option 4 ID : **264330529716**
Status : **Answered**
Chosen Option : **3**

Join Telegram Group "HaryanaJobs.in"

Comprehension:

In the following passage some of the words have been deleted. Read the passage carefully and select the correct answer for the given blank out of the four alternatives.
When Jane died (1) _____ 1850, she was called “one of the most distinguished novelists (2) _____ England has produced” and “the first who (3) _____ that beautiful kind of fiction, the historical romance.” The Porter sisters’ careers ended (4) _____ as the Brontë sisters were getting started in the early Victorian (5) _____.

SubQuestion No : 21

Q.21 Select the most appropriate option to fill in blank number 1.

Ans

✗ 1. into

✓ 2. in

✗ 3. at

✗ 4. on

Question Type : **MCQ**
Question ID : **264330134407**
Option 1 ID : **264330526606**
Option 2 ID : **264330526603**
Option 3 ID : **264330526605**
Option 4 ID : **264330526604**
Status : **Answered**
Chosen Option : **2**

Comprehension:

In the following passage some of the words have been deleted. Read the passage carefully and select the correct answer for the given blank out of the four alternatives.
When Jane died (1) _____ 1850, she was called “one of the most distinguished novelists (2) _____ England has produced” and “the first who (3) _____ that beautiful kind of fiction, the historical romance.” The Porter sisters’ careers ended (4) _____ as the Brontë sisters were getting started in the early Victorian (5) _____.

SubQuestion No : 22

Q.22 Select the most appropriate option to fill in blank number 2.

Ans

✗ 1. who

✓ 2. which

✗ 3. what

✗ 4. whose

Question Type : **MCQ**
Question ID : **264330134408**
Option 1 ID : **264330526608**
Option 2 ID : **264330526607**
Option 3 ID : **264330526610**
Option 4 ID : **264330526609**
Status : **Answered**
Chosen Option : **2**

Join Telegram Group "HaryanaJobs.in"

Comprehension:

In the following passage some of the words have been deleted. Read the passage carefully and select the correct answer for the given blank out of the four alternatives.
When Jane died (1) _____ 1850, she was called “one of the most distinguished novelists (2) _____ England has produced” and “the first who (3) _____ that beautiful kind of fiction, the historical romance.” The Porter sisters’ careers ended (4) _____ as the Brontë sisters were getting started in the early Victorian (5) _____.

SubQuestion No : 23

Q.23 Select the most appropriate option to fill in blank number 3.

Ans
✗ 1. dismissed
✗ 2. energized
✓ 3. introduced
✗ 4. casted

Question Type : **MCQ**
Question ID : **264330134409**
Option 1 ID : **264330526614**
Option 2 ID : **264330526611**
Option 3 ID : **264330526612**
Option 4 ID : **264330526613**
Status : **Answered**
Chosen Option : **3**

Comprehension:

In the following passage some of the words have been deleted. Read the passage carefully and select the correct answer for the given blank out of the four alternatives.
When Jane died (1) _____ 1850, she was called “one of the most distinguished novelists (2) _____ England has produced” and “the first who (3) _____ that beautiful kind of fiction, the historical romance.” The Porter sisters’ careers ended (4) _____ as the Brontë sisters were getting started in the early Victorian (5) _____.

SubQuestion No : 24

Q.24 Select the most appropriate option to fill in blank number 4.

Ans
✗ 1. lest
✓ 2. just
✗ 3. must
✗ 4. that

Question Type : **MCQ**
Question ID : **264330134410**
Option 1 ID : **264330526618**
Option 2 ID : **264330526617**
Option 3 ID : **264330526616**
Option 4 ID : **264330526615**
Status : **Answered**
Chosen Option : **2**

Join Telegram Group "HaryanaJobs.in"

Comprehension:

In the following passage some of the words have been deleted. Read the passage carefully and select the correct answer for the given blank out of the four alternatives.
When Jane died (1) _____ 1850, she was called “one of the most distinguished novelists (2) _____ England has produced” and “the first who (3) _____ that beautiful kind of fiction, the historical romance.” The Porter sisters’ careers ended (4) _____ as the Brontë sisters were getting started in the early Victorian (5) _____.

SubQuestion No : 25

Q.25 Select the most appropriate option to fill in blank number 5.

Ans

✗ 1. spell

✗ 2. session

✗ 3. terms

✓ 4. period

Question Type : **MCQ**
Question ID : **264330134411**
Option 1 ID : **264330526619**
Option 2 ID : **264330526621**
Option 3 ID : **264330526620**
Option 4 ID : **264330526622**
Status : **Answered**
Chosen Option : **4**

Join Telegram Group "HaryanaJobs.in"

Multi Tasking Non Technical Staff and Havaldar CBIC and CBN Examination 2022

Roll Number	HaryanaJobs.in
Candidate Name	HaryanaJobs.in
Venue Name	Allenhouse Informatics Center
Exam Date	03/05/2023
Exam Time	3:30 PM - 5:00 PM
Subject	MTS Non Tech Havaldar CBIC and CBN Examination 2022

Section : **Numerical and Mathematical Ability**

Q.1 एक निश्चित धनराशि पर 2 वर्षों में 3% वार्षिक दर पर साधारण ब्याज और चक्रवृद्धि ब्याज में 90 पैसे (paisa) का अंतर है। वह धनराशि क्या है?

Ans

✗ 1. Rs. 3000

✗ 2. Rs. 9000

✓ 3. Rs. 1000

✗ 4. Rs. 5000

Question Type : **MCQ**
Question ID : **264330135121**
Option 1 ID : **264330529421**
Option 2 ID : **264330529420**
Option 3 ID : **264330529419**
Option 4 ID : **264330529422**
Status : **Answered**
Chosen Option : **3**

Q.2 निम्नलिखित तालिका में एक सप्ताह में चार अलग-अलग ब्रांड स्टोर में आने वाले खरीदारों की संख्या को दर्शाया गया है। इस सप्ताह के दौरान ब्रांड R के खरीदारों की संख्या, ब्रांड P के खरीदारों की संख्या से कितने प्रतिशत अधिक है?

Brand	Number of buyers
P	400
Q	530
R	415
S	310

Brand - ब्रांड, Number of buyers - खरीदारों की संख्या

Ans

✗ 1. 2.25%

✗ 2. 5.50%

✓ 3. 3.75%

✗ 4. 4.25%

Question Type : **MCQ**
Question ID : **264330138741**
Option 1 ID : **264330543574**
Option 2 ID : **264330543572**
Option 3 ID : **264330543573**
Option 4 ID : **264330543571**
Status : **Answered**
Chosen Option : **3**

Join Telegram Group "HaryanaJobs.in"

Q.3 $841 + 6 \times 15 + 45\%\ of\ 60$ का मान ज्ञात कीजिए:

Ans
1. 765 ✗
2. 888 ✗
3. 958 ✓
4. 654 ✗

Question Type : **MCQ**
Question ID : **264330135130**
Option 1 ID : **264330529458**
Option 2 ID : **264330529457**
Option 3 ID : **264330529456**
Option 4 ID : **264330529455**
Status : **Answered**
Chosen Option : **3**

Q.4 साजिद ने 60 km/hr की चाल से 6 घंटे और 50 km/hr की चाल से 4 घंटे गाड़ी चलाई। पूरी यात्रा के दौरान उसकी औसत चाल क्या थी?

Ans
1. 52 kmph ✗
2. 58 kmph ✗
3. 56 kmph ✓
4. 54 kmph ✗

Question Type : **MCQ**
Question ID : **264330141022**
Option 1 ID : **264330552436**
Option 2 ID : **264330552438**
Option 3 ID : **264330552435**
Option 4 ID : **264330552437**
Status : **Answered**
Chosen Option : **3**

Q.5 1.05 और 6.23 का महत्तम समापवर्तक (HCF) क्या है?

Ans
1. 0.21 ✗
2. 0.89 ✗
3. 0.35 ✗
4. 0.07 ✓

Question Type : **MCQ**
Question ID : **264330141021**
Option 1 ID : **264330552433**
Option 2 ID : **264330552432**
Option 3 ID : **264330552434**
Option 4 ID : **264330552431**
Status : **Answered**
Chosen Option : **4**

Join Telegram Group "HaryanaJobs.in"

Q.6 एक उत्पाद, जिसका अंकित मूल्य Rs. 840 है, एक थोक व्यापारी द्वारा Rs. 798 में बेचा जाता है। व्यापारी द्वारा दिया गया बट्टा प्रतिशत क्या है?

Ans
1. 6% ✗
2. 5% ✓
3. 4% ✗
4. 3% ✗

Question Type : **MCQ**
Question ID : **264330135139**
Option 1 ID : **264330529491**
Option 2 ID : **264330529494**
Option 3 ID : **264330529492**
Option 4 ID : **264330529493**
Status : **Answered**
Chosen Option : **2**

Q.7 8, 14 और 24 का चतुर्थ समानुपाती ज्ञात कीजिए।

Ans
1. 36 ✗
2. 26 ✗
3. 42 ✓
4. 40 ✗

Question Type : **MCQ**
Question ID : **264330135141**
Option 1 ID : **264330529502**
Option 2 ID : **264330529499**
Option 3 ID : **264330529501**
Option 4 ID : **264330529500**
Status : **Answered**
Chosen Option : **3**

Q.8 अखिल ने 13 kg सेब Rs. 2,400 में खरीदे। उसने 7 kg सेब के विक्रय मूल्य के बराबर लाभ पर इन्हें बेच दिया। सेब का प्रति किलोग्राम विक्रय मूल्य ज्ञात कीजिए।

Ans
1. Rs. 400 ✓
2. Rs. 600 ✗
3. Rs. 650 ✗
4. Rs. 350 ✗

Question Type : **MCQ**
Question ID : **264330135138**
Option 1 ID : **264330529488**
Option 2 ID : **264330529487**
Option 3 ID : **264330529489**
Option 4 ID : **264330529490**
Status : **Answered**
Chosen Option : **1**

Join Telegram Group "HaryanaJobs.in"

Q.9 एक बेलन और शंकु की त्रिज्याओं का अनुपात 3:1 है। यदि उनकी ऊँचाइयाँ बराबर हैं, तो उनके आयतनों का अनुपात क्या है?

Ans

✔ 1. 27:1

✘ 2. 9:1

✘ 3. 1:9

✘ 4. 1:3

Question Type : **MCQ**
Question ID : **264330138367**
Option 1 ID : **264330542075**
Option 2 ID : **264330542077**
Option 3 ID : **264330542078**
Option 4 ID : **264330542076**
Status : **Answered**
Chosen Option : **1**

Q.10 A अकेले किसी कार्य का आधा भाग 150 दिनों में पूरा कर सकता है। 50 दिनों में, A द्वारा कितने प्रतिशत कार्य पूरा किया जाएगा?

Ans

✘ 1. 15 प्रतिशत

✔ 2. 16.67 प्रतिशत

✘ 3. 22.5 प्रतिशत

✘ 4. 20 प्रतिशत

Question Type : **MCQ**
Question ID : **264330135042**
Option 1 ID : **264330529106**
Option 2 ID : **264330529105**
Option 3 ID : **264330529103**
Option 4 ID : **264330529104**
Status : **Answered**
Chosen Option : **2**

Q.11 यदि ब्याज अर्धवार्षिक रूप से संयोजित किया जा रहा है, तो कितनी राशि चक्रवृद्धि ब्याज पर 40 प्रतिशत वार्षिक दर से 2 वर्ष में Rs. 51840 हो जाएगी।

Ans

✘ 1. Rs.20000

✘ 2. Rs.15000

✔ 3. Rs.25000

✘ 4. Rs.30000

Question Type : **MCQ**
Question ID : **264330137186**
Option 1 ID : **264330537388**
Option 2 ID : **264330537387**
Option 3 ID : **264330537389**
Option 4 ID : **264330537390**
Status : **Answered**
Chosen Option : **3**

Join Telegram Group "HaryanaJobs.in"

Q.12 $\left[\frac{1}{4}\text{ of }18\div\frac{6}{5}+\left(\frac{1}{8}+\frac{7}{4}\right)\right]\times\frac{1}{15}$ का मान है:

Ans
1. 4/5
2. 5/8
3. 6/7
4. 3/8

Question Type : **MCQ**
Question ID : **264330138725**
Option 1 ID : **264330543508**
Option 2 ID : **264330543510**
Option 3 ID : **264330543509**
Option 4 ID : **264330543507**
Status : **Answered**
Chosen Option : **1**

Q.13 स्थिर जल में एक नाव की चाल 17 km/hr है और धारा की चाल 11 km/hr है। नाव की धारा के प्रतिकूल चाल और धारा के अनुकूल चाल के बीच का अंतर ज्ञात कीजिए।

Ans
1. 21 km/hr
2. 18 km/hr
3. 28 km/hr
4. 22 km/hr

Question Type : **MCQ**
Question ID : **264330135144**
Option 1 ID : **264330529511**
Option 2 ID : **264330529514**
Option 3 ID : **264330529513**
Option 4 ID : **264330529512**
Status : **Answered**
Chosen Option : **4**

Q.14 संख्या A और B का औसत 16 है। संख्या B और C का औसत 40 है। संख्या C और A में कितना अंतर है?

Ans
1. 48
2. 12
3. 66
4. 80

Question Type : **MCQ**
Question ID : **264330135133**
Option 1 ID : **264330529470**
Option 2 ID : **264330529469**
Option 3 ID : **264330529467**
Option 4 ID : **264330529468**
Status : **Answered**
Chosen Option : **1**

Join Telegram Group "HaryanaJobs.in"

Q.15 a:b = 5:8 और b:c = 2:6, यदि a = 25 है, तो c का मान ज्ञात कीजिए।

Ans
1. 90 ✗
2. 140 ✗
3. 120 ✓
4. 96 ✗

Question Type : **MCQ**
Question ID : **264330135140**
Option 1 ID : **264330529496**
Option 2 ID : **264330529498**
Option 3 ID : **264330529495**
Option 4 ID : **264330529497**
Status : **Answered**
Chosen Option : **3**

Q.16 D अकेले किसी कार्य को 20 दिनों में कर सकता है और E अकेले उसी कार्य को 25 दिनों में कर सकता है। यदि वे 8 दिनों तक साथ मिलकर कार्य करते हैं, तो शेष रह गए कार्य का अंश है:

Ans
1. 7/25 ✓
2. 9/100 ✗
3. 11/25 ✗
4. 51/100 ✗

Question Type : **MCQ**
Question ID : **264330138362**
Option 1 ID : **264330542055**
Option 2 ID : **264330542058**
Option 3 ID : **264330542057**
Option 4 ID : **264330542056**
Status : **Answered**
Chosen Option : **1**

Q.17 एक घनाभ की लंबाई उसकी चौड़ाई की छः गुनी है और घनाभ की ऊँचाई उसकी चौड़ाई की चार गुनी है। यदि घनाभ की चौड़ाई 3 cm है, तो घनाभ का कुल पृष्ठीय क्षेत्रफल कितना है?

Ans
1. 612 cm^2 ✓
2. 576 cm^2 ✗
3. 484 cm^2 ✗
4. 676 cm^2 ✗

Question Type : **MCQ**
Question ID : **264330135057**
Option 1 ID : **264330529166**
Option 2 ID : **264330529164**
Option 3 ID : **264330529163**
Option 4 ID : **264330529165**
Status : **Answered**
Chosen Option : **1**

Join Telegram Group "HaryanaJobs.in"

Q.18 रोहित Rs.880 में एक पुराना बल्ला खरीदता है और उसकी मरम्मत पर Rs.120 खर्च करता है। यदि वह इसे Rs.800 में बेचता है, तो हानि प्रतिशत क्या है?

Ans

1. ✗ 25 प्रतिशत
2. ✓ 20 प्रतिशत
3. ✗ 10 प्रतिशत
4. ✗ 30 प्रतिशत

Question Type : **MCQ**
Question ID : **264330137651**
Option 1 ID : **264330539211**
Option 2 ID : **264330539213**
Option 3 ID : **264330539214**
Option 4 ID : **264330539212**
Status : **Answered**
Chosen Option : **2**

Q.19 किसी वस्तु के मूल्य में क्रमागत 20% और 30% की कमी, वस्तु के मूल्य में _____ एकल कमी के बराबर है।

Ans

1. ✗ 50%
2. ✗ 40%
3. ✓ 44%
4. ✗ 25%

Question Type : **MCQ**
Question ID : **264330135114**
Option 1 ID : **264330529391**
Option 2 ID : **264330529394**
Option 3 ID : **264330529393**
Option 4 ID : **264330529392**
Status : **Answered**
Chosen Option : **3**

Join Telegram Group "HaryanaJobs.in"

Q.20 निम्न दंड आलेख में एक विद्यालय में विभिन्न कक्षाओं में उत्तीर्ण और अनुत्तीर्ण होने वाले छात्रों की संख्या को दर्शाया गया है। यदि प्रत्येक कक्षा में विद्यार्थियों की कुल संख्या 100 है, तो परीक्षा में उत्तीर्ण होने वाले विद्यार्थियों का प्रतिशत ज्ञात कीजिए।

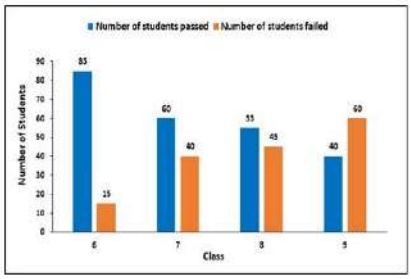

number of students - छात्रों की संख्या

number of students passed - उत्तीर्ण छात्रों की संख्या

number of students failed - अनुत्तीर्ण छात्रों की संख्या

class- कक्षा

Ans

✗ 1. 25%

✗ 2. 65%

✗ 3. 55%

✓ 4. 60%

Question Type : **MCQ**
Question ID : **264330135148**
Option 1 ID : **264330529527**
Option 2 ID : **264330529530**
Option 3 ID : **264330529529**
Option 4 ID : **264330529528**
Status : **Answered**
Chosen Option : **4**

Section : **Reasoning Ability and Problem Solving**

Q.1 एक निश्चित कूट भाषा में, 'CUT' को 'BD21SU' लिखा जाता है। उस कूट भाषा में 'DRY' को कैसे लिखा जाएगा?

Ans

✓ 1. CE18XZ

✗ 2. CE18ZX

✗ 3. C18EXZ

✗ 4. CZ18EX

Question Type : **MCQ**
Question ID : **264330137812**
Option 1 ID : **264330539855**
Option 2 ID : **264330539858**
Option 3 ID : **264330539856**
Option 4 ID : **264330539857**
Status : **Answered**
Chosen Option : **1**

Join Telegram Group "HaryanaJobs.in"

Q.2 दो कथन दिए गए हैं और दो निष्कर्ष I और II दिए गए हैं। कथनों को सत्य मानते हुए, चाहे वे सामान्यतः ज्ञात तथ्यों से अलग प्रतीत होते हों, निश्चय कीजिए कि कौन-सा निष्कर्ष तार्किक रूप से कथनों के अनुसार है।

कथन:

कुछ गाने, बर्फ हैं।

कुछ बर्फ, जूते हैं।

निष्कर्ष:

I. कुछ जूते, बर्फ हैं।

II. कुछ बर्फ, गाने हैं।

Ans

✗ 1. न तो निष्कर्ष I और न ही निष्कर्ष II कथनों के अनुसार है।

✗ 2. केवल निष्कर्ष II कथनों के अनुसार है।

✓ 3. दोनों निष्कर्ष I और II कथनों के अनुसार हैं।

✗ 4. केवल निष्कर्ष I कथनों के अनुसार है।

Question Type : **MCQ**
Question ID : **264330135031**
Option 1 ID : **264330529062**
Option 2 ID : **264330529060**
Option 3 ID : **264330529061**
Option 4 ID : **264330529059**
Status : **Answered**
Chosen Option : **3**

Q.3 उस विकल्प को चुनिए जो तीसरे शब्द से ठीक उसी प्रकार संबंधित है जिस प्रकार दूसरा शब्द पहले शब्द से संबंधित है।

सेल्सियस : तापमान :: पाउंड : ?

Ans

✗ 1. कोण

✗ 2. दूरी

✗ 3. समय

✓ 4. वज़न

Question Type : **MCQ**
Question ID : **264330135022**
Option 1 ID : **264330529026**
Option 2 ID : **264330529023**
Option 3 ID : **264330529025**
Option 4 ID : **264330529024**
Status : **Answered**
Chosen Option : **4**

Join Telegram Group "HaryanaJobs.in"

Q.4 दिए गए समीकरण को सही करने के लिए किन दो संख्याओं को आपस में बदला जाना चाहिए?
120 ÷ 12 × 6 + 24 - 15 = 27

Ans
1. 6 और 24
2. 12 और 24
3. 12 और 15
4. 12 और 6

Question Type : **MCQ**
Question ID : **264330137361**
Option 1 ID : **264330538073**
Option 2 ID : **264330538072**
Option 3 ID : **264330538074**
Option 4 ID : **264330538071**
Status : **Answered**
Chosen Option : **2**

Q.5 तीन कथन दिए गए हैं और दो निष्कर्ष I और II दिए गए हैं। कथनों को सत्य मानते हुए, चाहे वे सामान्यतः ज्ञात तथ्यों से अलग प्रतीत होते हों, निश्चय कीजिए कि कौन-सा निष्कर्ष तार्किक रूप से कथनों के अनुसार है।

कथन:
सभी कागज, कुर्सी हैं।
कुछ कुर्सी, जमीन हैं।
सभी बिल्ली, जमीन हैं।

निष्कर्ष:
I. कुछ बिल्ली, कुर्सी हैं।
II. कुछ कुर्सी, कागज नहीं हैं।

Ans
1. केवल निष्कर्ष II कथनों के अनुसार है।
2. केवल निष्कर्ष I कथनों के अनुसार है।
3. न तो निष्कर्ष I और न ही निष्कर्ष II कथनों के अनुसार है।
4. दोनों निष्कर्ष I और II कथनों के अनुसार हैं।

Question Type : **MCQ**
Question ID : **264330135032**
Option 1 ID : **264330529064**
Option 2 ID : **264330529063**
Option 3 ID : **264330529066**
Option 4 ID : **264330529065**
Status : **Answered**
Chosen Option : **2**

Join Telegram Group "HaryanaJobs.in"

Q.6 A, B और C एक बेंच पर दक्षिण की ओर मुख करके बैठे हैं। D, E, और F एक समानांतर बेंच पर उत्तर की ओर मुख करके बैठे हैं। D किसी एक सिरे पर और F के ठीक बाईं ओर बैठा है। B, D की ओर उन्मुख होकर बैठा है। C, A के दाईं ओर बैठा है। A की ओर उन्मुख होकर कौन बैठा है?

Ans
✗ 1. F
✓ 2. E
✗ 3. C
✗ 4. D

Question Type : **MCQ**
Question ID : **264330135028**
Option 1 ID : **264330529050**
Option 2 ID : **264330529049**
Option 3 ID : **264330529047**
Option 4 ID : **264330529048**
Status : **Answered**
Chosen Option : **2**

Q.7 दिए गए पैटर्न का ध्यानपूर्वक अध्ययन कीजिए और उस संख्या को चुनिए जो इसमें प्रश्न चिन्ह (?) के स्थान पर आ सकती है।
पहली पंक्ति - 14, 42, 84
दूसरी पंक्ति - 21, 63, 126
तीसरी पंक्ति - 8, 24, ?

Ans
✗ 1. 82
✗ 2. 38
✓ 3. 48
✗ 4. 65

Question Type : **MCQ**
Question ID : **264330135036**
Option 1 ID : **264330529081**
Option 2 ID : **264330529080**
Option 3 ID : **264330529082**
Option 4 ID : **264330529079**
Status : **Answered**
Chosen Option : **3**

Q.8 एक निश्चित कूट भाषा में, 'ALBUMS' को 'UMWBNA' लिखा जाता है। उस कूट भाषा में 'CLEVER' को कैसे लिखा जाएगा?

Ans
✗ 1. XETENC
✗ 2. TEXNEC
✓ 3. TEXENC
✗ 4. TXEENC

Question Type : **MCQ**
Question ID : **264330138588**
Option 1 ID : **264330542960**
Option 2 ID : **264330542961**
Option 3 ID : **264330542962**
Option 4 ID : **264330542959**
Status : **Answered**
Chosen Option : **3**

Join Telegram Group "HaryanaJobs.in"

Q.9 दी गई श्रृंखला में निम्नलिखित में से कौन-सी संख्या प्रश्न चिन्ह (?) के स्थान पर आएगी?
-34, -31, -25, -16, -4, 11, 29, ?

Ans
1. 80
2. 70
3. 60
4. 50

Question Type : **MCQ**
Question ID : **264330135034**
Option 1 ID : **264330529073**
Option 2 ID : **264330529074**
Option 3 ID : **264330529071**
Option 4 ID : **264330529072**
Status : **Answered**
Chosen Option : **4**

Q.10 उस विकल्प आकृति को चुनिए जिसमें दी गई आकृति निहित है। (घूर्णन की अनुमति नहीं है)

Ans
1. 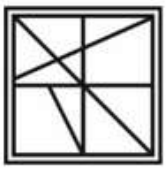
2.
3.
4.

Question Type : **MCQ**
Question ID : **264330138600**
Option 1 ID : **264330543007**
Option 2 ID : **264330543010**
Option 3 ID : **264330543009**
Option 4 ID : **264330543008**
Status : **Answered**
Chosen Option : **1**

Join Telegram Group "HaryanaJobs.in"

Q.11 एक निश्चित कूट भाषा में, 'STOCK' को '19V15E11' लिखा जाता है। उस भाषा में 'CRYPTO' को कैसे लिखा जाएगा?

Ans

1. 3T25S6VT5 ✗
2. 3T2F1AV15 ✗
3. 2T2316V15 ✗
4. 3T25R20Q ✓

Question Type : **MCQ**
Question ID : **264330133529**
Option 1 ID : **264330523148**
Option 2 ID : **264330523149**
Option 3 ID : **264330523147**
Option 4 ID : **264330523150**
Status : **Answered**
Chosen Option : **4**

Q.12 दिए गए समीकरण को सही करने के लिए किन दो चिन्हों को आपस में बदला जाना चाहिए?
2 − 8 ÷ 4 = 6 × 3 + 18

Ans

1. × और - ✗
2. + और - ✗
3. × और + ✗
4. = और + ✓

Question Type : **MCQ**
Question ID : **264330135037**
Option 1 ID : **264330529083**
Option 2 ID : **264330529084**
Option 3 ID : **264330529085**
Option 4 ID : **264330529086**
Status : **Answered**
Chosen Option : **4**

Q.13 उमेश, सतीश से बड़ा है। सुरेश, नीरज से छोटा है लेकिन उमेश से बड़ा है। तरुण, रितेश से बड़ा है लेकिन सतीश से छोटा है। मनीष सबसे छोटा है। उनमें से सबसे बड़ा कौन है?

Ans

1. रितेश ✗
2. नीरज ✓
3. सतीश ✗
4. सुरेश ✗

Question Type : **MCQ**
Question ID : **264330135030**
Option 1 ID : **264330529055**
Option 2 ID : **264330529057**
Option 3 ID : **264330529058**
Option 4 ID : **264330529056**
Status : **Answered**
Chosen Option : **2**

Join Telegram Group "HaryanaJobs.in"

Q.14 अमर, बिदिशा, कारमेल, दीपा और एलेन एक बेंच पर दक्षिण की ओर मुख करके बैठे हैं। एलेन बेंच के किसी एक सिरे पर बैठी है और उसकी बाईं ओर पर कोई नहीं है। कारमेल, दीपा के ठीक बाईं ओर बैठा है, जो बेंच के एक सिरे पर बैठी है। अमर, बिदिशा की दाहिनी ओर बैठा है। अमर किस स्थान पर बैठा है?

Ans

✗ 1. ठीक दीपा और कारमेल के बीच

✗ 2. ठीक बिदिशा और एलेन के बीच

✗ 3. ठीक दीपा और बिदिशा के बीच

✓ 4. ठीक कारमेल और बिदिशा के बीच

Question Type : **MCQ**
Question ID : **264330135029**
Option 1 ID : **264330529051**
Option 2 ID : **264330529053**
Option 3 ID : **264330529054**
Option 4 ID : **264330529052**
Status : **Answered**
Chosen Option : **4**

Q.15 उस विकल्प को चुनिए जो तीसरी संख्या से ठीक उसी प्रकार संबंधित है जिस प्रकार दूसरी संख्या पहली संख्या से संबंधित है।.
17 : 272 :: 22 : ?

Ans

✗ 1. 394

✗ 2. 596

✓ 3. 462

✗ 4. 448

Question Type : **MCQ**
Question ID : **264330135013**
Option 1 ID : **264330528988**
Option 2 ID : **264330528987**
Option 3 ID : **264330528990**
Option 4 ID : **264330528989**
Status : **Answered**
Chosen Option : **3**

Q.16 दी गई श्रृंखला में निम्नलिखित में से कौन-सी संख्या प्रश्न चिन्ह (?) के स्थान पर आएगी?
1, 8, 9, 64, 25, 216, 49, ?

Ans

✗ 1. 552

✗ 2. 385

✓ 3. 512

✗ 4. 612

Question Type : **MCQ**
Question ID : **264330135011**
Option 1 ID : **264330528982**
Option 2 ID : **264330528980**
Option 3 ID : **264330528981**
Option 4 ID : **264330528979**
Status : **Answered**
Chosen Option : **3**

Join Telegram Group "HaryanaJobs.in"

Q.17 उस विकल्प आकृति को चुनिए जो पैटर्न को पूरा करने के लिए नीचे दी गई आकृति में प्रश्न चिन्ह (?) के स्थान पर आएगी। (घूर्णन की अनुमति नहीं है)

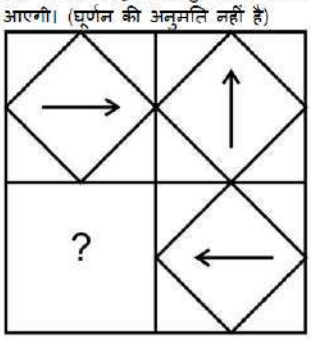

Ans

✗ 1.

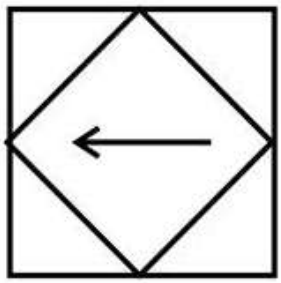

✓ 2.

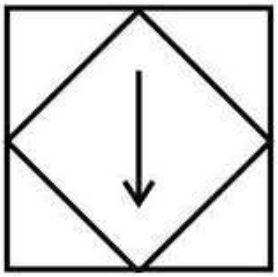

✗ 3.

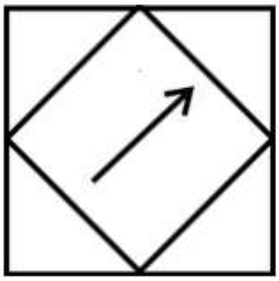

✗ 4.

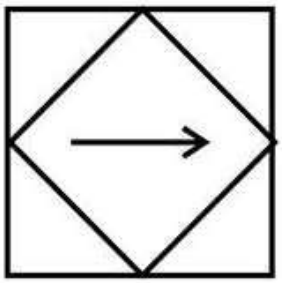

Question Type : **MCQ**
Question ID : **264330135041**
Option 1 ID : **264330529102**
Option 2 ID : **264330529100**
Option 3 ID : **264330529099**
Option 4 ID : **264330529101**
Status : **Answered**
Chosen Option : **2**

Join Telegram Group "HaryanaJobs.in"

Q.18 दी गई श्रृंखला में निम्नलिखित में से कौन-सा अक्षर प्रश्न चिन्ह (?) के स्थान पर आएगा?
O, N, L, K, I, H, F, ?

Ans
1. A
2. H
3. F
4. E

Question Type : **MCQ**
Question ID : **264330135020**
Option 1 ID : **264330529016**
Option 2 ID : **264330529018**
Option 3 ID : **264330529015**
Option 4 ID : **264330529017**
Status : **Answered**
Chosen Option : **4**

Q.19 यदि एक दर्पण को रेखा AB पर रखा जाए, तो दी गई विकल्प आकृतियों में से कौन-सी आकृति प्रश्न आकृति का सही प्रतिबिम्ब होगी?

Ans
1.
2.
3.
4.

Question Type : **MCQ**
Question ID : **264330138601**
Option 1 ID : **264330543011**
Option 2 ID : **264330543013**
Option 3 ID : **264330543014**
Option 4 ID : **264330543012**
Status : **Answered**
Chosen Option : **4**

Join Telegram Group "HaryanaJobs.in"

Q.20 उस विकल्प को चुनिए जो तीसरे शब्द से ठीक उसी प्रकार संबंधित है जिस प्रकार दूसरा शब्द पहले शब्द से संबंधित है।
पंखा : पंखड़ियाँ :: साइकिल : ?

Ans
1. कार
2. हाथ
3. बाइक
4. पहिये

Question Type : **MCQ**
Question ID : **264330135023**
Option 1 ID : **264330529027**
Option 2 ID : **264330529029**
Option 3 ID : **264330529030**
Option 4 ID : **264330529028**
Status : **Answered**
Chosen Option : **4**

Section : **General Awareness**

Q.1 वर्ष 2011 की जनगणना के अनुसार, वर्ष 2001-11 के बीच किस केंद्र शासित प्रदेश की दशकीय जनसंख्या वृद्धि दर सबसे अधिक है?

Ans
1. दादरा और नगर हवेली
2. दिल्ली राष्ट्रीय राजधानी क्षेत्र (NCT of Delhi)
3. लक्षद्वीप
4. चंडीगढ़

Question Type : **MCQ**
Question ID : **264330137030**
Option 1 ID : **264330536765**
Option 2 ID : **264330536764**
Option 3 ID : **264330536766**
Option 4 ID : **264330536763**
Status : **Answered**
Chosen Option : **2**

Q.2 "मिशन कर्मयोगी (Mission Karmayogi)" कार्यक्रम _____ के लिए है।

Ans
1. प्रशासनिक सेवक
2. चिकित्सक
3. महिला उद्यमी
4. निर्माण श्रमिक

Question Type : **MCQ**
Question ID : **264330137062**
Option 1 ID : **264330536892**
Option 2 ID : **264330536893**
Option 3 ID : **264330536894**
Option 4 ID : **264330536891**
Status : **Answered**
Chosen Option : **3**

Join Telegram Group "HaryanaJobs.in"

Q.3 _____ में, अपने मद्रास अधिवेशन में, भारतीय राष्ट्रीय कांग्रेस ने भारत के संविधान का मसौदा (draft) तैयार करने के लिए एक सर्वदलीय बैठक आयोजित की थी।

Ans
1. 1922
2. 1932
3. 1927
4. 1915

Question Type : **MCQ**
Question ID : **264330137076**
Option 1 ID : **264330536948**
Option 2 ID : **264330536947**
Option 3 ID : **264330536949**
Option 4 ID : **264330536950**
Status : **Answered**
Chosen Option : **3**

Q.4 निम्नलिखित में से कौन-सा देश 2024 दक्षिण एशियाई खेलों की मेज़बानी करेगा?

Ans
1. नेपाल
2. भारत
3. पाकिस्तान
4. भूटान

Question Type : **MCQ**
Question ID : **264330134716**
Option 1 ID : **264330527819**
Option 2 ID : **264330527822**
Option 3 ID : **264330527821**
Option 4 ID : **264330527820**
Status : **Answered**
Chosen Option : **2**

Q.5 निम्नलिखित में से किस पवन का संबंध अत्यधिक ठंड और शुष्कता से है?

Ans
1. व्यापारिक पवनें
2. पछुआ पवनें
3. ध्रुवीय पूर्वी पवनें
4. मानसूनी पवनें

Question Type : **MCQ**
Question ID : **264330134677**
Option 1 ID : **264330527663**
Option 2 ID : **264330527666**
Option 3 ID : **264330527665**
Option 4 ID : **264330527664**
Status : **Answered**
Chosen Option : **3**

Join Telegram Group "HaryanaJobs.in"

Q.6 फर्न किस पादप वर्ग का एक उदाहरण है ?

Ans
1. ब्रायोफ्राइट (Bryophyta)
2. फैनरोगैम (Phanerogams)
3. टैरिडोफाइट (Pteridophyta)
4. थैलोफाइट (Thallophyta)

Question Type : **MCQ**
Question ID : **264330134700**
Option 1 ID : **264330527757**
Option 2 ID : **264330527758**
Option 3 ID : **264330527755**
Option 4 ID : **264330527756**
Status : **Answered**
Chosen Option : **1**

Q.7 कौन-सा अम्ल आमाशय में प्रवेश करने वाले जीवाणुओं को नष्ट कर देता है?

Ans
1. नाइट्रिक अम्ल
2. बोरिक अम्ल
3. हाइड्रोक्लोरिक अम्ल
4. यूरिक अम्ल

Question Type : **MCQ**
Question ID : **264330134676**
Option 1 ID : **264330527659**
Option 2 ID : **264330527660**
Option 3 ID : **264330527662**
Option 4 ID : **264330527661**
Status : **Answered**
Chosen Option : **3**

Q.8 पद्मा सुब्रहमण्यम (Padma Subrahmanyam) निम्नलिखित में से किस नृत्य शैली की प्रसिद्ध नृत्यांगना हैं?

Ans
1. मणिपुरी
2. कुचिपुड़ी
3. भरतनाट्यम
4. ओडिसी

Question Type : **MCQ**
Question ID : **264330134696**
Option 1 ID : **264330527741**
Option 2 ID : **264330527740**
Option 3 ID : **264330527739**
Option 4 ID : **264330527742**
Status : **Answered**
Chosen Option : **3**

Join Telegram Group "HaryanaJobs.in"

Q.9 वी. सत्यनारायण सरमा को वर्ष 1970 में _____ नृत्य के क्षेत्र में उनके योगदान के लिए पद्म श्री से सम्मानित किया गया था।

Ans

✗ 1. कथक

✗ 2. मणिपुरी

✗ 3. ओडिसी

✓ 4. कुचिपुडी

Question Type : **MCQ**
Question ID : **264330138656**
Option 1 ID : **264330543232**
Option 2 ID : **264330543231**
Option 3 ID : **264330543234**
Option 4 ID : **264330543233**
Status : **Answered**
Chosen Option : **1**

Q.10 1895 में अन्य भारतीयों के साथ महात्मा गांधी ने नस्लीय भेदभाव का विरोध करने के लिए _____ का गठन किया था।

Ans

✗ 1. साबरमती आश्रम (Sabarmati Ashram)

✗ 2. देव समाज (Dev Samaj)

✗ 3. ब्रह्म समाज (Brahmo Samaj)

✓ 4. नेटाल कांग्रेस (Natal Congress)

Question Type : **MCQ**
Question ID : **264330138673**
Option 1 ID : **264330543300**
Option 2 ID : **264330543302**
Option 3 ID : **264330543301**
Option 4 ID : **264330543299**
Status : **Answered**
Chosen Option : **4**

Q.11 स्वर्ण सिंह समिति की सिफारिशों पर _____ संवैधानिक संशोधन अधिनियम, 1976 द्वारा संविधान के भाग IV-A में मौलिक कर्तव्यों को शामिल किया गया था।

Ans

✓ 1. 42वें

✗ 2. 35वें

✗ 3. 51वें

✗ 4. 47वें

Question Type : **MCQ**
Question ID : **264330134714**
Option 1 ID : **264330527814**
Option 2 ID : **264330527813**
Option 3 ID : **264330527811**
Option 4 ID : **264330527812**
Status : **Answered**
Chosen Option : **1**

Join Telegram Group "HaryanaJobs.in"

Q.12 बैसाखी महोत्सव प्रमुख रूप से _____ और _____ राज्यों में मनाया जाता है।

Ans
1. नगालैंड, त्रिपुरा
2. पंजाब, हरियाणा
3. राजस्थान, मध्यप्रदेश
4. तमिलनाडु, केरल

Question Type : **MCQ**
Question ID : **264330138650**
Option 1 ID : **264330543208**
Option 2 ID : **264330543209**
Option 3 ID : **264330543210**
Option 4 ID : **264330543207**
Status : **Answered**
Chosen Option : **2**

Q.13 अंतर-राज्य परिषद में भारत के प्रधानमंत्री द्वारा मनोनीत केंद्रीय मंत्रिपरिषद में केंद्र के_____ मंत्री होते हैं।

Ans
1. दो
2. दस
3. चार
4. छः

Question Type : **MCQ**
Question ID : **264330134715**
Option 1 ID : **264330527818**
Option 2 ID : **264330527815**
Option 3 ID : **264330527817**
Option 4 ID : **264330527816**
Status : **Answered**
Chosen Option : **1**

Q.14 'इंडियाज स्ट्रगल फॉर इंडिपेंडेंस (India's Struggle for Independence)' _____ द्वारा लिखी गई उल्लेखनीय पुस्तकों में से एक है।

Ans
1. आर.के. नारायण
2. शेखर बंद्योपाध्याय
3. आर.सी. मजूमदार
4. विपिन चंद्र

Question Type : **MCQ**
Question ID : **264330138654**
Option 1 ID : **264330543223**
Option 2 ID : **264330543226**
Option 3 ID : **264330543224**
Option 4 ID : **264330543225**
Status : **Answered**
Chosen Option : **2**

Join Telegram Group "HaryanaJobs.in"

Q.15 केंद्रीय कृषि मंत्री नरेंद्र सिंह तोमर ने अक्टूबर 2022 में यह घोषणा की है कि केंद्र सरकार कृषि व्यवसायों के लाभकारी विचारों (productive ideas) का समर्थन करने के लिए _____ करोड़ का एक्सेलरेटर (accelerator) प्रोग्राम शुरू करेगी।

Ans
1. Rs.300 ✗
2. Rs.350 ✗
3. Rs.500 ✓
4. Rs.450 ✗

Question Type : **MCQ**
Question ID : **264330134694**
Option 1 ID : **264330527732**
Option 2 ID : **264330527731**
Option 3 ID : **264330527734**
Option 4 ID : **264330527733**
Status : **Not Answered**
Chosen Option : **--**

Q.16 किस युद्ध के कारण विजयनगर साम्राज्य का पतन हुआ?

Ans
1. आर्कोट का युद्ध ✗
2. हल्दीघाटी का युद्ध ✗
3. तालीकोटा का युद्ध ✓
4. रायचूर का युद्ध ✗

Question Type : **MCQ**
Question ID : **264330134683**
Option 1 ID : **264330527687**
Option 2 ID : **264330527688**
Option 3 ID : **264330527690**
Option 4 ID : **264330527689**
Status : **Answered**
Chosen Option : **3**

Q.17 आरक्षित नकदी निधि अनुपात मुद्रा आपूर्ति को नियंत्रित करने के लिए एक _____ साधन है।

I. गुणात्मक

II. परिमाणात्मक

Ans
1. केवल II ✓
2. केवल I ✗
3. न तो I और न ही II ✗
4. I और II दोनों ✗

Question Type : **MCQ**
Question ID : **264330138659**
Option 1 ID : **264330543244**
Option 2 ID : **264330543243**
Option 3 ID : **264330543246**
Option 4 ID : **264330543245**
Status : **Not Answered**
Chosen Option : **--**

Join Telegram Group "HaryanaJobs.in"

Q.18 निम्नलिखित में से किसे वर्ष 2001 में भारत रत्न से सम्मानित किया गया था और जिन्हें शहनाई को विवाह मंडप से कंसर्ट हॉल तक ले जाने का श्रेय भी ही दिया जाता है?

Ans
1. अली अकबर खान
2. हरिप्रसाद चौरसिया
3. रवि शंकर
4. बिस्मिल्लाह खान

Question Type : **MCQ**
Question ID : **264330134712**
Option 1 ID : **264330527804**
Option 2 ID : **264330527803**
Option 3 ID : **264330527806**
Option 4 ID : **264330527805**
Status : **Answered**
Chosen Option : **4**

Q.19 चन्द्रगुप्त मौर्य के दरबार में यूनानी राजा सेल्यूकस निकेटर (Seleucus Nicator) का राजदूत _____ था।

Ans
1. हेरोडोटस (Herodotus)
2. स्ट्रैबो (Strabo)
3. होमर (Homer)
4. मेगस्थनीज़ (Megasthenes)

Question Type : **MCQ**
Question ID : **264330138670**
Option 1 ID : **264330543290**
Option 2 ID : **264330543287**
Option 3 ID : **264330543288**
Option 4 ID : **264330543289**
Status : **Answered**
Chosen Option : **4**

Q.20 Hindustan Aeronautics limited comes under which sector?

Ans
1. Private sector
2. Foreign sector
3. Public sector
4. Co-operative sector

Question Type : **MCQ**
Question ID : **264330138666**
Option 1 ID : **264330543271**
Option 2 ID : **264330543273**
Option 3 ID : **264330543272**
Option 4 ID : **264330543274**
Status : **Answered**
Chosen Option : **3**

Join Telegram Group "HaryanaJobs.in"

Q.21 नेपाल भारत के निम्नलिखित में से किस राज्य के साथ अपनी सीमा साझा **नहीं** करता है?

Ans
1. पश्चिम बंगाल
2. सिक्किम
3. बिहार
4. मणिपुर

Question Type : **MCQ**
Question ID : **264330137931**
Option 1 ID : **264330540332**
Option 2 ID : **264330540333**
Option 3 ID : **264330540331**
Option 4 ID : **264330540334**
Status : **Answered**
Chosen Option : **4**

Q.22 कोनेरू हंपी (Koneru Humpy) निम्नलिखित में से किस खेल से संबंधित हैं?

Ans
1. शतरंज
2. क्रिकेट
3. मुक्केबाज़ी
4. बैडमिंटन

Question Type : **MCQ**
Question ID : **264330134692**
Option 1 ID : **264330527726**
Option 2 ID : **264330527724**
Option 3 ID : **264330527725**
Option 4 ID : **264330527723**
Status : **Answered**
Chosen Option : **1**

Q.23 निम्न में से कौन-सी भारतीय प्रायद्वीप की तीसरी सबसे बड़ी और उड़ीसा राज्य की सबसे बड़ी नदी है?

Ans
1. महानदी
2. गोदावरी
3. कृष्णा
4. नर्मदा

Question Type : **MCQ**
Question ID : **264330134704**
Option 1 ID : **264330527773**
Option 2 ID : **264330527771**
Option 3 ID : **264330527774**
Option 4 ID : **264330527772**
Status : **Answered**
Chosen Option : **1**

Join Telegram Group "HaryanaJobs.in"

Q.24 महाबलीपुरम स्मारक _____ वंश स्थापत्यकला शैली में बनाए गए थे।

Ans
1. चंदेल
2. पाली
3. पल्लव
4. गुप्त

Question Type : **MCQ**
Question ID : **264330137065**
Option 1 ID : **264330536903**
Option 2 ID : **264330536906**
Option 3 ID : **264330536904**
Option 4 ID : **264330536905**
Status : **Answered**
Chosen Option : **3**

Q.25 न्यूटन के गति के प्रथम नियम को _____ भी कहते हैं।

Ans
1. परिमाण का नियम (Law of magnitude)
2. प्रतिक्रिया का नियम (Law of reaction)
3. जड़ता का नियम (Law of Inertia)
4. द्रव्यमान का नियम (Law of masses)

Question Type : **MCQ**
Question ID : **264330134674**
Option 1 ID : **264330527653**
Option 2 ID : **264330527654**
Option 3 ID : **264330527651**
Option 4 ID : **264330527652**
Status : **Answered**
Chosen Option : **3**

Section : **English Language and Comprehension**

Q.1 Find the part of the given sentence that has an error in it. If there is no error, choose 'No error'.

Soap removes traces of pesticides and heavy metals that hand sanitizers can left behind.

Ans
1. and heavy metals that hand
2. Soap removes traces of pesticides
3. No error
4. sanitizers can left behind.

Question Type : **MCQ**
Question ID : **264330134825**
Option 1 ID : **264330528240**
Option 2 ID : **264330528239**
Option 3 ID : **264330528242**
Option 4 ID : **264330528241**
Status : **Not Answered**
Chosen Option : **--**

Join Telegram Group "HaryanaJobs.in"

Q.2 Choose the word that can substitute the given group of words.

A sound that cannot be heard

Ans
1. Delible ✗
2. Autonomous ✗
3. Inaudible ✓
4. Audacious ✗

Question Type : **MCQ**
Question ID : **264330134811**
Option 1 ID : **264330528185**
Option 2 ID : **264330528184**
Option 3 ID : **264330528186**
Option 4 ID : **264330528183**
Status : **Answered**
Chosen Option : **3**

Q.3 A sentence has been given with a blank to be filled with an appropriate option. Choose the correct alternative.
Potato milk is _____ another option for those wanting an alternative to cow's milk.

Ans
1. yet ✓
2. so ✗
3. but ✗
4. though ✗

Question Type : **MCQ**
Question ID : **264330136828**
Option 1 ID : **264330536007**
Option 2 ID : **264330536009**
Option 3 ID : **264330536008**
Option 4 ID : **264330536010**
Status : **Answered**
Chosen Option : **1**

Q.4 Select the appropriate antonym for the underlined word.

Social justice has been one of the cherished goals of the makers of our Constitution.

Ans
1. relished ✗
2. valued ✗
3. despised ✓
4. treasured ✗

Question Type : **MCQ**
Question ID : **264330134842**
Option 1 ID : **264330528304**
Option 2 ID : **264330528305**
Option 3 ID : **264330528303**
Option 4 ID : **264330528306**
Status : **Answered**
Chosen Option : **3**

Join Telegram Group "HaryanaJobs.in"

Q.5 Choose the word that can substitute the given group of words.

Something that is necessary or crucial

Ans
1. Trivial ✗
2. Indispensable ✓
3. Auxiliary ✗
4. Pedantic ✗

Question Type : **MCQ**
Question ID : **264330134838**
Option 1 ID : **264330528287**
Option 2 ID : **264330528290**
Option 3 ID : **264330528288**
Option 4 ID : **264330528289**
Status : **Answered**
Chosen Option : **2**

Q.6 Identify the segment that contains a grammatical error. If there is no error, select 'No error'

The police released a statement saying/, "This was one of the most vicious/ attack we have ever seen."

Ans
1. No error ✗
2. "This was one of the most vicious ✗
3. attack we have ever seen." ✓
4. The police released a statement saying, ✗

Question Type : **MCQ**
Question ID : **264330136292**
Option 1 ID : **264330533950**
Option 2 ID : **264330533948**
Option 3 ID : **264330533949**
Option 4 ID : **264330533947**
Status : **Answered**
Chosen Option : **3**

Q.7 Choose the incorrectly spelt word.

Ans
1. Monitour ✓
2. Chemical ✗
3. Constant ✗
4. Slope ✗

Question Type : **MCQ**
Question ID : **264330134845**
Option 1 ID : **264330528317**
Option 2 ID : **264330528315**
Option 3 ID : **264330528318**
Option 4 ID : **264330528316**
Status : **Answered**
Chosen Option : **1**

Join Telegram Group "HaryanaJobs.in"

Q.8 Select the most appropriate option to fill in the blank.

His father was killed in a _____, when the boy was nine years old.

Ans
✔ 1. duel
✘ 2. drool
✘ 3. dual
✘ 4. dwell

Question Type : **MCQ**
Question ID : **264330136793**
Option 1 ID : **264330535872**
Option 2 ID : **264330535874**
Option 3 ID : **264330535871**
Option 4 ID : **264330535873**
Status : **Answered**
Chosen Option : **4**

Q.9 **Improve the underlined part of the sentence. Choose 'No improvement' as an answer if the sentence is grammatically correct.**
After the concert, his voice has hoarse from cheering.

Ans
✘ 1. voice were
✔ 2. voice was
✘ 3. voiced was
✘ 4. No improvement

Question Type : **MCQ**
Question ID : **264330134479**
Option 1 ID : **264330526885**
Option 2 ID : **264330526884**
Option 3 ID : **264330526883**
Option 4 ID : **264330526886**
Status : **Answered**
Chosen Option : **2**

Q.10 Select the appropriate synonym for the underlined word.

There is no need to panic, not yet.

Ans
✘ 1. mock
✘ 2. cheer
✘ 3. block
✔ 4. fright

Question Type : **MCQ**
Question ID : **264330134839**
Option 1 ID : **264330528292**
Option 2 ID : **264330528294**
Option 3 ID : **264330528291**
Option 4 ID : **264330528293**
Status : **Answered**
Chosen Option : **4**

Join Telegram Group "HaryanaJobs.in"

Q.11 Choose the sentence with no spelling error.

Ans
1. And he wanted to sea him sufer.
2. And he wantted to see him suffer.
3. And he wanted to see him suffer.
4. And he wanted to see him sufer.

Question Type : **MCQ**
Question ID : **264330136792**
Option 1 ID : **264330535868**
Option 2 ID : **264330535867**
Option 3 ID : **264330535869**
Option 4 ID : **264330535870**
Status : **Answered**
Chosen Option : **3**

Q.12 Find the part of the given sentence that has an error in it. If there is no error, choose 'No error'.

Why is your friend giving me weird looks?

Ans
1. No error
2. giving me
3. Why is your friend
4. weird looks?

Question Type : **MCQ**
Question ID : **264330134719**
Option 1 ID : **264330527834**
Option 2 ID : **264330527832**
Option 3 ID : **264330527831**
Option 4 ID : **264330527833**
Status : **Answered**
Chosen Option : **1**

Q.13 A sentence has been given with a blank to be filled with an appropriate option. Choose the correct alternative.

She had no _____ of telling him the truth.

Ans
1. intents
2. intending
3. intended
4. intention

Question Type : **MCQ**
Question ID : **264330134829**
Option 1 ID : **264330528257**
Option 2 ID : **264330528258**
Option 3 ID : **264330528255**
Option 4 ID : **264330528256**
Status : **Answered**
Chosen Option : **4**

Join Telegram Group "HaryanaJobs.in"

Q.14 In the following question, out of the given four alternatives, select the alternative which best expresses the meaning of the Idiom/Phrase.

To make one's mouth water

Ans

✗ 1. To make faces

✗ 2. To feel no pain

✓ 3. Feel hungry

✗ 4. To tremble with fear

Question Type : **MCQ**
Question ID : **264330134817**
Option 1 ID : **264330528207**
Option 2 ID : **264330528209**
Option 3 ID : **264330528210**
Option 4 ID : **264330528208**
Status : **Answered**
Chosen Option : **4**

Q.15 Select the most appropriate antonym of the given word.

Misunderstand

Ans

✗ 1. Impossible

✗ 2. Delayed

✓ 3. Comprehend

✗ 4. Sluggish

Question Type : **MCQ**
Question ID : **264330135785**
Option 1 ID : **264330532018**
Option 2 ID : **264330532016**
Option 3 ID : **264330532017**
Option 4 ID : **264330532015**
Status : **Answered**
Chosen Option : **3**

Q.16 Select the most appropriate option to substitute the bracketed segment in the given sentence. If there is no need to substitute it, select 'no substitution required'.

This looks (like one of those unwelcome social summons which call upon a man) either to be bored or to lie.

Ans

✗ 1. No substitution required

✗ 2.
like one of these unwelcome social summons that call upon a man

✗ 3.
like one of those unwelcome social summon that call upon a man

✓ 4.
like one of those unwelcome social summonses which call upon a man

Question Type : **MCQ**
Question ID : **264330136295**
Option 1 ID : **264330533962**
Option 2 ID : **264330533959**
Option 3 ID : **264330533961**
Option 4 ID : **264330533960**
Status : **Answered**
Chosen Option : **2**

Join Telegram Group "HaryanaJobs.in"

Q.17 Select the most appropriate option to fill in the blank.

Each band is known across a wide area because all residents of a given region are typically tied to one another through a large _____ of kinship and reciprocity

Ans

1. variation ✗
2. network ✓
3. clash ✗
4. mesh ✗

Question Type : **MCQ**
Question ID : **264330134848**
Option 1 ID : **264330528329**
Option 2 ID : **264330528330**
Option 3 ID : **264330528327**
Option 4 ID : **264330528328**
Status : **Answered**
Chosen Option : **2**

Q.18 Choose the word that means the same as the given word.

Wage

Ans

1. Sycophant ✗
2. Emolument ✓
3. Jackpot ✗
4. Jocular ✗

Question Type : **MCQ**
Question ID : **264330136812**
Option 1 ID : **264330535945**
Option 2 ID : **264330535946**
Option 3 ID : **264330535944**
Option 4 ID : **264330535943**
Status : **Not Answered**
Chosen Option : **--**

Q.19 In the following question, out of the given four alternatives, select the alternative which best expresses the meaning of the Idiom/Phrase.

To turn over a new leaf

Ans

1. To have an inclination towards gardening ✗
2. To turn your back on someone ✗
3. To make a fresh start ✓
4. To reply brazenly ✗

Question Type : **MCQ**
Question ID : **264330134844**
Option 1 ID : **264330528312**
Option 2 ID : **264330528313**
Option 3 ID : **264330528311**
Option 4 ID : **264330528314**
Status : **Answered**
Chosen Option : **3**

Join Telegram Group "HaryanaJobs.in"

Q.20 Improve the underlined part of the sentence. Choose 'No improvement' as an answer if the sentence is grammatically correct.

When I was eight years old, I used to played with toys.

Ans

✔ 1. used to play

✘ 2. use to played

✘ 3. No improvement

✘ 4. used to playing

Question Type : **MCQ**
Question ID : **264330135183**
Option 1 ID : **264330529664**
Option 2 ID : **264330529665**
Option 3 ID : **264330529666**
Option 4 ID : **264330529663**
Status : **Answered**
Chosen Option : **3**

Comprehension:

In the following passage some words have been deleted. Fill in the blanks with the help of the alternatives given. Select the most appropriate option for each number.

To mark the 25th anniversary of the run, (1) _____ Royal Canadian Mint unveiled a one-dollar commemorative circulation coin (2) _____ Monday on the campus of Simon Fraser University. Fox was (3) _____ undergraduate student and basketball player at SFU when a malignant tumour was discovered in his right leg in 1977. It resulted in (4) _____. A bronze statue of Fox, one of many such tributes across Canada, looks over the academic quadrangle of the university, just a short stroll from the theatre where Monday's (5) _____ was held.

SubQuestion No : 21

Q.21 Select the most appropriate option to fill in the blank No. 1

Ans

✘ 1. a

✘ 2. in

✔ 3. the

✘ 4. of

Question Type : **MCQ**
Question ID : **264330135776**
Option 1 ID : **264330531979**
Option 2 ID : **264330531982**
Option 3 ID : **264330531980**
Option 4 ID : **264330531981**
Status : **Answered**
Chosen Option : **1**

Join Telegram Group "HaryanaJobs.in"

Comprehension:

In the following passage some words have been deleted. Fill in the blanks with the help of the alternatives given. Select the most appropriate option for each number.

To mark the 25th anniversary of the run, (1) _____ Royal Canadian Mint unveiled a one-dollar commemorative circulation coin (2) _____ Monday on the campus of Simon Fraser University. Fox was (3) _____ undergraduate student and basketball player at SFU when a malignant tumour was discovered in his right leg in 1977. It resulted in (4) _____. A bronze statue of Fox, one of many such tributes across Canada, looks over the academic quadrangle of the university, just a short stroll from the theatre where Monday's (5) _____ was held.

SubQuestion No : 22

Q.22 Select the most appropriate option to fill in the blank No. 2.

Ans

✗ 1. through

✓ 2. on

✗ 3. at

✗ 4. over

Question Type : **MCQ**
Question ID : **264330135777**
Option 1 ID : **264330531983**
Option 2 ID : **264330531985**
Option 3 ID : **264330531986**
Option 4 ID : **264330531984**
Status : **Answered**
Chosen Option : **2**

Comprehension:

In the following passage some words have been deleted. Fill in the blanks with the help of the alternatives given. Select the most appropriate option for each number.

To mark the 25th anniversary of the run, (1) _____ Royal Canadian Mint unveiled a one-dollar commemorative circulation coin (2) _____ Monday on the campus of Simon Fraser University. Fox was (3) _____ undergraduate student and basketball player at SFU when a malignant tumour was discovered in his right leg in 1977. It resulted in (4) _____. A bronze statue of Fox, one of many such tributes across Canada, looks over the academic quadrangle of the university, just a short stroll from the theatre where Monday's (5) _____ was held.

SubQuestion No : 23

Q.23 Select the most appropriate option to fill in the blank No. 3.

Ans

✗ 1. the

✗ 2. a

✓ 3. an

✗ 4. their

Question Type : **MCQ**
Question ID : **264330135778**
Option 1 ID : **264330531990**
Option 2 ID : **264330531988**
Option 3 ID : **264330531989**
Option 4 ID : **264330531987**
Status : **Answered**
Chosen Option : **3**

Join Telegram Group "HaryanaJobs.in"

Comprehension:

In the following passage some words have been deleted. Fill in the blanks with the help of the alternatives given. Select the most appropriate option for each number.

To mark the 25th anniversary of the run, (1) _____ Royal Canadian Mint unveiled a one-dollar commemorative circulation coin (2) _____ Monday on the campus of Simon Fraser University. Fox was (3) _____ undergraduate student and basketball player at SFU when a malignant tumour was discovered in his right leg in 1977. It resulted in (4) _____. A bronze statue of Fox, one of many such tributes across Canada, looks over the academic quadrangle of the university, just a short stroll from the theatre where Monday's (5) _____ was held.

SubQuestion No : 24

Q.24 Select the most appropriate option to fill in the blank No. 4.

Ans

✗ 1. implantation

✗ 2. vasodilation

✗ 3. fragmentation

✓ 4. amputation

Question Type : **MCQ**
Question ID : **264330135779**
Option 1 ID : **264330531991**
Option 2 ID : **264330531993**
Option 3 ID : **264330531992**
Option 4 ID : **264330531994**
Status : **Not Answered**
Chosen Option : **--**

Comprehension:

In the following passage some words have been deleted. Fill in the blanks with the help of the alternatives given. Select the most appropriate option for each number.

To mark the 25th anniversary of the run, (1) _____ Royal Canadian Mint unveiled a one-dollar commemorative circulation coin (2) _____ Monday on the campus of Simon Fraser University. Fox was (3) _____ undergraduate student and basketball player at SFU when a malignant tumour was discovered in his right leg in 1977. It resulted in (4) _____. A bronze statue of Fox, one of many such tributes across Canada, looks over the academic quadrangle of the university, just a short stroll from the theatre where Monday's (5) _____ was held.

SubQuestion No : 25

Q.25 Select the most appropriate option to fill in the blank No. 5.

Ans

✗ 1. countervailing

✓ 2. unveiling

✗ 3. reconciling

✗ 4. veiling

Question Type : **MCQ**
Question ID : **264330135780**
Option 1 ID : **264330531997**
Option 2 ID : **264330531996**
Option 3 ID : **264330531998**
Option 4 ID : **264330531995**
Status : **Not Answered**
Chosen Option : **--**

Join Telegram Group "HaryanaJobs.in"

Multi Tasking Non Technical Staff and Havaldar CBIC and CBN Examination 2022

Roll Number	HaryanaJobs.in
Candidate Name	HaryanaJobs.in
Venue Name	iON Digital Zone iDZ 2 Patliputra
Exam Date	04/05/2023
Exam Time	9:00 AM - 10:30 AM
Subject	MTS Non Tech Havaldar CBIC and CBN Examination 2022

Section : **Numerical and Mathematical Ability**

Q.1 Rs. 28500 की धनराशि 6.4% वार्षिक साधारण ब्याज पर 10 वर्षों के लिए ऋण पर दी जाती है। 10 वर्षों के बाद यह धनराशि कितनी होगी?

Ans

✗ 1. Rs. 32480

✗ 2. Rs. 285000

✗ 3. Rs. 40290

✓ 4. Rs. 46740

Question Type : **MCQ**
Question ID : **264330133806**
Option 1 ID : **264330524249**
Option 2 ID : **264330524247**
Option 3 ID : **264330524250**
Option 4 ID : **264330524248**
Status : **Answered**
Chosen Option : **4**

Q.2 तीन धावकों की चाल का अनुपात 3 : 2 : 4 है। तीन धावकों द्वारा समान दूरी तय करने में लिए गए समय का क्रमशः अनुपात क्या है?

Ans

✓ 1. 4 : 6 : 3

✗ 2. 4 : 8 : 5

✗ 3. 10 : 8 : 3

✗ 4. 6 : 8 : 9

Question Type : **MCQ**
Question ID : **264330137653**
Option 1 ID : **264330539222**
Option 2 ID : **264330539219**
Option 3 ID : **264330539220**
Option 4 ID : **264330539221**
Status : **Answered**
Chosen Option : **1**

Join Telegram Group "HaryanaJobs.in"

Q.3 24 संख्याओं का औसत 43 है। यदि हम प्रत्येक संख्या में से एक संख्या 'M' घटाते हैं, तो औसत 38 हो जाता है। M का मान क्या था?

Ans

1. 12 ✗
2. 5 ✓
3. 7 ✗
4. 10 ✗

Question Type : **MCQ**
Question ID : **264330137648**
Option 1 ID : **264330539199**
Option 2 ID : **264330539202**
Option 3 ID : **264330539201**
Option 4 ID : **264330539200**
Status : **Answered**
Chosen Option : **2**

Q.4 एक पार्टी हॉल में, लोग नीले और लाल परिधानों में हैं। नीले परिधानों में पुरुषों की संख्या और लाल परिधानों में महिलाओं की संख्या का अनुपात 3 : 7 है। लाल परिधानों में पुरुषों की संख्या और नीले परिधानों में महिलाओं की संख्या का अनुपात 2 : 1 है। यदि नीले परिधानों में लोगों की संख्या और लाल परिधानों में लोगों की संख्या का अनुपात 35 : 76 है, तो पुरुषों की संख्या और महिलाओं की संख्या का अनुपात कितना है?

Ans

1. 62 : 57 ✗
2. 47 : 51 ✗
3. 52 : 59 ✓
4. 40 : 43 ✗

Question Type : **MCQ**
Question ID : **264330137654**
Option 1 ID : **264330539224**
Option 2 ID : **264330539226**
Option 3 ID : **264330539225**
Option 4 ID : **264330539223**
Status : **Not Answered**
Chosen Option : **--**

Q.5 पाइप A और B मिलकर एक टंकी को 10 घंटे में भर सकते हैं। पाइप B और C मिलकर उसी टंकी को 12 घंटे में भर सकते हैं। पाइप A और C मिलकर उसी टंकी को 15 घंटे में भर सकते हैं। पाइप B अकेले उसी टंकी को कितने घंटे में भर सकता है?

Ans

1. 125/11 घंटे ✗
2. 15 घंटे ✗
3. 120/7 घंटे ✓
4. 155/13 घंटे ✗

Question Type : **MCQ**
Question ID : **264330137624**
Option 1 ID : **264330539104**
Option 2 ID : **264330539103**
Option 3 ID : **264330539105**
Option 4 ID : **264330539106**
Status : **Answered**
Chosen Option : **3**

Join Telegram Group "HaryanaJobs.in"

Q.6 $\left(\frac{1}{5}\right)+\left[1\frac{1}{4}-\frac{1}{2}\right]\times\left(\frac{2}{5}\right)$ का मान निम्न में से किस के बीच में स्थित है?

Ans
1. 1.5 और 1.8
2. 2.1 और 2.4
3. 0.2 और 0.6
4. 0.8 और 1.2

Question Type : **MCQ**
Question ID : **264330133837**
Option 1 ID : **264330524373**
Option 2 ID : **264330524374**
Option 3 ID : **264330524371**
Option 4 ID : **264330524372**
Status : **Answered**
Chosen Option : **3**

Q.7 मान लीजिए कि एक थैले में 2 kg चीनी और 3 kg नमक है। थैले में कुल मात्रा का कितने प्रतिशत भाग चीनी से भरा है?

Ans
1. 35 %
2. 30 %
3. 40 %
4. 50 %

Question Type : **MCQ**
Question ID : **264330135092**
Option 1 ID : **264330529305**
Option 2 ID : **264330529306**
Option 3 ID : **264330529304**
Option 4 ID : **264330529303**
Status : **Answered**
Chosen Option : **3**

Q.8 330 मीटर लंबी एक रेलगाड़ी 550 मीटर लंबे पुल को पार करने में 11 सेकंड का समय लेती है। रेलगाड़ी 570 मीटर लंबे पुल को पार करने में कितना समय लेगी?

Ans
1. 20 सेकंड
2. (45/4) सेकंड
3. (47/4) सेकंड
4. 16 सेकंड

Question Type : **MCQ**
Question ID : **264330137647**
Option 1 ID : **264330539195**
Option 2 ID : **264330539196**
Option 3 ID : **264330539197**
Option 4 ID : **264330539198**
Status : **Answered**
Chosen Option : **2**

Join Telegram Group "HaryanaJobs.in"

Q.9 एक त्रिभुज की भुजाओं का अनुपात 11 : 11 : 4 है। यदि त्रिभुज का क्षेत्रफल $2\sqrt{117}$ cm^2 है, तो बराबर भुजाओं की लंबाई कितनी है?

Ans
✔ 1. 11 cm
✘ 2. 9 cm
✘ 3. 13 cm
✘ 4. 3 cm

Question Type : **MCQ**
Question ID : **264330137639**
Option 1 ID : **264330539166**
Option 2 ID : **264330539163**
Option 3 ID : **264330539164**
Option 4 ID : **264330539165**
Status : **Answered**
Chosen Option : **1**

Q.10 अंकित मूल्य का 30 प्रतिशत क्रय मूल्य के 50 प्रतिशत के बराबर है। यदि कोई बट्टा नहीं दिया जाता है, तो लाभ प्रतिशत क्या होगा?

Ans
✔ 1. 66.67 प्रतिशत
✘ 2. 50 प्रतिशत
✘ 3. 33.33 प्रतिशत
✘ 4. 52.5 प्रतिशत

Question Type : **MCQ**
Question ID : **264330137657**
Option 1 ID : **264330539236**
Option 2 ID : **264330539237**
Option 3 ID : **264330539235**
Option 4 ID : **264330539238**
Status : **Answered**
Chosen Option : **1**

Q.11 उस त्रिभुज का क्षेत्रफल ज्ञात कीजिए जिसका आधार 34 cm है और संगत ऊँचाई 22 cm है।

Ans
✘ 1. 378 cm^2
✘ 2. 453 cm^2
✔ 3. 374 cm^2
✘ 4. 234 cm^2

Question Type : **MCQ**
Question ID : **264330133754**
Option 1 ID : **264330524040**
Option 2 ID : **264330524041**
Option 3 ID : **264330524039**
Option 4 ID : **264330524042**
Status : **Answered**
Chosen Option : **3**

Join Telegram Group "HaryanaJobs.in"

Q.12 अनिल अकेले किसी कार्य को पूरा करने में 2 घंटे 40 मिनट का समय लेता है और सुमित अकेले उसी कार्य को अनिल से आधे समय में पूरा कर सकता है। कार्य को पूरा करने में सुमित को कितना समय लगेगा?

Ans

✔ 1. 80 मिनट

✘ 2. 70 मिनट

✘ 3. 75 मिनट

✘ 4. 90 मिनट

Question Type : **MCQ**
Question ID : **264330133749**
Option 1 ID : **264330524021**
Option 2 ID : **264330524019**
Option 3 ID : **264330524020**
Option 4 ID : **264330524022**
Status : **Answered**
Chosen Option : **1**

Q.13 राम और रहीम की औसत आयु 10 वर्ष है। रहीम और रमेश की औसत आयु 15 वर्ष है। राम और रमेश की औसत आयु 20 वर्ष है। इन तीनों में सबसे बड़े व्यक्ति की आयु कितनी है?

Ans

✘ 1. 15 वर्ष

✘ 2. 10 वर्ष

✔ 3. 25 वर्ष

✘ 4. 30 वर्ष

Question Type : **MCQ**
Question ID : **264330137135**
Option 1 ID : **264330537185**
Option 2 ID : **264330537183**
Option 3 ID : **264330537184**
Option 4 ID : **264330537186**
Status : **Answered**
Chosen Option : **3**

Q.14 P, Q को एक खिलौना 40 प्रतिशत के लाभ पर बेचता है और Q इसे R को 10 प्रतिशत के लाभ पर बेचता है। यदि R खिलौने के लिए Rs.539 का भुगतान करता है, तो P के लिए खिलौने का क्रय मूल्य क्या था?

Ans

✘ 1. Rs. 400

✘ 2. Rs. 300

✘ 3. Rs. 450

✔ 4. Rs. 350

Question Type : **MCQ**
Question ID : **264330137652**
Option 1 ID : **264330539216**
Option 2 ID : **264330539217**
Option 3 ID : **264330539218**
Option 4 ID : **264330539215**
Status : **Answered**
Chosen Option : **4**

Join Telegram Group "HaryanaJobs.in"

Q.15 Rs. 12,600 पर 2 वर्ष के लिए 10% वार्षिक दर पर वार्षिक रूप से संयोजित चक्रवृद्धि ब्याज (CI) ज्ञात कीजिए।

Ans

✗ 1. Rs. 3146

✗ 2. Rs. 3646

✗ 3. Rs. 2645

✓ 4. Rs. 2646

Question Type : **MCQ**
Question ID : **264330135099**
Option 1 ID : **264330529333**
Option 2 ID : **264330529334**
Option 3 ID : **264330529332**
Option 4 ID : **264330529331**
Status : **Answered**
Chosen Option : **4**

Q.16 नीचे दिए गए वृत्त आलेख में 6 अलग-अलग कंपनियों में कर्मचारियों की संख्या को दर्शाया गया है। इन सभी 6 कंपनियों में कर्मचारियों की कुल संख्या 15840 है। इनमें से किसी एक विशिष्ट कंपनी में कर्मचारियों की संख्या को इन सभी 6 कंपनियों में कर्मचारियों की कुल संख्या के सापेक्ष डिग्री में दर्शाया गया है।

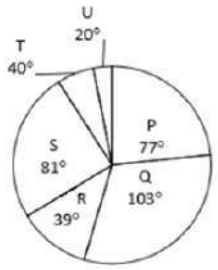

J1 = P, Q, S, T और U में कर्मचारियों की कुल संख्या।

J2 = P और Q में कर्मचारियों की कुल संख्या और T और U में कर्मचारियों की कुल संख्या के बीच का अंतर।

(J1 + J2) का मान क्या है?

Ans

✓ 1. 19404

✗ 2. 16302

✗ 3. 12804

✗ 4. 6600

Question Type : **MCQ**
Question ID : **264330137664**
Option 1 ID : **264330539264**
Option 2 ID : **264330539263**
Option 3 ID : **264330539265**
Option 4 ID : **264330539266**
Status : **Answered**
Chosen Option : **1**

Join Telegram Group "HaryanaJobs.in"

Q.17 वह सबसे छोटी संख्या कौनसी है जिसे 478 में जोड़ा जाना चाहिए ताकि प्राप्त संख्या 5, 6 और 12 से पूर्णतः विभाज्य हो जाए?

Ans
1. 12
2. 52
3. 2
4. 62

Question Type : **MCQ**
Question ID : **264330137660**
Option 1 ID : **264330539248**
Option 2 ID : **264330539249**
Option 3 ID : **264330539247**
Option 4 ID : **264330539250**
Status : **Answered**
Chosen Option : **3**

Q.18 3/4, 15/16 और 18/5 का महत्तम समापवर्तक (HCF) है:

Ans
1. 5/16
2. 15/16
3. 18/5
4. 3/80

Question Type : **MCQ**
Question ID : **264330141026**
Option 1 ID : **264330552453**
Option 2 ID : **264330552451**
Option 3 ID : **264330552454**
Option 4 ID : **264330552452**
Status : **Answered**
Chosen Option : **4**

Join Telegram Group "HaryanaJobs.in"

Q.19 निम्नलिखित तालिका में वर्ष 2018 और 2019 में एक परिवार के व्यय को दर्शाया गया है।

वर्ष 2018 से 2019 में कुल व्यय में कितने प्रतिशत की वृद्धि या कमी हुई है?

Articles	Expenditure(in Rs.)	
	2018	2019
Education	24000	30000
Housing	40000	48000
Entertainment	4000	3600
Food	15000	15500
Clothing	5600	3800

Expenditure (in Rs.) = व्यय (Rs. में)

Articles = प्रयोजन, Education = शिक्षा, Housing = आवासन, Entertainment = मनोरंजन, Food = भोजन, Clothing = कपड़े

Ans

✗ 1. 20.33% की वृद्धि

✗ 2. 12.11% की कमी

✓ 3. 13.88% की वृद्धि

✗ 4. 11.44% की कमी

Question Type : **MCQ**
Question ID : **264330133851**
Option 1 ID : **264330524428**
Option 2 ID : **264330524427**
Option 3 ID : **264330524429**
Option 4 ID : **264330524430**
Status : **Answered**
Chosen Option : **3**

Q.20 एक मेज को Rs. 2450 में खरीदा जाता है और फिर Rs. 2940 में बेच दिया जाता है। लाभ प्रतिशत ज्ञात कीजिए।

Ans

✗ 1. 10%

✗ 2. 22%

✓ 3. 20%

✗ 4. 12%

Question Type : **MCQ**
Question ID : **264330138441**
Option 1 ID : **264330542374**
Option 2 ID : **264330542372**
Option 3 ID : **264330542373**
Option 4 ID : **264330542371**
Status : **Answered**
Chosen Option : **2**

Section : **Reasoning Ability and Problem Solving**

Join Telegram Group "HaryanaJobs.in"

Q.1 सात छात्र P, Q, R, S, T, U, और V कक्षा में शीर्ष रैंक प्राप्त करने वाले छात्र हैं। कोई भी दो छात्रों को समान रैंक नहीं मिली है। सबसे अधिक अंक वाले छात्र को प्रथम रैंक दी गई है और सबसे कम अंक वाले छात्र को सातवीं रैंक मिली है। Q को R से कम लेकिन T से अधिक अंक मिले हैं। V को S से अधिक अंक मिले हैं। U को P से अधिक लेकिन S से कम अंक मिले हैं। Q को दूसरे स्थान पर सबसे कम रैंक मिली है और S को दूसरे स्थान पर सबसे अधिक रैंक मिली है। R को P से कम अंक मिले हैं। किस छात्र को सबसे कम अंक मिले हैं?

Ans
1. P ✗
2. R ✗
3. T ✓
4. U ✗

Question Type : **MCQ**
Question ID : **264330137569**
Option 1 ID : **264330538884**
Option 2 ID : **264330538885**
Option 3 ID : **264330538886**
Option 4 ID : **264330538883**
Status : **Answered**
Chosen Option : **3**

Q.2 उस विकल्प को चुनिए जो तीसरी संख्या से ठीक उसी तरह संबंधित है जिस तरह दूसरी संख्या पहली संख्या से संबंधित है।
23 : 168 : : 16 : ?

Ans
1. 119 ✓
2. 180 ✗
3. 64 ✗
4. 256 ✗

Question Type : **MCQ**
Question ID : **264330134991**
Option 1 ID : **264330528899**
Option 2 ID : **264330528902**
Option 3 ID : **264330528901**
Option 4 ID : **264330528900**
Status : **Answered**
Chosen Option : **1**

Q.3 एक निश्चित कूट भाषा में, 'SHOULD' को 'AIRLEP' लिखा जाता है। उस कूट भाषा में 'WIDELY' को कैसे लिखा जाएगा?

Ans
1. VIBAGT ✗
2. VICBFT ✗
3. VIBAFU ✗
4. VIBAFT ✓

Question Type : **MCQ**
Question ID : **264330138609**
Option 1 ID : **264330543045**
Option 2 ID : **264330543043**
Option 3 ID : **264330543044**
Option 4 ID : **264330543046**
Status : **Not Answered**
Chosen Option : **--**

Join Telegram Group "HaryanaJobs.in"

Q.4 दी गई श्रृंखला में निम्नलिखित में से कौन-सा अक्षर प्रश्न चिन्ह (?) के स्थान पर आएगा?
L, N, P, R, T, V, ?

Ans
1. X
2. V
3. N
4. F

Question Type : **MCQ**
Question ID : **264330137559**
Option 1 ID : **264330538846**
Option 2 ID : **264330538843**
Option 3 ID : **264330538844**
Option 4 ID : **264330538845**
Status : **Answered**
Chosen Option : **1**

Q.5 दी गई श्रृंखला में निम्नलिखित में से कौन-सी संख्या प्रश्न चिन्ह (?) के स्थान पर आएगी?
153, 158, 151, 156, 149, 154, 147, ?

Ans
1. 152
2. 156
3. 159
4. 144

Question Type : **MCQ**
Question ID : **264330134989**
Option 1 ID : **264330528894**
Option 2 ID : **264330528892**
Option 3 ID : **264330528893**
Option 4 ID : **264330528891**
Status : **Answered**
Chosen Option : **1**

Q.6 पाँच व्यक्ति एक बेंच पर उत्तर की ओर मुख करके बैठे हैं। S, R के ठीक बाएँ पर है और B के ठीक दाएँ पर है। M, R के दाएँ पर है। T, R और M के बीच में है। T के ठीक दाएँ पर कौन बैठा है?

Ans
1. M
2. B
3. S
4. R

Question Type : **MCQ**
Question ID : **264330137567**
Option 1 ID : **264330538878**
Option 2 ID : **264330538875**
Option 3 ID : **264330538876**
Option 4 ID : **264330538877**
Status : **Answered**
Chosen Option : **1**

Join Telegram Group "HaryanaJobs.in"

Q.7 दिए गए पैटर्न का ध्यानपूर्वक अध्ययन कीजिए और उस संख्या को चुनिए जो इसमें प्रश्न चिन्ह (?) के स्थान पर आ सकती है।
पहली पंक्ति- 82, 91, 100
दूसरी पंक्ति- 63, 72, 81
तीसरी पंक्ति- 24, 33, ?

Ans
1. 56 ✗
2. 34 ✗
3. 48 ✗
4. 42 ✓

Question Type : **MCQ**
Question ID : **264330137575**
Option 1 ID : **264330538909**
Option 2 ID : **264330538908**
Option 3 ID : **264330538910**
Option 4 ID : **264330538907**
Status : **Answered**
Chosen Option : **4**

Q.8 दो कथन दिए गए हैं और दो निष्कर्ष I और II दिए गए हैं। कथनों को सत्य मानते हुए, चाहे वे सामान्यतः ज्ञात तथ्यों से अलग प्रतीत होते हों, निश्चय कीजिए कि कौन-सा निष्कर्ष तार्किक रूप से कथनों के अनुसार है।

कथन:

सभी बैग, काले हैं।

कुछ बैग, सफेद हैं।

निष्कर्ष:

I. कुछ काले, सफेद हैं।

II. सभी काले, बैग हैं।

Ans
1. केवल निष्कर्ष II कथनों के अनुसार है ✗
2. केवल निष्कर्ष I कथनों के अनुसार है ✓
3. दोनों निष्कर्ष I और II कथनों के अनुसार हैं ✗
4. न तो निष्कर्ष I और न ही II कथनों के अनुसार है ✗

Question Type : **MCQ**
Question ID : **264330137570**
Option 1 ID : **264330538888**
Option 2 ID : **264330538887**
Option 3 ID : **264330538889**
Option 4 ID : **264330538890**
Status : **Answered**
Chosen Option : **2**

Join Telegram Group "HaryanaJobs.in"

Q.9 दिए गए समीकरण को सही करने के लिए किन दो संख्याओं को आपस में बदला जाना चाहिए?
4 × 6 − 3 + 8 = 14

Ans
✔ 1. 3 और 6
✘ 2. 3 और 8
✘ 3. 8 और 14
✘ 4. 6 और 4

Question Type : **MCQ**
Question ID : **264330137576**
Option 1 ID : **264330538912**
Option 2 ID : **264330538913**
Option 3 ID : **264330538914**
Option 4 ID : **264330538911**
Status : **Answered**
Chosen Option : **1**

Q.10 एक निश्चित कूट भाषा में, 'CAUTION' को 'NOITCAU' लिखा जाता है। उस कूट भाषा में 'FOREVER' को कैसे लिखा जाएगा?

Ans
✔ 1. REVEFOR
✘ 2. PEVEROF
✘ 3. PEVEEOR
✘ 4. FOEVRPR

Question Type : **MCQ**
Question ID : **264330134980**
Option 1 ID : **264330528858**
Option 2 ID : **264330528856**
Option 3 ID : **264330528857**
Option 4 ID : **264330528855**
Status : **Answered**
Chosen Option : **1**

Q.11 एक निश्चित कूट भाषा में, 'FORTUNE' को 'ENU20ROF' लिखा जाता है। उस कूट भाषा में 'PATRICK' को कैसे लिखा जाएगा?

Ans
✔ 1. KCI18TAP
✘ 2. KCI81TAP
✘ 3. KIC18TAP
✘ 4. KCI18TPA

Question Type : **MCQ**
Question ID : **264330137791**
Option 1 ID : **264330539772**
Option 2 ID : **264330539773**
Option 3 ID : **264330539771**
Option 4 ID : **264330539774**
Status : **Answered**
Chosen Option : **1**

Join Telegram Group "HaryanaJobs.in"

Q.12 उस विकल्प आकृति को चुनिए जो पैटर्न को पूरा करने के लिए नीचे दी गई आकृति में प्रश्न चिन्ह (?) के स्थान पर आएगी। (घूर्णन की अनुमति नहीं है)

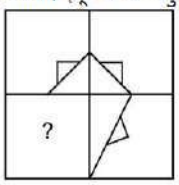

Ans

✗ 1. 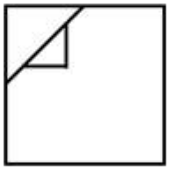

✗ 2. 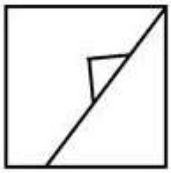

✓ 3. 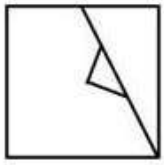

✗ 4. 

Question Type : **MCQ**
Question ID : **264330137580**
Option 1 ID : **264330538929**
Option 2 ID : **264330538930**
Option 3 ID : **264330538927**
Option 4 ID : **264330538928**
Status : **Answered**
Chosen Option : **3**

Q.13 छः मित्र एक परिधि में केंद्र की ओर मुख करके बैठे हैं। D, P और Q के बीच में है। T, M और L के बीच में है। P और M एक-दूसरे के ठीक आमने-सामने हैं। P, L के ठीक दाईं ओर है। Q के ठीक सामने कौन बैठा है?

Ans

✓ 1. L

✗ 2. M

✗ 3. P

✗ 4. D

Question Type : **MCQ**
Question ID : **264330137568**
Option 1 ID : **264330538879**
Option 2 ID : **264330538881**
Option 3 ID : **264330538880**
Option 4 ID : **264330538882**
Status : **Answered**
Chosen Option : **1**

Join Telegram Group "HaryanaJobs.in"

Q.14 तीन कथन दिए गए हैं और दो निष्कर्ष I और II दिए गए हैं। कथनों को सत्य मानते हुए, चाहे वे सामान्यतः ज्ञात तथ्यों से अलग प्रतीत होते हों, निश्चय कीजिए कि कौन-सा निष्कर्ष तार्किक रूप से कथनों के अनुसार है।

कथन:

सभी बकरियाँ, काली हैं।

कुछ काले, सफेद हैं।

कोई काला, सोना नहीं है।

निष्कर्ष:

I. कुछ बकरियाँ, सफेद हैं।

II. कुछ बकरियों के सोना होने की संभावना है।

Ans

✗ 1. केवल निष्कर्ष II कथनों के अनुसार है

✗ 2. केवल निष्कर्ष I कथनों के अनुसार है

✓ 3. न तो निष्कर्ष I और न ही II कथनों के अनुसार है

✗ 4. दोनों निष्कर्ष I और II कथनों के अनुसार हैं

Question Type : **MCQ**
Question ID : **264330137571**
Option 1 ID : **264330538892**
Option 2 ID : **264330538891**
Option 3 ID : **264330538894**
Option 4 ID : **264330538893**
Status : **Answered**
Chosen Option : **3**

Q.15 उस विकल्प को चुनिए जो तीसरे शब्द से ठीक उसी प्रकार संबंधित है जिस प्रकार दूसरा शब्द पहले शब्द से संबंधित है।

डॉक्टर : स्टैथोस्कोप:: बढ़ई : ?

Ans

✗ 1. कप

✓ 2. हथौड़ा

✗ 3. लैपटॉप

✗ 4. चित्रकला

Question Type : **MCQ**
Question ID : **264330137561**
Option 1 ID : **264330538854**
Option 2 ID : **264330538851**
Option 3 ID : **264330538852**
Option 4 ID : **264330538853**
Status : **Answered**
Chosen Option : **2**

Join Telegram Group "HaryanaJobs.in"

Q.16 दी गई आकृति के उस सही दर्पण प्रतिबिंब को चुनिए, जो नीचे दर्शाए गए अनुसार दर्पण को MN पर रखने पर बनेगा।

Ans

✗ 1. 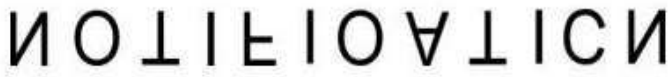

✗ 2.

✓ 3.

✗ 4.

Question Type : **MCQ**
Question ID : **264330133579**
Option 1 ID : **264330523342**
Option 2 ID : **264330523341**
Option 3 ID : **264330523339**
Option 4 ID : **264330523340**
Status : **Answered**
Chosen Option : **3**

Q.17 दी गई श्रृंखला में निम्नलिखित में से कौन-सी संख्या प्रश्न चिन्ह (?) के स्थान पर आएगी?
44, 52, 54, 62, 64, 72, ?

Ans

✗ 1. 96

✗ 2. 79

✗ 3. 85

✓ 4. 74

Question Type : **MCQ**
Question ID : **264330137573**
Option 1 ID : **264330538900**
Option 2 ID : **264330538901**
Option 3 ID : **264330538899**
Option 4 ID : **264330538902**
Status : **Answered**
Chosen Option : **4**

Join Telegram Group "HaryanaJobs.in"

Q.18 दिए गए समीकरण को सही करने के लिए किन दो संख्याओं को आपस में बदला जाना चाहिए?
96 ÷ 6 - 16 + 12 × 8 = 40

Ans
1. 6 और 8
2. 6 और 12
3. 6 और 16
4. 96 और 16

Question Type : **MCQ**
Question ID : **264330133522**
Option 1 ID : **264330523120**
Option 2 ID : **264330523122**
Option 3 ID : **264330523121**
Option 4 ID : **264330523119**
Status : **Answered**
Chosen Option : **2**

Join Telegram Group "HaryanaJobs.in"

Q.19 उस विकल्प आकृति को चुनिए जिसमें दी गई आकृति (X) उसके भाग के रूप में निहित है (घूर्णन की अनुमति नहीं है)।

(X)

Ans

✗ 1.

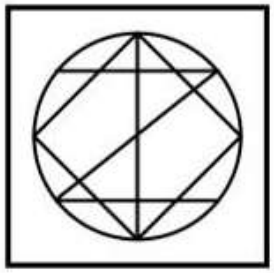

✗ 2.

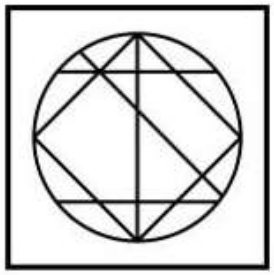

✓ 3.

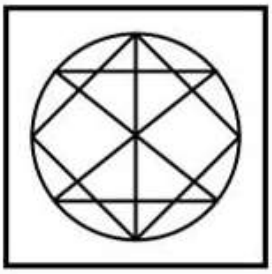

✗ 4.

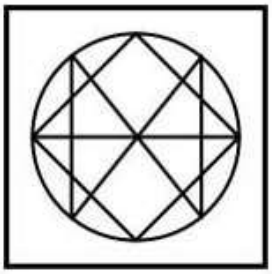

Question Type : **MCQ**
Question ID : **264330133578**
Option 1 ID : **264330523336**
Option 2 ID : **264330523338**
Option 3 ID : **264330523335**
Option 4 ID : **264330523337**
Status : **Answered**
Chosen Option : **3**

Join Telegram Group "HaryanaJobs.in"

Q.20 उस विकल्प को चुनिए जो तीसरे अक्षर-समूह से ठीक उसी प्रकार संबंधित है जिस प्रकार दूसरा अक्षर-समूह पहले अक्षर-समूह से संबंधित है।
REG : SDH :: UFC : ?

Ans
1. VMD ✗
2. DEV ✗
3. VEF ✗
4. VED ✓

Question Type : **MCQ**
Question ID : **264330137562**
Option 1 ID : **264330538857**
Option 2 ID : **264330538855**
Option 3 ID : **264330538858**
Option 4 ID : **264330538856**
Status : **Answered**
Chosen Option : **4**

Section : **General Awareness**

Q.1 संविधान सभा का गठन, कैबिनेट मिशन की सिफारिश पर किया गया था जिसने _____ में भारत का दौरा किया था।

Ans
1. 1952 ✗
2. 1959 ✗
3. 1946 ✓
4. 1962 ✗

Question Type : **MCQ**
Question ID : **264330137756**
Option 1 ID : **264330539631**
Option 2 ID : **264330539633**
Option 3 ID : **264330539632**
Option 4 ID : **264330539634**
Status : **Answered**
Chosen Option : **3**

Q.2 किस युद्ध के बाद अशोक ने भौतिक अधिग्रहण (physical occupation) की नीति को त्याग दिया?

Ans
1. कलिंग युद्ध (Kalinga War) ✓
2. तराइन के युद्ध (Battle of the Tarain) ✗
3. मगध-अंग युद्ध (Magadha-Anga war) ✗
4. झेलम के युद्ध (Battle of the Hydaspes) ✗

Question Type : **MCQ**
Question ID : **264330134044**
Option 1 ID : **264330525199**
Option 2 ID : **264330525201**
Option 3 ID : **264330525202**
Option 4 ID : **264330525200**
Status : **Answered**
Chosen Option : **1**

Join Telegram Group "HaryanaJobs.in"

Q.3 स्वामी विवेकानंद के आध्यात्मिक गुरु कौन थे?

Ans
1. नरेंद्र दत्ता
2. गोपाल कृष्ण गोखले
3. आचार्य नरेंद्र देव
4. रामकृष्ण परमहंस

Question Type : **MCQ**
Question ID : **264330134047**
Option 1 ID : **264330525211**
Option 2 ID : **264330525214**
Option 3 ID : **264330525212**
Option 4 ID : **264330525213**
Status : **Answered**
Chosen Option : **2**

Q.4 निम्नलिखित में से किस ग्रह को पृथ्वी का जुड़वाँ ग्रह भी कहा जाता है?

Ans
1. शुक्र
2. शनि
3. बृहस्पति
4. नेपच्यून

Question Type : **MCQ**
Question ID : **264330134652**
Option 1 ID : **264330527563**
Option 2 ID : **264330527566**
Option 3 ID : **264330527564**
Option 4 ID : **264330527565**
Status : **Answered**
Chosen Option : **1**

Q.5 Which RBI tool refers to buying and selling of bonds issued by the Government in the open market?

Ans
1. Moral suasion
2. Marginal standing facility
3. Liquidity adjustment facility
4. Open Market Operations

Question Type : **MCQ**
Question ID : **264330138684**
Option 1 ID : **264330543343**
Option 2 ID : **264330543346**
Option 3 ID : **264330543345**
Option 4 ID : **264330543344**
Status : **Answered**
Chosen Option : **3**

Join Telegram Group "HaryanaJobs.in"

Q.6 निम्नलिखित नृत्य शैलियों में से कौन-सी मूल रूप से तमिलनाडु के मंदिरों में देवदासियों द्वारा की जाती थी और इसलिए इसे दासिअट्टम (Dasiattam) के नाम से भी जाना जाता है?

Ans
1. मणिपुरी
2. कुचिपुड़ी
3. भरतनाट्यम
4. ओडिसी

Question Type : **MCQ**
Question ID : **264330137738**
Option 1 ID : **264330539559**
Option 2 ID : **264330539562**
Option 3 ID : **264330539561**
Option 4 ID : **264330539560**
Status : **Answered**
Chosen Option : **3**

Q.7 भारत में उगादि त्यौहार _____ के उपलक्ष्य में मनाता है।

Ans
1. पहली बारिश
2. बारिश के मौसम
3. नववर्ष की शुरुआत
4. फसल कटाई के मौसम

Question Type : **MCQ**
Question ID : **264330134034**
Option 1 ID : **264330525162**
Option 2 ID : **264330525161**
Option 3 ID : **264330525160**
Option 4 ID : **264330525159**
Status : **Answered**
Chosen Option : **4**

Q.8 खेलो इंडिया यूथ खेलों का पाँचवा संस्करण वर्ष 2023 में कहाँ आयोजित किया गया?

Ans
1. महाराष्ट्र
2. पश्चिम बंगाल
3. आंध्रप्रदेश
4. मध्यप्रदेश

Question Type : **MCQ**
Question ID : **264330137758**
Option 1 ID : **264330539642**
Option 2 ID : **264330539641**
Option 3 ID : **264330539640**
Option 4 ID : **264330539639**
Status : **Answered**
Chosen Option : **4**

Join Telegram Group "HaryanaJobs.in"

Q.9 बैलेनोग्लोसस (Balanoglossus) प्राणी जगत के निम्नलिखित में से किस संघ से संबंधित है?

Ans
✔ 1. हेमीकार्डेटा (Hemichordata)
✘ 2. एकाइनोडर्मेटा (Echinodermata)
✘ 3. मोलस्का (Mollusca)
✘ 4. आर्थोपोडा (Arthropoda)

Question Type : **MCQ**
Question ID : **264330137742**
Option 1 ID : **264330539576**
Option 2 ID : **264330539575**
Option 3 ID : **264330539577**
Option 4 ID : **264330539578**
Status : **Answered**
Chosen Option : **2**

Q.10 बाबर ने महमूद लोदी और सुल्तान नुसरत शाह को 1529 में _____ के युद्ध में हराकर भारत में मुगल शासन की स्थापना की।

Ans
✘ 1. चौसा
✔ 2. घाघरा
✘ 3. कन्नौज
✘ 4. खानवा

Question Type : **MCQ**
Question ID : **264330134658**
Option 1 ID : **264330527590**
Option 2 ID : **264330527587**
Option 3 ID : **264330527589**
Option 4 ID : **264330527588**
Status : **Answered**
Chosen Option : **2**

Q.11 प्रधानमंत्री ग्रामोदय योजना वर्ष_____ में शुरू की गई थी।

Ans
✘ 1. 1998
✘ 2. 2005
✔ 3. 2000
✘ 4. 2010

Question Type : **MCQ**
Question ID : **264330138291**
Option 1 ID : **264330541771**
Option 2 ID : **264330541773**
Option 3 ID : **264330541772**
Option 4 ID : **264330541774**
Status : **Answered**
Chosen Option : **2**

Join Telegram Group "HaryanaJobs.in"

Q.12 मशहूर कलाकार सितारा देवी की 101वीं जयंती पर निर्माता राज सी आनंद (Raj C Anand) ने उनके जीवन पर एक चलचित्र बनाने की घोषणा की है। सितारा देवी एक प्रसिद्ध _____ नर्तकी थीं।

Ans
1. ओडिसी
2. कथक
3. कुचिपुड़ी
4. कथकली

Question Type : **MCQ**
Question ID : **264330138681**
Option 1 ID : **264330543333**
Option 2 ID : **264330543331**
Option 3 ID : **264330543332**
Option 4 ID : **264330543334**
Status : **Answered**
Chosen Option : **4**

Q.13 निम्नलिखित अधिनियमों में से किस अधिनियम ने द्वैध शासन की शुरुआत की, अर्थात, कार्यकारी पार्षद और लोकप्रिय मंत्री दोनों का शासन?

Ans
1. चार्टर अधिनियम, 1813
2. भारतीय परिषद अधिनियम, 1861
3. भारत सरकार अधिनियम, 1858
4. मांटेग्यू-चेम्सफोर्ड सुधार (Montague-Chelmsford Reform) (भारत सरकार अधिनियम), 1919

Question Type : **MCQ**
Question ID : **264330133996**
Option 1 ID : **264330525009**
Option 2 ID : **264330525010**
Option 3 ID : **264330525007**
Option 4 ID : **264330525008**
Status : **Answered**
Chosen Option : **4**

Q.14 संगमरमर का रासायनिक नाम क्या है ?

Ans
1. कैल्शियम हाइड्रॉक्साइड (Calcium hydroxide)
2. मैग्नीशियम ऑक्साइड (Magnesium oxide)
3. कैल्शियम कार्बोनेट (Calcium carbonate)
4. सोडियम हाइड्रॉक्साइड (Sodium hydroxide)

Question Type : **MCQ**
Question ID : **264330134651**
Option 1 ID : **264330527562**
Option 2 ID : **264330527560**
Option 3 ID : **264330527559**
Option 4 ID : **264330527561**
Status : **Answered**
Chosen Option : **3**

Join Telegram Group "HaryanaJobs.in"

Q.15 2011 की जनगणना के अनुसार, भारत में नगरीय जनसंख्या का प्रतिशत कितना था? (अनुमानित सीमा प्रदान करें)

Ans
1. 40-45%
2. 20-25%
3. 10-15%
4. 30-35%

Question Type : **MCQ**
Question ID : **264330133942**
Option 1 ID : **264330524794**
Option 2 ID : **264330524792**
Option 3 ID : **264330524791**
Option 4 ID : **264330524793**
Status : **Answered**
Chosen Option : **4**

Q.16 निम्नलिखित में से किसे 'ठुमरी की रानी ('Queen of Thumri)' के नाम से जाना जाता था?

Ans
1. सिद्धेश्वरी देवी (Siddheswari Devi)
2. बेगम परवीन सुल्ताना (Begum Parveen Sultana)
3. गिरिजा देवी (Girija Devi)
4. गंगूबाई हंगल (Gangubai Hangal)

Question Type : **MCQ**
Question ID : **264330137754**
Option 1 ID : **264330539625**
Option 2 ID : **264330539624**
Option 3 ID : **264330539626**
Option 4 ID : **264330539623**
Status : **Answered**
Chosen Option : **3**

Q.17 कोदों (Kodon), कुटकी (Kutki), हड़का (Hraka), बाउटी (Bauti) _____ के उदाहरण हैं।

Ans
1. बाजरा
2. फलों
3. सब्जियों
4. रेशम

Question Type : **MCQ**
Question ID : **264330138691**
Option 1 ID : **264330543373**
Option 2 ID : **264330543371**
Option 3 ID : **264330543372**
Option 4 ID : **264330543374**
Status : **Answered**
Chosen Option : **1**

Join Telegram Group "HaryanaJobs.in"

Q.18 निम्नलिखित में से क्या भारत के संविधान में संघ सूची के अंतर्गत आता है?

Ans
✔ 1. प्रत्यर्पण (Extradition)
✘ 2. सामाजिक नियोजन (Social planning)
✘ 3. शराब (Liquor)
✘ 4. बॉयलर (Boilers)

Question Type : **MCQ**
Question ID : **264330137757**
Option 1 ID : **264330539638**
Option 2 ID : **264330539636**
Option 3 ID : **264330539635**
Option 4 ID : **264330539637**
Status : **Answered**
Chosen Option : **1**

Q.19 कवास थर्मल पावर स्टेशन निम्नलिखित में से किस राज्य में स्थित है?

Ans
✘ 1. राजस्थान
✘ 2. पश्चिम बंगाल
✔ 3. गुजरात
✘ 4. महाराष्ट्र

Question Type : **MCQ**
Question ID : **264330137746**
Option 1 ID : **264330539591**
Option 2 ID : **264330539592**
Option 3 ID : **264330539594**
Option 4 ID : **264330539593**
Status : **Answered**
Chosen Option : **3**

Q.20 निम्नलिखित में से किसने सुल्तान जोहोर कप 2022 जीता है?

Ans
✘ 1. ऑस्ट्रेलिया
✘ 2. न्यूज़ीलैंड
✔ 3. भारत
✘ 4. इंगलैंड

Question Type : **MCQ**
Question ID : **264330134667**
Option 1 ID : **264330527625**
Option 2 ID : **264330527623**
Option 3 ID : **264330527626**
Option 4 ID : **264330527624**
Status : **Answered**
Chosen Option : **3**

Join Telegram Group "HaryanaJobs.in"

Q.21 प्रतिस्पर्धा (संशोधन) विधेयक (The Competition (Amendment) Bill), 2022 का उद्देश्य लेन-देन के मूल्य के आधार पर विलय और अधिग्रहण (mergers and acquisitions) को विनियमित करना है, और यह कहता है कि ₹2,000 करोड़ से अधिक के सौदे मूल्य वाले किसी भी लेन-देन के लिए भारतीय प्रतिस्पर्धा आयोग (Competition Commission of India) की स्वीकृति (approval) आवश्यक होगी। मंजूरी में तेज़ी लाने के लिए, प्रस्तावित कानून यह भी कहता है कि सीसीआई (CCI) के लिए इस तरह के लेन-देन पर आदेश पारित करने की समय सीमा 210 कार्य दिवसों से घटाकर _____ दिवस कर दी जाएगी।

Ans
1. 200 ✗
2. 120 ✗
3. 175 ✗
4. 150 ✓

Question Type : **MCQ**
Question ID : **264330133982**
Option 1 ID : **264330524954**
Option 2 ID : **264330524952**
Option 3 ID : **264330524953**
Option 4 ID : **264330524951**
Status : **Answered**
Chosen Option : **2**

Q.22 आगरा का किला 16वीं शताब्दी में _____ द्वारा बनवाए गए लोकप्रिय मुगल स्मारकों में से एक है।

Ans
1. अकबर ✓
2. बाबर ✗
3. हुमायूं ✗
4. शाहजहाँ ✗

Question Type : **MCQ**
Question ID : **264330133985**
Option 1 ID : **264330524963**
Option 2 ID : **264330524965**
Option 3 ID : **264330524964**
Option 4 ID : **264330524966**
Status : **Answered**
Chosen Option : **3**

Q.23 निम्नलिखित में से किस रसायन का उपयोग विसंक्रामक के रूप में जल को शुद्ध करने के लिए किया जाता है?

Ans
1. टेफ़लॉन ✗
2. फॉसफर ✗
3. एथेनॉल ✗
4. क्लोरीन ✓

Question Type : **MCQ**
Question ID : **264330134649**
Option 1 ID : **264330527552**
Option 2 ID : **264330527554**
Option 3 ID : **264330527551**
Option 4 ID : **264330527553**
Status : **Answered**
Chosen Option : **4**

Join Telegram Group "HaryanaJobs.in"

Q.24 उपन्यास 'द पैलेस ऑफ इल्यूजन्स (The Palace of Illusions)' _____ द्वारा लिखा गया है।

Ans
1. अमीश त्रिपाठी
2. किरण देसाई
3. चित्रा बनर्जी दिवाकरुणी
4. इंदु सुंदरेसन

Question Type : **MCQ**
Question ID : **264330138679**
Option 1 ID : **264330543325**
Option 2 ID : **264330543323**
Option 3 ID : **264330543326**
Option 4 ID : **264330543324**
Status : **Answered**
Chosen Option : **1**

Q.25 केंद्रीय वित्तमंत्री निर्मला सीतारमण ने 2022 में यह घोषणा की है कि वह _____ प्लेटफॉर्म लॉन्च करेंगी, जो ओरिएंटल और दक्षिण एशियाई अध्ययन (Oriental and South Asian Studies) के लिए एक ऑनलाइन शिक्षण प्लेटफॉर्म है।

Ans
1. हर घर विद्या (Har Ghar Vidya)
2. भारत विद्या (Bharat Vidya)
3. विद्या, मेरा अधिकार (Vidya, Mera Adhikar)
4. विद्या (Vidya)

Question Type : **MCQ**
Question ID : **264330137736**
Option 1 ID : **264330539554**
Option 2 ID : **264330539553**
Option 3 ID : **264330539552**
Option 4 ID : **264330539551**
Status : **Answered**
Chosen Option : **2**

Section : **English Language and Comprehension**

Q.1 **Select the most appropriate option to fill in the blank.**
Multi-client messaging systems make it easier to keep in _____.

Ans
1. roll
2. touch
3. diary
4. secret

Question Type : **MCQ**
Question ID : **264330134526**
Option 1 ID : **264330527065**
Option 2 ID : **264330527066**
Option 3 ID : **264330527064**
Option 4 ID : **264330527063**
Status : **Answered**
Chosen Option : **2**

Join Telegram Group "HaryanaJobs.in"

Q.2 Choose the word that can substitute the given group of words.

Bearing no name

Ans
1. Pseudonym ✗
2. Anonymous ✓
3. Anomaly ✗
4. Namesake ✗

Question Type : **MCQ**
Question ID : **264330134785**
Option 1 ID : **264330528085**
Option 2 ID : **264330528086**
Option 3 ID : **264330528083**
Option 4 ID : **264330528084**
Status : **Answered**
Chosen Option : **2**

Q.3 Improve the underlined part of the sentence. Choose 'No improvement' as an answer if the sentence is grammatically correct.

I rode my bike to worked those morning.

Ans
1. work this ✓
2. No improvement ✗
3. work these ✗
4. worked this ✗

Question Type : **MCQ**
Question ID : **264330134774**
Option 1 ID : **264330528043**
Option 2 ID : **264330528046**
Option 3 ID : **264330528044**
Option 4 ID : **264330528045**
Status : **Answered**
Chosen Option : **1**

Q.4 Select the most appropriate synonym of the given word.

Equivocal

Ans
1. Definite ✗
2. Secure ✗
3. Ambiguous ✓
4. Insecure ✗

Question Type : **MCQ**
Question ID : **264330136099**
Option 1 ID : **264330533203**
Option 2 ID : **264330533204**
Option 3 ID : **264330533206**
Option 4 ID : **264330533205**
Status : **Answered**
Chosen Option : **3**

Join Telegram Group "HaryanaJobs.in"

Q.5 **Choose the sentence with no spelling error.**

Ans

✔ 1. Everything hurt in a dull, constant way.

✘ 2. Everything hurrt in a dull, constant way.

✘ 3. Everything hurt in a dul, contant weigh.

✘ 4. Everything hurt in a dull, contsant way.

Question Type : **MCQ**
Question ID : **264330134525**
Option 1 ID : **264330527061**
Option 2 ID : **264330527060**
Option 3 ID : **264330527062**
Option 4 ID : **264330527059**
Status : **Answered**
Chosen Option : **1**

Q.6 Select the most appropriate option to substitute the bracketed segment in the given sentence. If there is no need to substitute it, select 'no substitution required'.

This preoccupation with him was becoming an obsession (that was beginning to effect her) ability to take care of the house.

Ans

✘ 1. No substitution required

✔ 2. that was beginning to affect her ability

✘ 3. which was begin to affect her ability

✘ 4. which was beginning to effect her ability

Question Type : **MCQ**
Question ID : **264330136218**
Option 1 ID : **264330533666**
Option 2 ID : **264330533665**
Option 3 ID : **264330533664**
Option 4 ID : **264330533663**
Status : **Answered**
Chosen Option : **4**

Q.7 Select the most appropriate option to fill in the blank.

Join our networks to _____ better Governance.

Ans

✘ 1. sedate

✘ 2. drain

✔ 3. promote

✘ 4. disintegrate

Question Type : **MCQ**
Question ID : **264330136089**
Option 1 ID : **264330533168**
Option 2 ID : **264330533167**
Option 3 ID : **264330533170**
Option 4 ID : **264330533169**
Status : **Answered**
Chosen Option : **3**

Join Telegram Group "HaryanaJobs.in"

Q.8 Select the most appropriate word for the given group of words.

Persons who are unfairly blamed for something that others have done

Ans
✗ 1. Disdain
✗ 2. Epitome
✗ 3. Expedition
✓ 4. Scapegoat

Question Type : **MCQ**
Question ID : **264330136098**
Option 1 ID : **264330533201**
Option 2 ID : **264330533200**
Option 3 ID : **264330533199**
Option 4 ID : **264330533202**
Status : **Answered**
Chosen Option : **1**

Q.9 Identify the segment that contains a grammatical error. If there is no error, select 'No error'.

The timescale of prokaryote evolution / have been difficult to reconstruct / because of a limited fossil record.

Ans
✗ 1. because of a limited fossil record.
✓ 2. have been difficult to reconstruct
✗ 3. The timescale of prokaryote evolution
✗ 4. No error

Question Type : **MCQ**
Question ID : **264330136085**
Option 1 ID : **264330533153**
Option 2 ID : **264330533152**
Option 3 ID : **264330533151**
Option 4 ID : **264330533154**
Status : **Answered**
Chosen Option : **4**

Q.10 **Choose the word that is opposite in meaning to the given word.**
Disregard

Ans
✓ 1. Curiosity
✗ 2. Demote
✗ 3. Split
✗ 4. Hidden

Question Type : **MCQ**
Question ID : **264330134468**
Option 1 ID : **264330526841**
Option 2 ID : **264330526840**
Option 3 ID : **264330526839**
Option 4 ID : **264330526842**
Status : **Answered**
Chosen Option : **1**

Join Telegram Group "HaryanaJobs.in"

Q.11 **A sentence has been given with a blank to be filled with an appropriate option. Choose the correct alternative.**
I _____ the cake before my mother arrived.

Ans
✔ 1. had baked
✘ 2. have baked
✘ 3. bake
✘ 4. baked

Question Type : **MCQ**
Question ID : **264330134535**
Option 1 ID : **264330527100**
Option 2 ID : **264330527102**
Option 3 ID : **264330527101**
Option 4 ID : **264330527099**
Status : **Answered**
Chosen Option : **1**

Q.12 Select the word segment that substitutes (replaces) the bracketed word segment correctly and completes the sentence meaningfully. Select the option 'no correction required' if the sentence is correct as given.

She ran 12 kms at a stretch, (which are a greater) distance for a rookie.

Ans
✘ 1. which are greatest
✘ 2. No correction required
✘ 3. what is great
✔ 4. which is quite some

Question Type : **MCQ**
Question ID : **264330136643**
Option 1 ID : **264330535295**
Option 2 ID : **264330535298**
Option 3 ID : **264330535296**
Option 4 ID : **264330535297**
Status : **Answered**
Chosen Option : **2**

Q.13 Identify the segment that contains a grammatical error. If there is no error, select 'No error'.

The last time he repeated / the same mistake I thought he would / feel many sorry but I was wrong.

Ans
✘ 1. The last time he repeated
✘ 2. No error
✔ 3. feel many sorry but I was wrong.
✘ 4. the same mistake I thought he would

Question Type : **MCQ**
Question ID : **264330136640**
Option 1 ID : **264330535283**
Option 2 ID : **264330535286**
Option 3 ID : **264330535285**
Option 4 ID : **264330535284**
Status : **Answered**
Chosen Option : **3**

Join Telegram Group "HaryanaJobs.in"

Q.14 Select the correctly spelt word.

Ans

✗ 1. Epiphene

✓ 2. Epiphany

✗ 3. Epephany

✗ 4. Epipheny

Question Type : **MCQ**
Question ID : **264330136105**
Option 1 ID : **264330533230**
Option 2 ID : **264330533228**
Option 3 ID : **264330533227**
Option 4 ID : **264330533229**
Status : **Answered**
Chosen Option : **4**

Q.15 Select the most appropriate antonym to substitute the bracketed word in the given sentence.
So it would appear that from now on I am going to have to be more (tactful) and diplomatic in my meanderings.

Ans

✓ 1. Ungracious

✗ 2. Sycophantic

✗ 3. Grovelling

✗ 4. Fawning

Question Type : **MCQ**
Question ID : **264330136102**
Option 1 ID : **264330533217**
Option 2 ID : **264330533216**
Option 3 ID : **264330533215**
Option 4 ID : **264330533218**
Status : **Answered**
Chosen Option : **4**

Q.16 Select the most appropriate option to fill in the blank.

Eventually, the water will _____ through the surrounding concrete.

Ans

✓ 1. permeate

✗ 2. statolith

✗ 3. aerate

✗ 4. delegate

Question Type : **MCQ**
Question ID : **264330136108**
Option 1 ID : **264330533240**
Option 2 ID : **264330533241**
Option 3 ID : **264330533242**
Option 4 ID : **264330533239**
Status : **Answered**
Chosen Option : **1**

Join Telegram Group "HaryanaJobs.in"

Q.17 In the following question, out of the given four alternatives, select the alternative which best expresses the meaning of the Idiom/Phrase.

To meet one's eyes

Ans

✗ 1. To confess something

✗ 2. To make haste

✗ 3. To meet someone regularly

✓ 4. To look at someone directly while they are looking at you

Question Type : **MCQ**
Question ID : **264330134791**
Option 1 ID : **264330528110**
Option 2 ID : **264330528108**
Option 3 ID : **264330528109**
Option 4 ID : **264330528107**
Status : **Answered**
Chosen Option : **1**

Q.18 Select the most appropriate meaning of the bracketed idiom in the given sentence.
The first sample of ore from the trial boring is very promising, but we should remember that (one swallow does not make a summer.)

Ans

✗ 1. The whole of everything

✓ 2.
A single fortunate event does not mean that what follows will also be good.

✗ 3. To come out of one trouble and get into a worse

✗ 4.
The fact of failure or escape is not affected by the narrowness of the margin

Question Type : **MCQ**
Question ID : **264330136104**
Option 1 ID : **264330533226**
Option 2 ID : **264330533223**
Option 3 ID : **264330533224**
Option 4 ID : **264330533225**
Status : **Answered**
Chosen Option : **4**

Q.19 Choose the word that means the same as the given word.
Gauge

Ans

✓ 1. Measure

✗ 2. Attempt

✗ 3. Valve

✗ 4. Diagnose

Question Type : **MCQ**
Question ID : **264330134545**
Option 1 ID : **264330527135**
Option 2 ID : **264330527136**
Option 3 ID : **264330527138**
Option 4 ID : **264330527137**
Status : **Answered**
Chosen Option : **1**

Join Telegram Group "HaryanaJobs.in"

Q.20 **Find the part of the given sentence that has an error in it. If there is no error, choose 'No error'.**
Participants in our studies reviewed these online dating profiles.

Ans
✗ 1. online dating profiles.
✗ 2. studies reviewed these
✗ 3. Participants in our
✓ 4. No error

Question Type : **MCQ**
Question ID : **264330134372**
Option 1 ID : **264330526473**
Option 2 ID : **264330526472**
Option 3 ID : **264330526471**
Option 4 ID : **264330526474**
Status : **Answered**
Chosen Option : **3**

Comprehension:

In the following passage some of the words have been deleted. Read the passage carefully and select the correct answer for the given blank out of the four alternatives.
The "Sesame Street" spinoff (1) _____ to be the first Russian-language educational TV (2) _____ aimed specifically at preschoolers. The project (3) _____ support from both American and Russian government officials. "If we do not reform our (4) _____, we can hardly hope that we will reform our society," (5) _____ Elena Lenskaya, a director in Russia's Ministry of Education, during a 1992 U.S. congressional hearing on the planned adaptation.

SubQuestion No : 21

Q.21 **Select the most appropriate option to fill in blank number 1.**

Ans
✓ 1. set out
✗ 2. set in
✗ 3. set aside
✗ 4. set off

Question Type : **MCQ**
Question ID : **264330134459**
Option 1 ID : **264330526803**
Option 2 ID : **264330526805**
Option 3 ID : **264330526806**
Option 4 ID : **264330526804**
Status : **Answered**
Chosen Option : **1**

Join Telegram Group "HaryanaJobs.in"

Comprehension:

In the following passage some of the words have been deleted. Read the passage carefully and select the correct answer for the given blank out of the four alternatives.
The “Sesame Street” spinoff (1) _____ to be the first Russian-language educational TV (2) _____ aimed specifically at preschoolers. The project (3) _____ support from both American and Russian government officials. “If we do not reform our (4) _____, we can hardly hope that we will reform our society,” (5) _____ Elena Lenskaya, a director in Russia’s Ministry of Education, during a 1992 U.S. congressional hearing on the planned adaptation.

SubQuestion No : 22

Q.22 Select the most appropriate option to fill in blank number 2.

Ans
✔ 1. program
✘ 2. solution
✘ 3. pattern
✘ 4. recipe

Question Type : **MCQ**
Question ID : **264330134460**
Option 1 ID : **264330526808**
Option 2 ID : **264330526807**
Option 3 ID : **264330526809**
Option 4 ID : **264330526810**
Status : **Answered**
Chosen Option : **1**

Comprehension:

In the following passage some of the words have been deleted. Read the passage carefully and select the correct answer for the given blank out of the four alternatives.
The “Sesame Street” spinoff (1) _____ to be the first Russian-language educational TV (2) _____ aimed specifically at preschoolers. The project (3) _____ support from both American and Russian government officials. “If we do not reform our (4) _____, we can hardly hope that we will reform our society,” (5) _____ Elena Lenskaya, a director in Russia’s Ministry of Education, during a 1992 U.S. congressional hearing on the planned adaptation.

SubQuestion No : 23

Q.23 Select the most appropriate option to fill in blank number 3.

Ans
✘ 1. receive
✔ 2. received
✘ 3. did received
✘ 4. receiving

Question Type : **MCQ**
Question ID : **264330134461**
Option 1 ID : **264330526812**
Option 2 ID : **264330526814**
Option 3 ID : **264330526813**
Option 4 ID : **264330526811**
Status : **Answered**
Chosen Option : **2**

Join Telegram Group "HaryanaJobs.in"

Comprehension:

In the following passage some of the words have been deleted. Read the passage carefully and select the correct answer for the given blank out of the four alternatives.
The “Sesame Street” spinoff (1) _____ to be the first Russian-language educational TV (2) _____ aimed specifically at preschoolers. The project (3) _____ support from both American and Russian government officials. “If we do not reform our (4) _____, we can hardly hope that we will reform our society,” (5) _____ Elena Lenskaya, a director in Russia’s Ministry of Education, during a 1992 U.S. congressional hearing on the planned adaptation.

SubQuestion No : 24

Q.24 Select the most appropriate option to fill in blank number 4.

Ans

✗ 1. politics

✗ 2. economy

✓ 3. education

✗ 4. society

Question Type : **MCQ**
Question ID : **264330134462**
Option 1 ID : **264330526818**
Option 2 ID : **264330526816**
Option 3 ID : **264330526817**
Option 4 ID : **264330526815**
Status : **Answered**
Chosen Option : **3**

Comprehension:

In the following passage some of the words have been deleted. Read the passage carefully and select the correct answer for the given blank out of the four alternatives.
The “Sesame Street” spinoff (1) _____ to be the first Russian-language educational TV (2) _____ aimed specifically at preschoolers. The project (3) _____ support from both American and Russian government officials. “If we do not reform our (4) _____, we can hardly hope that we will reform our society,” (5) _____ Elena Lenskaya, a director in Russia’s Ministry of Education, during a 1992 U.S. congressional hearing on the planned adaptation.

SubQuestion No : 25

Q.25 Select the most appropriate option to fill in blank number 5.

Ans

✗ 1. muted

✗ 2. told

✓ 3. said

✗ 4. ordered

Question Type : **MCQ**
Question ID : **264330134463**
Option 1 ID : **264330526822**
Option 2 ID : **264330526820**
Option 3 ID : **264330526819**
Option 4 ID : **264330526821**
Status : **Answered**
Chosen Option : **3**

Join Telegram Group "HaryanaJobs.in"

Multi Tasking Non Technical Staff and Havaldar CBIC and CBN Examination 2022

Roll Number	HaryanaJobs.in
Candidate Name	HaryanaJobs.in
Venue Name	iON Digital Zone iDZ Sandalpur
Exam Date	04/05/2023
Exam Time	12:00 PM - 2:00 PM
Subject	MTS Non Tech Havaldar CBIC and CBN Examination 2022

Section : **Numerical and Mathematical Ability**

Q.1 13, 26 और 52 के लघुत्तम समापवर्त्य और महत्तम समापवर्तक का अनुपात क्या होगा?

Ans

✗ 1. 13 : 1

✗ 2. 6 : 1

✗ 3. 5 : 1

✓ 4. 4 : 1

Question Type : **MCQ**
Question ID : **264330139071**
Option 1 ID : **264330544894**
Option 2 ID : **264330544891**
Option 3 ID : **264330544892**
Option 4 ID : **264330544893**
Status : **Answered**
Chosen Option : **4**

Q.2 यदि अमन अपनी सामान्य चाल से 12.5 प्रतिशत कम चाल से यात्रा करता है, तो वह 9 मिनट देर से पहुँचेगा। उसके द्वारा लिया जाने वाला सामान्य समय क्या है?

Ans

✗ 1. 56 मिनट

✗ 2. 70 मिनट

✓ 3. 63 मिनट

✗ 4. 49 मिनट

Question Type : **MCQ**
Question ID : **264330139058**
Option 1 ID : **264330544840**
Option 2 ID : **264330544842**
Option 3 ID : **264330544841**
Option 4 ID : **264330544839**
Status : **Answered**
Chosen Option : **3**

Join Telegram Group "HaryanaJobs.in"

Q.3 यदि p : q बराबर 4 : 3 है और q : r बराबर 5 : 2 है, तो p : q : r ज्ञात कीजिए।

Ans
1. 10 : 4 : 7
2. 15 : 6 : 20
3. 7 : 4 :10
4. 20 : 15 : 6 ✓

Question Type : **MCQ**
Question ID : **264330135098**
Option 1 ID : **264330529329**
Option 2 ID : **264330529328**
Option 3 ID : **264330529330**
Option 4 ID : **264330529327**
Status : **Answered**
Chosen Option : **4**

Q.4 एक कंप्यूटर का अंकित मूल्य Rs.14000 है। कंप्यूटर का विक्रय मूल्य Rs.9702 है। यदि 23 प्रतिशत और y प्रतिशत के दो क्रमिक बट्टे दिए जाते हैं, तो y का मान क्या है?

Ans
1. 12 प्रतिशत
2. 15 प्रतिशत
3. 10 प्रतिशत ✓
4. 5 प्रतिशत

Question Type : **MCQ**
Question ID : **264330139068**
Option 1 ID : **264330544882**
Option 2 ID : **264330544881**
Option 3 ID : **264330544880**
Option 4 ID : **264330544879**
Status : **Answered**
Chosen Option : **3**

Q.5 एक व्यापारी एक वस्तु को 20 प्रतिशत लाभ पर बेचता है। यदि वह उसे क्रय मूल्य के आधे मूल्य पर खरीदता है और पहले वाले विक्रय मूल्य पर ही बेच देता है, तो लाभ प्रतिशत क्या होगा?

Ans
1. 100 प्रतिशत
2. 140 प्रतिशत ✓
3. 150 प्रतिशत
4. 50 प्रतिशत

Question Type : **MCQ**
Question ID : **264330139063**
Option 1 ID : **264330544859**
Option 2 ID : **264330544860**
Option 3 ID : **264330544861**
Option 4 ID : **264330544862**
Status : **Answered**
Chosen Option : **2**

Join Telegram Group "HaryanaJobs.in"

Q.6 12 और 25 के बीच की अभाज्य संख्याओं का औसत क्या है?

Ans
1. 24
2. 18
3. 20
4. 23

Question Type : **MCQ**
Question ID : **264330139059**
Option 1 ID : **264330544846**
Option 2 ID : **264330544845**
Option 3 ID : **264330544844**
Option 4 ID : **264330544843**
Status : **Answered**
Chosen Option : **2**

Q.7 $96\ of\ 10 - 40 + 19 \div [\{70 + (40 - 22) \div 3\} \div 4]$ का मान है :

Ans
1. 900
2. 921
3. 880
4. 800

Question Type : **MCQ**
Question ID : **264330135065**
Option 1 ID : **264330529196**
Option 2 ID : **264330529198**
Option 3 ID : **264330529195**
Option 4 ID : **264330529197**
Status : **Answered**
Chosen Option : **2**

Q.8 राजीव 9% के लाभ पर मोहन को एक पुस्तक बेचता है और मोहन इसे गोपाल को 13% के लाभ पर बेचता है। यदि गोपाल इसके लिए Rs.12,317 का भुगतान करता है, तो राजीव द्वारा चुकाया गया क्रय मूल्य ज्ञात कीजिए।

Ans
1. Rs. 16,000
2. Rs. 11,000
3. Rs. 10,000
4. Rs. 15,000

Question Type : **MCQ**
Question ID : **264330141038**
Option 1 ID : **264330552502**
Option 2 ID : **264330552501**
Option 3 ID : **264330552499**
Option 4 ID : **264330552500**
Status : **Answered**
Chosen Option : **3**

Join Telegram Group "HaryanaJobs.in"

Q.9 नीचे दिए गए वृत्त आलेख में एक वर्ष में छः कंपनियों द्वारा निर्मित ट्रकों की संख्या को दर्शाया गया है। इन सभी छः कंपनियों द्वारा निर्मित कुल ट्रक 2160 हैं। इनमें से किसी एक विशिष्ट कंपनी द्वारा निर्मित ट्रकों की संख्या को इन सभी छः कंपनियों द्वारा निर्मित कुल ट्रकों की संख्या के सापेक्ष डिग्री में दर्शाया गया है।

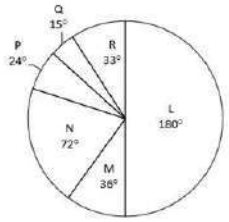

L, N और Q द्वारा निर्मित ट्रकों की कुल संख्या, M और R द्वारा निर्मित ट्रकों की कुल संख्या से कितने प्रतिशत अधिक है?

Ans

✗ 1. 192.85 प्रतिशत

✓ 2. 286.95 प्रतिशत

✗ 3. 188.24 प्रतिशत

✗ 4. 274.56 प्रतिशत

Question Type : **MCQ**
Question ID : **264330139075**
Option 1 ID : **264330544909**
Option 2 ID : **264330544908**
Option 3 ID : **264330544910**
Option 4 ID : **264330544907**
Status : **Answered**
Chosen Option : **2**

Q.10 वार्षिक चक्रवृद्धि ब्याज की किस वार्षिक दर पर, Rs.20000 की धनराशि 1 वर्ष 6 माह में अर्धवार्षिक रूप से संयोजित होकर Rs.23152.50 हो जाती है?

Ans

✗ 1. 8% वार्षिक

✗ 2. 5% वार्षिक

✗ 3. 12% वार्षिक

✓ 4. 10% वार्षिक

Question Type : **MCQ**
Question ID : **264330138101**
Option 1 ID : **264330541013**
Option 2 ID : **264330541011**
Option 3 ID : **264330541014**
Option 4 ID : **264330541012**
Status : **Answered**
Chosen Option : **4**

Join Telegram Group "HaryanaJobs.in"

Q.11 चावल के मूल्य में 10% की वृद्धि होती है। हमे खपत में कितनी कमी करनी चाहिए जिससे चावल पर होने वाले व्यय में वृद्धि न हो?

Ans

1. 50/3%
2. 51/7%
3. 100/11%
4. 300/7%

Question Type : **MCQ**
Question ID : **264330138094**
Option 1 ID : **264330540983**
Option 2 ID : **264330540986**
Option 3 ID : **264330540984**
Option 4 ID : **264330540985**
Status : **Answered**
Chosen Option : **3**

Q.12 निम्न तालिका में पाँच अलग-अलग सोसाइटी में पुरुषों और महिलाओं की संख्या को दर्शाया गया है। सोसाइटी R की कुल जनसंख्या और सोसाइटी P में महिलाओं की संख्या के बीच कितना अंतर है?

Societies	Men	Women
P	440	320
Q	600	550
R	380	120
S	250	400
T	440	300

Societies - सोसाइटी, Men - पुरुष, Women - महिलाएं

Ans

1. 180
2. 320
3. 300
4. 210

Question Type : **MCQ**
Question ID : **264330135081**
Option 1 ID : **264330529260**
Option 2 ID : **264330529261**
Option 3 ID : **264330529259**
Option 4 ID : **264330529262**
Status : **Answered**
Chosen Option : **1**

Q.13 यदि दो संख्याओं का लघुत्तम समापवर्त्य (LCM) 72 है और उनका गुणनफल 1728 है, तो उन संख्याओं का महत्तम समापवर्तक (HCF) कितना है?

Ans

1. 12
2. 18
3. 24
4. 1

Question Type : **MCQ**
Question ID : **264330141001**
Option 1 ID : **264330552351**
Option 2 ID : **264330552352**
Option 3 ID : **264330552353**
Option 4 ID : **264330552354**
Status : **Answered**
Chosen Option : **3**

Join Telegram Group "HaryanaJobs.in"

Q.14 यदि J/4 = K/5 = L/3 है, तो $(L + J)^2 : (J + K)^2 : (K + L)^2$ का मान क्या है?

Ans
✔ 1. 49 : 81 : 64
✘ 2. 49 : 81 : 62
✘ 3. 64 : 25 : 81
✘ 4. 25 : 16 : 9

Question Type : **MCQ**
Question ID : **264330139065**
Option 1 ID : **264330544867**
Option 2 ID : **264330544870**
Option 3 ID : **264330544868**
Option 4 ID : **264330544869**
Status : **Answered**
Chosen Option : **1**

Q.15 मिया और रिया अकेले एक कार्य को क्रमश: 15 दिन और 10 दिन में कर सकती हैं। मिया ने अकेले कार्य शुरू किया और फिर 5 दिन बाद, रिया उसके साथ शामिल हो गई और कार्य पूरा होने तक साथ रही। कार्य कितने समय तक चला?

Ans
✘ 1. 4 दिन
✘ 2. 12 दिन
✘ 3. 5 दिन
✔ 4. 9 दिन

Question Type : **MCQ**
Question ID : **264330133809**
Option 1 ID : **264330524259**
Option 2 ID : **264330524262**
Option 3 ID : **264330524260**
Option 4 ID : **264330524261**
Status : **Answered**
Chosen Option : **4**

Q.16 एक समूह में 300 पुरुष हैं। उनके पास 30 दिनों का भोजन है। 10 दिनों के बाद, समूह में 100 पुरुष और शामिल हो जाते हैं। शेष भोजन कितने दिनों तक चलेगा?

Ans
✘ 1. 12 दिन
✘ 2. 10 दिन
✘ 3. 20 दिन
✔ 4. 15 दिन

Question Type : **MCQ**
Question ID : **264330137875**
Option 1 ID : **264330540107**
Option 2 ID : **264330540108**
Option 3 ID : **264330540109**
Option 4 ID : **264330540110**
Status : **Answered**
Chosen Option : **4**

Join Telegram Group "HaryanaJobs.in"

Q.17 एक व्यक्ति शुरुआती 25 km की दूरी 60 मिनट में और अगले 38 km की दूरी 30 मिनट में तय करता है। पूरी यात्रा में उसकी औसत चाल कितनी है?

Ans

✔ 1. 42 km/hr

✘ 2. 49 km/hr

✘ 3. 36 km/hr

✘ 4. 46 km/hr

Question Type : **MCQ**
Question ID : **264330137326**
Option 1 ID : **264330537932**
Option 2 ID : **264330537931**
Option 3 ID : **264330537934**
Option 4 ID : **264330537933**
Status : **Answered**
Chosen Option : **1**

Q.18 12 mm व्यास वाले एक वृत्त का क्षेत्रफल कितना होगा?

Ans

✘ 1. 24π mm^2

✘ 2. 12π mm^2

✔ 3. 36π mm^2

✘ 4. 48π mm^2

Question Type : **MCQ**
Question ID : **264330133814**
Option 1 ID : **264330524280**
Option 2 ID : **264330524281**
Option 3 ID : **264330524279**
Option 4 ID : **264330524282**
Status : **Answered**
Chosen Option : **3**

Q.19 The two adjacent sides of a parallelogram are 12 cm and 5 cm respectively. If one of the diagonals is 13 cm long, then what is the area of the parallelogram?

Ans

✘ 1. 75 cm^2

✘ 2. 30 cm^2

✘ 3. 25 cm^2

✔ 4. 60 cm^2

Question Type : **MCQ**
Question ID : **264330137888**
Option 1 ID : **264330540162**
Option 2 ID : **264330540161**
Option 3 ID : **264330540159**
Option 4 ID : **264330540160**
Status : **Answered**
Chosen Option : **4**

Join Telegram Group "HaryanaJobs.in"

Q.20 यदि (9g + 2h) : (9g - 2h) = 9 : 2 है, तो g : h का मान क्या है?

Ans
1. 35 : 24
2. 22 : 63
3. 45 : 19
4. 18 : 35

Question Type : **MCQ**
Question ID : **264330139064**
Option 1 ID : **264330544864**
Option 2 ID : **264330544865**
Option 3 ID : **264330544866**
Option 4 ID : **264330544863**
Status : **Answered**
Chosen Option : **2**

Section : **Reasoning Ability and Problem Solving**

Q.1 दी गई श्रृंखला में निम्नलिखित में से कौन-सी संख्या प्रश्न चिन्ह (?) के स्थान पर आएगी?
46, 63, 80, 97, 114, ?

Ans
1. 113
2. 128
3. 126
4. 131

Question Type : **MCQ**
Question ID : **264330137865**
Option 1 ID : **264330540067**
Option 2 ID : **264330540069**
Option 3 ID : **264330540070**
Option 4 ID : **264330540068**
Status : **Answered**
Chosen Option : **4**

Q.2 एक निश्चित कूट भाषा में, 'PHONES' को 'NFMLCQ' लिखा जाता है। उस कूट भाषा में 'REALLY' को कैसे लिखा जाएगा?

Ans
1. PCYJJY
2. PCYJJV
3. PCYKKW
4. PCYJJW

Question Type : **MCQ**
Question ID : **264330138565**
Option 1 ID : **264330542869**
Option 2 ID : **264330542867**
Option 3 ID : **264330542870**
Option 4 ID : **264330542868**
Status : **Answered**
Chosen Option : **4**

Join Telegram Group "HaryanaJobs.in"

Q.3 छः लड़के राम, सुमित, सुनील, राहुल, राज और अमन एक वृत्ताकार मेज के चारों ओर केंद्र की ओर मुख करके बैठे हैं (परंतु जरूरी नहीं कि वे इसी क्रम में बैठे हों)। सुनील, अमन का निकटतम पड़ोसी नहीं है। अमन, राम के दाईं ओर से दूसरे स्थान पर है। राहुल, सुमित के दाईं ओर से दूसरे स्थान पर है। राज, राम के ठीक बाईं ओर है। राहुल के दाईं ओर से दूसरे स्थान पर कौन है?

Ans
✔ 1. राज
✘ 2. सुनील
✘ 3. अमन
✘ 4. सुमित

Question Type : **MCQ**
Question ID : **264330138836**
Option 1 ID : **264330543952**
Option 2 ID : **264330543951**
Option 3 ID : **264330543953**
Option 4 ID : **264330543954**
Status : **Answered**
Chosen Option : **1**

Q.4 आठ लड़के अनिल, कमल, राम, संजय, आकाश, विवेक, राहुल और रामू एक वृत्ताकार मेज के चारों ओर केंद्र की ओर मुख करके बैठे हैं (परंतु जरूरी नहीं कि वे इसी क्रम में बैठें हों)। विवेक, कमल के दाईं ओर से तीसरे स्थान पर है। कमल, संजय के दाईं ओर से दूसरे स्थान पर है। राम, अनिल के दाईं ओर से दूसरे स्थान पर है। अनिल, विवेक के दाईं ओर से दूसरे स्थान पर है। राहुल, आकाश के दाईं ओर से तीसरे स्थान पर है। कमल के दाईं ओर से दूसरे स्थान पर कौन है?

Ans
✘ 1. आकाश
✘ 2. संजय
✔ 3. रामू
✘ 4. विवेक

Question Type : **MCQ**
Question ID : **264330138837**
Option 1 ID : **264330543957**
Option 2 ID : **264330543955**
Option 3 ID : **264330543956**
Option 4 ID : **264330543958**
Status : **Answered**
Chosen Option : **3**

Q.5 दिए गए समीकरण को सही करने के लिए किन दो चिन्हों को आपस में बदला जाना चाहिए?
11 - 2 × 16 + 19 = 25

Ans
✔ 1. - और ×
✘ 2. × और +
✘ 3. - और +
✘ 4. = और +

Question Type : **MCQ**
Question ID : **264330134994**
Option 1 ID : **264330528911**
Option 2 ID : **264330528912**
Option 3 ID : **264330528913**
Option 4 ID : **264330528914**
Status : **Answered**
Chosen Option : **1**

Join Telegram Group "HaryanaJobs.in"

Q.6 (::) के बाईं ओर दिए गए शब्द आपस में किसी तर्क / नियम / संबंध द्वारा संबंधित हैं। समान तर्क / नियम / संबंध के आधार पर दिए गए विकल्पों में से (::) के दाईं ओर लुप्त शब्द / शब्द युग्म को चुनिए।

अखबार : संपादक :: डिज़ाइन : ?

Ans

✗ 1. चिकित्सक

✗ 2. अध्यापक

✗ 3. नाटककार

✓ 4. वास्तुकार

Question Type : **MCQ**
Question ID : **264330138831**
Option 1 ID : **264330543932**
Option 2 ID : **264330543934**
Option 3 ID : **264330543933**
Option 4 ID : **264330543931**
Status : **Answered**
Chosen Option : **4**

Q.7 निम्नलिखित प्रश्न में कुछ कथन दिए गए हैं और उन कथनों के आधार पर कुछ निष्कर्ष दिए गए हैं। आपको यह मानना है कि दिए गए कथन सत्य हैं चाहे वे समान्यतः ज्ञात तथ्यों से अलग प्रतीत होते हों। सभी निष्कर्षों को पढ़िए और फिर निश्चय कीजिए कि दिए गए निष्कर्षों में से कौन-सा निष्कर्ष तार्किक रूप से दिए गए कथनों के अनुसार है।

कथन:

I. सभी P, G हैं।

II. कुछ F, P हैं।

निष्कर्ष:

I. सभी G, P हैं।

II. सभी P, F हैं।

III. कुछ F, G नहीं हैं।

Ans

✓ 1. कोई भी निष्कर्ष कथनों के अनुसार नहीं हैं

✗ 2. सभी निष्कर्ष कथनों के अनुसार हैं

✗ 3. केवल निष्कर्ष III कथनों के अनुसार है

✗ 4. दोनों निष्कर्ष II और III कथनों के अनुसार हैं

Question Type : **MCQ**
Question ID : **264330138840**
Option 1 ID : **264330543968**
Option 2 ID : **264330543969**
Option 3 ID : **264330543967**
Option 4 ID : **264330543970**
Status : **Answered**
Chosen Option : **3**

Join Telegram Group "HaryanaJobs.in"

Q.8 निम्नलिखित प्रश्न में कुछ कथन दिए गए हैं और उन कथनों के आधार पर कुछ निष्कर्ष दिए गए हैं। आपको यह मानना है कि दिए गए कथन सत्य हैं चाहे वे समान्यतः ज्ञात तथ्यों से अलग प्रतीत होते हों। सभी निष्कर्षों को पढ़िए और फिर निश्चय कीजिए कि दिए गए निष्कर्षों में से कौन-सा निष्कर्ष तार्किक रूप से दिए गए कथनों के अनुसार है।

कथन:

I. सभी U, M हैं।

II सभी G, M हैं।

निष्कर्ष:

I. कुछ G, U हैं।

II कुछ G, M हैं।

Ans

✗ 1. केवल निष्कर्ष I कथनों के अनुसार है

✓ 2. केवल निष्कर्ष II कथनों के अनुसार है

✗ 3. दोनों निष्कर्ष I और II कथनों के अनुसार हैं

✗ 4. कोई निष्कर्ष कथनों के अनुसार नहीं हैं

Question Type : **MCQ**
Question ID : **264330138839**
Option 1 ID : **264330543963**
Option 2 ID : **264330543964**
Option 3 ID : **264330543965**
Option 4 ID : **264330543966**
Status : **Answered**
Chosen Option : **2**

Q.9 उस विकल्प को चुनिए जो तीसरी संख्या से ठीक उसी प्रकार संबंधित है जिस प्रकार दूसरी संख्या पहली संख्या से संबंधित है।

169 : 12 :: 81 :?

Ans

✓ 1. 8

✗ 2. 7

✗ 3. 9

✗ 4. 6

Question Type : **MCQ**
Question ID : **264330137867**
Option 1 ID : **264330540078**
Option 2 ID : **264330540076**
Option 3 ID : **264330540077**
Option 4 ID : **264330540075**
Status : **Answered**
Chosen Option : **1**

Join Telegram Group "HaryanaJobs.in"

Q.10 निम्नलिखित प्रश्न में, दी गई श्रृंखला में लुप्त संख्या चुनिए ।

2, 6, 14, 30, 62, ?

Ans
1. 128
2. 131
3. 126
4. 130

Question Type : **MCQ**
Question ID : **264330138842**
Option 1 ID : **264330543975**
Option 2 ID : **264330543978**
Option 3 ID : **264330543976**
Option 4 ID : **264330543977**
Status : **Answered**
Chosen Option : **3**

Join Telegram Group "HaryanaJobs.in"

Q.11 दी गई आकृति के उस सही दर्पण प्रतिबिंब को चुनिए जो दर्पण AB को आकृति के दाईं ओर रखने पर बनेगा।

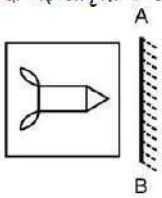

Ans

✗ 1.



✗ 2.

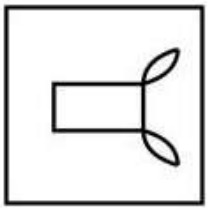

✓ 3.

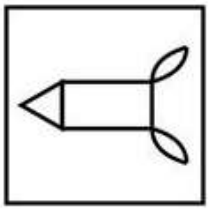

✗ 4.

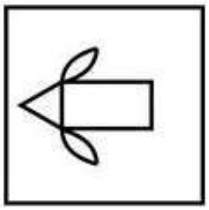

Question Type : **MCQ**
Question ID : **264330134974**
Option 1 ID : **264330528833**
Option 2 ID : **264330528832**
Option 3 ID : **264330528831**
Option 4 ID : **264330528834**
Status : **Answered**
Chosen Option : **3**

Join Telegram Group "HaryanaJobs.in"

Q.12 एक श्रृंखला दी गई है जिसमें एक पद लुप्त है। दिए गए विकल्पों में से उस सही विकल्प को चुनिए जो श्रृंखला को पूरा करेगा।

ANTQ, YMRP, ?, UKNN, SJLM

Ans
1. WLPQ
2. XLPO
3. WLQO
4. WLPO

Question Type : **MCQ**
Question ID : **264330138829**
Option 1 ID : **264330543923**
Option 2 ID : **264330543925**
Option 3 ID : **264330543924**
Option 4 ID : **264330543926**
Status : **Answered**
Chosen Option : **4**

Q.13 कौन-सी उत्तर आकृति प्रश्न आकृति में दिए गए पैटर्न को पूरा करेगी?



Ans
1.
2. 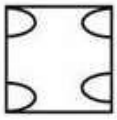
3.
4.

Question Type : **MCQ**
Question ID : **264330138849**
Option 1 ID : **264330544005**
Option 2 ID : **264330544006**
Option 3 ID : **264330544004**
Option 4 ID : **264330544003**
Status : **Answered**
Chosen Option : **1**

Join Telegram Group "HaryanaJobs.in"

Q.14 (::) के बाईं ओर दिए गए शब्द आपस में किसी तर्क / नियम / संबंध द्वारा संबंधित हैं। समान तर्क / नियम / संबंध के आधार पर दिए गए विकल्पों में से (::) के दाईं ओर लुप्त शब्द / शब्द युग्म को चुनिए।

तलवार : योद्धा :: ?

Ans

✗ 1. औजार : मूर्तिकार

✗ 2. राजमिस्त्री : साहुल सूत्र (Plumbline)

✓ 3. कुल्हाड़ी : लकड़हारा

✗ 4. दर्जी : सुई

Question Type : **MCQ**
Question ID : **264330138832**
Option 1 ID : **264330543936**
Option 2 ID : **264330543937**
Option 3 ID : **264330543935**
Option 4 ID : **264330543938**
Status : **Answered**
Chosen Option : **3**

Q.15 छः टंकियों A, B, C, D, E और F की धारिताओं (क्षमता) की तुलना की जाती है। कोई भी दो टंकियों की धारिता समान नहीं है। D की धारिता F और C से अधिक है। A की धारिता केवल B से कम है। टंकियों की धारिताओं के संबंध में निम्नलिखित में से कौन-सा क्रम सही हो सकता है?

I. A > D > E

II. C > F > E

Ans

✗ 1. न तो I और न ही II

✗ 2. केवल II

✗ 3. केवल I

✓ 4. I और II दोनों

Question Type : **MCQ**
Question ID : **264330138838**
Option 1 ID : **264330543962**
Option 2 ID : **264330543960**
Option 3 ID : **264330543959**
Option 4 ID : **264330543961**
Status : **Answered**
Chosen Option : **2**

Q.16 एक निश्चित कूट भाषा में, 'HANG' को 'LSFM' लिखा जाता है। उस कूट भाषा में 'GRAW' को कैसे लिखा जाएगा?

Ans

✗ 1. BGXK

✓ 2. BFWL

✗ 3. BFVL

✗ 4. CGXL

Question Type : **MCQ**
Question ID : **264330138504**
Option 1 ID : **264330542624**
Option 2 ID : **264330542626**
Option 3 ID : **264330542625**
Option 4 ID : **264330542623**
Status : **Answered**
Chosen Option : **2**

Join Telegram Group "HaryanaJobs.in"

Q.17 उस विकल्प आकृति को चुनिए जिसमें दी गई आकृति (X) उसके भाग के रूप में निहित है (घूर्णन की अनुमति नहीं है)।

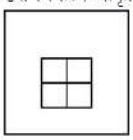

(X)

Ans

✗ 1.



✓ 2.

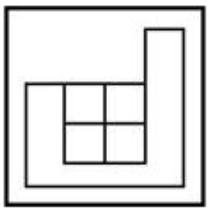

✗ 3.

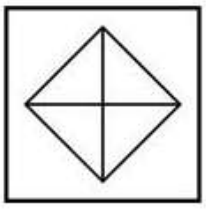

✗ 4.



Question Type : **MCQ**
Question ID : **264330134973**
Option 1 ID : **264330528827**
Option 2 ID : **264330528830**
Option 3 ID : **264330528828**
Option 4 ID : **264330528829**
Status : **Answered**
Chosen Option : **2**

Join Telegram Group "HaryanaJobs.in"

Q.18 किन दो संख्याओं को आपस में बदलने पर निम्न समीकरण सही होगा?

$9 \times 3 \div 6 + 4 - 8 = 1$

Ans
1. 8 और 9
2. 3 और 6
3. 3 और 4
4. 6 और 8

Question Type : **MCQ**
Question ID : **264330138845**
Option 1 ID : **264330543989**
Option 2 ID : **264330543987**
Option 3 ID : **264330543988**
Option 4 ID : **264330543990**
Status : **Answered**
Chosen Option : **3**

Q.19 उस विकल्प को चुनिए जिसमें समुच्चय की संख्याएँ वही संबंध साझा करती हैं जो दिए गए समुच्चय में संख्याओं द्वारा साझा किया जाता है। (ध्यान दें: संख्याओं को उनके घटक अंकों में अलग-अलग किए बिना, पूर्ण संख्याओं पर संक्रियाएँ की जानी चाहिए। उदा. 13 - 13 पर संक्रियाएँ जैसे 13 को जोड़ना /घटाना /गुणा करना आदि किया जा सकता है। 13 को 1 और 3 में अलग-अलग करने की और फिर 1 और 3 पर गणितीय संक्रियाएँ करने की अनुमति नहीं है)

(125, 2, 3)

(512, 5, 3)

Ans
1. (1000, 7, 3)
2. (343, 5, 3)
3. (216, 4, 3)
4. (1782, 8, 6)

Question Type : **MCQ**
Question ID : **264330138844**
Option 1 ID : **264330543983**
Option 2 ID : **264330543985**
Option 3 ID : **264330543984**
Option 4 ID : **264330543986**
Status : **Answered**
Chosen Option : **1**

Q.20 एक निश्चित कूट भाषा में, 'TAKES' को '51' लिखा जाता है, 'LEAVE' को '40' लिखा जाता है। उस कूट भाषा में 'TEAM' को कैसे लिखा जाएगा?

Ans
1. 34
2. 49
3. 39
4. 36

Question Type : **MCQ**
Question ID : **264330137113**
Option 1 ID : **264330537098**
Option 2 ID : **264330537096**
Option 3 ID : **264330537095**
Option 4 ID : **264330537097**
Status : **Answered**
Chosen Option : **1**

Join Telegram Group "HaryanaJobs.in"

Section : **General Awareness**

Q.1 भारत में लिंग अनुपात को जनसंख्या में प्रति _____ पर स्त्रियों की संख्या के आधार पर निर्धारित किया जाता है।

Ans

✗ 1. 100 बच्चों

✓ 2. 1000 पुरुषों

✗ 3. 500 पुरुषों

✗ 4. 100 पुरुषों

Question Type : **MCQ**
Question ID : **264330138940**
Option 1 ID : **264330544369**
Option 2 ID : **264330544368**
Option 3 ID : **264330544370**
Option 4 ID : **264330544367**
Status : **Answered**
Chosen Option : **2**

Q.2 ओलंपिक खेलों में भारत का पहला बैडमिंटन पदक किसने जीता था?

Ans

✗ 1. पुलेला गोपीचंद

✓ 2. साइना नेहवाल

✗ 3. पी.वी.सिंधु

✗ 4. प्रकाश पादुकोण

Question Type : **MCQ**
Question ID : **264330138899**
Option 1 ID : **264330544205**
Option 2 ID : **264330544204**
Option 3 ID : **264330544203**
Option 4 ID : **264330544206**
Status : **Answered**
Chosen Option : **3**

Q.3 निम्नलिखित में से किसे 'ठुमरी की रानी (Queen of Thumri)' के नाम से सम्मानित किया गया था?

Ans

✗ 1. सिद्धेश्वरी देवी

✗ 2. अन्नपूर्णा देवी

✗ 3. नैना देवी

✓ 4. गिरिजा देवी

Question Type : **MCQ**
Question ID : **264330138902**
Option 1 ID : **264330544217**
Option 2 ID : **264330544216**
Option 3 ID : **264330544218**
Option 4 ID : **264330544215**
Status : **Answered**
Chosen Option : **1**

Join Telegram Group "HaryanaJobs.in"

Q.4 भारतीय संविधान का अनुच्छेद 43B _____ का प्रावधान करता है।

Ans
1. ग्राम पंचायतों के संगठन
2. कार्यपालिका से न्यायपालिका के पृथक्करण
3. सहकारी समितियों को बढ़ावा देने
4. काम पाने के अधिकार

Question Type : **MCQ**
Question ID : **264330138908**
Option 1 ID : **264330544239**
Option 2 ID : **264330544242**
Option 3 ID : **264330544241**
Option 4 ID : **264330544240**
Status : **Answered**
Chosen Option : **3**

Q.5 चावल की खेती के लिए _____ के साथ-साथ अत्याधिक वर्षा की आवश्यकता होती है।

Ans
1. कम तापमान और कम आर्द्रता
2. कम तापमान और अधिक आर्द्रता
3. उच्च तापमान और कम आर्द्रता
4. उच्च तापमान और अधिक आर्द्रता

Question Type : **MCQ**
Question ID : **264330138288**
Option 1 ID : **264330541761**
Option 2 ID : **264330541760**
Option 3 ID : **264330541759**
Option 4 ID : **264330541762**
Status : **Answered**
Chosen Option : **2**

Q.6 पद्मा सुब्रहमण्यम को वर्ष _____ में भारतीय शास्त्रीय नृत्य में उनके योगदान के लिए पद्म भूषण पुरस्कार मिला।

Ans
1. 2001
2. 1998
3. 2003
4. 2010

Question Type : **MCQ**
Question ID : **264330138278**
Option 1 ID : **264330541720**
Option 2 ID : **264330541719**
Option 3 ID : **264330541721**
Option 4 ID : **264330541722**
Status : **Answered**
Chosen Option : **2**

Join Telegram Group "HaryanaJobs.in"

Q.7 निम्नलिखित में से बंगाल के किस गवर्नर जनरल ने सती प्रथा को गैरकानूनी घोषित किया था?

Ans
✔ 1. विलियम बैंटिक
✘ 2. वारेन हेस्टिंग्स
✘ 3. चार्ल्स कार्नवालिस
✘ 4. चार्ल्स कैनिंग

Question Type : **MCQ**
Question ID : **264330134659**
Option 1 ID : **264330527591**
Option 2 ID : **264330527592**
Option 3 ID : **264330527593**
Option 4 ID : **264330527594**
Status : **Answered**
Chosen Option : **1**

Q.8 कौन-सा देश "वोस्तोक 2022(Vostok-2022)" सैन्य अभ्यास का मेजबान है?

Ans
✘ 1. अमेरीका
✘ 2. भारत
✘ 3. संयुक्त अरब अमीरात
✔ 4. रूस

Question Type : **MCQ**
Question ID : **264330138905**
Option 1 ID : **264330544227**
Option 2 ID : **264330544229**
Option 3 ID : **264330544228**
Option 4 ID : **264330544230**
Status : **Answered**
Chosen Option : **4**

Q.9 मालगुडी डेज़ (Malgudi Days) _____ की लघु कहानियों का एक संग्रह है।

Ans
✘ 1. अमीश त्रिपाठी
✘ 2. झुंपा लाहिड़ी
✔ 3. आर.के. नारायण
✘ 4. चेतन भगत

Question Type : **MCQ**
Question ID : **264330138276**
Option 1 ID : **264330541712**
Option 2 ID : **264330541714**
Option 3 ID : **264330541713**
Option 4 ID : **264330541711**
Status : **Answered**
Chosen Option : **3**

Join Telegram Group "HaryanaJobs.in"

Q.10 निम्नलिखित में से कौन अकबर के बाद भारत में मुगल वंश के सिंहासन पर बैठा?

Ans
✔ 1. जहाँगीर
✘ 2. औरंगजेब
✘ 3. शाहजहाँ
✘ 4. शेरशाह सूरी

Question Type : **MCQ**
Question ID : **264330137983**
Option 1 ID : **264330540542**
Option 2 ID : **264330540540**
Option 3 ID : **264330540541**
Option 4 ID : **264330540539**
Status : **Answered**
Chosen Option : **1**

Q.11 सिमोन बाइल्स (Simone Biles) का संबंध किस खेल से है?

Ans
✘ 1. तैराकी
✔ 2. जिम्नास्टिक्स
✘ 3. बैडमिंटन
✘ 4. टेबल टेनिस

Question Type : **MCQ**
Question ID : **264330134622**
Option 1 ID : **264330527444**
Option 2 ID : **264330527443**
Option 3 ID : **264330527446**
Option 4 ID : **264330527445**
Status : **Answered**
Chosen Option : **1**

Q.12 राष्ट्रीय आय के मापन की उत्पाद विधि में, हमें _____ के लिए मध्यवर्ती वस्तुओं के मूल्य को घटाना होगा।

Ans
✔ 1. दुहरी गणना को दूर करने
✘ 2. उत्पादन के कारकों का विश्लेषण करने
✘ 3. अधिक खपत से बचने
✘ 4. व्यय के समस्त मूल्य का अनुमान लगाने

Question Type : **MCQ**
Question ID : **264330138281**
Option 1 ID : **264330541731**
Option 2 ID : **264330541734**
Option 3 ID : **264330541732**
Option 4 ID : **264330541733**
Status : **Answered**
Chosen Option : **2**

Join Telegram Group "HaryanaJobs.in"

Q.13 बाल विवाह निषेध (संशोधन) विधेयक, 2021 महिलाओं की विवाह की न्यूनतम आयु को बढ़ाकर _____ वर्ष करने का प्रयास करता है।

Ans
1. 18 ✗
2. 22 ✗
3. 21 ✓
4. 25 ✗

Question Type : **MCQ**
Question ID : **264330134645**
Option 1 ID : **264330527535**
Option 2 ID : **264330527538**
Option 3 ID : **264330527536**
Option 4 ID : **264330527537**
Status : **Answered**
Chosen Option : **3**

Q.14 _____ में स्थित रावण फाड़ी (Ravan Phadi) गुफा पूर्वकालीन चालुक्य शैली स्थापत्यकला का एक उदाहरण है जो अपनी विशिष्ट मूर्तिकला शैली के लिए जानी जाती है।

Ans
1. केरल ✗
2. तमिलनाडु ✗
3. आंध्रप्रदेश ✗
4. कर्नाटक ✓

Question Type : **MCQ**
Question ID : **264330134648**
Option 1 ID : **264330527548**
Option 2 ID : **264330527549**
Option 3 ID : **264330527547**
Option 4 ID : **264330527550**
Status : **Not Answered**
Chosen Option : **--**

Q.15 निम्नलिखित में से किस ग्रह का कोई उपग्रह नहीं है?

Ans
1. शनि ✗
2. बृहस्पति ✗
3. यूरेनस ✗
4. शुक्र ✓

Question Type : **MCQ**
Question ID : **264330137977**
Option 1 ID : **264330540515**
Option 2 ID : **264330540517**
Option 3 ID : **264330540518**
Option 4 ID : **264330540516**
Status : **Answered**
Chosen Option : **4**

Join Telegram Group "HaryanaJobs.in"

Q.16 दंत शल्य चिकित्सा में निश्चेतक (anaesthetic) के रूप में निम्नलिखित में से किस गैस का उपयोग किया जाता है?

Ans

1. हीलियम
2. ✔ नाइट्रस ऑक्साइड
3. आर्गन
4. रेडॉन

Question Type : **MCQ**
Question ID : **264330137974**
Option 1 ID : **264330540504**
Option 2 ID : **264330540505**
Option 3 ID : **264330540506**
Option 4 ID : **264330540503**
Status : **Answered**
Chosen Option : **3**

Q.17 The period of life, when the body undergoes changes leading to reproductive maturity is called _____.

Ans

1. ✔ adolescence
2. cloning
3. budding
4. maturity

Question Type : **MCQ**
Question ID : **264330138909**
Option 1 ID : **264330544243**
Option 2 ID : **264330544244**
Option 3 ID : **264330544245**
Option 4 ID : **264330544246**
Status : **Answered**
Chosen Option : **1**

Q.18 The 36th meeting of 'Parliamentary committee on official language' was chaired by _____.

Ans

1. Piyush Goyal
2. Rajnath Singh
3. Narendra Modi
4. ✔ Amit Shah

Question Type : **MCQ**
Question ID : **264330138904**
Option 1 ID : **264330544226**
Option 2 ID : **264330544225**
Option 3 ID : **264330544223**
Option 4 ID : **264330544224**
Status : **Answered**
Chosen Option : **3**

Join Telegram Group "HaryanaJobs.in"

Q.19 2022 तक कितने देश भारत के साथ अंतर्राष्ट्रीय स्थलीय सीमा साझा करते हैं?

Ans
✔ 1. 7
✘ 2. 6
✘ 3. 5
✘ 4. 8

Question Type : **MCQ**
Question ID : **264330133968**
Option 1 ID : **264330524897**
Option 2 ID : **264330524896**
Option 3 ID : **264330524895**
Option 4 ID : **264330524898**
Status : **Answered**
Chosen Option : **1**

Q.20 वे पदार्थ जो अपने अंदर से विद्युत्-धारा को प्रवाहित नहीं होने देते, _____ कहलाते हैं।

Ans
✔ 1. विद्युत्-रोधक (insulators)
✘ 2. संधारित्र (capacitors)
✘ 3. चालक (conductors)
✘ 4. प्रेरक (inductor)

Question Type : **MCQ**
Question ID : **264330134635**
Option 1 ID : **264330527496**
Option 2 ID : **264330527497**
Option 3 ID : **264330527495**
Option 4 ID : **264330527498**
Status : **Answered**
Chosen Option : **1**

Q.21 कार्बिलान कप (Corbillon Cup) निम्नलिखित में से किस खेल से संबंधित है?

Ans
✘ 1. गॉल्फ़
✘ 2. हॉकी
✔ 3. टेबल टेनिस
✘ 4. बैडमिंटन

Question Type : **MCQ**
Question ID : **264330137992**
Option 1 ID : **264330540575**
Option 2 ID : **264330540578**
Option 3 ID : **264330540576**
Option 4 ID : **264330540577**
Status : **Answered**
Chosen Option : **1**

Join Telegram Group "HaryanaJobs.in"

Q.22 हरे एवं कोमल तने वाले पौधे _____ कहलाते हैं।

Ans
✗ 1. वृक्ष (trees)
✗ 2. झाड़ियाँ (shrubs)
✓ 3. शाक (herbs)
✗ 4. आच्छादन (canopy)

Question Type : **MCQ**
Question ID : **264330134632**
Option 1 ID : **264330527485**
Option 2 ID : **264330527484**
Option 3 ID : **264330527483**
Option 4 ID : **264330527486**
Status : **Answered**
Chosen Option : **3**

Q.23 सिरका (Vinegar) का रासायनिक नाम क्या है?

Ans
✗ 1. ऑक्सैलिक अम्ल
✗ 2. लॉरिक अम्ल
✗ 3. मैलिक अम्ल
✓ 4. ऐसीटिक अम्ल

Question Type : **MCQ**
Question ID : **264330137976**
Option 1 ID : **264330540514**
Option 2 ID : **264330540513**
Option 3 ID : **264330540512**
Option 4 ID : **264330540511**
Status : **Answered**
Chosen Option : **4**

Q.24 निम्न में से कौन-सा जानवर भारत में केवल गिर के जंगलों में पाया जाता है?

Ans
✓ 1. एशियाई शेर
✗ 2. काला तेंदुआ
✗ 3. एशियाई चीता
✗ 4. हिम तेंदुआ

Question Type : **MCQ**
Question ID : **264330138914**
Option 1 ID : **264330544263**
Option 2 ID : **264330544265**
Option 3 ID : **264330544264**
Option 4 ID : **264330544266**
Status : **Answered**
Chosen Option : **1**

Join Telegram Group "HaryanaJobs.in"

Q.25 राजस्थान के किस लोकनृत्य को 'सपेरा नृत्य (Sapera dance)' भी कहा जाता है?

Ans
✔ 1. कालबेलिया
✘ 2. चरी
✘ 3. गैर
✘ 4. घूमर

Question Type : **MCQ**
Question ID : **264330138896**
Option 1 ID : **264330544193**
Option 2 ID : **264330544191**
Option 3 ID : **264330544194**
Option 4 ID : **264330544192**
Status : **Answered**
Chosen Option : **1**

Section : **English Language and Comprehension**

Q.1 Find the part of the given sentence that has an error in it. If there is no error, choose 'No error'.
To treat nightmare disorder, there is a number of medications and therapies.

Ans
✘ 1. of medications and therapies.
✘ 2. To treat nightmare disorder,
✔ 3. there is a number
✘ 4. No error

Question Type : **MCQ**
Question ID : **264330136849**
Option 1 ID : **264330536089**
Option 2 ID : **264330536087**
Option 3 ID : **264330536088**
Option 4 ID : **264330536090**
Status : **Answered**
Chosen Option : **3**

Q.2 In the following question, out of the given four alternatives, select the alternative which best expresses the meaning of the Idiom/Phrase.
A blast from the past

Ans
✔ 1. Something powerfully nostalgic
✘ 2. A competition where the outcome is difficult to judge or predict
✘ 3. An unresolved argument
✘ 4. Punishment for the crime committed in the past

Question Type : **MCQ**
Question ID : **264330136868**
Option 1 ID : **264330536159**
Option 2 ID : **264330536162**
Option 3 ID : **264330536160**
Option 4 ID : **264330536161**
Status : **Marked For Review**
Chosen Option : **3**

Join Telegram Group "HaryanaJobs.in"

Q.3 Choose the word that means the same as the given word.

Confirm

Ans
1. Corrosion
2. Corroborate
3. Collision
4. Collaborate

Question Type : **MCQ**
Question ID : **264330134788**
Option 1 ID : **264330528097**
Option 2 ID : **264330528096**
Option 3 ID : **264330528098**
Option 4 ID : **264330528095**
Status : **Answered**
Chosen Option : **3**

Q.4 Choose the incorrectly spelt word.

Ans
1. Neweset
2. Drape
3. Vibe
4. Surround

Question Type : **MCQ**
Question ID : **264330136869**
Option 1 ID : **264330536163**
Option 2 ID : **264330536166**
Option 3 ID : **264330536165**
Option 4 ID : **264330536164**
Status : **Answered**
Chosen Option : **1**

Q.5 Select the most appropriate option to fill in the blank.

What to do in the event of a gas _____.

Ans
1. leak
2. leek
3. lead
4. leer

Question Type : **MCQ**
Question ID : **264330134769**
Option 1 ID : **264330528023**
Option 2 ID : **264330528024**
Option 3 ID : **264330528025**
Option 4 ID : **264330528026**
Status : **Answered**
Chosen Option : **1**

Join Telegram Group "HaryanaJobs.in"

Q.6 **Find the part of the given sentence that has an error in it. If there is no error, choose 'No error'.**
I particular like that kitten because it has white feet.

Ans
✗ 1. that kitten because it
✗ 2. has white feet
✗ 3. No error
✓ 4. I particular like

Question Type : **MCQ**
Question ID : **264330134450**
Option 1 ID : **264330526772**
Option 2 ID : **264330526773**
Option 3 ID : **264330526774**
Option 4 ID : **264330526771**
Status : **Answered**
Chosen Option : **4**

Q.7 Select the appropriate antonym for the underlined word.
They must have been more than just suspicious of you.

Ans
✗ 1. Queer
✗ 2. Doubtful
✗ 3. Ambiguous
✓ 4. Definitive

Question Type : **MCQ**
Question ID : **264330136866**
Option 1 ID : **264330536154**
Option 2 ID : **264330536151**
Option 3 ID : **264330536152**
Option 4 ID : **264330536153**
Status : **Answered**
Chosen Option : **4**

Q.8 A sentence has been given with a blank to be filled with an appropriate option. Choose the correct alternative.
Snow _____ lightly as everyone was leaving church.

Ans
✗ 1. fallen
✗ 2. falling
✗ 3. is falling
✓ 4. was falling

Question Type : **MCQ**
Question ID : **264330134778**
Option 1 ID : **264330528061**
Option 2 ID : **264330528060**
Option 3 ID : **264330528062**
Option 4 ID : **264330528059**
Status : **Answered**
Chosen Option : **1**

Join Telegram Group "HaryanaJobs.in"

Q.9 Find the part of the given sentence that has an error in it. If there is no error, choose 'No error'.
There is no big deal if she didn't came to the party.

Ans
✔ 1. came to the party.
✘ 2. No error
✘ 3. There is no big
✘ 4. deal if she didn't

Question Type : **MCQ**
Question ID : **264330136873**
Option 1 ID : **264330536181**
Option 2 ID : **264330536182**
Option 3 ID : **264330536179**
Option 4 ID : **264330536180**
Status : **Answered**
Chosen Option : **1**

Q.10 Select the most appropriate meaning of the given idiom.

Against the clock

Ans
✘ 1. To take on a task that is a way to big
✘ 2. On the point of achievement
✔ 3. Rushed and short on time
✘ 4. To avoid talking

Question Type : **MCQ**
Question ID : **264330136529**
Option 1 ID : **264330534857**
Option 2 ID : **264330534856**
Option 3 ID : **264330534855**
Option 4 ID : **264330534858**
Status : **Answered**
Chosen Option : **3**

Q.11 Choose the sentence with no spelling error.

Ans
✘ 1. His grrip tightned a fraction on her arm.
✘ 2. His grip tightend a fractoin on her arm.
✘ 3. His gripe tightened a fracton on her arm.
✔ 4. His grip tightened a fraction on her arm.

Question Type : **MCQ**
Question ID : **264330134768**
Option 1 ID : **264330528019**
Option 2 ID : **264330528022**
Option 3 ID : **264330528020**
Option 4 ID : **264330528021**
Status : **Answered**
Chosen Option : **4**

Join Telegram Group "HaryanaJobs.in"

Q.12 Improve the underlined part of the sentence. Choose 'No improvement' as an answer if the sentence is grammatically correct.

MLA is a representative electing by the voters of a constituency to the legislature.

Ans

1. elected by a
2. elected by the
3. elects by a
4. No improvement

Question Type : **MCQ**
Question ID : **264330136878**
Option 1 ID : **264330536200**
Option 2 ID : **264330536199**
Option 3 ID : **264330536201**
Option 4 ID : **264330536202**
Status : **Answered**
Chosen Option : **2**

Q.13 Choose the word that is opposite in meaning to the given word.

Abolish

Ans

1. Efface
2. Formalize
3. Deface
4. Jettison

Question Type : **MCQ**
Question ID : **264330134789**
Option 1 ID : **264330528099**
Option 2 ID : **264330528100**
Option 3 ID : **264330528101**
Option 4 ID : **264330528102**
Status : **Answered**
Chosen Option : **2**

Q.14 Select the most appropriate option to fill in the blank.

She was moving slowly and _____ yesterday when she fell.

Ans

1. firmly
2. vaguely
3. strongly
4. shakily

Question Type : **MCQ**
Question ID : **264330136872**
Option 1 ID : **264330536175**
Option 2 ID : **264330536176**
Option 3 ID : **264330536177**
Option 4 ID : **264330536178**
Status : **Answered**
Chosen Option : **4**

Join Telegram Group "HaryanaJobs.in"

Q.15 A sentence has been given with a blank to be filled with an appropriate option. Choose the correct alternative.
Satya Nadella completed his primary education _____ Hyderabad Public School, Begumpet.

Ans
✔ 1. from
✘ 2. over
✘ 3. by
✘ 4. onto

Question Type : **MCQ**
Question ID : **264330136853**
Option 1 ID : **264330536105**
Option 2 ID : **264330536103**
Option 3 ID : **264330536104**
Option 4 ID : **264330536106**
Status : **Answered**
Chosen Option : **1**

Q.16 Choose the word that can substitute the given group of words.
Beginning to exist; recently formed or developed

Ans
✘ 1. Herald
✘ 2. Blasphemy
✘ 3. Knave
✔ 4. Nascent

Question Type : **MCQ**
Question ID : **264330136862**
Option 1 ID : **264330536138**
Option 2 ID : **264330536136**
Option 3 ID : **264330536135**
Option 4 ID : **264330536137**
Status : **Answered**
Chosen Option : **3**

Q.17 Select the appropriate synonym for the underlined word.

In the absence of miracles, my frustration spikes.

Ans
✔ 1. Increases
✘ 2. Falls
✘ 3. Losses
✘ 4. Digs

Question Type : **MCQ**
Question ID : **264330136863**
Option 1 ID : **264330536141**
Option 2 ID : **264330536139**
Option 3 ID : **264330536140**
Option 4 ID : **264330536142**
Status : **Answered**
Chosen Option : **1**

Join Telegram Group "HaryanaJobs.in"

Q.18 Improve the underlined part of the sentence. Choose 'No improvement' as an answer if the sentence is grammatically correct.

The day <u>are warm</u>, so the students ate their lunch outside.

Ans
- ✔ 1. was warm
- ✘ 2. was warming
- ✘ 3. No improvement
- ✘ 4. is warm

Question Type : **MCQ**
Question ID : **264330136876**
Option 1 ID : **264330536193**
Option 2 ID : **264330536192**
Option 3 ID : **264330536194**
Option 4 ID : **264330536191**
Status : **Answered**
Chosen Option : **1**

Q.19 Improve the underlined part of the sentence. Choose 'No improvement' as an answer if the sentence is grammatically correct.

Don't try to force the window open, or <u>you might broken</u> it.

Ans
- ✘ 1. you might breaks
- ✘ 2. you have break
- ✘ 3. No improvement
- ✔ 4. you might break

Question Type : **MCQ**
Question ID : **264330135312**
Option 1 ID : **264330530159**
Option 2 ID : **264330530161**
Option 3 ID : **264330530162**
Option 4 ID : **264330530160**
Status : **Answered**
Chosen Option : **4**

Q.20 Select the most appropriate word for the given group of words.

Extreme physical or mental sufferings

Ans
- ✘ 1. Aviary
- ✘ 2. Autonomy
- ✘ 3. Autocracy
- ✔ 4. Agony

Question Type : **MCQ**
Question ID : **264330136523**
Option 1 ID : **264330534834**
Option 2 ID : **264330534832**
Option 3 ID : **264330534833**
Option 4 ID : **264330534831**
Status : **Answered**
Chosen Option : **4**

Join Telegram Group "HaryanaJobs.in"

Comprehension:

In the following passage some of the words have been deleted. Read the passage carefully and select the correct answer for the given blank out of the four alternatives.

"I am proud to (1) _____ to a religion which has taught the world both tolerance (2) _____ universal acceptance," he declared (3) _____ September 11, 1893. "We believe not only in universal toleration, (4) _____ we accept all religions as true. I am proud to belong to a nation which has sheltered the persecuted and the (5) _____ of all religions and all nations of the earth."

SubQuestion No : 21

Q.21 Select the most appropriate option to fill in blank number 1.

Ans

✗ 1. behest

✗ 2. gain

✓ 3. belong

✗ 4. live

Question Type : **MCQ**
Question ID : **264330134780**
Option 1 ID : **264330528065**
Option 2 ID : **264330528063**
Option 3 ID : **264330528064**
Option 4 ID : **264330528066**
Status : **Answered**
Chosen Option : **3**

Comprehension:

In the following passage some of the words have been deleted. Read the passage carefully and select the correct answer for the given blank out of the four alternatives.

"I am proud to (1) _____ to a religion which has taught the world both tolerance (2) _____ universal acceptance," he declared (3) _____ September 11, 1893. "We believe not only in universal toleration, (4) _____ we accept all religions as true. I am proud to belong to a nation which has sheltered the persecuted and the (5) _____ of all religions and all nations of the earth."

SubQuestion No : 22

Q.22 Select the most appropriate option to fill in blank number 2.

Ans

✗ 1. also

✓ 2. and

✗ 3. as well as

✗ 4. or

Question Type : **MCQ**
Question ID : **264330134781**
Option 1 ID : **264330528067**
Option 2 ID : **264330528068**
Option 3 ID : **264330528070**
Option 4 ID : **264330528069**
Status : **Answered**
Chosen Option : **2**

Join Telegram Group "HaryanaJobs.in"

Comprehension:

In the following passage some of the words have been deleted. Read the passage carefully and select the correct answer for the given blank out of the four alternatives.

"I am proud to (1) _____ to a religion which has taught the world both tolerance (2) _____ universal acceptance," he declared (3) _____ September 11, 1893. "We believe not only in universal toleration, (4) _____ we accept all religions as true. I am proud to belong to a nation which has sheltered the persecuted and the (5) _____ of all religions and all nations of the earth."

SubQuestion No : 23

Q.23 Select the most appropriate option to fill in blank number 3.

Ans

✔ 1. on

✘ 2. upon

✘ 3. in

✘ 4. at

Question Type : **MCQ**
Question ID : **264330134782**
Option 1 ID : **264330528073**
Option 2 ID : **264330528072**
Option 3 ID : **264330528074**
Option 4 ID : **264330528071**
Status : **Answered**
Chosen Option : **1**

Comprehension:

In the following passage some of the words have been deleted. Read the passage carefully and select the correct answer for the given blank out of the four alternatives.

"I am proud to (1) _____ to a religion which has taught the world both tolerance (2) _____ universal acceptance," he declared (3) _____ September 11, 1893. "We believe not only in universal toleration, (4) _____ we accept all religions as true. I am proud to belong to a nation which has sheltered the persecuted and the (5) _____ of all religions and all nations of the earth."

SubQuestion No : 24

Q.24 Select the most appropriate option to fill in blank number 4.

Ans

✘ 1. yet

✘ 2. though

✘ 3. and

✔ 4. but

Question Type : **MCQ**
Question ID : **264330134783**
Option 1 ID : **264330528077**
Option 2 ID : **264330528075**
Option 3 ID : **264330528078**
Option 4 ID : **264330528076**
Status : **Answered**
Chosen Option : **2**

Join Telegram Group "HaryanaJobs.in"

Comprehension:

In the following passage some of the words have been deleted. Read the passage carefully and select the correct answer for the given blank out of the four alternatives.

"I am proud to (1) _____ to a religion which has taught the world both tolerance (2) _____ universal acceptance," he declared (3) _____ September 11, 1893. "We believe not only in universal toleration, (4) _____ we accept all religions as true. I am proud to belong to a nation which has sheltered the persecuted and the (5) _____ of all religions and all nations of the earth."

SubQuestion No : 25

Q.25 Select the most appropriate option to fill in blank number 5.

Ans

✗ 1. workers

✓ 2. refugees

✗ 3. peons

✗ 4. toilers

Question Type : **MCQ**
Question ID : **264330134784**
Option 1 ID : **264330528079**
Option 2 ID : **264330528081**
Option 3 ID : **264330528080**
Option 4 ID : **264330528082**
Status : **Answered**
Chosen Option : **2**

Join Telegram Group "HaryanaJobs.in"

Multi Tasking Non Technical Staff and Havaldar CBIC and CBN Examination 2022

Roll Number	HaryanaJobs.in
Candidate Name	HaryanaJobs.in
Venue Name	Maa Santoshi Computers Pvt. Ltd.
Exam Date	04/05/2023
Exam Time	3:30 PM - 5:00 PM
Subject	MTS Non Tech Havaldar CBIC and CBN Examination 2022

Section : **Numerical and Mathematical Ability**

Q.1 एक आदमी ने Rs.2200 में एक पुराना प्रिंटर खरीदा और उसकी मरम्मत पर Rs.800 खर्च किए। उसने इसे Rs.3600 में बेच दिया। उसका लाभ प्रतिशत ज्ञात कीजिए।

Ans

✔ 1. 20%

✘ 2. 30%

✘ 3. 25%

✘ 4. 15%

Question Type : **MCQ**
Question ID : **264330141018**
Option 1 ID : **264330552421**
Option 2 ID : **264330552420**
Option 3 ID : **264330552422**
Option 4 ID : **264330552419**
Status : **Answered**
Chosen Option : **1**

Q.2 एक हवाई जहाज 400 km/hr की चाल से एक निश्चित दूरी 8 घंटे में तय करता है। समान दूरी को 5 घंटे में तय करने के लिए हवाई जहाज की चाल कितनी होनी चाहिए?

Ans

✘ 1. 580 km/hr

✘ 2. 680 km/hr

✔ 3. 640 km/hr

✘ 4. 600 km/hr

Question Type : **MCQ**
Question ID : **264330138713**
Option 1 ID : **264330543459**
Option 2 ID : **264330543462**
Option 3 ID : **264330543461**
Option 4 ID : **264330543460**
Status : **Answered**
Chosen Option : **3**

Join Telegram Group "HaryanaJobs.in"

Q.3 एक विद्यालय के छात्रावास में 90 छात्रों की दूध की मासिक खपत 183 लीटर है। यदि दूध का मासिक राशन बढ़ाकर 915 लीटर कर दिया जाए, तो छात्रावास में कितने छात्रों को ठहराया जा सकता है? (यह मानते हुए कि प्रति व्यक्ति दूध की खपत वही रहती है)

Ans
1. 550
2. 450
3. 250
4. 350

Question Type : **MCQ**
Question ID : **264330138710**
Option 1 ID : **264330543450**
Option 2 ID : **264330543448**
Option 3 ID : **264330543449**
Option 4 ID : **264330543447**
Status : **Answered**
Chosen Option : **2**

Q.4 निम्नलिखित दंड आलेख में एक कक्षा के 30 छात्रों के जन्मदिन के महीनों को दर्शाया गया है।
कितने छात्रों का जन्मदिन जुलाई-नवंबर के दौरान आता है?

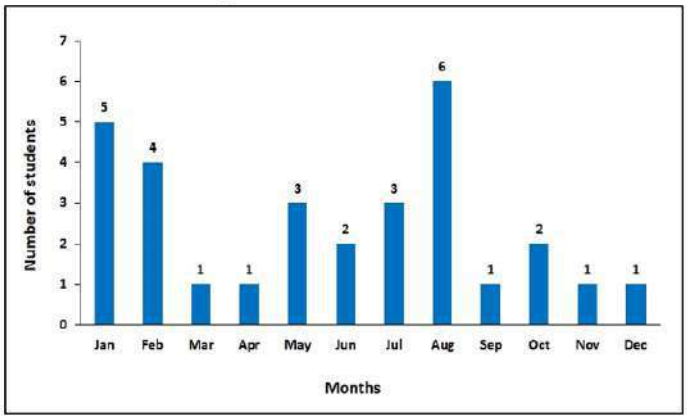

Number of students - छात्रों की संख्या, Months - महीने, Jan - जनवरी, Feb - फरवरी,
Mar - मार्च, Apr - अप्रैल, May -मई, Jun - जून, Jul - जुलाई, Aug - अगस्त, Sep - सितम्बर
Oct - अक्टूबर, Nov - नवंबर, Dec - दिसंबर

Ans
1. 8
2. 13
3. 10
4. 15

Question Type : **MCQ**
Question ID : **264330138717**
Option 1 ID : **264330543475**
Option 2 ID : **264330543477**
Option 3 ID : **264330543476**
Option 4 ID : **264330543478**
Status : **Answered**
Chosen Option : **2**

Join Telegram Group "HaryanaJobs.in"

Q.5 एक वस्तु के मूल्य में 5% की वृद्धि करने पर, उसकी बिक्री 10% घट जाती है। मुनाफे पर निवल प्रभाव कितना था?

Ans
1. 5% की कमी ✗
2. 5.5% की कमी ✓
3. 5% की वृद्धि ✗
4. 5.5% की वृद्धि ✗

Question Type : **MCQ**
Question ID : **264330138705**
Option 1 ID : **264330543430**
Option 2 ID : **264330543429**
Option 3 ID : **264330543427**
Option 4 ID : **264330543428**
Status : **Answered**
Chosen Option : **2**

Q.6 यदि 8 आदमी प्रतिदिन 8 घंटे काम करके 8 दिनों में 64 कुर्सियाँ बनाते हैं, तो 4 आदमी प्रतिदिन 4 घंटे काम करके 4 दिनों में कितनी कुर्सियाँ बनाएंगे?

Ans
1. 12 ✗
2. 6 ✗
3. 8 ✓
4. 10 ✗

Question Type : **MCQ**
Question ID : **264330137645**
Option 1 ID : **264330539188**
Option 2 ID : **264330539189**
Option 3 ID : **264330539187**
Option 4 ID : **264330539190**
Status : **Answered**
Chosen Option : **3**

Q.7 20 cm त्रिज्या और 34 cm ऊँचाई वाले बेलन का वक्र पृष्ठीय क्षेत्रफल क्या होगा? (π = 3.14 का प्रयोग करें)

Ans
1. 4320.6 cm^2 ✗
2. 4328.98 cm^2 ✗
3. 4270.4 cm^2 ✓
4. 3245.7 cm^2 ✗

Question Type : **MCQ**
Question ID : **264330133755**
Option 1 ID : **264330524044**
Option 2 ID : **264330524046**
Option 3 ID : **264330524043**
Option 4 ID : **264330524045**
Status : **Answered**
Chosen Option : **3**

Join Telegram Group "HaryanaJobs.in"

Q.8 एक समानुपात के प्रथम, तृतीय और चतुर्थ पद क्रमशः 8, 16 और 6 है। द्वितीय पद क्या है?

Ans
1. 3 ✓
2. 6 ✗
3. 8 ✗
4. 12 ✗

Question Type : **MCQ**
Question ID : **264330138709**
Option 1 ID : **264330543445**
Option 2 ID : **264330543446**
Option 3 ID : **264330543443**
Option 4 ID : **264330543444**
Status : **Answered**
Chosen Option : **1**

Q.9 $\frac{156}{13} \times \frac{147}{24} \times \frac{8}{49}$ of $\frac{24}{144}$ का मान क्या है?

Ans
1. 6 ✗
2. 12 ✗
3. 18 ✗
4. 2 ✓

Question Type : **MCQ**
Question ID : **264330137890**
Option 1 ID : **264330540168**
Option 2 ID : **264330540169**
Option 3 ID : **264330540170**
Option 4 ID : **264330540167**
Status : **Answered**
Chosen Option : **4**

Q.10 प्रिया ने 12% वार्षिक दर पर एक निश्चित धनराशि ऋण पर ली। यदि उसने 2 वर्षों के अंत में वार्षिक रूप से संयोजित ब्याज के रूप में Rs.10176 की राशि का भुगतान किया, तो उसके द्वारा ऋण पर ली गई धनराशि कितनी थी?

Ans
1. Rs. 50000 ✗
2. Rs. 30000 ✗
3. Rs. 40000 ✓
4. Rs. 20000 ✗

Question Type : **MCQ**
Question ID : **264330138712**
Option 1 ID : **264330543455**
Option 2 ID : **264330543457**
Option 3 ID : **264330543456**
Option 4 ID : **264330543458**
Status : **Answered**
Chosen Option : **3**

Join Telegram Group "HaryanaJobs.in"

Q.11 एक व्यक्ति ने एक वस्तु को Rs. 33750 में बेचा और उसे 25% की हानि हुई। 25% का लाभ अर्जित करने के लिए उसे वस्तु को किस मूल्य पर बेचना चाहिए?

Ans

1. ✗ Rs. 40850
2. ✓ Rs. 56250
3. ✗ Rs. 45000
4. ✗ Rs. 52450

Question Type : **MCQ**
Question ID : **264330138707**
Option 1 ID : **264330543437**
Option 2 ID : **264330543436**
Option 3 ID : **264330543435**
Option 4 ID : **264330543438**
Status : **Answered**
Chosen Option : **2**

Q.12 एक ठोस बेलन, जिसकी आधार की त्रिज्या 21 cm और ऊँचाई 16 cm है, को इसकी ऊँचाई से समद्विभाजित करके दो समरूप बेलन प्राप्त किए जाते हैं। कुल पृष्ठीय क्षेत्रफल में कितने प्रतिशत की वृद्धि होगी?

Ans

1. ✗ 62.34 प्रतिशत
2. ✓ 56.76 प्रतिशत
3. ✗ 48.88 प्रतिशत
4. ✗ 42.52 प्रतिशत

Question Type : **MCQ**
Question ID : **264330137658**
Option 1 ID : **264330539242**
Option 2 ID : **264330539241**
Option 3 ID : **264330539240**
Option 4 ID : **264330539239**
Status : **Not Answered**
Chosen Option : **--**

Q.13 $34 - [28 - \{12 - (8 - 2 - 3)\}]$ को सरल कीजिए।

Ans

1. ✗ 34
2. ✗ 28
3. ✓ 15
4. ✗ 19

Question Type : **MCQ**
Question ID : **264330138699**
Option 1 ID : **264330543405**
Option 2 ID : **264330543406**
Option 3 ID : **264330543404**
Option 4 ID : **264330543403**
Status : **Answered**
Chosen Option : **3**

Join Telegram Group "HaryanaJobs.in"

Q.14 एक कार पहले घंटे में 80 km और दूसरे घंटे में 70 km की यात्रा करती है। कार की औसत चाल क्या है?

Ans
✔ 1. 75 km/hr
✘ 2. 100 km/hr
✘ 3. 150 km/hr
✘ 4. 80 km/hr

Question Type : **MCQ**
Question ID : **264330141002**
Option 1 ID : **264330552358**
Option 2 ID : **264330552356**
Option 3 ID : **264330552355**
Option 4 ID : **264330552357**
Status : **Answered**
Chosen Option : **1**

Q.15 Rs. 600 की धनराशि पर 3% वार्षिक दर पर साधारण ब्याज के रूप में Rs. 54 प्राप्त करने में कितना समय लगेगा?

Ans
✘ 1. 1 वर्ष
✘ 2. 4 वर्ष
✘ 3. 2 वर्ष
✔ 4. 3 वर्ष

Question Type : **MCQ**
Question ID : **264330133826**
Option 1 ID : **264330524327**
Option 2 ID : **264330524330**
Option 3 ID : **264330524328**
Option 4 ID : **264330524329**
Status : **Answered**
Chosen Option : **4**

Q.16 56 ÷ 8 × 3 + 30 - 25 ÷ 5 + 10 का मान ज्ञात कीजिए।

Ans
✔ 1. 56
✘ 2. 54
✘ 3. 50
✘ 4. 48

Question Type : **MCQ**
Question ID : **264330138391**
Option 1 ID : **264330542174**
Option 2 ID : **264330542171**
Option 3 ID : **264330542172**
Option 4 ID : **264330542173**
Status : **Answered**
Chosen Option : **1**

Join Telegram Group "HaryanaJobs.in"

Q.17 एक सौदे में, कार विक्रेता ने एक ग्राहक को 1% का बट्टा दिया। यदि दिया जा रहा बट्टा Rs. 4000 था, तो कार का विक्रय मूल्य क्या है?

Ans
1. Rs. 395600
2. Rs. 388500
3. Rs. 396000
4. Rs. 380500

Question Type : **MCQ**
Question ID : **264330138708**
Option 1 ID : **264330543440**
Option 2 ID : **264330543441**
Option 3 ID : **264330543442**
Option 4 ID : **264330543439**
Status : **Answered**
Chosen Option : **3**

Q.18 निम्नलिखित तालिका में सोमवार, मंगलवार और बुधवार को विभिन्न वाहनों द्वारा तय की गई दूरी को (km में) दर्शाया गया है। वाहन A द्वारा तय की गई कुल दूरी ज्ञात कीजिए।

Vehicle	Monday	Tuesday	Wednesday
A	100	274	320
B	210	330	410
C	140	450	500
D	220	156	180
E	242	188	190

Vehicle - वाहन, Monday - सोमवार, Tuesday - मंगलवार, Wednesday - बुधवार

Ans
1. 880 km
2. 694 km
3. 710 km
4. 688 km

Question Type : **MCQ**
Question ID : **264330138407**
Option 1 ID : **264330542238**
Option 2 ID : **264330542236**
Option 3 ID : **264330542235**
Option 4 ID : **264330542237**
Status : **Answered**
Chosen Option : **2**

Join Telegram Group "HaryanaJobs.in"

Q.19 रिया अकेले किसी कार्य को 6 दिनों में पूरा कर सकती है जबकि सिया अकेले उसी कार्य को 9 दिनों में कर सकती है। यदि वे दोनों एक साथ मिलकर कार्य करती हैं, तो कार्य को पूरा होने में कितने दिन लगेंगे?

Ans

✔ 1. 18/5 दिन

✗ 2. 45/13 दिन

✗ 3. 33/17 दिन

✗ 4. 55/16 दिन

Question Type : **MCQ**
Question ID : **264330133750**
Option 1 ID : **264330524023**
Option 2 ID : **264330524026**
Option 3 ID : **264330524025**
Option 4 ID : **264330524024**
Status : **Answered**
Chosen Option : **1**

Q.20 यदि 40 kg भार वाले एक लड़के के स्थान पर एक नए लड़के को समूह में शामिल करने पर 10 लड़कों के औसत भार में 3 kg की वृद्धि हो जाती है, तो नए लड़के का भार है:

Ans

✗ 1. 45 kg

✗ 2. 40 kg

✗ 3. 80 kg

✔ 4. 70 kg

Question Type : **MCQ**
Question ID : **264330138702**
Option 1 ID : **264330543418**
Option 2 ID : **264330543415**
Option 3 ID : **264330543416**
Option 4 ID : **264330543417**
Status : **Answered**
Chosen Option : **4**

Section : **Reasoning Ability and Problem Solving**

Q.1 छः बाइक T1, T2, T3, T4, T5 और T6 की चाल की तुलना की जाती है। T6 की चाल केवल तीन बाइक से अधिक है। कोई भी दो बाइक की चाल समान नहीं है। T4 की चाल T2 से अधिक लेकिन T6 से कम है। T3 की चाल T5 से कम नहीं है। T2 और T5 की चाल सबसे कम नहीं है। कितनी बाइक की चाल T3 से कम है?

Ans

✗ 1. 0

✔ 2. 5

✗ 3. 1

✗ 4. 3

Question Type : **MCQ**
Question ID : **264330138570**
Option 1 ID : **264330542888**
Option 2 ID : **264330542887**
Option 3 ID : **264330542889**
Option 4 ID : **264330542890**
Status : **Answered**
Chosen Option : **2**

Join Telegram Group "HaryanaJobs.in"

Q.2 एक निश्चित कूट भाषा में, 'BADAM' को '69760' लिखा जाता है, 'JBDN' को '0849' लिखा जाता है, 'CANDY' को '39654' लिखा जाता है। उस कूट भाषा में 'B' को कैसे लिखा जाएगा?

Ans
1. 9
2. 6
3. 0
4. 4

Question Type : **MCQ**
Question ID : **264330135620**
Option 1 ID : **264330531381**
Option 2 ID : **264330531382**
Option 3 ID : **264330531380**
Option 4 ID : **264330531379**
Status : **Answered**
Chosen Option : **3**

Q.3 किन दो चिन्हों को आपस में बदलने पर, दिए गए समीकरण का मान '1' होगा?

12 × 6 - 28 + 3 ÷ 9

Ans
1. ÷ और ×
2. + और -
3. × और -
4. × और +

Question Type : **MCQ**
Question ID : **264330138577**
Option 1 ID : **264330542917**
Option 2 ID : **264330542916**
Option 3 ID : **264330542915**
Option 4 ID : **264330542918**
Status : **Answered**
Chosen Option : **1**

Q.4 उस विकल्प को चुनिए जिसमें समुच्चय की संख्याएँ वही संबंध साझा करती हैं जो दिए गए समुच्चय में संख्याओं द्वारा साझा किया जाता है। (ध्यान दें: संख्याओं को उनके घटक अंकों में अलग-अलग किए बिना, पूर्ण संख्याओं पर संक्रियाएँ की जानी चाहिए। उदा. 13 - 13 पर संक्रियाएँ जैसे 13 को जोड़ना /घटाना /गुणा करना आदि किया जा सकता है। 13 को 1 और 3 में अलग-अलग करने और फिर 1 और 3 पर गणितीय संक्रियाएँ करने की अनुमति नहीं है)

(4, 64, 4)

(5, 100, 5)

Ans
1. (25, 100, 4)
2. (10, 200, 10)
3. (6, 196, 6)
4. (8, 256, 8)

Question Type : **MCQ**
Question ID : **264330138576**
Option 1 ID : **264330542914**
Option 2 ID : **264330542913**
Option 3 ID : **264330542911**
Option 4 ID : **264330542912**
Status : **Answered**
Chosen Option : **4**

Join Telegram Group "HaryanaJobs.in"

Q.5 निम्नलिखित प्रश्न में, दी गई श्रृंखला में लुप्त संख्या को चुनिए ।

164, 139, 114, 89, 64,?

Ans
1. 49
2. 40
3. 29
4. 39

Question Type : **MCQ**
Question ID : **264330138573**
Option 1 ID : **264330542902**
Option 2 ID : **264330542899**
Option 3 ID : **264330542901**
Option 4 ID : **264330542900**
Status : **Answered**
Chosen Option : **4**

Q.6 एक श्रृंखला दी गई है जिसमें एक पद लुप्त है। दिए गए विकल्पों में से उस सही विकल्प को चुनिए जो श्रृंखला को पूरा करेगा।

TABC, QCYE, NEVG, KGSI,?

Ans
1. HIPK
2. HJPL
3. GIPK
4. HIQK

Question Type : **MCQ**
Question ID : **264330138561**
Option 1 ID : **264330542852**
Option 2 ID : **264330542853**
Option 3 ID : **264330542851**
Option 4 ID : **264330542854**
Status : **Answered**
Chosen Option : **1**

Q.7 उस विकल्प को चुनिए जो चौथे पद से ठीक उसी प्रकार संबंधित है जिस प्रकार पहला पद दूसरे पद से संबंधित है और पाँचवाँ पद छठे पद से संबंधित है।

ARB : ZPY :: ? : XVD :: PIN : LGN

Ans
1. EXZ
2. FXZ
3. FYZ
4. EYZ

Question Type : **MCQ**
Question ID : **264330138563**
Option 1 ID : **264330542860**
Option 2 ID : **264330542859**
Option 3 ID : **264330542861**
Option 4 ID : **264330542862**
Status : **Answered**
Chosen Option : **2**

Join Telegram Group "HaryanaJobs.in"

Q.8 यदि एक दर्पण को रेखा AB पर रखा जाए, तो दी गई विकल्प आकृतियों में से कौन-सी आकृति प्रश्न आकृति का सही प्रतिबिम्ब होगी?

Ans

✔ 1.

✘ 2.

✘ 3.

✘ 4.

Question Type : **MCQ**
Question ID : **264330138517**
Option 1 ID : **264330542677**
Option 2 ID : **264330542678**
Option 3 ID : **264330542676**
Option 4 ID : **264330542675**
Status : **Answered**
Chosen Option : **1**

Q.9 एक निश्चित कूट भाषा में, 'FOUR' को '6PV18' लिखा जाता है। उस कूट भाषा में 'DARK' को कैसे लिखा जाएगा?

Ans

✔ 1. 4BS11

✘ 2. 4B1S1

✘ 3. 4SB11

✘ 4. 4BS12

Question Type : **MCQ**
Question ID : **264330138812**
Option 1 ID : **264330543856**
Option 2 ID : **264330543855**
Option 3 ID : **264330543858**
Option 4 ID : **264330543857**
Status : **Answered**
Chosen Option : **1**

Join Telegram Group "HaryanaJobs.in"

Q.10 आठ शिक्षक अनिल, कमल, राम, संजय, आकाश, विवेक, राहुल और रामू एक वृत्ताकार मेज के चारों ओर केंद्र की ओर मुख करके बैठे हैं(परंतु जरूरी नहीं कि वे इसी क्रम में बैठें हों)। रामू, राम के बाईं ओर से तीसरे स्थान पर है। विवेक, राम के दाईं ओर से तीसरे स्थान पर है। आकाश, अनिल के ठीक दाईं ओर है। संजय, राम या रामू का निकटतम पड़ोसी नहीं है। राहुल, अनिल के बाईं ओर से दूसरे स्थान पर है। कमल के बाईं ओर से दूसरे स्थान पर कौन है?

Ans

✗ 1. राम

✗ 2. राहुल

✓ 3. आकाश

✗ 4. रामू

Question Type : **MCQ**
Question ID : **264330138569**
Option 1 ID : **264330542886**
Option 2 ID : **264330542884**
Option 3 ID : **264330542883**
Option 4 ID : **264330542885**
Status : **Answered**
Chosen Option : **3**

Q.11 एक निश्चित कूट भाषा में, 'PROFIT' को 'VIHOTP' लिखा जाता है। उस कूट भाषा में 'RACING' को कैसे लिखा जाएगा?

Ans

✗ 1. INKCRC

✓ 2. INKCCR

✗ 3. ILNCCR

✗ 4. INKRCC

Question Type : **MCQ**
Question ID : **264330135599**
Option 1 ID : **264330531295**
Option 2 ID : **264330531297**
Option 3 ID : **264330531296**
Option 4 ID : **264330531298**
Status : **Answered**
Chosen Option : **2**

Join Telegram Group "HaryanaJobs.in"

Q.12 निम्नलिखित प्रश्न में कुछ कथन दिए गए हैं और उन कथनों के आधार पर कुछ निष्कर्ष दिए गए हैं। आपको मानना है कि दिए गए कथन सत्य हैं चाहे वे समान्यतः ज्ञात तथ्यों से अलग प्रतीत होते हों। सभी निष्कर्षों को पढ़िए और फिर निश्चय कीजिए कि दिए गए निष्कर्षों में से कौन-सा निष्कर्ष तार्किक रूप से दिए गए कथनों के अनुसार है।

कथन:

I. कुछ L, M हैं।

II. सभी G, M हैं।

निष्कर्ष:

I. कोई भी G, L नहीं है।

II. कोई भी M, L नहीं है।

III. कुछ M, G हैं।

Ans

1. दोनों निष्कर्ष I और III कथनों के अनुसार हैं
2. केवल निष्कर्ष III कथनों के अनुसार है
3. केवल निष्कर्ष II कथनों के अनुसार है
4. दोनों निष्कर्ष I और II कथनों के अनुसार हैं

Question Type : **MCQ**
Question ID : **264330138572**
Option 1 ID : **264330542897**
Option 2 ID : **264330542896**
Option 3 ID : **264330542895**
Option 4 ID : **264330542898**
Status : **Answered**
Chosen Option : **2**

Q.13 दिए गए समीकरण को सही करने के लिए किन दो चिन्हों को आपस में बदला जाना चाहिए?
8 + 9 ÷ 5 × 4 - 2 = 7

Ans

1. - और =
2. + और -
3. ÷ और -
4. = और +

Question Type : **MCQ**
Question ID : **264330133542**
Option 1 ID : **264330523200**
Option 2 ID : **264330523202**
Option 3 ID : **264330523199**
Option 4 ID : **264330523201**
Status : **Answered**
Chosen Option : **3**

Join Telegram Group "HaryanaJobs.in"

Q.14 उस विकल्प को चुनिए जो पाँचवें पद से ठीक उसी प्रकार संबंधित है जिस प्रकार दूसरा पद पहले पद से संबंधित है और चौथा पद तीसरे पद से संबंधित है।

TR4 : XC64 :: AC3 : EN27 :: FP6 :?

Ans

✔ 1. JA216

✘ 2. JB125

✘ 3. JA125

✘ 4. JB216

Question Type : **MCQ**
Question ID : **264330138564**
Option 1 ID : **264330542865**
Option 2 ID : **264330542863**
Option 3 ID : **264330542864**
Option 4 ID : **264330542866**
Status : **Answered**
Chosen Option : **1**

Q.15 निम्नलिखित प्रश्न में कुछ कथन दिए गए हैं और उन कथनों के आधार पर कुछ निष्कर्ष दिए गए हैं। आपको मानना है कि दिए गए कथन सत्य हैं चाहे वे समान्यतः ज्ञात तथ्यों से अलग प्रतीत होते हों। सभी निष्कर्षों को पढ़िए और फिर निश्चय कीजिए कि दिए गए निष्कर्षों में से कौन-सा निष्कर्ष तार्किक रूप से दिए गए कथनों के अनुसार है।

कथन:

I. सभी B, V हैं।

II. सभी K, B हैं।

निष्कर्ष:

I. सभी K, V हैं।

II. कोई भी V, B नहीं है।

Ans

✔ 1. केवल निष्कर्ष I कथनों के अनुसार है

✘ 2. केवल निष्कर्ष II कथनों के अनुसार है

✘ 3. दोनों निष्कर्ष I और II कथनों के अनुसार हैं

✘ 4. कोई भी निष्कर्ष कथनों के अनुसार नहीं है

Question Type : **MCQ**
Question ID : **264330138571**
Option 1 ID : **264330542891**
Option 2 ID : **264330542892**
Option 3 ID : **264330542893**
Option 4 ID : **264330542894**
Status : **Answered**
Chosen Option : **1**

Join Telegram Group "HaryanaJobs.in"

Q.16 कौन-सी उत्तर आकृति प्रश्न आकृति में दिए गए पैटर्न को पूरा करेगी?

Ans

✔ 1.

✘ 2.

✘ 3.

✘ 4.

Question Type : **MCQ**
Question ID : **264330138581**
Option 1 ID : **264330542931**
Option 2 ID : **264330542933**
Option 3 ID : **264330542932**
Option 4 ID : **264330542934**
Status : **Answered**
Chosen Option : **1**

Q.17 निम्नलिखित प्रश्न में, दी गई श्रृंखला में लुप्त संख्या को चुनिए ।

25, 23, 19, 11, -5, ?

Ans
✘ 1. -50
✘ 2. -30
✘ 3. -40
✔ 4. -37

Question Type : **MCQ**
Question ID : **264330138574**
Option 1 ID : **264330542906**
Option 2 ID : **264330542903**
Option 3 ID : **264330542904**
Option 4 ID : **264330542905**
Status : **Answered**
Chosen Option : **4**

Join Telegram Group "HaryanaJobs.in"

Q.18 उस विकल्प आकृति को चुनिए जिसमें दी गई आकृति निहित है।(घूर्णन की अनुमति नहीं है)

Ans

1.

2.

3.

4.

Question Type : **MCQ**
Question ID : **264330138516**
Option 1 ID : **264330542674**
Option 2 ID : **264330542672**
Option 3 ID : **264330542673**
Option 4 ID : **264330542671**
Status : **Answered**
Chosen Option : **3**

Q.19 उस विकल्प को चुनिए जो पाँचवीं संख्या से ठीक उसी प्रकार संबंधित है जिस प्रकार दूसरी संख्या पहली संख्या से संबंधित है और चौथी संख्या तीसरी संख्या से संबंधित है।

7 : 125 :: 8 : 216 :: 9 :?

Ans

1. 755
2. 824
3. 729
4. 343

Question Type : **MCQ**
Question ID : **264330138575**
Option 1 ID : **264330542909**
Option 2 ID : **264330542910**
Option 3 ID : **264330542907**
Option 4 ID : **264330542908**
Status : **Answered**
Chosen Option : **4**

Join Telegram Group "HaryanaJobs.in"

Q.20 छः शिक्षक अनिल, कमल, राम, संजय, आकाश और विवेक एक वृत्ताकार मेज के चारों ओर केंद्र की ओर मुख करके बैठे हैं(परंतु जरूरी नहीं कि वे इसी क्रम में बैठे हों)। राम, विवेक के दाईं ओर से तीसरे स्थान पर है। विवेक, अनिल के दाईं ओर से दूसरे स्थान पर है। आकाश, अनिल के ठीक दाईं ओर है। कमल, विवेक का निकटतम पड़ोसी नहीं है। संजय के बाईं ओर से दूसरे स्थान पर कौन है?

Ans
✔ 1. आकाश
✘ 2. कमल
✘ 3. अनिल
✘ 4. राम

Question Type : **MCQ**
Question ID : **264330138568**
Option 1 ID : **264330542879**
Option 2 ID : **264330542881**
Option 3 ID : **264330542880**
Option 4 ID : **264330542882**
Status : **Answered**
Chosen Option : **1**

Section : **General Awareness**

Q.1 शिंजो आबे (Shinzo Abe), जिनका हाल ही में निधन हो गया, _____ के प्रधानमंत्री के पद पर रह चुके हैं।

Ans
✘ 1. दक्षिण कोरिया
✘ 2. उत्तर कोरिया
✘ 3. थाईलैंड
✔ 4. जापान

Question Type : **MCQ**
Question ID : **264330138632**
Option 1 ID : **264330543135**
Option 2 ID : **264330543136**
Option 3 ID : **264330543137**
Option 4 ID : **264330543138**
Status : **Answered**
Chosen Option : **4**

Q.2 भारत में "कृषि जनगणना" _____ के अंतराल पर आयोजित की जाती है।

Ans
✘ 1. चार वर्ष
✘ 2. छः वर्ष
✔ 3. पाँच वर्ष
✘ 4. दस वर्ष

Question Type : **MCQ**
Question ID : **264330138633**
Option 1 ID : **264330543139**
Option 2 ID : **264330543141**
Option 3 ID : **264330543140**
Option 4 ID : **264330543142**
Status : **Answered**
Chosen Option : **3**

Join Telegram Group "HaryanaJobs.in"

Q.3 निम्न में से कौन-सा प्रसिद्ध उपन्यास भारतीय लेखक आर. के. नारायण (R. K. Narayan) द्वारा लिखा गया है?

Ans
1. द सूटेबल बॉय (The Suitable boy)
2. हाफ गर्लफ्रेंड (Half Girlfriend)
3. द डार्क रूम (The dark room)
4. अनअकस्टम्ड अर्थ (Unaccustomed Earth)

Question Type : **MCQ**
Question ID : **264330135476**
Option 1 ID : **264330530814**
Option 2 ID : **264330530813**
Option 3 ID : **264330530811**
Option 4 ID : **264330530812**
Status : **Answered**
Chosen Option : **3**

Q.4 राष्ट्रीय जलमार्ग 2 (NW 2) _____ नदी का सदिया-धुबरी खंड है।

Ans
1. ब्रह्मपुत्र
2. गंगा
3. कृष्णा
4. सोन

Question Type : **MCQ**
Question ID : **264330135468**
Option 1 ID : **264330530780**
Option 2 ID : **264330530781**
Option 3 ID : **264330530782**
Option 4 ID : **264330530779**
Status : **Answered**
Chosen Option : **1**

Q.5 बैडमिंटन में, डबल्स कोर्ट की लंबाई और चौड़ाई _____ होनी चाहिए।

Ans
1. 12.20 m × 6.20 m
2. 13.40 m × 6.10 m
3. 13.20 m × 6.50 m
4. 13.40 m × 5.20 m

Question Type : **MCQ**
Question ID : **264330138627**
Option 1 ID : **264330543117**
Option 2 ID : **264330543116**
Option 3 ID : **264330543115**
Option 4 ID : **264330543118**
Status : **Not Answered**
Chosen Option : **--**

Join Telegram Group "HaryanaJobs.in"

Q.6 भारतीय संविधान का भाग IV _____ का प्रावधान करता है।

Ans
1. मौलिक कर्तव्यों
2. राज्य के नीति निदेशक तत्वों
3. मौलिक अधिकारों
4. संघ कार्यकारी

Question Type : **MCQ**
Question ID : **264330138636**
Option 1 ID : **264330543154**
Option 2 ID : **264330543153**
Option 3 ID : **264330543151**
Option 4 ID : **264330543152**
Status : **Answered**
Chosen Option : **2**

Q.7 निम्नलिखित में से कौन-सा तैराकी प्रतियोगिता का एक मान्य स्ट्रोक (stroke) नहीं है?

Ans
1. बैक स्ट्रोक (Back stroke)
2. फ्रंट स्ट्रोक (Front stroke)
3. ब्रेस्ट स्ट्रोक (Breast stroke)
4. लेग स्ट्रोक (Leg stroke)

Question Type : **MCQ**
Question ID : **264330138628**
Option 1 ID : **264330543120**
Option 2 ID : **264330543119**
Option 3 ID : **264330543121**
Option 4 ID : **264330543122**
Status : **Answered**
Chosen Option : **1**

Q.8 कौन-सा समुदाय नवरोज़ या नौरोज़ का त्योहार नव वर्ष के रूप में मनाता है?

Ans
1. बौद्ध
2. जैन
3. सिंधी
4. पारसी

Question Type : **MCQ**
Question ID : **264330138272**
Option 1 ID : **264330541697**
Option 2 ID : **264330541696**
Option 3 ID : **264330541698**
Option 4 ID : **264330541695**
Status : **Answered**
Chosen Option : **2**

Join Telegram Group "HaryanaJobs.in"

Q.9 पृथ्वीराज तृतीय ने सन् _____ में अफगान शासक सुल्तान मुहम्मद गोरी को हराया था।

Ans
1. 1192
2. 1291
3. 1292
4. 1191

Question Type : **MCQ**
Question ID : **264330138646**
Option 1 ID : **264330543192**
Option 2 ID : **264330543193**
Option 3 ID : **264330543194**
Option 4 ID : **264330543191**
Status : **Answered**
Chosen Option : **1**

Q.10 नाटी (Nati) निम्नलिखित में से किस राज्य का एक लोकनृत्य है?

Ans
1. अरुणाचल प्रदेश
2. हिमाचल प्रदेश
3. आंध्रप्रदेश
4. मध्यप्रदेश

Question Type : **MCQ**
Question ID : **264330138624**
Option 1 ID : **264330543104**
Option 2 ID : **264330543105**
Option 3 ID : **264330543106**
Option 4 ID : **264330543103**
Status : **Answered**
Chosen Option : **1**

Q.11 पंडित किशन महाराज एक प्रसिद्ध भारतीय _____ वादक थे।

Ans
1. सारंगी
2. बाँसुरी
3. तबला
4. सितार

Question Type : **MCQ**
Question ID : **264330138630**
Option 1 ID : **264330543129**
Option 2 ID : **264330543130**
Option 3 ID : **264330543128**
Option 4 ID : **264330543127**
Status : **Not Answered**
Chosen Option : **--**

Join Telegram Group "HaryanaJobs.in"

Q.12 राष्ट्रीय आय लेखांकन में, GVA का अर्थ _____ है।

Ans
1. जनरल विजिटेड अकाउंट (General visited account)
2. ग्रोस वैल्यू अकाउंटिंग (Gross value accounting)
3. ग्रॉस वैल्यू एडेड (Gross value added)
4. जनरल वेस्टिंग एडेड (General vesting added)

Question Type : **MCQ**
Question ID : **264330135483**
Option 1 ID : **264330530839**
Option 2 ID : **264330530841**
Option 3 ID : **264330530842**
Option 4 ID : **264330530840**
Status : **Answered**
Chosen Option : **3**

Q.13 निम्नलिखित में से किस दशक में भारतीय जनसंख्या की वृद्धि दर ऋणात्मक थी?

Ans
1. 1961 - 1971
2. 1941 - 1951
3. 1911 - 1921
4. 1921 - 1931

Question Type : **MCQ**
Question ID : **264330138890**
Option 1 ID : **264330544170**
Option 2 ID : **264330544169**
Option 3 ID : **264330544167**
Option 4 ID : **264330544168**
Status : **Answered**
Chosen Option : **1**

Q.14 वे जीव जो पादपों द्वारा संश्लेषित भोजन ग्रहण करते हैं, _____ कहलाते हैं।

Ans
1. विषमपोषी
2. स्वपोषी
3. मृतजीवी
4. प्रकाशपोषी

Question Type : **MCQ**
Question ID : **264330138637**
Option 1 ID : **264330543157**
Option 2 ID : **264330543155**
Option 3 ID : **264330543158**
Option 4 ID : **264330543156**
Status : **Answered**
Chosen Option : **1**

Join Telegram Group "HaryanaJobs.in"

Q.15 लोहे पर जिंक की परत चढ़ाने की प्रक्रिया _____ कहलाती है।

Ans
1. निस्यंदन
2. यशद्-लेपन (गैल्वनीकरण)
3. क्रिस्टलीकरण
4. अवसादन

Question Type : **MCQ**
Question ID : **264330138640**
Option 1 ID : **264330543170**
Option 2 ID : **264330543167**
Option 3 ID : **264330543169**
Option 4 ID : **264330543168**
Status : **Answered**
Chosen Option : **2**

Q.16 वायसराय कर्ज़न (Viceroy Curzon) ने _____ में बंगाल का विभाजन किया।

Ans
1. 1901
2. 1903
3. 1905
4. 1907

Question Type : **MCQ**
Question ID : **264330138295**
Option 1 ID : **264330541787**
Option 2 ID : **264330541788**
Option 3 ID : **264330541789**
Option 4 ID : **264330541790**
Status : **Answered**
Chosen Option : **3**

Q.17 पश्चिम बंगाल में, स्थानीय तूफानों को _____ कहा जाता है।

Ans
1. लू (Loo)
2. काल बैशाखी (Kaal Baisakhi)
3. चिनूक (Chinook)
4. आम्र वर्षा (Mango showers)

Question Type : **MCQ**
Question ID : **264330138642**
Option 1 ID : **264330543177**
Option 2 ID : **264330543175**
Option 3 ID : **264330543178**
Option 4 ID : **264330543176**
Status : **Answered**
Chosen Option : **2**

Join Telegram Group "HaryanaJobs.in"

Q.18 2011 की जनगणना के अनुसार, भारत की कुल जनसंख्या की दृष्टि से उत्तर प्रदेश किस स्थान पर है?

Ans
1. दूसरे
2. चौथे
3. पहले
4. तीसरे

Question Type : **MCQ**
Question ID : **264330135470**
Option 1 ID : **264330530788**
Option 2 ID : **264330530790**
Option 3 ID : **264330530787**
Option 4 ID : **264330530789**
Status : **Answered**
Chosen Option : **3**

Q.19 'समृद्धि 2022-23 (SAMRIDDHI 2022-23) (Strengthening & Augmentation of Municipal Revenue for Infrastructure Development in Delhi)' योजना के तहत, लोग आवासीय संपत्तियों के लिए वर्तमान और पिछले _____ वर्षों के लंबित कर की केवल मूल राशि का भुगतान कर सकेंगे।

Ans
1. आठ
2. दस
3. पाँच
4. छः

Question Type : **MCQ**
Question ID : **264330134007**
Option 1 ID : **264330525054**
Option 2 ID : **264330525051**
Option 3 ID : **264330525053**
Option 4 ID : **264330525052**
Status : **Not Answered**
Chosen Option : **--**

Q.20 निम्नलिखित में से क्या कोशिका के तीन मुख्य भागों में से एक नहीं है?

Ans
1. केन्द्रक
2. कोशिका झिल्ली
3. रिक्तिका
4. कोशिका द्रव्य

Question Type : **MCQ**
Question ID : **264330138638**
Option 1 ID : **264330543161**
Option 2 ID : **264330543159**
Option 3 ID : **264330543162**
Option 4 ID : **264330543160**
Status : **Answered**
Chosen Option : **3**

Join Telegram Group "HaryanaJobs.in"

Q.21 निम्नलिखित अधिनियमों में से किस अधिनियम ने भारत में ब्रिटिश सरकार और ईस्ट इंडिया कंपनी द्वारा नियंत्रण की दोहरी व्यवस्था स्थापित की?

Ans
1. चार्टर अधिनियम, 1813
2. पिट्स इंडिया एक्ट (Pitt's India Act), 1784
3. चार्टर अधिनियम, 1793
4. मांटेग्यू-चेम्सफोर्ड सुधार (Montague-Chelmsford Reform) (भारत सरकार अधिनियम), 1919

Question Type : **MCQ**
Question ID : **264330134021**
Option 1 ID : **264330525110**
Option 2 ID : **264330525107**
Option 3 ID : **264330525108**
Option 4 ID : **264330525109**
Status : **Answered**
Chosen Option : **2**

Q.22 जो बल पृथ्वी की सतह पर उत्पन्न होते हैं उन्हें _____ कहते हैं।

Ans
1. अंतर्जनित बल
2. पारंपरिक बल
3. घर्षण बल
4. बहिर्जनिक बल

Question Type : **MCQ**
Question ID : **264330138639**
Option 1 ID : **264330543164**
Option 2 ID : **264330543165**
Option 3 ID : **264330543166**
Option 4 ID : **264330543163**
Status : **Answered**
Chosen Option : **3**

Q.23 वज्जि महाजनपद (Vajji Mahajanapada) की राजधानी क्या थी ?

Ans
1. हस्तिनापुर
2. उज्जैन
3. राजगृह
4. वैशाली

Question Type : **MCQ**
Question ID : **264330138292**
Option 1 ID : **264330541776**
Option 2 ID : **264330541775**
Option 3 ID : **264330541777**
Option 4 ID : **264330541778**
Status : **Answered**
Chosen Option : **4**

Join Telegram Group "HaryanaJobs.in"

Q.24 मल्लिका साराभाई को वर्ष 2010 में भारत सरकार द्वारा प्रतिष्ठित _____ पुरस्कार से सम्मनित किया गया था।

Ans
1. भारत रत्न
2. ज्ञानपीठ
3. पद्म भूषण
4. पद्म विभूषण

Question Type : **MCQ**
Question ID : **264330135478**
Option 1 ID : **264330530821**
Option 2 ID : **264330530822**
Option 3 ID : **264330530820**
Option 4 ID : **264330530819**
Status : **Not Answered**
Chosen Option : **--**

Q.25 तंजौर (तंजावुर) में बृहदेश्वर (Brihadeshwara) मंदिर _____ शासकों द्वारा बनवाया गया था।

Ans
1. चोल
2. सोलंकी
3. चंदेल
4. पल्लव

Question Type : **MCQ**
Question ID : **264330134010**
Option 1 ID : **264330525065**
Option 2 ID : **264330525064**
Option 3 ID : **264330525063**
Option 4 ID : **264330525066**
Status : **Answered**
Chosen Option : **1**

Section : **English Language and Comprehension**

Q.1 Fill in the blank with the most appropriate option.
Don't you be clever with me, boy! I want to know what you're really _____ .

Ans
1. up about
2. in to
3. on to
4. up to

Question Type : **MCQ**
Question ID : **264330136698**
Option 1 ID : **264330535510**
Option 2 ID : **264330535507**
Option 3 ID : **264330535509**
Option 4 ID : **264330535508**
Status : **Answered**
Chosen Option : **1**

Join Telegram Group "HaryanaJobs.in"

Q.2 Fill in the blank with appropriate word.

His place was _____ in the team after he displayed his explosive batting style.

Ans
1. cemented ✓
2. belittled ✗
3. fermented ✗
4. affected ✗

Question Type : **MCQ**
Question ID : **264330136742**
Option 1 ID : **264330535675**
Option 2 ID : **264330535678**
Option 3 ID : **264330535676**
Option 4 ID : **264330535677**
Status : **Answered**
Chosen Option : **1**

Q.3 **Find the part of the given sentence that has an error in it. If there is no error, choose 'No error'.**

Improved policing is vitally but not sufficient.

Ans
1. is vitally but ✓
2. No error ✗
3. not sufficient. ✗
4. Improved policing ✗

Question Type : **MCQ**
Question ID : **264330134373**
Option 1 ID : **264330526476**
Option 2 ID : **264330526478**
Option 3 ID : **264330526477**
Option 4 ID : **264330526475**
Status : **Answered**
Chosen Option : **1**

Q.4 Fill in the blank with the most appropriate option.

The first time that nuclear radiation has been washed off with a _____.

Ans
1. quick shower ✓
2. fast shower ✗
3. energetic shower ✗
4. speedy shower ✗

Question Type : **MCQ**
Question ID : **264330136663**
Option 1 ID : **264330535374**
Option 2 ID : **264330535371**
Option 3 ID : **264330535373**
Option 4 ID : **264330535372**
Status : **Answered**
Chosen Option : **3**

Join Telegram Group "HaryanaJobs.in"

Q.5 Select the most appropriate word for the given group of words.

Difficult to interpret or understand

Ans
1. Endemic ✗
2. Enigmatic ✓
3. Emulate ✗
4. Explicable ✗

Question Type : **MCQ**
Question ID : **264330136731**
Option 1 ID : **264330535634**
Option 2 ID : **264330535632**
Option 3 ID : **264330535631**
Option 4 ID : **264330535633**
Status : **Answered**
Chosen Option : **2**

Q.6 Select the most appropriate word for the given group of words.

A feeling of excitement or happiness

Ans
1. Exhilaration ✓
2. Simulation ✗
3. Desolation ✗
4. Passion ✗

Question Type : **MCQ**
Question ID : **264330136732**
Option 1 ID : **264330535636**
Option 2 ID : **264330535638**
Option 3 ID : **264330535635**
Option 4 ID : **264330535637**
Status : **Answered**
Chosen Option : **1**

Q.7 Identify the segment that contains a grammatical error. If there is no error, select 'No error'.

While persimmons can be / use in pies and tarts, you / can also enjoy them plain.

Ans
1. use in pies and tarts, you ✓
2. While persimmons can be ✗
3. can also enjoy them plain. ✗
4. No error ✗

Question Type : **MCQ**
Question ID : **264330136719**
Option 1 ID : **264330535588**
Option 2 ID : **264330535587**
Option 3 ID : **264330535589**
Option 4 ID : **264330535590**
Status : **Answered**
Chosen Option : **1**

Join Telegram Group "HaryanaJobs.in"

Q.8 Find the part of the given sentence that has an error in it. If there is no error, choose 'No error'.
It is believed that difficult tasks demand lot of our resources.

Ans
✔ 1. difficult tasks demand lot
✘ 2. No error
✘ 3. of our resources.
✘ 4. It is believed that

Question Type : **MCQ**
Question ID : **264330136821**
Option 1 ID : **264330535980**
Option 2 ID : **264330535982**
Option 3 ID : **264330535981**
Option 4 ID : **264330535979**
Status : **Answered**
Chosen Option : **1**

Q.9 **Choose the word that is opposite in meaning to the given word.**
Reluctant

Ans
✘ 1. Cagey
✘ 2. Abatis
✘ 3. Loathe
✔ 4. Inclined

Question Type : **MCQ**
Question ID : **264330134494**
Option 1 ID : **264330526941**
Option 2 ID : **264330526942**
Option 3 ID : **264330526939**
Option 4 ID : **264330526940**
Status : **Not Answered**
Chosen Option : **--**

Q.10 Improve the underlined part of the sentence. Choose 'No improvement' as an answer if the sentence is grammatically correct.

He had to brake suddenly to avoiding hitting the deer.

Ans
✔ 1. avoid hitting
✘ 2. avoided hits
✘ 3. avoided hitting
✘ 4. No improvement

Question Type : **MCQ**
Question ID : **264330136774**
Option 1 ID : **264330535799**
Option 2 ID : **264330535801**
Option 3 ID : **264330535800**
Option 4 ID : **264330535802**
Status : **Answered**
Chosen Option : **1**

Join Telegram Group "HaryanaJobs.in"

Q.11 Improve the underlined part of the sentence. Choose 'No improvement' as an answer if the sentence is grammatically correct.

The cat was lastly see in the backyard.

Ans

✔ 1. last seen in

✘ 2. last see in

✘ 3. No improvement

✘ 4. last saw in

Question Type : **MCQ**
Question ID : **264330136824**
Option 1 ID : **264330535992**
Option 2 ID : **264330535993**
Option 3 ID : **264330535994**
Option 4 ID : **264330535991**
Status : **Answered**
Chosen Option : **1**

Q.12 Select the most appropriate meaning of the bracketed idiom in the given sentence.

I think I might take (French leave) this afternoon and go to the cinema.

Ans

✘ 1. To have a slight encounter

✔ 2. Absence without permission

✘ 3. To be inconsistent

✘ 4. To try hard

Question Type : **MCQ**
Question ID : **264330136738**
Option 1 ID : **264330535660**
Option 2 ID : **264330535659**
Option 3 ID : **264330535662**
Option 4 ID : **264330535661**
Status : **Answered**
Chosen Option : **2**

Q.13 Select the most appropriate synonym to substitute the bracketed word in the given sentence.

From start to finish, the treatment of the defendants was a (travesty) of legal due process.

Ans

✔ 1. mockery

✘ 2. slurry

✘ 3. magic

✘ 4. tribute

Question Type : **MCQ**
Question ID : **264330136682**
Option 1 ID : **264330535445**
Option 2 ID : **264330535444**
Option 3 ID : **264330535443**
Option 4 ID : **264330535446**
Status : **Answered**
Chosen Option : **3**

Join Telegram Group "HaryanaJobs.in"

Q.14 Select the most appropriate meaning of the given idiom.

In the groove

Ans
1. To muse on in an aimless manner
2. Starting to perform very well
3. A widely debated issue
4. Simplify the producers

Question Type : **MCQ**
Question ID : **264330136737**
Option 1 ID : **264330535658**
Option 2 ID : **264330535657**
Option 3 ID : **264330535656**
Option 4 ID : **264330535655**
Status : **Answered**
Chosen Option : **1**

Q.15 Select the correctly spelt word.

Ans
1. Conniavance
2. Connievence
3. Connivance
4. Conivance

Question Type : **MCQ**
Question ID : **264330136739**
Option 1 ID : **264330535666**
Option 2 ID : **264330535665**
Option 3 ID : **264330535663**
Option 4 ID : **264330535664**
Status : **Answered**
Chosen Option : **2**

Q.16 Select the most appropriate antonym to substitute the bracketed word in the given sentence.

Any book on any subject risks irrelevance or smallness compared to this (behemoth).

Ans
1. Midget
2. Colossus
3. Monster
4. Dreadnought

Question Type : **MCQ**
Question ID : **264330136736**
Option 1 ID : **264330535653**
Option 2 ID : **264330535651**
Option 3 ID : **264330535654**
Option 4 ID : **264330535652**
Status : **Answered**
Chosen Option : **1**

Join Telegram Group "HaryanaJobs.in"

Q.17 Four sentences are given, out of which three have spelling errors. Choose the sentence with all correctly spelt words.

Ans

1. I wrote her a reciept for the money.
2. They superseded the old statute with a new one.
3. He had no sense of rhythme whatsoever.
4. They will be celebrating their twelth anniversary this April.

Question Type : **MCQ**
Question ID : **264330136662**
Option 1 ID : **264330535370**
Option 2 ID : **264330535367**
Option 3 ID : **264330535369**
Option 4 ID : **264330535368**
Status : **Answered**
Chosen Option : **4**

Q.18 Improve the underlined part of the sentence. Choose 'No improvement' as an answer if the sentence is grammatically correct.

The rabbit was remain stationary to avoid being seen.

Ans

1. remained stationary
2. No improvement
3. were remained stationary
4. remain stationary

Question Type : **MCQ**
Question ID : **264330135260**
Option 1 ID : **264330529961**
Option 2 ID : **264330529962**
Option 3 ID : **264330529960**
Option 4 ID : **264330529959**
Status : **Answered**
Chosen Option : **3**

Q.19 Select the most appropriate option to fill in the blank.

The necessity of resisting the _____ demands of the prophets led to the introduction of new rules for distinguishing true and false prophets.

Ans

1. unimpeachable
2. irreparable
3. relentless
4. imperturbable

Question Type : **MCQ**
Question ID : **264330136723**
Option 1 ID : **264330535606**
Option 2 ID : **264330535604**
Option 3 ID : **264330535605**
Option 4 ID : **264330535603**
Status : **Answered**
Chosen Option : **1**

Join Telegram Group "HaryanaJobs.in"

Q.20 Select the most appropriate synonym of the given word.

Advantage

Ans
1. Vengeance
2. Boon
3. Unfrock
4. Vital

Question Type : **MCQ**
Question ID : **264330136733**
Option 1 ID : **264330535641**
Option 2 ID : **264330535639**
Option 3 ID : **264330535640**
Option 4 ID : **264330535642**
Status : **Answered**
Chosen Option : **2**

Comprehension:

In the following passage some of the words have been deleted. Read the passage carefully and select the correct answer for the given blank out of the four alternatives.
Pumpkins contain high levels of (1) _____. These are molecules that fight harmful free radicals, a (2) _____ of unstable molecule that can sometimes (3) _____ damage to our cells, which may cause ageing and contribute to (4)_____ diseases over time. While some antioxidants occur (5) _____ in our bodies, others we get from fruits and vegetables.

SubQuestion No : 21

Q.21 **Select the most appropriate option to fill in blank number 1.**

Ans
1. supplements
2. sentiments
3. antioxidants
4. atoms

Question Type : **MCQ**
Question ID : **264330134485**
Option 1 ID : **264330526905**
Option 2 ID : **264330526904**
Option 3 ID : **264330526906**
Option 4 ID : **264330526903**
Status : **Answered**
Chosen Option : **3**

Join Telegram Group "HaryanaJobs.in"

Comprehension:

In the following passage some of the words have been deleted. Read the passage carefully and select the correct answer for the given blank out of the four alternatives.
Pumpkins contain high levels of (1) _____. These are molecules that fight harmful free radicals, a (2) _____ of unstable molecule that can sometimes (3) _____ damage to our cells, which may cause ageing and contribute to (4)_____ diseases over time. While some antioxidants occur (5) _____ in our bodies, others we get from fruits and vegetables.

SubQuestion No : 22

Q.22 Select the most appropriate option to fill in blank number 2.

Ans
✔ 1. type
✘ 2. pattern
✘ 3. term
✘ 4. subject

Question Type : **MCQ**
Question ID : **264330134486**
Option 1 ID : **264330526909**
Option 2 ID : **264330526908**
Option 3 ID : **264330526910**
Option 4 ID : **264330526907**
Status : **Answered**
Chosen Option : **1**

Comprehension:

In the following passage some of the words have been deleted. Read the passage carefully and select the correct answer for the given blank out of the four alternatives.
Pumpkins contain high levels of (1) _____. These are molecules that fight harmful free radicals, a (2) _____ of unstable molecule that can sometimes (3) _____ damage to our cells, which may cause ageing and contribute to (4)_____ diseases over time. While some antioxidants occur (5) _____ in our bodies, others we get from fruits and vegetables.

SubQuestion No : 23

Q.23 Select the most appropriate option to fill in blank number 3.

Ans
✘ 1. plan
✔ 2. cause
✘ 3. treats
✘ 4. fall

Question Type : **MCQ**
Question ID : **264330134487**
Option 1 ID : **264330526912**
Option 2 ID : **264330526911**
Option 3 ID : **264330526914**
Option 4 ID : **264330526913**
Status : **Answered**
Chosen Option : **4**

Join Telegram Group "HaryanaJobs.in"

Comprehension:

In the following passage some of the words have been deleted. Read the passage carefully and select the correct answer for the given blank out of the four alternatives.
Pumpkins contain high levels of (1) _____. These are molecules that fight harmful free radicals, a (2) _____ of unstable molecule that can sometimes (3) _____ damage to our cells, which may cause ageing and contribute to (4)_____ diseases over time. While some antioxidants occur (5) _____ in our bodies, others we get from fruits and vegetables.

SubQuestion No : 24

Q.24 Select the most appropriate option to fill in blank number 4.

Ans

✔ 1. various

✘ 2. neutral

✘ 3. references

✘ 4. spotted

Question Type : **MCQ**
Question ID : **264330134488**
Option 1 ID : **264330526918**
Option 2 ID : **264330526915**
Option 3 ID : **264330526917**
Option 4 ID : **264330526916**
Status : **Answered**
Chosen Option : **1**

Comprehension:

In the following passage some of the words have been deleted. Read the passage carefully and select the correct answer for the given blank out of the four alternatives.
Pumpkins contain high levels of (1) _____. These are molecules that fight harmful free radicals, a (2) _____ of unstable molecule that can sometimes (3) _____ damage to our cells, which may cause ageing and contribute to (4)_____ diseases over time. While some antioxidants occur (5) _____ in our bodies, others we get from fruits and vegetables.

SubQuestion No : 25

Q.25 Select the most appropriate option to fill in blank number 5.

Ans

✔ 1. naturally

✘ 2. casually

✘ 3. systematically

✘ 4. informally

Question Type : **MCQ**
Question ID : **264330134489**
Option 1 ID : **264330526922**
Option 2 ID : **264330526920**
Option 3 ID : **264330526921**
Option 4 ID : **264330526919**
Status : **Answered**
Chosen Option : **1**

Join Telegram Group "HaryanaJobs.in"

Multi Tasking Non Technical Staff and Havaldar CBIC and CBN Examination 2022

Roll Number	HaryanaJobs.in
Candidate Name	HaryanaJobs.in
Venue Name	Aurobindo International School Jaipur
Exam Date	08/05/2023
Exam Time	9:00 AM - 10:30 AM
Subject	MTS Non Tech Havaldar CBIC and CBN Examination 2022

Section : **Numerical and Mathematical Ability**

Q.1 एक व्यक्ति 2.5 km प्रति घंटे की चाल से 10 km चलता है, फिर 5 km प्रति घंटे की चाल से 10 km दौड़ता है और फिर 30 km प्रति घंटे की चाल से बस से 30 km का सफर करता है। व्यक्ति की औसत चाल क्या है?

Ans

✗ 1. 8.25 kmph

✗ 2. 7 kmph

✓ 3. 7.14 kmph

✗ 4. 9 kmph

Question Type : **MCQ**
Question ID : **264330138049**
Option 1 ID : **264330540805**
Option 2 ID : **264330540806**
Option 3 ID : **264330540804**
Option 4 ID : **264330540803**
Status : **Answered**
Chosen Option : **3**

Q.2 एक क्रिकेट खिलाड़ी के 10 पारियों में औसत रन 40 थे। उसे अपनी अगली पारी में कितने रन बनाने चाहिए जिससे उसके रनों के औसत में 3 की वृद्धि हो जाए?

Ans

✗ 1. 43

✗ 2. 63

✓ 3. 73

✗ 4. 53

Question Type : **MCQ**
Question ID : **264330138038**
Option 1 ID : **264330540760**
Option 2 ID : **264330540761**
Option 3 ID : **264330540759**
Option 4 ID : **264330540762**
Status : **Answered**
Chosen Option : **3**

Join Telegram Group "HaryanaJobs.in"

Q.3 अनिल, सचिन से 12.5 प्रतिशत अधिक कुशल है। यदि सचिन अकेले किसी कार्य को 10 दिनों में पूरा कर सकता है, तो अनिल अकेले उसी कार्य को कितने दिनों में पूरा करेगा?

Ans

✔ 1. (80/9) दिनों में

✘ 2. (80/7) दिनों में

✘ 3. (70/11) दिनों में

✘ 4. (70/9) दिनों में

Question Type : **MCQ**
Question ID : **264330139057**
Option 1 ID : **264330544837**
Option 2 ID : **264330544835**
Option 3 ID : **264330544838**
Option 4 ID : **264330544836**
Status : **Answered**
Chosen Option : **1**

Q.4 X, Y और Z एक साझेदारी में हिस्सा लेते हैं। X शुरुआत में कुछ राशि का निवेश करता है। 4 माह के बाद Y, X की राशि से तीन गुना राशि का निवेश करता है और हिस्सेदारी की शुरुआत से 9 माह के बाद Z, Y की राशि से दोगुना राशि का निवेश करता है। यदि वार्षिक लाभ Rs. 450000 है, तो उसमें Y का हिस्सा कितना है?

Ans

✘ 1. Rs. 300000

✘ 2. Rs. 150000

✔ 3. Rs. 200000

✘ 4. Rs. 100000

Question Type : **MCQ**
Question ID : **264330138043**
Option 1 ID : **264330540782**
Option 2 ID : **264330540781**
Option 3 ID : **264330540780**
Option 4 ID : **264330540779**
Status : **Answered**
Chosen Option : **3**

Q.5 अर्ध-वार्षिक रूप से देय 10% वार्षिक नामित (nominal) दर के अनुरूप प्रभावी वार्षिक ब्याज दर कितनी है?

Ans

✔ 1. 10.25%

✘ 2. 11.50%

✘ 3. 9.25%

✘ 4. 12.75%

Question Type : **MCQ**
Question ID : **264330133684**
Option 1 ID : **264330523761**
Option 2 ID : **264330523759**
Option 3 ID : **264330523762**
Option 4 ID : **264330523760**
Status : **Answered**
Chosen Option : **1**

Join Telegram Group "HaryanaJobs.in"

Q.6 8 cm, 27 cm और 64 cm भुजाओं वाले एक घनाभ को पिघलाकर एक नया घन बनाया जाता है। घनाभ और घन के कुल पृष्ठीय क्षेत्रफल का क्रमशः अनुपात कितना है?

Ans
✔ 1. 307 : 216
✘ 2. 291 : 203
✘ 3. 329 : 237
✘ 4. 349 : 248

Question Type : **MCQ**
Question ID : **264330137167**
Option 1 ID : **264330537314**
Option 2 ID : **264330537312**
Option 3 ID : **264330537311**
Option 4 ID : **264330537313**
Status : **Answered**
Chosen Option : **1**

Q.7 सेल में एक वॉटर प्यूरीफायर को उसके वास्तविक मूल्य पर 10% के बट्टे के साथ बेचा जाता है। एक स्टोर-वाइड सेल के परिणामस्वरूप प्यूरीफायर पर 15% का अतिरिक्त बट्टा दिया जाता है। वास्तविक मूल्य पर कुल कितना बट्टा दिया गया?

Ans
✘ 1. 18.50%
✘ 2. 19.50%
✘ 3. 22.50%
✔ 4. 23.50%

Question Type : **MCQ**
Question ID : **264330138044**
Option 1 ID : **264330540786**
Option 2 ID : **264330540785**
Option 3 ID : **264330540784**
Option 4 ID : **264330540783**
Status : **Answered**
Chosen Option : **4**

Q.8 एक व्यक्ति 0.5 meters/second की चाल से चल सकता है। वह 8 मिनट में कितनी दूरी तय करेगा?

Ans
✘ 1. 120 m
✘ 2. 200 m
✔ 3. 240 m
✘ 4. 250 m

Question Type : **MCQ**
Question ID : **264330138750**
Option 1 ID : **264330543609**
Option 2 ID : **264330543610**
Option 3 ID : **264330543608**
Option 4 ID : **264330543607**
Status : **Answered**
Chosen Option : **3**

Join Telegram Group "HaryanaJobs.in"

Q.9 एक तार वर्ग के आकार में है जिसकी भुजा 44 cm है। इसे मोड़कर एक वृत्त बनाया जाता है। इस वृत्त की त्रिज्या क्या है?

Ans
1. 21 cm
2. 32 cm
3. 28 cm
4. 16 cm

Question Type : **MCQ**
Question ID : **264330139070**
Option 1 ID : **264330544888**
Option 2 ID : **264330544889**
Option 3 ID : **264330544890**
Option 4 ID : **264330544887**
Status : **Answered**
Chosen Option : **3**

Q.10 एक धनराशि पर 2 वर्ष के लिए 30 प्रतिशत वार्षिक दर से चक्रवृद्धि ब्याज (वार्षिक रूप से संयोजित) और साधारण ब्याज के बीच का अंतर Rs. 3600 है। वह धनराशि क्या है?

Ans
1. Rs. 40000
2. Rs. 60000
3. Rs. 75000
4. Rs. 50000

Question Type : **MCQ**
Question ID : **264330139007**
Option 1 ID : **264330544635**
Option 2 ID : **264330544636**
Option 3 ID : **264330544637**
Option 4 ID : **264330544638**
Status : **Answered**
Chosen Option : **1**

Q.11 4 और 6 का तृतीय समानुपाती क्या है?

Ans
1. 16
2. 36
3. 9
4. 6

Question Type : **MCQ**
Question ID : **264330138045**
Option 1 ID : **264330540790**
Option 2 ID : **264330540789**
Option 3 ID : **264330540788**
Option 4 ID : **264330540787**
Status : **Answered**
Chosen Option : **3**

Join Telegram Group "HaryanaJobs.in"

Q.12 एक वस्तु पर 5% और 8% की दो क्रमागत मूल्य वृद्धियों के लिए एकल समतुल्य मूल्य वृद्धि क्या है?

Ans
1. 12.5%
2. 14.2%
3. 13.4%
4. 15.5%

Question Type : **MCQ**
Question ID : **264330133677**
Option 1 ID : **264330523731**
Option 2 ID : **264330523734**
Option 3 ID : **264330523732**
Option 4 ID : **264330523733**
Status : **Answered**
Chosen Option : **3**

Q.13 $0.8 \times 0.8 \times 0.8 + 0.7 \times 0.7 \times 0.7 + 2.52$ का मान क्या है?

Ans
1. 2.125
2. 5.165
3. 4.275
4. 3.375

Question Type : **MCQ**
Question ID : **264330138032**
Option 1 ID : **264330540737**
Option 2 ID : **264330540735**
Option 3 ID : **264330540736**
Option 4 ID : **264330540738**
Status : **Answered**
Chosen Option : **4**

Q.14 एक मिश्रण में दूध और पानी का अनुपात 5:2 है। यदि मिश्रण में 4 लीटर पानी मिला दिया जाए, तो अनुपात 5:4 हो जाता है। दिए गए मिश्रण में दूध की मात्रा कितनी है?

Ans
1. 5 लीटर
2. 10 लीटर
3. 2 लीटर
4. 8 लीटर

Question Type : **MCQ**
Question ID : **264330138046**
Option 1 ID : **264330540792**
Option 2 ID : **264330540794**
Option 3 ID : **264330540793**
Option 4 ID : **264330540791**
Status : **Answered**
Chosen Option : **2**

Join Telegram Group "HaryanaJobs.in"

Q.15 नीचे दी गई तालिका में दो परिवारों A और B द्वारा छः वस्तुओं पर किए गए व्यय को दर्शाया गया है।

वस्तुएँ	A	B
P	40	120
Q	60	70
R	80	90
S	100	50
T	110	40
U	90	80

निम्नलिखित में से कौन-सा कथन सही **नहीं** है?

I. A द्वारा वस्तु R पर किया गया व्यय, B द्वारा वस्तु Q पर किए गए व्यय से 28.56 प्रतिशत अधिक है।

II. A द्वारा वस्तु P और Q पर किया गया औसत व्यय और B द्वारा वस्तु R और S पर किए गए औसत व्यय के बीच का अंतर 20 है।

Ans

✔ 1. केवल I

✘ 2. केवल II

✘ 3. न तो I और न ही II

✘ 4. I और II दोनों

Question Type : **MCQ**
Question ID : **264330138033**
Option 1 ID : **264330540739**
Option 2 ID : **264330540740**
Option 3 ID : **264330540742**
Option 4 ID : **264330540741**
Status : **Answered**
Chosen Option : **2**

Q.16 रोहन अकेले किसी कार्य को 10 दिनों में कर सकता है और मोहन अकेले उसी कार्य को 15 दिनों में कर सकता है। वे मिलकर उसी कार्य को कितने दिनों में पूरा करेंगे?

Ans

✘ 1. 5 दिन

✘ 2. 7 दिन

✔ 3. 6 दिन

✘ 4. 4 दिन

Question Type : **MCQ**
Question ID : **264330137152**
Option 1 ID : **264330537251**
Option 2 ID : **264330537254**
Option 3 ID : **264330537252**
Option 4 ID : **264330537253**
Status : **Answered**
Chosen Option : **3**

Join Telegram Group "HaryanaJobs.in"

Q.17 एक व्यक्ति ने एक रुपए में 30 पेन की दर से कुछ पेन खरीदे और उन्हें एक रुपए में 20 पेन की दर से बेच दिया। उसका लाभ प्रतिशत क्या है?

Ans

✗ 1. 33.33 प्रतिशत

✓ 2. 50 प्रतिशत

✗ 3. 66.66 प्रतिशत

✗ 4. 75 प्रतिशत

Question Type : **MCQ**
Question ID : **264330139002**
Option 1 ID : **264330544617**
Option 2 ID : **264330544615**
Option 3 ID : **264330544616**
Option 4 ID : **264330544618**
Status : **Answered**
Chosen Option : **2**

Q.18 निम्नलिखित दंड आलेख में 4 अलग-अलग कंपनियों में कर्मचारियों की कुल संख्या को दर्शाया गया है।
कंपनी Q और कंपनी S में महिला कर्मचारीयों की संख्या का योग क्या है?

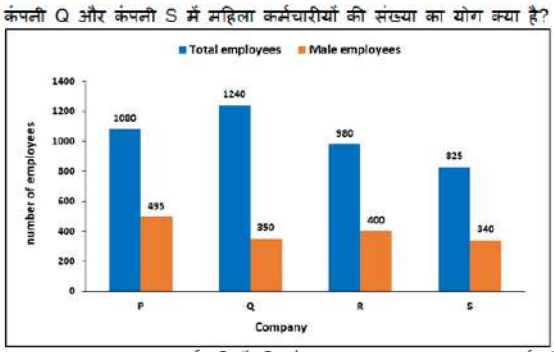

No of employees - कर्मचारियों की संख्या, Total employees - कर्मचारियों की कुल संख्या, Company - कंपनी, Male Employee - पुरुष कर्मचारी

Ans

✗ 1. 485

✗ 2. 890

✗ 3. 1240

✓ 4. 1375

Question Type : **MCQ**
Question ID : **264330138053**
Option 1 ID : **264330540820**
Option 2 ID : **264330540819**
Option 3 ID : **264330540822**
Option 4 ID : **264330540821**
Status : **Answered**
Chosen Option : **4**

Join Telegram Group "HaryanaJobs.in"

Q.19 $\frac{66-55+44-33+22}{13\times3+2\times3-1}$ का मान क्या है?

Ans
1. 44
2. 4
3. 1
4. 11

Question Type : **MCQ**
Question ID : **264330137339**
Option 1 ID : **264330537985**
Option 2 ID : **264330537984**
Option 3 ID : **264330537983**
Option 4 ID : **264330537986**
Status : **Answered**
Chosen Option : **3**

Q.20 8000 ÷ 10 × {(8 − 4) + (36 − 24)} का मान है:

Ans
1. 12800
2. 50
3. 6400
4. 800

Question Type : **MCQ**
Question ID : **264330138035**
Option 1 ID : **264330540750**
Option 2 ID : **264330540747**
Option 3 ID : **264330540749**
Option 4 ID : **264330540748**
Status : **Answered**
Chosen Option : **1**

Section : **Reasoning Ability and Problem Solving**

Q.1 छः बहनें अनु, अंकिता, आशा, एमी, अन्वेषी और आयशा एक वृत्ताकार मेज के चारों ओर एक-दूसरे की ओर मुख करके बैठी हैं। अनु, अंकिता के ठीक बाईं ओर बैठी है। एमी, आशा और आयशा के ठीक बीच में बैठी है। आयशा, अन्वेषी के आसन्न नहीं बैठी है, जो अनु के दाईं ओर से दूसरे स्थान पर बैठी है। अंकिता के ठीक दाईं ओर कौन बैठा है?

Ans
1. आयशा
2. एमी
3. अन्वेषी
4. आशा

Question Type : **MCQ**
Question ID : **264330137839**
Option 1 ID : **264330539966**
Option 2 ID : **264330539965**
Option 3 ID : **264330539964**
Option 4 ID : **264330539963**
Status : **Answered**
Chosen Option : **1**

Join Telegram Group "HaryanaJobs.in"

Q.2 उस विकल्प आकृति को चुनिए जो पैटर्न को पूरा करने के लिए नीचे दी गई आकृति में प्रश्न चिन्ह (?) के स्थान पर आएगी। (घूर्णन की अनुमति नहीं है)

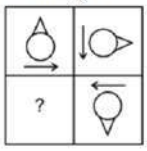

Ans

✔ 1. 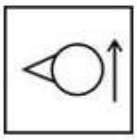

✘ 2. 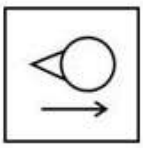

✘ 3.

✘ 4. 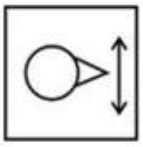

Question Type : **MCQ**
Question ID : **264330137851**
Option 1 ID : **264330540011**
Option 2 ID : **264330540013**
Option 3 ID : **264330540012**
Option 4 ID : **264330540014**
Status : **Answered**
Chosen Option : **1**

Q.3 उस विकल्प को चुनिए जो तीसरे अक्षर-समूह से ठीक उसी प्रकार संबंधित है जिस प्रकार दूसरा अक्षर-समूह पहले अक्षर-समूह से संबंधित है।
DMK : ENJ :: QOC : ?

Ans

✔ 1. RPB

✘ 2. RBP

✘ 3. BRP

✘ 4. PRM

Question Type : **MCQ**
Question ID : **264330137833**
Option 1 ID : **264330539939**
Option 2 ID : **264330539941**
Option 3 ID : **264330539940**
Option 4 ID : **264330539942**
Status : **Answered**
Chosen Option : **1**

Join Telegram Group "HaryanaJobs.in"

Q.4 एक निश्चित कूट भाषा में, 'BONE' को 'F15R5' लिखा जाता है। उस कूट भाषा में 'NOSE' को कैसे लिखा जाएगा?

Ans

✗ 1. R5W51

✗ 2. R61W5

✓ 3. R15W5

✗ 4. R51W5

Question Type : **MCQ**
Question ID : **264330135024**
Option 1 ID : **264330529033**
Option 2 ID : **264330529034**
Option 3 ID : **264330529032**
Option 4 ID : **264330529031**
Status : **Answered**
Chosen Option : **3**

Q.5 दिए गए समीकरण को सही करने के लिए किन दो संख्याओं को आपस में बदला जाना चाहिए?
4 × 8 − 12 + 5 = 16

Ans

✗ 1. 12 और 16

✓ 2. 8 और 5

✗ 3. 16 और 8

✗ 4. 4 और 5

Question Type : **MCQ**
Question ID : **264330137847**
Option 1 ID : **264330539996**
Option 2 ID : **264330539998**
Option 3 ID : **264330539995**
Option 4 ID : **264330539997**
Status : **Answered**
Chosen Option : **2**

Q.6 उस विकल्प को चुनिए जो तीसरे शब्द से ठीक उसी प्रकार संबंधित है जिस प्रकार दूसरा शब्द पहले शब्द से संबंधित है।
तितली : इल्ली :: भेड़ : ?

Ans

✗ 1. बिल्ली का बच्चा (Kitty)

✗ 2. कबूतर

✓ 3. मेमना

✗ 4. बिल्ली

Question Type : **MCQ**
Question ID : **264330137832**
Option 1 ID : **264330539936**
Option 2 ID : **264330539938**
Option 3 ID : **264330539937**
Option 4 ID : **264330539935**
Status : **Answered**
Chosen Option : **3**

Join Telegram Group "HaryanaJobs.in"

Q.7 एक निश्चित कूट भाषा में, 'WORLD' को '5' लिखा जाता है, 'UPDATE' को '6' लिखा जाता है। उस कूट भाषा में 'GLOBALLY' को कैसे लिखा जाएगा?

Ans
1. 7
2. 8
3. 19
4. 9

Question Type : **MCQ**
Question ID : **264330137370**
Option 1 ID : **264330538109**
Option 2 ID : **264330538107**
Option 3 ID : **264330538110**
Option 4 ID : **264330538108**
Status : **Answered**
Chosen Option : **2**

Q.8 दो कथन दिए गए हैं और दो निष्कर्ष I और II दिए गए हैं। कथनों को सत्य मानते हुए, चाहे वे सामान्यतः ज्ञात तथ्यों से अलग प्रतीत होते हों, निश्चय कीजिए कि कौन-सा निष्कर्ष तार्किक रूप से कथनों के अनुसार है।

कथन:

कुछ दूध, दही हैं।

कुछ दही, मक्खन हैं।

निष्कर्ष:

I. कुछ दूध, मक्खन हैं।

II. कुछ मक्खन, दही हैं।

Ans
1. केवल निष्कर्ष II कथनों के अनुसार है।
2. न तो निष्कर्ष I और न ही II कथनों के अनुसार है।
3. केवल निष्कर्ष I कथनों के अनुसार है।
4. दोनों निष्कर्ष I और II कथनों के अनुसार हैं।

Question Type : **MCQ**
Question ID : **264330137841**
Option 1 ID : **264330539972**
Option 2 ID : **264330539974**
Option 3 ID : **264330539971**
Option 4 ID : **264330539973**
Status : **Answered**
Chosen Option : **4**

Join Telegram Group "HaryanaJobs.in"

Q.9 एक निश्चित कूट भाषा में, 'WODMF' को 'ZRDKD' लिखा जाता है। उस भाषा में 'EIDMC' को कैसे लिखा जाएगा?

Ans

✗ 1. HDLKA

✓ 2. HLDKA

✗ 3. HALDA

✗ 4. HDLAK

Question Type : **MCQ**
Question ID : **264330134960**
Option 1 ID : **264330528775**
Option 2 ID : **264330528776**
Option 3 ID : **264330528777**
Option 4 ID : **264330528778**
Status : **Answered**
Chosen Option : **2**

Q.10 यदि A का अर्थ 'जोड़', B का अर्थ 'गुणा', C का अर्थ 'घटाव' और D का अर्थ 'भाग' हो, तो निम्नलिखित समीकरण का मान क्या होगा?
6 A (9 D 3) C 4 =?

Ans

✓ 1. 5

✗ 2. 7

✗ 3. 12

✗ 4. 8

Question Type : **MCQ**
Question ID : **264330138825**
Option 1 ID : **264330543907**
Option 2 ID : **264330543908**
Option 3 ID : **264330543909**
Option 4 ID : **264330543910**
Status : **Answered**
Chosen Option : **1**

Join Telegram Group "HaryanaJobs.in"

Q.11 उस विकल्प आकृति को चुनें जिसमें दी गई आकृति निहित है।(घूर्णन की अनुमति नहीं है)

Ans

✗ 1.

✓ 2.

✗ 3.

✗ 4.

Question Type : **MCQ**
Question ID : **264330137827**
Option 1 ID : **264330539916**
Option 2 ID : **264330539917**
Option 3 ID : **264330539915**
Option 4 ID : **264330539918**
Status : **Answered**
Chosen Option : **2**

Q.12 सात मित्रों M, N, O, P, Q, R, और S का **कद** अलग-अलग है। वे अपनी लंबाई के अनुसार आरोही क्रम में खड़े हैं। सबसे लंबा व्यक्ति दाईं ओर और सबसे छोटे कद वाला व्यक्ति बाईं ओर खड़ा है। केवल तीन मित्र O से लंबे हैं। R का कद केवल Q से छोटा है। N, P और M दोनों से लंबा है लेकिन S से कद में छोटा है। तीसरा सबसे लंबा व्यक्ति कौन है?

Ans

✓ 1. S

✗ 2. N

✗ 3. P

✗ 4. O

Question Type : **MCQ**
Question ID : **264330137840**
Option 1 ID : **264330539970**
Option 2 ID : **264330539968**
Option 3 ID : **264330539967**
Option 4 ID : **264330539969**
Status : **Answered**
Chosen Option : **2**

Join Telegram Group "HaryanaJobs.in"

Q.13 उस विकल्प को चुनिए जो तीसरी संख्या से ठीक उसी प्रकार संबंधित है जिस प्रकार दूसरी संख्या पहली संख्या से संबंधित है।
13 : 182 :: 17 : ?

Ans
1. 306
2. 360
3. 440
4. 280

Question Type : **MCQ**
Question ID : **264330133399**
Option 1 ID : **264330522627**
Option 2 ID : **264330522628**
Option 3 ID : **264330522629**
Option 4 ID : **264330522630**
Status : **Answered**
Chosen Option : **1**

Q.14 दी गई श्रृंखला में निम्नलिखित में से कौन-सी संख्या प्रश्न चिन्ह (?) के स्थान पर आएगी?
13, 9, 5, 1, -3, -7, -11, ?

Ans
1. -13
2. -16
3. -15
4. -14

Question Type : **MCQ**
Question ID : **264330137844**
Option 1 ID : **264330539984**
Option 2 ID : **264330539983**
Option 3 ID : **264330539986**
Option 4 ID : **264330539985**
Status : **Answered**
Chosen Option : **3**

Join Telegram Group "HaryanaJobs.in"

Q.15 दी गई आकृति के उस सही दर्पण प्रतिबिंब को चुनिए, जो दर्पण MN को आकृति के दाईं ओर रखने पर बनेगा।

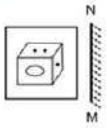

Ans

1. 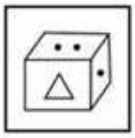

2. 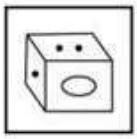

3. 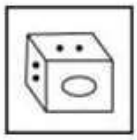

4. 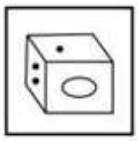

Question Type : **MCQ**
Question ID : **264330137828**
Option 1 ID : **264330539920**
Option 2 ID : **264330539921**
Option 3 ID : **264330539922**
Option 4 ID : **264330539919**
Status : **Answered**
Chosen Option : **2**

Q.16 दी गई श्रृंखला में निम्नलिखित में से कौन-सी संख्या प्रश्न चिन्ह (?) के स्थान पर आएगी?
75, 76, 78, 79, 81, 82, 84, 85, 87, ?

Ans

1. 80
2. 90
3. 88
4. 96

Question Type : **MCQ**
Question ID : **264330133397**
Option 1 ID : **264330522622**
Option 2 ID : **264330522619**
Option 3 ID : **264330522621**
Option 4 ID : **264330522620**
Status : **Answered**
Chosen Option : **3**

Join Telegram Group "HaryanaJobs.in"

Q.17 तीन कथन दिए गए हैं और दो निष्कर्ष I और II दिए गए हैं। कथनों को सत्य मानते हुए, चाहे वे सामान्यतः ज्ञात तथ्यों से अलग प्रतीत होते हों, निश्चय कीजिए कि कौन-सा निष्कर्ष तार्किक रूप से कथनों के अनुसार है।

कथन:

सभी पक्षी, कौए हैं।

कुछ कौए, तोते हैं।

कोई कौआ, कबूतर नहीं है।

निष्कर्ष:

I. कोई तोता, कबूतर नहीं है।

II. कुछ पक्षी, तोते हैं।

Ans

✔ 1. न तो निष्कर्ष I और न ही II कथनों के अनुसार है।

✘ 2. केवल निष्कर्ष I कथनों के अनुसार है।

✘ 3. दोनों निष्कर्ष I और II कथनों के अनुसार हैं।

✘ 4. केवल निष्कर्ष II कथनों के अनुसार है।

Question Type : **MCQ**
Question ID : **264330137842**
Option 1 ID : **264330539978**
Option 2 ID : **264330539975**
Option 3 ID : **264330539977**
Option 4 ID : **264330539976**
Status : **Answered**
Chosen Option : **4**

Q.18 पाँच भाई ड्रेक, डेविड, डैनी, डर्क और डिम उत्तर की ओर मुख करके एक बेंच पर बैठे हैं। डर्क, डैनी के ठीक दाईं ओर बैठा है। डिम, ड्रेक और डेविड के ठीक बीच में बैठा है। ड्रेक के बाईं ओर कोई नहीं बैठा है। डैनी के ठीक बाईं ओर कौन बैठा है?

Ans

✘ 1. डिम

✘ 2. डर्क

✔ 3. डेविड

✘ 4. ड्रेक

Question Type : **MCQ**
Question ID : **264330137838**
Option 1 ID : **264330539961**
Option 2 ID : **264330539959**
Option 3 ID : **264330539960**
Option 4 ID : **264330539962**
Status : **Answered**
Chosen Option : **2**

Join Telegram Group "HaryanaJobs.in"

Q.19 दिए गए पैटर्न का ध्यानपूर्वक अध्ययन कीजिए और उस संख्या को चुनिए जो इसमें प्रश्न चिन्ह (?) के स्थान पर आ सकती है।
पहली पंक्ति- 64, 69, 74
दूसरी पंक्ति- 26, 31, 36
तीसरी पंक्ति - 49, 54, ?

Ans
1. 53
2. 65
3. 59
4. 37

Question Type : **MCQ**
Question ID : **264330137846**
Option 1 ID : **264330539994**
Option 2 ID : **264330539992**
Option 3 ID : **264330539991**
Option 4 ID : **264330539993**
Status : **Answered**
Chosen Option : **3**

Q.20 दी गई श्रृंखला में निम्नलिखित में से कौन-सा अक्षर प्रश्न चिन्ह (?) के स्थान पर आएगा?
D, H, L, P, T, ?

Ans
1. R
2. M
3. X
4. P

Question Type : **MCQ**
Question ID : **264330137830**
Option 1 ID : **264330539929**
Option 2 ID : **264330539930**
Option 3 ID : **264330539928**
Option 4 ID : **264330539927**
Status : **Answered**
Chosen Option : **3**

Section : **General Awareness**

Q.1 भारत में जनसंख्या की गणना सामान्यतः कितने वर्षों के बाद की जाती है?

Ans
1. 15
2. 20
3. 5
4. 10

Question Type : **MCQ**
Question ID : **264330138341**
Option 1 ID : **264330541973**
Option 2 ID : **264330541974**
Option 3 ID : **264330541971**
Option 4 ID : **264330541972**
Status : **Answered**
Chosen Option : **4**

Join Telegram Group "HaryanaJobs.in"

Q.2 भारतीय संविधान का कौन-सा अनुच्छेद राष्ट्रपति द्वारा शपथ या प्रतिज्ञान की बात करता है?

Ans
1. अनुच्छेद 72
2. अनुच्छेद 45
3. अनुच्छेद 60
4. अनुच्छेद 56

Question Type : **MCQ**
Question ID : **264330137965**
Option 1 ID : **264330540470**
Option 2 ID : **264330540467**
Option 3 ID : **264330540468**
Option 4 ID : **264330540469**
Status : **Answered**
Chosen Option : **4**

Q.3 रानी-की-वाव (रानी की बावड़ी) किस नदी के तट पर स्थित है?

Ans
1. गंगा
2. सरस्वती
3. यमुना
4. कृष्णा

Question Type : **MCQ**
Question ID : **264330138873**
Option 1 ID : **264330544099**
Option 2 ID : **264330544101**
Option 3 ID : **264330544100**
Option 4 ID : **264330544102**
Status : **Answered**
Chosen Option : **4**

Q.4 अंडमान द्वीप समूह और निकोबार द्वीप समूह को एक-दूसरे से अलग करने वाले जल निकाय को _____ कहा जाता है।

Ans
1. मन्नार की खाड़ी (Gulf of Mannar)
2. दस डिग्री जलसंधि (Ten Degree Channel)
3. पाक जलसंधि (Palk Strait)
4. कोनोली नहर (Conolly Canal)

Question Type : **MCQ**
Question ID : **264330137954**
Option 1 ID : **264330540424**
Option 2 ID : **264330540425**
Option 3 ID : **264330540423**
Option 4 ID : **264330540426**
Status : **Answered**
Chosen Option : **2**

Join Telegram Group "HaryanaJobs.in"

Q.5 महाद्वीपीय संहति मुख्य रूप से _____ एवं _____ जैसे खनिजों से बनी है।

Ans
1. सिलिका, मैग्नीशियम
2. सिलिका, एलुमिना
3. ऑक्सीजन, कार्बन
4. एलुमिना, मैग्नीशियम

Question Type : **MCQ**
Question ID : **264330133896**
Option 1 ID : **264330524608**
Option 2 ID : **264330524610**
Option 3 ID : **264330524607**
Option 4 ID : **264330524609**
Status : **Answered**
Chosen Option : **2**

Q.6 'I2U2' पहल को _____ के नाम से भी जाना जाता है।

Ans
1. पूर्वी यूरोपीय क्वाड (East European Quad)
2. पश्चिम यूरोपीय क्वाड (West European Quad)
3. पूर्वी एशियाई क्वाड (East Asian Quad)
4. पश्चिम एशियाई क्वाड (West Asian Quad)

Question Type : **MCQ**
Question ID : **264330134628**
Option 1 ID : **264330527470**
Option 2 ID : **264330527469**
Option 3 ID : **264330527468**
Option 4 ID : **264330527467**
Status : **Answered**
Chosen Option : **3**

Q.7 नवरेह, एक चंद्र नव वर्ष है जो निम्नलिखित में से किस राज्य/केंद्र शासित प्रदेश में मनाया जाता है?

Ans
1. असम
2. सिक्किम
3. जम्मू और कश्मीर
4. मणिपुर

Question Type : **MCQ**
Question ID : **264330137922**
Option 1 ID : **264330540295**
Option 2 ID : **264330540296**
Option 3 ID : **264330540297**
Option 4 ID : **264330540298**
Status : **Marked For Review**
Chosen Option : **1**

Join Telegram Group "HaryanaJobs.in"

Q.8 नवंबर 2022 में, प्रधान मंत्री राष्ट्रीय शिक्षुता मेला (Pradhan Mantri National Apprenticeship Mela) _____ में आयोजित किया गया था।

Ans
1. 120 जिलों ✗
2. 182 जिलों ✗
3. 152 जिलों ✗
4. 199 जिलों ✓

Question Type : **MCQ**
Question ID : **264330137944**
Option 1 ID : **264330540384**
Option 2 ID : **264330540386**
Option 3 ID : **264330540383**
Option 4 ID : **264330540385**
Status : **Answered**
Chosen Option : **4**

Q.9 भारतीय संविधान की 8वीं अनुसूची के अनुसार, भारत में कितनी आधिकारिक भाषाएँ हैं?

Ans
1. 32 ✗
2. 22 ✓
3. 12 ✗
4. 42 ✗

Question Type : **MCQ**
Question ID : **264330137964**
Option 1 ID : **264330540465**
Option 2 ID : **264330540464**
Option 3 ID : **264330540463**
Option 4 ID : **264330540466**
Status : **Answered**
Chosen Option : **2**

Q.10 रोजर फेडरर (Roger Federer) _____ खेल के एक प्रसिद्ध खिलाड़ी हैं।

Ans
1. लॉन टेनिस ✓
2. रग्बी ✗
3. लॉन बोल्स ✗
4. फ़ुटबॉल ✗

Question Type : **MCQ**
Question ID : **264330137966**
Option 1 ID : **264330540472**
Option 2 ID : **264330540473**
Option 3 ID : **264330540471**
Option 4 ID : **264330540474**
Status : **Answered**
Chosen Option : **1**

Join Telegram Group "HaryanaJobs.in"

Q.11 वर्ष 1835 के अंग्रेज़ो के शिक्षा अधिनियम के परिणामस्वरूप _____ को _____ शिक्षा का माध्यम बनाया गया।

Ans
1. अंग्रेज़ी, प्राथमिक
2. स्थानीय भाषा, प्राथमिक
3. स्थानीय भाषा, उच्च
4. अंग्रेज़ी, उच्च

Question Type : **MCQ**
Question ID : **264330138894**
Option 1 ID : **264330544183**
Option 2 ID : **264330544185**
Option 3 ID : **264330544186**
Option 4 ID : **264330544184**
Status : **Answered**
Chosen Option : **4**

Q.12 18वीं शताब्दी की शुरुआत में, राजपूत शासक सवाई राजा जय सिंह ने _____ में अपनी नई राजधानी की स्थापना की।

Ans
1. अजमेर
2. उदयपुर
3. जयपुर
4. जोधपुर

Question Type : **MCQ**
Question ID : **264330133903**
Option 1 ID : **264330524635**
Option 2 ID : **264330524638**
Option 3 ID : **264330524637**
Option 4 ID : **264330524636**
Status : **Answered**
Chosen Option : **3**

Q.13 राउत नाचा (Raut Nacha) भारत के _____ राज्य का एक प्रसिद्ध लोक नृत्य है।

Ans
1. छत्तीसगढ़
2. पंजाब
3. कर्नाटक
4. सिक्किम

Question Type : **MCQ**
Question ID : **264330137946**
Option 1 ID : **264330540392**
Option 2 ID : **264330540391**
Option 3 ID : **264330540393**
Option 4 ID : **264330540394**
Status : **Answered**
Chosen Option : **3**

Join Telegram Group "HaryanaJobs.in"

Q.14 तत्वबोधिनी सभा (Tattvabodhini Sabha) की स्थापना देबेंद्र नाथ टैगोर ने किस वर्ष में की थी?

Ans
1. 1854
2. 1845
3. 1839
4. 1832

Question Type : **MCQ**
Question ID : **264330137935**
Option 1 ID : **264330540347**
Option 2 ID : **264330540348**
Option 3 ID : **264330540350**
Option 4 ID : **264330540349**
Status : **Not Answered**
Chosen Option : **--**

Q.15 निम्नलिखित में से कौन राष्ट्रपति के निर्वाचन में भाग नहीं लेगा?

Ans
1. निर्वाचित लोकसभा सदस्य
2. निर्वाचित राज्यसभा सदस्य
3. राज्य विधान सभाओं के निर्वाचित सदस्य
4. राज्य विधान परिषद के निर्वाचित सदस्य

Question Type : **MCQ**
Question ID : **264330138882**
Option 1 ID : **264330544135**
Option 2 ID : **264330544136**
Option 3 ID : **264330544137**
Option 4 ID : **264330544138**
Status : **Answered**
Chosen Option : **4**

Q.16 किस संस्था का संबंध भारत में गरीबी रेखा के आकलन से है?

Ans
1. भारतीय कृषि अनुसंधान परिषद
2. राष्ट्रीय नमूना सर्वेक्षण संगठन
3. भारतीय रिज़र्व बैंक
4. नीति आयोग

Question Type : **MCQ**
Question ID : **264330134681**
Option 1 ID : **264330527680**
Option 2 ID : **264330527679**
Option 3 ID : **264330527682**
Option 4 ID : **264330527681**
Status : **Answered**
Chosen Option : **2**

Join Telegram Group "HaryanaJobs.in"

Q.17 कोशिकीय अंगक के किस घटक का मुख्य कार्य द्रव्य को संवेष्टित कर अंतर-कोशिकी लक्ष्य तक पहुँचाना या कोशिका के बाहर स्रवण करना है?

Ans
✔ 1. गॉल्जीकाय
✘ 2. गुणसूत्र
✘ 3. हरितलवक
✘ 4. सूत्रकणिका (माइटोकॉन्ड्रिया)

Question Type : **MCQ**
Question ID : **264330137950**
Option 1 ID : **264330540410**
Option 2 ID : **264330540408**
Option 3 ID : **264330540407**
Option 4 ID : **264330540409**
Status : **Answered**
Chosen Option : **1**

Q.18 वर्ष 2011 की जनगणना के अनुसार भारत का दूसरा सबसे बड़ा धार्मिक अल्पसंख्यक समाज कौन-सा है?

Ans
✘ 1. सिख
✘ 2. बौद्ध
✘ 3. मुस्लिम
✔ 4. ईसाई

Question Type : **MCQ**
Question ID : **264330134638**
Option 1 ID : **264330527508**
Option 2 ID : **264330527510**
Option 3 ID : **264330527507**
Option 4 ID : **264330527509**
Status : **Answered**
Chosen Option : **2**

Q.19 निम्नलिखित में से किस पल्लव शासक के शासनकाल में ह्वेन-त्सांग (Hiuen Tsang) ने पल्लवों की राजधानी कांची का भ्रमण किया था?

Ans
✔ 1. नरसिंहवर्मन प्रथम
✘ 2. महेन्द्रवर्मन प्रथम
✘ 3. नरसिंहवर्मन द्वितीय
✘ 4. महेन्द्रवर्मन द्वितीय

Question Type : **MCQ**
Question ID : **264330137932**
Option 1 ID : **264330540336**
Option 2 ID : **264330540335**
Option 3 ID : **264330540337**
Option 4 ID : **264330540338**
Status : **Answered**
Chosen Option : **1**

Join Telegram Group "HaryanaJobs.in"

Q.20 प्रसिद्ध भारतीय संगीतकार उस्ताद अलाउद्दीन खाँ का संबंध निम्न में से किस वाद्य यंत्र से है?

Ans
1. संतूर
2. सितार
3. सरोद
4. सुरबहार

Question Type : **MCQ**
Question ID : **264330137962**
Option 1 ID : **264330540458**
Option 2 ID : **264330540455**
Option 3 ID : **264330540457**
Option 4 ID : **264330540456**
Status : **Answered**
Chosen Option : **2**

Q.21 केन्द्रक एवं कोशिका झिल्ली के मध्य एक जेली के समान मौजूद पदार्थ को क्या कहते हैं?

Ans
1. प्लैज्मा
2. कोशिका भित्ति
3. कोशिका द्रव्य
4. प्लैज्मा झिल्ली

Question Type : **MCQ**
Question ID : **264330133895**
Option 1 ID : **264330524605**
Option 2 ID : **264330524603**
Option 3 ID : **264330524604**
Option 4 ID : **264330524606**
Status : **Answered**
Chosen Option : **3**

Q.22 भारतीय क्रिकेट कंट्रोल बोर्ड (BCCI) की स्थापना सन् _____ में हुई थी।

Ans
1. 1926
2. 1922
3. 1928
4. 1924

Question Type : **MCQ**
Question ID : **264330133885**
Option 1 ID : **264330524565**
Option 2 ID : **264330524563**
Option 3 ID : **264330524566**
Option 4 ID : **264330524564**
Status : **Answered**
Chosen Option : **3**

Join Telegram Group "HaryanaJobs.in"

Q.23 विद्युत धारा के प्रवाह को रोकने या प्रारंभ करने के लिए परिपथ को तोड़ने अथवा पूरा करने के लिए किस युक्ति (device) का प्रयोग किया जाता है?

Ans
1. बल्ब
2. तार
3. विद्युत-रोधक
4. स्विच

Question Type : **MCQ**
Question ID : **264330133897**
Option 1 ID : **264330524611**
Option 2 ID : **264330524613**
Option 3 ID : **264330524614**
Option 4 ID : **264330524612**
Status : **Answered**
Chosen Option : **4**

Q.24 गेहूँ की खेती किस प्रकार की मृदा में सर्वोत्तम ढंग से होती है।

Ans
1. काली मृदा
2. सु-अपवाहित दुमट मृदा
3. पीली मृदा
4. लाल मृदा

Question Type : **MCQ**
Question ID : **264330134636**
Option 1 ID : **264330527500**
Option 2 ID : **264330527501**
Option 3 ID : **264330527502**
Option 4 ID : **264330527499**
Status : **Answered**
Chosen Option : **1**

Q.25 वर्ष 1905 में बंगाल के विभाजन के बाद अंग्रेजों द्वारा आधिकारिक कारण क्या दिया गया?

Ans
1. सेना की आवाजाही को आसान बनाना
2. उग्रवादी कार्यावळींची तपासणी
3. प्रशासकीय सुविधा
4. आर्थिक प्रगति

Question Type : **MCQ**
Question ID : **264330134643**
Option 1 ID : **264330527529**
Option 2 ID : **264330527530**
Option 3 ID : **264330527527**
Option 4 ID : **264330527528**
Status : **Answered**
Chosen Option : **3**

Section : **English Language and Comprehension**

Join Telegram Group "HaryanaJobs.in"

Q.1 Select the word from the options which is exactly opposite in meaning to the bracketed word given in the sentence below.

She must have an (affinity) for women with dark hair.

Ans

1. ✗ Stand
2. ✓ Dislike
3. ✗ Dodge
4. ✗ Tendency

Question Type : **MCQ**
Question ID : **264330136403**
Option 1 ID : **264330534376**
Option 2 ID : **264330534378**
Option 3 ID : **264330534375**
Option 4 ID : **264330534377**
Status : **Answered**
Chosen Option : **2**

Q.2 Select the most appropriate option to fill in the blank.

Very special care should be taken to proportion the sand so as to make a perfectly _____ mixture.

Ans

1. ✗ obvious
2. ✗ envious
3. ✗ devious
4. ✓ impervious

Question Type : **MCQ**
Question ID : **264330136315**
Option 1 ID : **264330534036**
Option 2 ID : **264330534038**
Option 3 ID : **264330534037**
Option 4 ID : **264330534035**
Status : **Answered**
Chosen Option : **3**

Q.3 Identify the segment that contains a grammatical error. If there is no error, select 'No error'.

Your ears are itching / because you are having an / allergic reaction.

Ans

1. ✗ allergic reaction.
2. ✓ No error
3. ✗ Your ears are itching
4. ✗ because you are having an

Question Type : **MCQ**
Question ID : **264330136692**
Option 1 ID : **264330535485**
Option 2 ID : **264330535486**
Option 3 ID : **264330535483**
Option 4 ID : **264330535484**
Status : **Answered**
Chosen Option : **3**

Join Telegram Group "HaryanaJobs.in"

Q.4 Improve the underlined part of the sentence. Choose 'No improvement' as an answer if the sentence is grammatically correct.

Watch your step—the third stair have a broken tread.

Ans

✗ 1. has a broke

✗ 2. No improvement

✓ 3. has a broken

✗ 4. has a break

Question Type : **MCQ**
Question ID : **264330134826**
Option 1 ID : **264330528243**
Option 2 ID : **264330528246**
Option 3 ID : **264330528245**
Option 4 ID : **264330528244**
Status : **Answered**
Chosen Option : **3**

Q.5 Fill in the blank with the most appropriate option.

Every story in this collection is unique, inspirational, and _____.

Ans

✗ 1. sustainable

✗ 2. culpable

✗ 3. apprehensive

✓ 4. relatable

Question Type : **MCQ**
Question ID : **264330136409**
Option 1 ID : **264330534401**
Option 2 ID : **264330534402**
Option 3 ID : **264330534399**
Option 4 ID : **264330534400**
Status : **Answered**
Chosen Option : **1**

Q.6 Select the word segment that substitutes (replaces) the bracketed word segment correctly and completes the sentence meaningfully. Select the option 'no correction required' if the sentence is correct as given.

There were creatures (stood between) the carriage shafts.

Ans

✓ 1. standing between

✗ 2. stood among

✗ 3. No correction required

✗ 4. stands among

Question Type : **MCQ**
Question ID : **264330136695**
Option 1 ID : **264330535495**
Option 2 ID : **264330535497**
Option 3 ID : **264330535498**
Option 4 ID : **264330535496**
Status : **Answered**
Chosen Option : **2**

Join Telegram Group "HaryanaJobs.in"

Q.7 Select the most appropriate word for the given group of words.

Abundant garbage kept at one place.

Ans
✗ 1. Mound of garbage
✗ 2. Hill of garbage
✓ 3. Heap of garbage
✗ 4. Lot of garbage

Question Type : **MCQ**
Question ID : **264330136399**
Option 1 ID : **264330534361**
Option 2 ID : **264330534359**
Option 3 ID : **264330534360**
Option 4 ID : **264330534362**
Status : **Answered**
Chosen Option : **2**

Q.8 Four words are given, out of which only one word is spelt correctly. Choose the correctly spelt word.

Ans
✗ 1. SIEZE
✗ 2. FLOWWER
✓ 3. RHYTHM
✗ 4. RECOMEND

Question Type : **MCQ**
Question ID : **264330136406**
Option 1 ID : **264330534387**
Option 2 ID : **264330534390**
Option 3 ID : **264330534388**
Option 4 ID : **264330534389**
Status : **Answered**
Chosen Option : **3**

Q.9 **Choose the word that can substitute the given group of words.**
A person who leaves his native country to settle in another

Ans
✗ 1. Domicile
✗ 2. Itinerant
✗ 3. Nomad
✓ 4. Emigrant

Question Type : **MCQ**
Question ID : **264330134360**
Option 1 ID : **264330526424**
Option 2 ID : **264330526423**
Option 3 ID : **264330526425**
Option 4 ID : **264330526426**
Status : **Answered**
Chosen Option : **4**

Join Telegram Group "HaryanaJobs.in"

Q.10 Select the most appropriate option to fill in the blank.

And his _____ manner should not be mistaken for a lack of energy.

Ans
1. debase ✗
2. daunt ✗
3. diffident ✓
4. deem ✗

Question Type : **MCQ**
Question ID : **264330136516**
Option 1 ID : **264330534808**
Option 2 ID : **264330534809**
Option 3 ID : **264330534807**
Option 4 ID : **264330534810**
Status : **Answered**
Chosen Option : **4**

Q.11 Identify the segment that contains a grammatical error. If there is no error, select 'No error'.

'Don't you get / involve!' Sandhya / whispered urgently to him.

Ans
1. whispered urgently to him. ✗
2. Don't you get ✗
3. involve!' Sandhya ✓
4. No error ✗

Question Type : **MCQ**
Question ID : **264330136386**
Option 1 ID : **264330534313**
Option 2 ID : **264330534311**
Option 3 ID : **264330534312**
Option 4 ID : **264330534314**
Status : **Answered**
Chosen Option : **1**

Q.12 **In the following question, out of the given four alternatives, select the alternative which best expresses the meaning of the Idiom/Phrase.**
Born with silver spoon in one's mouth

Ans
1. Useful for one's purpose ✗
2. To accomplish two tasks in one attempt ✗
3. Born in a very rich family ✓
4. A work which needs tremendous energy ✗

Question Type : **MCQ**
Question ID : **264330134366**
Option 1 ID : **264330526450**
Option 2 ID : **264330526449**
Option 3 ID : **264330526448**
Option 4 ID : **264330526447**
Status : **Answered**
Chosen Option : **3**

Join Telegram Group "HaryanaJobs.in"

Q.13 The statement below has been given with bracketed text. Select the option with correct idiom for the bracketed text.

His mother and I (share the same opinion) about his decision to drop out of college.

Ans

1. leave no stone unturned
2. feel blue
3. paint the town red
4. see eye to eye ✔

Question Type : **MCQ**
Question ID : **264330136405**
Option 1 ID : **264330534384**
Option 2 ID : **264330534385**
Option 3 ID : **264330534386**
Option 4 ID : **264330534383**
Status : **Answered**
Chosen Option : **4**

Q.14 Select the wrongly spelt word.

Ans

1. Anonyomus ✔
2. Perfidious
3. Circuitous
4. Adulation

Question Type : **MCQ**
Question ID : **264330136314**
Option 1 ID : **264330534034**
Option 2 ID : **264330534032**
Option 3 ID : **264330534031**
Option 4 ID : **264330534033**
Status : **Answered**
Chosen Option : **1**

Q.15 Select the most appropriate option to substitute the bracketed segment in the given sentence. If there is no need to substitute it, select 'no substitution required'.

When it comes to face masks, the (market are flooded with choices).

Ans

1. No substitution required
2. market are flooded off choices
3. market is flooded with choices ✔
4. markets is flooded with choices

Question Type : **MCQ**
Question ID : **264330136514**
Option 1 ID : **264330534802**
Option 2 ID : **264330534801**
Option 3 ID : **264330534799**
Option 4 ID : **264330534800**
Status : **Answered**
Chosen Option : **3**

Join Telegram Group "HaryanaJobs.in"

Q.16 Select the word from the options which is similar in meaning to the bracketed word given in the sentence below.

The sky was alight from (top) to horizon.

Ans

✔ 1. zenith

✘ 2. summit

✘ 3. base

✘ 4. start

Question Type : **MCQ**
Question ID : **264330136401**
Option 1 ID : **264330534368**
Option 2 ID : **264330534370**
Option 3 ID : **264330534369**
Option 4 ID : **264330534367**
Status : **Answered**
Chosen Option : **1**

Q.17 Find the part of the given sentence that has an error in it. If there is no error, choose 'No error'.

The political economy of reforms teaches us one major lesson loud and clearer.

Ans

✔ 1. lesson loud and clearer.

✘ 2. No error

✘ 3. The political economy of reforms

✘ 4. teaches us one major

Question Type : **MCQ**
Question ID : **264330135308**
Option 1 ID : **264330530145**
Option 2 ID : **264330530146**
Option 3 ID : **264330530143**
Option 4 ID : **264330530144**
Status : **Answered**
Chosen Option : **1**

Q.18 Choose the word that is opposite in meaning to the given word.

Absence

Ans

✘ 1. Dearth

✘ 2. Vanity

✔ 3. Surfeit

✘ 4. Privation

Question Type : **MCQ**
Question ID : **264330136839**
Option 1 ID : **264330536050**
Option 2 ID : **264330536047**
Option 3 ID : **264330536048**
Option 4 ID : **264330536049**
Status : **Not Answered**
Chosen Option : **--**

Join Telegram Group "HaryanaJobs.in"

Q.19 Fill in the blank with the most appropriate option.

Towel off and _____ your moisturizer immediately.

Ans
1. surrender ✗
2. apply ✓
3. refer ✗
4. touch ✗

Question Type : **MCQ**
Question ID : **264330136390**
Option 1 ID : **264330534327**
Option 2 ID : **264330534328**
Option 3 ID : **264330534330**
Option 4 ID : **264330534329**
Status : **Answered**
Chosen Option : **1**

Q.20 Select the most appropriate synonym of the given word.

Withdraw

Ans
1. Combine ✗
2. Engage ✗
3. Persevere ✗
4. Retreat ✓

Question Type : **MCQ**
Question ID : **264330136400**
Option 1 ID : **264330534365**
Option 2 ID : **264330534364**
Option 3 ID : **264330534363**
Option 4 ID : **264330534366**
Status : **Answered**
Chosen Option : **3**

Join Telegram Group "HaryanaJobs.in"

Comprehension:

In the following passage some of the words have been deleted. Read the passage carefully and select the correct answer for the given blank out of the four alternatives.

The study, published today in a magazine, finds that kids (1) _____ played only individual sports, like tennis or gymnastics, tended to (2) _____ more mental health difficulties. As a researcher, Hoffmann has long been interested in how sports (3) _____ the psychological health of young people, partly because studies have (4) _____ both positive and negative associations between mental health and sports (5) _____ in children and adolescents.

SubQuestion No : 21

Q.21 Select the most appropriate option to fill in the blank No. 1.

Ans

✗ 1. whose

✓ 2. who

✗ 3. which

✗ 4. that

Question Type : **MCQ**
Question ID : **264330136830**
Option 1 ID : **264330536011**
Option 2 ID : **264330536012**
Option 3 ID : **264330536013**
Option 4 ID : **264330536014**
Status : **Answered**
Chosen Option : **2**

Comprehension:

In the following passage some of the words have been deleted. Read the passage carefully and select the correct answer for the given blank out of the four alternatives.

The study, published today in a magazine, finds that kids (1) _____ played only individual sports, like tennis or gymnastics, tended to (2) _____ more mental health difficulties. As a researcher, Hoffmann has long been interested in how sports (3) _____ the psychological health of young people, partly because studies have (4) _____ both positive and negative associations between mental health and sports (5) _____ in children and adolescents.

SubQuestion No : 22

Q.22 Select the most appropriate option to fill in the blank No. 2.

Ans

✗ 1. claim

✓ 2. face

✗ 3. absorb

✗ 4. breathe

Question Type : **MCQ**
Question ID : **264330136831**
Option 1 ID : **264330536016**
Option 2 ID : **264330536017**
Option 3 ID : **264330536015**
Option 4 ID : **264330536018**
Status : **Answered**
Chosen Option : **3**

Join Telegram Group "HaryanaJobs.in"

Comprehension:

In the following passage some of the words have been deleted. Read the passage carefully and select the correct answer for the given blank out of the four alternatives.

The study, published today in a magazine, finds that kids (1) _____ played only individual sports, like tennis or gymnastics, tended to (2) _____ more mental health difficulties. As a researcher, Hoffmann has long been interested in how sports (3) _____ the psychological health of young people, partly because studies have (4) _____ both positive and negative associations between mental health and sports (5) _____ in children and adolescents.

SubQuestion No : 23

Q.23 Select the most appropriate option to fill in the blank No. 3.

Ans

✔ 1. impact

✘ 2. torment

✘ 3. thrash

✘ 4. request

Question Type : **MCQ**
Question ID : **264330136832**
Option 1 ID : **264330536022**
Option 2 ID : **264330536019**
Option 3 ID : **264330536020**
Option 4 ID : **264330536021**
Status : **Answered**
Chosen Option : **1**

Comprehension:

In the following passage some of the words have been deleted. Read the passage carefully and select the correct answer for the given blank out of the four alternatives.

The study, published today in a magazine, finds that kids (1) _____ played only individual sports, like tennis or gymnastics, tended to (2) _____ more mental health difficulties. As a researcher, Hoffmann has long been interested in how sports (3) _____ the psychological health of young people, partly because studies have (4) _____ both positive and negative associations between mental health and sports (5) _____ in children and adolescents.

SubQuestion No : 24

Q.24 Select the most appropriate option to fill in the blank No. 4.

Ans

✘ 1. find

✘ 2. founds

✔ 3. found

✘ 4. founded

Question Type : **MCQ**
Question ID : **264330136833**
Option 1 ID : **264330536025**
Option 2 ID : **264330536023**
Option 3 ID : **264330536026**
Option 4 ID : **264330536024**
Status : **Answered**
Chosen Option : **4**

Join Telegram Group "HaryanaJobs.in"

Comprehension:

In the following passage some of the words have been deleted. Read the passage carefully and select the correct answer for the given blank out of the four alternatives.

The study, published today in a magazine, finds that kids (1) _____ played only individual sports, like tennis or gymnastics, tended to (2) _____ more mental health difficulties. As a researcher, Hoffmann has long been interested in how sports (3) _____ the psychological health of young people, partly because studies have (4) _____ both positive and negative associations between mental health and sports (5) _____ in children and adolescents.

SubQuestion No : 25

Q.25 Select the most appropriate option to fill in the blank No. 5.

Ans

✗ 1. celebration

✗ 2. establishment

✗ 3. remuneration

✓ 4. participation

Question Type : **MCQ**
Question ID : **264330136834**
Option 1 ID : **264330536028**
Option 2 ID : **264330536029**
Option 3 ID : **264330536030**
Option 4 ID : **264330536027**
Status : **Answered**
Chosen Option : **4**

Join Telegram Group "HaryanaJobs.in"

Multi Tasking Non Technical Staff and Havaldar CBIC and CBN Examination 2022

Roll Number	HaryanaJobs.in
Candidate Name	HaryanaJobs.in
Venue Name	iON Digital Zone iDZ Borjhar
Exam Date	08/05/2023
Exam Time	12:00 PM - 2:00 PM
Subject	MTS Non Tech Havaldar CBIC and CBN Examination 2022

Section : **Numerical and Mathematical Ability**

Q.1 सोहन समान दूरी की चार यात्राएँ करता है। पहली यात्रा में उसकी चाल 240 km/hr थी और बाद की प्रत्येक यात्रा में उसकी चाल पिछली यात्रा की चाल से आधी थी। इन चारों यात्राओं में सोहन की औसत चाल क्या है?

Ans

✗ 1. 52 km/hr

✗ 2. 50 km/hr

✗ 3. 60 km/hr

✓ 4. 64 km/hr

Question Type : **MCQ**
Question ID : **264330137134**
Option 1 ID : **264330537181**
Option 2 ID : **264330537182**
Option 3 ID : **264330537179**
Option 4 ID : **264330537180**
Status : **Answered**
Chosen Option : **4**

Q.2 रानी अकेले किसी कार्य को 10 दिनों में कर सकती है और प्रिया अकेले उसी कार्य को 12 दिनों में कर सकती है और गुड्डू अकेले उसी कार्य को 15 दिनों में कर सकता है। यदि वे उस कार्य को साथ मिलकर करते हैं और उन्हें Rs. 6000 का भुगतान किया जाता है, तो उसमें प्रिया का हिस्सा कितना है?

Ans

✗ 1. Rs.1800

✗ 2. Rs.1600

✗ 3. Rs.2500

✓ 4. Rs.2000

Question Type : **MCQ**
Question ID : **264330137174**
Option 1 ID : **264330537341**
Option 2 ID : **264330537342**
Option 3 ID : **264330537339**
Option 4 ID : **264330537340**
Status : **Answered**
Chosen Option : **4**

Join Telegram Group "HaryanaJobs.in"

Q.3 कबीर 3 मील प्रति घंटे (miles per hour) की चाल से एक पहाड़ी पर चढ़ता है और 5 मील प्रति घंटे की चाल से नीचे उतरता है। यदि पूरी यात्रा में कुल 10 घंटे का समय लगता है, तो पहाड़ी की चोटी और तलहटी के बीच की दूरी कितनी थी?

Ans
✔ 1. 18.75 मील
✘ 2. 20.5 मील
✘ 3. 37.5 मील
✘ 4. 3.75 मील

Question Type : **MCQ**
Question ID : **264330133593**
Option 1 ID : **264330523396**
Option 2 ID : **264330523398**
Option 3 ID : **264330523395**
Option 4 ID : **264330523397**
Status : **Answered**
Chosen Option : **1**

Q.4 1.65 × 1.65 × 1.65 + 0.35 × 0.35 × 0.35 + 3.465 का मान क्या है?

Ans
✔ 1. 8
✘ 2. 7.5
✘ 3. 5.5
✘ 4. 4

Question Type : **MCQ**
Question ID : **264330139093**
Option 1 ID : **264330544980**
Option 2 ID : **264330544981**
Option 3 ID : **264330544982**
Option 4 ID : **264330544979**
Status : **Answered**
Chosen Option : **3**

Q.5 (2 : 5), (5 : 11) और (33 : 8) का मिश्रित अनुपात क्या है?

Ans
✘ 1. 2 : 5
✔ 2. 3 : 4
✘ 3. 33 : 5
✘ 4. 2 : 11

Question Type : **MCQ**
Question ID : **264330133589**
Option 1 ID : **264330523380**
Option 2 ID : **264330523379**
Option 3 ID : **264330523382**
Option 4 ID : **264330523381**
Status : **Not Answered**
Chosen Option : **--**

Join Telegram Group "HaryanaJobs.in"

Q.6 एक वस्तु का क्रय मूल्य Rs.350 है। यदि लाभ प्रतिशत 35 प्रतिशत है, तो लाभ का मूल्य क्या है?

Ans
✔ 1. Rs.122.5
✘ 2. Rs.112.8
✘ 3. Rs.145.6
✘ 4. Rs.135.6

Question Type : **MCQ**
Question ID : **264330135049**
Option 1 ID : **264330529131**
Option 2 ID : **264330529133**
Option 3 ID : **264330529132**
Option 4 ID : **264330529134**
Status : **Answered**
Chosen Option : **1**

Q.7 1/5 of 30 - (1/4) of 20 + 1 का मान है:

Ans
✘ 1. 0
✔ 2. 2
✘ 3. 6
✘ 4. 12

Question Type : **MCQ**
Question ID : **264330133581**
Option 1 ID : **264330523349**
Option 2 ID : **264330523350**
Option 3 ID : **264330523348**
Option 4 ID : **264330523347**
Status : **Answered**
Chosen Option : **2**

Q.8 एक बेईमान दुकानदार Rs.45 प्रति किलोग्राम की दर से चीनी बेचता है। चीनी का क्रय मूल्य Rs.40 प्रति किलोग्राम है। ऐसा करने के बाद भी वह 1 kg के प्रत्येक पैकेट से 100 gm चीनी निकालकर अपना मुनाफा बढ़ाने की कोशिश करता है। दुकानदार का लाभ प्रतिशत कितना है?

Ans
✘ 1. 35%
✘ 2. 30%
✘ 3. 20%
✔ 4. 25%

Question Type : **MCQ**
Question ID : **264330133587**
Option 1 ID : **264330523374**
Option 2 ID : **264330523373**
Option 3 ID : **264330523371**
Option 4 ID : **264330523372**
Status : **Answered**
Chosen Option : **3**

Join Telegram Group "HaryanaJobs.in"

Q.9 उस अर्धगोले के आयतन का 1/21वां भाग ज्ञात कीजिए जिसकी त्रिज्या 4.2 m है।

Ans
1. $7.1\ m^3$ ✗
2. $8.2\ m^3$ ✗
3. $6.6\ m^3$ ✗
4. $7.3\ m^3$ ✓

Question Type : **MCQ**
Question ID : **264330135410**
Option 1 ID : **264330530550**
Option 2 ID : **264330530549**
Option 3 ID : **264330530547**
Option 4 ID : **264330530548**
Status : **Answered**
Chosen Option : **4**

Q.10 सुरेश अकेले प्रतिदिन 1 घंटा कार्य करके किसी कार्य को 10 दिनों में पूरा कर सकता है। शालू अकेले उसी कार्य को प्रतिदिन 5 घंटे कार्य करके 2 दिनों में कर सकती है। इसी कार्य को 10 दिनों में पूरा करने के लिए उन्हें साथ मिलकर एक दिन में कितने घंटे कार्य करना होगा?

Ans
1. 1.5 घंटे ✗
2. 1 घंटे ✗
3. 0.5 घंटे ✓
4. 2 घंटे ✗

Question Type : **MCQ**
Question ID : **264330139077**
Option 1 ID : **264330544915**
Option 2 ID : **264330544918**
Option 3 ID : **264330544917**
Option 4 ID : **264330544916**
Status : **Answered**
Chosen Option : **3**

Q.11 प्रत्येक 9 cm किनारे वाले दो घनों को जोड़कर एक घनाभ बनाया जाता है। इस नए घनाभ का कुल पृष्ठीय क्षेत्रफल कितना है?

Ans
1. $990\ cm^2$ ✗
2. $1024\ cm^2$ ✗
3. $810\ cm^2$ ✓
4. $775\ cm^2$ ✗

Question Type : **MCQ**
Question ID : **264330137189**
Option 1 ID : **264330537402**
Option 2 ID : **264330537400**
Option 3 ID : **264330537401**
Option 4 ID : **264330537399**
Status : **Answered**
Chosen Option : **3**

Join Telegram Group "HaryanaJobs.in"

Q.12 नीचे दी गई तालिका में 6 अलग-अलग स्कूलों में छात्रों की संख्या को दर्शाया गया है।

स्कूल	छात्र
A	120
B	60
C	70
D	80
E	30
F	50

स्कूल A में छात्रों की संख्या, स्कूल F में छात्रों की संख्या का कितना प्रतिशत है?

Ans
1. 41.66 प्रतिशत
2. 120 प्रतिशत
3. 200 प्रतिशत
4. 240 प्रतिशत

Question Type : **MCQ**
Question ID : **264330139094**
Option 1 ID : **264330544986**
Option 2 ID : **264330544985**
Option 3 ID : **264330544983**
Option 4 ID : **264330544984**
Status : **Answered**
Chosen Option : **4**

Q.13 Rs. 2400 के मूलधन पर 8 प्रतिशत वार्षिक दर से 6 वर्षों का साधारण ब्याज कितना होगा?

Ans
1. Rs. 1082
2. Rs. 972
3. Rs. 1152
4. Rs. 1232

Question Type : **MCQ**
Question ID : **264330137884**
Option 1 ID : **264330540144**
Option 2 ID : **264330540146**
Option 3 ID : **264330540143**
Option 4 ID : **264330540145**
Status : **Answered**
Chosen Option : **3**

Join Telegram Group "HaryanaJobs.in"

Q.14 15%, 10% और 5% के क्रमिक बट्टों के समतुल्य एक एकल बट्टा _____ के बराबर है।

Ans
1. 32%
2. 31.5%
3. 27.325%
4. 26.5%

Question Type : **MCQ**
Question ID : **264330133588**
Option 1 ID : **264330523376**
Option 2 ID : **264330523375**
Option 3 ID : **264330523377**
Option 4 ID : **264330523378**
Status : **Answered**
Chosen Option : **3**

Q.15 निम्नलिखित दंड आलेख में किसी विशिष्ट वर्ष में एक स्कूल प्रशासन द्वारा विभिन्न खेलों पर खर्च की गई धनराशि को दर्शाया गया है। हॉकी और फुटबॉल पर खर्च की गई धनराशि, बास्केटबॉल और टेनिस पर खर्च की गई राशि का कितना प्रतिशत है?

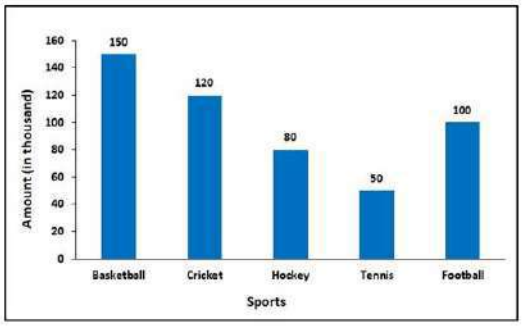

Amount (in thousand) = धनराशि (हजार में)

Sports = खेल

Basketball = बास्केटबॉल, Cricket = क्रिकेट, Hockey = हॉकी, Tennis = टेनिस, Football = फुटबॉल

Ans
1. 20%
2. 50%
3. 70%
4. 90%

Question Type : **MCQ**
Question ID : **264330133597**
Option 1 ID : **264330523411**
Option 2 ID : **264330523412**
Option 3 ID : **264330523413**
Option 4 ID : **264330523414**
Status : **Answered**
Chosen Option : **4**

Join Telegram Group "HaryanaJobs.in"

Q.16 पाँच क्रमागत संख्याओं का औसत 53 है। इनमें से सबसे बड़ी संख्या कौन-सी है?

Ans
1. 52
2. 53
3. 55
4. 54

Question Type : **MCQ**
Question ID : **264330133583**
Option 1 ID : **264330523355**
Option 2 ID : **264330523356**
Option 3 ID : **264330523358**
Option 4 ID : **264330523357**
Status : **Answered**
Chosen Option : **3**

Q.17 यदि 540 kg घास 100 गायों के लिए 9 दिन का पर्याप्त चारा है, तो 900 kg घास 50 गायों के लिए कितने दिन के लिए पर्याप्त होगी?

Ans
1. 10 दिन
2. 50 दिन
3. 30 दिन
4. 20 दिन

Question Type : **MCQ**
Question ID : **264330133590**
Option 1 ID : **264330523385**
Option 2 ID : **264330523383**
Option 3 ID : **264330523384**
Option 4 ID : **264330523386**
Status : **Answered**
Chosen Option : **3**

Q.18 दो सह-अभाज्य संख्याओं का गुणनफल 483 है। दोनों संख्याओं का लघुतम समापवर्त्य ज्ञात कीजिए।

Ans
1. 21
2. 483
3. 1
4. 23

Question Type : **MCQ**
Question ID : **264330138370**
Option 1 ID : **264330542089**
Option 2 ID : **264330542087**
Option 3 ID : **264330542088**
Option 4 ID : **264330542090**
Status : **Answered**
Chosen Option : **2**

Join Telegram Group "HaryanaJobs.in"

Q.19 840, 1500 का कितना प्रतिशत है?

Ans
1. 64 प्रतिशत
2. 57 प्रतिशत
3. 56 प्रतिशत
4. 62 प्रतिशत

Question Type : **MCQ**
Question ID : **264330137879**
Option 1 ID : **264330540124**
Option 2 ID : **264330540123**
Option 3 ID : **264330540126**
Option 4 ID : **264330540125**
Status : **Answered**
Chosen Option : **3**

Q.20 एक कार पहले घंटे के लिए 40 km/hr की चाल से और अगले घंटे के लिए 60 km/hr की चाल से यात्रा करती है। कार की औसत चाल क्या होगी?

Ans
1. 50 km/hr
2. 40 km/hr
3. 60 km/hr
4. 45 km/hr

Question Type : **MCQ**
Question ID : **264330141042**
Option 1 ID : **264330552516**
Option 2 ID : **264330552515**
Option 3 ID : **264330552517**
Option 4 ID : **264330552518**
Status : **Answered**
Chosen Option : **1**

Section : **Reasoning Ability and Problem Solving**

Q.1 एक निश्चित कूट भाषा में, 'READER' को 'UHGDHU' लिखा जाता है। उसी कूट भाषा में 'SENIOR' को कैसे लिखा जाएगा?

Ans
1. URMQHV
2. URLQIV
3. URLQHV
4. URLQHW

Question Type : **MCQ**
Question ID : **264330137371**
Option 1 ID : **264330538112**
Option 2 ID : **264330538113**
Option 3 ID : **264330538114**
Option 4 ID : **264330538111**
Status : **Answered**
Chosen Option : **3**

Join Telegram Group "HaryanaJobs.in"

Q.2 छः मित्र पवन, कांता, ऋषभ, सुभम, मयंक और विक्रम एक परिधि में केंद्र की ओर मुख करके बैठे हैं। पवन, विक्रम के ठीक बाएँ पर है। ऋषभ, पवन के दाएँ से चौथे स्थान पर है। पवन और ऋषभ के बीच केवल मयंक बैठा है। सुभम, विक्रम के आसन्न नहीं बैठा है। सुभम के ठीक दाएँ कौन बैठा है?

Ans

1. ✗ मयंक
2. ✗ पवन
3. ✗ कांता
4. ✓ ऋषभ

Question Type : **MCQ**
Question ID : **264330133327**
Option 1 ID : **264330522346**
Option 2 ID : **264330522345**
Option 3 ID : **264330522344**
Option 4 ID : **264330522343**
Status : **Answered**
Chosen Option : **4**

Q.3 उस विकल्प को चुनिए जो तीसरे अक्षर-समूह से ठीक उसी तरह संबंधित है जिस तरह दूसरा अक्षर-समूह पहले अक्षर-समूह से संबंधित है।
MNO : RST :: GHI :?

Ans

1. ✗ MNL
2. ✗ LOM
3. ✓ LMN
4. ✗ LNO

Question Type : **MCQ**
Question ID : **264330133321**
Option 1 ID : **264330522320**
Option 2 ID : **264330522321**
Option 3 ID : **264330522319**
Option 4 ID : **264330522322**
Status : **Answered**
Chosen Option : **3**

Q.4 दिए गए पैटर्न का ध्यानपूर्वक अध्ययन कीजिए और उस संख्या को चुनिए जो इसमें प्रश्न चिन्ह (?) के स्थान पर आ सकती है।
प्रथम पंक्ति- 80, 40, 160
द्वितीय पंक्ति- 30, 15, 60
तृतीय पंक्ति- 24, 12,?

Ans

1. ✗ 54
2. ✗ 38
3. ✓ 48
4. ✗ 65

Question Type : **MCQ**
Question ID : **264330133334**
Option 1 ID : **264330522374**
Option 2 ID : **264330522371**
Option 3 ID : **264330522372**
Option 4 ID : **264330522373**
Status : **Answered**
Chosen Option : **3**

Join Telegram Group "HaryanaJobs.in"

Q.5 एक निश्चित कूट भाषा में, 'HEG' को '840' लिखा जाता है, 'JFD' को '720' लिखा जाता है। उस कूट भाषा में 'JDK' को कैसे लिखा जाएगा?

Ans
1. 1400 ✗
2. 1280 ✗
3. 1320 ✓
4. 1380 ✗

Question Type : **MCQ**
Question ID : **264330137093**
Option 1 ID : **264330537015**
Option 2 ID : **264330537017**
Option 3 ID : **264330537018**
Option 4 ID : **264330537016**
Status : **Answered**
Chosen Option : **3**

Q.6 दी गई श्रृंखला में निम्नलिखित में से कौन-सी संख्या प्रश्न चिन्ह (?) के स्थान पर आएगी?
68, 62, 50, 32, 8, -22,?

Ans
1. 58 ✗
2. -53 ✗
3. -58 ✓
4. -75 ✗

Question Type : **MCQ**
Question ID : **264330137799**
Option 1 ID : **264330539805**
Option 2 ID : **264330539806**
Option 3 ID : **264330539803**
Option 4 ID : **264330539804**
Status : **Answered**
Chosen Option : **3**

Q.7 दो कथन दिए गए हैं और उनके बाद दो निष्कर्ष I और II दिए गए हैं। कथनों को सत्य मानते हुए, चाहे वे सामान्यतः ज्ञात तथ्यों से अलग प्रतीत होते हों, निश्चय कीजिए कि कौन-सा निष्कर्ष तार्किक रूप से कथनों के अनुसार है।
कथन:
सभी मेज़ें, मज़बूत हैं।
कोई मज़बूत, कमजोर नहीं है।
निष्कर्ष:
I. कोई मेज़, कमजोर नहीं है।
II. कुछ कमजोर, मेज़ें हैं।

Ans
1. निष्कर्ष I और II दोनों कथनों के अनुसार हैं ✗
2. सिर्फ निष्कर्ष I कथनों के अनुसार है ✓
3. सिर्फ निष्कर्ष II कथनों के अनुसार है ✗
4. निष्कर्ष I और II में से कोई भी कथनों के अनुसार नहीं है ✗

Question Type : **MCQ**
Question ID : **264330133330**
Option 1 ID : **264330522357**
Option 2 ID : **264330522355**
Option 3 ID : **264330522356**
Option 4 ID : **264330522358**
Status : **Answered**
Chosen Option : **4**

Join Telegram Group "HaryanaJobs.in"

Q.8 एक निश्चित कूट भाषा में, 'SNOW' को '21, 16, 17, 25' लिखा जाता है, 'RIDE' को '20, 11, 6, 7' लिखा जाता है। उस कूट भाषा में 'TAPE' को कैसे लिखा जाएगा?

Ans
1. 20, 3, 18, 7
2. 22, 3, 17, 7
3. 22, 3, 18, 7
4. 22, 3, 18, 6

Question Type : **MCQ**
Question ID : **264330138524**
Option 1 ID : **264330542705**
Option 2 ID : **264330542703**
Option 3 ID : **264330542704**
Option 4 ID : **264330542706**
Status : **Answered**
Chosen Option : **3**

Q.9 पाँच पुरुष M, N, O, P और Q एक पंक्ति में उत्तर की ओर मुख करके बैठे हैं। M एक छोर पर बैठा है और O दूसरे छोर पर बैठा है। Q, M के ठीक बाएँ और P के ठीक दाएँ पर बैठा है। O के दाएँ से तीसरे स्थान पर कौन बैठा है?

Ans
1. N
2. Q
3. P
4. M

Question Type : **MCQ**
Question ID : **264330133326**
Option 1 ID : **264330522340**
Option 2 ID : **264330522342**
Option 3 ID : **264330522341**
Option 4 ID : **264330522339**
Status : **Answered**
Chosen Option : **2**

Q.10 दी गई श्रृंखला में निम्नलिखित में से कौन-सी संख्या प्रश्न चिन्ह (?) के स्थान पर आएगी?
55, 42, 31, 22, 15, 10,?

Ans
1. 6
2. 5
3. 7
4. 3

Question Type : **MCQ**
Question ID : **264330133332**
Option 1 ID : **264330522363**
Option 2 ID : **264330522366**
Option 3 ID : **264330522364**
Option 4 ID : **264330522365**
Status : **Answered**
Chosen Option : **3**

Join Telegram Group "HaryanaJobs.in"

Q.11 उस विकल्प को चुनिए जो तीसरी संख्या से ठीक उसी तरह संबंधित है जिस तरह दूसरी संख्या पहली संख्या से संबंधित है।
435 : 87 :: 285 : ?

Ans
1. 58 ✗
2. 57 ✓
3. 56 ✗
4. 59 ✗

Question Type : **MCQ**
Question ID : **264330137801**
Option 1 ID : **264330539811**
Option 2 ID : **264330539812**
Option 3 ID : **264330539813**
Option 4 ID : **264330539814**
Status : **Answered**
Chosen Option : **2**

Q.12 दो कथन दिए गए हैं और उनके बाद दो निष्कर्ष I और II दिए गए हैं। कथनों को सत्य मानते हुए, चाहे वे सामान्यतः ज्ञात तथ्यों से अलग प्रतीत होते हों, निश्चय कीजिए कि कौन-सा निष्कर्ष तार्किक रूप से कथनों के अनुसार है।
कथन:
सभी बोतलें, काली हैं।
कुछ काले, सफ़ेद हैं।
निष्कर्ष:
I. सभी काले, बोतलें हैं।
II. कुछ काले, सफ़ेद नहीं हैं।

Ans
1. सिर्फ निष्कर्ष II कथनों के अनुसार है ✗
2. निष्कर्ष I और II में से कोई भी कथनों के अनुसार नहीं है ✓
3. निष्कर्ष I और II दोनों कथनों के अनुसार हैं ✗
4. सिर्फ निष्कर्ष I कथनों के अनुसार है ✗

Question Type : **MCQ**
Question ID : **264330133329**
Option 1 ID : **264330522352**
Option 2 ID : **264330522354**
Option 3 ID : **264330522353**
Option 4 ID : **264330522351**
Status : **Answered**
Chosen Option : **1**

Join Telegram Group "HaryanaJobs.in"

Q.13 अलग-अलग कद वाले सात मित्र हारून, इमान, जेसन, कीर्ति, लिसा, मोहन और नीति अपने कद के अवरोही क्रम में खड़े हैं। सबसे ऊँचा व्यक्ति पंक्ति में सबसे आगे और सबसे छोटा व्यक्ति पंक्ति में सबसे आख़िर में खड़ा है। हारून, लिसा के ठीक पीछे खड़ा है, जो कीर्ति के ठीक पीछे खड़ी है। मोहन और नीति के बीच सिर्फ दो व्यक्ति खड़े हैं। इमान आगे से दूसरे स्थान पर खड़ा है। मोहन सबसे ऊँचा नहीं है। पंक्ति में सबसे आगे कौन खड़ा है?

Ans

✗ 1. मोहन

✓ 2. नीती

✗ 3. जेसन

✗ 4. कीर्ति

Question Type : **MCQ**
Question ID : **264330133328**
Option 1 ID : **264330522347**
Option 2 ID : **264330522349**
Option 3 ID : **264330522350**
Option 4 ID : **264330522348**
Status : **Answered**
Chosen Option : **2**

Q.14 उस विकल्प आकृति को चुनिए जो नीचे दी गई आकृति में पैटर्न को पूरा करने के लिए प्रश्न चिन्ह (?) के स्थान पर आएगी। (घूर्णन की अनुमति नहीं है)।

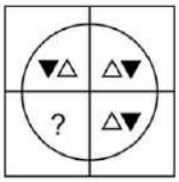

Ans

✗ 1.

✗ 2.

✗ 3.

✓ 4.

Question Type : **MCQ**
Question ID : **264330133339**
Option 1 ID : **264330522391**
Option 2 ID : **264330522393**
Option 3 ID : **264330522392**
Option 4 ID : **264330522394**
Status : **Answered**
Chosen Option : **4**

Join Telegram Group "HaryanaJobs.in"

Q.15 दी गई श्रृंखला में निम्नलिखित में से कौन-सा अक्षर प्रश्न चिन्ह (?) के स्थान पर आएगा?

d, f, h, j, l, n, p, r,?

Ans

✔ 1. t

✘ 2. s

✘ 3. u

✘ 4. v

Question Type : **MCQ**
Question ID : **264330133320**
Option 1 ID : **264330522316**
Option 2 ID : **264330522315**
Option 3 ID : **264330522317**
Option 4 ID : **264330522318**
Status : **Answered**
Chosen Option : **1**

Q.16 (::) के बाईं ओर दिए गए शब्द आपस में किसी तर्क/नियम/संबंध द्वारा संबंधित हैं। समान तर्क/नियम/संबंध के आधार पर दिए गए विकल्पों में से (::) के दाईं ओर लुप्त शब्द/शब्द युग्म को चुनिए।

गुजरात : गांधीनगर:: राजस्थान : ?

Ans

✘ 1. जोधपुर

✔ 2. जयपुर

✘ 3. उदयपुर

✘ 4. चंडीगढ़

Question Type : **MCQ**
Question ID : **264330138478**
Option 1 ID : **264330542521**
Option 2 ID : **264330542519**
Option 3 ID : **264330542520**
Option 4 ID : **264330542522**
Status : **Answered**
Chosen Option : **2**

Join Telegram Group "HaryanaJobs.in"

Q.17 यदि एक दर्पण को रेखा AB पर रखा जाए, तो दी गई विकल्प आकृतियों में से कौन-सी आकृति प्रश्न आकृति का सही प्रतिबिम्ब होगी?

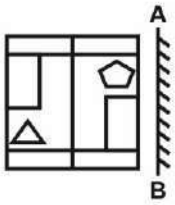

Ans

✔ 1.

✘ 2.

✘ 3.

✘ 4.

Question Type : **MCQ**
Question ID : **264330138869**
Option 1 ID : **264330544085**
Option 2 ID : **264330544086**
Option 3 ID : **264330544083**
Option 4 ID : **264330544084**
Status : **Answered**
Chosen Option : **1**

Join Telegram Group "HaryanaJobs.in"

Q.18 (::) के बाईं ओर दिए गए शब्द आपस में किसी तर्क/नियम/संबंध द्वारा संबंधित हैं। समान तर्क/नियम/संबंध के आधार पर दिए गए विकल्पों में से (::) के दाईं ओर लुप्त शब्द/शब्द युग्म को चुनिए।

वॉट : शक्ति (Power) :: ओम : ?

Ans

✗ 1. आयतन

✗ 2. विद्युत धारा

✗ 3. बल

✓ 4. विद्युत प्रतिरोध

Question Type : **MCQ**
Question ID : **264330137087**
Option 1 ID : **264330536993**
Option 2 ID : **264330536992**
Option 3 ID : **264330536994**
Option 4 ID : **264330536991**
Status : **Answered**
Chosen Option : **4**

Q.19 उस विकल्प आकृति को चुनिए जिसमें दी गई आकृति निहित है।(घूर्णन की अनुमति नहीं है)

Ans

✗ 1.

✓ 2.

✗ 3.

✗ 4.

Question Type : **MCQ**
Question ID : **264330138868**
Option 1 ID : **264330544082**
Option 2 ID : **264330544080**
Option 3 ID : **264330544081**
Option 4 ID : **264330544079**
Status : **Answered**
Chosen Option : **2**

Join Telegram Group "HaryanaJobs.in"

Q.20 उस विकल्प को चुनिए जो तीसरे शब्द से ठीक उसी तरह संबंधित है जिस तरह दूसरा शब्द पहले शब्द से संबंधित है।
अंडविज्ञान : अंडे :: कवक विज्ञान :?

Ans

1. विषाणु ✗
2. कवक ✓
3. जीवाणु ✗
4. प्रोटोजोआ ✗

Question Type : **MCQ**
Question ID : **264330133322**
Option 1 ID : **264330522325**
Option 2 ID : **264330522326**
Option 3 ID : **264330522323**
Option 4 ID : **264330522324**
Status : **Answered**
Chosen Option : **2**

Section : **General Awareness**

Q.1 गुरु केलुचरण महापात्र पुरस्कार की शुरुआत वर्ष 1995 में की गई थी। गुरु केलुचरण महापात्र को किस नृत्य शैली के लिए जाना जाता था?

Ans

1. ओडिसी ✓
2. छऊ ✗
3. मणिपुरी ✗
4. कथक ✗

Question Type : **MCQ**
Question ID : **264330137394**
Option 1 ID : **264330538203**
Option 2 ID : **264330538206**
Option 3 ID : **264330538204**
Option 4 ID : **264330538205**
Status : **Answered**
Chosen Option : **1**

Q.2 उत्पादित वस्तुओं और सेवाओं के वार्षिक मूल्य की गणना करने के लिए उपयोग की जाने वाली उत्पाद विधि को _____ भी कहा जाता है।

Ans

1. आय विधि ✗
2. मूल्यह्रास विधि ✗
3. व्यय विधि ✗
4. मूल्यवर्धित विधि ✓

Question Type : **MCQ**
Question ID : **264330137397**
Option 1 ID : **264330538218**
Option 2 ID : **264330538215**
Option 3 ID : **264330538216**
Option 4 ID : **264330538217**
Status : **Answered**
Chosen Option : **1**

Join Telegram Group "HaryanaJobs.in"

Q.3 विश्व का सबसे बड़ा महाद्वीप कौन-सा है ?

Ans
1. अफ्रीका
2. एशिया
3. दक्षिण अमेरिका
4. उत्तर अमेरिका

Question Type : **MCQ**
Question ID : **264330137902**
Option 1 ID : **264330540217**
Option 2 ID : **264330540218**
Option 3 ID : **264330540216**
Option 4 ID : **264330540215**
Status : **Answered**
Chosen Option : **2**

Q.4 निम्नलिखित में से कौन-सी जलसंधि श्रीलंका को भारत से अलग करती है?

Ans
1. यूकाटन जलसंधि (Yucatan Strait)
2. मलक्का जलसंधि (Malacca Strait)
3. पाक जलसंधि (Palk Strait)
4. सुंडा जलसंधि (Sunda Strait)

Question Type : **MCQ**
Question ID : **264330137073**
Option 1 ID : **264330536937**
Option 2 ID : **264330536938**
Option 3 ID : **264330536935**
Option 4 ID : **264330536936**
Status : **Answered**
Chosen Option : **3**

Q.5 सातवाहन का सबसे महत्वपूर्ण शासक _____ था।

Ans
1. गौतमीपुत्र श्री सातकर्णी (Gautamiputra Shri Satakarni)
2. पुलुमावी चतुर्थ (Pulumavi IV)
3. सिमुका (Simuka)
4. वशिष्ठिपुत्र पुलुमावी (Vasisthiputra Pulamavi)

Question Type : **MCQ**
Question ID : **264330138942**
Option 1 ID : **264330544375**
Option 2 ID : **264330544378**
Option 3 ID : **264330544377**
Option 4 ID : **264330544376**
Status : **Answered**
Chosen Option : **1**

Join Telegram Group "HaryanaJobs.in"

Q.6 भारतीय संविधान का कौन-सा अनुच्छेद अपने धर्म विषयक कार्यों का प्रबंध करने की स्वतंत्रता प्रदान करता है?

Ans
✔ 1. अनुच्छेद 26
✘ 2. अनुच्छेद 30
✘ 3. अनुच्छेद 210
✘ 4. अनुच्छेद 5

Question Type : **MCQ**
Question ID : **264330133668**
Option 1 ID : **264330523696**
Option 2 ID : **264330523697**
Option 3 ID : **264330523698**
Option 4 ID : **264330523695**
Status : **Answered**
Chosen Option : **1**

Q.7 निम्नलिखित में से किस नदी का उद्गम महाराष्ट्र में होता है?

Ans
✔ 1. गोदावरी
✘ 2. यमुना
✘ 3. तापी
✘ 4. नर्मदा

Question Type : **MCQ**
Question ID : **264330133658**
Option 1 ID : **264330523658**
Option 2 ID : **264330523655**
Option 3 ID : **264330523656**
Option 4 ID : **264330523657**
Status : **Answered**
Chosen Option : **1**

Q.8 निम्नलिखित में से किसे "सेरीकल्चर" कहा जाता है?

Ans
✘ 1. अंगूरों की खेती
✘ 2. मत्स्यपालन
✔ 3. रेशम के कीटों का वाणिज्यिक पालन
✘ 4. फलों को उगाना

Question Type : **MCQ**
Question ID : **264330137404**
Option 1 ID : **264330538243**
Option 2 ID : **264330538245**
Option 3 ID : **264330538244**
Option 4 ID : **264330538246**
Status : **Answered**
Chosen Option : **3**

Join Telegram Group "HaryanaJobs.in"

Q.9 निम्नलिखित में से कौन-सा एक कृत्रिम मधुरक (artificial sweetener) है?

Ans
1. सोडियम बेंजोएट
2. शर्करा (ग्लूकोस)
3. लैक्टामेज़ (Lactamase)
4. सैकरीन (Saccharin)

Question Type : **MCQ**
Question ID : **264330137901**
Option 1 ID : **264330540213**
Option 2 ID : **264330540211**
Option 3 ID : **264330540212**
Option 4 ID : **264330540214**
Status : **Answered**
Chosen Option : **1**

Q.10 भगत सिंह और बी.के. दत्त ने _____ को केंद्रीय विधान परिषद में बम फेंका था।

Ans
1. 8 अप्रैल 1930
2. 10 अप्रैल 1929
3. 10 अप्रैल 1930
4. 8 अप्रैल 1929

Question Type : **MCQ**
Question ID : **264330138945**
Option 1 ID : **264330544388**
Option 2 ID : **264330544389**
Option 3 ID : **264330544390**
Option 4 ID : **264330544387**
Status : **Answered**
Chosen Option : **4**

Q.11 2011 की जनगणना के अनुसार निम्न में से किस राज्य का लिंगानुपात सबसे कम है?

Ans
1. बिहार
2. हरियाणा
3. झारखंड
4. सिक्किम

Question Type : **MCQ**
Question ID : **264330137072**
Option 1 ID : **264330536933**
Option 2 ID : **264330536932**
Option 3 ID : **264330536934**
Option 4 ID : **264330536931**
Status : **Answered**
Chosen Option : **2**

Join Telegram Group "HaryanaJobs.in"

Q.12 एक फुटबॉल टीम में कितने खिलाड़ी मैदान (field players) पर होते हैं?

Ans
✗ 1. 14
✗ 2. 12
✗ 3. 13
✓ 4. 11

Question Type : **MCQ**
Question ID : **264330137917**
Option 1 ID : **264330540278**
Option 2 ID : **264330540276**
Option 3 ID : **264330540277**
Option 4 ID : **264330540275**
Status : **Answered**
Chosen Option : **4**

Q.13 मानव शरीर में निम्नलिखित में से कौन-सा अंग निमोनिया रोग से सबसे अधिक प्रभावित होता है?

Ans
✓ 1. फेफड़े
✗ 2. वृक्क
✗ 3. हृदय
✗ 4. मूत्राशय

Question Type : **MCQ**
Question ID : **264330133654**
Option 1 ID : **264330523640**
Option 2 ID : **264330523642**
Option 3 ID : **264330523639**
Option 4 ID : **264330523641**
Status : **Answered**
Chosen Option : **1**

Q.14 भारत के संविधान की व्याख्या करने की शक्ति किसके पास है?

Ans
✗ 1. भारत के राष्ट्रपति
✗ 2. केवल सर्वोच्च न्यायालय
✗ 3. केवल उच्च न्यायालय
✓ 4. सर्वोच्च न्यायालय और उच्च न्यायालय दोनों

Question Type : **MCQ**
Question ID : **264330138932**
Option 1 ID : **264330544338**
Option 2 ID : **264330544335**
Option 3 ID : **264330544336**
Option 4 ID : **264330544337**
Status : **Answered**
Chosen Option : **2**

Join Telegram Group "HaryanaJobs.in"

Q.15 निम्नलिखित में से किस नृत्य शैली का संबंध राजस्थान से है?

Ans
1. कथक ✗
2. कालबेलिया ✓
3. ओडिसी ✗
4. भरतनाट्यम ✗

Question Type : **MCQ**
Question ID : **264330133650**
Option 1 ID : **264330523623**
Option 2 ID : **264330523626**
Option 3 ID : **264330523624**
Option 4 ID : **264330523625**
Status : **Answered**
Chosen Option : **2**

Q.16 2022 तक, किस भारतीय संगीतकार के पास सबसे अधिक ऑस्कर पुरस्कार हैं?

Ans
1. लता मंगेशकर ✗
2. गुलज़ार ✗
3. ए आर रहमान ✓
4. आशा भोसले ✗

Question Type : **MCQ**
Question ID : **264330133666**
Option 1 ID : **264330523689**
Option 2 ID : **264330523687**
Option 3 ID : **264330523690**
Option 4 ID : **264330523688**
Status : **Answered**
Chosen Option : **3**

Q.17 निम्नलिखित में से कौन-सा पदार्थ विद्युत का सुचालक है?

Ans
1. अभ्रक (Mica) ✗
2. काँच ✗
3. एबोनाइट (Ebonite) ✗
4. चाँदी ✓

Question Type : **MCQ**
Question ID : **264330137899**
Option 1 ID : **264330540206**
Option 2 ID : **264330540203**
Option 3 ID : **264330540204**
Option 4 ID : **264330540205**
Status : **Answered**
Chosen Option : **4**

Join Telegram Group "HaryanaJobs.in"

Q.18 "अंबुबाची मेला (Ambubachi Mela)" कहाँ आयोजित किया जाता है?

Ans
✔ 1. गुवाहाटी
✘ 2. पटना
✘ 3. लखनऊ
✘ 4. पुणे

Question Type : **MCQ**
Question ID : **264330138922**
Option 1 ID : **264330544295**
Option 2 ID : **264330544296**
Option 3 ID : **264330544297**
Option 4 ID : **264330544298**
Status : **Answered**
Chosen Option : **1**

Q.19 'फ्रीडम इन एक्साइल (Freedom in Exile)' _____ की आत्मकथात्मक किताब है।

Ans
✘ 1. जवाहर लाल नेहरू
✔ 2. दलाई लामा
✘ 3. महात्मा गांधी
✘ 4. जे. बी. कृपलानी

Question Type : **MCQ**
Question ID : **264330137392**
Option 1 ID : **264330538196**
Option 2 ID : **264330538195**
Option 3 ID : **264330538198**
Option 4 ID : **264330538197**
Status : **Answered**
Chosen Option : **2**

Q.20 चंगेज़ ख़ान के नेतृत्व में मंगोलों ने _____ में उत्तर-पूर्वी ईरान में ट्रांसऑक्सियाना पर हमला किया।

Ans
✘ 1. 1212
✔ 2. 1219
✘ 3. 1230
✘ 4. 1227

Question Type : **MCQ**
Question ID : **264330137908**
Option 1 ID : **264330540242**
Option 2 ID : **264330540239**
Option 3 ID : **264330540241**
Option 4 ID : **264330540240**
Status : **Answered**
Chosen Option : **2**

Join Telegram Group "HaryanaJobs.in"

Q.21 किस प्रसिद्ध भारतीय खिलाड़ी को 'कैप्टन कूल (Captain Cool)' के नाम से जाना जाता है?

Ans
1. मिल्खा सिंह
2. मेजर ध्यानचंद
3. महेन्द्र सिंह धोनी
4. रोहित शर्मा

Question Type : **MCQ**
Question ID : **264330133670**
Option 1 ID : **264330523705**
Option 2 ID : **264330523706**
Option 3 ID : **264330523703**
Option 4 ID : **264330523704**
Status : **Answered**
Chosen Option : **3**

Q.22 भारत में सन् _____ में "सती" प्रथा पर प्रतिबंध लगा दिया गया था।

Ans
1. 1857
2. 1819
3. 1847
4. 1829

Question Type : **MCQ**
Question ID : **264330138944**
Option 1 ID : **264330544386**
Option 2 ID : **264330544383**
Option 3 ID : **264330544385**
Option 4 ID : **264330544384**
Status : **Answered**
Chosen Option : **4**

Q.23 स्टैंड-अप इंडिया (Stand Up India) योजना का उद्देश्य भारत के _____ समुदाय को उद्यमिता में समर्थन करना है।

Ans
1. गरीबी रेखा के नीचे जीवनयापन करने वाले
2. निर्माण कर्मी
3. अनुसूचित जाति
4. व्यापारी

Question Type : **MCQ**
Question ID : **264330133648**
Option 1 ID : **264330523616**
Option 2 ID : **264330523617**
Option 3 ID : **264330523615**
Option 4 ID : **264330523618**
Status : **Answered**
Chosen Option : **4**

Join Telegram Group "HaryanaJobs.in"

Q.24 सन् 1568 में चित्तौड़ पर अकबर का कब्ज़ा होने के बाद _____ ने उदयपुर की स्थापना की।

Ans
✔ 1. राणा उदय सिंह
✘ 2. मान सिंह
✘ 3. राजा भारमल
✘ 4. सवाई जयसिंह

Question Type : **MCQ**
Question ID : **264330138923**
Option 1 ID : **264330544300**
Option 2 ID : **264330544301**
Option 3 ID : **264330544302**
Option 4 ID : **264330544299**
Status : **Answered**
Chosen Option : **1**

Q.25 राज्यसभा का सदस्य बनने के लिए एक भारतीय नागरिक की न्यूनतम आयु कितनी होनी चाहिए?

Ans
✘ 1. 25 वर्ष
✔ 2. 30 वर्ष
✘ 3. 35 वर्ष
✘ 4. 20 वर्ष

Question Type : **MCQ**
Question ID : **264330133669**
Option 1 ID : **264330523700**
Option 2 ID : **264330523701**
Option 3 ID : **264330523702**
Option 4 ID : **264330523699**
Status : **Answered**
Chosen Option : **2**

Section : **English Language and Comprehension**

Q.1 Identify the segment that contains a grammatical error. If there is no error, select 'No error'
We talked about writing a will, but it / was one of the best thing you never get / around to doing.

Ans
✘ 1. around to doing.
✘ 2. We talked about writing a will, but it
✔ 3. was one of the best thing you never get
✘ 4. No Error

Question Type : **MCQ**
Question ID : **264330135768**
Option 1 ID : **264330531953**
Option 2 ID : **264330531951**
Option 3 ID : **264330531952**
Option 4 ID : **264330531954**
Status : **Answered**
Chosen Option : **3**

Join Telegram Group "HaryanaJobs.in"

Q.2 **A sentence has been given with a blank to be filled with an appropriate option. Choose the correct alternative.**
Ram is _____ like the kings before him.

Ans
✗ 1. nor
✗ 2. no
✓ 3. not
✗ 4. none

Question Type : **MCQ**
Question ID : **264330134300**
Option 1 ID : **264330526197**
Option 2 ID : **264330526198**
Option 3 ID : **264330526195**
Option 4 ID : **264330526196**
Status : **Answered**
Chosen Option : **3**

Q.3 Choose the sentence with no spelling error.

Ans
✓ 1. A few examples can illustrate this.
✗ 2. A few examples can ilustrate this.
✗ 3. A few exemples can illustrate this.
✗ 4. A few examples can illustrrate this.

Question Type : **MCQ**
Question ID : **264330136896**
Option 1 ID : **264330536268**
Option 2 ID : **264330536269**
Option 3 ID : **264330536267**
Option 4 ID : **264330536270**
Status : **Answered**
Chosen Option : **1**

Q.4 **Improve the underlined part of the sentence. Choose 'No improvement' as an answer if the sentence is grammatically correct.**
When my calculations are wrong, I have <u>to pore over</u> the spreadsheet to find the error.

Ans
✓ 1. No improvement
✗ 2. to pore by
✗ 3. to poring over
✗ 4. to pored over

Question Type : **MCQ**
Question ID : **264330134299**
Option 1 ID : **264330526194**
Option 2 ID : **264330526193**
Option 3 ID : **264330526191**
Option 4 ID : **264330526192**
Status : **Answered**
Chosen Option : **1**

Join Telegram Group "HaryanaJobs.in"

Q.5 Choose the word that is opposite in meaning to the given word.

Abstract

Ans
1. Transcend ✗
2. Romantic ✗
3. Concrete ✓
4. Utopian ✗

Question Type : **MCQ**
Question ID : **264330136891**
Option 1 ID : **264330536247**
Option 2 ID : **264330536248**
Option 3 ID : **264330536249**
Option 4 ID : **264330536250**
Status : **Answered**
Chosen Option : **3**

Q.6 **Select the appropriate antonym for the underlined word.**
The pillar of light has <u>faded</u>.

Ans
1. grown ✗
2. vanished ✗
3. melted ✗
4. painted ✓

Question Type : **MCQ**
Question ID : **264330134313**
Option 1 ID : **264330526243**
Option 2 ID : **264330526244**
Option 3 ID : **264330526246**
Option 4 ID : **264330526245**
Status : **Answered**
Chosen Option : **1**

Q.7 Select the most appropriate meaning of the given idiom.

Walk on air

Ans
1. To work hard ✗
2. To be extremely happy ✓
3. To describe an unusual situation ✗
4. Feeling weakened or tired ✗

Question Type : **MCQ**
Question ID : **264330136259**
Option 1 ID : **264330533820**
Option 2 ID : **264330533822**
Option 3 ID : **264330533821**
Option 4 ID : **264330533819**
Status : **Answered**
Chosen Option : **2**

Join Telegram Group "HaryanaJobs.in"

Q.8 **Choose the word that can substitute the given group of words.**
A person who easily believes without demanding proof

Ans
✗ 1. Cosmopolitan
✗ 2. Wary
✓ 3. Credulous
✗ 4. Streetwise

Question Type : **MCQ**
Question ID : **264330134309**
Option 1 ID : **264330526228**
Option 2 ID : **264330526229**
Option 3 ID : **264330526227**
Option 4 ID : **264330526230**
Status : **Answered**
Chosen Option : **3**

Q.9 Select the most appropriate option to fill in the blank.

A national holiday _____ on the same day as my birthday.

Ans
✗ 1. flows
✓ 2. falls
✗ 3. fouls
✗ 4. false

Question Type : **MCQ**
Question ID : **264330136897**
Option 1 ID : **264330536272**
Option 2 ID : **264330536271**
Option 3 ID : **264330536274**
Option 4 ID : **264330536273**
Status : **Answered**
Chosen Option : **2**

Q.10 **Improve the underlined part of the sentence. Choose 'No improvement' as an answer if the sentence is grammatically correct.**
The sun <u>was shining</u> through the window.

Ans
✗ 1. were shined
✗ 2. was shines
✓ 3. No improvement
✗ 4. were shining

Question Type : **MCQ**
Question ID : **264330134297**
Option 1 ID : **264330526184**
Option 2 ID : **264330526185**
Option 3 ID : **264330526186**
Option 4 ID : **264330526183**
Status : **Answered**
Chosen Option : **3**

Join Telegram Group "HaryanaJobs.in"

Q.11 Identify the segment that contains a grammatical error. If there is no error, select 'No error'

If Tom was here, / he could have / solved the issue.

Ans

✔ 1. If Tom was here,

✘ 2. solved the issue.

✘ 3. No Error

✘ 4. he could have

Question Type : **MCQ**
Question ID : **264330135767**
Option 1 ID : **264330531947**
Option 2 ID : **264330531949**
Option 3 ID : **264330531950**
Option 4 ID : **264330531948**
Status : **Answered**
Chosen Option : **1**

Q.12 Choose the word that means the same as the given word.

Jaded

Ans

✘ 1. Unwearied

✔ 2. Fatigued

✘ 3. Weariless

✘ 4. Beguiled

Question Type : **MCQ**
Question ID : **264330141164**
Option 1 ID : **264330553001**
Option 2 ID : **264330553002**
Option 3 ID : **264330552999**
Option 4 ID : **264330553000**
Status : **Answered**
Chosen Option : **2**

Q.13 **Select the appropriate synonym for the underlined word.**
Are you kidding?

Ans

✘ 1. pleading

✔ 2. joking

✘ 3. mixing

✘ 4. rocking

Question Type : **MCQ**
Question ID : **264330134310**
Option 1 ID : **264330526232**
Option 2 ID : **264330526234**
Option 3 ID : **264330526231**
Option 4 ID : **264330526233**
Status : **Answered**
Chosen Option : **2**

Join Telegram Group "HaryanaJobs.in"

Q.14 **In the following question, out of the given four alternatives, select the alternative which best expresses the meaning of the Idiom/Phrase.**
Wet behind the ears

Ans
✗ 1. To place a bad bet
✗ 2. A sudden change in fortune due to a windfall
✗ 3. To win a bet
✓ 4. To be young and without experience

Question Type : **MCQ**
Question ID : **264330134315**
Option 1 ID : **264330526252**
Option 2 ID : **264330526254**
Option 3 ID : **264330526253**
Option 4 ID : **264330526251**
Status : **Answered**
Chosen Option : **4**

Q.15 Select the most appropriate option to substitute the bracketed segment in the given sentence. If there is no need to substitute it, select 'no substitution required'.
(Democrats control neither Congress and neither the White House, but) they are doing their best to control the judicial processes.

Ans
✗ 1.
Democrats control neither Congress or the White House, but
✓ 2.
Democrats control neither Congress nor the White House, but
✗ 3. No substitution required
✗ 4.
Democrat controls neither Congress and nor the White House, though

Question Type : **MCQ**
Question ID : **264330135771**
Option 1 ID : **264330531963**
Option 2 ID : **264330531964**
Option 3 ID : **264330531966**
Option 4 ID : **264330531965**
Status : **Answered**
Chosen Option : **4**

Q.16 Select the most appropriate word for the given group of words.

Fear of heights

Ans
✗ 1. Vaccinophobia
✓ 2. Acrophobia
✗ 3. Hydrophobia
✗ 4. Bathophobia

Question Type : **MCQ**
Question ID : **264330136253**
Option 1 ID : **264330533798**
Option 2 ID : **264330533797**
Option 3 ID : **264330533796**
Option 4 ID : **264330533795**
Status : **Answered**
Chosen Option : **2**

Join Telegram Group "HaryanaJobs.in"

Q.17 Fill in the blank with the most appropriate option.

That remark _____ a stir.

Ans
1. produced
2. constructed
3. created
4. built

Question Type : **MCQ**
Question ID : **264330141198**
Option 1 ID : **264330553130**
Option 2 ID : **264330553128**
Option 3 ID : **264330553127**
Option 4 ID : **264330553129**
Status : **Answered**
Chosen Option : **3**

Q.18 **Find the part of the given sentence that has an error in it. If there is no error, choose 'No error'.**
Shivam is more cleverer than any other boy in the office.

Ans
1. than any other boy
2. No error
3. Shivam is more cleverer
4. in the office.

Question Type : **MCQ**
Question ID : **264330134296**
Option 1 ID : **264330526180**
Option 2 ID : **264330526182**
Option 3 ID : **264330526179**
Option 4 ID : **264330526181**
Status : **Answered**
Chosen Option : **3**

Q.19 **Select the most appropriate option to fill in the blank.**
To _____ your self-worth, write down some things that are positive about yourself.

Ans
1. repudiate
2. affirm
3. overlook
4. sanctify

Question Type : **MCQ**
Question ID : **264330134319**
Option 1 ID : **264330526267**
Option 2 ID : **264330526269**
Option 3 ID : **264330526270**
Option 4 ID : **264330526268**
Status : **Answered**
Chosen Option : **1**

Join Telegram Group "HaryanaJobs.in"

Q.20 **Choose the incorrectly spelt word.**

Ans
✗ 1. Blast
✓ 2. Jutsice
✗ 3. Caste
✗ 4. Toast

Question Type : **MCQ**
Question ID : **264330134316**
Option 1 ID : **264330526258**
Option 2 ID : **264330526256**
Option 3 ID : **264330526255**
Option 4 ID : **264330526257**
Status : **Answered**
Chosen Option : **2**

Comprehension:

In the following passage some of the words have been deleted. Read the passage carefully and select the correct answer for the given blank out of the four alternatives.

One afternoon, a dozen Arizona State University students (1) _____ to spend the morning cutting cardboard, taping fans and assembling filters in an effort to (2) _____ 125 portable air purifiers for local schools. That (3) _____ morning, staff members at a homeless shelter in Los Angeles were setting (4) _____ 20 homemade purifiers of their own, while in Brookline, Massachusetts, another DIY air purifier was whirring quietly in the back of a day care (5)_____ as children played.

SubQuestion No : 21

Q.21 Select the most appropriate option to fill in the blank No. 1.

Ans
✗ 1. dismissed
✗ 2. plated
✓ 3. gathered
✗ 4. triggered

Question Type : **MCQ**
Question ID : **264330136882**
Option 1 ID : **264330536212**
Option 2 ID : **264330536213**
Option 3 ID : **264330536211**
Option 4 ID : **264330536214**
Status : **Answered**
Chosen Option : **3**

Join Telegram Group "HaryanaJobs.in"

Comprehension:

In the following passage some of the words have been deleted. Read the passage carefully and select the correct answer for the given blank out of the four alternatives.

One afternoon, a dozen Arizona State University students (1) _____ to spend the morning cutting cardboard, taping fans and assembling filters in an effort to (2) _____ 125 portable air purifiers for local schools. That (3) _____ morning, staff members at a homeless shelter in Los Angeles were setting (4) _____ 20 homemade purifiers of their own, while in Brookline, Massachusetts, another DIY air purifier was whirring quietly in the back of a day care (5)_____ as children played.

SubQuestion No : 22

Q.22 Select the most appropriate option to fill in the blank No. 2.

Ans

✗ 1. sieve

✓ 2. build

✗ 3. beat

✗ 4. weld

Question Type : **MCQ**
Question ID : **264330136883**
Option 1 ID : **264330536215**
Option 2 ID : **264330536217**
Option 3 ID : **264330536218**
Option 4 ID : **264330536216**
Status : **Answered**
Chosen Option : **2**

Comprehension:

In the following passage some of the words have been deleted. Read the passage carefully and select the correct answer for the given blank out of the four alternatives.

One afternoon, a dozen Arizona State University students (1) _____ to spend the morning cutting cardboard, taping fans and assembling filters in an effort to (2) _____ 125 portable air purifiers for local schools. That (3) _____ morning, staff members at a homeless shelter in Los Angeles were setting (4) _____ 20 homemade purifiers of their own, while in Brookline, Massachusetts, another DIY air purifier was whirring quietly in the back of a day care (5)_____ as children played.

SubQuestion No : 23

Q.23 Select the most appropriate option to fill in the blank No. 3.

Ans

✗ 1. cruel

✗ 2. resembling

✓ 3. same

✗ 4. copy

Question Type : **MCQ**
Question ID : **264330136884**
Option 1 ID : **264330536219**
Option 2 ID : **264330536220**
Option 3 ID : **264330536222**
Option 4 ID : **264330536221**
Status : **Answered**
Chosen Option : **3**

Join Telegram Group "HaryanaJobs.in"

Comprehension:

In the following passage some of the words have been deleted. Read the passage carefully and select the correct answer for the given blank out of the four alternatives.

One afternoon, a dozen Arizona State University students (1) _____ to spend the morning cutting cardboard, taping fans and assembling filters in an effort to (2) _____ 125 portable air purifiers for local schools. That (3) _____ morning, staff members at a homeless shelter in Los Angeles were setting (4) _____ 20 homemade purifiers of their own, while in Brookline, Massachusetts, another DIY air purifier was whirring quietly in the back of a day care (5)_____ as children played.

SubQuestion No : 24

Q.24 Select the most appropriate option to fill in the blank No. 4.

Ans

✗ 1. off

✗ 2. on

✗ 3. in

✓ 4. up

Question Type : **MCQ**
Question ID : **264330136885**
Option 1 ID : **264330536224**
Option 2 ID : **264330536223**
Option 3 ID : **264330536225**
Option 4 ID : **264330536226**
Status : **Answered**
Chosen Option : **2**

Comprehension:

In the following passage some of the words have been deleted. Read the passage carefully and select the correct answer for the given blank out of the four alternatives.

One afternoon, a dozen Arizona State University students (1) _____ to spend the morning cutting cardboard, taping fans and assembling filters in an effort to (2) _____ 125 portable air purifiers for local schools. That (3) _____ morning, staff members at a homeless shelter in Los Angeles were setting (4) _____ 20 homemade purifiers of their own, while in Brookline, Massachusetts, another DIY air purifier was whirring quietly in the back of a day care (5)_____ as children played.

SubQuestion No : 25

Q.25 Select the most appropriate option to fill in the blank No. 5.

Ans

✗ 1. podium

✗ 2. hangar

✓ 3. classroom

✗ 4. auditorium

Question Type : **MCQ**
Question ID : **264330136886**
Option 1 ID : **264330536228**
Option 2 ID : **264330536227**
Option 3 ID : **264330536229**
Option 4 ID : **264330536230**
Status : **Answered**
Chosen Option : **3**

Join Telegram Group "HaryanaJobs.in"

Multi Tasking Non Technical Staff and Havaldar CBIC and CBN Examination 2022

Roll Number	HaryanaJobs.in
Candidate Name	HaryanaJobs.in
Venue Name	iON Digital Zone iDZ Laxman Nagar
Exam Date	08/05/2023
Exam Time	3:30 PM - 5:00 PM
Subject	MTS Non Tech Havaldar CBIC and CBN Examination 2022

Section : **Numerical and Mathematical Ability**

Q.1 48, 84 का कितना प्रतिशत है?

Ans

✗ 1. $\frac{100}{11}\%$

✗ 2. $\frac{51}{7}\%$

✗ 3. $\frac{103}{17}\%$

✓ 4. $\frac{400}{7}\%$

Question Type : **MCQ**
Question ID : **264330133820**
Option 1 ID : **264330524304**
Option 2 ID : **264330524306**
Option 3 ID : **264330524305**
Option 4 ID : **264330524303**
Status : **Answered**
Chosen Option : **4**

Q.2 अंकुर और अंकित के वेतन का अनुपात 3:2 है। यदि प्रत्येक के वेतन में Rs. 2500 की कमी कर दी जाए, तो नया अनुपात 8:5 हो जाता है। उनके वेतन का योग क्या है?

Ans

✗ 1. Rs. 7500

✗ 2. Rs. 28500

✗ 3. Rs. 12500

✓ 4. Rs. 37500

Question Type : **MCQ**
Question ID : **264330133825**
Option 1 ID : **264330524324**
Option 2 ID : **264330524325**
Option 3 ID : **264330524326**
Option 4 ID : **264330524323**
Status : **Answered**
Chosen Option : **4**

Join Telegram Group "HaryanaJobs.in"

Q.3 3.6, 4.2 और 5.4 का चतुर्थ समानुपाती है:

Ans
1. 1.2
2. 7.2
3. 6.3
4. 1.4

Question Type : **MCQ**
Question ID : **264330133824**
Option 1 ID : **264330524320**
Option 2 ID : **264330524322**
Option 3 ID : **264330524321**
Option 4 ID : **264330524319**
Status : **Answered**
Chosen Option : **3**

Q.4 पाँच क्रमागत विषम संख्याओं का औसत 37 है। सबसे बड़ी और सबसे छोटी संख्या का योग क्या है?

Ans
1. 41
2. 8
3. 66
4. 74

Question Type : **MCQ**
Question ID : **264330133818**
Option 1 ID : **264330524297**
Option 2 ID : **264330524298**
Option 3 ID : **264330524296**
Option 4 ID : **264330524295**
Status : **Answered**
Chosen Option : **4**

Join Telegram Group "HaryanaJobs.in"

Q.5 दी गई तालिका में 7 अलग-अलग शहरों में लड़कों द्वारा की गई नौकरियों की संख्या को दर्शाया गया है। इनमें से किस शहर में लड़कों द्वारा की गई नौकरियों की संख्या सबसे कम है?

Cities	Jobs
Delhi	230
Mumbai	420
Raipur	340
Kolkata	245
Pune	654
Bhopal	234
Kanpur	321

Cities - शहर, Jobs - नौकरियाँ, Delhi - दिल्ली, Mumbai - मुंबई, Raipur - रायपुर, Kolkata - कोलकाता, Pune - पुणे, Bhopal - भोपाल, Kanpur - कानपुर

Ans
1. रायपुर ✗
2. पुणे ✗
3. दिल्ली ✓
4. मुंबई ✗

Question Type : **MCQ**
Question ID : **264330135103**
Option 1 ID : **264330529350**
Option 2 ID : **264330529349**
Option 3 ID : **264330529347**
Option 4 ID : **264330529348**
Status : **Answered**
Chosen Option : **3**

Q.6 जब एक व्यक्ति द्वारा एक लैपटॉप को Rs.55,000 में बेचा जाता है, तो वह 25% लाभ अर्जित करता है। लैपटॉप का क्रय मूल्य ज्ञात कीजिए।

Ans
1. Rs.44,000 ✓
2. Rs.33,000 ✗
3. Rs.45,000 ✗
4. Rs.30,000 ✗

Question Type : **MCQ**
Question ID : **264330135419**
Option 1 ID : **264330530584**
Option 2 ID : **264330530585**
Option 3 ID : **264330530586**
Option 4 ID : **264330530583**
Status : **Answered**
Chosen Option : **1**

Join Telegram Group "HaryanaJobs.in"

Q.7 हल कीजिए : $\left\{\left(\frac{42}{7}\right) \times 6\right\}\{45 \times 6 + 65\}\left[\frac{63}{7}\right] - 76$

Ans
1. 108464 ✔
2. 10987 ✘
3. 10998 ✘
4. 10876 ✘

Question Type : **MCQ**
Question ID : **264330135087**
Option 1 ID : **264330529283**
Option 2 ID : **264330529284**
Option 3 ID : **264330529286**
Option 4 ID : **264330529285**
Status : **Answered**
Chosen Option : **1**

Q.8 एक आदमी अकेले एक घर को 9 दिनों में पेंट कर सकता है और एक महिला अकेले उस घर को 18 दिनों में पेंट कर सकती है। यदि 3 आदमी और 3 महिलाएँ मिलकर काम करते हैं, तो वे घर को कितने दिनों में पेंट करेंगे?

Ans
1. 6 दिन ✘
2. 2 दिन ✔
3. 4 दिन ✘
4. 3 दिन ✘

Question Type : **MCQ**
Question ID : **264330138104**
Option 1 ID : **264330541026**
Option 2 ID : **264330541025**
Option 3 ID : **264330541023**
Option 4 ID : **264330541024**
Status : **Answered**
Chosen Option : **2**

Q.9 एक आदमी एक निश्चित दूरी का आधा भाग 25 km/hr की चाल से तय करता है। वह शेष दूरी का 40 प्रतिशत 8 km/hr की चाल से तय करता है और शेष दूरी 18 km/hr की चाल से तय करता है। पूरी यात्रा में उसकी औसत चाल क्या है?

Ans
1. (650/37) km/hr ✘
2. (540/37) km/hr ✘
3. (600/37) km/hr ✔
4. (480/37) km/hr ✘

Question Type : **MCQ**
Question ID : **264330137607**
Option 1 ID : **264330539038**
Option 2 ID : **264330539037**
Option 3 ID : **264330539035**
Option 4 ID : **264330539036**
Status : **Answered**
Chosen Option : **3**

Join Telegram Group "HaryanaJobs.in"

Q.10 A_1, A_2 और A_3 अकेले किसी कार्य को क्रमशः 12 घंटे, 24 घंटे और 16 घंटे में पूरा कर सकते हैं। एक साथ कार्य करके, वे इसी कार्य को कितने समय में पूरा करेंगे?

Ans

✗ 1. 5 घंटे 30 मिनट

✗ 2. 3 घंटे 30 मिनट

✗ 3. 4 घंटे 20 मिनट

✓ 4. 5 घंटे 20 मिनट

Question Type : **MCQ**
Question ID : **264330134094**
Option 1 ID : **264330525401**
Option 2 ID : **264330525400**
Option 3 ID : **264330525402**
Option 4 ID : **264330525399**
Status : **Answered**
Chosen Option : **1**

Q.11 एक शंक्वाकार तंबू के आधार की त्रिज्या 8 m और इसकी ऊँचाई 15 m है। यदि तंबू बनाने की लागत Rs.54 प्रति π m^2 है, तो इसे बनाने के लिए आवश्यक सामग्री की लागत कितनी होगी?

Ans

✓ 1. Rs.7344

✗ 2. Rs.7454

✗ 3. Rs.8678

✗ 4. Rs.6454

Question Type : **MCQ**
Question ID : **264330138108**
Option 1 ID : **264330541041**
Option 2 ID : **264330541039**
Option 3 ID : **264330541040**
Option 4 ID : **264330541042**
Status : **Answered**
Chosen Option : **2**

Q.12 8% का बट्टा मिलने पर, रश्मि ने Rs. 7912 में एक साइकिल खरीदी। साइकिल का वास्तविक मूल्य क्या था?

Ans

✓ 1. Rs. 8600

✗ 2. Rs. 7800

✗ 3. Rs. 8800

✗ 4. Rs. 9200

Question Type : **MCQ**
Question ID : **264330133823**
Option 1 ID : **264330524316**
Option 2 ID : **264330524315**
Option 3 ID : **264330524317**
Option 4 ID : **264330524318**
Status : **Answered**
Chosen Option : **1**

Join Telegram Group "HaryanaJobs.in"

Q.13 एक लड़का एक रुपये में 6 टॉफ़ी खरीदता है। 20% का लाभ अर्जित करने के लिए उसे एक रुपये में कितनी टॉफ़ी बेचनी चाहिए?

Ans

✔ 1. 5

✘ 2. 7

✘ 3. 4

✘ 4. 3

Question Type : **MCQ**
Question ID : **264330133822**
Option 1 ID : **264330524311**
Option 2 ID : **264330524314**
Option 3 ID : **264330524312**
Option 4 ID : **264330524313**
Status : **Answered**
Chosen Option : **1**

Q.14 एक मोबाइल फोन Rs. 25000 में खरीदा गया। उस मोबाइल फोन के उपयोग के कारण उसके मूल्य में प्रति वर्ष 5% की गिरावट आती है। 2 वर्ष पश्चात मोबाइल फोन का मूल्य होगा:

Ans

✘ 1. Rs. 24800.50

✘ 2. Rs. 21546.50

✔ 3. Rs. 22562.50

✘ 4. Rs. 23842.50

Question Type : **MCQ**
Question ID : **264330133827**
Option 1 ID : **264330524333**
Option 2 ID : **264330524334**
Option 3 ID : **264330524331**
Option 4 ID : **264330524332**
Status : **Answered**
Chosen Option : **3**

Join Telegram Group "HaryanaJobs.in"

Q.15 निम्नलिखित दंड आलेख में पाँच अलग-अलग कोचिंग संस्थानों में छात्रों की संख्या को दर्शाया गया है।

कितने कोचिंग संस्थानों में छात्रों की संख्या, इन संस्थानों के छात्रों की औसत संख्या से अधिक है?

Number of students = छात्रों की संख्या, Coaching Centres = कोचिंग संस्थान

Ans

1. 2
2. 3
3. 4
4. 1

Question Type : **MCQ**
Question ID : **264330133832**
Option 1 ID : **264330524353**
Option 2 ID : **264330524354**
Option 3 ID : **264330524352**
Option 4 ID : **264330524351**
Status : **Answered**
Chosen Option : **2**

Q.16 Rs. 20000 की धनराशि 1 वर्ष के लिए 16 प्रतिशत वार्षिक दर से चक्रवृद्धि ब्याज पर ऋण पर दी गई। यदि ब्याज का संयोजन अर्धवार्षिक रूप से किया जाए, तो कितना ब्याज प्राप्त होगा?

Ans

1. Rs. 3180
2. Rs. 3328
3. Rs. 3224
4. Rs. 3396

Question Type : **MCQ**
Question ID : **264330137142**
Option 1 ID : **264330537214**
Option 2 ID : **264330537213**
Option 3 ID : **264330537212**
Option 4 ID : **264330537211**
Status : **Answered**
Chosen Option : **2**

Join Telegram Group "HaryanaJobs.in"

Q.17 100 ÷ (10 + 12 − 2 × 6) का मान है:

Ans
1. 100 ✗
2. 10 ✓
3. 88 ✗
4. 12 ✗

Question Type : **MCQ**
Question ID : **264330133816**
Option 1 ID : **264330524287**
Option 2 ID : **264330524290**
Option 3 ID : **264330524288**
Option 4 ID : **264330524289**
Status : **Answered**
Chosen Option : **2**

Q.18 $\frac{192}{64} \times \left(\frac{47}{94} + \frac{42}{84}\right) + \frac{182}{14}$ का मान क्या है?

Ans
1. 14 ✗
2. 16 ✓
3. 8 ✗
4. 23 ✗

Question Type : **MCQ**
Question ID : **264330138031**
Option 1 ID : **264330540734**
Option 2 ID : **264330540732**
Option 3 ID : **264330540731**
Option 4 ID : **264330540733**
Status : **Answered**
Chosen Option : **1**

Q.19 एक ट्रक एक निश्चित चाल से 540 km की दूरी 9 घंटे में तय करता है। यदि एक कार की औसत चाल इस ट्रक की चाल से 16 km/hr अधिक है, तो ट्रक द्वारा तय की गई दूरी से 68 km अधिक दूरी तय करने में कार को कितना समय लगेगा?

Ans
1. 6 घंटे ✗
2. 12 घंटे ✗
3. 10 घंटे ✗
4. 8 घंटे ✓

Question Type : **MCQ**
Question ID : **264330133828**
Option 1 ID : **264330524335**
Option 2 ID : **264330524338**
Option 3 ID : **264330524337**
Option 4 ID : **264330524336**
Status : **Answered**
Chosen Option : **4**

Join Telegram Group "HaryanaJobs.in"

Q.20 एक त्रिभुज का आधार 120 cm और संगत ऊँचाई 35 cm है। उस त्रिभुज का क्षेत्रफल क्या है?

Ans
1. $2010\ cm^2$
2. $2120\ cm^2$
3. $2630\ cm^2$
4. $2100\ cm^2$

Question Type : **MCQ**
Question ID : **264330134099**
Option 1 ID : **264330525419**
Option 2 ID : **264330525421**
Option 3 ID : **264330525422**
Option 4 ID : **264330525420**
Status : **Answered**
Chosen Option : **4**

Section : **Reasoning Ability and Problem Solving**

Q.1 उस विकल्प आकृति को चुनिए जिसमें नीचे दी गई आकृति इसके भाग के रूप में निहित है। (घूर्णन की अनुमति नहीं है)।

Ans
1. 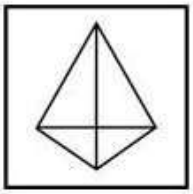
2. 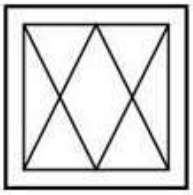
3.
4.

Question Type : **MCQ**
Question ID : **264330134995**
Option 1 ID : **264330528917**
Option 2 ID : **264330528915**
Option 3 ID : **264330528916**
Option 4 ID : **264330528918**
Status : **Answered**
Chosen Option : **2**

Join Telegram Group "HaryanaJobs.in"

Q.2 छः सहकर्मी X, Y, Z, A, B और C एक पंक्ति में दक्षिण की ओर मुख करके बैठे हैं। Z, C के ठीक दाहिनी ओर बैठा है जो एक कोने पर बैठा है। A, B के दाहिनी ओर तीसरे स्थान पर बैठा है। X, B के निकट नहीं बैठा है। A के ठीक बाईं ओर कौन बैठा है?

Ans
1. ✗ Y
2. ✗ Z
3. ✓ X
4. ✗ C

Question Type : **MCQ**
Question ID : **264330133532**
Option 1 ID : **264330523159**
Option 2 ID : **264330523161**
Option 3 ID : **264330523160**
Option 4 ID : **264330523162**
Status : **Answered**
Chosen Option : **4**

Q.3 किसी एक खास कूट भाषा में, 'WATCH' को '5B2D8' लिखा जाता है। उस भाषा में 'HEAR' को कैसे लिखा जाएगा?

Ans
1. ✗ 8F2S
2. ✗ F8S1
3. ✗ 1SF8
4. ✓ 8F1S

Question Type : **MCQ**
Question ID : **264330133450**
Option 1 ID : **264330522832**
Option 2 ID : **264330522833**
Option 3 ID : **264330522834**
Option 4 ID : **264330522831**
Status : **Answered**
Chosen Option : **4**

Q.4 एक निश्चित कूट भाषा में, 'SEARCH' को 'ACEHRS' लिखा जाता है। उस भाषा में 'IMPORT' को कैसे लिखा जाएगा?

Ans
1. ✓ IMOPRT
2. ✗ EXPORT
3. ✗ IMOPTR
4. ✗ IMPORT

Question Type : **MCQ**
Question ID : **264330137563**
Option 1 ID : **264330538861**
Option 2 ID : **264330538859**
Option 3 ID : **264330538862**
Option 4 ID : **264330538860**
Status : **Answered**
Chosen Option : **1**

Join Telegram Group "HaryanaJobs.in"

Q.5 उस विकल्प आकृति को चुनिए जो पैटर्न को पूरा करने के लिए नीचे दी गई आकृति में प्रश्न चिन्ह (?) के स्थान पर आएगी। (घूर्णन की अनुमति नहीं है)

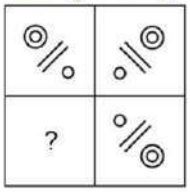

Ans

✔ 1.

✘ 2.

✘ 3. 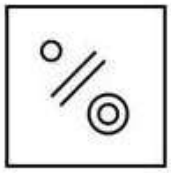

✘ 4. 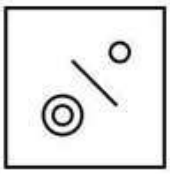

Question Type : **MCQ**
Question ID : **264330133545**
Option 1 ID : **264330523212**
Option 2 ID : **264330523214**
Option 3 ID : **264330523211**
Option 4 ID : **264330523213**
Status : **Answered**
Chosen Option : **1**

Q.6 दिए गए समीकरण को सही करने के लिए किन दो संख्याओं को आपस में बदला जाना चाहिए?
7 × 3 − 98 ÷ 14 + 5 = 31

Ans

✘ 1. 7 और 98

✘ 2. 31 और 7

✔ 3. 5 और 3

✘ 4. 3 और 14

Question Type : **MCQ**
Question ID : **264330133541**
Option 1 ID : **264330523196**
Option 2 ID : **264330523195**
Option 3 ID : **264330523198**
Option 4 ID : **264330523197**
Status : **Answered**
Chosen Option : **3**

Join Telegram Group "HaryanaJobs.in"

Q.7 दो कथन दिए गए हैं और दो निष्कर्ष I और II दिए गए हैं। कथनों को सत्य मानते हुए, चाहे वे सामान्यतः ज्ञात तथ्यों से अलग प्रतीत होते हों, निश्चय कीजिए कि कौन-सा निष्कर्ष तार्किक रूप से कथनों के अनुसार है।

कथन:

कुछ गाने, छोटे हैं।

कुछ छोटे, अच्छे हैं।

निष्कर्ष:

I. कुछ गाने, अच्छे हैं।

II. कुछ छोटों का अच्छा नहीं होना एक संभावना है।

Ans

✔ 1. केवल निष्कर्ष II कथनों के अनुसार है।

✘ 2. दोनों निष्कर्ष I और II कथनों के अनुसार हैं।

✘ 3. केवल निष्कर्ष I कथनों के अनुसार है।

✘ 4. न तो निष्कर्ष I और न ही II कथनों के अनुसार है।

Question Type : **MCQ**
Question ID : **264330133535**
Option 1 ID : **264330523172**
Option 2 ID : **264330523173**
Option 3 ID : **264330523171**
Option 4 ID : **264330523174**
Status : **Answered**
Chosen Option : **1**

Q.8 एक कॉलेज के आठ प्रोफेसर अर्थात् X, Y, Z, A, B, C, D और E एक वर्गाकार मेज के चारों ओर इस प्रकार बैठे हैं कि उनमें से चार मेज के चारों कोनों पर बैठे हैं जबकि अन्य चार मेज की प्रत्येक भुजा के मध्य में एक दूसरे की ओर मुख करके बैठे हैं। C, A के ठीक दाहिनी ओर बैठा है, जो Z की ओर उन्मुख है। E, X के सम्मुख बैठा है, जो Y के ठीक दाहिनी ओर बैठा है। B, Y के ठीक बाई ओर बैठा है और C के सम्मुख है। निम्नलिखित में से कौन Y की ओर उन्मुख है?

Ans

✘ 1. Z

✔ 2. D

✘ 3. A

✘ 4. C

Question Type : **MCQ**
Question ID : **264330133533**
Option 1 ID : **264330523163**
Option 2 ID : **264330523164**
Option 3 ID : **264330523166**
Option 4 ID : **264330523165**
Status : **Answered**
Chosen Option : **3**

Join Telegram Group "HaryanaJobs.in"

Q.9 दी गई श्रृंखला में निम्नलिखित में से कौन-सी संख्या प्रश्न चिन्ह (?) के स्थान पर आएगी?
5, 10, 30, 60, 180, 360, 1080, ?

Ans
1. 2400
2. 3240
3. 2160
4. 2610

Question Type : **MCQ**
Question ID : **264330133538**
Option 1 ID : **264330523184**
Option 2 ID : **264330523185**
Option 3 ID : **264330523183**
Option 4 ID : **264330523186**
Status : **Answered**
Chosen Option : **3**

Join Telegram Group "HaryanaJobs.in"

Q.10 दी गई आकृति के उस सही दर्पण प्रतिबिंब को चुनिए, जो नीचे दर्शाए गए अनुसार दर्पण को AB पर रखने पर बनेगा।

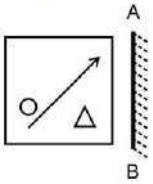

Ans

✔ 1.

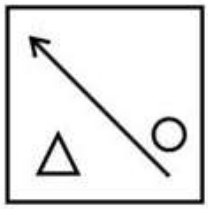

✘ 2.

✘ 3.

✘ 4.

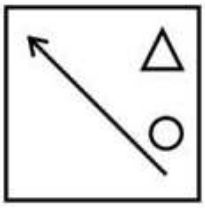

Question Type : **MCQ**
Question ID : **264330134996**
Option 1 ID : **264330528922**
Option 2 ID : **264330528919**
Option 3 ID : **264330528921**
Option 4 ID : **264330528920**
Status : **Answered**
Chosen Option : **1**

Join Telegram Group "HaryanaJobs.in"

Q.11 दी गई दो संख्याओं को आपस में बदलने पर, निम्नलिखित में से कौन-सा समीकरण सही होगा?

7 और 8

I. 5 × 7 + 6 ÷ 2 - 8 = 36

II. 8 + 3 × 7 - 5 ÷ 1 = 26

Ans
1. I और II दोनों
2. केवल I
3. केवल II
4. न तो I और न ही II

Question Type : **MCQ**
Question ID : **264330137104**
Option 1 ID : **264330537061**
Option 2 ID : **264330537059**
Option 3 ID : **264330537060**
Option 4 ID : **264330537062**
Status : **Answered**
Chosen Option : **1**

Q.12 दिए गए पैटर्न का ध्यानपूर्वक अध्ययन कीजिए और उस संख्या को चुनिए जो इसमें प्रश्न चिन्ह (?) के स्थान पर आ सकती है।
पहली पंक्ति- 26, 35, 44
दूसरी पंक्ति- 47, 56, 65
तीसरी पंक्ति- 15, 24, ?

Ans
1. 22
2. 35
3. 19
4. 33

Question Type : **MCQ**
Question ID : **264330133540**
Option 1 ID : **264330523192**
Option 2 ID : **264330523191**
Option 3 ID : **264330523193**
Option 4 ID : **264330523194**
Status : **Answered**
Chosen Option : **4**

Q.13 एक निश्चित कूट भाषा में, 'PLANET' को 'RCLYJN' लिखा जाता है। उस कूट भाषा में 'MODELS' को कैसे लिखा जाएगा?

Ans
1. QJCBMK
2. QJCBML
3. QJCBNK
4. QJCCCM

Question Type : **MCQ**
Question ID : **264330135621**
Option 1 ID : **264330531383**
Option 2 ID : **264330531384**
Option 3 ID : **264330531385**
Option 4 ID : **264330531386**
Status : **Answered**
Chosen Option : **1**

Join Telegram Group "HaryanaJobs.in"

Q.14 उस विकल्प को चुनिए जो तीसरे शब्द से ठीक उसी प्रकार संबंधित है जिस प्रकार दूसरा शब्द पहले शब्द से संबंधित है।
तुच्छ : महत्त्वहीन :: दीर्घानुभावी : ?

Ans
✗ 1. मूर्ख
✗ 2. हास्यजनक
✓ 3. अनुभवी
✗ 4. अनुभवहीन

Question Type : **MCQ**
Question ID : **264330133527**
Option 1 ID : **264330523140**
Option 2 ID : **264330523141**
Option 3 ID : **264330523139**
Option 4 ID : **264330523142**
Status : **Answered**
Chosen Option : **3**

Q.15 उस विकल्प को चुनिए जो तीसरे अक्षर-समूह से ठीक उसी प्रकार संबंधित है जिस प्रकार दूसरा-अक्षर समूह पहले अक्षर-समूह से संबंधित है।
HOME : 8N13D :: BALL : ?

Ans
✓ 1. 2Z12K
✗ 2. 2Z21M
✗ 3. 12MZ2
✗ 4. 4Z14

Question Type : **MCQ**
Question ID : **264330133528**
Option 1 ID : **264330523144**
Option 2 ID : **264330523143**
Option 3 ID : **264330523145**
Option 4 ID : **264330523146**
Status : **Answered**
Chosen Option : **1**

Q.16 एक फेयरवेल पार्टी में सात सहकर्मियों P, A, R, S, T, U और V ने धनराशि का योगदान दिया। कोई भी दो सहकर्मियों ने समान धनराशि का योगदान नहीं दिया। V ने P से अधिक धनराशि का योगदान दिया जिसने A से अधिक धनराशि का योगदान दिया। R और T ने अधिकतम और न्यूनतम धनराशि का योगदान दिया परंतु जरूरी नहीं कि इसी क्रम में दिया हो। U का योगदान केवल R से कम था। S का योगदान केवल एक व्यक्ति से अधिक था। तीसरे स्थान पर सर्वाधिक योगदान किसका था?

Ans
✗ 1. T
✗ 2. R
✗ 3. S
✓ 4. V

Question Type : **MCQ**
Question ID : **264330133534**
Option 1 ID : **264330523170**
Option 2 ID : **264330523167**
Option 3 ID : **264330523169**
Option 4 ID : **264330523168**
Status : **Answered**
Chosen Option : **4**

Join Telegram Group "HaryanaJobs.in"

Q.17 उस विकल्प को चुनिए जो तीसरी संख्या से ठीक उसी प्रकार संबंधित है जिस प्रकार दूसरी संख्या पहली संख्या से संबंधित है।
83 : 161 :: 71 : ?

Ans
1. 150
2. 232
3. 149
4. 210

Question Type : **MCQ**
Question ID : **264330133539**
Option 1 ID : **264330523187**
Option 2 ID : **264330523188**
Option 3 ID : **264330523190**
Option 4 ID : **264330523189**
Status : **Answered**
Chosen Option : **1**

Q.18 दी गई श्रृंखला में निम्नलिखित में से कौन-सा अक्षर प्रश्न चिन्ह (?) के स्थान पर आएगा?
C, E, G, I, K, M, O, ?

Ans
1. S
2. T
3. R
4. Q

Question Type : **MCQ**
Question ID : **264330133526**
Option 1 ID : **264330523135**
Option 2 ID : **264330523138**
Option 3 ID : **264330523137**
Option 4 ID : **264330523136**
Status : **Answered**
Chosen Option : **4**

Q.19 तीन कथन दिए गए हैं और दो निष्कर्ष I और II दिए गए हैं। कथनों को सत्य मानते हुए, चाहे वे सामान्यतः ज्ञात तथ्यों से अलग प्रतीत होते हों, निश्चय कीजिए कि कौन-सा निष्कर्ष तार्किक रूप से कथनों के अनुसार है।
कथन:
सभी सोना, चाँदी हैं।
सभी चाँदी, पीतल हैं।
सभी पीतल, तांबा हैं।
निष्कर्ष:
I. सभी सोना, तांबा हैं।
II. सभी चाँदी, तांबा हैं।

Ans
1. दोनों निष्कर्ष I और II कथनों के अनुसार हैं।
2. केवल निष्कर्ष II कथनों के अनुसार है।
3. न तो निष्कर्ष I और न ही II कथनों के अनुसार है।
4. केवल निष्कर्ष I कथनों के अनुसार है।

Question Type : **MCQ**
Question ID : **264330133536**
Option 1 ID : **264330523177**
Option 2 ID : **264330523176**
Option 3 ID : **264330523178**
Option 4 ID : **264330523175**
Status : **Answered**
Chosen Option : **1**

Join Telegram Group "HaryanaJobs.in"

Q.20 दी गई श्रृंखला में निम्नलिखित में से कौन-सी संख्या प्रश्न चिन्ह (?) के स्थान पर आएगी?
63, 56, 49, 42, 35, 28, ?

Ans
✗ 1. 35
✗ 2. 22
✗ 3. 14
✓ 4. 21

Question Type : **MCQ**
Question ID : **264330133537**
Option 1 ID : **264330523180**
Option 2 ID : **264330523182**
Option 3 ID : **264330523179**
Option 4 ID : **264330523181**
Status : **Answered**
Chosen Option : **4**

Section : **General Awareness**

Q.1 निम्नलिखित में से किसने 25 अक्टूबर 2022 तक पुरुष टेनिस एकल में सर्वाधिक ग्रैंड स्लैम टूर्नामेंट (Grand Slam Tournaments) जीते?

Ans
✗ 1. नोवाक जोकोविच (Novak Djokovic)
✗ 2. पीट सम्प्रास (Pete Sampras)
✗ 3. रोजर फ़ेडरर (Roger Federer)
✓ 4. राफेल नडाल (Rafael Nadal)

Question Type : **MCQ**
Question ID : **264330134029**
Option 1 ID : **264330525142**
Option 2 ID : **264330525139**
Option 3 ID : **264330525140**
Option 4 ID : **264330525141**
Status : **Answered**
Chosen Option : **3**

Q.2 निम्नलिखित में से किस नृत्य को एकहार्य (Ekaharya) के नाम से भी जाना जाता है, जिसमें एक नर्तक एक ही नृत्य प्रदर्शन में कई भूमिकाएँ निभाता है?

Ans
✓ 1. भरतनाट्यम
✗ 2. कथकली
✗ 3. कथक
✗ 4. कुचिपुड़ी

Question Type : **MCQ**
Question ID : **264330134008**
Option 1 ID : **264330525055**
Option 2 ID : **264330525057**
Option 3 ID : **264330525056**
Option 4 ID : **264330525058**
Status : **Answered**
Chosen Option : **1**

Join Telegram Group "HaryanaJobs.in"

Q.3 अंतर्राष्ट्रीय क्रिकेट परिषद (ICC) महिला क्रिकेट विश्व कप 2022 की मेजबानी _____ द्वारा मार्च और अप्रैल 2022 में की गई थी।

Ans
1. बांग्लादेश
2. न्यूजीलैंड
3. इंग्लैंड
4. भारत

Question Type : **MCQ**
Question ID : **264330134028**
Option 1 ID : **264330525135**
Option 2 ID : **264330525138**
Option 3 ID : **264330525137**
Option 4 ID : **264330525136**
Status : **Answered**
Chosen Option : **3**

Q.4 निम्नलिखित में से कौन-सा शहर मुगलों का पहला नियोजित शहर था?

Ans
1. मिर्ज़ापुर
2. लखनऊ
3. लाहौर
4. फतेहपुर सीकरी

Question Type : **MCQ**
Question ID : **264330137013**
Option 1 ID : **264330536697**
Option 2 ID : **264330536698**
Option 3 ID : **264330536695**
Option 4 ID : **264330536696**
Status : **Answered**
Chosen Option : **4**

Q.5 हिंदुस्तानी शास्त्रीय परंपरा में सबसे महान भारतीय गायकों में से एक भीमसेन जोशी _____ से थे।

Ans
1. कर्नाटक
2. तमिलनाडु
3. केरल
4. महाराष्ट्र

Question Type : **MCQ**
Question ID : **264330134024**
Option 1 ID : **264330525121**
Option 2 ID : **264330525120**
Option 3 ID : **264330525119**
Option 4 ID : **264330525122**
Status : **Not Answered**
Chosen Option : **--**

Join Telegram Group "HaryanaJobs.in"

Q.6 महात्मा गांधी ने 'अखिल भारतीय हरिजन सेवक संघ' की स्थापना कब की थी?

Ans
1. 1920
2. 1928
3. 1932
4. 1936

Question Type : **MCQ**
Question ID : **264330134660**
Option 1 ID : **264330527596**
Option 2 ID : **264330527597**
Option 3 ID : **264330527598**
Option 4 ID : **264330527595**
Status : **Not Answered**
Chosen Option : **--**

Q.7 निम्नलिखित में से कौन सा थैलोफाइटा का एक उदाहरण **नहीं** है?

Ans
1. मारकेंशिया (Marchantia)
2. स्पाइरोगाइरा (Spirogyra)
3. कारा (Chara)
4. क्लैडोफोरा (Cladophora)

Question Type : **MCQ**
Question ID : **264330134012**
Option 1 ID : **264330525074**
Option 2 ID : **264330525073**
Option 3 ID : **264330525071**
Option 4 ID : **264330525072**
Status : **Not Answered**
Chosen Option : **--**

Q.8 _____ खेतों में बीज बोने वाला एक त्योहार है। यह झारखंड में मनाया जाने वाला एक प्रमुख त्योहार है।

Ans
1. जावा (Jawa)
2. बान्दाना (Bandana)
3. रोहिणी (Rohini)
4. करम (Karam)

Question Type : **MCQ**
Question ID : **264330134647**
Option 1 ID : **264330527546**
Option 2 ID : **264330527543**
Option 3 ID : **264330527545**
Option 4 ID : **264330527544**
Status : **Not Answered**
Chosen Option : **--**

Join Telegram Group "HaryanaJobs.in"

Q.9 लोकसभा का _____ वर्ष का एक निश्चित कार्यकाल होता है और राष्ट्रपति द्वारा इसे किसी भी समय भंग किया जा सकता है।

Ans
1. 8 ✗
2. 5 ✓
3. 12 ✗
4. 10 ✗

Question Type : **MCQ**
Question ID : **264330134027**
Option 1 ID : **264330525132**
Option 2 ID : **264330525131**
Option 3 ID : **264330525134**
Option 4 ID : **264330525133**
Status : **Answered**
Chosen Option : **2**

Q.10 ब्लैकबक राष्ट्रीय पार्क (कालियार पार्क) _____ में स्थित है।

Ans
1. सिक्किम ✗
2. गुजरात ✓
3. हरियाणा ✗
4. मध्य प्रदेश ✗

Question Type : **MCQ**
Question ID : **264330134013**
Option 1 ID : **264330525075**
Option 2 ID : **264330525077**
Option 3 ID : **264330525076**
Option 4 ID : **264330525078**
Status : **Not Answered**
Chosen Option : **--**

Q.11 निम्नलिखित में से कौन-सी पुस्तक राजा हर्षवर्धन द्वारा **नहीं** लिखी गई थी?

Ans
1. नागानंद (Nagananda) ✗
2. प्रियदर्शिका (Priyadarsika) ✗
3. रत्नावली (Ratnavali) ✗
4. अमुक्तमाल्यद (Amuktamalayada) ✓

Question Type : **MCQ**
Question ID : **264330134657**
Option 1 ID : **264330527585**
Option 2 ID : **264330527584**
Option 3 ID : **264330527583**
Option 4 ID : **264330527586**
Status : **Answered**
Chosen Option : **1**

Join Telegram Group "HaryanaJobs.in"

Q.12 निम्नलिखित में से किस नदी का प्राचीन नाम विपाशा (Vipasha) है?

Ans
✔ 1. ब्यास
✘ 2. चिनाब
✘ 3. सतलुज
✘ 4. रावि

Question Type : **MCQ**
Question ID : **264330134016**
Option 1 ID : **264330525088**
Option 2 ID : **264330525089**
Option 3 ID : **264330525090**
Option 4 ID : **264330525087**
Status : **Answered**
Chosen Option : **1**

Q.13 भारत में 5G दूरसंचार तकनीक किस वर्ष शुरू की गई थी?

Ans
✘ 1. 2019
✘ 2. 2017
✘ 3. 2014
✔ 4. 2022

Question Type : **MCQ**
Question ID : **264330135493**
Option 1 ID : **264330530881**
Option 2 ID : **264330530880**
Option 3 ID : **264330530879**
Option 4 ID : **264330530882**
Status : **Answered**
Chosen Option : **4**

Q.14 2011 की जनगणना के अनुसार, भारत के निम्नलिखित में से किस केंद्र शासित प्रदेश की जनसंख्या सबसे कम है?

Ans
✔ 1. लक्षद्वीप
✘ 2. दमन और दीव
✘ 3. चंडीगढ़
✘ 4. दादरा और नगर हवेली

Question Type : **MCQ**
Question ID : **264330137747**
Option 1 ID : **264330539598**
Option 2 ID : **264330539597**
Option 3 ID : **264330539595**
Option 4 ID : **264330539596**
Status : **Not Answered**
Chosen Option : **--**

Join Telegram Group "HaryanaJobs.in"

Q.15 किस प्रसिद्ध भारतीय कथक नर्तक को 1986 में भारत के दूसरे सर्वोच्च नागरिक पुरस्कार पद्म विभूषण से सम्मानित किया गया ?

Ans
1. मल्लिका साराभाई
2. माधवी मुद्गल
3. बिरजू महाराज
4. मंजरी चतुर्वेदी

Question Type : **MCQ**
Question ID : **264330135503**
Option 1 ID : **264330530919**
Option 2 ID : **264330530920**
Option 3 ID : **264330530921**
Option 4 ID : **264330530922**
Status : **Not Answered**
Chosen Option : **--**

Q.16 2011 की जनगणना के अनुसार निम्न में से किस राज्य की साक्षरता दर सर्वाधिक है?

Ans
1. तमिलनाडु
2. कर्नाटक
3. केरल
4. महाराष्ट्र

Question Type : **MCQ**
Question ID : **264330133992**
Option 1 ID : **264330524994**
Option 2 ID : **264330524992**
Option 3 ID : **264330524993**
Option 4 ID : **264330524991**
Status : **Answered**
Chosen Option : **3**

Q.17 गवर्नर जनरल लॉर्ड डलहौज़ी ने _____ की रियासत के बारे में कहा था कि "ये गिलास फल एक दिन हमारे ही मुँह में आकर गिरेगा (as a cherry that will drop into our mouth one day) ।"

Ans
1. अहोम
2. मैसूर
3. मराठा
4. अवध

Question Type : **MCQ**
Question ID : **264330137034**
Option 1 ID : **264330536780**
Option 2 ID : **264330536781**
Option 3 ID : **264330536779**
Option 4 ID : **264330536782**
Status : **Answered**
Chosen Option : **2**

Join Telegram Group "HaryanaJobs.in"

Q.18 निम्नलिखित में से खिलजी वंश के संस्थापक कौन थे?

Ans
1. अलाउद्दीन खिलजी
2. नासिरुद्दीन खुसरो शाह
3. कुतुबुद्दीन मुबारक शाह
4. जलालुद्दीन फिरोज खिलजी

Question Type : **MCQ**
Question ID : **264330134020**
Option 1 ID : **264330525105**
Option 2 ID : **264330525103**
Option 3 ID : **264330525104**
Option 4 ID : **264330525106**
Status : **Answered**
Chosen Option : **4**

Q.19 रवींद्रनाथ टैगोर द्वारा लिखित 'गल्पगुच्छ (Galpaguchchha)' _____ का एक संग्रह है।

Ans
1. अंग्रेजी शायरियों
2. भक्ति गीतों
3. लघु कथाओं
4. कविताओं

Question Type : **MCQ**
Question ID : **264330135501**
Option 1 ID : **264330530913**
Option 2 ID : **264330530914**
Option 3 ID : **264330530912**
Option 4 ID : **264330530911**
Status : **Answered**
Chosen Option : **4**

Q.20 _____ प्राकृतिक रूप से पाया जाने वाला आवर्त सारणी का सबसे भारी तत्व है, जिसका परमाणु भार 238 है।

Ans
1. पारा
2. यूरेनियम
3. हीलियम
4. जीनॉन (Xenon)

Question Type : **MCQ**
Question ID : **264330134011**
Option 1 ID : **264330525068**
Option 2 ID : **264330525069**
Option 3 ID : **264330525067**
Option 4 ID : **264330525070**
Status : **Answered**
Chosen Option : **2**

Join Telegram Group "HaryanaJobs.in"

Q.21 निम्नलिखित में से कौन-सा भारत का पहला मानव अंतरिक्ष उड़ान कार्यक्रम (Human spaceflight programme) है?

Ans
1. शुक्रयान ✗
2. गगनयान ✓
3. मंगलयान ✗
4. चंद्रयान - 1 ✗

Question Type : **MCQ**
Question ID : **264330134014**
Option 1 ID : **264330525079**
Option 2 ID : **264330525082**
Option 3 ID : **264330525081**
Option 4 ID : **264330525080**
Status : **Answered**
Chosen Option : **2**

Q.22 दिल्ली उच्च न्यायालय की स्थापना सन् _____ में की गई थी।

Ans
1. 1951 ✗
2. 1947 ✗
3. 1962 ✗
4. 1966 ✓

Question Type : **MCQ**
Question ID : **264330137022**
Option 1 ID : **264330536732**
Option 2 ID : **264330536731**
Option 3 ID : **264330536733**
Option 4 ID : **264330536734**
Status : **Not Answered**
Chosen Option : **--**

Q.23 अर्थशास्त्र का कौन-सा नियम कहता है कि "बुरी मुद्रा अच्छी मुद्रा को प्रचलन से निकाल बाहर करती है (Bad money drives out good money)"?

Ans
1. बैक्सटर का नियम (Baxter's Law) ✗
2. गॉस का नियम (Gauss's Law) ✗
3. ओम का नियम (Ohm's Law) ✗
4. ग्रेशम का नियम (Gresham's Law) ✓

Question Type : **MCQ**
Question ID : **264330135508**
Option 1 ID : **264330530942**
Option 2 ID : **264330530941**
Option 3 ID : **264330530939**
Option 4 ID : **264330530940**
Status : **Not Answered**
Chosen Option : **--**

Join Telegram Group "HaryanaJobs.in"

Q.24 भारतीय संविधान में राज्य के नीति निर्देशक सिद्धांतों की विशेषता _____ के संविधान से ली गई है।

Ans
1. फ्रांस
2. ब्रिटेन
3. आयरलैंड
4. कनाडा

Question Type : **MCQ**
Question ID : **264330134026**
Option 1 ID : **264330525127**
Option 2 ID : **264330525128**
Option 3 ID : **264330525129**
Option 4 ID : **264330525130**
Status : **Answered**
Chosen Option : **3**

Q.25 The Department of Pharmaceuticals has given 'in-principle' approval to the proposals to set up bulk drug parks in three states- Himachal Pradesh, Gujarat and _____ under the scheme of "Promotion of Bulk Drug Parks".

Ans
1. Madhya Pradesh
2. West Bengal
3. Andhra Pradesh
4. Uttar Pradesh

Question Type : **MCQ**
Question ID : **264330134006**
Option 1 ID : **264330525048**
Option 2 ID : **264330525047**
Option 3 ID : **264330525049**
Option 4 ID : **264330525050**
Status : **Not Answered**
Chosen Option : **--**

Section : **English Language and Comprehension**

Q.1 **Find the part of the given sentence that has an error in it. If there is no error, choose 'No error'.**
India is already the third-largest aviation market in terms of domestic travel.

Ans
1. India is already the third-largest
2. No error
3. aviation market in
4. terms of domestic travel.

Question Type : **MCQ**
Question ID : **264330134478**
Option 1 ID : **264330526879**
Option 2 ID : **264330526882**
Option 3 ID : **264330526880**
Option 4 ID : **264330526881**
Status : **Answered**
Chosen Option : **4**

Join Telegram Group "HaryanaJobs.in"

Q.2 Identify the segment that contains a grammatical error. If there is no error, select 'No error'.
Never put of / until tomorrow what / you can do today.

Ans

✔ 1. Never put of

✘ 2. No error

✘ 3. you can do today.

✘ 4. until tomorrow what

Question Type : **MCQ**
Question ID : **264330136083**
Option 1 ID : **264330533143**
Option 2 ID : **264330533146**
Option 3 ID : **264330533145**
Option 4 ID : **264330533144**
Status : **Answered**
Chosen Option : **4**

Q.3 **Select the appropriate antonym for the underlined word.**
Amenorrhea can cause a range of issues, including infertility.

Ans

✘ 1. sterile

✘ 2. barrenness

✘ 3. stance

✔ 4. fecund

Question Type : **MCQ**
Question ID : **264330134495**
Option 1 ID : **264330526944**
Option 2 ID : **264330526943**
Option 3 ID : **264330526946**
Option 4 ID : **264330526945**
Status : **Answered**
Chosen Option : **4**

Q.4 Select the most appropriate option to substitute the bracketed segment in the given sentence. If there is no need to substitute it, select 'no substitution required'.
Chia is currently pursuing a (master's in developmental studies in Netherlands).

Ans

✘ 1. masters' in developmental studies in the Netherlands.

✘ 2. master's in developmental studies at Netherlands.

✘ 3. No substitution required

✔ 4. master's in developmental studies in the Netherlands.

Question Type : **MCQ**
Question ID : **264330136086**
Option 1 ID : **264330533156**
Option 2 ID : **264330533157**
Option 3 ID : **264330533158**
Option 4 ID : **264330533155**
Status : **Answered**
Chosen Option : **1**

Join Telegram Group "HaryanaJobs.in"

Q.5 Select the most appropriate option to fill in the blank.

In 1971, he was awarded the silver _____ of the Society of Arts, London.

Ans
1. medieval ✗
2. medal ✓
3. meddle ✗
4. metal ✗

Question Type : **MCQ**
Question ID : **264330134795**
Option 1 ID : **264330528123**
Option 2 ID : **264330528126**
Option 3 ID : **264330528125**
Option 4 ID : **264330528124**
Status : **Answered**
Chosen Option : **2**

Q.6 A sentence has been given with a blank to be filled with an appropriate option. Choose the correct alternative.

When there is not _____ to eat, people starve to death.

Ans
1. some ✗
2. a few ✗
3. enough ✓
4. any ✗

Question Type : **MCQ**
Question ID : **264330134804**
Option 1 ID : **264330528161**
Option 2 ID : **264330528160**
Option 3 ID : **264330528162**
Option 4 ID : **264330528159**
Status : **Answered**
Chosen Option : **3**

Q.7 Choose the word that means the same as the given word.

Impede

Ans
1. Stalwart ✗
2. Stampede ✗
3. Sore ✗
4. Thwart ✓

Question Type : **MCQ**
Question ID : **264330134814**
Option 1 ID : **264330528196**
Option 2 ID : **264330528195**
Option 3 ID : **264330528198**
Option 4 ID : **264330528197**
Status : **Not Answered**
Chosen Option : **--**

Join Telegram Group "HaryanaJobs.in"

Q.8 **Select the most appropriate option to fill in the blank.**
I enjoy finding ways to make the most of my budget by being _____.

Ans
✔ 1. frugal
✘ 2. miser
✘ 3. lethargic
✘ 4. gloomy

Question Type : **MCQ**
Question ID : **264330134501**
Option 1 ID : **264330526968**
Option 2 ID : **264330526967**
Option 3 ID : **264330526969**
Option 4 ID : **264330526970**
Status : **Answered**
Chosen Option : **2**

Q.9 Choose the word that is opposite in meaning to the given word.

Analogous

Ans
✔ 1. Dissimilar
✘ 2. Puzzle
✘ 3. Straight
✘ 4. Matching

Question Type : **MCQ**
Question ID : **264330135300**
Option 1 ID : **264330530111**
Option 2 ID : **264330530114**
Option 3 ID : **264330530113**
Option 4 ID : **264330530112**
Status : **Answered**
Chosen Option : **1**

Q.10 Choose the sentence with no spelling error.

Ans
✘ 1. After a long momant, she shock her head.
✔ 2. After a long moment, she shook her head.
✘ 3. After a long moment, she shuok her head.
✘ 4. After a long momment, she shook her head.

Question Type : **MCQ**
Question ID : **264330134794**
Option 1 ID : **264330528122**
Option 2 ID : **264330528119**
Option 3 ID : **264330528121**
Option 4 ID : **264330528120**
Status : **Answered**
Chosen Option : **2**

Join Telegram Group "HaryanaJobs.in"

Q.11 **Find the part of the given sentence that has an error in it. If there is no error, choose 'No error'.**
Methanol is released from pectin, and is therefore many abundant in fermented fruit.

Ans
1. No error
2. Methanol is released from pectin,
3. and is therefore many
4. abundant in fermented fruit.

Question Type : **MCQ**
Question ID : **264330134528**
Option 1 ID : **264330527074**
Option 2 ID : **264330527071**
Option 3 ID : **264330527072**
Option 4 ID : **264330527073**
Status : **Answered**
Chosen Option : **3**

Q.12 **In the following question, out of the given four alternatives, select the alternative which best expresses the meaning of the Idiom/Phrase.**
To have the heart of stone

Ans
1. To be fearless
2. Not being able to make a decision
3. To feel no pity
4. To have a hidden agenda

Question Type : **MCQ**
Question ID : **264330134497**
Option 1 ID : **264330526952**
Option 2 ID : **264330526951**
Option 3 ID : **264330526954**
Option 4 ID : **264330526953**
Status : **Answered**
Chosen Option : **3**

Q.13 **In the following question, out of the given four alternatives, select the alternative which best expresses the meaning of the Idiom/Phrase.**
To have a foot in the grave

Ans
1. To trip somebody over
2. To take risks
3. To be near death
4. To hire a contract killer

Question Type : **MCQ**
Question ID : **264330134496**
Option 1 ID : **264330526947**
Option 2 ID : **264330526950**
Option 3 ID : **264330526949**
Option 4 ID : **264330526948**
Status : **Answered**
Chosen Option : **3**

Join Telegram Group "HaryanaJobs.in"

Q.14 **Select the appropriate synonym for the underlined word.**
It was a <u>distraction</u>.

Ans
✗ 1. faith
✗ 2. conviction
✓ 3. confusion
✗ 4. assurance

Question Type : **MCQ**
Question ID : **264330134492**
Option 1 ID : **264330526933**
Option 2 ID : **264330526934**
Option 3 ID : **264330526932**
Option 4 ID : **264330526931**
Status : **Answered**
Chosen Option : **3**

Q.15 **Choose the word that can substitute the given group of words.**
The editor of a dictionary

Ans
✗ 1. Stenographer
✗ 2. Hagiographer
✓ 3. Lexicographer
✗ 4. Scenographer

Question Type : **MCQ**
Question ID : **264330134491**
Option 1 ID : **264330526928**
Option 2 ID : **264330526929**
Option 3 ID : **264330526930**
Option 4 ID : **264330526927**
Status : **Answered**
Chosen Option : **3**

Q.16 **Improve the underlined part of the sentence. Choose 'No improvement' as an answer if the sentence is grammatically correct.**
They <u>selling postage stamps</u> at the corner store.

Ans
✗ 1. sold postal stamped
✓ 2. sell postage stamps
✗ 3. No improvement
✗ 4. sells postage stamps

Question Type : **MCQ**
Question ID : **264330134376**
Option 1 ID : **264330526488**
Option 2 ID : **264330526489**
Option 3 ID : **264330526490**
Option 4 ID : **264330526487**
Status : **Answered**
Chosen Option : **2**

Join Telegram Group "HaryanaJobs.in"

Q.17 **Choose the incorrectly spelt word.**

Ans
✗ 1. Helpful
✗ 2. Energetic
✓ 3. Juorney
✗ 4. Possible

Question Type : **MCQ**
Question ID : **264330134498**
Option 1 ID : **264330526955**
Option 2 ID : **264330526956**
Option 3 ID : **264330526958**
Option 4 ID : **264330526957**
Status : **Answered**
Chosen Option : **3**

Q.18 **A sentence has been given with a blank to be filled with an appropriate option. Choose the correct alternative.**
I always try to _____ chocolates for you.

Ans
✗ 1. brought
✗ 2. bought
✓ 3. bring
✗ 4. bringing

Question Type : **MCQ**
Question ID : **264330134482**
Option 1 ID : **264330526897**
Option 2 ID : **264330526898**
Option 3 ID : **264330526896**
Option 4 ID : **264330526895**
Status : **Answered**
Chosen Option : **3**

Q.19 **Improve the underlined part of the sentence. Choose 'No improvement' as an answer if the sentence is grammatically correct.**
<u>The most worrying aspect</u> of climate change is the effect it has on the world's food supply.

Ans
✓ 1. No improvement
✗ 2. A most worry aspect
✗ 3. A worried aspects
✗ 4. The most worrying aspects

Question Type : **MCQ**
Question ID : **264330134481**
Option 1 ID : **264330526894**
Option 2 ID : **264330526891**
Option 3 ID : **264330526893**
Option 4 ID : **264330526892**
Status : **Answered**
Chosen Option : **1**

Join Telegram Group "HaryanaJobs.in"

Q.20 **Choose the word that can substitute the given group of words.**
A person appointed by two parties to solve a problem

Ans
✗ 1. Jury
✗ 2. Advocate
✗ 3. Judge
✓ 4. Arbitrator

Question Type : **MCQ**
Question ID : **264330134490**
Option 1 ID : **264330526924**
Option 2 ID : **264330526925**
Option 3 ID : **264330526923**
Option 4 ID : **264330526926**
Status : **Answered**
Chosen Option : **4**

Comprehension:

In the following passage some of the words have been deleted. Read the passage carefully and select the correct answer for the given blank out of the four alternatives.

Although the (1) _____ in the Supreme Court arise out of the judgments or orders made by the Subordinate Courts including the High Courts, but of late the Supreme Court has started entertaining (2) _____ in which interest of the public at large is involved and the Court can be moved by any (3) _____ or group of persons either by filing a Writ Petition at the Filing Counter of the Court or by (4) _____ a letter to Hon'ble the Chief Justice of India highlighting the question of public importance for (5) _____ this jurisdiction.

SubQuestion No : 21

Q.21 Select the most appropriate option to fill in blank number 1.

Ans
✗ 1. arrangement
✗ 2. battles
✗ 3. punctuality
✓ 4. proceedings

Question Type : **MCQ**
Question ID : **264330135291**
Option 1 ID : **264330530078**
Option 2 ID : **264330530076**
Option 3 ID : **264330530077**
Option 4 ID : **264330530075**
Status : **Answered**
Chosen Option : **4**

Join Telegram Group "HaryanaJobs.in"

Comprehension:

In the following passage some of the words have been deleted. Read the passage carefully and select the correct answer for the given blank out of the four alternatives.

Although the (1) _____ in the Supreme Court arise out of the judgments or orders made by the Subordinate Courts including the High Courts, but of late the Supreme Court has started entertaining (2) _____ in which interest of the public at large is involved and the Court can be moved by any (3) _____ or group of persons either by filing a Writ Petition at the Filing Counter of the Court or by (4) _____ a letter to Hon'ble the Chief Justice of India highlighting the question of public importance for (5) _____ this jurisdiction.

SubQuestion No : 22

Q.22 Select the most appropriate option to fill in blank number 2.

Ans

✗ 1. jams

✓ 2. matters

✗ 3. tangents

✗ 4. means

Question Type : **MCQ**
Question ID : **264330135292**
Option 1 ID : **264330530080**
Option 2 ID : **264330530081**
Option 3 ID : **264330530082**
Option 4 ID : **264330530079**
Status : **Answered**
Chosen Option : **2**

Comprehension:

In the following passage some of the words have been deleted. Read the passage carefully and select the correct answer for the given blank out of the four alternatives.

Although the (1) _____ in the Supreme Court arise out of the judgments or orders made by the Subordinate Courts including the High Courts, but of late the Supreme Court has started entertaining (2) _____ in which interest of the public at large is involved and the Court can be moved by any (3) _____ or group of persons either by filing a Writ Petition at the Filing Counter of the Court or by (4) _____ a letter to Hon'ble the Chief Justice of India highlighting the question of public importance for (5) _____ this jurisdiction.

SubQuestion No : 23

Q.23 Select the most appropriate option to fill in blank number 3.

Ans

✓ 1. individual

✗ 2. personnel

✗ 3. species

✗ 4. fauna

Question Type : **MCQ**
Question ID : **264330135293**
Option 1 ID : **264330530084**
Option 2 ID : **264330530086**
Option 3 ID : **264330530083**
Option 4 ID : **264330530085**
Status : **Answered**
Chosen Option : **1**

Join Telegram Group "HaryanaJobs.in"

Comprehension:

In the following passage some of the words have been deleted. Read the passage carefully and select the correct answer for the given blank out of the four alternatives.

Although the (1) _____ in the Supreme Court arise out of the judgments or orders made by the Subordinate Courts including the High Courts, but of late the Supreme Court has started entertaining (2) _____ in which interest of the public at large is involved and the Court can be moved by any (3) _____ or group of persons either by filing a Writ Petition at the Filing Counter of the Court or by (4) _____ a letter to Hon'ble the Chief Justice of India highlighting the question of public importance for (5) _____ this jurisdiction.

SubQuestion No : 24

Q.24 Select the most appropriate option to fill in blank number 4.

Ans

✔ 1. addressing

✘ 2. Tagging

✘ 3. calculating

✘ 4. summoning

Question Type : **MCQ**
Question ID : **264330135294**
Option 1 ID : **264330530090**
Option 2 ID : **264330530087**
Option 3 ID : **264330530088**
Option 4 ID : **264330530089**
Status : **Answered**
Chosen Option : **1**

Comprehension:

In the following passage some of the words have been deleted. Read the passage carefully and select the correct answer for the given blank out of the four alternatives.

Although the (1) _____ in the Supreme Court arise out of the judgments or orders made by the Subordinate Courts including the High Courts, but of late the Supreme Court has started entertaining (2) _____ in which interest of the public at large is involved and the Court can be moved by any (3) _____ or group of persons either by filing a Writ Petition at the Filing Counter of the Court or by (4) _____ a letter to Hon'ble the Chief Justice of India highlighting the question of public importance for (5) _____ this jurisdiction.

SubQuestion No : 25

Q.25 Select the most appropriate option to fill in blank number 5.

Ans

✔ 1. Invoking

✘ 2. Joking

✘ 3. Halting

✘ 4. Rocking

Question Type : **MCQ**
Question ID : **264330135295**
Option 1 ID : **264330530093**
Option 2 ID : **264330530094**
Option 3 ID : **264330530091**
Option 4 ID : **264330530092**
Status : **Answered**
Chosen Option : **3**

Join Telegram Group "HaryanaJobs.in"

Multi Tasking Non Technical Staff and Havaldar CBIC and CBN Examination 2022

Roll Number	HaryanaJobs.in
Candidate Name	HaryanaJobs.in
Venue Name	Arya Institute of Engineering and Technology
Exam Date	09/05/2023
Exam Time	9:00 AM - 10:30 AM
Subject	MTS Non Tech Havaldar CBIC and CBN Examination 2022

Section : **Numerical and Mathematical Ability**

Q.1 6 cm भुजा वाले एक घन से एक सबसे बड़ा संभवित गोला बनाया जाता है। उस गोले का आयतन क्या है?

Ans

✔ 1. $792/7\ cm^3$

✘ 2. $144/7\ cm^3$

✘ 3. $444/7\ cm^3$

✘ 4. $133/3\ cm^3$

Question Type : **MCQ**
Question ID : **264330135085**
Option 1 ID : **264330529277**
Option 2 ID : **264330529276**
Option 3 ID : **264330529278**
Option 4 ID : **264330529275**
Status : **Answered**
Chosen Option : **1**

Q.2 यदि $p : q : r = 2 : 5 : 3$ है और $r : s = 6 : 5$ है , तो $p : q : r : s$ का मान क्या है ?

Ans

✘ 1. $4 : 12 : 7 : 3$

✘ 2. $8 : 12 : 7 : 8$

✘ 3. $6 : 5 : 8 : 10$

✔ 4. $4 : 10 : 6 : 5$

Question Type : **MCQ**
Question ID : **264330137882**
Option 1 ID : **264330540138**
Option 2 ID : **264330540137**
Option 3 ID : **264330540136**
Option 4 ID : **264330540135**
Status : **Answered**
Chosen Option : **4**

Join Telegram Group "HaryanaJobs.in"

Q.3 एक व्यक्ति ने एक वस्तु खरीदी और उसे 10 प्रतिशत की हानि पर बेच दिया। यदि उसने इसे 30 प्रतिशत कम मूल्य पर खरीदा होता और इसे Rs. 90 अधिक में बेचा होता, तो उसे 35 प्रतिशत का लाभ होता। वस्तु का क्रय मूल्य क्या है?

Ans
1. Rs. 2100 ✗
2. Rs. 2000 ✓
3. Rs. 2400 ✗
4. Rs. 2200 ✗

Question Type : **MCQ**
Question ID : **264330137881**
Option 1 ID : **264330540133**
Option 2 ID : **264330540132**
Option 3 ID : **264330540131**
Option 4 ID : **264330540134**
Status : **Answered**
Chosen Option : **2**

Q.4 पाँच क्रमागत विषम संख्याओं का औसत 15 है। इन पाँच संख्याओं में सबसे छोटी संख्या कौन-सी है?

Ans
1. 9 ✗
2. 11 ✓
3. 15 ✗
4. 13 ✗

Question Type : **MCQ**
Question ID : **264330137877**
Option 1 ID : **264330540118**
Option 2 ID : **264330540117**
Option 3 ID : **264330540115**
Option 4 ID : **264330540116**
Status : **Answered**
Chosen Option : **2**

Q.5 आशा ने Rs. 4000 में एक साड़ी खरीदी और उसे Rs. 4400 में बेच दिया। उसका लाभ प्रतिशत कितना है?

Ans
1. 5% ✗
2. 40% ✗
3. 10% ✓
4. 80% ✗

Question Type : **MCQ**
Question ID : **264330138731**
Option 1 ID : **264330543531**
Option 2 ID : **264330543533**
Option 3 ID : **264330543532**
Option 4 ID : **264330543534**
Status : **Answered**
Chosen Option : **3**

Join Telegram Group "HaryanaJobs.in"

Q.6 एक वस्तु का अंकित मूल्य उसके क्रय मूल्य का 160 प्रतिशत है। यदि वस्तु पर 20 की प्रतिशत छूट दी जाती है, तो लाभ प्रतिशत कितना होगा?

Ans

✔ 1. 28 प्रतिशत

✘ 2. 25 प्रतिशत

✘ 3. 32 प्रतिशत

✘ 4. 22 प्रतिशत

Question Type : **MCQ**
Question ID : **264330137886**
Option 1 ID : **264330540152**
Option 2 ID : **264330540153**
Option 3 ID : **264330540154**
Option 4 ID : **264330540151**
Status : **Answered**
Chosen Option : **1**

Q.7 एक रेलगाड़ी 30 m/s की चाल से चलती है और 650 मीटर लंबे पुल को 50 सेकंड में पार कर लेती है। रेलगाड़ी की लंबाई कितनी है?

Ans

✘ 1. 900 मीटर

✔ 2. 850 मीटर

✘ 3. 1000 मीटर

✘ 4. 750 मीटर

Question Type : **MCQ**
Question ID : **264330137876**
Option 1 ID : **264330540111**
Option 2 ID : **264330540113**
Option 3 ID : **264330540114**
Option 4 ID : **264330540112**
Status : **Answered**
Chosen Option : **2**

Q.8 प्रतिदिन 15 घंटे कार्य करके वैभव एक कार्य को 35 दिनों में पूरा कर सकता है। उसे एक दिन में कितने घंटे कार्य करना चाहिए ताकि कार्य 25 दिनों में पूरा हो जाए?

Ans

✘ 1. 17 घंटे

✔ 2. 21 घंटे

✘ 3. 20 घंटे

✘ 4. 18 घंटे

Question Type : **MCQ**
Question ID : **264330135080**
Option 1 ID : **264330529258**
Option 2 ID : **264330529256**
Option 3 ID : **264330529255**
Option 4 ID : **264330529257**
Status : **Answered**
Chosen Option : **2**

Join Telegram Group "HaryanaJobs.in"

Q.9 12, 22 और 32 से विभाज्य सबसे छोटा पूर्णांक क्या है?

Ans
1. 1144
2. 444
3. 1080
4. 1056

Question Type : **MCQ**
Question ID : **264330141036**
Option 1 ID : **264330552494**
Option 2 ID : **264330552492**
Option 3 ID : **264330552493**
Option 4 ID : **264330552491**
Status : **Answered**
Chosen Option : **4**

Q.10 A किसी कार्य को 21 दिनों में कर सकता है और B उसी कार्य को 28 दिनों में कर सकता है। यदि वे हर दूसरे दिन कार्य करते हैं तो वे कितने दिनों में कार्य को पूरा करेंगे?

Ans
1. 20 दिन
2. 28 दिन
3. 22 दिन
4. 24 दिन

Question Type : **MCQ**
Question ID : **264330138405**
Option 1 ID : **264330542229**
Option 2 ID : **264330542230**
Option 3 ID : **264330542228**
Option 4 ID : **264330542227**
Status : **Answered**
Chosen Option : **4**

Join Telegram Group "HaryanaJobs.in"

Q.11 निम्न तालिका में 5 वर्षों में एक कंपनी द्वारा निर्मित और बेचे गए उत्पाद की इकाइयों की संख्या को दर्शाया गया है। न बिके हुए उत्पादों (unsold products) की कुल संख्या की गणना कीजिए।

Years	Number of units manufactured (in hundred)	Sold (in hundred)
2018	440	350
2019	500	450
2020	320	300
2021	450	400
2022	290	200

Number of units manufactured (in hundreds) - निर्मित किए गए उत्पाद की इकाइयाँ (सैकड़ों में),

Sold (in hundreds) - बेचे गए (सैकड़ों में),

Years - वर्ष

Ans

✗ 1. 20,000

✗ 2. 40,000

✗ 3. 50,000

✓ 4. 30,000

Question Type : **MCQ**
Question ID : **264330135147**
Option 1 ID : **264330529523**
Option 2 ID : **264330529525**
Option 3 ID : **264330529526**
Option 4 ID : **264330529524**
Status : **Answered**
Chosen Option : **4**

Q.12 नीचे दिए गए वृत्त आलेख में एक वर्ष में छः कंपनियों द्वारा बेचे गए मोबाइल फोन की संख्या को दर्शाया गया है। छः कंपनियों द्वारा बेचे गए कुल मोबाइल फोन की संख्या 500 है। इनमें से किसी एक विशिष्ट कंपनी द्वारा बेचे गए मोबाइल फोन की संख्या को इन सभी छः कंपनियों द्वारा बेचे गए मोबाइल फोन की कुल संख्या के प्रतिशत के रूप में दर्शाया गया है।

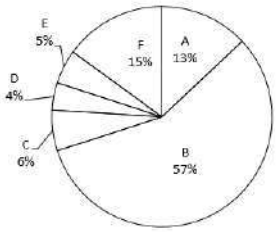

C द्वारा बेचे गए मोबाइल फोन की संख्या और F द्वारा बेचे गए मोबाइल फोन की संख्या का अनुपात कितना है?

Ans

✗ 1. 5 : 2

✗ 2. 2 : 7

✗ 3. 3 : 2

✓ 4. 2 : 5

Question Type : **MCQ**
Question ID : **264330137893**
Option 1 ID : **264330540180**
Option 2 ID : **264330540182**
Option 3 ID : **264330540181**
Option 4 ID : **264330540179**
Status : **Answered**
Chosen Option : **4**

Join Telegram Group "HaryanaJobs.in"

Q.13 एक संख्या में पहले 12% की वृद्धि की जाती है और फिर उसमें 12% की कमी की जाती है। संख्या में परिवर्तन है:

Ans

✗ 1. 12% की वृद्धि

✗ 2. 1.44% की वृद्धि

✓ 3. 1.44% की कमी

✗ 4. 12% की कमी

Question Type : **MCQ**
Question ID : **264330133800**
Option 1 ID : **264330524226**
Option 2 ID : **264330524224**
Option 3 ID : **264330524223**
Option 4 ID : **264330524225**
Status : **Answered**
Chosen Option : **3**

Q.14 एक निश्चित राशि पर, 2 वर्षों के लिए साधारण ब्याज Rs. 12000 है। यदि यह राशि Rs. 12000 है, तो पहले 3 वर्षों के लिए इसी राशि पर समान ब्याज दर पर चक्रवृद्धि ब्याज (वार्षिक रूप से संयोजित) कितना होगा?

Ans

✗ 1. Rs. 29300

✗ 2. Rs. 22750

✗ 3. Rs. 29250

✓ 4. Rs. 28500

Question Type : **MCQ**
Question ID : **264330137635**
Option 1 ID : **264330539149**
Option 2 ID : **264330539147**
Option 3 ID : **264330539150**
Option 4 ID : **264330539148**
Status : **Answered**
Chosen Option : **4**

Q.15 एक समिति के 15 सदस्यों की औसत आयु 4 वर्ष बढ़ जाती है जब 60 वर्ष और 70 वर्ष आयु वाले दो सदस्यों के स्थान पर दो नए सदस्य आ जाते हैं। नए सदस्यों की औसत आयु क्या है?

Ans

✗ 1. 85 वर्ष

✗ 2. 105 वर्ष

✗ 3. 80 वर्ष

✓ 4. 95 वर्ष

Question Type : **MCQ**
Question ID : **264330137649**
Option 1 ID : **264330539203**
Option 2 ID : **264330539204**
Option 3 ID : **264330539205**
Option 4 ID : **264330539206**
Status : **Answered**
Chosen Option : **1**

Join Telegram Group "HaryanaJobs.in"

Q.16 Rs. 10000 पर 1 वर्ष 6 माह में 10% वार्षिक दर पर चक्रवृद्धि ब्याज कितना है, जहाँ ब्याज अर्ध-वार्षिक रूप से संयोजित किया जा रहा है?

Ans

1. ✗ Rs. 1625.50
2. ✓ Rs. 1576.25
3. ✗ Rs. 1422.25
4. ✗ Rs. 1826.50

Question Type : **MCQ**
Question ID : **264330133807**
Option 1 ID : **264330524254**
Option 2 ID : **264330524251**
Option 3 ID : **264330524253**
Option 4 ID : **264330524252**
Status : **Answered**
Chosen Option : **2**

Q.17 $62.5 \times 2 + 1100 - (16)^2 + (30)^2$ का मान ज्ञात कीजिए:

Ans

1. ✗ 1666
2. ✗ 1900
3. ✓ 1869
4. ✗ 1445

Question Type : **MCQ**
Question ID : **264330135131**
Option 1 ID : **264330529459**
Option 2 ID : **264330529462**
Option 3 ID : **264330529461**
Option 4 ID : **264330529460**
Status : **Answered**
Chosen Option : **3**

Q.18 चार अंकों की वह सबसे बड़ी संख्या कौन-सी है जिसे 3 और 4 से भाग देने पर प्रत्येक स्थिति में शेषफल 2 बचता है?

Ans

1. ✗ 9996
2. ✗ 9994
3. ✓ 9998
4. ✗ 9995

Question Type : **MCQ**
Question ID : **264330137889**
Option 1 ID : **264330540164**
Option 2 ID : **264330540166**
Option 3 ID : **264330540163**
Option 4 ID : **264330540165**
Status : **Answered**
Chosen Option : **3**

Join Telegram Group "HaryanaJobs.in"

Q.19 एक समचतुर्भुज के विकर्ण 16 cm और 20 cm हैं। समचतुर्भुज का क्षेत्रफल ज्ञात कीजिए।

Ans
1. $120\ cm^2$
2. $150\ cm^2$
3. $110\ cm^2$
4. $160\ cm^2$

Question Type : **MCQ**
Question ID : **264330138409**
Option 1 ID : **264330542246**
Option 2 ID : **264330542244**
Option 3 ID : **264330542243**
Option 4 ID : **264330542245**
Status : **Answered**
Chosen Option : **4**

Q.20 दो छात्रों की आयु का अनुपात 5 : 4 है। उनकी आयु के बीच का अंतर 8 वर्ष है। छोटे छात्र की आयु कितनी है?

Ans
1. 40 वर्ष
2. 48 वर्ष
3. 32 वर्ष
4. 24 वर्ष

Question Type : **MCQ**
Question ID : **264330137883**
Option 1 ID : **264330540139**
Option 2 ID : **264330540140**
Option 3 ID : **264330540141**
Option 4 ID : **264330540142**
Status : **Answered**
Chosen Option : **3**

Section : **Reasoning Ability and Problem Solving**

Q.1 दी गई श्रृंखला में निम्नलिखित में से कौन-सी संख्या प्रश्न चिन्ह (?) के स्थान पर आएगी?
69, 80, 89, 96, 101, ?

Ans
1. 102
2. 104
3. 106
4. 105

Question Type : **MCQ**
Question ID : **264330133517**
Option 1 ID : **264330523099**
Option 2 ID : **264330523100**
Option 3 ID : **264330523102**
Option 4 ID : **264330523101**
Status : **Answered**
Chosen Option : **2**

Join Telegram Group "HaryanaJobs.in"

Q.2 दी गई श्रृंखला में निम्नलिखित में से कौन-सी संख्या प्रश्न चिन्ह (?) के स्थान पर आएगी?
57, 54, 52, 49, 47, 44, 42,?

Ans
1. 40
2. 47
3. 39
4. 27

Question Type : **MCQ**
Question ID : **264330137800**
Option 1 ID : **264330539807**
Option 2 ID : **264330539809**
Option 3 ID : **264330539810**
Option 4 ID : **264330539808**
Status : **Answered**
Chosen Option : **3**

Q.3 उस विकल्प को चुनिए जो तीसरे अक्षर-समूह से ठीक उसी तरह संबंधित है जिस तरह दूसरा अक्षर-समूह पहले अक्षर-समूह से संबंधित है।
DAK : FCM :: PVH : ?

Ans
1. RXI
2. SXJ
3. RXJ
4. RJZ

Question Type : **MCQ**
Question ID : **264330137789**
Option 1 ID : **264330539765**
Option 2 ID : **264330539766**
Option 3 ID : **264330539764**
Option 4 ID : **264330539763**
Status : **Answered**
Chosen Option : **3**

Q.4 दो कथन दिए गए हैं और दो निष्कर्ष I और II दिए गए हैं। कथनों को सत्य मानते हुए, चाहे वे सामान्यतः ज्ञात तथ्यों से अलग प्रतीत होते हों, निश्चय कीजिए कि कौन-सा निष्कर्ष तार्किक रूप से कथनों के अनुसार है।
कथन:
कुछ सोना, चाँदी हैं।

सभी सोना, प्लैटिनम हैं।
निष्कर्ष:
I. कुछ चाँदी, प्लैटिनम हैं।
II. सभी प्लैटिनम, सोना हैं।

Ans
1. सिर्फ निष्कर्ष I कथनों के अनुसार है
2. निष्कर्ष I और II में से कोई भी कथनों के अनुसार नहीं है
3. सिर्फ निष्कर्ष II कथनों के अनुसार है
4. दोनों निष्कर्ष I और II कथनों के अनुसार है

Question Type : **MCQ**
Question ID : **264330137797**
Option 1 ID : **264330539795**
Option 2 ID : **264330539798**
Option 3 ID : **264330539796**
Option 4 ID : **264330539797**
Status : **Answered**
Chosen Option : **1**

Join Telegram Group "HaryanaJobs.in"

Q.5 यदि A का अर्थ 'जोड़', B का अर्थ 'गुणा', C का अर्थ 'घटाव' और D का अर्थ 'भाग' हो, तो निम्नलिखित समीकरण का मान क्या होगा?
7 A 5 C (6 D 3) = ?

Ans
✗ 1. 19
✗ 2. 16
✗ 3. 32
✓ 4. 10

Question Type : **MCQ**
Question ID : **264330137555**
Option 1 ID : **264330538829**
Option 2 ID : **264330538828**
Option 3 ID : **264330538830**
Option 4 ID : **264330538827**
Status : **Answered**
Chosen Option : **4**

Q.6 एक निश्चित कूट भाषा में, 'AJDM' को 'JDMA' लिखा जाता है। उस कूट भाषा में 'SKWM' को कैसे लिखा जाएगा?

Ans
✗ 1. KMMS
✓ 2. KWMS
✗ 3. KSMW
✗ 4. KMWS

Question Type : **MCQ**
Question ID : **264330135002**
Option 1 ID : **264330528946**
Option 2 ID : **264330528944**
Option 3 ID : **264330528945**
Option 4 ID : **264330528943**
Status : **Answered**
Chosen Option : **2**

Q.7 सात भाइयों P, Q, R, S, T, U, और V का जन्म अलग-अलग वर्षों में हुआ था। S, केवल 2 भाइयों से छोटा है और उनमें से कोई भी U नहीं है। P, R से बड़ा है परंतु U और S से छोटा है। R सबसे छोटा नहीं है। U, Q से छोटा है जो T से छोटा है। सबसे छोटा कौन है?

Ans
✗ 1. T
✓ 2. V
✗ 3. Q
✗ 4. P

Question Type : **MCQ**
Question ID : **264330137796**
Option 1 ID : **264330539792**
Option 2 ID : **264330539794**
Option 3 ID : **264330539791**
Option 4 ID : **264330539793**
Status : **Answered**
Chosen Option : **2**

Join Telegram Group "HaryanaJobs.in"

Q.8 उस विकल्प आकृति को चुनिए जिसमें दी गई आकृति (X) उसके भाग के रूप में निहित है (घूर्णन की अनुमति नहीं है)।

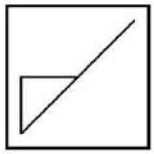

X

Ans

✗ 1.

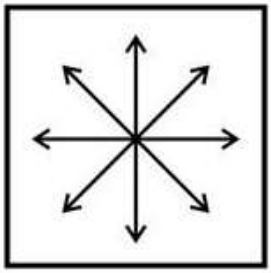

✗ 2.

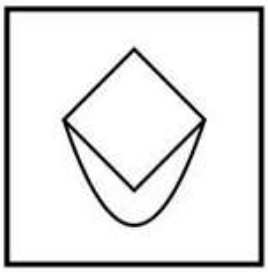

✓ 3.

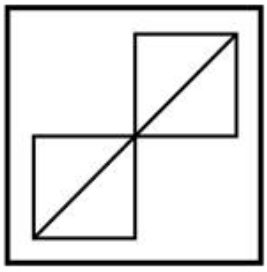

✗ 4.

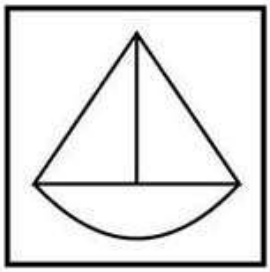

Question Type : **MCQ**
Question ID : **264330135039**
Option 1 ID : **264330529094**
Option 2 ID : **264330529091**
Option 3 ID : **264330529093**
Option 4 ID : **264330529092**
Status : **Answered**
Chosen Option : **3**

Join Telegram Group "HaryanaJobs.in"

Q.9 एक निश्चित कूट भाषा में, 'FELLOW' को 'FDNLNY' लिखा जाता है। उस कूट भाषा में 'GOLDEN' को कैसे लिखा जाएगा?

Ans

✔ 1. GNNDDP

✘ 2. GNNEDQ

✘ 3. GNMDEP

✘ 4. DNNDDQ

Question Type : **MCQ**
Question ID : **264330138835**
Option 1 ID : **264330543948**
Option 2 ID : **264330543950**
Option 3 ID : **264330543947**
Option 4 ID : **264330543949**
Status : **Answered**
Chosen Option : **1**

Q.10 रीना, मीना, टीना, लीना, और नीना एक सीधी रेखा में दक्षिण की ओर मुख करके बैठी हैं। टीना, रीना के ठीक दाईं ओर बैठी है। रीना और लीना के बीच केवल नीना बैठी है। टीना सबसे आखिर में नहीं बैठी है। नीना के ठीक बाईं ओर कौन बैठा है?

Ans

✘ 1. टीना

✘ 2. मीना

✘ 3. रीना

✔ 4. लीना

Question Type : **MCQ**
Question ID : **264330137795**
Option 1 ID : **264330539788**
Option 2 ID : **264330539787**
Option 3 ID : **264330539789**
Option 4 ID : **264330539790**
Status : **Answered**
Chosen Option : **4**

Q.11 दी गई श्रृंखला में निम्नलिखित में से कौन-सा अक्षर-समूह प्रश्न चिन्ह (?) के स्थान पर आएगा?
AGM, CEO, ECQ, GAS, ?

Ans

✘ 1. JZS

✘ 2. IUY

✘ 3. YUI

✔ 4. IYU

Question Type : **MCQ**
Question ID : **264330137786**
Option 1 ID : **264330539754**
Option 2 ID : **264330539752**
Option 3 ID : **264330539753**
Option 4 ID : **264330539751**
Status : **Answered**
Chosen Option : **4**

Join Telegram Group "HaryanaJobs.in"

Q.12 तीन कथन दिए गए हैं और दो निष्कर्ष I और II दिए गए हैं। कथनों को सत्य मानते हुए, चाहे वे सामान्यतः ज्ञात तथ्यों से अलग प्रतीत होते हों, निश्चय कीजिए कि कौन-सा निष्कर्ष तार्किक रूप से कथनों के अनुसार है।
कथन:

सभी छात्र, अच्छे हैं।

रेचेल, छात्र है।

कुछ अच्छे, ईमानदार हैं।

निष्कर्ष:

I. रेचेल, ईमानदार है।

II. कुछ ईमानदार, अच्छे हैं।

Ans

✔ 1. सिर्फ निष्कर्ष II कथनों के अनुसार है

✘ 2. निष्कर्ष I और II में से कोई भी कथनों के अनुसार नहीं है

✘ 3. दोनों निष्कर्ष I और II कथनों के अनुसार हैं

✘ 4. सिर्फ निष्कर्ष I कथनों के अनुसार है

Question Type : **MCQ**
Question ID : **264330137798**
Option 1 ID : **264330539800**
Option 2 ID : **264330539802**
Option 3 ID : **264330539801**
Option 4 ID : **264330539799**
Status : **Answered**
Chosen Option : **1**

Q.13 उस विकल्प को चुनिए जो तीसरे शब्द से ठीक उसी तरह संबंधित है जिस तरह दूसरा शब्द पहले शब्द से संबंधित है।
घमंडी : अहंकारी :: अमंगल : ?

Ans

✘ 1. शांतिप्रिय

✔ 2. अशुभ

✘ 3. शांतिदायक

✘ 4. शांत

Question Type : **MCQ**
Question ID : **264330137788**
Option 1 ID : **264330539759**
Option 2 ID : **264330539762**
Option 3 ID : **264330539761**
Option 4 ID : **264330539760**
Status : **Answered**
Chosen Option : **2**

Join Telegram Group "HaryanaJobs.in"

Q.14 दिए गए समीकरण को सही करने के लिए किन दो चिन्हों को आपस में बदला जाना चाहिए?
12 + 4 ÷ 2 - 6 = 16

Ans
1. ÷ और +
2. ÷ और =
3. + और -
4. - और =

Question Type : **MCQ**
Question ID : **264330137803**
Option 1 ID : **264330539821**
Option 2 ID : **264330539819**
Option 3 ID : **264330539822**
Option 4 ID : **264330539820**
Status : **Answered**
Chosen Option : **3**

Q.15 पाँच लोग P, Q, T, V और R एक परिधि में केंद्र से बाहर की ओर मुख करके बैठे हैं। P, V के ठीक दाईं ओर है। T, V और R के बीच में है। R के ठीक बाईं ओर कौन बैठा है?

Ans
1. V
2. P
3. T
4. Q

Question Type : **MCQ**
Question ID : **264330137794**
Option 1 ID : **264330539786**
Option 2 ID : **264330539783**
Option 3 ID : **264330539785**
Option 4 ID : **264330539784**
Status : **Answered**
Chosen Option : **4**

Q.16 उस विकल्प को चुनिए जो तीसरी संख्या से ठीक उसी प्रकार संबंधित है जिस प्रकार दूसरी संख्या पहली संख्या से संबंधित है।
289 : 325 :: 361 : ?

Ans
1. 401
2. 399
3. 411
4. 400

Question Type : **MCQ**
Question ID : **264330133519**
Option 1 ID : **264330523107**
Option 2 ID : **264330523109**
Option 3 ID : **264330523110**
Option 4 ID : **264330523108**
Status : **Answered**
Chosen Option : **1**

Join Telegram Group "HaryanaJobs.in"

Q.17 उस विकल्प आकृति को चुनिए जो नीचे दी गई आकृति में पैटर्न को पूरा करने के लिए प्रश्न चिन्ह (?) के स्थान पर आएगी। (घूर्णन की अनुमति नहीं है)

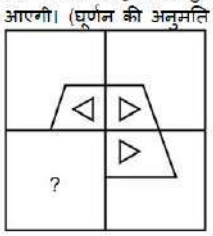

Ans

✗ 1.
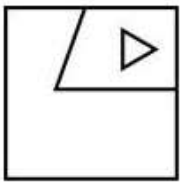

✓ 2.
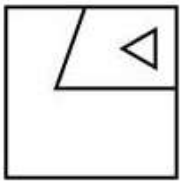

✗ 3.
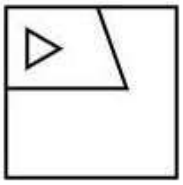

✗ 4.
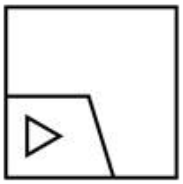

Question Type : **MCQ**
Question ID : **264330137807**
Option 1 ID : **264330539838**
Option 2 ID : **264330539835**
Option 3 ID : **264330539836**
Option 4 ID : **264330539837**
Status : **Answered**
Chosen Option : **2**

Q.18 एक निश्चित कूट भाषा में, 'ABSENCE' को 'ASBECNE' लिखा जाता है। उस कूट भाषा में 'EXACTLY' को कैसे लिखा जाएगा?

Ans

✗ 1. EXACTLY

✗ 2. EAXCLYT

✓ 3. EAXCLTY

✗ 4. EAXTCLY

Question Type : **MCQ**
Question ID : **264330137542**
Option 1 ID : **264330538775**
Option 2 ID : **264330538778**
Option 3 ID : **264330538776**
Option 4 ID : **264330538777**
Status : **Answered**
Chosen Option : **3**

Join Telegram Group "HaryanaJobs.in"

Q.19 दिए गए पैटर्न का ध्यानपूर्वक अध्ययन कीजिए और उस संख्या को चुनिए जो इसमें प्रश्न चिन्ह (?) के स्थान पर आ सकती है?
प्रथम पंक्ति- 6, 36, 72
द्वितीय पंक्ति- 8, 48, 96
तृतीय पंक्ति- 9, 54, ?

Ans

✔ 1. 108

✘ 2. 105

✘ 3. 231

✘ 4. 130

Question Type : **MCQ**
Question ID : **264330137802**
Option 1 ID : **264330539818**
Option 2 ID : **264330539815**
Option 3 ID : **264330539816**
Option 4 ID : **264330539817**
Status : **Answered**
Chosen Option : **1**

Join Telegram Group "HaryanaJobs.in"

Q.20 दी गई आकृति के उस सही दर्पण प्रतिबिंब को चुनिए जो दर्पण को आकृति के दाईं ओर रखने पर बनेगा।

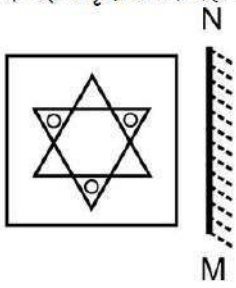

Ans

✗ 1.

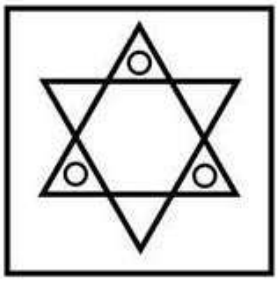

✗ 2.

✓ 3.

✗ 4.

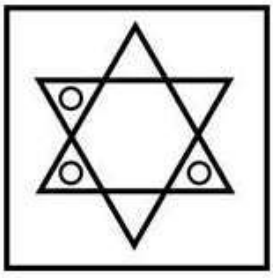

Question Type : **MCQ**
Question ID : **264330135040**
Option 1 ID : **264330529096**
Option 2 ID : **264330529095**
Option 3 ID : **264330529097**
Option 4 ID : **264330529098**
Status : **Answered**
Chosen Option : **3**

Section : **General Awareness**

Join Telegram Group "HaryanaJobs.in"

Q.1 वर्ष 2011 की जनगणना के अनुसार, निम्नलिखित में से कौन-सा देश सबसे अधिक आबादी वाले शीर्ष दस देशों की सूची में शामिल नहीं है?

Ans
1. पाकिस्तान ✗
2. नाइजीरिया ✗
3. कनाडा ✓
4. जापान ✗

Question Type : **MCQ**
Question ID : **264330138316**
Option 1 ID : **264330541874**
Option 2 ID : **264330541872**
Option 3 ID : **264330541873**
Option 4 ID : **264330541871**
Status : **Answered**
Chosen Option : **2**

Q.2 निम्नलिखित में से कौन-सी वायुमंडलीय परत सबसे ठंडी परत है?

Ans
1. क्षोभ मंडल ✗
2. मध्य मंडल ✓
3. समताप मंडल ✗
4. ताप मंडल ✗

Question Type : **MCQ**
Question ID : **264330133989**
Option 1 ID : **264330524979**
Option 2 ID : **264330524981**
Option 3 ID : **264330524980**
Option 4 ID : **264330524982**
Status : **Answered**
Chosen Option : **2**

Q.3 निम्नलिखित में से किस राज्य में माघ साजी (Magha Saaji) को मकर संक्रांति के रूप में मनाया जाता है?

Ans
1. गुजरात ✗
2. गोवा ✗
3. मध्यप्रदेश ✗
4. हिमाचल प्रदेश ✓

Question Type : **MCQ**
Question ID : **264330134697**
Option 1 ID : **264330527744**
Option 2 ID : **264330527745**
Option 3 ID : **264330527743**
Option 4 ID : **264330527746**
Status : **Answered**
Chosen Option : **4**

Join Telegram Group "HaryanaJobs.in"

Q.4 लोकसभा के पीठासीन अधिकारी को _____ कहा जाता है।

Ans
✔ 1. लोकसभा अध्यक्ष (स्पीकर)
✘ 2. अध्यक्ष
✘ 3. उपाध्यक्ष
✘ 4. उप सभापति

Question Type : **MCQ**
Question ID : **264330137915**
Option 1 ID : **264330540267**
Option 2 ID : **264330540268**
Option 3 ID : **264330540269**
Option 4 ID : **264330540270**
Status : **Answered**
Chosen Option : **1**

Q.5 मुद्रा की एक इकाई का एक इकाई अवधि में जितनी बार हस्तांतरण होता है, उसे _____ कहते हैं।

Ans
✔ 1. मुद्रा का संचलन वेग
✘ 2. शून्य आर्थिक लाभ
✘ 3. आधार मुद्रा
✘ 4. प्रेषित मुद्रा

Question Type : **MCQ**
Question ID : **264330138906**
Option 1 ID : **264330544231**
Option 2 ID : **264330544234**
Option 3 ID : **264330544232**
Option 4 ID : **264330544233**
Status : **Answered**
Chosen Option : **1**

Q.6 निम्नलिखित में से कौन-सा नृत्य महाराष्ट्र का एक लोकप्रिय लोक नृत्य है?

Ans
✘ 1. झूमर
✘ 2. गिद्दा
✘ 3. बिहू
✔ 4. लावणी

Question Type : **MCQ**
Question ID : **264330137896**
Option 1 ID : **264330540194**
Option 2 ID : **264330540192**
Option 3 ID : **264330540191**
Option 4 ID : **264330540193**
Status : **Answered**
Chosen Option : **4**

Join Telegram Group "HaryanaJobs.in"

Q.7 सास्वती सेन (Saswati Sen) 2004-2005 के संगीत नाटक अकादमी पुरस्कार की एक गौरवान्वित प्राप्तकर्ता हैं। वह किस नृत्य शैली के लिए पहचानी जाती हैं?

Ans
✔ 1. कथक
✘ 2. मणिपुरी
✘ 3. मोहिनीअट्टम
✘ 4. कुचिपुड़ी

Question Type : **MCQ**
Question ID : **264330138903**
Option 1 ID : **264330544222**
Option 2 ID : **264330544219**
Option 3 ID : **264330544220**
Option 4 ID : **264330544221**
Status : **Answered**
Chosen Option : **4**

Q.8 निम्नलिखित में से किस अधिनियम ने प्रांतीय स्तर पर 'द्वैध शासन' प्रणाली को त्याग दिया और लोकप्रिय रूप से निर्वाचित प्रांतीय विधानसभाओं के उद्गमन में सहायता की?

Ans
✘ 1. चार्टर अधिनियम, 1793
✘ 2. पिट्स इंडिया एक्ट, 1784
✔ 3. भारत सरकार अधिनियम, 1935
✘ 4. मांटेग्यू-चेम्सफोर्ड सुधार (भारत शासन अधिनियम), 1919

Question Type : **MCQ**
Question ID : **264330137726**
Option 1 ID : **264330539512**
Option 2 ID : **264330539511**
Option 3 ID : **264330539514**
Option 4 ID : **264330539513**
Status : **Answered**
Chosen Option : **3**

Q.9 निम्नलिखित में से किस उपकरण का उपयोग हवा या गैस की आर्द्रता को मापने के लिए किया जाता है?

Ans
✘ 1. बोलोमीटर (Bolometer)
✔ 2. हाइग्रोमीटर (Hygrometer)
✘ 3. हाइड्रोमीटर (Hydrometer)
✘ 4. अल्टिमीटर (Altimeter)

Question Type : **MCQ**
Question ID : **264330133986**
Option 1 ID : **264330524968**
Option 2 ID : **264330524970**
Option 3 ID : **264330524969**
Option 4 ID : **264330524967**
Status : **Answered**
Chosen Option : **2**

Join Telegram Group "HaryanaJobs.in"

Q.10 परिवार न्यायालय (संशोधन) विधेयक निम्नलिखित में से किन राज्यों में परिवार न्यायालय अधिनियम के कार्यक्षेत्र के विस्तार के लिए प्रावधान करना चाहता है?

Ans

✗ 1. हिमाचल प्रदेश और सिक्किम

✗ 2. सिक्किम और मणिपुर

✓ 3. हिमाचल प्रदेश और नागालैंड

✗ 4. नागालैंड और सिक्किम

Question Type : **MCQ**
Question ID : **264330137712**
Option 1 ID : **264330539457**
Option 2 ID : **264330539458**
Option 3 ID : **264330539455**
Option 4 ID : **264330539456**
Status : **Not Answered**
Chosen Option : **--**

Q.11 निम्नलिखित में से किसने जहाँगीर की जीवनी लिखी जो इकबालनामा-ए जहाँगीरी (Iqbalnama-i Jahangiri) के नाम से जानी जाती है?

Ans

✓ 1. मुतामिद खान

✗ 2. इनायत खान

✗ 3. अबुल फ़ज़ल

✗ 4. अब्दुल रहीम खान

Question Type : **MCQ**
Question ID : **264330133995**
Option 1 ID : **264330525005**
Option 2 ID : **264330525006**
Option 3 ID : **264330525004**
Option 4 ID : **264330525003**
Status : **Answered**
Chosen Option : **2**

Q.12 निम्नलिखित में से किस मुगल बादशाह ने आगरा में शीश महल का निर्माण करवाया था?

Ans

✗ 1. अकबर

✗ 2. हुमायूँ

✗ 3. बाबर

✓ 4. शाहजहाँ

Question Type : **MCQ**
Question ID : **264330137715**
Option 1 ID : **264330539468**
Option 2 ID : **264330539470**
Option 3 ID : **264330539469**
Option 4 ID : **264330539467**
Status : **Answered**
Chosen Option : **4**

Join Telegram Group "HaryanaJobs.in"

Q.13 निम्नलिखित में से किसने मेल्टवाटर चैंपियंस शतरंज टूर (Meltwater Champions Chess Tour) 2022 जीता?

Ans
1. विदित संतोष गुजराती (Vidit Santosh Gujrathi)
2. अर्जुन एरिगेसी (Arjun Erigaisi)
3. यान क्रिस्टोफ डुडा (Jan-Krzysztof Duda)
4. मैग्नस कार्लसन (Magnus Carlsen)

Question Type : **MCQ**
Question ID : **264330134004**
Option 1 ID : **264330525042**
Option 2 ID : **264330525039**
Option 3 ID : **264330525041**
Option 4 ID : **264330525040**
Status : **Answered**
Chosen Option : **2**

Q.14 लवलीना बोरगोहेन (Lovlina Borgohain) किस खेल से संबंधित हैं?

Ans
1. टेबल टेनिस
2. मुक्केबाज़ी
3. शतरंज
4. तैराकी

Question Type : **MCQ**
Question ID : **264330137916**
Option 1 ID : **264330540272**
Option 2 ID : **264330540273**
Option 3 ID : **264330540274**
Option 4 ID : **264330540271**
Status : **Answered**
Chosen Option : **2**

Q.15 2011 की जनगणना के अनुसार, निम्न में से किस राज्य की जनसंख्या सर्वाधिक है?

Ans
1. बिहार
2. तमिलनाडु
3. महाराष्ट्र
4. उत्तर प्रदेश

Question Type : **MCQ**
Question ID : **264330134017**
Option 1 ID : **264330525091**
Option 2 ID : **264330525093**
Option 3 ID : **264330525092**
Option 4 ID : **264330525094**
Status : **Answered**
Chosen Option : **4**

Join Telegram Group "HaryanaJobs.in"

Q.16 कोशिका भित्ति का प्रमुख कार्य क्या है?

Ans
✔ 1. यह कोशिका को आकार और दृढ़ता प्रदान करती है
✘ 2. यह सामाग्री के भंडार गृह की तरह काम करती है
✘ 3. यह कार्बोहाइड्रेट के संश्लेषण में मदद करती है
✘ 4. यह कोशिका विभाजन के लिए उत्तरदायी होती है

Question Type : **MCQ**
Question ID : **264330137900**
Option 1 ID : **264330540210**
Option 2 ID : **264330540207**
Option 3 ID : **264330540208**
Option 4 ID : **264330540209**
Status : **Answered**
Chosen Option : **1**

Q.17 म्यांमार निम्नलिखित में से किस राज्य के साथ अपनी सीमा साझा नहीं करता?

Ans
✘ 1. नागालैंड
✔ 2. सिक्किम
✘ 3. मणिपुर
✘ 4. मिज़ोरम

Question Type : **MCQ**
Question ID : **264330134707**
Option 1 ID : **264330527783**
Option 2 ID : **264330527786**
Option 3 ID : **264330527785**
Option 4 ID : **264330527784**
Status : **Answered**
Chosen Option : **2**

Q.18 _____ की स्थापना सन् 1867 में दादोबा पांडुरंग और उनके भाई आत्माराम पांडुरंग ने की थी।

Ans
✘ 1. तत्वबोधिनी सभा (Tattvabodhini Sabha)
✘ 2. आर्य समाज
✘ 3. ब्रह्म समाज
✔ 4. प्रार्थना समाज

Question Type : **MCQ**
Question ID : **264330134710**
Option 1 ID : **264330527797**
Option 2 ID : **264330527798**
Option 3 ID : **264330527796**
Option 4 ID : **264330527795**
Status : **Answered**
Chosen Option : **4**

Join Telegram Group "HaryanaJobs.in"

Q.19 'प्रधानमंत्री जन-धन योजना (Pradhan Mantri Jan-Dhan Yojana (PMJDY))' के अंतर्गत, अब तक 472 मिलियन से अधिक खाते खोले जा चुके हैं। इस सूची में कौन-सा राज्य शीर्ष स्थान पर है (12 अक्टूबर, 2022 तक)?

Ans
1. हरियाणा
2. उत्तरप्रदेश
3. महाराष्ट्र
4. पश्चिम बंगाल

Question Type : **MCQ**
Question ID : **264330137894**
Option 1 ID : **264330540185**
Option 2 ID : **264330540184**
Option 3 ID : **264330540183**
Option 4 ID : **264330540186**
Status : **Not Answered**
Chosen Option : **--**

Q.20 सूचना प्रौद्योगिकी के प्रमुख केंद्रों में से एक सिलिकॉन वैली _____ में स्थित है।

Ans
1. कैलिफोर्निया
2. न्यूयॉर्क
3. टोक्यो
4. लंदन

Question Type : **MCQ**
Question ID : **264330138913**
Option 1 ID : **264330544261**
Option 2 ID : **264330544262**
Option 3 ID : **264330544260**
Option 4 ID : **264330544259**
Status : **Answered**
Chosen Option : **1**

Q.21 _____ का उपयोग ऐसे मिश्रण को पृथक् करने में किया जाता है जो विघटित हुए बिना उबलते हैं तथा जिनके घटकों के क्वथनांकों के मध्य अधिक अंतराल होता है।

Ans
1. पायसीकरण
2. कार्बोनेशन
3. उर्ध्वपातन
4. आसवन

Question Type : **MCQ**
Question ID : **264330133988**
Option 1 ID : **264330524976**
Option 2 ID : **264330524975**
Option 3 ID : **264330524977**
Option 4 ID : **264330524978**
Status : **Answered**
Chosen Option : **4**

Join Telegram Group "HaryanaJobs.in"

Q.22 स्वर्गीय जगजीत सिंह एक लोकप्रिय संगीतकार और _____ गायक थे।

Ans
✔ 1. ग़ज़ल
✘ 2. रॉक
✘ 3. ऑपेरा
✘ 4. पॉप

Question Type : **MCQ**
Question ID : **264330137912**
Option 1 ID : **264330540258**
Option 2 ID : **264330540255**
Option 3 ID : **264330540256**
Option 4 ID : **264330540257**
Status : **Answered**
Chosen Option : **4**

Q.23 जिम कॉर्बेट राष्ट्रीय उद्यान भारत के किस राज्य में स्थित है ?

Ans
✔ 1. उत्तराखंड
✘ 2. पंजाब
✘ 3. हिमाचल प्रदेश
✘ 4. उत्तरप्रदेश

Question Type : **MCQ**
Question ID : **264330137904**
Option 1 ID : **264330540223**
Option 2 ID : **264330540226**
Option 3 ID : **264330540224**
Option 4 ID : **264330540225**
Status : **Answered**
Chosen Option : **1**

Q.24 भारतीय संविधान का कौन-सा अनुच्छेद समान नागरिक संहिता निर्धारित करता है?

Ans
✘ 1. अनुच्छेद 12
✘ 2. अनुच्छेद 370
✔ 3. अनुच्छेद 44
✘ 4. अनुच्छेद 377

Question Type : **MCQ**
Question ID : **264330137914**
Option 1 ID : **264330540266**
Option 2 ID : **264330540264**
Option 3 ID : **264330540265**
Option 4 ID : **264330540263**
Status : **Answered**
Chosen Option : **3**

Join Telegram Group "HaryanaJobs.in"

Q.25 'इन द आफ्टरनून ऑफ टाइम (In The Afternoon of Time)' _____ की एक आत्मकथात्मक पुस्तक है।

Ans
1. पी.टी. उषा
2. सत्यजीत रे
3. हरिवंशराय बच्चन
4. सैम पित्रोदा

Question Type : **MCQ**
Question ID : **264330138901**
Option 1 ID : **264330544211**
Option 2 ID : **264330544213**
Option 3 ID : **264330544214**
Option 4 ID : **264330544212**
Status : **Answered**
Chosen Option : **4**

Section : **English Language and Comprehension**

Q.1 Select the most appropriate antonym of the given word.

Mad

Ans
1. Dense
2. Distemper
3. Sound
4. Indisposition

Question Type : **MCQ**
Question ID : **264330136075**
Option 1 ID : **264330533113**
Option 2 ID : **264330533112**
Option 3 ID : **264330533114**
Option 4 ID : **264330533111**
Status : **Answered**
Chosen Option : **1**

Q.2 Select the most appropriate option to substitute the bracketed segment in the given sentence. If there is no need to substitute it, select 'no substitution required'.

He suggested (there was collusions through objectors, due to similarities) in some letters sent to the council.

Ans
1. their was collusion by the objectors, due to similarities
2. No substitution required
3. there was collusion between objectors, due to similarities
4. there was collusions from the objector, due to similarities

Question Type : **MCQ**
Question ID : **264330136296**
Option 1 ID : **264330533965**
Option 2 ID : **264330533966**
Option 3 ID : **264330533963**
Option 4 ID : **264330533964**
Status : **Answered**
Chosen Option : **3**

Join Telegram Group "HaryanaJobs.in"

Q.3 Choose the word that means the same as the given word.

Valet

Ans
1. Carrier
2. Carrousel
3. Kingpin
4. Butler

Question Type : **MCQ**
Question ID : **264330135195**
Option 1 ID : **264330529708**
Option 2 ID : **264330529710**
Option 3 ID : **264330529707**
Option 4 ID : **264330529709**
Status : **Not Answered**
Chosen Option : **--**

Q.4 Select the most appropriate option to fill in the blank.

After suffering so many losses, the company is about to go _____.

Ans
1. awry
2. silent
3. cynical
4. bankrupt

Question Type : **MCQ**
Question ID : **264330134847**
Option 1 ID : **264330528326**
Option 2 ID : **264330528324**
Option 3 ID : **264330528323**
Option 4 ID : **264330528325**
Status : **Answered**
Chosen Option : **4**

Q.5 Four words are given, out of which only one word is spelt correctly. Choose the correctly spelt word.

Ans
1. SPLATER
2. ARGUMENT
3. ASSASINATION
4. CALANDER

Question Type : **MCQ**
Question ID : **264330136261**
Option 1 ID : **264330533827**
Option 2 ID : **264330533829**
Option 3 ID : **264330533828**
Option 4 ID : **264330533830**
Status : **Answered**
Chosen Option : **2**

Join Telegram Group "HaryanaJobs.in"

Q.6 Find the part of the given sentence that has an error in it. If there is no error, choose 'No error'.

Shapes that are impossible to make of machining can be printed.

Ans

✗ 1. Shapes that are impossible

✗ 2. can be printed.

✗ 3. No error

✓ 4. to make of machining

Question Type : **MCQ**
Question ID : **264330134746**
Option 1 ID : **264330527935**
Option 2 ID : **264330527937**
Option 3 ID : **264330527938**
Option 4 ID : **264330527936**
Status : **Answered**
Chosen Option : **1**

Q.7 **In the following question, out of the given four alternatives, select the alternative which best expresses the meaning of the Idiom/Phrase.**
Fit as a fiddle

Ans

✗ 1. To drink alcohol regularly

✗ 2. To be in love

✗ 3. To be firm

✓ 4. In a very good physical condition

Question Type : **MCQ**
Question ID : **264330134470**
Option 1 ID : **264330526847**
Option 2 ID : **264330526850**
Option 3 ID : **264330526848**
Option 4 ID : **264330526849**
Status : **Answered**
Chosen Option : **4**

Q.8 Select the most appropriate option to substitute the bracketed segment in the given sentence. If there is no need to substitute it, select 'no substitution required'.

The government appears (to be at war with it's own people.)

Ans

✗ 1. No substitution required

✓ 2. to be at war with its own people

✗ 3. to be at war against it's own people

✗ 4. to be on war with it's own people

Question Type : **MCQ**
Question ID : **264330136669**
Option 1 ID : **264330535398**
Option 2 ID : **264330535396**
Option 3 ID : **264330535397**
Option 4 ID : **264330535395**
Status : **Answered**
Chosen Option : **2**

Join Telegram Group "HaryanaJobs.in"

Q.9 Select the most appropriate word for the given group of words.

The act of destroying or damaging something

Ans

✗ 1. Revenge

✗ 2. Vengeance

✓ 3. Sabotage

✗ 4. Avenge

Question Type : **MCQ**
Question ID : **264330136254**
Option 1 ID : **264330533801**
Option 2 ID : **264330533799**
Option 3 ID : **264330533800**
Option 4 ID : **264330533802**
Status : **Answered**
Chosen Option : **3**

Q.10 Select the word from the options which is exactly opposite in meaning to the bracketed word given in the sentence below.

I was (disappointed) to see the lack of coverage afforded to this event.

Ans

✗ 1. Humiliated

✗ 2. Dizzy

✓ 3. Encouraged

✗ 4. Gloomy

Question Type : **MCQ**
Question ID : **264330136258**
Option 1 ID : **264330533817**
Option 2 ID : **264330533818**
Option 3 ID : **264330533815**
Option 4 ID : **264330533816**
Status : **Answered**
Chosen Option : **3**

Q.11 Choose the word that can substitute the given group of words.
A woman with brown hair

Ans

✗ 1. Blunt

✗ 2. Blonde

✗ 3. Bumble

✓ 4. Brunette

Question Type : **MCQ**
Question ID : **264330134464**
Option 1 ID : **264330526825**
Option 2 ID : **264330526826**
Option 3 ID : **264330526824**
Option 4 ID : **264330526823**
Status : **Answered**
Chosen Option : **4**

Join Telegram Group "HaryanaJobs.in"

Q.12 A sentence has been given with a blank to be filled with an appropriate option. Choose the correct alternative.

The story of human evolution _____ a moving target in recent years.

Ans

1. did has
2. has been ✔
3. have been
4. had being

Question Type : **MCQ**
Question ID : **264330135185**
Option 1 ID : **264330529671**
Option 2 ID : **264330529672**
Option 3 ID : **264330529674**
Option 4 ID : **264330529673**
Status : **Answered**
Chosen Option : **2**

Q.13 Improve the underlined part of the sentence. Choose 'No improvement' as an answer if the sentence is grammatically correct.

My grandmother taught me how to sew my own clothes.

Ans

1. taught myself
2. taught I
3. No improvement ✔
4. teach mine

Question Type : **MCQ**
Question ID : **264330134800**
Option 1 ID : **264330528145**
Option 2 ID : **264330528143**
Option 3 ID : **264330528146**
Option 4 ID : **264330528144**
Status : **Answered**
Chosen Option : **3**

Q.14 Fill in the blank with the most appropriate option.

I am sorry that I was unable to see _____ of you over the summer.

Ans

1. many more
2. much
3. many
4. more ✔

Question Type : **MCQ**
Question ID : **264330136245**
Option 1 ID : **264330533770**
Option 2 ID : **264330533769**
Option 3 ID : **264330533767**
Option 4 ID : **264330533768**
Status : **Answered**
Chosen Option : **4**

Join Telegram Group "HaryanaJobs.in"

Q.15 Select the most appropriate synonym of the given word.

Paradise

Ans
1. Ghost
2. Trivial
3. Display
4. Bliss

Question Type : **MCQ**
Question ID : **264330136255**
Option 1 ID : **264330533806**
Option 2 ID : **264330533803**
Option 3 ID : **264330533805**
Option 4 ID : **264330533804**
Status : **Answered**
Chosen Option : **4**

Q.16 Identify the segment that contains a grammatical error. If there is no error, select 'No error'.

Our passage across the Arabian Sea/ was smooth as the most timid of/ navigators could desire.

Ans
1. navigators could desire.
2. was smooth as the most timid of
3. Our passage across the Arabian Sea
4. No error

Question Type : **MCQ**
Question ID : **264330136666**
Option 1 ID : **264330535385**
Option 2 ID : **264330535384**
Option 3 ID : **264330535383**
Option 4 ID : **264330535386**
Status : **Answered**
Chosen Option : **1**

Q.17 Choose the sentence with no spelling error.

Ans
1. How is your currant brand strategy workinng?
2. How is your current brand strategy working?
3. How is your current brrand strategy working?
4. How is your current brand stretagy working?

Question Type : **MCQ**
Question ID : **264330134846**
Option 1 ID : **264330528319**
Option 2 ID : **264330528320**
Option 3 ID : **264330528322**
Option 4 ID : **264330528321**
Status : **Answered**
Chosen Option : **2**

Join Telegram Group "HaryanaJobs.in"

Q.18 The statement below has been given with bracketed text. Select the option with correct idiom for the bracketed text.

That new budget bill was (totally useless) before it hit the Senate.

Ans

1. ✗ cold feet
2. ✗ a fuel to the fire
3. ✓ a dead duck
4. ✗ a cry wolf

Question Type : **MCQ**
Question ID : **264330136260**
Option 1 ID : **264330533823**
Option 2 ID : **264330533824**
Option 3 ID : **264330533826**
Option 4 ID : **264330533825**
Status : **Answered**
Chosen Option : **3**

Q.19 Fill in the blank with the most appropriate option.

Today is cloudy, but yesterday the sun _____.

Ans

1. ✗ shown
2. ✗ burned
3. ✗ flamed
4. ✓ shone

Question Type : **MCQ**
Question ID : **264330136264**
Option 1 ID : **264330533839**
Option 2 ID : **264330533841**
Option 3 ID : **264330533840**
Option 4 ID : **264330533842**
Status : **Answered**
Chosen Option : **4**

Q.20 Identify the segment that contains a grammatical error. If there is no error, select 'No error'.

The Gryffindors trooped back up / to the castle, none of them talking; / it have been another long day.

Ans

1. ✗ The Gryffindors trooped back up
2. ✓ it have been another long day.
3. ✗ to the castle, none of them talking;
4. ✗ No error

Question Type : **MCQ**
Question ID : **264330136241**
Option 1 ID : **264330533751**
Option 2 ID : **264330533753**
Option 3 ID : **264330533752**
Option 4 ID : **264330533754**
Status : **Answered**
Chosen Option : **2**

Join Telegram Group "HaryanaJobs.in"

Comprehension:

In the following passage some words have been deleted. Fill in the blanks with the help of the alternatives given. Select the most appropriate option for each number.

In 700 BCE Greek poet Hesiod (1) _____ "Theogony" and "Work and Days". In these mythologies, Atlas was a Titan (2) _____ enormous strength. He along with other titans (3) _____ the gods of Mount Olympus. While the other Titans were banished to Tartarus after being defeated by the god Zeus as retribution, Atlas (4) _____ was forced to carry the earth and the sky for an eternity. In depictions of Atlas, obviously carved by human based on myths, he is shown as a stooped figure carrying the (5) _____ on his shoulders. Because of his association with the globe, maps began to be decorated with this image of Atlas.

SubQuestion No : 21

Q.21 Select the most appropriate option to fill in the blank No. 1.

Ans

✔ 1. wrote

✗ 2. will write

✗ 3. writes

✗ 4. had written

Question Type : **MCQ**
Question ID : **264330136066**
Option 1 ID : **264330533076**
Option 2 ID : **264330533078**
Option 3 ID : **264330533075**
Option 4 ID : **264330533077**
Status : **Answered**
Chosen Option : **1**

Comprehension:

In the following passage some words have been deleted. Fill in the blanks with the help of the alternatives given. Select the most appropriate option for each number.

In 700 BCE Greek poet Hesiod (1) _____ "Theogony" and "Work and Days". In these mythologies, Atlas was a Titan (2) _____ enormous strength. He along with other titans (3) _____ the gods of Mount Olympus. While the other Titans were banished to Tartarus after being defeated by the god Zeus as retribution, Atlas (4) _____ was forced to carry the earth and the sky for an eternity. In depictions of Atlas, obviously carved by human based on myths, he is shown as a stooped figure carrying the (5) _____ on his shoulders. Because of his association with the globe, maps began to be decorated with this image of Atlas.

SubQuestion No : 22

Q.22 Select the most appropriate option to fill in the blank No. 2.

Ans

✗ 1. at

✔ 2. of

✗ 3. from

✗ 4. in

Question Type : **MCQ**
Question ID : **264330136067**
Option 1 ID : **264330533081**
Option 2 ID : **264330533079**
Option 3 ID : **264330533082**
Option 4 ID : **264330533080**
Status : **Answered**
Chosen Option : **2**

Join Telegram Group "HaryanaJobs.in"

Comprehension:

In the following passage some words have been deleted. Fill in the blanks with the help of the alternatives given. Select the most appropriate option for each number.

In 700 BCE Greek poet Hesiod (1) _____ "Theogony" and "Work and Days". In these mythologies, Atlas was a Titan (2) _____ enormous strength. He along with other titans (3) _____ the gods of Mount Olympus. While the other Titans were banished to Tartarus after being defeated by the god Zeus as retribution, Atlas (4) _____ was forced to carry the earth and the sky for an eternity. In depictions of Atlas, obviously carved by human based on myths, he is shown as a stooped figure carrying the (5) _____ on his shoulders. Because of his association with the globe, maps began to be decorated with this image of Atlas.

SubQuestion No : 23

Q.23 Select the most appropriate option to fill in the blank No. 3.

Ans

✔ 1. challenged

✘ 2. corroborated

✘ 3. claimed

✘ 4. collaborated

Question Type : **MCQ**
Question ID : **264330136068**
Option 1 ID : **264330533085**
Option 2 ID : **264330533084**
Option 3 ID : **264330533083**
Option 4 ID : **264330533086**
Status : **Answered**
Chosen Option : **1**

Comprehension:

In the following passage some words have been deleted. Fill in the blanks with the help of the alternatives given. Select the most appropriate option for each number.

In 700 BCE Greek poet Hesiod (1) _____ "Theogony" and "Work and Days". In these mythologies, Atlas was a Titan (2) _____ enormous strength. He along with other titans (3) _____ the gods of Mount Olympus. While the other Titans were banished to Tartarus after being defeated by the god Zeus as retribution, Atlas (4) _____ was forced to carry the earth and the sky for an eternity. In depictions of Atlas, obviously carved by human based on myths, he is shown as a stooped figure carrying the (5) _____ on his shoulders. Because of his association with the globe, maps began to be decorated with this image of Atlas.

SubQuestion No : 24

Q.24 Select the most appropriate option to fill in the blank No. 4.

Ans

✘ 1. unlike

✘ 2. in fact

✔ 3. however

✘ 4. despite

Question Type : **MCQ**
Question ID : **264330136069**
Option 1 ID : **264330533089**
Option 2 ID : **264330533088**
Option 3 ID : **264330533090**
Option 4 ID : **264330533087**
Status : **Answered**
Chosen Option : **3**

Join Telegram Group "HaryanaJobs.in"

Comprehension:

In the following passage some words have been deleted. Fill in the blanks with the help of the alternatives given. Select the most appropriate option for each number.

In 700 BCE Greek poet Hesiod (1) _____ "Theogony" and "Work and Days". In these mythologies, Atlas was a Titan (2) _____ enormous strength. He along with other titans (3) _____ the gods of Mount Olympus. While the other Titans were banished to Tartarus after being defeated by the god Zeus as retribution, Atlas (4) _____ was forced to carry the earth and the sky for an eternity. In depictions of Atlas, obviously carved by human based on myths, he is shown as a stooped figure carrying the (5) _____ on his shoulders. Because of his association with the globe, maps began to be decorated with this image of Atlas.

SubQuestion No : 25

Q.25 Select the most appropriate option to fill in the blank No. 5.

Ans

✗ 1. universe

✗ 2. heavens

✗ 3. seas

✓ 4. globe

Question Type : **MCQ**
Question ID : **264330136070**
Option 1 ID : **264330533094**
Option 2 ID : **264330533092**
Option 3 ID : **264330533093**
Option 4 ID : **264330533091**
Status : **Answered**
Chosen Option : **4**

Join Telegram Group "HaryanaJobs.in"

Multi Tasking Non Technical Staff and Havaldar CBIC and CBN Examination 2022

Roll Number	HaryanaJobs.in
Candidate Name	HaryanaJobs.in
Venue Name	iON Digital Zone iDZ Jalalpur
Exam Date	09/05/2023
Exam Time	12:00 PM - 2:00 PM
Subject	MTS Non Tech Havaldar CBIC and CBN Examination 2022 Extra Time

Section : **Numerical and Mathematical Ability**

Q.1 निम्नलिखित दंड आलेख में कुछ वर्षों में भारत में हुए गेहूँ के उत्पादन (1000 टन में) को दर्शाया गया है।

वर्ष 2013 से 2014 तक हुए गेहूँ के उत्पादन में कितने प्रतिशत की गिरावट आई?

production (in thousand tonnes)- उत्पादन (हजार टन में)

years- वर्ष

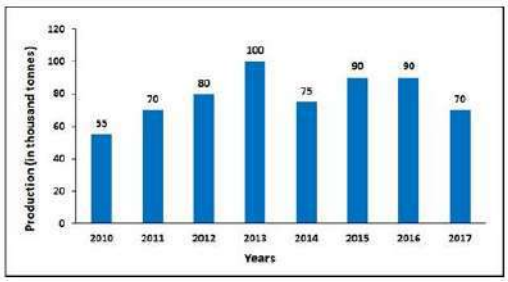

Ans

✗ 1. 5%

✓ 2. 25%

✗ 3. 35%

✗ 4. 15%

Question Type : **MCQ**
Question ID : **264330133812**
Option 1 ID : **264330524272**
Option 2 ID : **264330524271**
Option 3 ID : **264330524274**
Option 4 ID : **264330524273**
Status : **Answered**
Chosen Option : **2**

Join Telegram Group "HaryanaJobs.in"

Q.2 एक बस 3 घंटे में 166 Km की यात्रा करती है और फिर अगले 2 घंटे की यात्रा 134 Km/hr की चाल से तय करती है। बस की औसत चाल ज्ञात कीजिए।

Ans
1. 50.4 km/hr
2. 43.8 km/hr
3. 86.8 km/hr
4. 59.4 km/hr

Question Type : **MCQ**
Question ID : **264330141037**
Option 1 ID : **264330552497**
Option 2 ID : **264330552498**
Option 3 ID : **264330552496**
Option 4 ID : **264330552495**
Status : **Answered**
Chosen Option : **3**

Q.3 A और B मिलकर एक कार्य को 90 दिनों में पूरा कर सकते हैं। उनकी कुशलता का अनुपात 3:5 है। तेज़ व्यक्ति कितने दिनों में कार्य को पूरा कर सकता है?

Ans
1. 144 दिनों में
2. 118 दिनों में
3. 90 दिनों में
4. 80 दिनों में

Question Type : **MCQ**
Question ID : **264330138428**
Option 1 ID : **264330542321**
Option 2 ID : **264330542320**
Option 3 ID : **264330542322**
Option 4 ID : **264330542319**
Status : **Answered**
Chosen Option : **1**

Q.4 (1/2 + 3/4) ÷ (1/5 + 3/10) का मान निम्न में से _____ के बीच स्थित है।

Ans
1. 2.3 और 2.6
2. 2.0 और 2.2
3. 2.7 और 3.0
4. 1.5 और 1.8

Question Type : **MCQ**
Question ID : **264330133796**
Option 1 ID : **264330524209**
Option 2 ID : **264330524208**
Option 3 ID : **264330524210**
Option 4 ID : **264330524207**
Status : **Answered**
Chosen Option : **1**

Join Telegram Group "HaryanaJobs.in"

Q.5 नीचे दी गई तालिका में 6 अलग-अलग स्कूलों में छात्रों की संख्या को दर्शाया गया है।

स्कूल	छात्र
J	360
K	180
L	210
M	240
N	90
P	150

सभी स्कूलों में छात्रों की कुल संख्या कितनी है?

Ans
1. 1180
2. 1020
3. 1230
4. 1340

Question Type : **MCQ**
Question ID : **264330139074**
Option 1 ID : **264330544903**
Option 2 ID : **264330544906**
Option 3 ID : **264330544904**
Option 4 ID : **264330544905**
Status : **Answered**
Chosen Option : **3**

Q.6 एक व्यक्ति ने साधारण ब्याज पर 20 प्रतिशत वार्षिक दर पर एक निश्चित राशि ऋण पर दी। 10 वर्षों में, ब्याज की राशि, ऋण पर दी गई राशि से Rs. 800 अधिक है। ऋण पर दी गई राशि कितनी है?

Ans
1. Rs. 400
2. Rs. 1200
3. Rs. 800
4. Rs. 500

Question Type : **MCQ**
Question ID : **264330139006**
Option 1 ID : **264330544633**
Option 2 ID : **264330544631**
Option 3 ID : **264330544632**
Option 4 ID : **264330544634**
Status : **Answered**
Chosen Option : **3**

Join Telegram Group "HaryanaJobs.in"

Q.7 एक व्यक्ति ने 2 रुपये में 8 वस्तुएँ खरीदीं। 10% लाभ अर्जित करने के लिए उसे 120 वस्तुओं को किस मूल्य पर बेचना चाहिए?

Ans
1. Rs. 44
2. Rs. 20
3. Rs. 33
4. Rs. 22

Question Type : **MCQ**
Question ID : **264330135397**
Option 1 ID : **264330530495**
Option 2 ID : **264330530498**
Option 3 ID : **264330530496**
Option 4 ID : **264330530497**
Status : **Answered**
Chosen Option : **3**

Q.8 एक आयत की भुजाएँ 45 cm और 55 cm हैं। इस आयत का क्षेत्रफल कितना है?

Ans
1. $2475\ cm^2$
2. $2350\ cm^2$
3. $2550\ cm^2$
4. $2675\ cm^2$

Question Type : **MCQ**
Question ID : **264330135127**
Option 1 ID : **264330529443**
Option 2 ID : **264330529446**
Option 3 ID : **264330529444**
Option 4 ID : **264330529445**
Status : **Answered**
Chosen Option : **1**

Q.9 कपिला, विपुल से तीन गुना अधिक कुशल है और साथ मिलकर वे एक कार्य को 30 दिनों में पूरा कर सकते हैं। विपुल अकेले उस कार्य को कितने दिनों में पूरा कर सकता है?

Ans
1. 30 दिन
2. 120 दिन
3. 90 दिन
4. 60 दिन

Question Type : **MCQ**
Question ID : **264330135123**
Option 1 ID : **264330529427**
Option 2 ID : **264330529430**
Option 3 ID : **264330529429**
Option 4 ID : **264330529428**
Status : **Answered**
Chosen Option : **2**

Join Telegram Group "HaryanaJobs.in"

Q.10 एक बेईमान दुकानदार अपने माल को क्रय मूल्य पर बेचने का दावा करता है लेकिन खोटे बाट (false weights) का उपयोग करके 10% का लाभ अर्जित करता है। वह 1 kg भार के स्थान पर किस बाट का उपयोग कर रहा है?

Ans

✗ 1. 920.30 gm

✗ 2. 911.12 gm

✗ 3. 900 gm

✓ 4. 909.09 gm

Question Type : **MCQ**
Question ID : **264330133802**
Option 1 ID : **264330524234**
Option 2 ID : **264330524233**
Option 3 ID : **264330524232**
Option 4 ID : **264330524231**
Status : **Answered**
Chosen Option : **4**

Q.11 एक आदमी ने 11 घंटे में 110 km की दूरी तय की। उसने कुछ दूरी पैदल चलकर 6 km/hr की चाल से तय की और शेष दूरी साइकिल से 14 km/hr की चाल से तय की। साइकिल पर तय की गई दूरी कितनी है?

Ans

✓ 1. 77 km

✗ 2. 99 km

✗ 3. 88 km

✗ 4. 66 km

Question Type : **MCQ**
Question ID : **264330133808**
Option 1 ID : **264330524256**
Option 2 ID : **264330524258**
Option 3 ID : **264330524257**
Option 4 ID : **264330524255**
Status : **Answered**
Chosen Option : **1**

Q.12 लोहे के दो घन जिनके किनारे 7 cm और 11 cm हैं, को पिघलाकर एक नया घन बनाया जाता है। नए बने घन का आयतन ज्ञात कीजिए।

Ans

✗ 1. $1221\ cm^3$

✗ 2. $1881\ cm^3$

✓ 3. $1674\ cm^3$

✗ 4. $1444\ cm^3$

Question Type : **MCQ**
Question ID : **264330138433**
Option 1 ID : **264330542342**
Option 2 ID : **264330542340**
Option 3 ID : **264330542339**
Option 4 ID : **264330542341**
Status : **Answered**
Chosen Option : **3**

Join Telegram Group "HaryanaJobs.in"

Q.13 श्रृंखला 500, 505, 515, 530, 550 का औसत है:

Ans
1. 530
2. 520
3. 505
4. 515

Question Type : **MCQ**
Question ID : **264330133798**
Option 1 ID : **264330524218**
Option 2 ID : **264330524217**
Option 3 ID : **264330524215**
Option 4 ID : **264330524216**
Status : **Answered**
Chosen Option : **2**

Q.14 एक निश्चित राशि पर 60 प्रतिशत वार्षिक दर से 2 वर्षों के लिए चक्रवृद्धि ब्याज (वार्षिक रूप से संयोजित)Rs. 6240 है। समान राशि और समान ब्याज दर पर 3 वर्षों के लिए साधारण ब्याज कितना होगा?

Ans
1. Rs. 6800
2. Rs. 6500
3. Rs. 7100
4. Rs. 7200

Question Type : **MCQ**
Question ID : **264330137885**
Option 1 ID : **264330540149**
Option 2 ID : **264330540147**
Option 3 ID : **264330540150**
Option 4 ID : **264330540148**
Status : **Answered**
Chosen Option : **4**

Q.15 दो संख्याएँ 3:5 के अनुपात में हैं। यदि उनका महत्तम समापवर्तक (HCF) 11 है, तो दोनो संख्याओं का योग ज्ञात कीजिए।

Ans
1. 53
2. 33
3. 88
4. 55

Question Type : **MCQ**
Question ID : **264330138392**
Option 1 ID : **264330542176**
Option 2 ID : **264330542178**
Option 3 ID : **264330542175**
Option 4 ID : **264330542177**
Status : **Answered**
Chosen Option : **3**

Join Telegram Group "HaryanaJobs.in"

Q.16 एक व्यक्ति J से K तक 55 km/hr की चाल से जाता है। वह एक निश्चित चाल से K से J तक वापस आता है। यदि उसकी औसत चाल 660/17 km/hr है, तो K से J की ओर जाते समय उसकी चाल क्या थी?

Ans

✗ 1. 24 km/hr
✗ 2. 42 km/hr
✗ 3. 38 km/hr
✓ 4. 30 km/hr

Question Type : **MCQ**
Question ID : **264330135046**
Option 1 ID : **264330529119**
Option 2 ID : **264330529122**
Option 3 ID : **264330529121**
Option 4 ID : **264330529120**
Status : **Answered**
Chosen Option : **4**

Q.17 एक बटुए में क्रमशः 2:5:3 के अनुपात में Rs. 1, Rs. 2 और Rs. 5 के सिक्के हैं। यदि बटुए में कुल Rs. 54 हैं, तो Rs. 5 के कितने सिक्के हैं?

Ans

✓ 1. 6
✗ 2. 10
✗ 3. 20
✗ 4. 4

Question Type : **MCQ**
Question ID : **264330133804**
Option 1 ID : **264330524241**
Option 2 ID : **264330524240**
Option 3 ID : **264330524242**
Option 4 ID : **264330524239**
Status : **Answered**
Chosen Option : **1**

Q.18 $3.25 \times 3.25 \times 3.25 + 0.75 \times 0.75 \times 0.75 + 29.25$ का मान क्या है?

Ans

✗ 1. 80
✓ 2. 64
✗ 3. 75
✗ 4. 84

Question Type : **MCQ**
Question ID : **264330139073**
Option 1 ID : **264330544901**
Option 2 ID : **264330544899**
Option 3 ID : **264330544900**
Option 4 ID : **264330544902**
Status : **Answered**
Chosen Option : **2**

Join Telegram Group "HaryanaJobs.in"

Q.19 एक स्पीकर का अंकित मूल्य Rs.1000 है। एक आदमी 10% और x% के दो क्रमागत बट्टे मिलने पर इसे Rs. 873 में खरीदता है। x का मान क्या है?

Ans

✗ 1. 8%

✗ 2. 4%

✗ 3. 5%

✓ 4. 3%

Question Type : **MCQ**
Question ID : **264330133803**
Option 1 ID : **264330524237**
Option 2 ID : **264330524236**
Option 3 ID : **264330524235**
Option 4 ID : **264330524238**
Status : **Answered**
Chosen Option : **4**

Q.20 एक विद्यालय के पुस्तकालय में विज्ञान और अंग्रेजी की किताबों का अनुपात 10:13 है। यदि विज्ञान की 400 पुस्तकें हैं और विज्ञान की पुस्तकों की माँग में वृद्धि के कारण, विद्यालय प्राधिकरण द्वारा विज्ञान की कुछ पुस्तकें शामिल की जाती हैं और अनुपात 25:26 हो जाता है। नई शामिल की गई विज्ञान की पुस्तकों की संख्या कितनी है?

Ans

✗ 1. 80

✗ 2. 120

✓ 3. 100

✗ 4. 50

Question Type : **MCQ**
Question ID : **264330133805**
Option 1 ID : **264330524244**
Option 2 ID : **264330524246**
Option 3 ID : **264330524243**
Option 4 ID : **264330524245**
Status : **Answered**
Chosen Option : **3**

Section : **Reasoning Ability and Problem Solving**

Q.1 यदि A का अर्थ 'जोड़', B का अर्थ 'गुणा', C का अर्थ 'घटाव' और D का अर्थ 'भाग' हो, तो निम्नलिखित समीकरण का मान क्या होगा?
10 B 2 C (15 D 5) = ?

Ans

✗ 1. 15

✓ 2. 17

✗ 3. 21

✗ 4. 19

Question Type : **MCQ**
Question ID : **264330137804**
Option 1 ID : **264330539823**
Option 2 ID : **264330539825**
Option 3 ID : **264330539824**
Option 4 ID : **264330539826**
Status : **Answered**
Chosen Option : **2**

Join Telegram Group "HaryanaJobs.in"

Q.2 यदि एक दर्पण को रेखा AB पर रखा जाए, तो दी गई विकल्प आकृतियों में से कौन-सी आकृति प्रश्न आकृति का सही प्रतिबिम्ब होगी?

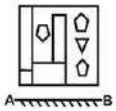

Ans

✔ 1. 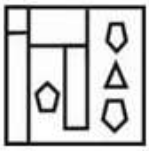

✘ 2. 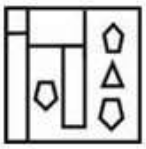

✘ 3. 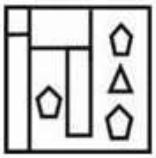

✘ 4. 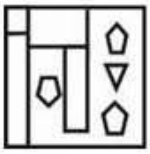

Question Type : **MCQ**
Question ID : **264330138848**
Option 1 ID : **264330544001**
Option 2 ID : **264330544002**
Option 3 ID : **264330543999**
Option 4 ID : **264330544000**
Status : **Answered**
Chosen Option : **1**

Q.3 दी गई श्रृंखला में निम्नलिखित में से कौन-सा अक्षर समूह प्रश्न चिन्ह (?) के स्थान पर आएगा?
LB, NZ, PX, RV, ?

Ans

✘ 1. TS

✔ 2. TT

✘ 3. UT

✘ 4. ST

Question Type : **MCQ**
Question ID : **264330133506**
Option 1 ID : **264330523056**
Option 2 ID : **264330523055**
Option 3 ID : **264330523058**
Option 4 ID : **264330523057**
Status : **Answered**
Chosen Option : **2**

Join Telegram Group "HaryanaJobs.in"

Q.4 उस विकल्प आकृति को चुनिए जिसमें दी गई आकृति निहित है।(घूर्णन की अनुमति नहीं है)

Ans

1. 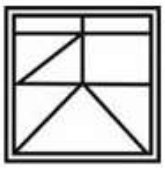

2.

3.

4.

Question Type : **MCQ**
Question ID : **264330138847**
Option 1 ID : **264330543996**
Option 2 ID : **264330543998**
Option 3 ID : **264330543995**
Option 4 ID : **264330543997**
Status : **Answered**
Chosen Option : **2**

Join Telegram Group "HaryanaJobs.in"

Q.5 दो कथन दिए गए हैं और दो निष्कर्ष I और II दिए गए हैं। कथनों को सत्य मानते हुए, चाहे वे सामान्यतः ज्ञात तथ्यों से अलग प्रतीत होते हों, निश्चय कीजिए कि कौन-सा निष्कर्ष तार्किक रूप से कथनों के अनुसार है।

कथन:

कुछ छात्र, प्यारे हैं।

सभी लड़के, प्यारे हैं।

निष्कर्ष:

I. सभी प्यारे, लड़के हैं।

II. कुछ छात्र, लड़के हैं।

Ans

1. केवल निष्कर्ष I कथनों के अनुसार है।
2. न तो निष्कर्ष I न ही II कथनों के अनुसार है।
3. दोनों निष्कर्ष I और II कथनों के अनुसार हैं।
4. केवल निष्कर्ष II कथनों के अनुसार है।

Question Type : **MCQ**
Question ID : **264330133516**
Option 1 ID : **264330523095**
Option 2 ID : **264330523098**
Option 3 ID : **264330523097**
Option 4 ID : **264330523096**
Status : **Answered**
Chosen Option : **2**

Q.6 सात छात्र A, B, C, D, X, Y और Z अपनी कक्षा में दक्षिण दिशा की ओर मुख करके बैठे हैं। A और D एक साथ नहीं बैठे हैं। Z, X के बाएँ से दूसरे स्थान पर बैठा है। B, Z के साथ नहीं बैठा है। X, C के दाएँ से चौथे स्थान पर है। A और B एक साथ नहीं बैठे हैं। C, D और Y के बीच में बैठा है। Y, B के बाएँ से दूसरे स्थान पर बैठे व्यक्ति के बाएँ से दूसरे स्थान पर बैठा है। छोरों पर कौन बैठे हैं?

Ans

1. C और Y
2. Z और X
3. B और D
4. A और B

Question Type : **MCQ**
Question ID : **264330133513**
Option 1 ID : **264330523086**
Option 2 ID : **264330523083**
Option 3 ID : **264330523085**
Option 4 ID : **264330523084**
Status : **Answered**
Chosen Option : **3**

Join Telegram Group "HaryanaJobs.in"

Q.7 उस विकल्प को चुनिए जो तीसरे शब्द से ठीक उसी प्रकार संबंधित है जिस प्रकार दूसरा शब्द पहले शब्द से संबंधित है।

फ्रांसीसी : भाषा :: रेलगाड़ी : ?

Ans

1. ✗ पटरियाँ
2. ✗ सामान
3. ✓ वाहन
4. ✗ यात्रा करना

Question Type : **MCQ**
Question ID : **264330133507**
Option 1 ID : **264330523059**
Option 2 ID : **264330523062**
Option 3 ID : **264330523060**
Option 4 ID : **264330523061**
Status : **Answered**
Chosen Option : **3**

Q.8 प्रतीक, किरण, रोहित, सूरज और टोनी पाँच मित्र हैं जिन्होंने एक परीक्षा में अलग-अलग अंक प्राप्त किए हैं। केवल दो मित्रों ने प्रतीक और सूरज के बीच अंक प्राप्त किए गए हैं। किरण ने सर्वाधिक अंक प्राप्त किए हैं। टोनी ने रोहित से अधिक अंक प्राप्त किए हैं। चौथे स्थान पर सबसे अधिक अंक किसने प्राप्त किए हैं?

Ans

1. ✓ रोहित
2. ✗ सूरज
3. ✗ किरण
4. ✗ प्रतीक

Question Type : **MCQ**
Question ID : **264330133514**
Option 1 ID : **264330523089**
Option 2 ID : **264330523090**
Option 3 ID : **264330523088**
Option 4 ID : **264330523087**
Status : **Answered**
Chosen Option : **4**

Q.9 6 लोगों के एक परिवार में अनिल, पल्लवी, नवीन, सुमंत, प्रियंका, हरिका दो पंक्तियों में बराबर संख्या में एक दूसरे की ओर मुख करके बैठे हैं। नवीन और प्रियंका पड़ोसी हैं जो उत्तर की ओर मुख करके बैठे हैं। हरिका, नवीन के विकर्णतः सम्मुख बैठी है। पल्लवी, हरिका के बायीं ओर बैठी है। प्रियंका, अनिल के सम्मुख बैठी है। निम्नलिखित में से कौनसे तीन व्यक्ति, दोनों पंक्तियों में से किसी एक पंक्ति में बैठे हैं?

Ans

1. ✗ हरिका, प्रियंका, नवीन
2. ✓ पल्लवी, अनिल, हरिका
3. ✗ पल्लवी, नवीन, प्रियंका
4. ✗ हरिका, सुमंत, पल्लवी

Question Type : **MCQ**
Question ID : **264330133512**
Option 1 ID : **264330523079**
Option 2 ID : **264330523082**
Option 3 ID : **264330523081**
Option 4 ID : **264330523080**
Status : **Answered**
Chosen Option : **2**

Join Telegram Group "HaryanaJobs.in"

Q.10 एक निश्चित कूट भाषा में, 'FLED' को '4, 10, 3, 2' लिखा जाता है, 'GOAT' को '5, 13, 25, 18' लिखा जाता है। उस कूट भाषा में 'HECK' को कैसे लिखा जाएगा ?

Ans

✔ 1. 6, 3, 1, 9

✘ 2. 8, 3, 1, 9

✘ 3. 6, 3, 3, 9

✘ 4. 6, 3, 1, 11

Question Type : **MCQ**
Question ID : **264330138834**
Option 1 ID : **264330543945**
Option 2 ID : **264330543946**
Option 3 ID : **264330543943**
Option 4 ID : **264330543944**
Status : **Answered**
Chosen Option : **1**

Join Telegram Group "HaryanaJobs.in"

Q.11 उस विकल्प आकृति को चुनिए जो नीचे दी गई आकृति में पैटर्न को पूरा करने के लिए प्रश्न चिन्ह(?) के स्थान पर आएगी। (घूर्णन की अनुमति नहीं है)

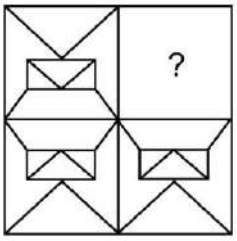

Ans

✔ 1.

✘ 2.

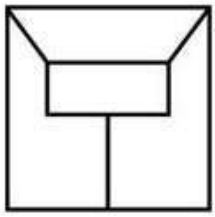

✘ 3.

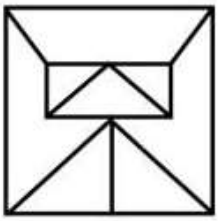

✘ 4.



Question Type : **MCQ**
Question ID : **264330133525**
Option 1 ID : **264330523134**
Option 2 ID : **264330523131**
Option 3 ID : **264330523132**
Option 4 ID : **264330523133**
Status : **Answered**
Chosen Option : **1**

Join Telegram Group "HaryanaJobs.in"

Q.12 दो कथन दिए गए हैं और दो निष्कर्ष I और II दिए गए हैं। कथनों को सत्य मानते हुए, चाहे वे सामान्यतः ज्ञात तथ्यों से अलग प्रतीत होते हों, निश्चय कीजिए कि कौन-सा निष्कर्ष तार्किक रूप से कथनों के अनुसार है।

कथन:

कुछ तोते, पक्षी हैं।

सभी पक्षी, जानवर हैं।

निष्कर्ष:

I. सभी जानवर, पक्षी हैं।

II. कुछ जानवर, तोते हैं।

Ans

✗ 1. न तो निष्कर्ष I न ही II कथनों के अनुसार है।

✓ 2. केवल निष्कर्ष II कथनों के अनुसार है।

✗ 3. दोनों निष्कर्ष I और II कथनों के अनुसार हैं।

✗ 4. केवल निष्कर्ष I कथनों के अनुसार है।

Question Type : **MCQ**
Question ID : **264330133515**
Option 1 ID : **264330523094**
Option 2 ID : **264330523092**
Option 3 ID : **264330523093**
Option 4 ID : **264330523091**
Status : **Answered**
Chosen Option : **2**

Q.13 उस विकल्प को चुनिए जो तीसरे शब्द से ठीक उसी प्रकार संबंधित है जिस प्रकार दूसरा शब्द पहले शब्द से संबंधित है।

बांग्लादेश : ढाका :: न्यूजीलैंड : ?

Ans

✗ 1. सिडनी

✗ 2. कैनबरा

✓ 3. वेलिंग्टन

✗ 4. मेलबोर्न

Question Type : **MCQ**
Question ID : **264330133508**
Option 1 ID : **264330523064**
Option 2 ID : **264330523065**
Option 3 ID : **264330523063**
Option 4 ID : **264330523066**
Status : **Answered**
Chosen Option : **3**

Join Telegram Group "HaryanaJobs.in"

Q.14 दी गई श्रृंखला में निम्नलिखित में से कौन-सी संख्या प्रश्न चिन्ह (?) के स्थान पर आएगी?
87, 168, 217, 242, 251, ?

Ans
1. 253
2. 255
3. 252
4. 254

Question Type : **MCQ**
Question ID : **264330133518**
Option 1 ID : **264330523104**
Option 2 ID : **264330523106**
Option 3 ID : **264330523103**
Option 4 ID : **264330523105**
Status : **Answered**
Chosen Option : **3**

Q.15 उस विकल्प को चुनिए जो तीसरे शब्द से ठीक उसी प्रकार संबंधित है जिस प्रकार दूसरा शब्द पहले शब्द से संबंधित है।
दाब: पास्कल : : ऊर्जा : ?

Ans
1. जूल
2. लीटर
3. न्यूटन
4. मीटर

Question Type : **MCQ**
Question ID : **264330134933**
Option 1 ID : **264330528668**
Option 2 ID : **264330528669**
Option 3 ID : **264330528670**
Option 4 ID : **264330528667**
Status : **Answered**
Chosen Option : **1**

Q.16 उस समुच्चय को चुनिए जिसमें संख्याएँ उसी प्रकार संबंधित हैं जिस प्रकार निम्नलिखित समुच्चयों की संख्याएँ संबंधित हैं। (ध्यान दें: संख्याओं को उनके घटक अंकों में अलग-अलग किए बिना, पूर्ण संख्याओं पर संक्रियाएँ की जानी चाहिए। उदाहरण 13 - 13 पर संक्रियाएँ जैसे 13 को जोड़ना / घटाना / गुणा करना आदि किया जा सकता है। 13 को 1 एवं 3 में अलग करने की और फिर 1 एवं 3 पर गणितीय संक्रियाएँ करने की अनुमति नहीं है)
(4, 3, 49)
(5, 4, 81)

Ans
1. (5, 4, 100)
2. (6, 5, 121)
3. (6, 2, 36)
4. (7, 5, 121)

Question Type : **MCQ**
Question ID : **264330133520**
Option 1 ID : **264330523111**
Option 2 ID : **264330523112**
Option 3 ID : **264330523113**
Option 4 ID : **264330523114**
Status : **Answered**
Chosen Option : **2**

Join Telegram Group "HaryanaJobs.in"

Q.17 नीचे दिए गए समीकरण में कौन-से गणितीय चिन्हों को आपस में बदला जाना चाहिए जिससे यह समीकरण गणितीय रूप से सही हो जाएगा?
10 + 54 ÷ 9 - 4 × 60 = 116

Ans
✗ 1. + और -
✗ 2. ÷ और ×
✗ 3. - और ×
✓ 4. + और ×

Question Type : **MCQ**
Question ID : **264330133521**
Option 1 ID : **264330523117**
Option 2 ID : **264330523116**
Option 3 ID : **264330523118**
Option 4 ID : **264330523115**
Status : **Answered**
Chosen Option : **4**

Q.18 एक निश्चित कूट भाषा में, 'MODERN' को 'KOBALJ' लिखा जाता है। उस कूट भाषा में 'PEOPLE' को कैसे लिखा जाएगा?

Ans
✗ 1. BINLBN
✗ 2. BIMLBN
✗ 3. BIMLCM
✓ 4. BIMLBM

Question Type : **MCQ**
Question ID : **264330137521**
Option 1 ID : **264330538694**
Option 2 ID : **264330538693**
Option 3 ID : **264330538691**
Option 4 ID : **264330538692**
Status : **Answered**
Chosen Option : **4**

Q.19 एक निश्चित कूट भाषा में, 'KHIE' को '9673' लिखा जाता है और 'PEJ' को '1438' लिखा जाता है। उस भाषा में 'DFJC' को कैसे लिखा जाएगा?

Ans
✗ 1. 2841
✗ 2. 2418
✗ 3. 2185
✓ 4. 2481

Question Type : **MCQ**
Question ID : **264330134939**
Option 1 ID : **264330528691**
Option 2 ID : **264330528693**
Option 3 ID : **264330528692**
Option 4 ID : **264330528694**
Status : **Answered**
Chosen Option : **4**

Join Telegram Group "HaryanaJobs.in"

Q.20 उस विकल्प को चुनिए जो तीसरी संख्या से ठीक उसी तरह संबंधित है जिस तरह दूसरी संख्या पहली संख्या से संबंधित है।
25 : 125 :: 40 :?

Ans
1. 160
2. 200
3. 130
4. 190

Question Type : **MCQ**
Question ID : **264330138822**
Option 1 ID : **264330543895**
Option 2 ID : **264330543897**
Option 3 ID : **264330543898**
Option 4 ID : **264330543896**
Status : **Answered**
Chosen Option : **2**

Section : **General Awareness**

Q.1 संगम राज्य 'पांड्य' की राजधानी _____ थी।

Ans
1. कावेरीपट्टनम
2. नागपट्टिनम
3. थिरुवरुर
4. मदुरै

Question Type : **MCQ**
Question ID : **264330138917**
Option 1 ID : **264330544275**
Option 2 ID : **264330544277**
Option 3 ID : **264330544278**
Option 4 ID : **264330544276**
Status : **Answered**
Chosen Option : **4**

Q.2 किस ब्रिटिश अधिकारी के 'गोली चलाने' के आदेश के परिणामस्वरूप जलियांवाला बाग हत्याकांड हुआ था?

Ans
1. वारेन हेस्टिंग्स
2. चार्ल्स मेटकॉफ
3. चार्ल्स कार्नवालिस
4. रेजिनाल्ड डायर

Question Type : **MCQ**
Question ID : **264330137909**
Option 1 ID : **264330540245**
Option 2 ID : **264330540246**
Option 3 ID : **264330540243**
Option 4 ID : **264330540244**
Status : **Answered**
Chosen Option : **4**

Join Telegram Group "HaryanaJobs.in"

Q.3 निम्नलिखित में से कौन भारत रत्न से सम्मानित होने वाले पहले संगीतकार थे?

Ans
✔ 1. एम.एस. सुब्बुलक्ष्मी (M.S. Subbulakshmi)
✘ 2. सेम्मनगुडी श्रीनिवास अय्यर (Semmangudi Srinivasa Iyer)
✘ 3. गिरिजा देवी (Girija Devi)
✘ 4. सिद्धेश्वरी देवी (Siddheswari Devi)

Question Type : **MCQ**
Question ID : **264330133999**
Option 1 ID : **264330525022**
Option 2 ID : **264330525019**
Option 3 ID : **264330525020**
Option 4 ID : **264330525021**
Status : **Answered**
Chosen Option : **1**

Q.4 राजनीति पर ग्रंथ "अर्थशास्त्र (Arthashastra)" किसने लिखा था?

Ans
✘ 1. रघुवंशम
✘ 2. कादंबरी
✔ 3. कौटिल्य
✘ 4. कालिदास

Question Type : **MCQ**
Question ID : **264330137703**
Option 1 ID : **264330539421**
Option 2 ID : **264330539422**
Option 3 ID : **264330539420**
Option 4 ID : **264330539419**
Status : **Answered**
Chosen Option : **3**

Q.5 _____ ने जुलाई 2022 में विश्व खेलों 2022 की मेजबानी की।

Ans
✘ 1. इटली
✘ 2. जापान
✘ 3. जर्मनी
✔ 4. संयुक्त राज्य अमेरिका

Question Type : **MCQ**
Question ID : **264330134003**
Option 1 ID : **264330525038**
Option 2 ID : **264330525035**
Option 3 ID : **264330525037**
Option 4 ID : **264330525036**
Status : **Not Answered**
Chosen Option : **--**

Join Telegram Group "HaryanaJobs.in"

Q.6 भारत में, सड़कों को उनकी क्षमता के अनुसार _____ वर्गों में वर्गीकृत किया गया है।

Ans
1. तीन ✗
2. सात ✗
3. छः ✓
4. चार ✗

Question Type : **MCQ**
Question ID : **264330137695**
Option 1 ID : **264330539389**
Option 2 ID : **264330539390**
Option 3 ID : **264330539388**
Option 4 ID : **264330539387**
Status : **Answered**
Chosen Option : **4**

Q.7 निम्नलिखित में से क्या पश्चिमी घाट का एक हिस्सा नहीं है?

Ans
1. अन्नामलाई पहाड़ियाँ (Anaimalai Hills) ✗
2. नीलगिरी पहाड़ियाँ (Nilgiri Hills) ✗
3. महादेव पहाड़ियाँ (Mahadeo Hills) ✓
4. इलायची पहाड़ियाँ (Cardamom Hills) ✗

Question Type : **MCQ**
Question ID : **264330133991**
Option 1 ID : **264330524990**
Option 2 ID : **264330524988**
Option 3 ID : **264330524989**
Option 4 ID : **264330524987**
Status : **Answered**
Chosen Option : **3**

Q.8 जिस प्रतिबिंब को पर्दे पर प्राप्त नहीं किया जा सकता है, _____ कहलाता है।

Ans
1. वास्तविक प्रतिबिंब ✗
2. वेक्टर प्रतिबिंब ✗
3. आभासी प्रतिबिंब ✓
4. वर्णक्रमीय प्रतिबिंब ✗

Question Type : **MCQ**
Question ID : **264330138887**
Option 1 ID : **264330544155**
Option 2 ID : **264330544158**
Option 3 ID : **264330544156**
Option 4 ID : **264330544157**
Status : **Answered**
Chosen Option : **2**

Join Telegram Group "HaryanaJobs.in"

Q.9 फीफा विश्व कप 2022 की मेजबानी किस देश ने की थी?

Ans
1. फ्रांस
2. जापान
3. जर्मनी
4. कतर

Question Type : **MCQ**
Question ID : **264330138875**
Option 1 ID : **264330544108**
Option 2 ID : **264330544110**
Option 3 ID : **264330544107**
Option 4 ID : **264330544109**
Status : **Answered**
Chosen Option : **4**

Q.10 बांग्लादेश निम्नलिखित में से किस भारतीय राज्य के साथ अपनी सीमा साझा नहीं करता है?

Ans
1. सिक्किम
2. पश्चिम बंगाल
3. असम
4. त्रिपुरा

Question Type : **MCQ**
Question ID : **264330137048**
Option 1 ID : **264330536837**
Option 2 ID : **264330536835**
Option 3 ID : **264330536836**
Option 4 ID : **264330536838**
Status : **Answered**
Chosen Option : **1**

Q.11 बौद्ध वास्तुकला के संदर्भ में, चैत्य का क्या अर्थ है?

Ans
1. मंदिर का प्रवेश द्वार
2. निवास/मठ
3. बुद्ध से संबंधित अवशेष
4. प्रार्थना कक्ष

Question Type : **MCQ**
Question ID : **264330137898**
Option 1 ID : **264330540202**
Option 2 ID : **264330540199**
Option 3 ID : **264330540200**
Option 4 ID : **264330540201**
Status : **Answered**
Chosen Option : **3**

Join Telegram Group "HaryanaJobs.in"

Q.12 अक्टूबर 2022 की स्थिति के अनुसार, इंदिरा गांधी राष्ट्रीय वृद्धावस्था पेंशन योजना (IGNOAPS) के अंतर्गत, 60 वर्ष या उससे अधिक आयु के BPL (गरीबी रेखा से नीचे जीवनयापन करने वाले) व्यक्ति 79 वर्ष की आयु तक _____ की मासिक पेंशन के हकदार हैं।

Ans
1. Rs 250
2. Rs 400
3. Rs 200
4. Rs 350

Question Type : **MCQ**
Question ID : **264330137723**
Option 1 ID : **264330539502**
Option 2 ID : **264330539501**
Option 3 ID : **264330539500**
Option 4 ID : **264330539499**
Status : **Answered**
Chosen Option : **2**

Q.13 GST बिल में कितने टैक्स स्लैब वर्गीकृत हैं?

Ans
1. तीन
2. सात
3. चार
4. आठ

Question Type : **MCQ**
Question ID : **264330137895**
Option 1 ID : **264330540190**
Option 2 ID : **264330540188**
Option 3 ID : **264330540187**
Option 4 ID : **264330540189**
Status : **Answered**
Chosen Option : **3**

Q.14 झिझिया (Jhijhiya) बिहार का एक प्रसिद्ध लोक नृत्य है जिसे पौराणिक शहर मिथिला (Mithila) में किया जाता है। यह नृत्य केवल महिलाओं द्वारा किया जाता है। संपूर्ण नवरात्रि में 'नौ रातों' का यह त्योहार देवी _____ के तीन रूपों की पूजा करने के लिए मनाया जाता है।

Ans
1. सीता, काली और पार्वती
2. काली, लक्ष्मी, दुर्गा
3. सीता, दुर्गा, लक्ष्मी
4. लक्ष्मी, पार्वती और सरस्वती

Question Type : **MCQ**
Question ID : **264330133983**
Option 1 ID : **264330524955**
Option 2 ID : **264330524956**
Option 3 ID : **264330524958**
Option 4 ID : **264330524957**
Status : **Answered**
Chosen Option : **2**

Join Telegram Group "HaryanaJobs.in"

Q.15 भारतीय राष्ट्रीय कांग्रेस ने सन् 1929 में _____ की अध्यक्षता में पूर्ण स्वराज प्रस्ताव पारित किया था।

Ans
1. सरदार वल्लभभाई पटेल
2. महात्मा गांधी
3. जवाहर लाल नेहरू
4. लाला लाजपत राय

Question Type : **MCQ**
Question ID : **264330138920**
Option 1 ID : **264330544290**
Option 2 ID : **264330544288**
Option 3 ID : **264330544289**
Option 4 ID : **264330544287**
Status : **Answered**
Chosen Option : **3**

Q.16 अक्टूबर 2022 की स्थिति के अनुसार, भारतीय संविधान में कितने मौलिक कर्तव्य हैं?

Ans
1. 11
2. 12
3. 13
4. 10

Question Type : **MCQ**
Question ID : **264330134001**
Option 1 ID : **264330525028**
Option 2 ID : **264330525029**
Option 3 ID : **264330525030**
Option 4 ID : **264330525027**
Status : **Answered**
Chosen Option : **1**

Q.17 "MUDRA योजना" में, 'M' का क्या अर्थ है?

Ans
1. मैक्रो (Macro)
2. मनी (Money)
3. माइक्रो (Micro)
4. मल्टी (Multi)

Question Type : **MCQ**
Question ID : **264330137710**
Option 1 ID : **264330539447**
Option 2 ID : **264330539449**
Option 3 ID : **264330539448**
Option 4 ID : **264330539450**
Status : **Answered**
Chosen Option : **3**

Join Telegram Group "HaryanaJobs.in"

Q.18 किसी व्यक्ति को भारत के उपराष्ट्रपति बनने के योग्य होने के लिए, उसकी आयु न्यूनतम _____ वर्ष होनी चाहिए।

Ans
✔ 1. 35
✘ 2. 30
✘ 3. 40
✘ 4. 25

Question Type : **MCQ**
Question ID : **264330134002**
Option 1 ID : **264330525033**
Option 2 ID : **264330525031**
Option 3 ID : **264330525032**
Option 4 ID : **264330525034**
Status : **Answered**
Chosen Option : **1**

Q.19 निम्नलिखित में से कौन-सी परत पृथ्वी की वायुमंडलीय परतों में से एक नहीं है?

Ans
✘ 1. मध्यमंडल
✘ 2. समतापमंडल
✘ 3. बाह्य वायुमंडल
✔ 4. अन्तःमंडल

Question Type : **MCQ**
Question ID : **264330138886**
Option 1 ID : **264330544153**
Option 2 ID : **264330544151**
Option 3 ID : **264330544154**
Option 4 ID : **264330544152**
Status : **Answered**
Chosen Option : **4**

Q.20 पंडित बिरजू महाराज को निम्नलिखित में से किस पुरस्कार से सम्मानित किया गया था?

Ans
✘ 1. पद्म श्री
✔ 2. पद्म विभूषण
✘ 3. पद्म भूषण
✘ 4. शौर्यचक्र

Question Type : **MCQ**
Question ID : **264330137705**
Option 1 ID : **264330539428**
Option 2 ID : **264330539427**
Option 3 ID : **264330539429**
Option 4 ID : **264330539430**
Status : **Answered**
Chosen Option : **3**

Join Telegram Group "HaryanaJobs.in"

Q.21 भ्रूण की वह अवस्था जिसमें सभी शारीरिक भागों की पहचान हो सके _____ कहलाता है।

Ans
1. युग्मनज
2. गर्भाशय
3. गर्भ ✔
4. डिंबोत्सर्जन

Question Type : **MCQ**
Question ID : **264330138885**
Option 1 ID : **264330544150**
Option 2 ID : **264330544147**
Option 3 ID : **264330544149**
Option 4 ID : **264330544148**
Status : **Answered**
Chosen Option : **4**

Q.22 _____ ने जैव विकास की अवधारणा को अपनी पुस्तक "दि ओरिजिन ऑफ स्पीशीज़ (The origin of species)" में दिया।

Ans
1. एडवर्ड जेनर (Edward Jenner)
2. अरस्तू (Aristotle)
3. चार्ल्स डार्विन (Charles Darwin) ✔
4. रॉबर्ट ब्राउन (Robert Brown)

Question Type : **MCQ**
Question ID : **264330133987**
Option 1 ID : **264330524974**
Option 2 ID : **264330524972**
Option 3 ID : **264330524973**
Option 4 ID : **264330524971**
Status : **Answered**
Chosen Option : **3**

Q.23 केंद्र सरकार ने हाल ही में युवा 2.0 योजना (YUVA 2.0 Scheme) शुरू की है। यह _____ वर्ष से कम आयु के युवा और नवोदित लेखकों के लिए एक प्रशिक्षण एवं परामर्श कार्यक्रम (mentoring programme) है।

Ans
1. 40
2. 35
3. 45
4. 30 ✔

Question Type : **MCQ**
Question ID : **264330133981**
Option 1 ID : **264330524947**
Option 2 ID : **264330524950**
Option 3 ID : **264330524949**
Option 4 ID : **264330524948**
Status : **Answered**
Chosen Option : **1**

Join Telegram Group "HaryanaJobs.in"

Q.24 गुर्जर-प्रतिहार, राष्ट्रकूट और पाल वंशों के शासक _____ के ऊपर नियंत्रण को लेकर सदियों तक आपस में लड़ते रहे।

Ans
✔ 1. कन्नौज
✘ 2. पाटलिपुत्र
✘ 3. जयपुर
✘ 4. उज्जैन

Question Type : **MCQ**
Question ID : **264330138893**
Option 1 ID : **264330544182**
Option 2 ID : **264330544180**
Option 3 ID : **264330544181**
Option 4 ID : **264330544179**
Status : **Answered**
Chosen Option : **1**

Q.25 निम्नलिखित में से कौन-सी देवी/देवता उड़ीसा के पुरी रथ यात्रा उत्सव से संबंधित नहीं है?

Ans
✘ 1. भगवान बलभद्र
✔ 2. भगवान शिव
✘ 3. भगवान जगन्नाथ
✘ 4. देवी सुभद्रा

Question Type : **MCQ**
Question ID : **264330138897**
Option 1 ID : **264330544198**
Option 2 ID : **264330544196**
Option 3 ID : **264330544195**
Option 4 ID : **264330544197**
Status : **Answered**
Chosen Option : **2**

Section : **English Language and Comprehension**

Q.1 Select the most appropriate option to substitute the bracketed segment in the given sentence. If there is no need to substitute it, select 'no substitution required'.
(I wouldn't cross him if I was you, not) if you value your life.

Ans
✘ 1. I wouldn't has crossed him if I were you, not
✔ 2. I wouldn't cross him if I were you, not
✘ 3. No substitution required
✘ 4. I wouldn't had crossed him if I was you, not

Question Type : **MCQ**
Question ID : **264330136061**
Option 1 ID : **264330533059**
Option 2 ID : **264330533061**
Option 3 ID : **264330533062**
Option 4 ID : **264330533060**
Status : **Answered**
Chosen Option : **2**

Join Telegram Group "HaryanaJobs.in"

Q.2 **In the following question, out of the given four alternatives, select the alternative which best expresses the meaning of the Idiom/Phrase.**
Loaves and fishes

Ans
✗ 1. To bury the dead
✓ 2. Material gain
✗ 3. Accidently kill someone
✗ 4. To let bygones be bygones

Question Type : **MCQ**
Question ID : **264330134471**
Option 1 ID : **264330526851**
Option 2 ID : **264330526853**
Option 3 ID : **264330526852**
Option 4 ID : **264330526854**
Status : **Answered**
Chosen Option : **4**

Q.3 **Find the part of the given sentence that has an error in it. If there is no error, choose 'No error'.**
When I have arrived at the theatre, the show had already started.

Ans
✗ 1. No error
✓ 2. When I have arrived at
✗ 3. had already started
✗ 4. the theatre, the show

Question Type : **MCQ**
Question ID : **264330134452**
Option 1 ID : **264330526782**
Option 2 ID : **264330526779**
Option 3 ID : **264330526781**
Option 4 ID : **264330526780**
Status : **Answered**
Chosen Option : **2**

Q.4 A sentence has been given with a blank to be filled with an appropriate option. Choose the correct alternative.
John rushed to the spot and saw his wife and kid _____ on the road.

Ans
✗ 1. lain
✗ 2. laying
✓ 3. lying
✗ 4. lie

Question Type : **MCQ**
Question ID : **264330141163**
Option 1 ID : **264330552995**
Option 2 ID : **264330552998**
Option 3 ID : **264330552996**
Option 4 ID : **264330552997**
Status : **Answered**
Chosen Option : **1**

Join Telegram Group "HaryanaJobs.in"

Q.5 **Improve the underlined part of the sentence. Choose 'No improvement' as an answer if the sentence is grammatically correct.**
The idea was to <u>delivered governmental services</u> at the citizen's doorstep.

Ans
✔ 1. deliver government services
✘ 2. No improvement
✘ 3. delivers governmental servicing
✘ 4. delivering government serviced

Question Type : **MCQ**
Question ID : **264330134455**
Option 1 ID : **264330526791**
Option 2 ID : **264330526794**
Option 3 ID : **264330526793**
Option 4 ID : **264330526792**
Status : **Answered**
Chosen Option : **1**

Q.6 **Select the appropriate synonym for the underlined word.**
The child develops a <u>deadly</u> disease.

Ans
✘ 1. kind
✔ 2. fatal
✘ 3. huge
✘ 4. corrective

Question Type : **MCQ**
Question ID : **264330134466**
Option 1 ID : **264330526833**
Option 2 ID : **264330526832**
Option 3 ID : **264330526834**
Option 4 ID : **264330526831**
Status : **Answered**
Chosen Option : **2**

Q.7 Choose the word that means the same as the given word.

Calamity

Ans
✘ 1. Debar
✘ 2. Embark
✘ 3. Debauchery
✔ 4. Debacle

Question Type : **MCQ**
Question ID : **264330136890**
Option 1 ID : **264330536244**
Option 2 ID : **264330536243**
Option 3 ID : **264330536246**
Option 4 ID : **264330536245**
Status : **Answered**
Chosen Option : **4**

Join Telegram Group "HaryanaJobs.in"

Q.8 **Choose the word that can substitute the given group of words.**
To enter unlawfully upon the land of another

Ans
✗ 1. Culprit
✗ 2. Transgression
✓ 3. Trespass
✗ 4. Delinquent

Question Type : **MCQ**
Question ID : **264330134465**
Option 1 ID : **264330526828**
Option 2 ID : **264330526830**
Option 3 ID : **264330526827**
Option 4 ID : **264330526829**
Status : **Answered**
Chosen Option : **3**

Q.9 **Improve the underlined part of the sentence. Choose 'No improvement' as an answer if the sentence is grammatically correct.**
She was bored because she didn't have any work to does.

Ans
✓ 1. work to do
✗ 2. No improvement
✗ 3. works to do
✗ 4. work to done

Question Type : **MCQ**
Question ID : **264330134375**
Option 1 ID : **264330526484**
Option 2 ID : **264330526486**
Option 3 ID : **264330526483**
Option 4 ID : **264330526485**
Status : **Answered**
Chosen Option : **1**

Q.10 Select the most appropriate option to fill in the blank.

Today I received a letter. Finally, I _____ back from him.

Ans
✗ 1. hard
✗ 2. horde
✗ 3. herd
✓ 4. heard

Question Type : **MCQ**
Question ID : **264330136871**
Option 1 ID : **264330536173**
Option 2 ID : **264330536172**
Option 3 ID : **264330536174**
Option 4 ID : **264330536171**
Status : **Answered**
Chosen Option : **4**

Join Telegram Group "HaryanaJobs.in"

Q.11 **Select the most appropriate option to fill in the blank.**
Women _____ their male relatives to the battlefield for the purpose of tending the wounded and carrying away the dead.

Ans
✗ 1. forsake
✗ 2. signify
✓ 3. accompany
✗ 4. justify

Question Type : **MCQ**
Question ID : **264330134475**
Option 1 ID : **264330526867**
Option 2 ID : **264330526868**
Option 3 ID : **264330526869**
Option 4 ID : **264330526870**
Status : **Answered**
Chosen Option : **3**

Q.12 **A sentence has been given with a blank to be filled with an appropriate option. Choose the correct alternative.**
The water from the river was _____ cold for me to drink directly.

Ans
✗ 1. many
✗ 2. most
✓ 3. too
✗ 4. very

Question Type : **MCQ**
Question ID : **264330134456**
Option 1 ID : **264330526796**
Option 2 ID : **264330526798**
Option 3 ID : **264330526795**
Option 4 ID : **264330526797**
Status : **Answered**
Chosen Option : **3**

Q.13 Find the part of the given sentence that has an error in it. If there is no error, choose 'No error'.

David said that statistics are his favourite subject.

Ans
✗ 1. No error
✗ 2. David said that
✗ 3. favourite subject
✓ 4. statistics are his

Question Type : **MCQ**
Question ID : **264330134797**
Option 1 ID : **264330528134**
Option 2 ID : **264330528131**
Option 3 ID : **264330528133**
Option 4 ID : **264330528132**
Status : **Answered**
Chosen Option : **4**

Join Telegram Group "HaryanaJobs.in"

Q.14 Choose the sentence with no spelling error.

Ans

✗ 1. I can't stop the tissue from repayring.

✗ 2. I can't stop the tisue from repairing.

✓ 3. I can't stop the tissue from repairing.

✗ 4. I can't stop the tissue from reparing.

Question Type : **MCQ**
Question ID : **264330136870**
Option 1 ID : **264330536170**
Option 2 ID : **264330536167**
Option 3 ID : **264330536169**
Option 4 ID : **264330536168**
Status : **Answered**
Chosen Option : **3**

Q.15 In the following question, out of the given four alternatives, select the alternative which best expresses the meaning of the Idiom/Phrase.
Bell the cat

Ans

✓ 1. To do a dangerous task

✗ 2. To train company's employees

✗ 3. To estimate the risks involved

✗ 4. To reveal confidential information

Question Type : **MCQ**
Question ID : **264330136841**
Option 1 ID : **264330536058**
Option 2 ID : **264330536056**
Option 3 ID : **264330536055**
Option 4 ID : **264330536057**
Status : **Answered**
Chosen Option : **1**

Q.16 **Select the appropriate antonym for the underlined word.**
Richard himself came up to <u>persuade</u> David to agree to their plan.

Ans

✗ 1. coax

✗ 2. lure

✗ 3. prompt

✓ 4. deter

Question Type : **MCQ**
Question ID : **264330134469**
Option 1 ID : **264330526845**
Option 2 ID : **264330526843**
Option 3 ID : **264330526844**
Option 4 ID : **264330526846**
Status : **Answered**
Chosen Option : **4**

Join Telegram Group "HaryanaJobs.in"

Q.17 Select the most appropriate antonym of the given word.

Rare

Ans
1. Extraordinary ✗
2. Latent ✗
3. Familiar ✓
4. Clarify ✗

Question Type : **MCQ**
Question ID : **264330136257**
Option 1 ID : **264330533811**
Option 2 ID : **264330533812**
Option 3 ID : **264330533813**
Option 4 ID : **264330533814**
Status : **Answered**
Chosen Option : **3**

Q.18 Identify the segment that contains a grammatical error. If there is no error, select 'No error'.
Using a loofah with a hydrating / shower gel each day also ensures / you'll have the most smoothest skin.

Ans
1. shower gel each day also ensures ✗
2. you'll have the most smoothest skin. ✓
3. Using a loofah with a hydrating ✗
4. No error ✗

Question Type : **MCQ**
Question ID : **264330136058**
Option 1 ID : **264330533048**
Option 2 ID : **264330533049**
Option 3 ID : **264330533047**
Option 4 ID : **264330533050**
Status : **Answered**
Chosen Option : **2**

Q.19 Choose the word that can substitute the given group of words.

Experiences that are very unpleasant or difficult

Ans
1. Knack ✗
2. Ordeal ✓
3. Strident ✗
4. Pitfall ✗

Question Type : **MCQ**
Question ID : **264330136835**
Option 1 ID : **264330536032**
Option 2 ID : **264330536034**
Option 3 ID : **264330536031**
Option 4 ID : **264330536033**
Status : **Answered**
Chosen Option : **4**

Join Telegram Group "HaryanaJobs.in"

Q.20 **Choose the incorrectly spelt word.**

Ans

✗ 1. Critical

✗ 2. Loudly

✗ 3. Mastery

✓ 4. Lattar

Question Type : **MCQ**
Question ID : **264330134472**
Option 1 ID : **264330526855**
Option 2 ID : **264330526856**
Option 3 ID : **264330526858**
Option 4 ID : **264330526857**
Status : **Answered**
Chosen Option : **4**

Comprehension:

In the following passage some words have been deleted. Fill in the blanks with the help of the alternatives given. Select the most appropriate option for each number.

Dinner in the Great Hall that night (1) _____ a pleasant experience for Sunny. The (2) _____ about his shouting match with Umbridge had (3) _____ exceptionally fast even (4) _____ standards. He heard whispers all (5) _____ as he sat eating between Rob and Ravi.

SubQuestion No : 21

Q.21 Select the most appropriate option to fill in blank number 1.

Ans

✗ 1. was neither

✗ 2. were not

✓ 3. was not

✗ 4. is not

Question Type : **MCQ**
Question ID : **264330136248**
Option 1 ID : **264330533778**
Option 2 ID : **264330533775**
Option 3 ID : **264330533776**
Option 4 ID : **264330533777**
Status : **Answered**
Chosen Option : **3**

Join Telegram Group "HaryanaJobs.in"

Comprehension:

In the following passage some words have been deleted. Fill in the blanks with the help of the alternatives given. Select the most appropriate option for each number.

Dinner in the Great Hall that night (1) _____ a pleasant experience for Sunny. The (2) _____ about his shouting match with Umbridge had (3) _____ exceptionally fast even (4) _____ standards. He heard whispers all (5) _____ as he sat eating between Rob and Ravi.

SubQuestion No : 22

Q.22 Select the most appropriate option to fill in blank number 2.

Ans

✗ 1. account
✗ 2. sequence
✓ 3. news
✗ 4. information

Question Type : **MCQ**
Question ID : **264330136249**
Option 1 ID : **264330533779**
Option 2 ID : **264330533781**
Option 3 ID : **264330533782**
Option 4 ID : **264330533780**
Status : **Answered**
Chosen Option : **3**

Comprehension:

In the following passage some words have been deleted. Fill in the blanks with the help of the alternatives given. Select the most appropriate option for each number.

Dinner in the Great Hall that night (1) _____ a pleasant experience for Sunny. The (2) _____ about his shouting match with Umbridge had (3) _____ exceptionally fast even (4) _____ standards. He heard whispers all (5) _____ as he sat eating between Rob and Ravi.

SubQuestion No : 23

Q.23 Select the most appropriate option to fill in blank number 3.

Ans

✓ 1. travelled
✗ 2. drove
✗ 3. moved
✗ 4. migrated

Question Type : **MCQ**
Question ID : **264330136250**
Option 1 ID : **264330533783**
Option 2 ID : **264330533785**
Option 3 ID : **264330533784**
Option 4 ID : **264330533786**
Status : **Answered**
Chosen Option : **3**

Join Telegram Group "HaryanaJobs.in"

Comprehension:

In the following passage some words have been deleted. Fill in the blanks with the help of the alternatives given. Select the most appropriate option for each number.

Dinner in the Great Hall that night (1) _____ a pleasant experience for Sunny. The (2) _____ about his shouting match with Umbridge had (3) _____ exceptionally fast even (4) _____ standards. He heard whispers all (5) _____ as he sat eating between Rob and Ravi.

SubQuestion No : 24

Q.24 Select the most appropriate option to fill in blank number 4.

Ans

✗ 1. of the institutes'

✓ 2. by the institute's

✗ 3. at the institute

✗ 4. as the institute's

Question Type : **MCQ**
Question ID : **264330136251**
Option 1 ID : **264330533787**
Option 2 ID : **264330533789**
Option 3 ID : **264330533790**
Option 4 ID : **264330533788**
Status : **Answered**
Chosen Option : **2**

Comprehension:

In the following passage some words have been deleted. Fill in the blanks with the help of the alternatives given. Select the most appropriate option for each number.

Dinner in the Great Hall that night (1) _____ a pleasant experience for Sunny. The (2) _____ about his shouting match with Umbridge had (3) _____ exceptionally fast even (4) _____ standards. He heard whispers all (5) _____ as he sat eating between Rob and Ravi.

SubQuestion No : 25

Q.25 Select the most appropriate option to fill in blank number 5.

Ans

✗ 1. rotating him

✗ 2. surrounding him

✗ 3. revolving him

✓ 4. around him

Question Type : **MCQ**
Question ID : **264330136252**
Option 1 ID : **264330533793**
Option 2 ID : **264330533791**
Option 3 ID : **264330533794**
Option 4 ID : **264330533792**
Status : **Answered**
Chosen Option : **2**

Join Telegram Group "HaryanaJobs.in"

Multi Tasking Non Technical Staff and Havaldar CBIC and CBN Examination 2022

Roll Number	HaryanaJobs.in
Candidate Name	HaryanaJobs.in
Venue Name	iON Digital Zone iDZ 1 GT Karnal Road
Exam Date	09/05/2023
Exam Time	3:30 PM - 5:00 PM
Subject	MTS Non Tech Havaldar CBIC and CBN Examination 2022

Section : **Numerical and Mathematical Ability**

Q.1 35 पुरुष एक कार्य को 15 दिनों में पूरा कर सकते हैं। 15 महिलाएँ उसी कार्य को 35 दिनों में पूरा कर सकती हैं। 9 पुरुष और 16 महिलाएँ कार्य को कितने दिनों में पूरा कर सकते हैं?

Ans

✗ 1. 18 दिनों में

✗ 2. 10 दिनों में

✗ 3. 15 दिनों में

✓ 4. 21 दिनों में

Question Type : **MCQ**
Question ID : **264330138449**
Option 1 ID : **264330542406**
Option 2 ID : **264330542404**
Option 3 ID : **264330542405**
Option 4 ID : **264330542403**
Status : **Answered**
Chosen Option : **4**

Q.2 मनीषा के बटुए में Rs. 8000 हैं। फिर उसने इसे 10% से बढ़ा दिया। फिर उसने इसमें से 5% खर्च कर दिया। उसके बटुए में मौजूद धनराशि का अंतिम मूल्य, प्रारंभिक धनराशि से कितने प्रतिशत अधिक होगा?

Ans

✗ 1. 5%

✗ 2. 5.5%

✗ 3. 6%

✓ 4. 4.5%

Question Type : **MCQ**
Question ID : **264330134085**
Option 1 ID : **264330525363**
Option 2 ID : **264330525365**
Option 3 ID : **264330525366**
Option 4 ID : **264330525364**
Status : **Answered**
Chosen Option : **4**

Join Telegram Group "HaryanaJobs.in"

Q.3 तीन धनात्मक संख्याएँ 2:3:5 के अनुपात में हैं। यदि उनके वर्गों का योग 342 है, तो सबसे बड़ी संख्या ज्ञात कीजिए।

Ans

✗ 1. 35

✗ 2. 55

✗ 3. 25

✓ 4. 15

Question Type : **MCQ**
Question ID : **264330135401**
Option 1 ID : **264330530512**
Option 2 ID : **264330530514**
Option 3 ID : **264330530513**
Option 4 ID : **264330530511**
Status : **Answered**
Chosen Option : **3**

Q.4 निम्नलिखित दंड आलेख में 4 क्रमागत वर्षों में रागी के उत्पादन को दर्शाया गया है। किस वर्ष रागी का उत्पादन न्यूनतम है?

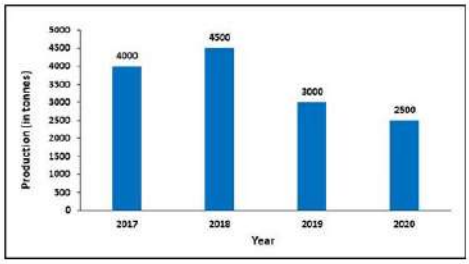

Production (in tonnes): उत्पादन (टन में), Year: वर्ष

Ans

✓ 1. 2020

✗ 2. 2017

✗ 3. 2018

✗ 4. 2019

Question Type : **MCQ**
Question ID : **264330138763**
Option 1 ID : **264330543662**
Option 2 ID : **264330543659**
Option 3 ID : **264330543660**
Option 4 ID : **264330543661**
Status : **Answered**
Chosen Option : **1**

Q.5 एक व्यक्ति को उसके Rs. 400 के खाने के बिल पर 15% और फिर 35% का बट्टा मिलता है। उसे, रुपये में, कुल कितना बट्टा मिला?

Ans

✗ 1. Rs. 255

✓ 2. Rs. 179

✗ 3. Rs. 250

✗ 4. Rs. 300

Question Type : **MCQ**
Question ID : **264330135399**
Option 1 ID : **264330530503**
Option 2 ID : **264330530505**
Option 3 ID : **264330530506**
Option 4 ID : **264330530504**
Status : **Answered**
Chosen Option : **2**

Join Telegram Group "HaryanaJobs.in"

Q.6 एक आदमी एक रुपए में 15 पेन खरीदता है। 50 प्रतिशत का लाभ अर्जित करने के लिए उसे एक रुपए में कितनी पेन बेचनी चाहिए?

Ans

1. 6 ✗
2. 12 ✗
3. 8 ✗
4. 10 ✓

Question Type : **MCQ**
Question ID : **264330137880**
Option 1 ID : **264330540130**
Option 2 ID : **264330540128**
Option 3 ID : **264330540127**
Option 4 ID : **264330540129**
Status : **Answered**
Chosen Option : **4**

Q.7 यदि ब्याज वार्षिक रूप से संयोजित हो रहा है, तो चक्रवृद्धि ब्याज पर 16 प्रतिशत वार्षिक दर से 2 वर्ष में कितनी राशि Rs. 4036.8 हो जाएगी?

Ans

1. Rs. 4000 ✗
2. Rs. 1500 ✗
3. Rs. 3000 ✓
4. Rs. 2500 ✗

Question Type : **MCQ**
Question ID : **264330138026**
Option 1 ID : **264330540714**
Option 2 ID : **264330540711**
Option 3 ID : **264330540712**
Option 4 ID : **264330540713**
Status : **Answered**
Chosen Option : **3**

Q.8 मोनिका ने अपने दादा-दादी से मिलने के लिए एक अविराम फ्लाइट (non-stop flight) ली। 650km की यात्रा में 1 घंटा 30 मिनट का समय लगा। खराब मौसम के कारण वापसी की यात्रा में 2 घंटे 30 मिनट का समय लगा। दोनों तरफ की यात्रा में उसकी औसत चाल क्या थी?

Ans

1. 1300 kmph ✗
2. 325 kmph ✓
3. 550 kmph ✗
4. 690 kmph ✗

Question Type : **MCQ**
Question ID : **264330141027**
Option 1 ID : **264330552455**
Option 2 ID : **264330552457**
Option 3 ID : **264330552458**
Option 4 ID : **264330552456**
Status : **Answered**
Chosen Option : **2**

Join Telegram Group "HaryanaJobs.in"

Q.9 यदि एक घन का आयतन 5832 cm^3 है, तो इस घन का पार्श्व पृष्ठीय क्षेत्रफल कितना है?

Ans
✔ 1. $1296\ cm^2$
✗ 2. $384\ cm^2$
✗ 3. $1024\ cm^2$
✗ 4. $576\ cm^2$

Question Type : **MCQ**
Question ID : **264330135129**
Option 1 ID : **264330529451**
Option 2 ID : **264330529454**
Option 3 ID : **264330529453**
Option 4 ID : **264330529452**
Status : **Answered**
Chosen Option : **1**

Q.10 0.5 + 0.55 + 0.555 + 0.5555 का मान ज्ञात कीजिए:

Ans
✔ 1. 2.1605
✗ 2. 1.0555
✗ 3. 1.4405
✗ 4. 1.5555

Question Type : **MCQ**
Question ID : **264330135390**
Option 1 ID : **264330530467**
Option 2 ID : **264330530470**
Option 3 ID : **264330530468**
Option 4 ID : **264330530469**
Status : **Answered**
Chosen Option : **1**

Join Telegram Group "HaryanaJobs.in"

Q.11 नीचे दिए गए दंड आलेख में वर्ष 2018 से 2022 तक एक देश द्वारा किए गए कॉफी के वार्षिक उत्पादन (1000 टन में)को दर्शाया गया है। वर्ष 2018, 2019 और 2020 में कॉफी का औसत उत्पादन (1000 टन में) कितना है?

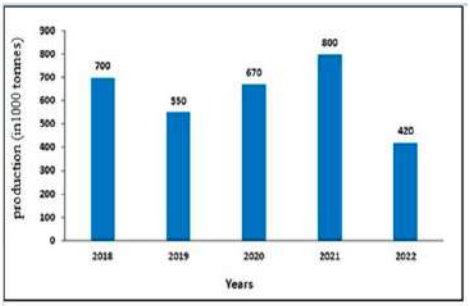

Production (in 1000 tonnes) = उत्पादन (1000 टन में)

Ans

✗ 1. 810

✗ 2. 720

✓ 3. 640

✗ 4. 530

Question Type : **MCQ**
Question ID : **264330135408**
Option 1 ID : **264330530542**
Option 2 ID : **264330530541**
Option 3 ID : **264330530540**
Option 4 ID : **264330530539**
Status : **Answered**
Chosen Option : **3**

Q.12 यदि A, 24 और 6 का माध्य समानुपाती है, और B, 81 और 9 का माध्य समानुपाती है, तो 3A +B का मान ज्ञात कीजिए।

Ans

✗ 1. 32

✓ 2. 63

✗ 3. 55

✗ 4. 33

Question Type : **MCQ**
Question ID : **264330135400**
Option 1 ID : **264330530509**
Option 2 ID : **264330530508**
Option 3 ID : **264330530507**
Option 4 ID : **264330530510**
Status : **Answered**
Chosen Option : **2**

Join Telegram Group "HaryanaJobs.in"

Q.13 एक व्यक्ति स्थिर जल में 14 km/hr की चाल से तैर सकता है। यदि उसे धारा के अनुकूल तैरने में लगने वाले समय से दोगुना समय धारा के प्रतिकूल तैरने में लगता है, तो धारा की चाल ज्ञात कीजिए।

Ans

1. ✗ 14/5 km/hr
2. ✗ 11/4 km/hr
3. ✗ 11/5 km/hr
4. ✓ 14/3 km/hr

Question Type : **MCQ**
Question ID : **264330135404**
Option 1 ID : **264330530524**
Option 2 ID : **264330530525**
Option 3 ID : **264330530526**
Option 4 ID : **264330530523**
Status : **Answered**
Chosen Option : **4**

Q.14 एक आयत की लंबाई 58 मीटर है, जबकि उसकी चौड़ाई 30 मीटर है। यदि घास की चादर बिछाने की दर Rs.20 per m^2 है, तो इस पर घास की चादर बिछाने की कुल लागत कितनी आएगी?

Ans

1. ✗ Rs. 28500
2. ✗ Rs. 32400
3. ✓ Rs. 34800
4. ✗ Rs. 17400

Question Type : **MCQ**
Question ID : **264330138453**
Option 1 ID : **264330542420**
Option 2 ID : **264330542422**
Option 3 ID : **264330542419**
Option 4 ID : **264330542421**
Status : **Answered**
Chosen Option : **3**

Q.15 एक वस्तु को Rs. 430 में बेचने पर, एक व्यक्ति को 14% की हानि हुई। 14% लाभ अर्जित करने के लिए उस वस्तु को किस मूल्य पर बेचा जाना चाहिए?

Ans

1. ✗ Rs. 600
2. ✗ Rs. 490
3. ✓ Rs. 570
4. ✗ Rs. 480

Question Type : **MCQ**
Question ID : **264330135398**
Option 1 ID : **264330530502**
Option 2 ID : **264330530500**
Option 3 ID : **264330530501**
Option 4 ID : **264330530499**
Status : **Answered**
Chosen Option : **3**

Join Telegram Group "HaryanaJobs.in"

Q.16 दो वस्तुओं का औसत मूल्य Rs. 2440 है। यदि उनके मूल्यों का अनुपात 9:11 है, तो महंगी वस्तु का मूल्य ज्ञात कीजिए।

Ans

✔ 1. Rs. 2684

✘ 2. Rs. 2992

✘ 3. Rs. 2442

✘ 4. Rs. 2552

Question Type : **MCQ**
Question ID : **264330135393**
Option 1 ID : **264330530479**
Option 2 ID : **264330530481**
Option 3 ID : **264330530480**
Option 4 ID : **264330530482**
Status : **Answered**
Chosen Option : **1**

Q.17 उस घनाभ का कुल पृष्ठीय क्षेत्रफल ज्ञात कीजिए जिसकी लंबाई 23 cm, चौड़ाई 18 cm और ऊँचाई 35 cm है।

Ans

✘ 1. 5436 cm^2

✘ 2. 2341 cm^2

✔ 3. 3698 cm^2

✘ 4. 6541 cm^2

Question Type : **MCQ**
Question ID : **264330138764**
Option 1 ID : **264330543665**
Option 2 ID : **264330543663**
Option 3 ID : **264330543664**
Option 4 ID : **264330543666**
Status : **Answered**
Chosen Option : **3**

Q.18 दो संख्याओं का महत्तम समापवर्तक (HCF) 7 है और लघुत्तम समापवर्त्य (LCM) 280 है। उनका गुणनफल क्या होगा?

Ans

✔ 1. 1960

✘ 2. 1980

✘ 3. 980

✘ 4. 3920

Question Type : **MCQ**
Question ID : **264330141041**
Option 1 ID : **264330552511**
Option 2 ID : **264330552514**
Option 3 ID : **264330552513**
Option 4 ID : **264330552512**
Status : **Answered**
Chosen Option : **1**

Join Telegram Group "HaryanaJobs.in"

Q.19 P अकेले किसी कार्य को 24 दिनों में कर सकता है। Q अकेले इसे 30 दिनों में कर सकता है और R अकेले इसे 20 दिनों में कर सकता है। वे साथ मिलकर इसे कितने दिनों में पूरा कर सकते हैं?

Ans

1. ✗ 15 दिन
2. ✗ 18 दिन
3. ✗ 10 दिन
4. ✓ 8 दिन

Question Type : **MCQ**
Question ID : **264330135124**
Option 1 ID : **264330529434**
Option 2 ID : **264330529433**
Option 3 ID : **264330529431**
Option 4 ID : **264330529432**
Status : **Answered**
Chosen Option : **4**

Q.20 Rs. 20000 पर 10% वार्षिक दर से 1 वर्ष 6 माह का अर्धवार्षिक रूप से संयोजित चक्रवृद्धि ब्याज कितना होगा?

Ans

1. ✗ Rs. 3215.5
2. ✓ Rs. 3152.5
3. ✗ Rs. 3300
4. ✗ Rs. 3200

Question Type : **MCQ**
Question ID : **264330134092**
Option 1 ID : **264330525394**
Option 2 ID : **264330525393**
Option 3 ID : **264330525392**
Option 4 ID : **264330525391**
Status : **Answered**
Chosen Option : **2**

Section : **Reasoning Ability and Problem Solving**

Q.1 एक निश्चित कूट भाषा में, 'BELOW' को 'ASPIF' लिखा जाता है। उस कूट भाषा में 'BLOOD' को कैसे लिखा जाएगा?

Ans

1. ✗ HSSQF
2. ✗ HSSQG
3. ✗ HSSPG
4. ✓ HSSPF

Question Type : **MCQ**
Question ID : **264330138856**
Option 1 ID : **264330544032**
Option 2 ID : **264330544034**
Option 3 ID : **264330544033**
Option 4 ID : **264330544031**
Status : **Answered**
Chosen Option : **4**

Join Telegram Group "HaryanaJobs.in"

Q.2 एक निश्चित कूट भाषा में, 'MANAGER' को 'GANARME' लिखा जाता है। उस भाषा में 'OFFICER' को कैसे लिखा जाएगा?

Ans
1. CIFFROE
2. CFIFROE
3. CIFFREO
4. CFIRFOE

Question Type : **MCQ**
Question ID : **264330137585**
Option 1 ID : **264330538948**
Option 2 ID : **264330538947**
Option 3 ID : **264330538950**
Option 4 ID : **264330538949**
Status : **Answered**
Chosen Option : **1**

Q.3 In the following question below are given some statements followed by some conclusions based on those statements. Taking the given statements to be true even if they seem to be at variance from commonly known facts. Read all the conclusions and then decide which of the given conclusion logically follows the given statements.

Statements:

I. All S are R.

II. No Z is S.

Conclusions:

I. Some S are not Z.

II. Some R are not Z.

III. No R is S.

Ans
1. Both conclusions I and II follows
2. Both conclusions I and III follows
3. Neither conclusion follows
4. Only conclusion I follows

Question Type : **MCQ**
Question ID : **264330135605**
Option 1 ID : **264330531321**
Option 2 ID : **264330531319**
Option 3 ID : **264330531322**
Option 4 ID : **264330531320**
Status : **Answered**
Chosen Option : **1**

Join Telegram Group "HaryanaJobs.in"

Q.4 Eight friends Mansi, Shweta, Monika, Payal, Aarti, Kajal, Laxmi and Rani are sitting around a circular table facing towards the centre (not necessarily in the same order). Mansi is third to the left of Monika. Aarti is second to the right of Monika. Shweta is fourth to the left of Payal. Payal is second to the left of Mansi. Rani is third to the right of Kajal. Kajal is not the immediate neighbour of Mansi. Who is second to the left of Monika?

Ans
1. ✗ Mansi
2. ✓ Laxmi
3. ✗ Rani
4. ✗ Aarti

Question Type : **MCQ**
Question ID : **264330135602**
Option 1 ID : **264330531310**
Option 2 ID : **264330531307**
Option 3 ID : **264330531309**
Option 4 ID : **264330531308**
Status : **Answered**
Chosen Option : **2**

Q.5 एक निश्चित कूट भाषा में, 'DEEPAK' को '3' लिखा जाता है और 'MEME' को '2' लिखा जाता है। उस भाषा में 'PLAIN' को कैसे लिखा जाएगा?

Ans
1. ✗ 11
2. ✓ 2
3. ✗ 4
4. ✗ 5

Question Type : **MCQ**
Question ID : **264330133564**
Option 1 ID : **264330523280**
Option 2 ID : **264330523279**
Option 3 ID : **264330523281**
Option 4 ID : **264330523282**
Status : **Answered**
Chosen Option : **2**

Q.6 उस विकल्प को चुनिए जो तीसरे पद से ठीक उसी प्रकार संबंधित है जिस प्रकार दूसरा पद पहले पद से संबंधित है और छटवाँ पद पाँचवें पद से संबंधित है।

AMC : YJA :: PFD : ? :: JCB : HZZ

Ans
1. ✗ MCB
2. ✗ NDB
3. ✗ MDB
4. ✓ NCB

Question Type : **MCQ**
Question ID : **264330135595**
Option 1 ID : **264330531279**
Option 2 ID : **264330531281**
Option 3 ID : **264330531282**
Option 4 ID : **264330531280**
Status : **Answered**
Chosen Option : **4**

Join Telegram Group "HaryanaJobs.in"

Q.7 उस विकल्प को चुनिए जो छठवें पद से ठीक उसी प्रकार संबंधित है जिस प्रकार पहला पद दूसरे पद से संबंधित है और तीसरा पद चौथे पद से संबंधित है।

KTM : GOG :: PAB : VVL :: ? : VJN

Ans
1. ROC
2. QOD
3. ROB
4. QOB

Question Type : **MCQ**
Question ID : **264330135596**
Option 1 ID : **264330531284**
Option 2 ID : **264330531286**
Option 3 ID : **264330531283**
Option 4 ID : **264330531285**
Status : **Answered**
Chosen Option : **3**

Q.8 निम्नलिखित प्रश्न में, दी गई श्रृंखला में लुप्त संख्या को चुनिए।

13, 14, 27, 41, 68, ?

Ans
1. 109
2. 110
3. 113
4. 118

Question Type : **MCQ**
Question ID : **264330135607**
Option 1 ID : **264330531330**
Option 2 ID : **264330531327**
Option 3 ID : **264330531328**
Option 4 ID : **264330531329**
Status : **Answered**
Chosen Option : **1**

Join Telegram Group "HaryanaJobs.in"

Q.9 यदि एक दर्पण को रेखा AB पर रखा जाए, तो दी गई विकल्प आकृतियों में से कौन-सी आकृति प्रश्न आकृति का सही प्रतिबिम्ब होगी?

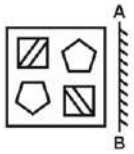

Ans

✗ 1. 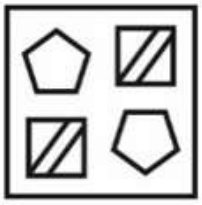

✗ 2. 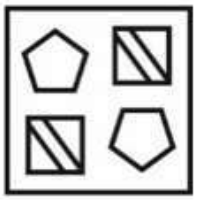

✓ 3.

✗ 4. 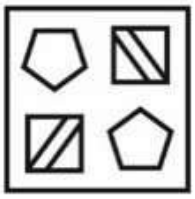

Question Type : **MCQ**
Question ID : **264330138622**
Option 1 ID : **264330543095**
Option 2 ID : **264330543097**
Option 3 ID : **264330543096**
Option 4 ID : **264330543098**
Status : **Answered**
Chosen Option : **3**

Q.10 एक श्रृंखला दी गई है जिसमें एक पद लुप्त है। दिए गए विकल्पों में से उस सही विकल्प को चुनिए जो श्रृंखला को पूरा करेगा।

AGMR, FLRW, KQWB, PVBG, ?

Ans

✗ 1. UBGL

✗ 2. UBHL

✗ 3. UCHL

✓ 4. UAGL

Question Type : **MCQ**
Question ID : **264330135593**
Option 1 ID : **264330531272**
Option 2 ID : **264330531274**
Option 3 ID : **264330531273**
Option 4 ID : **264330531271**
Status : **Answered**
Chosen Option : **4**

Join Telegram Group "HaryanaJobs.in"

Q.11 कौन-सी उत्तर आकृति प्रश्न आकृति में दिए गए पैटर्न को पूरा करेगी?

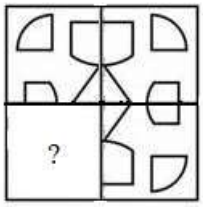

Ans

✗ 1.

✗ 2.

✓ 3.

✗ 4.

Question Type : **MCQ**
Question ID : **264330135614**
Option 1 ID : **264330531358**
Option 2 ID : **264330531357**
Option 3 ID : **264330531355**
Option 4 ID : **264330531356**
Status : **Answered**
Chosen Option : **3**

Q.12 उस विकल्प को चुनिए जो तीसरी संख्या से ठीक उसी तरह संबंधित है जिस तरह दूसरी संख्या पहली संख्या से संबंधित है।

104 : 13 :: 152 : ?

Ans

✗ 1. 21

✗ 2. 23

✓ 3. 19

✗ 4. 17

Question Type : **MCQ**
Question ID : **264330133709**
Option 1 ID : **264330523861**
Option 2 ID : **264330523860**
Option 3 ID : **264330523862**
Option 4 ID : **264330523859**
Status : **Answered**
Chosen Option : **3**

Join Telegram Group "HaryanaJobs.in"

Q.13 दी गई श्रृंखला में निम्नलिखित में से कौन-सी संख्या प्रश्न चिन्ह (?) के स्थान पर आएगी?
12, 12, 14, 42, 46, 230, 236, 1652, ?

Ans
✔ 1. 1660
✘ 2. 1860
✘ 3. 1720
✘ 4. 1820

Question Type : **MCQ**
Question ID : **264330133707**
Option 1 ID : **264330523852**
Option 2 ID : **264330523854**
Option 3 ID : **264330523851**
Option 4 ID : **264330523853**
Status : **Answered**
Chosen Option : **1**

Q.14 यदि A का अर्थ 'जोड़', B का अर्थ 'गुणा', C का अर्थ 'घटाव' और D का अर्थ 'भाग' हो, तो निम्नलिखित समीकरण का मान क्या होगा?
4 B 12 A 18 C (72 D 6) = ?

Ans
✘ 1. 48
✘ 2. 60
✔ 3. 54
✘ 4. 63

Question Type : **MCQ**
Question ID : **264330137826**
Option 1 ID : **264330539913**
Option 2 ID : **264330539914**
Option 3 ID : **264330539912**
Option 4 ID : **264330539911**
Status : **Answered**
Chosen Option : **3**

Q.15 Select the option in which the numbers shares the same relationship in set as that shared by the numbers in the given set.
(NOTE: Operations should be performed on the whole numbers, without breaking down the numbers into its constituent digits. E.g.13 – Operations on 13 such as adding /subtracting /multiplying etc. to 13 can be performed. Breaking down 13 into 1 and 3 and then performing mathematical operations on 1 and 3 is not allowed)

(2, 6, 8)

(117, 351, 468)

Ans
✘ 1. (6, 19, 25)
✔ 2. (4, 12, 16)
✘ 3. (5, 12, 25)
✘ 4. (7, 14 ,23)

Question Type : **MCQ**
Question ID : **264330135609**
Option 1 ID : **264330531337**
Option 2 ID : **264330531335**
Option 3 ID : **264330531336**
Option 4 ID : **264330531338**
Status : **Answered**
Chosen Option : **2**

Join Telegram Group "HaryanaJobs.in"

Q.16 In the following question below are given some statements followed by some conclusions based on those statements. Taking the given statements to be true even if they seem to be at variance from commonly known facts. Read all the conclusions and then decide which of the given conclusion logically follows the given statements.

Statements:

I. No watch is pen.

II. All pen are green.

Conclusion:

I. Some green are pen.

II. All green are watch.

Ans

✗ 1. Neither conclusion follows

✓ 2. Only conclusion I follows

✗ 3. Only conclusion II follows

✗ 4. Both conclusions I and II follows

Question Type : **MCQ**
Question ID : **264330135604**
Option 1 ID : **264330531318**
Option 2 ID : **264330531315**
Option 3 ID : **264330531316**
Option 4 ID : **264330531317**
Status : **Answered**
Chosen Option : **2**

Join Telegram Group "HaryanaJobs.in"

Q.17 उस विकल्प आकृति को चुनिए जिसमें दी गई आकृति निहित है।(घूर्णन की अनुमति नहीं है)

Ans

✔ 1.

✘ 2.

✘ 3.

✘ 4.

Question Type : **MCQ**
Question ID : **264330138621**
Option 1 ID : **264330543091**
Option 2 ID : **264330543093**
Option 3 ID : **264330543092**
Option 4 ID : **264330543094**
Status : **Answered**
Chosen Option : **1**

Q.18 किन दो संख्याओं को आपस में बदलने पर, दिए गए समीकरण का मान '20' होगा?

8 × 2 + 6 ÷ 3 - 7

Ans

✘ 1. 8 और 7

✔ 2. 2 और 3

✘ 3. 2 और 6

✘ 4. 6 और 7

Question Type : **MCQ**
Question ID : **264330135610**
Option 1 ID : **264330531339**
Option 2 ID : **264330531342**
Option 3 ID : **264330531340**
Option 4 ID : **264330531341**
Status : **Answered**
Chosen Option : **2**

Join Telegram Group "HaryanaJobs.in"

Q.19 Six boys Ram, Sumit, Sunil, Rahul, Raj and Aman are sitting around a circular table facing towards the centre (not necessarily in the same order). Sunil is not the immediate neighbour of Aman. Aman is second to right of Ram. Rahul is second to the right of Sumit. Raj is to immediate left of Ram. Who is the immediate neighbour of Raj and Rahul both?

Ans

✔ 1. Sunil

✘ 2. Ram

✘ 3. Aman

✘ 4. Sumit

Question Type : **MCQ**
Question ID : **264330135601**
Option 1 ID : **264330531303**
Option 2 ID : **264330531304**
Option 3 ID : **264330531305**
Option 4 ID : **264330531306**
Status : **Answered**
Chosen Option : **1**

Q.20 Price of five cars B, M, J, N and U are compared. Price of J is less than U, M and N. Price of B is the least. No two cars have the same price. Price of U is less than M. Price of neither U nor M is the highest. Price of how many cars is less than the price of U?

Ans

✘ 1. 1

✘ 2. 0

✘ 3. 3

✔ 4. 2

Question Type : **MCQ**
Question ID : **264330135603**
Option 1 ID : **264330531314**
Option 2 ID : **264330531311**
Option 3 ID : **264330531312**
Option 4 ID : **264330531313**
Status : **Answered**
Chosen Option : **4**

Section : **General Awareness**

Q.1 वर्ष 1918 में, महात्मा गांधी ने _____ की हड़ताल का सफलतापूर्वक नेतृत्व किया।

Ans

✘ 1. व्यापारियों

✘ 2. सेना के जवानों

✘ 3. दलितों

✔ 4. मिल मज़दूरों

Question Type : **MCQ**
Question ID : **264330138698**
Option 1 ID : **264330543401**
Option 2 ID : **264330543399**
Option 3 ID : **264330543402**
Option 4 ID : **264330543400**
Status : **Answered**
Chosen Option : **4**

Join Telegram Group "HaryanaJobs.in"

Q.2 टमाटर में मुख्यतः से कौन-सा अम्ल पाया जाता है?

Ans
1. कार्बनिक अम्ल (Carbonic acid)
2. ऑक्सेलिक अम्ल (Oxalic acid)
3. टार्टरिक अम्ल (Tartaric acid)
4. ऐसीटिक अम्ल (Acetic acid)

Question Type : **MCQ**
Question ID : **264330134063**
Option 1 ID : **264330525275**
Option 2 ID : **264330525277**
Option 3 ID : **264330525276**
Option 4 ID : **264330525278**
Status : **Answered**
Chosen Option : **3**

Q.3 निम्न में से किस प्रसिद्ध भारतीय नर्तक का संबंध पंडवानी (Pandavani) नृत्य शैली से है?

Ans
1. तीजन बाई
2. वैजयंतीमाला
3. पंडित बिरजू महाराज
4. वेंपती चिन्ना सत्यम (Vempati Chinna Satyam)

Question Type : **MCQ**
Question ID : **264330135461**
Option 1 ID : **264330530752**
Option 2 ID : **264330530754**
Option 3 ID : **264330530753**
Option 4 ID : **264330530751**
Status : **Answered**
Chosen Option : **1**

Q.4 In the situation of liquidity trap, the speculative money demand function becomes _____.

Ans
1. Zero
2. Inelastic
3. infinitely elastic
4. unitary elastic

Question Type : **MCQ**
Question ID : **264330138931**
Option 1 ID : **264330544334**
Option 2 ID : **264330544333**
Option 3 ID : **264330544332**
Option 4 ID : **264330544331**
Status : **Not Answered**
Chosen Option : **--**

Join Telegram Group "HaryanaJobs.in"

Q.5 आईसीसी क्रिकेट विश्व कप (महिला) 2022 किस देश में आयोजित किया गया था?

Ans
1. न्यूजीलैंड
2. भारत
3. ऑस्ट्रेलिया
4. इंगलैंड

Question Type : **MCQ**
Question ID : **264330135481**
Option 1 ID : **264330530833**
Option 2 ID : **264330530834**
Option 3 ID : **264330530832**
Option 4 ID : **264330530831**
Status : **Marked For Review**
Chosen Option : **1**

Q.6 निम्नलिखित में से कौन-सा विटामिन आयरन के अवशोषण को प्रभावित करता है?

Ans
1. विटामिन डी (Vitamin D)
2. विटामिन के (Vitamin K)
3. विटामिन बी (Vitamin B)
4. विटामिन सी (Vitamin C)

Question Type : **MCQ**
Question ID : **264330135465**
Option 1 ID : **264330530769**
Option 2 ID : **264330530770**
Option 3 ID : **264330530767**
Option 4 ID : **264330530768**
Status : **Answered**
Chosen Option : **2**

Q.7 2023 में पुरुष क्रिकेट विश्व कप की मेज़बानी कौन-सा देश करेगा?

Ans
1. ऑस्ट्रेलिया
2. पाकिस्तान
3. यूनाइटेड किंगडम
4. भारत

Question Type : **MCQ**
Question ID : **264330134079**
Option 1 ID : **264330525341**
Option 2 ID : **264330525342**
Option 3 ID : **264330525339**
Option 4 ID : **264330525340**
Status : **Not Answered**
Chosen Option : **--**

Join Telegram Group "HaryanaJobs.in"

Q.8 रामपुरवा बैल (Rampurva bull) जो कि बिहार के रामपुरवा में पाए गए एक मौर्य स्तंभ का हिस्सा था, को अब _____ में रखा गया है।

Ans
1. संसद
2. प्रधानमंत्री भवन
3. राजपथ
4. राष्ट्रपति भवन

Question Type : **MCQ**
Question ID : **264330138695**
Option 1 ID : **264330543390**
Option 2 ID : **264330543388**
Option 3 ID : **264330543389**
Option 4 ID : **264330543387**
Status : **Not Answered**
Chosen Option : **--**

Q.9 'ऐस अगेंस्ट ऑड्स (Ace against Odds)' _____ की एक आत्मकथात्मक पुस्तक है।

Ans
1. मैरी कॉम
2. सानिया मिर्ज़ा
3. वी.वी. गिरि
4. सचिन तेंदुलकर

Question Type : **MCQ**
Question ID : **264330138926**
Option 1 ID : **264330544311**
Option 2 ID : **264330544312**
Option 3 ID : **264330544314**
Option 4 ID : **264330544313**
Status : **Answered**
Chosen Option : **2**

Q.10 The constitution of India was adopted by the Constituent Assembly in the year _____.

Ans
1. 1949
2. 1947
3. 1950
4. 1948

Question Type : **MCQ**
Question ID : **264330135479**
Option 1 ID : **264330530825**
Option 2 ID : **264330530823**
Option 3 ID : **264330530826**
Option 4 ID : **264330530824**
Status : **Answered**
Chosen Option : **1**

Join Telegram Group "HaryanaJobs.in"

Q.11 वह प्रक्रिया जिसमें धातुओं को उसके अयस्कों द्वारा गलनांक बिंदु से अधिक तपाकर निष्कर्षित किया जाता है, _____ कहलाती है।

Ans
1. उत्थान
2. निष्कर्षण
3. प्रगलन
4. कताई

Question Type : **MCQ**
Question ID : **264330138938**
Option 1 ID : **264330544360**
Option 2 ID : **264330544361**
Option 3 ID : **264330544362**
Option 4 ID : **264330544359**
Status : **Not Answered**
Chosen Option : **--**

Q.12 Rangarajan Committee is associated with _____.

Ans
1. Election reforms
2. Estimation of poverty
3. Environmental protection
4. Educational reform

Question Type : **MCQ**
Question ID : **264330137031**
Option 1 ID : **264330536770**
Option 2 ID : **264330536768**
Option 3 ID : **264330536769**
Option 4 ID : **264330536767**
Status : **Answered**
Chosen Option : **2**

Q.13 _____ आधुनिक आवर्त सारणी के जनक हैं।

Ans
1. अर्नेस्ट रदरफोर्ड (Ernest Rutherford)
2. दिमित्री मेंडेलीव (Dmitri Mendeleev)
3. जॉन न्यूलैंड (John Newland)
4. जे. जे. थॉमसन (J. J. Thomson)

Question Type : **MCQ**
Question ID : **264330134061**
Option 1 ID : **264330525267**
Option 2 ID : **264330525269**
Option 3 ID : **264330525270**
Option 4 ID : **264330525268**
Status : **Not Answered**
Chosen Option : **--**

Join Telegram Group "HaryanaJobs.in"

Q.14 निम्नलिखित में से ग्रैमी लाइफ टाइम अचीवमेंट अवार्ड प्राप्त करने वाले पहले भारतीय संगीतकार कौन थे?

Ans
1. हरिप्रसाद चौरसिया
2. उस्ताद ज़ाकिर हुसैन
3. न्यूक्लिया
4. पंडित रविशंकर

Question Type : **MCQ**
Question ID : **264330135477**
Option 1 ID : **264330530816**
Option 2 ID : **264330530817**
Option 3 ID : **264330530818**
Option 4 ID : **264330530815**
Status : **Answered**
Chosen Option : **4**

Q.15 छठ पूजा के त्यौहार के दौरान किस भगवान की पूजा की जाती है?

Ans
1. अग्नि
2. इंद्र
3. विष्णु
4. सूर्य

Question Type : **MCQ**
Question ID : **264330138675**
Option 1 ID : **264330543308**
Option 2 ID : **264330543307**
Option 3 ID : **264330543310**
Option 4 ID : **264330543309**
Status : **Answered**
Chosen Option : **4**

Q.16 भगत सिंह, सुखदेव और राजगुरु को _____ को फाँसी दी गई थी।

Ans
1. मई 23, 1931
2. मार्च 25, 1932
3. मार्च 23, 1931
4. अप्रैल 21, 1930

Question Type : **MCQ**
Question ID : **264330137934**
Option 1 ID : **264330540343**
Option 2 ID : **264330540346**
Option 3 ID : **264330540344**
Option 4 ID : **264330540345**
Status : **Not Answered**
Chosen Option : **--**

Join Telegram Group "HaryanaJobs.in"

Q.17 पृथ्वी का सबसे गहरा बिंदु, मारियाना गर्त (Mariana Trench), कहाँ स्थित है?

Ans
1. अटलांटिक महासागर
2. प्रशांत महासागर
3. हिंद महासागर
4. आर्कटिक महासागर

Question Type : **MCQ**
Question ID : **264330134064**
Option 1 ID : **264330525280**
Option 2 ID : **264330525279**
Option 3 ID : **264330525281**
Option 4 ID : **264330525282**
Status : **Not Answered**
Chosen Option : **--**

Q.18 प्रसिद्ध धमेख स्तूप(Dhamek Stupa)निम्नलिखित में से किस राज्य में स्थित है?

Ans
1. हिमाचल प्रदेश
2. मध्यप्रदेश
3. आंध्रप्रदेश
4. उत्तरप्रदेश

Question Type : **MCQ**
Question ID : **264330137923**
Option 1 ID : **264330540302**
Option 2 ID : **264330540300**
Option 3 ID : **264330540301**
Option 4 ID : **264330540299**
Status : **Not Answered**
Chosen Option : **--**

Q.19 किसी राज्य की विधान परिषद में, राज्य की विधान सभा में सदस्यों की कुल संख्या के _____ से अधिक नहीं होती है।

Ans
1. दो तिहाई (two-third)
2. एक तिहाई (one-third)
3. तीन चौथाई (three-fourth)
4. पाँचवें भाग (one-fifth)

Question Type : **MCQ**
Question ID : **264330135480**
Option 1 ID : **264330530829**
Option 2 ID : **264330530827**
Option 3 ID : **264330530830**
Option 4 ID : **264330530828**
Status : **Answered**
Chosen Option : **2**

Join Telegram Group "HaryanaJobs.in"

Q.20 2022 तक, भारत के पड़ोसी देश मालदीव की राजधानी क्या है?

Ans
1. कोलंबो (Colombo)
2. कवरत्ती(Kavaratti)
3. अबु धाबी (Abu Dhabi)
4. माले (Male)

Question Type : **MCQ**
Question ID : **264330137956**
Option 1 ID : **264330540433**
Option 2 ID : **264330540432**
Option 3 ID : **264330540434**
Option 4 ID : **264330540431**
Status : **Answered**
Chosen Option : **4**

Q.21 भारत की मानक याम्योत्तर (82°30' E) भारत के _____ राज्य से होकर गुजरती है।

Ans
1. कर्नाटक
2. पंजाब
3. मध्यप्रदेश
4. पश्चिम बंगाल

Question Type : **MCQ**
Question ID : **264330135469**
Option 1 ID : **264330530784**
Option 2 ID : **264330530783**
Option 3 ID : **264330530786**
Option 4 ID : **264330530785**
Status : **Not Answered**
Chosen Option : **--**

Q.22 तराइन का प्रथम युद्ध _____ के बीच लड़ा गया था।

Ans
1. पृथ्वीराज चौहान और मुहम्मद बिन कासिम
2. पृथ्वीराज चौहान और महमूद गजनवी
3. पृथ्वीराज चौहान और कुतुबुद्दीन ऐबक
4. पृथ्वीराज चौहान और मोहम्मद गौरी

Question Type : **MCQ**
Question ID : **264330134070**
Option 1 ID : **264330525303**
Option 2 ID : **264330525304**
Option 3 ID : **264330525306**
Option 4 ID : **264330525305**
Status : **Answered**
Chosen Option : **4**

Join Telegram Group "HaryanaJobs.in"

Q.23 गर्भ के चिकित्सकीय समापन संशोधन विधेयक, 2021 (The Medical Termination of Pregnancy(MTP) (Amendment) Bill, 2021) द्वारा कुछ श्रेणियों की महिलाओं के लिए गर्भपात की ऊपरी सीमा को 20 सप्ताह से बढ़ाकर _____ सप्ताह कर दिया गया है।

Ans

✗ 1. 26

✗ 2. 22

✓ 3. 24

✗ 4. 28

Question Type : **MCQ**
Question ID : **264330137920**
Option 1 ID : **264330540289**
Option 2 ID : **264330540288**
Option 3 ID : **264330540287**
Option 4 ID : **264330540290**
Status : **Not Answered**
Chosen Option : **--**

Q.24 Meri Policy Mere Hath scheme was launched by _____ Ministry of India in 2022.

Ans

✗ 1. Social Justice & Empowerment

✗ 2. Housing and Urban Affairs

✓ 3. Agriculture and Farmers Welfare

✗ 4. Human Resource Development

Question Type : **MCQ**
Question ID : **264330135459**
Option 1 ID : **264330530744**
Option 2 ID : **264330530745**
Option 3 ID : **264330530746**
Option 4 ID : **264330530743**
Status : **Not Answered**
Chosen Option : **--**

Q.25 प्रसिद्ध राजस्थानी लोक नृत्यांगना गुलाबो सपेरा को _____ नृत्य के लिए जाना जाता है।

Ans

✗ 1. गरबा

✗ 2. बिहू

✗ 3. झूमर

✓ 4. कालबेलिया

Question Type : **MCQ**
Question ID : **264330138928**
Option 1 ID : **264330544322**
Option 2 ID : **264330544320**
Option 3 ID : **264330544319**
Option 4 ID : **264330544321**
Status : **Not Answered**
Chosen Option : **--**

Section : **English Language and Comprehension**

Join Telegram Group "HaryanaJobs.in"

Q.1 **Improve the underlined part of the sentence. Choose 'No improvement' as an answer if the sentence is grammatically correct.**
Raccoons <u>have being more</u> active at night.

Ans
✗ 1. are few
✓ 2. are more
✗ 3. are much
✗ 4. No improvement

Question Type : **MCQ**
Question ID : **264330134505**
Option 1 ID : **264330526985**
Option 2 ID : **264330526983**
Option 3 ID : **264330526984**
Option 4 ID : **264330526986**
Status : **Answered**
Chosen Option : **2**

Q.2 Select the appropriate synonym for the underlined word.

You should never <u>judge</u> a person without knowing the truth.

Ans
✗ 1. care
✗ 2. wink
✗ 3. pacify
✓ 4. decide

Question Type : **MCQ**
Question ID : **264330135220**
Option 1 ID : **264330529805**
Option 2 ID : **264330529803**
Option 3 ID : **264330529804**
Option 4 ID : **264330529806**
Status : **Answered**
Chosen Option : **4**

Q.3 Choose the word that means the same as the given word.

Abide

Ans
✓ 1. Dwell
✗ 2. Decamp
✗ 3. Repudiate
✗ 4. Vamoose

Question Type : **MCQ**
Question ID : **264330136838**
Option 1 ID : **264330536045**
Option 2 ID : **264330536044**
Option 3 ID : **264330536043**
Option 4 ID : **264330536046**
Status : **Answered**
Chosen Option : **1**

Join Telegram Group "HaryanaJobs.in"

Q.4 Choose the incorrectly spelt word.

Ans
✗ 1. Flowing
✓ 2. Ornage
✗ 3. Famous
✗ 4. Leader

Question Type : **MCQ**
Question ID : **264330135226**
Option 1 ID : **264330529829**
Option 2 ID : **264330529827**
Option 3 ID : **264330529828**
Option 4 ID : **264330529830**
Status : **Answered**
Chosen Option : **2**

Q.5 Select the word segment that substitutes (replaces) the bracketed word segment correctly and completes the sentence meaningfully. Select the option 'no correction required' if the sentence is correct as given.

With a (sudden push off understanding), Harry realised who the people in the end beds must be.

Ans
✗ 1. suddenly rushed understanding
✓ 2. sudden rush of understanding
✗ 3. all of sudden understand
✗ 4. No correction required

Question Type : **MCQ**
Question ID : **264330136388**
Option 1 ID : **264330534319**
Option 2 ID : **264330534320**
Option 3 ID : **264330534321**
Option 4 ID : **264330534322**
Status : **Answered**
Chosen Option : **2**

Q.6 Select the most appropriate antonym of the given word.

Reverence

Ans
✗ 1. Deference
✓ 2. Scorn
✗ 3. Honour
✗ 4. Venerate

Question Type : **MCQ**
Question ID : **264330136309**
Option 1 ID : **264330534012**
Option 2 ID : **264330534011**
Option 3 ID : **264330534013**
Option 4 ID : **264330534014**
Status : **Answered**
Chosen Option : **2**

Join Telegram Group "HaryanaJobs.in"

Q.7 Select the most appropriate option to fill in the blank.

The most common sports injury is a _____.

Ans
1. brush
2. bruise
3. breve
4. brews

Question Type : **MCQ**
Question ID : **264330136819**
Option 1 ID : **264330535974**
Option 2 ID : **264330535972**
Option 3 ID : **264330535971**
Option 4 ID : **264330535973**
Status : **Answered**
Chosen Option : **2**

Q.8 Improve the underlined part of the sentence. Choose 'No improvement' as an answer if the sentence is grammatically correct.

All work and none play makes Jack a dull boy.

Ans
1. none plays
2. no played
3. no play
4. No improvement

Question Type : **MCQ**
Question ID : **264330135261**
Option 1 ID : **264330529964**
Option 2 ID : **264330529963**
Option 3 ID : **264330529965**
Option 4 ID : **264330529966**
Status : **Answered**
Chosen Option : **3**

Q.9 **Choose the word that can substitute the given group of words.**
One who has lost one's parents

Ans
1. Orphan
2. Snob
3. Recluse
4. Martyr

Question Type : **MCQ**
Question ID : **264330134542**
Option 1 ID : **264330527126**
Option 2 ID : **264330527124**
Option 3 ID : **264330527125**
Option 4 ID : **264330527123**
Status : **Answered**
Chosen Option : **1**

Join Telegram Group "HaryanaJobs.in"

Q.10 Select the appropriate antonym for the underlined word.

It was a very generous and jolly voice.

Ans
- ✔ 1. morose
- ✘ 2. festive
- ✘ 3. tabular
- ✘ 4. witty

Question Type : **MCQ**
Question ID : **264330135223**
Option 1 ID : **264330529818**
Option 2 ID : **264330529815**
Option 3 ID : **264330529816**
Option 4 ID : **264330529817**
Status : **Answered**
Chosen Option : **1**

Q.11 **In the following question, out of the given four alternatives, select the alternative which best expresses the meaning of the Idiom/Phrase.**
On the job

Ans
- ✘ 1. In the war
- ✘ 2. On the contrary
- ✘ 3. Avoiding the work
- ✔ 4. Working at a particular job

Question Type : **MCQ**
Question ID : **264330134548**
Option 1 ID : **264330527147**
Option 2 ID : **264330527150**
Option 3 ID : **264330527149**
Option 4 ID : **264330527148**
Status : **Answered**
Chosen Option : **1**

Q.12 Find the part of the given sentence that has an error in it. If there is no error, choose 'No error'.

Without the greenhouse effect, Earths temperature would be below freezing.

Ans
- ✘ 1. No error
- ✔ 2. Earths temperature would
- ✘ 3. be below freezing.
- ✘ 4. Without the greenhouse effect,

Question Type : **MCQ**
Question ID : **264330135206**
Option 1 ID : **264330529754**
Option 2 ID : **264330529752**
Option 3 ID : **264330529753**
Option 4 ID : **264330529751**
Status : **Answered**
Chosen Option : **2**

Join Telegram Group "HaryanaJobs.in"

Q.13 Choose the sentence with no spelling error.

Ans

✗ 1. It is not even a concious process.

✗ 2. It is not even a consciuos process.

✗ 3. It is not even a conscious proccess.

✓ 4. It is not even a conscious process.

Question Type : **MCQ**
Question ID : **264330136818**
Option 1 ID : **264330535969**
Option 2 ID : **264330535967**
Option 3 ID : **264330535968**
Option 4 ID : **264330535970**
Status : **Answered**
Chosen Option : **4**

Q.14 Find the part of the given sentence that has an error in it. If there is no error, choose 'No error'.

My research focus on marine mammal behaviour, ecology and conservation.

Ans

✓ 1. My research focus on

✗ 2. marine mammal behaviour,

✗ 3. ecology and conservation.

✗ 4. No error

Question Type : **MCQ**
Question ID : **264330134798**
Option 1 ID : **264330528135**
Option 2 ID : **264330528136**
Option 3 ID : **264330528137**
Option 4 ID : **264330528138**
Status : **Answered**
Chosen Option : **2**

Q.15 A sentence has been given with a blank to be filled with an appropriate option. Choose the correct alternative.

I am not sure _____ wearing this black dress.

Ans

✗ 1. with

✓ 2. about

✗ 3. in

✗ 4. off

Question Type : **MCQ**
Question ID : **264330135210**
Option 1 ID : **264330529770**
Option 2 ID : **264330529767**
Option 3 ID : **264330529769**
Option 4 ID : **264330529768**
Status : **Answered**
Chosen Option : **2**

Join Telegram Group "HaryanaJobs.in"

Q.16 In the following question, out of the given four alternatives, select the alternative which best expresses the meaning of the Idiom/Phrase.

To pull the trigger

Ans

✗ 1. To do unnecessary things

✓ 2. To commit a course of action

✗ 3. To insult and disgrace the people

✗ 4. To make an exaggerated statement

Question Type : **MCQ**
Question ID : **264330135225**
Option 1 ID : **264330529826**
Option 2 ID : **264330529824**
Option 3 ID : **264330529823**
Option 4 ID : **264330529825**
Status : **Answered**
Chosen Option : **4**

Q.17 Select the most appropriate option to fill in the blank.

Since the temperatures can soar in summer, choose clothing that is lightweight and _____.

Ans

✗ 1. hefty

✗ 2. airtight

✗ 3. bulky

✓ 4. breathable

Question Type : **MCQ**
Question ID : **264330135229**
Option 1 ID : **264330529841**
Option 2 ID : **264330529842**
Option 3 ID : **264330529840**
Option 4 ID : **264330529839**
Status : **Answered**
Chosen Option : **4**

Q.18 Choose the word that can substitute the given group of words.

A residence for nuns

Ans

✗ 1. Monastery

✓ 2. Convent

✗ 3. Refugee

✗ 4. Mint

Question Type : **MCQ**
Question ID : **264330135219**
Option 1 ID : **264330529802**
Option 2 ID : **264330529799**
Option 3 ID : **264330529800**
Option 4 ID : **264330529801**
Status : **Answered**
Chosen Option : **2**

Join Telegram Group "HaryanaJobs.in"

Q.19 Identify the segment that contains a grammatical error. If there is no error, select 'No error'.

Professor Murli's eyebrows / rose a little higher and his / gaze became distinctly coldest.

Ans

✗ 1. rose a little higher and his

✓ 2. gaze became distinctly coldest.

✗ 3. No error

✗ 4. Professor Murli's eyebrows

Question Type : **MCQ**
Question ID : **264330136385**
Option 1 ID : **264330534308**
Option 2 ID : **264330534309**
Option 3 ID : **264330534310**
Option 4 ID : **264330534307**
Status : **Answered**
Chosen Option : **2**

Q.20 A sentence has been given with a blank to be filled with an appropriate option. Choose the correct alternative.

_____ every nation in the world is now administering vaccines.

Ans

✗ 1. Nearest

✗ 2. Near

✓ 3. Nearly

✗ 4. Nearer

Question Type : **MCQ**
Question ID : **264330136854**
Option 1 ID : **264330536107**
Option 2 ID : **264330536110**
Option 3 ID : **264330536108**
Option 4 ID : **264330536109**
Status : **Answered**
Chosen Option : **3**

Join Telegram Group "HaryanaJobs.in"

Comprehension:

In the following passage some words have been deleted. Fill in the blanks with the help of the alternatives given. Select the most appropriate option for each number.

(1) _____ people think that we can learn a lot about the culture of a foreign country (2) _____ by living in that country. However, this is not necessarily true. Often, the longer we stay in a (3) _____ country, the more we realize how little we actually know about the culture of that country. Books and talks about other people's (4) _____ can even be dangerous because they concentrate on cultural differences and (5) _____ national character, and sometimes a lot of information they contain is untrue.

SubQuestion No : 21

Q.21 Select the most appropriate option to fill in blank number 1.

Ans

✔ 1. Many

✘ 2. Each

✘ 3. Few

✘ 4. Every

Question Type : **MCQ**
Question ID : **264330136300**
Option 1 ID : **264330533975**
Option 2 ID : **264330533977**
Option 3 ID : **264330533976**
Option 4 ID : **264330533978**
Status : **Answered**
Chosen Option : **1**

Comprehension:

In the following passage some words have been deleted. Fill in the blanks with the help of the alternatives given. Select the most appropriate option for each number.

(1) _____ people think that we can learn a lot about the culture of a foreign country (2) _____ by living in that country. However, this is not necessarily true. Often, the longer we stay in a (3) _____ country, the more we realize how little we actually know about the culture of that country. Books and talks about other people's (4) _____ can even be dangerous because they concentrate on cultural differences and (5) _____ national character, and sometimes a lot of information they contain is untrue.

SubQuestion No : 22

Q.22 Select the most appropriate option to fill in blank number 2.

Ans

✘ 1. directly

✘ 2. precisely

✔ 3. simply

✘ 4. formally

Question Type : **MCQ**
Question ID : **264330136301**
Option 1 ID : **264330533979**
Option 2 ID : **264330533980**
Option 3 ID : **264330533981**
Option 4 ID : **264330533982**
Status : **Answered**
Chosen Option : **3**

Join Telegram Group "HaryanaJobs.in"

Comprehension:

In the following passage some words have been deleted. Fill in the blanks with the help of the alternatives given. Select the most appropriate option for each number.

(1) _____ people think that we can learn a lot about the culture of a foreign country (2) _____ by living in that country. However, this is not necessarily true. Often, the longer we stay in a (3) _____ country, the more we realize how little we actually know about the culture of that country. Books and talks about other people's (4) _____ can even be dangerous because they concentrate on cultural differences and (5) _____ national character, and sometimes a lot of information they contain is untrue.

SubQuestion No : 23

Q.23 Select the most appropriate option to fill in blank number 3.

Ans

✔ 1. foreign

✘ 2. benign

✘ 3. reign

✘ 4. sovereign

Question Type : **MCQ**
Question ID : **264330136302**
Option 1 ID : **264330533984**
Option 2 ID : **264330533986**
Option 3 ID : **264330533985**
Option 4 ID : **264330533983**
Status : **Answered**
Chosen Option : **1**

Comprehension:

In the following passage some words have been deleted. Fill in the blanks with the help of the alternatives given. Select the most appropriate option for each number.

(1) _____ people think that we can learn a lot about the culture of a foreign country (2) _____ by living in that country. However, this is not necessarily true. Often, the longer we stay in a (3) _____ country, the more we realize how little we actually know about the culture of that country. Books and talks about other people's (4) _____ can even be dangerous because they concentrate on cultural differences and (5) _____ national character, and sometimes a lot of information they contain is untrue.

SubQuestion No : 24

Q.24 Select the most appropriate option to fill in blank number 4.

Ans

✔ 1. culture

✘ 2. conjecture

✘ 3. caricature

✘ 4. stature

Question Type : **MCQ**
Question ID : **264330136303**
Option 1 ID : **264330533989**
Option 2 ID : **264330533987**
Option 3 ID : **264330533990**
Option 4 ID : **264330533988**
Status : **Answered**
Chosen Option : **1**

Join Telegram Group "HaryanaJobs.in"

Comprehension:

In the following passage some words have been deleted. Fill in the blanks with the help of the alternatives given. Select the most appropriate option for each number.

(1) _____ people think that we can learn a lot about the culture of a foreign country (2) _____ by living in that country. However, this is not necessarily true. Often, the longer we stay in a (3) _____ country, the more we realize how little we actually know about the culture of that country. Books and talks about other people's (4) _____ can even be dangerous because they concentrate on cultural differences and (5) _____ national character, and sometimes a lot of information they contain is untrue.

SubQuestion No : 25

Q.25 Select the most appropriate option to fill in blank number 5.

Ans

✗ 1. proliferate

✗ 2. concentrate

✗ 3. considerate

✓ 4. exaggerate

Question Type : **MCQ**
Question ID : **264330136304**
Option 1 ID : **264330533994**
Option 2 ID : **264330533993**
Option 3 ID : **264330533992**
Option 4 ID : **264330533991**
Status : **Answered**
Chosen Option : **3**

Join Telegram Group "HaryanaJobs.in"

Multi Tasking Non Technical Staff and Havaldar CBIC and CBN Examination 2022

Roll Number	HaryanaJobs.in
Candidate Name	HaryanaJobs.in
Venue Name	iON Digital Zone iDZ Chitoura Road
Exam Date	10/05/2023
Exam Time	9:00 AM - 10:30 AM
Subject	MTS Non Tech Havaldar CBIC and CBN Examination 2022

Section : **Numerical and Mathematical Ability**

Q.1 नीचे दिए गए वृत्त आलेख में 8 विद्यालयों में लड़कों की संख्या को दर्शाया गया है। इन सभी 8 विद्यालयों में लड़कों की कुल संख्या 8000 है। इनमें से किसी एक विशिष्ट विद्यालय में लड़कों की संख्या को इन सभी 8 विद्यालयों में लड़कों की कुल संख्या के प्रतिशत के रूप में दर्शाया गया है।

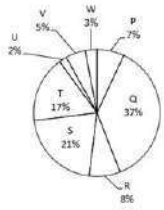

P, R, T और W में लड़कों की औसत संख्या और Q और V में लड़कों की औसत संख्या का योग कितना है?

Ans
✗ 1. 1980
✗ 2. 2180
✗ 3. 2580
✓ 4. 2380

Question Type : **MCQ**
Question ID : **264330137195**
Option 1 ID : **264330537424**
Option 2 ID : **264330537426**
Option 3 ID : **264330537423**
Option 4 ID : **264330537425**
Status : **Answered**
Chosen Option : **4**

Q.2 Rs.14,400 की धनराशि पर 2 वर्ष के लिए चक्रवृद्धि ब्याज और साधारण ब्याज के बीच का अंतर Rs.3600 है। ब्याज दर ज्ञात कीजिए।

Ans
✗ 1. 30%
✓ 2. 50%
✗ 3. 35%
✗ 4. 10%

Question Type : **MCQ**
Question ID : **264330135077**
Option 1 ID : **264330529244**
Option 2 ID : **264330529246**
Option 3 ID : **264330529245**
Option 4 ID : **264330529243**
Status : **Answered**
Chosen Option : **2**

Join Telegram Group "HaryanaJobs.in"

Q.3 A अकेले किसी कार्य को 30 दिनों में कर सकता है। A ने 5 दिनों तक कार्य किया और फिर B ने अकेले शेष कार्य को 10 दिनों में पूरा किया। B अकेले पूरे कार्य को कितने दिनों में समाप्त कर सकता है?

Ans

1. ✗ 10 दिन
2. ✓ 12 दिन
3. ✗ 15 दिन
4. ✗ 18 दिन

Question Type : **MCQ**
Question ID : **264330138051**
Option 1 ID : **264330540811**
Option 2 ID : **264330540812**
Option 3 ID : **264330540813**
Option 4 ID : **264330540814**
Status : **Answered**
Chosen Option : **2**

Q.4 स्थिर जल में एक नाव की चाल 9 km/hr है और धारा की चाल 6 km/hr है। यदि एक व्यक्ति धारा के विपरीत 45 km की दूरी तय करके प्रारंभिक बिंदु पर वापस आता है, तो उसके द्वारा लिया गया कुल समय कितना है?

Ans

1. ✓ 18 घंटे
2. ✗ 24 घंटे
3. ✗ 20 घंटे
4. ✗ 30 घंटे

Question Type : **MCQ**
Question ID : **264330137176**
Option 1 ID : **264330537349**
Option 2 ID : **264330537348**
Option 3 ID : **264330537347**
Option 4 ID : **264330537350**
Status : **Answered**
Chosen Option : **1**

Q.5 12.6 cm आधार की त्रिज्या और 4 m ऊँचाई वाले एक बेलनाकार लोहे के पात्र का भार ज्ञात कीजिए, जहाँ 1 cm^3 लोहे का भार 2 ग्राम है?

Ans

1. ✓ 399.168 kg
2. ✗ 299.284 kg
3. ✗ 199.584 kg
4. ✗ 499.482 kg

Question Type : **MCQ**
Question ID : **264330138056**
Option 1 ID : **264330540831**
Option 2 ID : **264330540834**
Option 3 ID : **264330540832**
Option 4 ID : **264330540833**
Status : **Answered**
Chosen Option : **1**

Join Telegram Group "HaryanaJobs.in"

Q.6 $\frac{49 - 7\times5 + 3\times21}{98 + 49\times2 - 195}$ का मान क्या है?

Ans
1. 7
2. 77
3. 22
4. 11

Question Type : **MCQ**
Question ID : **264330137192**
Option 1 ID : **264330537411**
Option 2 ID : **264330537412**
Option 3 ID : **264330537414**
Option 4 ID : **264330537413**
Status : **Answered**
Chosen Option : **2**

Q.7 55 वर्षों के बाद, r प्रतिशत की दर से साधारण ब्याज पर निवेश की गई राशि स्वयं की दोगुनी हो जाती है। 'r' का मान क्या है?

Ans
1. 13/15%
2. 17/20%
3. 20/11%
4. 11/30%

Question Type : **MCQ**
Question ID : **264330135402**
Option 1 ID : **264330530516**
Option 2 ID : **264330530517**
Option 3 ID : **264330530515**
Option 4 ID : **264330530518**
Status : **Answered**
Chosen Option : **3**

Q.8 एक गिलास Rs. 1378 में बेचकर एक आदमी 6 प्रतिशत का लाभ अर्जित करता है। यदि वह इसे Rs. 1079 में बेचता है, तो हानि प्रतिशत क्या होगा?

Ans
1. 18 प्रतिशत
2. 15 प्रतिशत
3. 17 प्रतिशत
4. 11 प्रतिशत

Question Type : **MCQ**
Question ID : **264330137182**
Option 1 ID : **264330537371**
Option 2 ID : **264330537373**
Option 3 ID : **264330537374**
Option 4 ID : **264330537372**
Status : **Answered**
Chosen Option : **3**

Join Telegram Group "HaryanaJobs.in"

Q.9 एक समद्विबाहु त्रिभुज में, यदि समान भुजा और असमान भुजा का अनुपात 5:7 है और इसका परिमाप 34 cm है, तो समान भुजा की लंबाई कितनी है?

Ans

1. ✗ 18 cm
2. ✗ 34 cm
3. ✓ 10 cm
4. ✗ 14 cm

Question Type : **MCQ**
Question ID : **264330133854**
Option 1 ID : **264330524441**
Option 2 ID : **264330524442**
Option 3 ID : **264330524440**
Option 4 ID : **264330524439**
Status : **Answered**
Chosen Option : **3**

Q.10 A और B एक साझेदारी में इस प्रकार शामिल होते हैं कि A के निवेश का 5 गुना B के निवेश के 7 गुना के बराबर है। यदि कुल लाभ Rs. 12000 है, तो इसमें A का हिस्सा कितना है?

Ans

1. ✗ Rs.6300
2. ✓ Rs.7000
3. ✗ Rs.8000
4. ✗ Rs.7500

Question Type : **MCQ**
Question ID : **264330137183**
Option 1 ID : **264330537375**
Option 2 ID : **264330537377**
Option 3 ID : **264330537378**
Option 4 ID : **264330537376**
Status : **Answered**
Chosen Option : **2**

Q.11 20 कलमों का औसत मूल्य Rs.18 है। यदि 12 नई कलमें शामिल कर लिए जाएँ, तो औसत मूल्य में Rs.4 की वृद्धि हो जाती है। नई कलमों का कुल मूल्य क्या है?

Ans

1. ✗ Rs.384
2. ✗ Rs.368
3. ✗ Rs.328
4. ✓ Rs.344

Question Type : **MCQ**
Question ID : **264330139080**
Option 1 ID : **264330544927**
Option 2 ID : **264330544929**
Option 3 ID : **264330544930**
Option 4 ID : **264330544928**
Status : **Answered**
Chosen Option : **4**

Join Telegram Group "HaryanaJobs.in"

Q.12 80 cm, 90 cm और 112 cm लम्बाइयों का लघुत्तम समापवर्त्य क्या है?

Ans
✗ 1. 4840 cm
✗ 2. 4250 cm
✓ 3. 5040 cm
✗ 4. 5680 cm

Question Type : **MCQ**
Question ID : **264330137191**
Option 1 ID : **264330537408**
Option 2 ID : **264330537407**
Option 3 ID : **264330537409**
Option 4 ID : **264330537410**
Status : **Answered**
Chosen Option : **3**

Q.13 निम्नलिखित तालिका में छः अलग-अलग विषयों में पाँच छात्रों द्वारा प्राप्त अंकों को दर्शाया गया है। ईशा द्वारा कुल कितने प्रतिशत अंक प्राप्त किए गए हैं?

Students/ Subject	Hindi (Out of 100)	English (Out of 100)	Maths (Out of 150)	S.St (Out of 150)	Science (Out 150)	Computer (Out of 50)
Anchal	84	62	100	140	112	40
Bhavana	92	80	132	148	145	42
Isha	80	60	104	132	105	45
Anuradha	81	71	110	140	125	48
Manjari	78	70	108	135	130	40

Subject - विषय,
Hindi (out of 100) - हिंदी (100 में से), English (out of 100) - अंग्रेजी (100 में से),
Maths (out of 150) - गणित (150 में से), S.st (out of 150) - सामाजिक अध्ययन (150 में से),
Science (out of 150) - विज्ञान (150 में से), Computer (out of 50) - कंप्यूटर (50 में से)
Students - छात्र,
Anchal - आंचल, Bhavana - भावना, Isha - ईशा,
Anuradha - अनुराधा, Manjari - मंजरी

Ans
✓ 1. 75.14%
✗ 2. 72.56%
✗ 3. 80.42%
✗ 4. 84.66%

Question Type : **MCQ**
Question ID : **264330138363**
Option 1 ID : **264330542061**
Option 2 ID : **264330542059**
Option 3 ID : **264330542060**
Option 4 ID : **264330542062**
Status : **Answered**
Chosen Option : **1**

Join Telegram Group "HaryanaJobs.in"

Q.14 $6 + 6\ of\ 6 \div 6 - \frac{6}{5}$ का मान ज्ञात कीजिए।

Ans
1. 6/5
2. 44/5
3. 12/5
4. 54/5 ✔

Question Type : **MCQ**
Question ID : **264330138347**
Option 1 ID : **264330541996**
Option 2 ID : **264330541998**
Option 3 ID : **264330541997**
Option 4 ID : **264330541995**
Status : **Answered**
Chosen Option : **4**

Q.15 A किसी काम को 16 दिनों में कर सकता है। B उसी काम को 24 दिनों में कर सकता है। A अकेले काम शुरू करता है। कितने दिनों के बाद B को उसके साथ शामिल हो जाना चाहिए जिससे काम 10 दिनों में समाप्त हो जाए?

Ans
1. 5 दिन
2. 6 दिन
3. 1 दिन ✔
4. 2 दिन

Question Type : **MCQ**
Question ID : **264330133849**
Option 1 ID : **264330524419**
Option 2 ID : **264330524420**
Option 3 ID : **264330524422**
Option 4 ID : **264330524421**
Status : **Answered**
Chosen Option : **3**

Q.16 एक व्यक्ति के व्यय और बचत का अनुपात 4 : 3 है। उसका व्यय उसकी प्रारंभिक बचत के 1/4 से बढ़ जाता है और उसकी आय में Rs. 300 की वृद्धि होती है। यदि उसकी बचत अपरिवर्तित रहती है, तो उसका प्रारंभिक व्यय कितना है?

Ans
1. Rs.20000
2. Rs.12000
3. Rs.1600 ✔
4. Rs.10000

Question Type : **MCQ**
Question ID : **264330137184**
Option 1 ID : **264330537381**
Option 2 ID : **264330537379**
Option 3 ID : **264330537382**
Option 4 ID : **264330537380**
Status : **Answered**
Chosen Option : **3**

Join Telegram Group "HaryanaJobs.in"

Q.17 जब किसी संख्या में 112 की वृद्धि की जाती है, तो वह स्वयं की 170% हो जाती है। वह संख्या ज्ञात कीजिए।

Ans
1. 180 ✗
2. 200 ✗
3. 150 ✗
4. 160 ✓

Question Type : **MCQ**
Question ID : **264330135070**
Option 1 ID : **264330529217**
Option 2 ID : **264330529218**
Option 3 ID : **264330529215**
Option 4 ID : **264330529216**
Status : **Answered**
Chosen Option : **4**

Q.18 एक दुकानदार किसी वस्तु को 20 प्रतिशत की छूट देने के बाद 10 प्रतिशत हानि पर बेचता है। वस्तु के क्रय मूल्य और अंकित मूल्य का अनुपात कितना है?

Ans
1. 5 : 8 ✗
2. 4 : 9 ✗
3. 8 : 9 ✓
4. 7 : 9 ✗

Question Type : **MCQ**
Question ID : **264330137187**
Option 1 ID : **264330537391**
Option 2 ID : **264330537394**
Option 3 ID : **264330537392**
Option 4 ID : **264330537393**
Status : **Answered**
Chosen Option : **3**

Q.19 रमन का 5 दिनों का औसत खर्च Rs. 160 है। यदि पहले 4 दिनों का उसका खर्च क्रमशः Rs. 90, Rs. 135, Rs. 75 और Rs. 180 है, तो 5वें दिन का उसका खर्च कितना है?

Ans
1. Rs.360 ✗
2. Rs.250 ✗
3. Rs.320 ✓
4. Rs.280 ✗

Question Type : **MCQ**
Question ID : **264330137177**
Option 1 ID : **264330537353**
Option 2 ID : **264330537351**
Option 3 ID : **264330537352**
Option 4 ID : **264330537354**
Status : **Answered**
Chosen Option : **3**

Join Telegram Group "HaryanaJobs.in"

Q.20 सोनम ने Rs. 4675 में एक पुरानी मोटर बाइक खरीदी और उसकी मरम्मत पर Rs. 225 खर्च किए। फिर उसने इसे Rs. 5390 में बेच दिया। उसका लाभ प्रतिशत क्या है?

Ans
1. 8%
2. 10%
3. 15%
4. 20%

Question Type : **MCQ**
Question ID : **264330138353**
Option 1 ID : **264330542020**
Option 2 ID : **264330542021**
Option 3 ID : **264330542019**
Option 4 ID : **264330542022**
Status : **Answered**
Chosen Option : **2**

Section : **Reasoning Ability and Problem Solving**

Q.1 उस समुच्चय को चुनिए जिसमें संख्याएँ ठीक उसी प्रकार संबंधित हैं जिस प्रकार निम्नलिखित समुच्चयों की संख्याएँ संबंधित हैं। (ध्यान दें: संख्याओं को उनके घटक अंकों में अलग-अलग किए बिना, पूर्ण संख्याओं पर संक्रियाएँ की जानी चाहिए। उदा. 13 - 13 पर संक्रियाएँ जैसे 13 को जोड़ना /घटाना /गुणा करना आदि किया जा सकता है। 13 को 1 और 3 में अलग-अलग करने की और फिर 1 और 3 पर गणितीय संक्रियाएँ करने की अनुमति नहीं है)
(6, 4, 48)
(8, 5, 80)

Ans
1. (4, 6, 36)
2. (3, 7, 42)
3. (5, 7, 42)
4. (2, 7, 14)

Question Type : **MCQ**
Question ID : **264330137359**
Option 1 ID : **264330538065**
Option 2 ID : **264330538063**
Option 3 ID : **264330538066**
Option 4 ID : **264330538064**
Status : **Answered**
Chosen Option : **2**

Q.2 दी गई श्रृंखला में निम्नलिखित में से कौन-सी संख्या प्रश्न चिन्ह (?) के स्थान पर आएगी?
14, 15, 30, 33, 132, 137, 822, ?

Ans
1. 829
2. 982
3. 819
4. 899

Question Type : **MCQ**
Question ID : **264330134967**
Option 1 ID : **264330528805**
Option 2 ID : **264330528803**
Option 3 ID : **264330528806**
Option 4 ID : **264330528804**
Status : **Answered**
Chosen Option : **1**

Join Telegram Group "HaryanaJobs.in"

Q.3 उस विकल्प आकृति को चुनिए जो नीचे दी गई आकृति में पैटर्न को पूरा करने के लिए प्रश्न चिन्ह (?) के स्थान पर आएगी। (घूर्णन की अनुमति नहीं है)

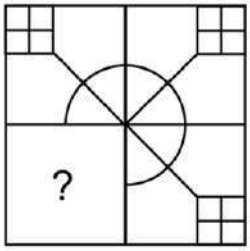

Ans

✗ 1.
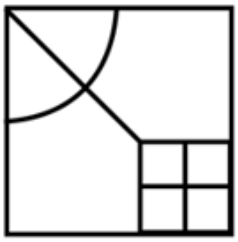

✗ 2.
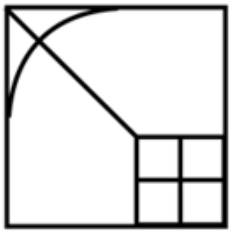

✗ 3.
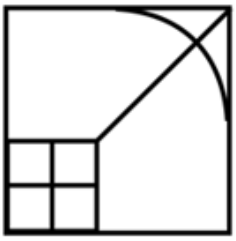

✓ 4.
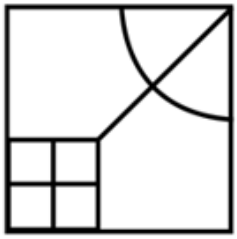

Question Type : **MCQ**
Question ID : **264330137364**
Option 1 ID : **264330538085**
Option 2 ID : **264330538083**
Option 3 ID : **264330538086**
Option 4 ID : **264330538084**
Status : **Answered**
Chosen Option : **4**

Join Telegram Group "HaryanaJobs.in"

Q.4 नीचे दिए गए समीकरण में कौन-से गणितीय चिन्हों को आपस में बदला जाना चाहिए जिससे यह समीकरण गणितीय रूप से सही हो जाए?
24 ÷ 15 × 16 + 4 - 18 = 66

Ans
✔ 1. ÷ और +
✘ 2. - और ×
✘ 3. - और +
✘ 4. ÷ और ×

Question Type : **MCQ**
Question ID : **264330137360**
Option 1 ID : **264330538068**
Option 2 ID : **264330538070**
Option 3 ID : **264330538069**
Option 4 ID : **264330538067**
Status : **Answered**
Chosen Option : **1**

Q.5 उस विकल्प को चुनिए जो तीसरे शब्द से ठीक उसी तरह संबंधित है जिस तरह दूसरा शब्द पहले शब्द से संबंधित है।
न्यूटन : बल :: जूल : ?

Ans
✘ 1. दाब
✘ 2. समय
✔ 3. कार्य
✘ 4. संवेग

Question Type : **MCQ**
Question ID : **264330137345**
Option 1 ID : **264330538009**
Option 2 ID : **264330538007**
Option 3 ID : **264330538008**
Option 4 ID : **264330538010**
Status : **Answered**
Chosen Option : **3**

Q.6 दी गई श्रृंखला में निम्नलिखित में से कौन-सी संख्या प्रश्न चिन्ह (?) के स्थान पर आएगी?
19, 27, 54, 118, 243, ?

Ans
✘ 1. 457
✘ 2. 449
✘ 3. 469
✔ 4. 459

Question Type : **MCQ**
Question ID : **264330137357**
Option 1 ID : **264330538055**
Option 2 ID : **264330538057**
Option 3 ID : **264330538058**
Option 4 ID : **264330538056**
Status : **Answered**
Chosen Option : **4**

Join Telegram Group "HaryanaJobs.in"

Q.7 P, Q, R, S और T एक बेंच पर उत्तर की ओर मुख करके बैठे हैं परंतु जरूरी नहीं कि इसी क्रम में बैठे हों। P, Q का निकटतम पड़ोसी है, S, T का निकटतम पड़ोसी है, P, R के साथ नहीं बैठा है, जो बेंच के दाएँ छोर पर बैठा है। P, S और T के दाईं ओर बैठा है। S, T के दाईं ओर बैठा है।

P किस स्थान पर बैठा है?

Ans

✗ 1. दाएँ से दूसरे स्थान पर

✓ 2. बाएँ से तीसरे स्थान पर

✗ 3. बाएँ से दूसरे स्थान पर

✗ 4. बाएँ से चौथे स्थान पर

Question Type : **MCQ**
Question ID : **264330137351**
Option 1 ID : **264330538033**
Option 2 ID : **264330538032**
Option 3 ID : **264330538031**
Option 4 ID : **264330538034**
Status : **Answered**
Chosen Option : **2**

Q.8 दिए गए दो चिन्हों को आपस में बदलने पर, निम्नलिखित में से कौनसा समीकरण सही नहीं होगा?

+ और -

I. 4 × 6 + 7 - 3 ÷ 1 = 21

II. 6 × 9 + 7 - 8 ÷ 2 = 51

Ans

✓ 1. केवल I

✗ 2. केवल II

✗ 3. I और II दोनों

✗ 4. न तो I और न ही II

Question Type : **MCQ**
Question ID : **264330135611**
Option 1 ID : **264330531343**
Option 2 ID : **264330531344**
Option 3 ID : **264330531345**
Option 4 ID : **264330531346**
Status : **Answered**
Chosen Option : **1**

Join Telegram Group "HaryanaJobs.in"

Q.9 दो कथन दिए गए हैं और दो निष्कर्ष I और II दिए गए हैं। कथनों को सत्य मानते हुए, चाहे वे सामान्यतः ज्ञात तथ्यों से अलग प्रतीत होते हों, निश्चय कीजिए कि कौन-सा निष्कर्ष तार्किक रूप से कथनों के अनुसार है।

कथन:

सभी गाजर, सब्जियाँ हैं।

कुछ सब्जियाँ, नाश्ता हैं।

निष्कर्ष:

I. सभी सब्जियाँ, गाजर हैं।

II. सभी गाजर, नाश्ता हैं।

Ans

✗ 1. दोनों निष्कर्ष I और II कथनों के अनुसार हैं

✗ 2. सिर्फ निष्कर्ष II कथनों के अनुसार है

✗ 3. सिर्फ निष्कर्ष I कथनों के अनुसार है

✓ 4. निष्कर्ष I और II में से कोई भी कथनों के अनुसार नहीं है

Question Type : **MCQ**
Question ID : **264330137354**
Option 1 ID : **264330538045**
Option 2 ID : **264330538044**
Option 3 ID : **264330538043**
Option 4 ID : **264330538046**
Status : **Answered**
Chosen Option : **4**

Q.10 एक निश्चित कूट भाषा में, 'SHOE' को '47' लिखा जाता है। उस भाषा में 'HELMET' को कैसे लिखा जाएगा?

Ans

✗ 1. 68

✓ 2. 63

✗ 3. 83

✗ 4. 72

Question Type : **MCQ**
Question ID : **264330134938**
Option 1 ID : **264330528688**
Option 2 ID : **264330528689**
Option 3 ID : **264330528690**
Option 4 ID : **264330528687**
Status : **Answered**
Chosen Option : **2**

Join Telegram Group "HaryanaJobs.in"

Q.11 दो कथन दिए गए हैं और दो निष्कर्ष I और II दिए गए हैं। कथनों को सत्य मानते हुए, चाहे वे सामान्यतः ज्ञात तथ्यों से अलग प्रतीत होते हों, निश्चय कीजिए कि कौन-सा निष्कर्ष तार्किक रूप से कथनों के अनुसार है।

कथन:

कोई प्लेट, मग नहीं है।

कुछ मग, मेज हैं।

निष्कर्ष:

I. सभी प्लेटों के मेज होने की संभावना है।

II. कुछ मेज, मग नहीं हैं।

Ans

1. केवल निष्कर्ष II कथनों के अनुसार है
2. केवल निष्कर्ष I कथनों के अनुसार है
3. दोनों निष्कर्ष I और II कथनों के अनुसार हैं
4. निष्कर्ष I और II में से कोई भी कथनों के अनुसार नहीं है

Question Type : **MCQ**
Question ID : **264330137355**
Option 1 ID : **264330538048**
Option 2 ID : **264330538047**
Option 3 ID : **264330538049**
Option 4 ID : **264330538050**
Status : **Answered**
Chosen Option : **4**

Join Telegram Group "HaryanaJobs.in"

Q.12 यदि एक दर्पण को रेखा AB पर रखा जाए, तो दी गई विकल्प आकृतियों में से कौन-सी आकृति प्रश्न आकृति का सही प्रतिबिम्ब होगी?

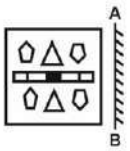

Ans

✗ 1.

✗ 2.

✗ 3. 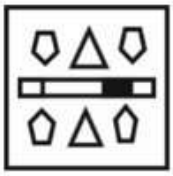

✓ 4.

Question Type : **MCQ**
Question ID : **264330138475**
Option 1 ID : **264330542507**
Option 2 ID : **264330542508**
Option 3 ID : **264330542510**
Option 4 ID : **264330542509**
Status : **Answered**
Chosen Option : **4**

Q.13 एक निश्चित कूट भाषा में, 'TYPING' को 'VAPING' लिखा जाता है। उस भाषा में 'WIPING' को कैसे लिखा जाएगा?

Ans

✓ 1. YKPING

✗ 2. VKPGNG

✗ 3. VIPING

✗ 4. VKPJNG

Question Type : **MCQ**
Question ID : **264330134936**
Option 1 ID : **264330528681**
Option 2 ID : **264330528680**
Option 3 ID : **264330528679**
Option 4 ID : **264330528682**
Status : **Answered**
Chosen Option : **1**

Join Telegram Group "HaryanaJobs.in"

Q.14 उस विकल्प को चुनिए जो तीसरे शब्द से ठीक उसी तरह संबंधित है जिस तरह दूसरा शब्द पहले शब्द से संबंधित है।
रतौंधी (Night blindness) : विटामिन ए :: स्कर्वी (Scurvy) : ?

Ans

✗ 1. विटामिन डी (Vitamin D)

✓ 2. विटामिन सी (Vitamin C)

✗ 3. विटामिन के (Vitamin K)

✗ 4. विटामिन ई (Vitamin E)

Question Type : **MCQ**
Question ID : **264330137346**
Option 1 ID : **264330538012**
Option 2 ID : **264330538014**
Option 3 ID : **264330538013**
Option 4 ID : **264330538011**
Status : **Answered**
Chosen Option : **2**

Q.15 एक निश्चित कूट भाषा में, 'DJ' को '410' लिखा जाता है। उस कूट भाषा में 'NS' को कैसे लिखा जाएगा?

Ans

✗ 1. 1320

✗ 2. 1420

✓ 3. 1419

✗ 4. 1319

Question Type : **MCQ**
Question ID : **264330137790**
Option 1 ID : **264330539767**
Option 2 ID : **264330539769**
Option 3 ID : **264330539770**
Option 4 ID : **264330539768**
Status : **Answered**
Chosen Option : **3**

Join Telegram Group "HaryanaJobs.in"

Q.16 उस विकल्प आकृति को चुनिए जिसमें दी गई आकृति निहित है। (घूर्णन की अनुमति नहीं है)

Ans

✔ 1.

✘ 2.

✘ 3.

✘ 4.

Question Type : **MCQ**
Question ID : **264330138474**
Option 1 ID : **264330542504**
Option 2 ID : **264330542505**
Option 3 ID : **264330542503**
Option 4 ID : **264330542506**
Status : **Answered**
Chosen Option : **1**

Q.17 दी गई श्रृंखला में निम्नलिखित में से कौन-सा अक्षर-समूह प्रश्न चिन्ह (?) के स्थान पर आएगा?
XF, UI, RL, OO, ?

Ans

✘ 1. LS

✔ 2. LR

✘ 3. KS

✘ 4. KR

Question Type : **MCQ**
Question ID : **264330137343**
Option 1 ID : **264330537999**
Option 2 ID : **264330538000**
Option 3 ID : **264330538001**
Option 4 ID : **264330538002**
Status : **Answered**
Chosen Option : **2**

Join Telegram Group "HaryanaJobs.in"

Q.18 उस विकल्प को चुनिए जो तीसरी संख्या से ठीक उसी प्रकार संबंधित है जिस प्रकार दूसरी संख्या पहली संख्या से संबंधित है।
441 : 9261 : : 169 : ?

Ans
✔ 1. 2197
✘ 2. 2019
✘ 3. 2719
✘ 4. 2917

Question Type : **MCQ**
Question ID : **264330134969**
Option 1 ID : **264330528813**
Option 2 ID : **264330528814**
Option 3 ID : **264330528812**
Option 4 ID : **264330528811**
Status : **Answered**
Chosen Option : **1**

Q.19 A, B, C, D, E, F, G, और H एक वर्गाकार मेज के चारों ओर केंद्र की ओर मुख करके बैठे हैं। उनमें से चार मेज के प्रत्येक कोने पर बैठे हैं, जबकि अन्य चार प्रत्येक भुजा के ठीक मध्य में बैठे हैं।

E जो एक भुजा के मध्य में बैठा है, G के बाईं ओर चौथे स्थान पर बैठा है। G और F के मध्य केवल एक व्यक्ति बैठा है। B, E का निकटतम पड़ोसी है। B और A के बीच केवल तीन व्यक्ति बैठे हैं। A, D का पड़ोसी नहीं है। H, C के ठीक बाईं ओर बैठा है। C, E के दाईं ओर तीसरे स्थान पर बैठा है।

D के दाईं ओर तीसरे स्थान पर कौन बैठा है?

Ans
✘ 1. G
✘ 2. B
✔ 3. H
✘ 4. C

Question Type : **MCQ**
Question ID : **264330137352**
Option 1 ID : **264330538038**
Option 2 ID : **264330538036**
Option 3 ID : **264330538037**
Option 4 ID : **264330538035**
Status : **Answered**
Chosen Option : **3**

Q.20 पाँच लड़कों अमन, बमन, चमन, दमन और फरहान की आयु अलग-अलग हैं। फरहान केवल अमन और बमन से बड़ा है। दमन केवल चमन से छोटा है। अमन सबसे छोटा नहीं है। कितने लड़के अमन से बड़े हैं?

Ans
✘ 1. 4
✔ 2. 3
✘ 3. 1
✘ 4. 2

Question Type : **MCQ**
Question ID : **264330137353**
Option 1 ID : **264330538042**
Option 2 ID : **264330538041**
Option 3 ID : **264330538039**
Option 4 ID : **264330538040**
Status : **Answered**
Chosen Option : **2**

Section : **General Awareness**

Join Telegram Group "HaryanaJobs.in"

Q.1 सन् 1867 में, केशव चन्द्र सेन ने आत्माराम पांडुरंग को _____ में प्रार्थना समाज की स्थापना करने में सहायता की थी।

Ans
1. पूना
2. बॉम्बे
3. कलकत्ता
4. चेन्नई

Question Type : **MCQ**
Question ID : **264330138237**
Option 1 ID : **264330541556**
Option 2 ID : **264330541555**
Option 3 ID : **264330541557**
Option 4 ID : **264330541558**
Status : **Not Answered**
Chosen Option : **--**

Q.2 स्टिरेप्सिन(Steapsin) एंजाइम जो वसा को वसा अम्ल और ग्लिसरॉल में बदल देता है, _____ से स्रावित होता है।

Ans
1. छोटी आँत
2. बड़ी आँत
3. अग्न्याशय
4. आमाशय

Question Type : **MCQ**
Question ID : **264330137067**
Option 1 ID : **264330536913**
Option 2 ID : **264330536914**
Option 3 ID : **264330536912**
Option 4 ID : **264330536911**
Status : **Answered**
Chosen Option : **3**

Q.3 5 अप्रैल, 2022 से संघ लोक सेवा आयोग (UPSC) के अध्यक्ष कौन हैं?

Ans
1. श्री भारत भूषण व्यास
2. सुश्री स्मिता नागराज
3. डॉ. मनोज सोनी
4. डॉ. टी.सी.ए. अनंत

Question Type : **MCQ**
Question ID : **264330134627**
Option 1 ID : **264330527465**
Option 2 ID : **264330527464**
Option 3 ID : **264330527463**
Option 4 ID : **264330527466**
Status : **Answered**
Chosen Option : **3**

Join Telegram Group "HaryanaJobs.in"

Q.4 भारतीय संविधान का अनुच्छेद _____ "संवैधानिक उपचारों के अधिकार (Right to Constitutional Remedies)" से संबंधित है।

Ans
✔ 1. 32 - 35
✘ 2. 22 - 25
✘ 3. 28 - 33
✘ 4. 25 - 30

Question Type : **MCQ**
Question ID : **264330137081**
Option 1 ID : **264330536970**
Option 2 ID : **264330536968**
Option 3 ID : **264330536967**
Option 4 ID : **264330536969**
Status : **Answered**
Chosen Option : **1**

Q.5 भारत सरकार द्वारा प्रधानमंत्री उज्ज्वला योजना कब शुरू की गई थी?

Ans
✘ 1. 2018
✘ 2. 2012
✘ 3. 2014
✔ 4. 2016

Question Type : **MCQ**
Question ID : **264330138233**
Option 1 ID : **264330541542**
Option 2 ID : **264330541539**
Option 3 ID : **264330541541**
Option 4 ID : **264330541540**
Status : **Answered**
Chosen Option : **4**

Q.6 उड़ीसा का रज पर्व (Raja Parba) त्योहार जीवंत सांस्कृतिक परंपरा और कृषि जीवन से संबंधित है। यह _____ के महीने में तीन दिनों के लिए आयोजित किया जाता है।

Ans
✘ 1. जुलाई
✔ 2. जून
✘ 3. अगस्त
✘ 4. सितंबर

Question Type : **MCQ**
Question ID : **264330138224**
Option 1 ID : **264330541503**
Option 2 ID : **264330541504**
Option 3 ID : **264330541505**
Option 4 ID : **264330541506**
Status : **Not Answered**
Chosen Option : **--**

Join Telegram Group "HaryanaJobs.in"

Q.7 2022 में लोकसभा में पारित कौन-सा विधेयक राष्ट्रीय रेल एवं परिवहन संस्थान, वड़ोदरा (एक मानित विश्वविद्यालय) को गति शक्ति विश्वविद्यालय में बदलने की मॉग करता है?

Ans
✗ 1. विनियोग विधेयक
✗ 2. प्रतिस्पर्धा (संशोधन) विधेयक
✓ 3. केंद्रीय विश्वविद्यालय (संशोधन) विधेयक
✗ 4. विश्वविद्यालय कानून (संशोधन) विधेयक

Question Type : **MCQ**
Question ID : **264330135460**
Option 1 ID : **264330530747**
Option 2 ID : **264330530749**
Option 3 ID : **264330530748**
Option 4 ID : **264330530750**
Status : **Not Answered**
Chosen Option : **--**

Q.8 निम्नलिखित में से कौन-सा बौद्ध विश्वविद्यालय भारत के बिहार में स्थित है?

Ans
✓ 1. नालंदा विश्वविद्यालय
✗ 2. वल्लभी विश्वविद्यालय
✗ 3. नवद्वीप विश्वविद्यालय
✗ 4. सोमपुरी विश्वविद्यालय

Question Type : **MCQ**
Question ID : **264330135463**
Option 1 ID : **264330530760**
Option 2 ID : **264330530762**
Option 3 ID : **264330530759**
Option 4 ID : **264330530761**
Status : **Answered**
Chosen Option : **1**

Q.9 "स्वराज मेरा जन्मसिद्ध अधिकार है और मैं इसे लेकर रहूँगा (Freedom is my birth right and I shall have it!)" का नारा किसने दिया था?

Ans
✗ 1. लाला लाजपत राय
✗ 2. बदरुद्दीन तैयबजी
✓ 3. बाल गंगाधर तिलक
✗ 4. बिपिन चंद्र पाल

Question Type : **MCQ**
Question ID : **264330134618**
Option 1 ID : **264330527427**
Option 2 ID : **264330527430**
Option 3 ID : **264330527428**
Option 4 ID : **264330527429**
Status : **Answered**
Chosen Option : **3**

Join Telegram Group "HaryanaJobs.in"

Q.10 _____ species are those species of plants and animals which are found exclusively in a particular area.

Ans
1. Threatened
2. Critically Endangered
3. Endangered
4. Endemic

Question Type : **MCQ**
Question ID : **264330134633**
Option 1 ID : **264330527487**
Option 2 ID : **264330527490**
Option 3 ID : **264330527489**
Option 4 ID : **264330527488**
Status : **Answered**
Chosen Option : **1**

Q.11 इस प्रसिद्ध भारतीय शास्त्रीय नृत्यांगना को पहचानिए।
वह भरतनाट्यम और ओडिसी नृत्य शैली दोनों की गुरु हैं। उन्हें वर्ष 1987 में संगीत नाटक अकादमी पुरस्कार मिला।

Ans
1. शोवना नारायण
2. पद्मा सुब्रह्मण्यम
3. मृणालिनी साराभाई
4. सोनल मानसिंह

Question Type : **MCQ**
Question ID : **264330134626**
Option 1 ID : **264330527462**
Option 2 ID : **264330527459**
Option 3 ID : **264330527460**
Option 4 ID : **264330527461**
Status : **Answered**
Chosen Option : **4**

Q.12 राष्ट्रपति द्रौपदी मुर्मू ने एक वर्चुअल इवेंट के माध्यम से _____ तक क्षय रोग को खत्म करने के लिए 'प्रधान मंत्री टीबी मुक्त भारत अभियान (Pradhan Mantri TB Mukt Bharat Abhiyan)' और निक्षय (Nikshay) 2.0 पोर्टल लॉन्च किया है।

Ans
1. 2025
2. 2035
3. 2028
4. 2030

Question Type : **MCQ**
Question ID : **264330137061**
Option 1 ID : **264330536890**
Option 2 ID : **264330536887**
Option 3 ID : **264330536888**
Option 4 ID : **264330536889**
Status : **Answered**
Chosen Option : **1**

Join Telegram Group "HaryanaJobs.in"

Q.13 इनमें से आनंद नीलकांतन के पहले उपन्यास का शीर्षक क्या है?

Ans
1. द इम्मोर्टल्स ऑफ मेलुहा (The Immortals of Meluha)
2. कादंबरी (Kadambari)
3. असुरा: टेल ऑफ़ द वैंक्विष्ड (Asura: Tale of the Vanquished)
4. सत्य के प्रयोग (Satya Ke Prayog)

Question Type : **MCQ**
Question ID : **264330134624**
Option 1 ID : **264330527452**
Option 2 ID : **264330527453**
Option 3 ID : **264330527451**
Option 4 ID : **264330527454**
Status : **Answered**
Chosen Option : **3**

Q.14 पीएम स्ट्रीट वेंडर्स आत्मनिर्भर निधि (PM SVANidhi) योजना किस मंत्रालय द्वारा शुरू की गई थी?

Ans
1. वाणिज्य मंत्रालय
2. आवासन एवं शहरी कार्य मंत्रालय
3. उपभोक्ता मामले विभाग
4. वित्त मंत्रालय

Question Type : **MCQ**
Question ID : **264330134603**
Option 1 ID : **264330527368**
Option 2 ID : **264330527370**
Option 3 ID : **264330527369**
Option 4 ID : **264330527367**
Status : **Answered**
Chosen Option : **2**

Q.15 'पुंग चोलोम (Pung Cholom)' आमतौर पर धार्मिक शुभ अवसरों पर गीतों और ढोल के ताल पर किया जाता है। यह प्रसिद्ध रूप से निम्नलिखित में से किस राज्य में किया जाता है?

Ans
1. मणिपुर
2. महाराष्ट्र
3. उत्तरप्रदेश
4. केरल

Question Type : **MCQ**
Question ID : **264330137063**
Option 1 ID : **264330536896**
Option 2 ID : **264330536895**
Option 3 ID : **264330536897**
Option 4 ID : **264330536898**
Status : **Answered**
Chosen Option : **1**

Join Telegram Group "HaryanaJobs.in"

Q.16 निम्नलिखित में से कौन-सा विषय भारतीय संविधान की राज्य सूची के अंतर्गत आता है?

Ans
1. बंदरगाह
2. रेलवे
3. कृषि
4. बैंकिंग

Question Type : **MCQ**
Question ID : **264330137082**
Option 1 ID : **264330536974**
Option 2 ID : **264330536973**
Option 3 ID : **264330536971**
Option 4 ID : **264330536972**
Status : **Answered**
Chosen Option : **1**

Q.17 रोपण कृषि के मुख्य क्षेत्र विश्व के _____ प्रदेशों में पाए जाते हैं।

Ans
1. उष्णकटिबंधीय
2. घास वाले मैदानी
3. रेगिस्तानी
4. शीतोष्ण

Question Type : **MCQ**
Question ID : **264330134611**
Option 1 ID : **264330527402**
Option 2 ID : **264330527399**
Option 3 ID : **264330527401**
Option 4 ID : **264330527400**
Status : **Answered**
Chosen Option : **4**

Q.18 2011 की जनगणना के अनुसार, भारत में लिंगानुपात कितना है?

Ans
1. प्रति हजार पुरुषों पर 843 महिलाएँ
2. प्रति हजार पुरुषों पर 743 महिलाएँ
3. प्रति हजार पुरुषों पर 643 महिलाएँ
4. प्रति हजार पुरुषों पर 943 महिलाएँ

Question Type : **MCQ**
Question ID : **264330135445**
Option 1 ID : **264330530690**
Option 2 ID : **264330530688**
Option 3 ID : **264330530687**
Option 4 ID : **264330530689**
Status : **Answered**
Chosen Option : **4**

Join Telegram Group "HaryanaJobs.in"

Q.19 According to census 2011, which state has highest decadal population growth rate between 2001 – 11?

Ans
1. Bihar
2. Arunachal Pradesh
3. Mizoram
4. Meghalaya

Question Type : **MCQ**
Question ID : **264330134613**
Option 1 ID : **264330527408**
Option 2 ID : **264330527409**
Option 3 ID : **264330527410**
Option 4 ID : **264330527407**
Status : **Answered**
Chosen Option : **4**

Q.20 निम्नलिखित में से कौन वाद्य यंत्र 'सरोद (Sarod)' बजाने के लिए प्रसिद्ध है?

Ans
1. रवि शंकर
2. बिस्मिल्लाह खान
3. अमज़द अली खान
4. ज़ाकिर हुसैन

Question Type : **MCQ**
Question ID : **264330137079**
Option 1 ID : **264330536960**
Option 2 ID : **264330536961**
Option 3 ID : **264330536959**
Option 4 ID : **264330536962**
Status : **Answered**
Chosen Option : **3**

Q.21 _____ अंतर्राष्ट्रीय क्रिकेट परिषद (ICC) पुरुष क्रिकेट विश्व कप 2023 की मेज़बानी करेगा।

Ans
1. भारत
2. पाकिस्तान
3. इंग्लैंड
4. न्यूज़ीलैंड

Question Type : **MCQ**
Question ID : **264330137083**
Option 1 ID : **264330536978**
Option 2 ID : **264330536977**
Option 3 ID : **264330536975**
Option 4 ID : **264330536976**
Status : **Answered**
Chosen Option : **1**

Join Telegram Group "HaryanaJobs.in"

Q.22 तराइन का प्रथम युद्ध कब लड़ा गया था?

Ans
1. 1215 ✗
2. 1208 ✗
3. 1182 ✗
4. 1191 ✓

Question Type : **MCQ**
Question ID : **264330138234**
Option 1 ID : **264330541543**
Option 2 ID : **264330541546**
Option 3 ID : **264330541545**
Option 4 ID : **264330541544**
Status : **Answered**
Chosen Option : **4**

Q.23 किस अधिनियम के परिणामस्वरूप, महारानी विक्टोरिया, जो ब्रिटेन की शासक थीं, 1858 में "भारत की मलिका (Empress of India)" की उपाधि के साथ भारत में ब्रिटिश क्षेत्रों की संप्रभु भी बन गईं?

Ans
1. भारत सरकार अधिनियम ✓
2. नियामक अधिनियम ✗
3. भारतीय परिषद अधिनियम ✗
4. चार्टर एक्ट ✗

Question Type : **MCQ**
Question ID : **264330135474**
Option 1 ID : **264330530805**
Option 2 ID : **264330530806**
Option 3 ID : **264330530804**
Option 4 ID : **264330530803**
Status : **Answered**
Chosen Option : **1**

Q.24 इंग्लिश ईस्ट इंडिया कंपनी ने वर्ष _____ में बंगाल की दीवानी प्राप्त की।

Ans
1. 1770 ✗
2. 1765 ✓
3. 1760 ✗
4. 1755 ✗

Question Type : **MCQ**
Question ID : **264330134642**
Option 1 ID : **264330527526**
Option 2 ID : **264330527525**
Option 3 ID : **264330527524**
Option 4 ID : **264330527523**
Status : **Not Answered**
Chosen Option : **--**

Join Telegram Group "HaryanaJobs.in"

Q.25 प्रसिद्ध हीराकुद (Hirakud) कैप्टिव थर्मल पावर प्लांट निम्नलिखित में से किस राज्य में स्थित है?

Ans
1. गुजरात ✗
2. तमिलनाडु ✗
3. उड़ीसा ✓
4. आंध्रप्रदेश ✗

Question Type : **MCQ**
Question ID : **264330137071**
Option 1 ID : **264330536928**
Option 2 ID : **264330536930**
Option 3 ID : **264330536927**
Option 4 ID : **264330536929**
Status : **Answered**
Chosen Option : **3**

Section : **English Language and Comprehension**

Q.1 Identify the segment that contains a grammatical error. If there is no error, select 'No error'.

Early, during December 2021, / Lal was appointed as / the Secretary to the Lokpal.

Ans
1. Early, during December 2021, ✓
2. Lal was appointed as ✗
3. No error ✗
4. the Secretary to the Lokpal. ✗

Question Type : **MCQ**
Question ID : **264330136588**
Option 1 ID : **264330535083**
Option 2 ID : **264330535084**
Option 3 ID : **264330535086**
Option 4 ID : **264330535085**
Status : **Answered**
Chosen Option : **4**

Q.2 Improve the underlined part of the sentence. Choose 'No improvement' as an answer if the sentence is grammatically correct.

Each passenger is allows one piece of carry-on luggage.

Ans
1. No improvement ✗
2. is allowed ✓
3. is allow ✗
4. is allowing ✗

Question Type : **MCQ**
Question ID : **264330134722**
Option 1 ID : **264330527846**
Option 2 ID : **264330527843**
Option 3 ID : **264330527845**
Option 4 ID : **264330527844**
Status : **Answered**
Chosen Option : **4**

Join Telegram Group "HaryanaJobs.in"

Q.3 Fill in the blank with the most appropriate option.

For months, Drupad could not taste anything he ate as regret layered _____ mud.

Ans

✔ 1. his mouth like

✘ 2. his mouth comparable to

✘ 3. his mouth as though

✘ 4. his mouth allied to

Question Type : **MCQ**
Question ID : **264330136646**
Option 1 ID : **264330535308**
Option 2 ID : **264330535309**
Option 3 ID : **264330535307**
Option 4 ID : **264330535310**
Status : **Not Answered**
Chosen Option : **--**

Q.4 Fill in the blank with the most appropriate choice.

During treatment, patients lay _____ on the treatment couch for around 3 hrs.

Ans

✘ 1. repine

✘ 2. alpine

✔ 3. supine

✘ 4. arsine

Question Type : **MCQ**
Question ID : **264330135773**
Option 1 ID : **264330531971**
Option 2 ID : **264330531973**
Option 3 ID : **264330531972**
Option 4 ID : **264330531974**
Status : **Answered**
Chosen Option : **3**

Q.5 Choose the word that can substitute the given group of words.

The flowers of a particular region

Ans

✘ 1. Bryophyte

✔ 2. Flora

✘ 3. Fauna

✘ 4. Bovine

Question Type : **MCQ**
Question ID : **264330134759**
Option 1 ID : **264330527985**
Option 2 ID : **264330527984**
Option 3 ID : **264330527986**
Option 4 ID : **264330527983**
Status : **Answered**
Chosen Option : **2**

Join Telegram Group "HaryanaJobs.in"

Q.6 Fill in the blank with the most appropriate choice

This _____ piece of mischief by his brother brought a quiet laugh from David.

Ans

1. vesical ✗
2. classical ✗
3. whimsical ✓
4. nonsensical ✗

Question Type : **MCQ**
Question ID : **264330135792**
Option 1 ID : **264330532046**
Option 2 ID : **264330532045**
Option 3 ID : **264330532044**
Option 4 ID : **264330532043**
Status : **Answered**
Chosen Option : **4**

Q.7 Select the word segment that substitutes (replaces) the bracketed word segment correctly and completes the sentence meaningfully. Select the option 'no correction required' if the sentence is correct as given.

He (returned back) Cambridge shortly before three o'clock.

Ans

1. appeared ✗
2. showed ✗
3. No correction required ✗
4. reached ✓

Question Type : **MCQ**
Question ID : **264330136591**
Option 1 ID : **264330535095**
Option 2 ID : **264330535096**
Option 3 ID : **264330535098**
Option 4 ID : **264330535097**
Status : **Answered**
Chosen Option : **4**

Q.8 Select the word from the options which is similar in meaning to the bracketed part given in the sentence below.

I suppose I was looking for (a work that would give me income) and that was going to be an adventure.

Ans

1. Calling ✗
2. Activity ✗
3. Occupation ✓
4. Pursuit ✗

Question Type : **MCQ**
Question ID : **264330136630**
Option 1 ID : **264330535244**
Option 2 ID : **264330535243**
Option 3 ID : **264330535245**
Option 4 ID : **264330535246**
Status : **Answered**
Chosen Option : **3**

Join Telegram Group "HaryanaJobs.in"

Q.9 **Find the part of the given sentence that has an error in it. If there is no error, choose 'No error'.**
Neither I nor my friends are going too walk down that street.

Ans
✗ 1. down that street.
✗ 2. Neither I nor my
✓ 3. friends are going too walk
✗ 4. No error

Question Type : **MCQ**
Question ID : **264330134502**
Option 1 ID : **264330526973**
Option 2 ID : **264330526971**
Option 3 ID : **264330526972**
Option 4 ID : **264330526974**
Status : **Answered**
Chosen Option : **3**

Q.10 Select the correctly spelt word.

Ans
✗ 1. Concensus
✗ 2. Concencus
✗ 3. Consencus
✓ 4. Consensus

Question Type : **MCQ**
Question ID : **264330135789**
Option 1 ID : **264330532034**
Option 2 ID : **264330532032**
Option 3 ID : **264330532033**
Option 4 ID : **264330532031**
Status : **Answered**
Chosen Option : **1**

Q.11 In the following question, out of the given four alternatives, select the alternative which best expresses the meaning of the Idiom/Phrase.
The life and soul of the party

Ans
✓ 1. Person who brings lots of energy to the party
✗ 2. A person who brings lots of gifts
✗ 3. The only person who dances in the party
✗ 4. Chief guest of the party

Question Type : **MCQ**
Question ID : **264330134765**
Option 1 ID : **264330528007**
Option 2 ID : **264330528010**
Option 3 ID : **264330528009**
Option 4 ID : **264330528008**
Status : **Answered**
Chosen Option : **4**

Join Telegram Group "HaryanaJobs.in"

Q.12 Identify the segment that contains a grammatical error. If there is no error, select 'No error'

In 79 A.D., the Mount Vesuvius blew / its top, burying the ancient / cities of Pompeii and Herculaneum.

Ans

1. ✗ cities of Pompeii and Herculaneum.
2. ✗ its top, burying the ancient
3. ✓ In 79 A.D., the Mount Vesuvius blew
4. ✗ No Error

Question Type : **MCQ**
Question ID : **264330135769**
Option 1 ID : **264330531957**
Option 2 ID : **264330531956**
Option 3 ID : **264330531955**
Option 4 ID : **264330531958**
Status : **Not Answered**
Chosen Option : **--**

Q.13 Choose the word that is opposite in meaning to the given word.

Malign

Ans

1. ✗ Align
2. ✗ Cheerful
3. ✗ Harangue
4. ✓ Praise

Question Type : **MCQ**
Question ID : **264330135222**
Option 1 ID : **264330529811**
Option 2 ID : **264330529812**
Option 3 ID : **264330529814**
Option 4 ID : **264330529813**
Status : **Answered**
Chosen Option : **2**

Q.14 Select the most appropriate word for the given group of words.

A local meeting of party members to select candidates, elect convention delegates, etc

Ans

1. ✗ Claque
2. ✗ Caravan
3. ✗ Clique
4. ✓ Caucus

Question Type : **MCQ**
Question ID : **264330135782**
Option 1 ID : **264330532005**
Option 2 ID : **264330532004**
Option 3 ID : **264330532006**
Option 4 ID : **264330532003**
Status : **Not Answered**
Chosen Option : **--**

Join Telegram Group "HaryanaJobs.in"

Q.15 Select the most appropriate synonym of the given word.

Console

Ans
1. Solace
2. Arteriole
3. Fret
4. Torment

Question Type : **MCQ**
Question ID : **264330135783**
Option 1 ID : **264330532008**
Option 2 ID : **264330532007**
Option 3 ID : **264330532009**
Option 4 ID : **264330532010**
Status : **Answered**
Chosen Option : **1**

Q.16 Four sentences are given, out of which three have spelling errors. Choose the sentence with all correct spelt words.

Ans
1. You could have seen in them a cemetery or a war memorial.
2. The main problem, I beleive, lies elsewhere.
3. Jerry is an amatuer who dances because he feels like it.
4. He said the goverment remained commited to peace.

Question Type : **MCQ**
Question ID : **264330136610**
Option 1 ID : **264330535169**
Option 2 ID : **264330535168**
Option 3 ID : **264330535167**
Option 4 ID : **264330535170**
Status : **Answered**
Chosen Option : **1**

Q.17 Fill in the blank with the most appropriate option.

This change is responsible for a recent _____ the number of cases of cancer in this age group.

Ans
1. rise at
2. rise in
3. rise of
4. rise to

Question Type : **MCQ**
Question ID : **264330136611**
Option 1 ID : **264330535173**
Option 2 ID : **264330535172**
Option 3 ID : **264330535171**
Option 4 ID : **264330535174**
Status : **Answered**
Chosen Option : **2**

Join Telegram Group "HaryanaJobs.in"

Q.18 Select the most appropriate meaning of the bracketed idiom in the given sentence.
Later, Brooks' brother alleged that racism helped put the (pedal to the metal).

Ans

1. ✗ Very excessive
2. ✓ To go full speed, especially while driving a vehicle
3. ✗ Avoid responsibility by giving it to someone else
4. ✗ To enjoy yourself by going out

Question Type : **MCQ**
Question ID : **264330135788**
Option 1 ID : **264330532028**
Option 2 ID : **264330532030**
Option 3 ID : **264330532027**
Option 4 ID : **264330532029**
Status : **Answered**
Chosen Option : **3**

Q.19 Select the most appropriate option to substitute the bracketed segment in the given sentence. If there is no need to substitute it, select 'no substitution required'.
(In fact, climbing fern is spreading so rapidly that its) now the state's worst invasive weed.

Ans

1. ✗ No substitution required
2. ✓ In fact, climbing fern is spreading so rapidly that it's
3. ✗ In fact, climbing fern is spread so rapidly that its
4. ✗ In fact, climbing fern is spreading so rapid that it's

Question Type : **MCQ**
Question ID : **264330135798**
Option 1 ID : **264330532070**
Option 2 ID : **264330532068**
Option 3 ID : **264330532069**
Option 4 ID : **264330532067**
Status : **Answered**
Chosen Option : **2**

Q.20 Select the most appropriate antonym to substitute the (bracketed) word in the given sentence.
It would effectively rouse people's ardour to invest, and help to (discourage) the transfer of capital abroad.

Ans

1. ✗ Intolerable
2. ✓ Persuade
3. ✗ Industrious
4. ✗ Construe

Question Type : **MCQ**
Question ID : **264330135786**
Option 1 ID : **264330532020**
Option 2 ID : **264330532019**
Option 3 ID : **264330532022**
Option 4 ID : **264330532021**
Status : **Answered**
Chosen Option : **2**

Join Telegram Group "HaryanaJobs.in"

Comprehension:

In the following passage some of the words have been deleted. Read the passage carefully and select the correct answer for the given blank out of the four alternatives.

Intriguingly, those who (1) _____ the psychobiotic diet reported they felt less stressed compared (2) _____ those who followed the control diet. There was also a direct correlation between how strictly (3) _____ followed the diet and their perceived stress levels, with those who (4) _____ more psychobiotic foods during the four-week period reporting the (5) _____ reduction in perceived stress levels.

SubQuestion No : 21

Q.21 Select the most appropriate option to fill in blank number 1.

Ans

✗ 1. believed

✗ 2. casted

✓ 3. followed

✗ 4. bellowed

Question Type : **MCQ**
Question ID : **264330135213**
Option 1 ID : **264330529776**
Option 2 ID : **264330529778**
Option 3 ID : **264330529775**
Option 4 ID : **264330529777**
Status : **Answered**
Chosen Option : **3**

Comprehension:

In the following passage some of the words have been deleted. Read the passage carefully and select the correct answer for the given blank out of the four alternatives.

Intriguingly, those who (1) _____ the psychobiotic diet reported they felt less stressed compared (2) _____ those who followed the control diet. There was also a direct correlation between how strictly (3) _____ followed the diet and their perceived stress levels, with those who (4) _____ more psychobiotic foods during the four-week period reporting the (5) _____ reduction in perceived stress levels.

SubQuestion No : 22

Q.22 Select the most appropriate option to fill in blank number 2.

Ans

✗ 1. of

✓ 2. with

✗ 3. on

✗ 4. by

Question Type : **MCQ**
Question ID : **264330135214**
Option 1 ID : **264330529781**
Option 2 ID : **264330529780**
Option 3 ID : **264330529779**
Option 4 ID : **264330529782**
Status : **Not Answered**
Chosen Option : **--**

Join Telegram Group "HaryanaJobs.in"

Comprehension:

In the following passage some of the words have been deleted. Read the passage carefully and select the correct answer for the given blank out of the four alternatives.

Intriguingly, those who (1) _____ the psychobiotic diet reported they felt less stressed compared (2) _____ those who followed the control diet. There was also a direct correlation between how strictly (3) _____ followed the diet and their perceived stress levels, with those who (4) _____ more psychobiotic foods during the four-week period reporting the (5) _____ reduction in perceived stress levels.

SubQuestion No : 23

Q.23 Select the most appropriate option to fill in blank number 3.

Ans

✗ 1. nomads

✗ 2. spectators

✗ 3. animals

✓ 4. participants

Question Type : **MCQ**
Question ID : **264330135215**
Option 1 ID : **264330529783**
Option 2 ID : **264330529785**
Option 3 ID : **264330529784**
Option 4 ID : **264330529786**
Status : **Answered**
Chosen Option : **4**

Comprehension:

In the following passage some of the words have been deleted. Read the passage carefully and select the correct answer for the given blank out of the four alternatives.

Intriguingly, those who (1) _____ the psychobiotic diet reported they felt less stressed compared (2) _____ those who followed the control diet. There was also a direct correlation between how strictly (3) _____ followed the diet and their perceived stress levels, with those who (4) _____ more psychobiotic foods during the four-week period reporting the (5) _____ reduction in perceived stress levels.

SubQuestion No : 24

Q.24 Select the most appropriate option to fill in blank number 4.

Ans

✗ 1. staked

✗ 2. raked

✓ 3. ate

✗ 4. eroded

Question Type : **MCQ**
Question ID : **264330135216**
Option 1 ID : **264330529789**
Option 2 ID : **264330529788**
Option 3 ID : **264330529790**
Option 4 ID : **264330529787**
Status : **Answered**
Chosen Option : **3**

Join Telegram Group "HaryanaJobs.in"

Comprehension:

In the following passage some of the words have been deleted. Read the passage carefully and select the correct answer for the given blank out of the four alternatives.

Intriguingly, those who (1) _____ the psychobiotic diet reported they felt less stressed compared (2) _____ those who followed the control diet. There was also a direct correlation between how strictly (3) _____ followed the diet and their perceived stress levels, with those who (4) _____ more psychobiotic foods during the four-week period reporting the (5) _____ reduction in perceived stress levels.

SubQuestion No : 25

Q.25 Select the most appropriate option to fill in blank number 5.

Ans

✗ 1. greater

✓ 2. greatest

✗ 3. greatly

✗ 4. great

Question Type : **MCQ**
Question ID : **264330135217**
Option 1 ID : **264330529792**
Option 2 ID : **264330529793**
Option 3 ID : **264330529794**
Option 4 ID : **264330529791**
Status : **Answered**
Chosen Option : **2**

Join Telegram Group "HaryanaJobs.in"

Multi Tasking Non Technical Staff and Havaldar CBIC and CBN Examination 2022

Roll Number	HaryanaJobs.in
Candidate Name	HaryanaJobs.in
Venue Name	iON Digital Zone iDZ Arrah
Exam Date	10/05/2023
Exam Time	12:00 PM - 2:00 PM
Subject	MTS Non Tech Havaldar CBIC and CBN Examination 2022

Section : **Numerical and Mathematical Ability**

Q.1 $\frac{56}{7} \times \left(\frac{24}{81} \times \frac{729}{72}\right) + \frac{42}{6}$ का मान क्या है?

Ans
✗ 1. 33
✗ 2. 32
✓ 3. 31
✗ 4. 30

Question Type : **MCQ**
Question ID : **264330139072**
Option 1 ID : **264330544895**
Option 2 ID : **264330544898**
Option 3 ID : **264330544897**
Option 4 ID : **264330544896**
Status : **Answered**
Chosen Option : **3**

Q.2 12 श्रमिक 10 दिनों में Rs. 2400 कमा सकते हैं। 6 श्रमिकों की 6 दिनों की आय ज्ञात कीजिए।

Ans
✓ 1. Rs. 720
✗ 2. Rs. 840
✗ 3. Rs. 510
✗ 4. Rs. 630

Question Type : **MCQ**
Question ID : **264330133769**
Option 1 ID : **264330524100**
Option 2 ID : **264330524099**
Option 3 ID : **264330524102**
Option 4 ID : **264330524101**
Status : **Marked For Review**
Chosen Option : **1**

Join Telegram Group "HaryanaJobs.in"

Q.3 9 लड़के और 12 पुरुष एक काम को 24 दिनों में पूरा कर सकते हैं। प्रत्येक लड़का काम को पूरा करने में एक पुरुष द्वारा लिए गए समय से तीन गुना समय लेता है। 15 पुरुष उसी काम को कितने दिनों में पूरा करेंगे?

Ans
1. 26 दिन ✗
2. 22 दिन ✗
3. 24 दिन ✓
4. 30 दिन ✗

Question Type : **MCQ**
Question ID : **264330137646**
Option 1 ID : **264330539192**
Option 2 ID : **264330539191**
Option 3 ID : **264330539193**
Option 4 ID : **264330539194**
Status : **Answered**
Chosen Option : **3**

Q.4 निम्न तालिका में एक शॉपिंग ऐप द्वारा 3 वर्षों में बेचे गए उत्पादों को दर्शाया गया है। सभी तीन वर्षों में ऐप द्वारा बेचे गए कपड़ों की औसत संख्या ज्ञात कीजिए।

Products	2019	2020	2021
Cloth	824	476	500
Electronics	750	820	450
Makeup	660	810	510
Footwear	470	390	790

Products = उत्पाद, Cloth = कपड़े, Electronics = इलेक्ट्रॉनिक्स, Makeup = मेकअप, Footwear = फुटवेयर

Ans
1. 450 ✗
2. 740 ✗
3. 600 ✓
4. 530 ✗

Question Type : **MCQ**
Question ID : **264330135407**
Option 1 ID : **264330530538**
Option 2 ID : **264330530535**
Option 3 ID : **264330530537**
Option 4 ID : **264330530536**
Status : **Answered**
Chosen Option : **3**

Q.5 उस पतंग का क्षेत्रफल ज्ञात कीजिए जिसके विकर्ण 22 cm और 6 cm हैं।

Ans
1. 50 cm^2 ✗
2. 66 cm^2 ✓
3. 100 cm^2 ✗
4. 88 cm^2 ✗

Question Type : **MCQ**
Question ID : **264330133774**
Option 1 ID : **264330524122**
Option 2 ID : **264330524119**
Option 3 ID : **264330524121**
Option 4 ID : **264330524120**
Status : **Answered**
Chosen Option : **2**

Join Telegram Group "HaryanaJobs.in"

Q.6 1000 मीटर लंबी एक रेलगाड़ी 72 km/hr की चाल से चल रही है। यदि यह एक पुल को 85 सेकंड में पार करती है, तो पुल की लंबाई कितनी है?

Ans

✔ 1. 700 मीटर

✘ 2. 800 मीटर

✘ 3. 750 मीटर

✘ 4. 950 मीटर

Question Type : **MCQ**
Question ID : **264330137667**
Option 1 ID : **264330539275**
Option 2 ID : **264330539276**
Option 3 ID : **264330539277**
Option 4 ID : **264330539278**
Status : **Answered**
Chosen Option : **1**

Q.7 एक वस्तु का अंकित मूल्य उसके क्रय मूल्य का 150 प्रतिशत है। यदि 30 प्रतिशत की छूट दी जाती है, तो लाभ प्रतिशत क्या होगा?

Ans

✘ 1. 6 प्रतिशत

✔ 2. 5 प्रतिशत

✘ 3. 3 प्रतिशत

✘ 4. 4 प्रतिशत

Question Type : **MCQ**
Question ID : **264330137677**
Option 1 ID : **264330539317**
Option 2 ID : **264330539315**
Option 3 ID : **264330539318**
Option 4 ID : **264330539316**
Status : **Answered**
Chosen Option : **2**

Q.8 4 संख्याओं का औसत 45 है। पहली दो संख्याओं का औसत अन्य दो संख्याओं के औसत का तीन गुना है। पहली दो संख्याओं का योग क्या है?

Ans

✘ 1. 105

✘ 2. 125

✘ 3. 122

✔ 4. 135

Question Type : **MCQ**
Question ID : **264330137668**
Option 1 ID : **264330539280**
Option 2 ID : **264330539279**
Option 3 ID : **264330539281**
Option 4 ID : **264330539282**
Status : **Marked For Review**
Chosen Option : **4**

Join Telegram Group "HaryanaJobs.in"

Q.9 एक जार में दूध और पानी का मिश्रण है, जिसमें 50% पानी है। इस मिश्रण के एक अंश/भाग को एक दूसरे मिश्रण, जिसमें 29% पानी है, से बदल दिया जाता है। अब जार में पानी का प्रतिशत 36% हो जाता है। मूल मिश्रण का कितना अंश/भाग बदला गया था?

Ans

✔ 1. $\frac{2}{3}$

✘ 2. $\frac{4}{5}$

✘ 3. $\frac{3}{2}$

✘ 4. $\frac{1}{3}$

Question Type : **MCQ**
Question ID : **264330135090**
Option 1 ID : **264330529295**
Option 2 ID : **264330529298**
Option 3 ID : **264330529296**
Option 4 ID : **264330529297**
Status : **Answered**
Chosen Option : **2**

Q.10 तीन कपों में दूध और पानी का मिश्रण 4:5, 5:6, 9:7 के अनुपात में है। पहले कप से 36 लीटर और दूसरे कप से 44 लीटर मात्रा ली जाती है। तीसरे कप से कितनी मात्रा ली जाए कि तीनों कपों के अंतिम मिश्रण में दूध और पानी का अनुपात 1 : 1 हो?

Ans

✔ 1. 64 लीटर

✘ 2. 60 लीटर

✘ 3. 54 लीटर

✘ 4. 32 लीटर

Question Type : **MCQ**
Question ID : **264330137674**
Option 1 ID : **264330539304**
Option 2 ID : **264330539303**
Option 3 ID : **264330539305**
Option 4 ID : **264330539306**
Status : **Answered**
Chosen Option : **1**

Q.11 साधारण ब्याज पर एक धनराशि 2 वर्ष में Rs. 212 और 4 वर्ष में Rs. 224 हो जाती है। वह धनराशि है:

Ans

✘ 1. Rs. 100

✔ 2. Rs. 200

✘ 3. Rs. 400

✘ 4. Rs. 500

Question Type : **MCQ**
Question ID : **264330133846**
Option 1 ID : **264330524409**
Option 2 ID : **264330524408**
Option 3 ID : **264330524407**
Option 4 ID : **264330524410**
Status : **Answered**
Chosen Option : **2**

Join Telegram Group "HaryanaJobs.in"

Q.12 वह सबसे छोटी पूर्ण वर्ग संख्या कौन-सी है जो 14, 84 और 28 में से प्रत्येक से पूर्णतः विभाज्य है?

Ans
1. 7056
2. 1764
3. 441
4. 3528

Question Type : **MCQ**
Question ID : **264330137680**
Option 1 ID : **264330539328**
Option 2 ID : **264330539330**
Option 3 ID : **264330539327**
Option 4 ID : **264330539329**
Status : **Marked For Review**
Chosen Option : **4**

Q.13 नीचे दिए गए वृत्त आलेख में एक वर्ष में छः कंपनियों द्वारा बेचे गए मोबाइल फोन की संख्या को दर्शाया गया है।
छः कंपनियों द्वारा बेचे गए कुल मोबाइल फोन की संख्या 300 है। इनमें से किसी एक विशिष्ट कंपनी द्वारा बेचे गए मोबाइल फोन की संख्या को इन सभी छः कंपनियों द्वारा बेचे गए मोबाइल फोन की कुल संख्या के प्रतिशत के रूप में दर्शाया गया है।

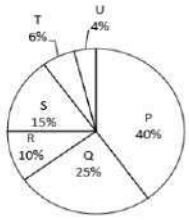

Q और S द्वारा बेचे गए मोबाइल फोन की औसत संख्या कितनी है?

Ans
1. 45
2. 80
3. 60
4. 75

Question Type : **MCQ**
Question ID : **264330137684**
Option 1 ID : **264330539346**
Option 2 ID : **264330539343**
Option 3 ID : **264330539344**
Option 4 ID : **264330539345**
Status : **Answered**
Chosen Option : **3**

Join Telegram Group "HaryanaJobs.in"

Q.14 यदि $p : q = 4 : 7$ और $q : r = 3 : 5$ है, तो $2p : 3q : 5r$ का मान क्या है?

Ans
1. 36 : 60 : 181
2. 24 : 63 : 175 ✓
3. 25 : 72 : 180
4. 28 : 79 : 188

Question Type : **MCQ**
Question ID : **264330137673**
Option 1 ID : **264330539301**
Option 2 ID : **264330539300**
Option 3 ID : **264330539302**
Option 4 ID : **264330539299**
Status : **Answered**
Chosen Option : **2**

Q.15 Rs. x पर 25% वार्षिक दर पर 2 वर्ष के लिए चक्रवृद्धि ब्याज और साधारण ब्याज के बीच का अंतर Rs. 325 है। x का मान ज्ञात कीजिए।

Ans
1. Rs. 5300
2. Rs. 2400
3. Rs. 5200 ✓
4. Rs. 4000

Question Type : **MCQ**
Question ID : **264330138381**
Option 1 ID : **264330542131**
Option 2 ID : **264330542133**
Option 3 ID : **264330542132**
Option 4 ID : **264330542134**
Status : **Answered**
Chosen Option : **3**

Q.16 $(22)^2 - (14)^2 - 207$ का मान ज्ञात कीजिए:

Ans
1. 81 ✓
2. 77
3. 97
4. 99

Question Type : **MCQ**
Question ID : **264330135391**
Option 1 ID : **264330530472**
Option 2 ID : **264330530471**
Option 3 ID : **264330530474**
Option 4 ID : **264330530473**
Status : **Answered**
Chosen Option : **1**

Join Telegram Group "HaryanaJobs.in"

Q.17 40 छड़ियों की औसत ऊँचाई 156 cm है। 162 cm औसत ऊँचाई की कुछ छड़ियों को निकाल दिया जाता है। यदि छड़ियों की नई औसत ऊँचाई 150 cm है, तो कितनी छड़ियाँ शेष बची हैं?

Ans

1. ✗ 16
2. ✓ 20
3. ✗ 25
4. ✗ 32

Question Type : **MCQ**
Question ID : **264330137878**
Option 1 ID : **264330540122**
Option 2 ID : **264330540120**
Option 3 ID : **264330540119**
Option 4 ID : **264330540121**
Status : **Answered**
Chosen Option : **2**

Q.18 Rs. 10000 क्रय मूल्य वाले एक ख़राब डाइनिंग सेट को 10% हानि पर बेचा जा रहा है। यदि मूल्य में क्रमशः 5% की कमी और की जाती है, तो डाइनिंग सेट का विक्रय मूल्य है:

Ans

1. ✗ Rs. 7850
2. ✓ Rs. 8550
3. ✗ Rs. 9000
4. ✗ Rs. 9150

Question Type : **MCQ**
Question ID : **264330138706**
Option 1 ID : **264330543433**
Option 2 ID : **264330543431**
Option 3 ID : **264330543432**
Option 4 ID : **264330543434**
Status : **Answered**
Chosen Option : **2**

Q.19 रमेश एक वस्तु को 20 प्रतिशत की हानि पर बेचता है। यदि वह इसे 30 प्रतिशत कम मूल्य पर खरीदता है और इसे Rs. 36 कम मूल्य पर बेचता है, तो उसका लाभ 10 प्रतिशत होगा। वस्तु का क्रय मूल्य क्या है?

Ans

1. ✗ 1500
2. ✓ 1200
3. ✗ 1000
4. ✗ 900

Question Type : **MCQ**
Question ID : **264330137672**
Option 1 ID : **264330539295**
Option 2 ID : **264330539296**
Option 3 ID : **264330539297**
Option 4 ID : **264330539298**
Status : **Answered**
Chosen Option : **2**

Join Telegram Group "HaryanaJobs.in"

Q.20 एक त्रिभुज की भुजाएँ 20 cm, 48 cm और 52 cm हैं। त्रिभुज का क्षेत्रफल क्या है?

Ans
1. $560\ cm^2$
2. $245\ cm^2$
3. $320\ cm^2$
4. $480\ cm^2$

Question Type : **MCQ**
Question ID : **264330137659**
Option 1 ID : **264330539244**
Option 2 ID : **264330539243**
Option 3 ID : **264330539246**
Option 4 ID : **264330539245**
Status : **Answered**
Chosen Option : **4**

Section : **Reasoning Ability and Problem Solving**

Q.1 A, B, C, D और E एक सीधी पंक्ति में उत्तर की ओर मुख करके बैठे हैं। C, B और D के ठीक बीच में बैठा है। E, B के ठीक बाएँ पर है। D बेंच के छोर पर नहीं बैठा है। D के ठीक दाईं ओर कौन बैठा है?

Ans
1. B
2. A
3. E
4. C

Question Type : **MCQ**
Question ID : **264330137590**
Option 1 ID : **264330538968**
Option 2 ID : **264330538967**
Option 3 ID : **264330538970**
Option 4 ID : **264330538969**
Status : **Answered**
Chosen Option : **2**

Q.2 दी गई श्रृंखला में निम्नलिखित में से कौन-सा अक्षर प्रश्न चिन्ह (?) के स्थान पर आएगा?
L, K, I, F, B, W, ?

Ans
1. U
2. M
3. R
4. Q

Question Type : **MCQ**
Question ID : **264330137581**
Option 1 ID : **264330538934**
Option 2 ID : **264330538931**
Option 3 ID : **264330538932**
Option 4 ID : **264330538933**
Status : **Answered**
Chosen Option : **4**

Join Telegram Group "HaryanaJobs.in"

Q.3 तीन कथन दिए गए हैं और दो निष्कर्ष I और II दिए गए हैं। कथनों को सत्य मानते हुए, चाहे वे सामान्यतः ज्ञात तथ्यों से अलग प्रतीत होते हों, निश्चय कीजिए कि कौन-सा निष्कर्ष तार्किक रूप से कथनों के अनुसार है।

कथन:

कुछ नगर, शहर हैं।

कुछ शहर, गाँव हैं।

सभी गाँव, राज्य हैं।

निष्कर्ष:

I. कुछ नगर, गाँव नहीं हैं।

II. कुछ राज्य, शहर हैं।

Ans
1. दोनों निष्कर्ष I और II कथनों के अनुसार हैं।
2. केवल निष्कर्ष I कथनों के अनुसार है।
3. न तो निष्कर्ष I और न ही II कथनों के अनुसार है।
4. केवल निष्कर्ष II कथनों के अनुसार है।

Question Type : **MCQ**
Question ID : **264330137593**
Option 1 ID : **264330538981**
Option 2 ID : **264330538979**
Option 3 ID : **264330538982**
Option 4 ID : **264330538980**
Status : **Answered**
Chosen Option : **4**

Q.4 दिए गए समीकरण को सही करने के लिए किन दो संख्याओं को आपस में बदला जाना चाहिए?

9 + 30 × 15 - 18 ÷ 6 = 274

Ans
1. 9 और 30
2. 15 और 18
3. 18 और 9
4. 30 और 18

Question Type : **MCQ**
Question ID : **264330133577**
Option 1 ID : **264330523331**
Option 2 ID : **264330523332**
Option 3 ID : **264330523334**
Option 4 ID : **264330523333**
Status : **Answered**
Chosen Option : **4**

Join Telegram Group "HaryanaJobs.in"

Q.5 Q, R, और S एक सीधी पंक्ति में दक्षिण की ओर मुख करके बैठे हैं। U, W, और X एक समानांतर पंक्ति में उत्तर की ओर मुख करके बैठे हैं। Q, S के ठीक बाएँ पर और W के सम्मुख बैठा है। R, जो U के सम्मुख है, S के ठीक दाईं ओर बैठा है। U के ठीक दाईं ओर कौन बैठा है?

Ans

✗ 1. S

✗ 2. Q

✓ 3. X

✗ 4. W

Question Type : **MCQ**
Question ID : **264330137589**
Option 1 ID : **264330538963**
Option 2 ID : **264330538964**
Option 3 ID : **264330538965**
Option 4 ID : **264330538966**
Status : **Answered**
Chosen Option : **3**

Q.6 यदि एक दर्पण को रेखा AB पर रखा जाए, तो दिए गए विकल्पों में से कौन-सी आकृति प्रश्न आकृति का सही प्रतिबिम्ब होगी?

Ans

✓ 1.

✗ 2.

✗ 3.

✗ 4.

Question Type : **MCQ**
Question ID : **264330135613**
Option 1 ID : **264330531351**
Option 2 ID : **264330531353**
Option 3 ID : **264330531354**
Option 4 ID : **264330531352**
Status : **Answered**
Chosen Option : **1**

Join Telegram Group "HaryanaJobs.in"

Q.7 सात व्यक्ति A, B, C, D, E, F और G अपने कद की तुलना कर रहे हैं। कोई भी दो व्यक्तियों का कद समान नहीं हैं। F, A से लंबा है, जो D और C से लंबा है। केवल दो व्यक्ति E से कद में छोटे हैं लेकिन उनमें से कोई भी C नहीं है। D सबसे छोटे कद वाला व्यक्ति नहीं है। G का कद केवल एक व्यक्ति, F से छोटा है। सबसे छोटे कद वाला व्यक्ति कौन है?

Ans
1. A ✗
2. E ✗
3. C ✗
4. B ✓

Question Type : **MCQ**
Question ID : **264330137591**
Option 1 ID : **264330538974**
Option 2 ID : **264330538971**
Option 3 ID : **264330538972**
Option 4 ID : **264330538973**
Status : **Answered**
Chosen Option : **4**

Q.8 दी गई श्रृंखला में निम्नलिखित में से कौन-सी संख्या प्रश्न चिन्ह (?) के स्थान पर आएगी?
92, 99, 106, 113, 120, ?

Ans
1. 217 ✗
2. 127 ✓
3. 117 ✗
4. 213 ✗

Question Type : **MCQ**
Question ID : **264330137595**
Option 1 ID : **264330538988**
Option 2 ID : **264330538990**
Option 3 ID : **264330538987**
Option 4 ID : **264330538989**
Status : **Answered**
Chosen Option : **2**

Join Telegram Group "HaryanaJobs.in"

Q.9 उस विकल्प आकृति को चुनिए जिसमें दी गई आकृति निहित है। (घूर्णन की अनुमति नहीं है)

Ans

✗ 1.

✓ 2.

✗ 3.

✗ 4.

Question Type : **MCQ**
Question ID : **264330135612**
Option 1 ID : **264330531350**
Option 2 ID : **264330531347**
Option 3 ID : **264330531348**
Option 4 ID : **264330531349**
Status : **Answered**
Chosen Option : **2**

Q.10 एक निश्चित कूट भाषा में, 'EMPIRE' को '5P16L18H' लिखा जाता है। उस कूट भाषा में 'EXPAND' को कैसे लिखा जाएगा?

Ans

✗ 1. 5G16D14G

✓ 2. 5A16D14G

✗ 3. 5A16D18G

✗ 4. 5A61D14G

Question Type : **MCQ**
Question ID : **264330134983**
Option 1 ID : **264330528870**
Option 2 ID : **264330528869**
Option 3 ID : **264330528868**
Option 4 ID : **264330528867**
Status : **Answered**
Chosen Option : **2**

Join Telegram Group "HaryanaJobs.in"

Q.11 उस विकल्प को चुनिए जो तीसरे शब्द से ठीक उसी तरह संबंधित है जिस तरह दूसरा शब्द पहले शब्द से संबंधित है।
न्यायाधीश (जज) : अदालत : : जुआरी : ?

Ans

1. ✗ स्टेशन
2. ✗ हैंगर
3. ✗ समुद्र
4. ✓ जुआघर

Question Type : **MCQ**
Question ID : **264330134977**
Option 1 ID : **264330528844**
Option 2 ID : **264330528843**
Option 3 ID : **264330528846**
Option 4 ID : **264330528845**
Status : **Answered**
Chosen Option : **4**

Q.12 दिए गए पैटर्न का ध्यानपूर्वक अध्ययन कीजिए और उस संख्या को चुनिए जो इसमें प्रश्न चिन्ह (?) के स्थान पर आ सकती है।
पहली पंक्ति- 25, 40, 10
दूसरी पंक्ति- 55, 70, 40
तीसरी पंक्ति- 33, 48, ?

Ans

1. ✗ 17
2. ✓ 18
3. ✗ 19
4. ✗ 15

Question Type : **MCQ**
Question ID : **264330137597**
Option 1 ID : **264330538995**
Option 2 ID : **264330538997**
Option 3 ID : **264330538998**
Option 4 ID : **264330538996**
Status : **Answered**
Chosen Option : **2**

Join Telegram Group "HaryanaJobs.in"

Q.13 उस विकल्प आकृति को चुनिए जो पैटर्न को पूरा करने के लिए नीचे दी गई आकृति में प्रश्न चिन्ह (?) के स्थान पर आएगी। (घूर्णन की अनुमति नहीं है)

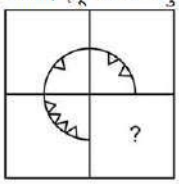

Ans

✗ 1.

✗ 2.

✗ 3.

✓ 4.

Question Type : **MCQ**
Question ID : **264330137602**
Option 1 ID : **264330539015**
Option 2 ID : **264330539016**
Option 3 ID : **264330539017**
Option 4 ID : **264330539018**
Status : **Answered**
Chosen Option : **4**

Q.14 एक निश्चित कूट भाषा में, 'IMAGE' को 'RN1TV' लिखा जाता है। उस कूट भाषा में 'KNIFE' को कैसे लिखा जाएगा?

Ans

✓ 1. PM9UV

✗ 2. PIMVU

✗ 3. P9MUV

✗ 4. PM9VU

Question Type : **MCQ**
Question ID : **264330134981**
Option 1 ID : **264330528859**
Option 2 ID : **264330528860**
Option 3 ID : **264330528861**
Option 4 ID : **264330528862**
Status : **Answered**
Chosen Option : **1**

Join Telegram Group "HaryanaJobs.in"

Q.15 उस विकल्प को चुनिए जो तीसरे अक्षर से ठीक उसी प्रकार संबंधित है जिस प्रकार दूसरा अक्षर पहले अक्षर से संबंधित है।
A : Z :: I : ?

Ans
1. V ✗
2. R ✓
3. S ✗
4. T ✗

Question Type : **MCQ**
Question ID : **264330137584**
Option 1 ID : **264330538946**
Option 2 ID : **264330538944**
Option 3 ID : **264330538943**
Option 4 ID : **264330538945**
Status : **Answered**
Chosen Option : **2**

Q.16 एक निश्चित कूट भाषा में, 'RATIO' को 'ITARO' लिखा जाता है। उस भाषा में 'UNTIL' को कैसे लिखा जाएगा?

Ans
1. INTUL ✗
2. ITLUN ✗
3. ITUNL ✗
4. ITNUL ✓

Question Type : **MCQ**
Question ID : **264330137858**
Option 1 ID : **264330540039**
Option 2 ID : **264330540041**
Option 3 ID : **264330540042**
Option 4 ID : **264330540040**
Status : **Answered**
Chosen Option : **4**

Q.17 उस विकल्प को चुनिए जो तीसरे शब्द से ठीक उसी प्रकार संबंधित है जिस प्रकार दूसरा शब्द पहले शब्द से संबंधित है।
मलेशिया : कुआलालंपुर (Kuala Lumpur) :: भूटान : ?

Ans
1. थिम्फू ✓
2. काठमांडू ✗
3. ढाका ✗
4. इस्लामाबाद ✗

Question Type : **MCQ**
Question ID : **264330137583**
Option 1 ID : **264330538941**
Option 2 ID : **264330538942**
Option 3 ID : **264330538940**
Option 4 ID : **264330538939**
Status : **Answered**
Chosen Option : **1**

Join Telegram Group "HaryanaJobs.in"

Q.18 दो कथन दिए गए हैं और दो निष्कर्ष I और II दिए गए हैं। कथनों को सत्य मानते हुए, चाहे वे सामान्यतः ज्ञात तथ्यों से अलग प्रतीत होते हों, निश्चय कीजिए कि कौन-सा निष्कर्ष तार्किक रूप से कथनों के अनुसार है।

कथन:

सभी विषय, कठिन हैं।

कोई कठिन, आसान नहीं है।

निष्कर्ष:

I. कुछ विषय, आसान हैं।

II. कुछ आसान, कठिन हैं।

Ans
1. केवल निष्कर्ष II कथनों के अनुसार है।
2. केवल निष्कर्ष I कथनों के अनुसार है।
3. दोनों निष्कर्ष I और II कथनों के अनुसार हैं।
4. न तो निष्कर्ष I और न ही II कथनों के अनुसार है।

Question Type : **MCQ**
Question ID : **264330137592**
Option 1 ID : **264330538976**
Option 2 ID : **264330538975**
Option 3 ID : **264330538977**
Option 4 ID : **264330538978**
Status : **Answered**
Chosen Option : **4**

Q.19 निम्नलिखित प्रश्न में, दी गई श्रृंखला में लुप्त संख्या को चुनिए ।

1, 22, 43, 64, 85, ?

Ans
1. 110
2. 106
3. 108
4. 114

Question Type : **MCQ**
Question ID : **264330138489**
Option 1 ID : **264330542565**
Option 2 ID : **264330542563**
Option 3 ID : **264330542564**
Option 4 ID : **264330542566**
Status : **Answered**
Chosen Option : **2**

Join Telegram Group "HaryanaJobs.in"

Q.20 दिए गए समीकरण को सही करने के लिए किन दो संख्याओं को आपस में बदला जाना चाहिए?
11 × 2 + 15 ÷ 13 − 3 = 14

Ans
1. 14 और 15
2. 11 और 15
3. 13 और 3
4. 3 और 2

Question Type : **MCQ**
Question ID : **264330137598**
Option 1 ID : **264330539002**
Option 2 ID : **264330539000**
Option 3 ID : **264330538999**
Option 4 ID : **264330539001**
Status : **Answered**
Chosen Option : **3**

Section : **General Awareness**

Q.1 नीरज चोपड़ा ने _____ के थ्रो (throw) के साथ टोक्यो ओलंपिक 2020 में ऐतिहासिक स्वर्ण पदक जीता।

Ans
1. 87.58 m
2. 85.58 m
3. 86.58 m
4. 88.58 m

Question Type : **MCQ**
Question ID : **264330138250**
Option 1 ID : **264330541609**
Option 2 ID : **264330541607**
Option 3 ID : **264330541608**
Option 4 ID : **264330541610**
Status : **Answered**
Chosen Option : **4**

Q.2 निम्नलिखित में से कौन-सी संरचना बौद्ध धर्म से संबंधित है?

Ans
1. मंडप
2. पल्लव
3. शिखर
4. स्तूप

Question Type : **MCQ**
Question ID : **264330134035**
Option 1 ID : **264330525163**
Option 2 ID : **264330525166**
Option 3 ID : **264330525164**
Option 4 ID : **264330525165**
Status : **Answered**
Chosen Option : **4**

Join Telegram Group "HaryanaJobs.in"

Q.3 सरकार ने _____ में उद्यमशीलता को बढ़ावा देने के लिए स्टैंड-अप इंडिया योजना शुरू की है।

Ans
1. बुजुर्ग व्यक्तियों
2. विकलांग व्यक्तियों
3. महिलाएँ और अनुसूचित जाति/जनजाति समुदाय
4. ट्रांसजेंडर समुदाय

Question Type : **MCQ**
Question ID : **264330137761**
Option 1 ID : **264330539651**
Option 2 ID : **264330539652**
Option 3 ID : **264330539653**
Option 4 ID : **264330539654**
Status : **Answered**
Chosen Option : **2**

Q.4 राष्ट्रीय कृषि और ग्रामीण विकास बैंक का मुख्य कार्यालय _____ में स्थित है।

Ans
1. चेन्नई
2. कोलकाता
3. पुणे
4. मुंबई

Question Type : **MCQ**
Question ID : **264330137993**
Option 1 ID : **264330540582**
Option 2 ID : **264330540579**
Option 3 ID : **264330540580**
Option 4 ID : **264330540581**
Status : **Answered**
Chosen Option : **3**

Q.5 मंत्रिपरिषद में प्रधानमंत्री सहित मंत्रियों की कुल संख्या लोकसभा के सदस्यों की कुल संख्या के _____ प्रतिशत से अधिक नहीं होनी चाहिए।

Ans
1. बीस
2. पंद्रह
3. दस
4. बारह

Question Type : **MCQ**
Question ID : **264330137782**
Option 1 ID : **264330539735**
Option 2 ID : **264330539736**
Option 3 ID : **264330539737**
Option 4 ID : **264330539738**
Status : **Answered**
Chosen Option : **3**

Join Telegram Group "HaryanaJobs.in"

Q.6 चपचार कुट (Chapchar kut) महोत्सव, भारत के _____ राज्य का एक प्रसिद्ध त्योहार है।

Ans
✔ 1. मिज़ोरम
✘ 2. पंजाब
✘ 3. उत्तरप्रदेश
✘ 4. तमिलनाडु

Question Type : **MCQ**
Question ID : **264330135462**
Option 1 ID : **264330530755**
Option 2 ID : **264330530756**
Option 3 ID : **264330530758**
Option 4 ID : **264330530757**
Status : **Answered**
Chosen Option : **1**

Q.7 निम्नलिखित में से किस क्षेत्र में वर्ष भर दिन और रात लगभग बराबर होते हैं?

Ans
✘ 1. पर्वतीय वन क्षेत्र
✘ 2. टुंड्रा क्षेत्र
✔ 3. भूमध्यरेखीय क्षेत्र
✘ 4. मरुस्थलीय क्षेत्र

Question Type : **MCQ**
Question ID : **264330138261**
Option 1 ID : **264330541654**
Option 2 ID : **264330541651**
Option 3 ID : **264330541652**
Option 4 ID : **264330541653**
Status : **Answered**
Chosen Option : **3**

Q.8 स्थानांतरी कृषि को _____ में झूम के नाम से भी जाना जाता है।

Ans
✘ 1. राजस्थान
✘ 2. महाराष्ट्र
✔ 3. असम
✘ 4. कर्नाटक

Question Type : **MCQ**
Question ID : **264330137978**
Option 1 ID : **264330540519**
Option 2 ID : **264330540522**
Option 3 ID : **264330540521**
Option 4 ID : **264330540520**
Status : **Answered**
Chosen Option : **3**

Join Telegram Group "HaryanaJobs.in"

Q.9 In which sport did Mirabai Chanu win India's first Gold Medal at the Commonwealth Games 2022?

Ans
1. Boxing ✗
2. Shooting ✗
3. Weightlifting ✓
4. Archery ✗

Question Type : **MCQ**
Question ID : **264330137783**
Option 1 ID : **264330539740**
Option 2 ID : **264330539741**
Option 3 ID : **264330539742**
Option 4 ID : **264330539739**
Status : **Answered**
Chosen Option : **3**

Q.10 कथकली किस राज्य का शास्त्रीय नृत्य है?

Ans
1. कर्नाटक ✗
2. केरल ✓
3. आंध्रप्रदेश ✗
4. तमिलनाडु ✗

Question Type : **MCQ**
Question ID : **264330137763**
Option 1 ID : **264330539659**
Option 2 ID : **264330539660**
Option 3 ID : **264330539662**
Option 4 ID : **264330539661**
Status : **Answered**
Chosen Option : **2**

Q.11 भारतीय संविधान के कौन-से अनुच्छेद मौलिक अधिकारों की बात करते हैं?

Ans
1. अनुच्छेद 12 से 35 ✓
2. अनुच्छेद 5 से 11 ✗
3. अनुच्छेद 5 से 35 ✗
4. अनुच्छेद 12 से 40 ✗

Question Type : **MCQ**
Question ID : **264330137781**
Option 1 ID : **264330539734**
Option 2 ID : **264330539731**
Option 3 ID : **264330539732**
Option 4 ID : **264330539733**
Status : **Answered**
Chosen Option : **1**

Join Telegram Group "HaryanaJobs.in"

Q.12 संथाल समुदाय _____ भारत का एक नृजातीय समूह है।

Ans
1. पश्चिमी
2. उत्तरी
3. पूर्वी
4. दक्षिणी

Question Type : **MCQ**
Question ID : **264330135472**
Option 1 ID : **264330530796**
Option 2 ID : **264330530797**
Option 3 ID : **264330530795**
Option 4 ID : **264330530798**
Status : **Answered**
Chosen Option : **2**

Q.13 श्रीमंत शंकरदेव को आम तौर पर नए संगीत, नाटकीय और भाषाई शैली का पथप्रदर्शक माना जाता है। वह निम्नलिखित में से किस नृत्य शैली से संबंधित हैं?

Ans
1. सत्रिया
2. कथकली
3. ओडिसी
4. मणिपुरी

Question Type : **MCQ**
Question ID : **264330137988**
Option 1 ID : **264330540562**
Option 2 ID : **264330540561**
Option 3 ID : **264330540560**
Option 4 ID : **264330540559**
Status : **Answered**
Chosen Option : **2**

Q.14 निम्न में से कौन-सी जानी-मानी शख़्सियत आधुनिक इतिहास के चरमपंथी चरण से संबंधित थे?

Ans
1. ए. ओ. ह्यूम (A.O. Hume)
2. बाल गंगाधर तिलक
3. गोपाल कृष्ण गोखले
4. पी.एम. मेहता (P.M. Mehta)

Question Type : **MCQ**
Question ID : **264330134046**
Option 1 ID : **264330525208**
Option 2 ID : **264330525210**
Option 3 ID : **264330525207**
Option 4 ID : **264330525209**
Status : **Answered**
Chosen Option : **2**

Join Telegram Group "HaryanaJobs.in"

Q.15 दंत क्षय को कम करने के लिए टूथपेस्ट में क्या मिलाया जाता है?

Ans
1. लौह (Iron)
2. कोबाल्ट (Cobalt)
3. फ्लूराइड (Fluoride)
4. मालिब्डेनम (Molybdenum)

Question Type : **MCQ**
Question ID : **264330137767**
Option 1 ID : **264330539677**
Option 2 ID : **264330539678**
Option 3 ID : **264330539675**
Option 4 ID : **264330539676**
Status : **Answered**
Chosen Option : **2**

Q.16 लेंस की क्षमता का SI मात्रक _____ है।

Ans
1. वाट (watt)
2. मोल (mole)
3. कैंडेला (candela)
4. डाइऑप्टर (dioptre)

Question Type : **MCQ**
Question ID : **264330138262**
Option 1 ID : **264330541655**
Option 2 ID : **264330541657**
Option 3 ID : **264330541656**
Option 4 ID : **264330541658**
Status : **Answered**
Chosen Option : **4**

Q.17 "द इनहेरिटेंस ऑफ लॉस (The Inheritance of Loss)" निम्नलिखित में से किस लेखक द्वारा लिखा गया है?

Ans
1. अनीता देसाई
2. अमिताव घोष
3. किरण देसाई
4. झुंपा लाहिड़ी

Question Type : **MCQ**
Question ID : **264330137986**
Option 1 ID : **264330540553**
Option 2 ID : **264330540554**
Option 3 ID : **264330540552**
Option 4 ID : **264330540551**
Status : **Answered**
Chosen Option : **3**

Join Telegram Group "HaryanaJobs.in"

Q.18 केंद्रीय गृह मंत्रालय के अनुसार, 2021 की जनगणना (जो COVID 19 के कारण स्थगित हो गई थी) में पहली बार _____ का डेटा एकत्र करना था।

Ans

✗ 1. अनुसूचित जनजातियों

✗ 2. अनुसूचित जातियों

✗ 3. आर्थिक रूप से कमजोर वर्ग

✓ 4. अन्य पिछड़ा वर्ग

Question Type : **MCQ**
Question ID : **264330134042**
Option 1 ID : **264330525194**
Option 2 ID : **264330525193**
Option 3 ID : **264330525191**
Option 4 ID : **264330525192**
Status : **Answered**
Chosen Option : **3**

Q.19 राष्ट्रीय डोपिंग रोधी विधेयक 27 जुलाई, 2022 को लोकसभा में पारित हुआ था। निम्नलिखित में से कौन-सी संस्था भारत में डोपिंग नियंत्रण कार्यक्रमों का प्रबंधन और संचालन करती है?

Ans

✗ 1.
राष्ट्रीय प्रतिकूल डोपिंग एजेंसी (National Adverse Doping Agency (NADA))

✓ 2.
राष्ट्रीय डोपिंग रोधी एजेंसी (National Anti-Doping Agency (NADA))

✗ 3.
राष्ट्रीय डोप परीक्षण प्रयोगशाला (National Dope Testing Laboratory (NDTL))

✗ 4.
राष्ट्रीय डोपिंग नियंत्रण एजेंसी (National Doping Control Agency (NDCA))

Question Type : **MCQ**
Question ID : **264330134032**
Option 1 ID : **264330525154**
Option 2 ID : **264330525151**
Option 3 ID : **264330525152**
Option 4 ID : **264330525153**
Status : **Answered**
Chosen Option : **2**

Q.20 प्रवास में, वे कारक जो लोगों को अपने निवास स्थान अथवा उद्गम को छुड़वाने का कारण बनते हैं, _____ कहलाते हैं।

Ans

✗ 1. नियमित कारक (Regular factor)

✓ 2. प्रतिकर्ष कारक (Push factor)

✗ 3. अनियमित कारक (Irregular factor)

✗ 4. अपकर्ष कारक (Pull factor)

Question Type : **MCQ**
Question ID : **264330138315**
Option 1 ID : **264330541870**
Option 2 ID : **264330541868**
Option 3 ID : **264330541869**
Option 4 ID : **264330541867**
Status : **Answered**
Chosen Option : **3**

Join Telegram Group "HaryanaJobs.in"

Q.21 विश्व में सर्वाधिक वर्षा वाला स्थान कौन-सा है?

Ans
✔ 1. मासिनराम (Mawsynram)
✘ 2. गुवाहाटी (Guwahati)
✘ 3. ईटानगर (Itanagar)
✘ 4. अगरतला (Agartala)

Question Type : **MCQ**
Question ID : **264330137771**
Option 1 ID : **264330539692**
Option 2 ID : **264330539691**
Option 3 ID : **264330539694**
Option 4 ID : **264330539693**
Status : **Answered**
Chosen Option : **1**

Q.22 "उर्वरक" के संदर्भ में निम्नलिखित में से कौन-सा कथन सही नहीं है?

Ans
✘ 1. ये प्राकृतिक पदार्थ हैं
✔ 2. ये मृदा को ह्यूमस प्रदान नहीं करते
✘ 3. इनमें पादप पोषक तत्व तुलनात्मक रूप से कम मात्रा में होते हैं
✘ 4. इन्हें खेतों में तैयार किया जा सकता है

Question Type : **MCQ**
Question ID : **264330138260**
Option 1 ID : **264330541647**
Option 2 ID : **264330541648**
Option 3 ID : **264330541650**
Option 4 ID : **264330541649**
Status : **Answered**
Chosen Option : **3**

Q.23 चोल काल के दौरान _____ को "ब्रह्मदेय" प्रकार की भूमि के रूप में जाना जाता था।

Ans
✘ 1. राजकीय व्यक्ति की भूमि
✘ 2. मंदिर को उपहार में दी गई भूमि
✘ 3. गैर-ब्राह्मण किसान स्वामी की भूमि
✔ 4. ब्राह्मणों को उपहार में दी गई भूमि

Question Type : **MCQ**
Question ID : **264330138268**
Option 1 ID : **264330541681**
Option 2 ID : **264330541680**
Option 3 ID : **264330541679**
Option 4 ID : **264330541682**
Status : **Answered**
Chosen Option : **4**

Join Telegram Group "HaryanaJobs.in"

Q.24 निम्नलिखित स्वतंत्रता सेनानियों में से कौन 1885 में पुणे में फर्ग्युसन (Fergusson) कॉलेज के संस्थापकों में से एक था?

Ans
1. सरदार वल्लभ भाई पटेल
2. बाल गंगाधर तिलक
3. लाला लाजपत राय
4. सुभाष चंद्र बोस

Question Type : **MCQ**
Question ID : **264330135475**
Option 1 ID : **264330530808**
Option 2 ID : **264330530809**
Option 3 ID : **264330530810**
Option 4 ID : **264330530807**
Status : **Answered**
Chosen Option : **1**

Q.25 निम्नलिखित में से किस गायक को दादा साहब फाल्के पुरस्कार से सम्मानित किया गया है?

Ans
1. सोनू निगम
2. आशा भोसले
3. अरिजीत सिंह
4. नेहा कक्कड़

Question Type : **MCQ**
Question ID : **264330137779**
Option 1 ID : **264330539726**
Option 2 ID : **264330539724**
Option 3 ID : **264330539723**
Option 4 ID : **264330539725**
Status : **Answered**
Chosen Option : **2**

Section : **English Language and Comprehension**

Q.1 Select the correctly spelt word.

Ans
1. Dominiering
2. Domineering
3. Domoneering
4. Dominering

Question Type : **MCQ**
Question ID : **264330136235**
Option 1 ID : **264330533730**
Option 2 ID : **264330533727**
Option 3 ID : **264330533728**
Option 4 ID : **264330533729**
Status : **Answered**
Chosen Option : **2**

Join Telegram Group "HaryanaJobs.in"

Q.2 **Find the part of the given sentence that has an error in it. If there is no error, choose 'No error'.**
He didn't went to the school as he was down with fever.

Ans
✗ 1. was down with fever.
✗ 2. No error
✗ 3. to the school as he
✓ 4. He didn't went

Question Type : **MCQ**
Question ID : **264330134398**
Option 1 ID : **264330526573**
Option 2 ID : **264330526574**
Option 3 ID : **264330526572**
Option 4 ID : **264330526571**
Status : **Answered**
Chosen Option : **2**

Q.3 Select the most appropriate meaning of the given idiom.

High horse

Ans
✗ 1. To be very lucky
✗ 2. To have a low self-esteem
✓ 3. An attitude of moral superiority
✗ 4. To be the person in charge

Question Type : **MCQ**
Question ID : **264330136633**
Option 1 ID : **264330535257**
Option 2 ID : **264330535256**
Option 3 ID : **264330535255**
Option 4 ID : **264330535258**
Status : **Answered**
Chosen Option : **1**

Q.4 **Choose the word that is opposite in meaning to the given word.**
Apprentice

Ans
✗ 1. Essential
✗ 2. Crude
✗ 3. Neophyte
✓ 4. Veteran

Question Type : **MCQ**
Question ID : **264330134520**
Option 1 ID : **264330527041**
Option 2 ID : **264330527042**
Option 3 ID : **264330527039**
Option 4 ID : **264330527040**
Status : **Answered**
Chosen Option : **4**

Join Telegram Group "HaryanaJobs.in"

Q.5 Identify the segment that contains a grammatical error. If there is no error, select 'No error'.

He behaves so aggressive in his new/ home that he is rehoused with an old/ couple who could give him everything he lacks.

Ans

✔ 1. He behaves so aggressive in his new

✘ 2. home that he is rehoused with an old

✘ 3. couple who could give him everything he lacks.

✘ 4. No error

Question Type : **MCQ**
Question ID : **264330136665**
Option 1 ID : **264330535379**
Option 2 ID : **264330535380**
Option 3 ID : **264330535381**
Option 4 ID : **264330535382**
Status : **Answered**
Chosen Option : **3**

Q.6 Select the most appropriate antonym to substitute the bracketed word in the given sentence.

The lens in this collection is focused very carefully upon the (quotidian), with all of its utterly familiar vexations.

Ans

✘ 1. Mandatory

✘ 2. Obligatory

✘ 3. Normal

✔ 4. Sporadic

Question Type : **MCQ**
Question ID : **264330136232**
Option 1 ID : **264330533715**
Option 2 ID : **264330533718**
Option 3 ID : **264330533716**
Option 4 ID : **264330533717**
Status : **Answered**
Chosen Option : **1**

Q.7 Select the most appropriate option to fill in the blank.

He wanted me to _____ your necklace.

Ans

✘ 1. stern

✘ 2. steam

✘ 3. steel

✔ 4. steal

Question Type : **MCQ**
Question ID : **264330135228**
Option 1 ID : **264330529835**
Option 2 ID : **264330529836**
Option 3 ID : **264330529838**
Option 4 ID : **264330529837**
Status : **Answered**
Chosen Option : **4**

Join Telegram Group "HaryanaJobs.in"

Q.8 Choose the word that means the same as the given word.

Backfire

Ans
1. Florid ✗
2. Flood ✗
3. Collapse ✓
4. Flourish ✗

Question Type : **MCQ**
Question ID : **264330135273**
Option 1 ID : **264330530007**
Option 2 ID : **264330530008**
Option 3 ID : **264330530010**
Option 4 ID : **264330530009**
Status : **Answered**
Chosen Option : **4**

Q.9 Identify the segment that contains a grammatical error. If there is no error, select 'No error'

In doing so, he have acquainted/ himself with the geological features/ and colours of the stone of the site.

Ans
1. and colours of the stone of the site. ✗
2. himself with the geological features ✗
3. No error ✗
4. In doing so, he have acquainted ✓

Question Type : **MCQ**
Question ID : **264330136215**
Option 1 ID : **264330533653**
Option 2 ID : **264330533652**
Option 3 ID : **264330533654**
Option 4 ID : **264330533651**
Status : **Answered**
Chosen Option : **4**

Q.10 Select the most appropriate word for the given group of words.

Impossible to deny or disapprove

Ans
1. Frangible ✗
2. Assailable ✗
3. Dubitable ✗
4. Incontrovertible ✓

Question Type : **MCQ**
Question ID : **264330136228**
Option 1 ID : **264330533702**
Option 2 ID : **264330533699**
Option 3 ID : **264330533701**
Option 4 ID : **264330533700**
Status : **Answered**
Chosen Option : **4**

Join Telegram Group "HaryanaJobs.in"

Q.11 Improve the underlined part of the sentence. Choose 'No improvement' as an answer if the sentence is grammatically correct.

The film's director decide to reshoot the scene.

Ans

✗ 1. No improvement

✓ 2. decided to reshoot

✗ 3. deciding to reshoot

✗ 4. decide to reshot

Question Type : **MCQ**
Question ID : **264330134775**
Option 1 ID : **264330528050**
Option 2 ID : **264330528047**
Option 3 ID : **264330528049**
Option 4 ID : **264330528048**
Status : **Answered**
Chosen Option : **2**

Q.12 Choose the sentence with no spelling error.

Ans

✗ 1. We need to give priorrity to customer satisfaction.

✗ 2. We need to give priority to customar satisfaction.

✗ 3. We need to give priority to customer satisfraction.

✓ 4. We need to give priority to customer satisfaction.

Question Type : **MCQ**
Question ID : **264330135227**
Option 1 ID : **264330529834**
Option 2 ID : **264330529832**
Option 3 ID : **264330529831**
Option 4 ID : **264330529833**
Status : **Answered**
Chosen Option : **4**

Q.13 Select the most appropriate option to fill in the blank.

If the anesthesia is not _____ properly, he might wake up in the _____ of the surgery.

Ans

✗ 1. perpetuated/ start

✓ 2. administered/ middle

✗ 3. perpetuated/ middle

✗ 4. administer/during

Question Type : **MCQ**
Question ID : **264330136238**
Option 1 ID : **264330533741**
Option 2 ID : **264330533740**
Option 3 ID : **264330533742**
Option 4 ID : **264330533739**
Status : **Answered**
Chosen Option : **2**

Join Telegram Group "HaryanaJobs.in"

Q.14 Select the most appropriate word for the given group of words.

Scientific tests or techniques used in connection with the detection of crime

Ans

1. Etymology ✗
2. Autopsy ✗
3. Post-mortem ✗
4. Forensics ✓

Question Type : **MCQ**
Question ID : **264330136627**
Option 1 ID : **264330535231**
Option 2 ID : **264330535233**
Option 3 ID : **264330535232**
Option 4 ID : **264330535234**
Status : **Answered**
Chosen Option : **3**

Q.15 A sentence has been given with a blank to be filled with an appropriate option. Choose the correct alternative.

The need to take theatre online _____ in global collaborations.

Ans

1. result ✗
2. have resulted ✗
3. has resulted ✓
4. resulting ✗

Question Type : **MCQ**
Question ID : **264330135263**
Option 1 ID : **264330529974**
Option 2 ID : **264330529972**
Option 3 ID : **264330529973**
Option 4 ID : **264330529971**
Status : **Answered**
Chosen Option : **3**

Q.16 Select the word segment that substitutes (replaces) the bracketed word segment correctly and completes the sentence meaningfully. Select the option 'no correction required' if the sentence is correct as given.

(Much times), I have felt that conversations like these must take place in person.

Ans

1. No correction required ✗
2. Many time ✗
3. Many a time ✓
4. Many a times ✗

Question Type : **MCQ**
Question ID : **264330136244**
Option 1 ID : **264330533766**
Option 2 ID : **264330533765**
Option 3 ID : **264330533764**
Option 4 ID : **264330533763**
Status : **Answered**
Chosen Option : **1**

Join Telegram Group "HaryanaJobs.in"

Q.17 Select the most appropriate option to substitute the bracketed segment in the given sentence. If there is no need to substitute it, select 'no substitution required'.

Jane was asked by her (aunt, "Where were you least night"?)

Ans

✗ 1. No substitution required

✗ 2. aunt that, "Where were you last night?"

✓ 3. aunt, "Where were you last night?"

✗ 4. aunt, "Where last night you was?"

Question Type : **MCQ**
Question ID : **264330136668**
Option 1 ID : **264330535394**
Option 2 ID : **264330535391**
Option 3 ID : **264330535393**
Option 4 ID : **264330535392**
Status : **Answered**
Chosen Option : **3**

Q.18 Select the most appropriate synonym of the given word.

Unfamiliar

Ans

✗ 1. Prodigal

✗ 2. Unsparing

✗ 3. Parallel

✓ 4. Strange

Question Type : **MCQ**
Question ID : **264330136229**
Option 1 ID : **264330533705**
Option 2 ID : **264330533706**
Option 3 ID : **264330533704**
Option 4 ID : **264330533703**
Status : **Answered**
Chosen Option : **4**

Q.19 Select the most appropriate meaning of the bracketed idiom in the given sentence.

After repeated failures and disappointments he was tempted (to throw up the sponge), but continued perseverance finally brought success.

Ans

✗ 1. To catch somebody of guard

✗ 2. To be afraid

✓ 3. To surrender or give up the contest

✗ 4. To reveal secret information

Question Type : **MCQ**
Question ID : **264330136234**
Option 1 ID : **264330533726**
Option 2 ID : **264330533723**
Option 3 ID : **264330533724**
Option 4 ID : **264330533725**
Status : **Answered**
Chosen Option : **3**

Join Telegram Group "HaryanaJobs.in"

Q.20 Select the most appropriate option to fill in the blank.

As a preliminary to negotiation, the government was required to _____ all the obnoxious measures.

Ans

✗ 1. quaint

✗ 2. requisite

✓ 3. rescind

✗ 4. repeat

Question Type : **MCQ**
Question ID : **264330136219**
Option 1 ID : **264330533667**
Option 2 ID : **264330533669**
Option 3 ID : **264330533670**
Option 4 ID : **264330533668**
Status : **Answered**
Chosen Option : **3**

Comprehension:

In the following passage some of the words have been deleted. Read the passage carefully and select the correct answer for the given blank out of the four alternatives.
Gaming in the banking sector seems virtually (1) _____ to eliminate. The only effective measure to end it would be to (2) _____ bankers personally liable for losses, to remove the sense that their actions – their games – have (3) _____ personal financial or legal consequences.
It is this, rather (4) _____ removing the cap on bankers' bonuses, that has the best chance of preventing the financial system blowing (5) _____ again.

SubQuestion No : 21

Q.21 Select the most appropriate option to fill in blank number 1.

Ans

✗ 1. liable

✗ 2. penetrable

✓ 3. impossible

✗ 4. feasible

Question Type : **MCQ**
Question ID : **264330134511**
Option 1 ID : **264330527004**
Option 2 ID : **264330527005**
Option 3 ID : **264330527003**
Option 4 ID : **264330527006**
Status : **Answered**
Chosen Option : **3**

Join Telegram Group "HaryanaJobs.in"

Comprehension:

In the following passage some of the words have been deleted. Read the passage carefully and select the correct answer for the given blank out of the four alternatives.
Gaming in the banking sector seems virtually (1) _____ to eliminate. The only effective measure to end it would be to (2) _____ bankers personally liable for losses, to remove the sense that their actions – their games – have (3) _____ personal financial or legal consequences.
It is this, rather (4) _____ removing the cap on bankers' bonuses, that has the best chance of preventing the financial system blowing (5) _____ again.

SubQuestion No : 22

Q.22 Select the most appropriate option to fill in blank number 2.

Ans

✔ 1. make

✘ 2. gave

✘ 3. bake

✘ 4. take

Question Type : **MCQ**
Question ID : **264330134512**
Option 1 ID : **264330527008**
Option 2 ID : **264330527007**
Option 3 ID : **264330527009**
Option 4 ID : **264330527010**
Status : **Answered**
Chosen Option : **1**

Comprehension:

In the following passage some of the words have been deleted. Read the passage carefully and select the correct answer for the given blank out of the four alternatives.
Gaming in the banking sector seems virtually (1) _____ to eliminate. The only effective measure to end it would be to (2) _____ bankers personally liable for losses, to remove the sense that their actions – their games – have (3) _____ personal financial or legal consequences.
It is this, rather (4) _____ removing the cap on bankers' bonuses, that has the best chance of preventing the financial system blowing (5) _____ again.

SubQuestion No : 23

Q.23 Select the most appropriate option to fill in blank number 3.

Ans

✘ 1. not

✘ 2. none

✘ 3. never

✔ 4. no

Question Type : **MCQ**
Question ID : **264330134513**
Option 1 ID : **264330527012**
Option 2 ID : **264330527014**
Option 3 ID : **264330527011**
Option 4 ID : **264330527013**
Status : **Answered**
Chosen Option : **4**

Join Telegram Group "HaryanaJobs.in"

Comprehension:

In the following passage some of the words have been deleted. Read the passage carefully and select the correct answer for the given blank out of the four alternatives.
Gaming in the banking sector seems virtually (1) _____ to eliminate. The only effective measure to end it would be to (2) _____ bankers personally liable for losses, to remove the sense that their actions – their games – have (3) _____ personal financial or legal consequences.
It is this, rather (4) _____ removing the cap on bankers' bonuses, that has the best chance of preventing the financial system blowing (5) _____ again.

SubQuestion No : 24

Q.24 Select the most appropriate option to fill in blank number 4.

Ans

✗ 1. so

✗ 2. then

✓ 3. than

✗ 4. but

Question Type : **MCQ**
Question ID : **264330134514**
Option 1 ID : **264330527017**
Option 2 ID : **264330527015**
Option 3 ID : **264330527018**
Option 4 ID : **264330527016**
Status : **Answered**
Chosen Option : **3**

Comprehension:

In the following passage some of the words have been deleted. Read the passage carefully and select the correct answer for the given blank out of the four alternatives.
Gaming in the banking sector seems virtually (1) _____ to eliminate. The only effective measure to end it would be to (2) _____ bankers personally liable for losses, to remove the sense that their actions – their games – have (3) _____ personal financial or legal consequences.
It is this, rather (4) _____ removing the cap on bankers' bonuses, that has the best chance of preventing the financial system blowing (5) _____ again.

SubQuestion No : 25

Q.25 Select the most appropriate option to fill in blank number 5.

Ans

✗ 1. on

✗ 2. off

✓ 3. up

✗ 4. into

Question Type : **MCQ**
Question ID : **264330134515**
Option 1 ID : **264330527020**
Option 2 ID : **264330527021**
Option 3 ID : **264330527022**
Option 4 ID : **264330527019**
Status : **Answered**
Chosen Option : **2**

Join Telegram Group "HaryanaJobs.in"

Multi Tasking Non Technical Staff and Havaldar CBIC and CBN Examination 2022

Roll Number	HaryanaJobs.in
Candidate Name	HaryanaJobs.in
Venue Name	iON Digital Zone iDZ Laxman Nagar
Exam Date	10/05/2023
Exam Time	3:30 PM - 5:00 PM
Subject	MTS Non Tech Havaldar CBIC and CBN Examination 2022

Section : **Numerical and Mathematical Ability**

Q.1 5 संख्याओं का औसत 48 है। उनमें से दो संख्याओं का औसत 40 है जबकि अन्य दो संख्याओं का औसत 58 है। शेष संख्या का मान ज्ञात कीजिए।

Ans
✗ 1. 30
✗ 2. 40
✗ 3. 34
✓ 4. 44

Question Type : **MCQ**
Question ID : **264330138371**
Option 1 ID : **264330542091**
Option 2 ID : **264330542093**
Option 3 ID : **264330542092**
Option 4 ID : **264330542094**
Status : **Answered**
Chosen Option : **4**

Q.2 एक विक्रेता ने Rs. 50 में 12 संतरे खरीदे और उसने Rs. 30 में 12 संतरे की दर से उन्हें बेच दिया। हानि प्रतिशत ज्ञात कीजिए।

Ans
✗ 1. 30%
✓ 2. 40%
✗ 3. 45%
✗ 4. 25%

Question Type : **MCQ**
Question ID : **264330138376**
Option 1 ID : **264330542111**
Option 2 ID : **264330542113**
Option 3 ID : **264330542114**
Option 4 ID : **264330542112**
Status : **Answered**
Chosen Option : **2**

Join Telegram Group "HaryanaJobs.in"

Q.3 दो स्टेशन A और B एक सीधी रेखा पर एक-दूसरे से 230 km की दूरी पर हैं। A से एक रेलगाड़ी सुबह 4 बजे शुरू होकर B की ओर 40 km/hr की चाल से यात्रा करती है। एक दूसरी रेलगाड़ी B से सुबह 5 बजे शुरू होकर A की ओर 55 km/hr की चाल से यात्रा करती है। दोनों रेलगाड़ियाँ किस समय मिलेंगी?

Ans
✔ 1. सुबह 7 बजे
✘ 2. सुबह 10 बजे
✘ 3. सुबह 8 बजे
✘ 4. सुबह 6 बजे

Question Type : **MCQ**
Question ID : **264330138382**
Option 1 ID : **264330542135**
Option 2 ID : **264330542136**
Option 3 ID : **264330542138**
Option 4 ID : **264330542137**
Status : **Answered**
Chosen Option : **1**

Q.4 Rs. 500 की धनराशि 2 वर्ष में साधारण ब्याज पर Rs. 580 हो जाती है। समान साधारण ब्याज दर पर कितने वर्षों में Rs. 650 की धनराशि Rs. 858 हो जाएगी?

Ans
✘ 1. 6 वर्ष
✔ 2. 4 वर्ष
✘ 3. 5 वर्ष
✘ 4. 8 वर्ष

Question Type : **MCQ**
Question ID : **264330137163**
Option 1 ID : **264330537298**
Option 2 ID : **264330537295**
Option 3 ID : **264330537296**
Option 4 ID : **264330537297**
Status : **Answered**
Chosen Option : **2**

Q.5 5(12 + 20 ÷ 10 × 3 - 5) का मान ज्ञात कीजिए।

Ans
✘ 1. 40
✘ 2. 50
✘ 3. 35
✔ 4. 65

Question Type : **MCQ**
Question ID : **264330138368**
Option 1 ID : **264330542082**
Option 2 ID : **264330542079**
Option 3 ID : **264330542080**
Option 4 ID : **264330542081**
Status : **Answered**
Chosen Option : **4**

Join Telegram Group "HaryanaJobs.in"

Q.6 रमेश, राहुल से 60 प्रतिशत कम कुशल है। यदि राहुल एक कंप्यूटर को 12 दिनों में बना सकता है, तो रमेश उसी कंप्यूटर को कितने दिनों में बना सकता है?

Ans
✔ 1. 30 दिन
✘ 2. 40 दिन
✘ 3. 50 दिन
✘ 4. 60 दिन

Question Type : **MCQ**
Question ID : **264330135043**
Option 1 ID : **264330529110**
Option 2 ID : **264330529109**
Option 3 ID : **264330529108**
Option 4 ID : **264330529107**
Status : **Answered**
Chosen Option : **1**

Q.7 यदि(x + y) का 20 प्रतिशत = (x - y) का 30 प्रतिशत है, तो x, y का कितना प्रतिशत है?

Ans
✘ 1. 0.5 प्रतिशत
✔ 2. 500 प्रतिशत
✘ 3. 50 प्रतिशत
✘ 4. 5 प्रतिशत

Question Type : **MCQ**
Question ID : **264330137158**
Option 1 ID : **264330537278**
Option 2 ID : **264330537275**
Option 3 ID : **264330537276**
Option 4 ID : **264330537277**
Status : **Answered**
Chosen Option : **2**

Q.8 $\frac{\left(\frac{28}{9} \times \frac{42}{35}\right) \div \left(\frac{3}{25} \times \frac{5}{7} \div \frac{1}{21}\right)}{\left(\frac{14}{15} \div \frac{2}{75} \text{ of } \frac{7}{5}\right) \times \frac{1}{75} \div \frac{4}{3}}$ का मान क्या है?

Ans
✘ 1. 212/27
✘ 2. 222/27
✘ 3. 244/27
✔ 4. 224/27

Question Type : **MCQ**
Question ID : **264330137620**
Option 1 ID : **264330539090**
Option 2 ID : **264330539087**
Option 3 ID : **264330539088**
Option 4 ID : **264330539089**
Status : **Answered**
Chosen Option : **4**

Join Telegram Group "HaryanaJobs.in"

Q.9 एक मिश्रण में रेत और पत्थर का अनुपात 5:8 है जबकि पत्थर और सीमेंट का अनुपात 32:35 है। मिश्रण में रेत और सीमेंट का अनुपात क्या है?

Ans

✗ 1. 4:3
✗ 2. 1:7
✓ 3. 4:7
✗ 4. 2:3

Question Type : **MCQ**
Question ID : **264330138378**
Option 1 ID : **264330542120**
Option 2 ID : **264330542122**
Option 3 ID : **264330542119**
Option 4 ID : **264330542121**
Status : **Answered**
Chosen Option : **3**

Q.10 14 और 56 का तृतीय समानुपाती ज्ञात कीजिए।

Ans

✗ 1. 212
✗ 2. 220
✓ 3. 224
✗ 4. 218

Question Type : **MCQ**
Question ID : **264330138379**
Option 1 ID : **264330542126**
Option 2 ID : **264330542124**
Option 3 ID : **264330542123**
Option 4 ID : **264330542125**
Status : **Answered**
Chosen Option : **3**

Q.11 एक कार शुरुआती 140 km की दूरी 10 घंटों में और अगले 260 km की दूरी 15 घंटों में तय करती है। पूरी यात्रा में कार की औसत चाल कितनी है?

Ans

✓ 1. 16 km/hr
✗ 2. 14 km/hr
✗ 3. 15 km/hr
✗ 4. 10 km/hr

Question Type : **MCQ**
Question ID : **264330138395**
Option 1 ID : **264330542189**
Option 2 ID : **264330542188**
Option 3 ID : **264330542187**
Option 4 ID : **264330542190**
Status : **Answered**
Chosen Option : **1**

Join Telegram Group "HaryanaJobs.in"

Q.12 15 ÷ 5 of 3 - 3 × 4 + 13 का मान क्या है?

Ans
1. 0 ✗
2. 2 ✓
3. 3 ✗
4. 10 ✗

Question Type : **MCQ**
Question ID : **264330137148**
Option 1 ID : **264330537235**
Option 2 ID : **264330537237**
Option 3 ID : **264330537238**
Option 4 ID : **264330537236**
Status : **Answered**
Chosen Option : **2**

Q.13 एक त्रिभुज की ऊँचाई 56 cm है और संगत आधार, ऊँचाई का 1/4 है। त्रिभुज का क्षेत्रफल ज्ञात कीजिए।

Ans
1. 480 cm^2 ✗
2. 440 cm^2 ✗
3. 392 cm^2 ✓
4. 544 cm^2 ✗

Question Type : **MCQ**
Question ID : **264330138387**
Option 1 ID : **264330542158**
Option 2 ID : **264330542157**
Option 3 ID : **264330542155**
Option 4 ID : **264330542156**
Status : **Answered**
Chosen Option : **3**

Join Telegram Group "HaryanaJobs.in"

Q.14 नीचे दी गई तालिका में विभिन्न राज्यों में पुरुषों और महिलाओं की संख्या को दर्शाया गया है।

राज्य	पुरुष	महिला
A	50	100
B	200	150
C	300	25
D	25	50
E	125	75
F	150	250

J1 = A और B में पुरुषों की औसत संख्या का मान।
J2 = E और F में महिलाओं की औसत संख्या का मान।
(J2 - J1) का मान क्या है?

Ans
✗ 1. 56.5
✗ 2. 42.5
✓ 3. 37.5
✗ 4. 25.5

Question Type : **MCQ**
Question ID : **264330137621**
Option 1 ID : **264330539093**
Option 2 ID : **264330539092**
Option 3 ID : **264330539094**
Option 4 ID : **264330539091**
Status : **Answered**
Chosen Option : **3**

Q.15 A, B और C को एक कार्य पूरा करने के लिए दिया जाता है। यदि A, B और C द्वारा लिए गए समय का अनुपात 4:3:6 है, तो उनकी कार्यकुशलता का अनुपात ज्ञात कीजिए।

Ans
✗ 1. 3:4:6
✗ 2. 4:6:8
✓ 3. 3:4:2
✗ 4. 4:3:6

Question Type : **MCQ**
Question ID : **264330138383**
Option 1 ID : **264330542141**
Option 2 ID : **264330542142**
Option 3 ID : **264330542140**
Option 4 ID : **264330542139**
Status : **Answered**
Chosen Option : **3**

Join Telegram Group "HaryanaJobs.in"

Q.16 एक दुकानदार अंकित मूल्य पर 20% का बट्टा देता है और फिर भी वह कुल मिलाकर 12% का लाभ अर्जित करता है। ज्ञात कीजिए कि उसने अपनी वस्तु को क्रय मूल्य से कितने प्रतिशत अधिक पर अंकित किया था?

Ans

✗ 1. 30%

✗ 2. 20%

✓ 3. 40%

✗ 4. 10%

Question Type : **MCQ**
Question ID : **264330140998**
Option 1 ID : **264330552341**
Option 2 ID : **264330552339**
Option 3 ID : **264330552342**
Option 4 ID : **264330552340**
Status : **Answered**
Chosen Option : **3**

Q.17 निम्नलिखित दंड आलेख में 5 वर्षों में कंपनी A और कंपनी B में कर्मचारियों की संख्या को दर्शाया गया है।

वर्ष 2018 और 2019 में कंपनी A और कंपनी B में कर्मचारियों की कुल संख्या ज्ञात कीजिए।

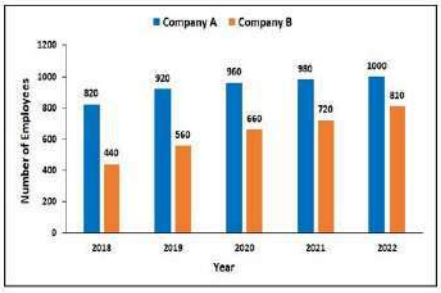

number of employees - कर्मचारियों की संख्या, Year - वर्ष, company A - कंपनी A , company B - कंपनी B

Ans

✗ 1. 2820

✗ 2. 3210

✗ 3. 2860

✓ 4. 2740

Question Type : **MCQ**
Question ID : **264330138386**
Option 1 ID : **264330542154**
Option 2 ID : **264330542152**
Option 3 ID : **264330542151**
Option 4 ID : **264330542153**
Status : **Answered**
Chosen Option : **4**

Join Telegram Group "HaryanaJobs.in"

Q.18 150 मीटर × 25 मीटर का एक आयताकार बगीचा है। बगीचे के बाहर चारों ओर 10 मीटर चौड़ा एक पथ बनाया गया है। उस पथ का क्षेत्रफल कितना है?

Ans

✔ 1. 3900 $metre^2$

✘ 2. 3220 $metre^2$

✘ 3. 3700 $metre^2$

✘ 4. 3550 $metre^2$

Question Type : **MCQ**
Question ID : **264330135058**
Option 1 ID : **264330529167**
Option 2 ID : **264330529170**
Option 3 ID : **264330529168**
Option 4 ID : **264330529169**
Status : **Answered**
Chosen Option : **1**

Q.19 कोई धनराशि साधारण ब्याज पर 14 प्रतिशत वार्षिक दर से कम-से-कम कितने पूर्ण वर्षों में स्वयं की चार गुना से अधिक हो जाएगी?

Ans

✘ 1. 20 वर्ष

✘ 2. 25 वर्ष

✘ 3. 29 वर्ष

✔ 4. 22 वर्ष

Question Type : **MCQ**
Question ID : **264330137333**
Option 1 ID : **264330537960**
Option 2 ID : **264330537961**
Option 3 ID : **264330537962**
Option 4 ID : **264330537959**
Status : **Answered**
Chosen Option : **4**

Q.20 एक दुकानदार ने Rs. 1400 अंकित मूल्य वाली एक पुस्तक 28% के बट्टे पर बेची। पुस्तक का विक्रय मूल्य ज्ञात कीजिए।

Ans

✘ 1. Rs. 2500

✘ 2. Rs. 2000

✔ 3. Rs. 1008

✘ 4. Rs. 1500

Question Type : **MCQ**
Question ID : **264330138377**
Option 1 ID : **264330542116**
Option 2 ID : **264330542118**
Option 3 ID : **264330542115**
Option 4 ID : **264330542117**
Status : **Answered**
Chosen Option : **3**

Section : **Reasoning Ability and Problem Solving**

Join Telegram Group "HaryanaJobs.in"

Q.1 किन दो चिन्हों को आपस में बदलने पर, समीकरण का मान सही होगा?

6 - 10 × 8 ÷ 5 + 7 = 15

Ans
1. + और ÷
2. ÷ और -
3. × और ÷
4. + और -

Question Type : **MCQ**
Question ID : **264330138493**
Option 1 ID : **264330542581**
Option 2 ID : **264330542582**
Option 3 ID : **264330542580**
Option 4 ID : **264330542579**
Status : **Answered**
Chosen Option : **4**

Q.2 (::) के बाईं ओर दिए गए शब्द आपस में किसी तर्क/नियम/संबंध द्वारा संबंधित हैं। समान तर्क/नियम/संबंध के आधार पर दिए गए विकल्पों में से (::) के दाईं ओर लुप्त शब्द/शब्द युग्म को चुनिए।

टैडपोल: मेंढक :: किटन: ?

Ans
1. कीट
2. हिरण
3. कुत्ता
4. बिल्ली

Question Type : **MCQ**
Question ID : **264330138479**
Option 1 ID : **264330542523**
Option 2 ID : **264330542525**
Option 3 ID : **264330542526**
Option 4 ID : **264330542524**
Status : **Answered**
Chosen Option : **4**

Q.3 एक निश्चित कूट भाषा में, 'EXPORT' को 'ORTEXP' लिखा जाता है। उस कूट भाषा में 'GENTLE' को कैसे लिखा जाएगा?

Ans
1. TLENEG
2. TLENGE
3. TELNEG
4. TLEGEN

Question Type : **MCQ**
Question ID : **264330138460**
Option 1 ID : **264330542448**
Option 2 ID : **264330542450**
Option 3 ID : **264330542447**
Option 4 ID : **264330542449**
Status : **Answered**
Chosen Option : **4**

Join Telegram Group "HaryanaJobs.in"

Q.4 दी गई दो संख्याओं को आपस में बदलने पर क्रमशः समीकरण (I) और (II) का मान क्या होगा?

8 और 2

I. 3 + 6 - 8 × 4 ÷ 2

II. 4 ÷ 6 × 9 + 2 - 8

Ans
1. 12 और 8
2. 9 और 15
3. 9 और 81
4. 8 और 12

Question Type : **MCQ**
Question ID : **264330137383**
Option 1 ID : **264330538161**
Option 2 ID : **264330538159**
Option 3 ID : **264330538162**
Option 4 ID : **264330538160**
Status : **Answered**
Chosen Option : **4**

Q.5 पाँच बल्लेबाजों रोहित, राहुल, विराट, सूर्या और हार्दिक के औसत की तुलना की जाती है। सूर्या का औसत केवल एक बल्लेबाज से अधिक है। विराट का औसत रोहित से अधिक है और रोहित का औसत हार्दिक से अधिक है। यदि रोहित का औसत = 120 है, तो सूर्या का औसत कितना हो सकता है?

Ans
1. 130
2. 125
3. 118
4. 128

Question Type : **MCQ**
Question ID : **264330138486**
Option 1 ID : **264330542554**
Option 2 ID : **264330542552**
Option 3 ID : **264330542551**
Option 4 ID : **264330542553**
Status : **Answered**
Chosen Option : **3**

Join Telegram Group "HaryanaJobs.in"

Q.6 निम्नलिखित प्रश्न में कुछ कथन दिए गए हैं और उन कथनों के आधार पर कुछ निष्कर्ष दिए गए हैं। आपको यह मानना है कि दिए गए कथन सत्य हैं चाहे वे समान्यतः ज्ञात तथ्यों से अलग प्रतीत होते हों। सभी निष्कर्षों को पढ़िए और फिर निश्चय कीजिए कि दिए गए निष्कर्षों में से कौन-सा निष्कर्ष तार्किक रूप से दिए गए कथनों के अनुसार है।

कथन:

I. कुछ V, P हैं।

II. कुछ F, V हैं।

निष्कर्ष:

I. कुछ F, P हैं।

II. कुछ V, F हैं।

Ans

✗ 1. दोनों निष्कर्ष I और II कथनों के अनुसार हैं

✗ 2. केवल निष्कर्ष I कथनों के अनुसार है

✓ 3. केवल निष्कर्ष II कथनों के अनुसार है

✗ 4. कोई भी निष्कर्ष कथनों के अनुसार नहीं है

Question Type : **MCQ**
Question ID : **264330138487**
Option 1 ID : **264330542557**
Option 2 ID : **264330542555**
Option 3 ID : **264330542556**
Option 4 ID : **264330542558**
Status : **Answered**
Chosen Option : **3**

Join Telegram Group "HaryanaJobs.in"

Q.7 उस विकल्प आकृति को चुनिए जिसमें दी गई आकृति निहित है। (घूर्णन की अनुमति नहीं है)

Ans

✗ 1.

✗ 2.

✓ 3.

✗ 4.

Question Type : **MCQ**
Question ID : **264330137534**
Option 1 ID : **264330538746**
Option 2 ID : **264330538745**
Option 3 ID : **264330538743**
Option 4 ID : **264330538744**
Status : **Answered**
Chosen Option : **3**

Q.8 निम्नलिखित प्रश्न में, दी गई श्रृंखला में लुप्त संख्या को चुनिए ।

2, 5, 14, 41, 122, ?

Ans

✗ 1. 380

✗ 2. 370

✗ 3. 368

✓ 4. 365

Question Type : **MCQ**
Question ID : **264330138490**
Option 1 ID : **264330542570**
Option 2 ID : **264330542568**
Option 3 ID : **264330542569**
Option 4 ID : **264330542567**
Status : **Answered**
Chosen Option : **4**

Join Telegram Group "HaryanaJobs.in"

Q.9 (::) के बाईं ओर दिए गए शब्द आपस में किसी तर्क/नियम/संबंध द्वारा संबंधित हैं। समान तर्क/नियम/संबंध के आधार पर दिए गए विकल्पों में से (::) के दाईं ओर लुप्त शब्द/शब्द युग्म को चुनिए।

समय : सेकंड :: ?

Ans

✗ 1. जूल : कार्य

✗ 2. न्यूटन : बल

✗ 3. दाब : लीटर

✓ 4. शक्ति : वॉट

Question Type : **MCQ**
Question ID : **264330138480**
Option 1 ID : **264330542529**
Option 2 ID : **264330542528**
Option 3 ID : **264330542527**
Option 4 ID : **264330542530**
Status : **Answered**
Chosen Option : **4**

Q.10 यदि एक दर्पण को रेखा AB पर रखा जाए, तो दी गई विकल्प आकृतियों में से कौन-सी आकृति प्रश्न आकृति का सही प्रतिबिम्ब होगी?

Ans

✗ 1.

✗ 2.

✗ 3.

✓ 4.

Question Type : **MCQ**
Question ID : **264330137535**
Option 1 ID : **264330538749**
Option 2 ID : **264330538748**
Option 3 ID : **264330538750**
Option 4 ID : **264330538747**
Status : **Answered**
Chosen Option : **4**

Join Telegram Group "HaryanaJobs.in"

Q.11 एक निश्चित कूट भाषा में, 'She is my niece' को 'Co Pv Zs Mn' लिखा जाता है, 'That is my bike' को 'Zs Pt Pv Ga' लिखा जाता है, 'She is your daughter' को 'Co Pv Ex Yz' लिखा जाता है। इस कूट भाषा में 'niece' को कैसे लिखा जाएगा?

Ans
1. Co
2. Zs
3. Pv
4. Mn

Question Type : **MCQ**
Question ID : **264330133566**
Option 1 ID : **264330523288**
Option 2 ID : **264330523287**
Option 3 ID : **264330523289**
Option 4 ID : **264330523290**
Status : **Answered**
Chosen Option : **4**

Q.12 उस विकल्प को चुनिए जिसमें समुच्चय की संख्याएँ वही संबंध साझा करती हैं जो दिए गए समुच्चय में संख्याओं द्वारा साझा किया जाता है। (ध्यान दें: संख्याओं को उनके घटक अंकों में अलग-अलग किए बिना, पूर्ण संख्याओं पर संक्रियाएँ की जानी चाहिए। उदा. 13 - 13 पर संक्रियाएँ जैसे 13 को जोड़ना /घटाना /गुणा करना आदि किया जा सकता है। 13 को 1 और 3 में अलग-अलग करने की और फिर 1 और 3 पर गणितीय संक्रियाएँ करने की अनुमति नहीं है)

(10, 20, 100)

(50, 5, 125)

Ans
1. (14, 10, 35)
2. (20, 5, 60)
3. (40, 4, 150)
4. (12, 10, 60)

Question Type : **MCQ**
Question ID : **264330138492**
Option 1 ID : **264330542576**
Option 2 ID : **264330542577**
Option 3 ID : **264330542578**
Option 4 ID : **264330542575**
Status : **Answered**
Chosen Option : **4**

Q.13 उस विकल्प को चुनिए जो पाँचवीं संख्या से ठीक उसी प्रकार संबंधित है जिस प्रकार दूसरी संख्या पहली संख्या से संबंधित है और चौथी संख्या तीसरी संख्या से संबंधित है।

9 : 730 :: 10 : 1001 :: 8 : ?

Ans
1. 513
2. 514
3. 516
4. 517

Question Type : **MCQ**
Question ID : **264330137123**
Option 1 ID : **264330537135**
Option 2 ID : **264330537136**
Option 3 ID : **264330537137**
Option 4 ID : **264330537138**
Status : **Answered**
Chosen Option : **1**

Join Telegram Group "HaryanaJobs.in"

Q.14 एक निश्चित कूट भाषा में, 'JPMNO' को '73562' लिखा जाता है, 'AMNBD' को '28954' लिखा जाता है, 'JNACQ' को '12430' लिखा जाता है। उस कूट भाषा में 'B' को कैसे लिखा जाएगा?

Ans

✗ 1. 2

✓ 2. 8

✗ 3. 4

✗ 4. 5

Question Type : **MCQ**
Question ID : **264330135566**
Option 1 ID : **264330531163**
Option 2 ID : **264330531164**
Option 3 ID : **264330531166**
Option 4 ID : **264330531165**
Status : **Answered**
Chosen Option : **4**

Q.15 एक श्रृंखला दी गई है जिसमें एक पद लुप्त है। दिए गए विकल्पों में से उस सही विकल्प को चुनिए जो श्रृंखला को पूरा करेगा।

ASBQ, XOYM, UKVI, RGSE, ?

Ans

✗ 1. NCPA

✗ 2. OBQA

✗ 3. OCPB

✓ 4. OCPA

Question Type : **MCQ**
Question ID : **264330138477**
Option 1 ID : **264330542518**
Option 2 ID : **264330542516**
Option 3 ID : **264330542517**
Option 4 ID : **264330542515**
Status : **Answered**
Chosen Option : **4**

Q.16 सात लड़कियाँ मानसी, श्वेता, मोनिका, पायल, आरती, काजल और लक्ष्मी एक वृत्ताकार मेज के चारों ओर केंद्र के विपरीत दिशा की ओर मुख करके बैठी हैं(परंतु जरूरी नहीं कि वे इसी क्रम में बैठीं हों)। आरती, काजल के बाईं ओर से दूसरे स्थान पर है। मोनिका, काजल के दाईं ओर से तीसरे स्थान पर है। मानसी, काजल की निकटतम पडोसी नहीं है। लक्ष्मी, मानसी के बाईं ओर से दूसरे स्थान पर है। पायल, लक्ष्मी की निकटतम पड़ोसी नहीं है। लक्ष्मी के बाईं ओर से दूसरे स्थान पर कौन है?

Ans

✗ 1. मानसी

✗ 2. आरती

✓ 3. काजल

✗ 4. पायल

Question Type : **MCQ**
Question ID : **264330138485**
Option 1 ID : **264330542550**
Option 2 ID : **264330542547**
Option 3 ID : **264330542548**
Option 4 ID : **264330542549**
Status : **Answered**
Chosen Option : **3**

Join Telegram Group "HaryanaJobs.in"

Q.17 निम्नलिखित प्रश्न में, दी गई श्रृंखला में लुप्त संख्या को चुनिए।

111, 128, 145, 162, 179, ?

Ans
1. 195
2. 190
3. 194
4. 196

Question Type : **MCQ**
Question ID : **264330137121**
Option 1 ID : **264330537129**
Option 2 ID : **264330537127**
Option 3 ID : **264330537128**
Option 4 ID : **264330537130**
Status : **Answered**
Chosen Option : **4**

Q.18 निम्नलिखित प्रश्न में कुछ कथन दिए गए हैं और उन कथनों के आधार पर कुछ निष्कर्ष दिए गए हैं। आपको यह मानना है कि दिए गए कथन सत्य हैं चाहे वे समान्यतः ज्ञात तथ्यों से अलग प्रतीत होते हों। सभी निष्कर्षों को पढ़िए और फिर निश्चय कीजिए कि दिए गए निष्कर्षों में से कौन-सा निष्कर्ष तार्किक रूप से दिए गए कथनों के अनुसार है।

कथन:

I. सभी K, M हैं।

II. कुछ K, Z हैं।

निष्कर्ष:

I. सभी M, Z हैं।

II. सभी M, K हैं।

III. कुछ M, K हैं।

Ans
1. कोई भी निष्कर्ष कथनों के अनुसार नहीं है
2. केवल निष्कर्ष III कथनों के अनुसार है
3. सभी निष्कर्ष कथनों के अनुसार हैं
4. दोनों निष्कर्ष I और III कथनों के अनुसार हैं

Question Type : **MCQ**
Question ID : **264330138488**
Option 1 ID : **264330542562**
Option 2 ID : **264330542561**
Option 3 ID : **264330542560**
Option 4 ID : **264330542559**
Status : **Answered**
Chosen Option : **2**

Join Telegram Group "HaryanaJobs.in"

Q.19 कौन-सी उत्तर आकृति प्रश्न आकृति में दिए गए पैटर्न को पूरा करेगी?



Ans

✗ 1.

✗ 2.

✗ 3.

✓ 4.

Question Type : **MCQ**
Question ID : **264330138497**
Option 1 ID : **264330542598**
Option 2 ID : **264330542596**
Option 3 ID : **264330542597**
Option 4 ID : **264330542595**
Status : **Answered**
Chosen Option : **4**

Q.20 सात लड़के लक्ष्मण, मोहन, बिट्टू, सोहिल, राहुल, राम और रमेश एक वृत्ताकार मेज के चारों ओर केंद्र की ओर मुख करके बैठे हैं(परंतु जरूरी नहीं कि वे इसी क्रम में बैठे हों)। सोहिल, बिट्टू के बाईं ओर से तीसरे स्थान पर है। मोहन, बिट्टू के दाईं ओर से दूसरे स्थान पर है। राम, रमेश के दाईं ओर से तीसरे स्थान पर है। रमेश, मोहन का निकटतम पड़ोसी नहीं है। लक्ष्मण, राहुल के बाईं ओर से तीसरे स्थान पर है। राम के ठीक बाईं ओर कौन बैठा है?

Ans

✓ 1. बिट्टू

✗ 2. रमेश

✗ 3. मोहन

✗ 4. लक्ष्मण

Question Type : **MCQ**
Question ID : **264330138484**
Option 1 ID : **264330542543**
Option 2 ID : **264330542546**
Option 3 ID : **264330542544**
Option 4 ID : **264330542545**
Status : **Answered**
Chosen Option : **1**

Section : **General Awareness**

Join Telegram Group "HaryanaJobs.in"

Q.1 भारतीय संविधान के अनुच्छेद 25 से 28 _____का प्रावधान करते हैं।

Ans
1. शोषण के विरुद्ध अधिकार
2. संस्कृतिक और शैक्षिक अधिकार
3. समानता के अधिकार
4. धार्मिक स्वतंत्रता के अधिकार

Question Type : **MCQ**
Question ID : **264330138258**
Option 1 ID : **264330541640**
Option 2 ID : **264330541642**
Option 3 ID : **264330541639**
Option 4 ID : **264330541641**
Status : **Answered**
Chosen Option : **4**

Q.2 निम्नलिखित में से किस ग्रह को "भोर का तारा (morning star)" भी कहा जाता है?

Ans
1. शुक्र
2. पृथ्वी
3. नेपच्यून
4. बृहस्पति

Question Type : **MCQ**
Question ID : **264330137044**
Option 1 ID : **264330536819**
Option 2 ID : **264330536820**
Option 3 ID : **264330536821**
Option 4 ID : **264330536822**
Status : **Answered**
Chosen Option : **4**

Q.3 मानक जनगणना परिभाषा के अनुसार, मुख्य श्रमिक वह व्यक्ति है जो एक वर्ष में कम से कम _____ कार्य करता है।

Ans
1. 190 दिन
2. 223 दिन
3. 150 दिन
4. 183 दिन

Question Type : **MCQ**
Question ID : **264330138668**
Option 1 ID : **264330543281**
Option 2 ID : **264330543282**
Option 3 ID : **264330543279**
Option 4 ID : **264330543280**
Status : **Marked For Review**
Chosen Option : **1**

Join Telegram Group "HaryanaJobs.in"

Q.4 भारत में वित्तीय वर्ष की अवधि कितनी है?

Ans
1. प्रत्येक वर्ष 1 जनवरी से प्रारंभ होकर अगले वर्ष 31 दिसंबर तक
2. प्रत्येक वर्ष 1 अप्रैल से प्रारंभ होकर अगले वर्ष 31 मार्च तक
3. प्रत्येक वर्ष 1 जनवरी से से प्रारंभ होकर उसी वर्ष 31 दिसंबर तक
4. प्रत्येक वर्ष 1 अप्रैल से प्रारंभ होकर उसी वर्ष 31 दिसंबर तक

Question Type : **MCQ**
Question ID : **264330134055**
Option 1 ID : **264330525245**
Option 2 ID : **264330525243**
Option 3 ID : **264330525246**
Option 4 ID : **264330525244**
Status : **Answered**
Chosen Option : **2**

Q.5 प्रधान मंत्री आवास योजना- शहरी किस केंद्रीय मंत्रालय द्वारा शुरू की गई थी?

Ans
1. आवास और शहरी मामलों के मंत्रालय
2. ग्रामीण विकास मंत्रालय
3. वित्त मंत्रालय
4. मानव संसाधन विकास मंत्रालय

Question Type : **MCQ**
Question ID : **264330138255**
Option 1 ID : **264330541628**
Option 2 ID : **264330541629**
Option 3 ID : **264330541630**
Option 4 ID : **264330541627**
Status : **Marked For Review**
Chosen Option : **4**

Q.6 इस जानी-मानी भारतीय संगीत क्षेत्र से जुड़ी शख्सियत को पहचानें।

वर्ष 2011 में, गिनीज बुक ऑफ वर्ल्ड रिकॉर्ड्स (Guinness Book of World Records) ने आधिकारिक तौर पर उन्हें संगीत इतिहास में सबसे अधिक गाने रिकॉर्ड करने वाली कलाकार के रूप में मानित किया था।

Ans
1. अलका याग्निक
2. उषा उत्थुप
3. आशा भोसले
4. श्रेया घोषाल

Question Type : **MCQ**
Question ID : **264330138252**
Option 1 ID : **264330541618**
Option 2 ID : **264330541615**
Option 3 ID : **264330541617**
Option 4 ID : **264330541616**
Status : **Not Answered**
Chosen Option : **--**

Join Telegram Group "HaryanaJobs.in"

Q.7 सरोजा वैद्यनाथन (Saroja Vaidyanathan) को _____ में शास्त्रीय नृत्य के लिए कालिदास सम्मान मिला था।

Ans
1. 2002-03
2. 2020-21
3. 2001-02
4. 2009-10

Question Type : **MCQ**
Question ID : **264330134050**
Option 1 ID : **264330525223**
Option 2 ID : **264330525225**
Option 3 ID : **264330525224**
Option 4 ID : **264330525226**
Status : **Not Answered**
Chosen Option : **--**

Q.8 श्रीजेश पी.आर. जिन्हें "मेजर ध्यानचंद खेल रत्न पुरस्कार 2021" से सम्मानित किया गया था, किस खेल से संबंधित हैं?

Ans
1. हॉकी
2. फ़ुटबॉल
3. कुश्ती
4. मुक्केबाज़ी

Question Type : **MCQ**
Question ID : **264330138249**
Option 1 ID : **264330541605**
Option 2 ID : **264330541606**
Option 3 ID : **264330541604**
Option 4 ID : **264330541603**
Status : **Answered**
Chosen Option : **3**

Q.9 बेरीबेरी (Beriberi) निम्नलिखित में से किसकी कमी से होता है?

Ans
1. विटामिन B1
2. आयोडीन
3. विटामिन D
4. विटामिन C

Question Type : **MCQ**
Question ID : **264330138259**
Option 1 ID : **264330541643**
Option 2 ID : **264330541646**
Option 3 ID : **264330541645**
Option 4 ID : **264330541644**
Status : **Answered**
Chosen Option : **1**

Join Telegram Group "HaryanaJobs.in"

Q.10 धोलावीरा का प्राचीन शहर, किस राज्य में स्थित है?

Ans
1. राजस्थान ✗
2. कर्नाटक ✗
3. मध्यप्रदेश ✗
4. गुजरात ✓

Question Type : **MCQ**
Question ID : **264330137389**
Option 1 ID : **264330538184**
Option 2 ID : **264330538186**
Option 3 ID : **264330538183**
Option 4 ID : **264330538185**
Status : **Answered**
Chosen Option : **4**

Q.11 निम्नलिखित में से किस मुगल शासक ने आलमगीर, विश्व विजेता की उपाधि धारण की थी?

Ans
1. शाहजहाँ ✗
2. औरंगज़ेब ✓
3. बाबर ✗
4. अकबर ✗

Question Type : **MCQ**
Question ID : **264330137050**
Option 1 ID : **264330536844**
Option 2 ID : **264330536843**
Option 3 ID : **264330536846**
Option 4 ID : **264330536845**
Status : **Answered**
Chosen Option : **3**

Q.12 निम्नलिखित में से कौन-सा राष्ट्रीय उद्यान महाराष्ट्र में स्थित नहीं है?

Ans
1. नवेगाँव राष्ट्रीय उद्यान ✗
2. गुगामल राष्ट्रीय उद्यान ✗
3. बांधवगढ़ राष्ट्रीय उद्यान ✓
4. ताडोबा राष्ट्रीय उद्यान ✗

Question Type : **MCQ**
Question ID : **264330137043**
Option 1 ID : **264330536818**
Option 2 ID : **264330536817**
Option 3 ID : **264330536816**
Option 4 ID : **264330536815**
Status : **Answered**
Chosen Option : **3**

Join Telegram Group "HaryanaJobs.in"

Q.13 भारतीय मसाला बोर्ड (Spices Board of India) का मुख्यालय कहाँ स्थित है?

Ans
✔ 1. कोच्चि (केरल)
✘ 2. बेंगलुरु (कर्नाटक)
✘ 3. गुंटूर (आंध्रप्रदेश)
✘ 4. पुणे (महाराष्ट्र)

Question Type : **MCQ**
Question ID : **264330134040**
Option 1 ID : **264330525185**
Option 2 ID : **264330525183**
Option 3 ID : **264330525184**
Option 4 ID : **264330525186**
Status : **Answered**
Chosen Option : **1**

Q.14 1897 में रामकृष्ण मिशन की स्थापना किसने की थी?

Ans
✘ 1. रामकृष्ण परमहंस
✘ 2. केशव चंद्र सेन
✔ 3. स्वामी विवेकानंद
✘ 4. देवेंद्रनाथ टैगोर

Question Type : **MCQ**
Question ID : **264330137702**
Option 1 ID : **264330539418**
Option 2 ID : **264330539417**
Option 3 ID : **264330539416**
Option 4 ID : **264330539415**
Status : **Answered**
Chosen Option : **4**

Q.15 भारत के किसी भी राज्य का प्रमुख एक _____ होता है।

Ans
✘ 1. मुख्यमंत्री
✘ 2. राज्य निर्वाचन आयुक्त
✘ 3. उच्च न्यायालय का मुख्य न्यायाधीश
✔ 4. राज्यपाल

Question Type : **MCQ**
Question ID : **264330137398**
Option 1 ID : **264330538219**
Option 2 ID : **264330538222**
Option 3 ID : **264330538220**
Option 4 ID : **264330538221**
Status : **Marked For Review**
Chosen Option : **4**

Join Telegram Group "HaryanaJobs.in"

Q.16 भारत की पार्लियामेंट को _____ भी कहा जाता है।

Ans
1. विधान सभा
2. लोक सभा
3. संसद
4. सैनेट

Question Type : **MCQ**
Question ID : **264330134630**
Option 1 ID : **264330527475**
Option 2 ID : **264330527476**
Option 3 ID : **264330527477**
Option 4 ID : **264330527478**
Status : **Answered**
Chosen Option : **3**

Q.17 हिमालय के सबसे उत्तरी भाग में स्थित शृंखला को _____ कहते हैं।

Ans
1. पूर्वांचल
2. अरावली पर्वतमाला
3. आंतरिक हिमालय
4. शिवालिक पर्वतमाला

Question Type : **MCQ**
Question ID : **264330138264**
Option 1 ID : **264330541666**
Option 2 ID : **264330541665**
Option 3 ID : **264330541663**
Option 4 ID : **264330541664**
Status : **Answered**
Chosen Option : **4**

Q.18 जगोई और चोलोम _____ नृत्य की दो मुख्य शौलिया सौम्य हैं।

Ans
1. कथकली
2. मणिपुरी
3. कथक
4. भरतनाट्यम

Question Type : **MCQ**
Question ID : **264330138246**
Option 1 ID : **264330541594**
Option 2 ID : **264330541593**
Option 3 ID : **264330541592**
Option 4 ID : **264330541591**
Status : **Answered**
Chosen Option : **3**

Join Telegram Group "HaryanaJobs.in"

Q.19 निम्नलिखित में से किसने फॉर्मूला 1 यूनाइटेड स्टेट्स ग्रां प्री 2022 जीता है?

Ans
1. चार्ल्स लेक्लर्क (Charles Leclerc)
2. कार्लोस सैंज जूनियर (Carlos Sainz Jr.)
3. मैक्स वेर्स्टाप्पेन (Max Verstappen)
4. लैंडो नॉरिस (Lando Norris)

Question Type : **MCQ**
Question ID : **264330137059**
Option 1 ID : **264330536882**
Option 2 ID : **264330536880**
Option 3 ID : **264330536881**
Option 4 ID : **264330536879**
Status : **Answered**
Chosen Option : **1**

Q.20 वर्ष 1817 में "द हिस्ट्री ऑफ ब्रिटिश इंडिया (The History of British India)" को किसने लिखा था?

Ans
1. जेम्स मिल
2. रमेश चंद्र दत्त
3. दादाभाई नौरोजी
4. विलियम बैंटिक

Question Type : **MCQ**
Question ID : **264330137410**
Option 1 ID : **264330538267**
Option 2 ID : **264330538268**
Option 3 ID : **264330538270**
Option 4 ID : **264330538269**
Status : **Marked For Review**
Chosen Option : **3**

Q.21 Which among the following alloys is a combination of gold and silver?

Ans
1. Electrum
2. Bronze
3. Solder
4. Constantan

Question Type : **MCQ**
Question ID : **264330137041**
Option 1 ID : **264330536807**
Option 2 ID : **264330536808**
Option 3 ID : **264330536809**
Option 4 ID : **264330536810**
Status : **Answered**
Chosen Option : **4**

Join Telegram Group "HaryanaJobs.in"

Q.22 दशहरा उत्सव को _____ के नाम से भी जाना जाता है।

Ans
1. वैकुंठ अष्टमी (Vaikunthashtami)
2. विजयादशमी(Vijayaydashami)
3. जन्माष्टमी (Janmasthami)
4. संक्रांति (Sankranti)

Question Type : **MCQ**
Question ID : **264330137689**
Option 1 ID : **264330539363**
Option 2 ID : **264330539365**
Option 3 ID : **264330539366**
Option 4 ID : **264330539364**
Status : **Answered**
Chosen Option : **2**

Q.23 निम्नलिखित में से कौन "एन ऑटोबायोग्राफी: टुवर्ड फ्रीडम (An Autobiography: Toward Freedom)" पुस्तक के लेखक हैं?

Ans
1. लाला लाजपत राय
2. इंदिरा गांधी
3. महात्मा गांधी
4. जवाहरलाल नेहरू

Question Type : **MCQ**
Question ID : **264330134048**
Option 1 ID : **264330525217**
Option 2 ID : **264330525218**
Option 3 ID : **264330525216**
Option 4 ID : **264330525215**
Status : **Not Answered**
Chosen Option : **--**

Q.24 निम्नलिखित में से कौन-सी बेरोजगारी किसी अर्थव्यवस्था में मंदी का परिणाम है?

Ans
1. चक्रीय बेरोजगारी
2. संरचनात्मक बेरोजगारी
3. मौसमी बेरोजगारी
4. प्रतिरोधात्मक बेरोजगारी

Question Type : **MCQ**
Question ID : **264330137699**
Option 1 ID : **264330539403**
Option 2 ID : **264330539404**
Option 3 ID : **264330539406**
Option 4 ID : **264330539405**
Status : **Not Answered**
Chosen Option : **--**

Join Telegram Group "HaryanaJobs.in"

Q.25 सितंबर 2022 में, किसे भारत के नए महान्यायवादी के रूप में नियुक्त किया गया है?

Ans
✔ 1. आर. वेंकटरमणी
✘ 2. जगदीप धनखड़
✘ 3. कैलाश वासदेव
✘ 4. राम जेठमलानी

Question Type : **MCQ**
Question ID : **264330138254**
Option 1 ID : **264330541624**
Option 2 ID : **264330541625**
Option 3 ID : **264330541626**
Option 4 ID : **264330541623**
Status : **Answered**
Chosen Option : **1**

Section : **English Language and Comprehension**

Q.1 In the following question, out of the given four alternatives, select the alternative which best expresses the meaning of the Idiom/Phrase.

In the long run

Ans
✔ 1. In the end
✘ 2. Lack of energy
✘ 3. Long walk
✘ 4. In tough times

Question Type : **MCQ**
Question ID : **264330135328**
Option 1 ID : **264330530219**
Option 2 ID : **264330530220**
Option 3 ID : **264330530222**
Option 4 ID : **264330530221**
Status : **Marked For Review**
Chosen Option : **3**

Q.2 Four words are given, out of which three words are spelt correctly. Choose the incorrectly spelt word.

Ans
✘ 1. LICENSE
✔ 2. NECCESARY
✘ 3. INDISPENSABLE
✘ 4. OCCASION

Question Type : **MCQ**
Question ID : **264330136635**
Option 1 ID : **264330535264**
Option 2 ID : **264330535265**
Option 3 ID : **264330535263**
Option 4 ID : **264330535266**
Status : **Answered**
Chosen Option : **2**

Join Telegram Group "HaryanaJobs.in"

Q.3 Select the most appropriate word for the given group of words.

A person who is both open and shy

Ans
1. Introvert ✗
2. Extrovert ✗
3. Ambivert ✓
4. Controvert ✗

Question Type : **MCQ**
Question ID : **264330136628**
Option 1 ID : **264330535236**
Option 2 ID : **264330535235**
Option 3 ID : **264330535237**
Option 4 ID : **264330535238**
Status : **Answered**
Chosen Option : **3**

Q.4 Select the most appropriate antonym of the given word.

Rigid

Ans
1. Satiation ✗
2. Flexible ✓
3. Distaste ✗
4. Superior ✗

Question Type : **MCQ**
Question ID : **264330135811**
Option 1 ID : **264330532115**
Option 2 ID : **264330532118**
Option 3 ID : **264330532116**
Option 4 ID : **264330532117**
Status : **Answered**
Chosen Option : **2**

Q.5 Select the most appropriate synonym to substitute the bracketed word in the given sentence.

No need to read (voluminous) campaign literature, or pore through printed recommendations.

Ans
1. Micro ✗
2. Reverberate ✗
3. Sparkling ✗
4. Commodious ✓

Question Type : **MCQ**
Question ID : **264330136074**
Option 1 ID : **264330533108**
Option 2 ID : **264330533107**
Option 3 ID : **264330533109**
Option 4 ID : **264330533110**
Status : **Not Answered**
Chosen Option : **--**

Join Telegram Group "HaryanaJobs.in"

Q.6 Improve the underlined part of the sentence. Choose 'No improvement' as an answer if the sentence is grammatically correct.

He held the railing as he walked downed the stairs.

Ans

1. No improvement
2. walked downs
3. walk down
4. walked down

Question Type : **MCQ**
Question ID : **264330136772**
Option 1 ID : **264330535794**
Option 2 ID : **264330535793**
Option 3 ID : **264330535792**
Option 4 ID : **264330535791**
Status : **Answered**
Chosen Option : **4**

Q.7 Select the wrongly spelt word.

Ans

1. Sully
2. Depravity
3. Morelity
4. Arsenal

Question Type : **MCQ**
Question ID : **264330136054**
Option 1 ID : **264330533034**
Option 2 ID : **264330533032**
Option 3 ID : **264330533031**
Option 4 ID : **264330533033**
Status : **Answered**
Chosen Option : **3**

Q.8 Select the word segment that substitutes (replaces) the bracketed word segment correctly and completes the sentence meaningfully. Select the option 'no correction required' if the sentence is correct as given.

One of the main climbing routes, approaches the summit from the southeast (in the Nepal).

Ans

1. in Nepal
2. at the Nepal
3. from the Nepal
4. No correction required

Question Type : **MCQ**
Question ID : **264330136644**
Option 1 ID : **264330535301**
Option 2 ID : **264330535299**
Option 3 ID : **264330535300**
Option 4 ID : **264330535302**
Status : **Answered**
Chosen Option : **1**

Join Telegram Group "HaryanaJobs.in"

Q.9 Find the part of the given sentence that has an error in it. If there is no error, choose 'No error'.

I hope that we will arrive at the ideal trade-off soon.

Ans

1. ✗ the ideal trade-off soon.
2. ✗ we will arrive at
3. ✗ I hope that
4. ✓ No error

Question Type : **MCQ**
Question ID : **264330136769**
Option 1 ID : **264330535781**
Option 2 ID : **264330535780**
Option 3 ID : **264330535779**
Option 4 ID : **264330535782**
Status : **Answered**
Chosen Option : **2**

Q.10 The statement below has been given with bracketed text. Select the option with correct Idiom for the bracketed text.

Susie (has such strong resemblance to) Kate Winslet that sometimes people would ask her for her autograph.

Ans

1. ✗ gone bananas
2. ✗ jack of all trades
3. ✓ dead ringer
4. ✗ pound the pavement

Question Type : **MCQ**
Question ID : **264330136634**
Option 1 ID : **264330535259**
Option 2 ID : **264330535261**
Option 3 ID : **264330535262**
Option 4 ID : **264330535260**
Status : **Answered**
Chosen Option : **2**

Q.11 Select the most appropriate option to fill in the blank.

The man who is supposed to be protecting them is somehow their fiercest and most _____ enemy.

Ans

1. ✗ quotidian
2. ✓ implacable
3. ✗ pedestrian
4. ✗ ostentatious

Question Type : **MCQ**
Question ID : **264330136055**
Option 1 ID : **264330533037**
Option 2 ID : **264330533038**
Option 3 ID : **264330533036**
Option 4 ID : **264330533035**
Status : **Answered**
Chosen Option : **3**

Join Telegram Group "HaryanaJobs.in"

Q.12 Select the most appropriate option to fill in the blank.

Before about 1830, _____ sermons, tracts and addresses routinely broached female intemperance.

Ans

✔ 1. temperance

✘ 2. congruence

✘ 3. confluence

✘ 4. affluence

Question Type : **MCQ**
Question ID : **264330136064**
Option 1 ID : **264330533072**
Option 2 ID : **264330533074**
Option 3 ID : **264330533071**
Option 4 ID : **264330533073**
Status : **Answered**
Chosen Option : **1**

Q.13 Find the part of the given sentence that has an error in it. If there is no error, choose 'No error'.

He had to rebel against his father to became a musician.

Ans

✘ 1. against his father to

✘ 2. No error

✔ 3. became a musician.

✘ 4. He had to rebel

Question Type : **MCQ**
Question ID : **264330134720**
Option 1 ID : **264330527836**
Option 2 ID : **264330527838**
Option 3 ID : **264330527837**
Option 4 ID : **264330527835**
Status : **Marked For Review**
Chosen Option : **4**

Q.14 Improve the underlined part of the sentence. Choose 'No improvement' as an answer if the sentence is grammatically correct.

He enlisting in the army and went to war when he was only eighteen.

Ans

✘ 1. No improvement

✘ 2. enlist in army

✔ 3. enlisted in the army

✘ 4. enlisted at the army

Question Type : **MCQ**
Question ID : **264330135182**
Option 1 ID : **264330529662**
Option 2 ID : **264330529660**
Option 3 ID : **264330529661**
Option 4 ID : **264330529659**
Status : **Answered**
Chosen Option : **3**

Join Telegram Group "HaryanaJobs.in"

Q.15 Select the most appropriate synonym of the given word.

Fetish

Ans
✔ 1. Desire
✘ 2. Requirement
✘ 3. Awkward
✘ 4. Learning

Question Type : **MCQ**
Question ID : **264330136629**
Option 1 ID : **264330535240**
Option 2 ID : **264330535241**
Option 3 ID : **264330535242**
Option 4 ID : **264330535239**
Status : **Answered**
Chosen Option : **3**

Q.16 Identify the segment that contains a grammatical error. If there is no error, select 'No error'.

Before Jerry could stop him, Daniel / bounding off the bed, seized Jerry's / desk lamp, and started beating himself.

Ans
✘ 1. No error
✔ 2. bounding off the bed, seized Jerry's
✘ 3. desk lamp, and started beating himself.
✘ 4. Before Jerry could stop him, Daniel

Question Type : **MCQ**
Question ID : **264330136615**
Option 1 ID : **264330535190**
Option 2 ID : **264330535188**
Option 3 ID : **264330535189**
Option 4 ID : **264330535187**
Status : **Answered**
Chosen Option : **2**

Q.17 Choose the word that can substitute the given group of words.

A portable case for holding papers, drawing etc.

Ans
✘ 1. Cache
✘ 2. Archives
✘ 3. Creche
✔ 4. Portfolio

Question Type : **MCQ**
Question ID : **264330135322**
Option 1 ID : **264330530195**
Option 2 ID : **264330530197**
Option 3 ID : **264330530196**
Option 4 ID : **264330530198**
Status : **Answered**
Chosen Option : **4**

Join Telegram Group "HaryanaJobs.in"

Q.18 Select the word from the options which is exactly opposite in meaning to the bracketed word given in the sentence below.

The company has responded (sluggishly) to these changes in technology.

Ans

✗ 1. Similarly

✗ 2. Apathetically

✓ 3. Promptly

✗ 4. Lethargically

Question Type : **MCQ**
Question ID : **264330136632**
Option 1 ID : **264330535254**
Option 2 ID : **264330535252**
Option 3 ID : **264330535251**
Option 4 ID : **264330535253**
Status : **Marked For Review**
Chosen Option : **2**

Q.19 Fill in the blank with the most appropriate option.

Societies need to develop highly _____ behavioural rules for survival.

Ans

✗ 1. matched

✗ 2. adopted

✗ 3. readjusted

✓ 4. adaptive

Question Type : **MCQ**
Question ID : **264330136638**
Option 1 ID : **264330535278**
Option 2 ID : **264330535277**
Option 3 ID : **264330535275**
Option 4 ID : **264330535276**
Status : **Answered**
Chosen Option : **4**

Q.20 Fill in the blank with the most appropriate option.

At first, it looked as _____ Uncle Vernon would manage to gloss the whole thing over.

Ans

✗ 1. thought

✗ 2. through

✓ 3. though

✗ 4. throughout

Question Type : **MCQ**
Question ID : **264330136619**
Option 1 ID : **264330535206**
Option 2 ID : **264330535203**
Option 3 ID : **264330535205**
Option 4 ID : **264330535204**
Status : **Answered**
Chosen Option : **4**

Join Telegram Group "HaryanaJobs.in"

Comprehension:

In the following passage some words have been deleted. Fill in the blanks with the help of the alternatives given. Select the most appropriate option for each number.

If you enjoy (1) _____ crime shows on TV, you know that fingerprints play a large role in (2) _____ people. But, you might be (3) _____ to find out that using fingerprints for identification is not a new science. In fact, it is very old (4) _____ back at least as far as 1885-1913 B.C.E. In Babylon, when people agreed to a business contract, they pressed their fingerprints into the clay in which the contract was written. (5) _____ have also been found on clay seals from ancient China.

SubQuestion No : 21

Q.21 Select the most appropriate option to fill in the blank No. 1.

Ans

✔ 1. watching

✘ 2. calling out

✘ 3. marking

✘ 4. writing

Question Type : **MCQ**
Question ID : **264330135802**
Option 1 ID : **264330532081**
Option 2 ID : **264330532079**
Option 3 ID : **264330532082**
Option 4 ID : **264330532080**
Status : **Answered**
Chosen Option : **1**

Comprehension:

In the following passage some words have been deleted. Fill in the blanks with the help of the alternatives given. Select the most appropriate option for each number.

If you enjoy (1) _____ crime shows on TV, you know that fingerprints play a large role in (2) _____ people. But, you might be (3) _____ to find out that using fingerprints for identification is not a new science. In fact, it is very old (4) _____ back at least as far as 1885-1913 B.C.E. In Babylon, when people agreed to a business contract, they pressed their fingerprints into the clay in which the contract was written. (5) _____ have also been found on clay seals from ancient China.

SubQuestion No : 22

Q.22 Select the most appropriate option to fill in the blank No. 2.

Ans

✘ 1. masking

✘ 2. pertaining

✘ 3. chortling

✔ 4. identifying

Question Type : **MCQ**
Question ID : **264330135803**
Option 1 ID : **264330532084**
Option 2 ID : **264330532086**
Option 3 ID : **264330532085**
Option 4 ID : **264330532083**
Status : **Answered**
Chosen Option : **4**

Join Telegram Group "HaryanaJobs.in"

Comprehension:

In the following passage some words have been deleted. Fill in the blanks with the help of the alternatives given. Select the most appropriate option for each number.

If you enjoy (1) _____ crime shows on TV, you know that fingerprints play a large role in (2) _____ people. But, you might be (3) _____ to find out that using fingerprints for identification is not a new science. In fact, it is very old (4) _____ back at least as far as 1885-1913 B.C.E. In Babylon, when people agreed to a business contract, they pressed their fingerprints into the clay in which the contract was written. (5) _____ have also been found on clay seals from ancient China.

SubQuestion No : 23

Q.23 Select the most appropriate option to fill in the blank No. 3.

Ans

✗ 1. certain

✗ 2. blocked

✗ 3. calculable

✓ 4. surprised

Question Type : **MCQ**
Question ID : **264330135804**
Option 1 ID : **264330532088**
Option 2 ID : **264330532089**
Option 3 ID : **264330532087**
Option 4 ID : **264330532090**
Status : **Answered**
Chosen Option : **4**

Comprehension:

In the following passage some words have been deleted. Fill in the blanks with the help of the alternatives given. Select the most appropriate option for each number.

If you enjoy (1) _____ crime shows on TV, you know that fingerprints play a large role in (2) _____ people. But, you might be (3) _____ to find out that using fingerprints for identification is not a new science. In fact, it is very old (4) _____ back at least as far as 1885-1913 B.C.E. In Babylon, when people agreed to a business contract, they pressed their fingerprints into the clay in which the contract was written. (5) _____ have also been found on clay seals from ancient China.

SubQuestion No : 24

Q.24 Select the most appropriate option to fill in the blank No. 4.

Ans

✗ 1. going

✓ 2. dating

✗ 3. portraying

✗ 4. stating

Question Type : **MCQ**
Question ID : **264330135805**
Option 1 ID : **264330532091**
Option 2 ID : **264330532092**
Option 3 ID : **264330532094**
Option 4 ID : **264330532093**
Status : **Answered**
Chosen Option : **1**

Join Telegram Group "HaryanaJobs.in"

Comprehension:

In the following passage some words have been deleted. Fill in the blanks with the help of the alternatives given. Select the most appropriate option for each number.

If you enjoy (1) _____ crime shows on TV, you know that fingerprints play a large role in (2) _____ people. But, you might be (3) _____ to find out that using fingerprints for identification is not a new science. In fact, it is very old (4) _____ back at least as far as 1885-1913 B.C.E. In Babylon, when people agreed to a business contract, they pressed their fingerprints into the clay in which the contract was written. (5) _____ have also been found on clay seals from ancient China.

SubQuestion No : 25

Q.25 Select the most appropriate option to fill in the blank No. 5.

Ans

✔ 1. Thumbprints

✘ 2. Sculptures

✘ 3. Footprints

✘ 4. Paintings

Question Type : **MCQ**
Question ID : **264330135806**
Option 1 ID : **264330532095**
Option 2 ID : **264330532097**
Option 3 ID : **264330532096**
Option 4 ID : **264330532098**
Status : **Answered**
Chosen Option : **1**

Join Telegram Group "HaryanaJobs.in"

Multi Tasking Non Technical Staff and Havaldar CBIC and CBN Examination 2022

Roll Number	HaryanaJobs.in
Candidate Name	HaryanaJobs.in
Venue Name	iON Digital Zone iDZ Dholi Magri
Exam Date	11/05/2023
Exam Time	9:00 AM - 10:30 AM
Subject	MTS Non Tech Havaldar CBIC and CBN Examination 2022

Section : **Numerical and Mathematical Ability**

Q.1 यदि कीमत में 25 प्रतिशत की कमी की जाती है, तो खपत में कितने प्रतिशत की वृद्धि की जानी चाहिए, ताकि व्यय अपरिवर्तित रहे?

Ans

1. ✗ 40 प्रतिशत
2. ✗ 20 प्रतिशत
3. ✓ 33.33 प्रतिशत
4. ✗ 37.5 प्रतिशत

Question Type : **MCQ**
Question ID : **264330139061**
Option 1 ID : **264330544851**
Option 2 ID : **264330544852**
Option 3 ID : **264330544854**
Option 4 ID : **264330544853**
Status : **Answered**
Chosen Option : **3**

Q.2 यदि $2P = 3Q$ और $5Q = 4R$ है, तो $P : Q : R$ का मान क्या है?

Ans

1. ✓ 6 : 4 : 5
2. ✗ 8 : 5 : 4
3. ✗ 2 : 3 : 5
4. ✗ 7 : 5 : 6

Question Type : **MCQ**
Question ID : **264330139004**
Option 1 ID : **264330544625**
Option 2 ID : **264330544623**
Option 3 ID : **264330544626**
Option 4 ID : **264330544624**
Status : **Answered**
Chosen Option : **1**

Join Telegram Group "HaryanaJobs.in"

Q.3 एक निश्चित धनराशि पर 5 वर्ष के लिए 6% वार्षिक और 4 वर्ष के लिए 5% वार्षिक दर पर साधारण ब्याज का अंतर Rs. 422 है। धनराशि ज्ञात कीजिए।

Ans

1. ✗ Rs.1990
2. ✗ Rs.6500
3. ✓ Rs.4220
4. ✗ Rs.2570

Question Type : **MCQ**
Question ID : **264330135380**
Option 1 ID : **264330530428**
Option 2 ID : **264330530430**
Option 3 ID : **264330530429**
Option 4 ID : **264330530427**
Status : **Answered**
Chosen Option : **3**

Q.4 एक आदमी अपनी बाइक को Rs. 132000 में बेचकर 10% का लाभ अर्जित करता है। यदि उसने इसे Rs. 126000 में बेचा होता, तो उसका लाभ या हानि प्रतिशत क्या होता?

Ans

1. ✗ 10% लाभ
2. ✓ 5% लाभ
3. ✗ 5% हानि
4. ✗ 10% हानि

Question Type : **MCQ**
Question ID : **264330141033**
Option 1 ID : **264330552480**
Option 2 ID : **264330552482**
Option 3 ID : **264330552481**
Option 4 ID : **264330552479**
Status : **Answered**
Chosen Option : **2**

Q.5 एक समूह के 25 सदस्यों का औसत भार 39 kg है। एक दूसरे समूह के 27 सदस्यों का औसत भार 21 kg है। दोनों समूहों के सदस्यों का कुल भार कितना होगा?

Ans

1. ✗ 1426 kg
2. ✓ 1542 kg
3. ✗ 1714 kg
4. ✗ 1507 kg

Question Type : **MCQ**
Question ID : **264330139060**
Option 1 ID : **264330544850**
Option 2 ID : **264330544849**
Option 3 ID : **264330544848**
Option 4 ID : **264330544847**
Status : **Answered**
Chosen Option : **2**

Join Telegram Group "HaryanaJobs.in"

Q.6 A और B मिलकर किसी कार्य को 6 दिनों में पूरा करते हैं। यदि A अकेले उस कार्य को 10 दिनों में पूरा कर सकता है, तो B अकेले उस कार्य को कितने दिनों में पूरा कर सकता है?

Ans
1. 14 दिन
2. 15 दिन
3. 12 दिन
4. 10 दिन

Question Type : **MCQ**
Question ID : **264330133830**
Option 1 ID : **264330524346**
Option 2 ID : **264330524344**
Option 3 ID : **264330524345**
Option 4 ID : **264330524343**
Status : **Answered**
Chosen Option : **2**

Q.7 $42 \div [18 - \{6 + (3 \text{ of } 4 - 4 - 2 \text{ of } 5)\}]$ का मान क्या है?

Ans
1. 5
2. 6
3. 2
4. 3

Question Type : **MCQ**
Question ID : **264330138090**
Option 1 ID : **264330540970**
Option 2 ID : **264330540968**
Option 3 ID : **264330540969**
Option 4 ID : **264330540967**
Status : **Answered**
Chosen Option : **4**

Q.8 तीन धनात्मक संख्याओं में, पहली और दूसरी का अनुपात 3 : 4 है और दूसरी और तीसरी का अनुपात 3 : 5 है। पहली और तीसरी संख्या का गुणनफल 4500 है। इन तीन संख्याओं का योग क्या है?

Ans
1. 235
2. 282
3. 205
4. 198

Question Type : **MCQ**
Question ID : **264330139005**
Option 1 ID : **264330544628**
Option 2 ID : **264330544630**
Option 3 ID : **264330544627**
Option 4 ID : **264330544629**
Status : **Answered**
Chosen Option : **3**

Join Telegram Group "HaryanaJobs.in"

Q.9 राम 12 km/hr की चाल से चलता है और अपने विद्यालय 12 मिनट देरी से पहुँचता है। यदि वह 16 km/hr की चाल से चलता है, तो वह निर्धारित समय से 8 मिनट पहले पहुँच जाता है। उसके घर से उसके विद्यालय की दूरी कितनी है?

Ans

✗ 1. 30 km

✗ 2. 24 km

✓ 3. 16 km

✗ 4. 20 km

Question Type : **MCQ**
Question ID : **264330138998**
Option 1 ID : **264330544602**
Option 2 ID : **264330544601**
Option 3 ID : **264330544600**
Option 4 ID : **264330544599**
Status : **Answered**
Chosen Option : **3**

Q.10 उस वर्ग का क्षेत्रफल कितना है जिसका विकर्ण $5\sqrt{2}$ cm है?

Ans

✗ 1. 64 cm^2

✗ 2. 36 cm^2

✓ 3. 25 cm^2

✗ 4. 100 cm^2

Question Type : **MCQ**
Question ID : **264330138054**
Option 1 ID : **264330540826**
Option 2 ID : **264330540825**
Option 3 ID : **264330540823**
Option 4 ID : **264330540824**
Status : **Answered**
Chosen Option : **3**

Join Telegram Group "HaryanaJobs.in"

Q.11 नीचे दिए गए वृत्त आलेख में छः विद्यालयों में पढ़ने वाले छात्रों की संख्या को दर्शाया गया है। इन सभी छः विद्यालयों में पढ़ने वाले छात्रों की कुल संख्या 8000 है। इनमें से किसी एक विशिष्ट विद्यालय में पढ़ने वाले छात्रों की संख्या को इन सभी छः विद्यालयों में पढ़ने वाले छात्रों की कुल संख्या के प्रतिशत के रूप में दर्शाया गया है।

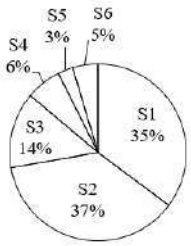

विद्यालय S2 और S4 में पढ़ने वाले छात्रों की कुल संख्या, विद्यालय S3 और S6 में पढ़ने वाले छात्रों की कुल संख्या का कितना प्रतिशत है?

Ans

1. ✗ 171.22 प्रतिशत
2. ✓ 226.31 प्रतिशत
3. ✗ 190.46 प्रतिशत
4. ✗ 265.22 प्रतिशत

Question Type : **MCQ**
Question ID : **264330139015**
Option 1 ID : **264330544669**
Option 2 ID : **264330544670**
Option 3 ID : **264330544668**
Option 4 ID : **264330544667**
Status : **Answered**
Chosen Option : **2**

Q.12 निम्नलिखित तालिका में वर्ष 2019 से 2022 तक भारत के 5 राज्यों में बेरोज़गार व्यक्तियों की संख्या को दर्शाया गया है।

वर्ष 2021 में कर्नाटक, महाराष्ट्र और पंजाब में बेरोज़गार व्यक्तियों की औसत संख्या कितनी है?

State/Year	Number of unemployed people (in thousand)			
	2019	2020	2021	2022
Bihar	25	40	50	42
UP	84	70	60	58
Karnataka	12	10	9	10
Maharashtra	40	48	30	32
Punjab	20	25	18	15

State/Year = राज्य/वर्ष

Number of unemployed people (in thousand) = बेरोज़गार व्यक्तियों की संख्या (हजार में)

Bihar = बिहार, UP = यूपी, Karnataka = कर्नाटक, Maharashtra = महाराष्ट्र, Punjab = पंजाब

Ans

1. ✗ 9 हजार
2. ✓ 19 हजार
3. ✗ 30 हजार
4. ✗ 18 हजार

Question Type : **MCQ**
Question ID : **264330138105**
Option 1 ID : **264330541029**
Option 2 ID : **264330541027**
Option 3 ID : **264330541030**
Option 4 ID : **264330541028**
Status : **Answered**
Chosen Option : **2**

Join Telegram Group "HaryanaJobs.in"

Q.13 सीमा अकेले किसी कार्य को 8 दिनों में कर सकती है और उसकी बहन रीमा अकेले उसी कार्य को 24 दिनों में कर सकती है। यदि वे साथ मिलकर कार्य करें, तो वे कितने दिनों में कार्य पूरा करेंगी?

Ans
1. 10 दिन ✗
2. 4 दिन ✗
3. 6 दिन ✓
4. 8 दिन ✗

Question Type : **MCQ**
Question ID : **264330138050**
Option 1 ID : **264330540810**
Option 2 ID : **264330540807**
Option 3 ID : **264330540809**
Option 4 ID : **264330540808**
Status : **Answered**
Chosen Option : **3**

Q.14 एक वस्तु का अंकित मूल्य उसके क्रय मूल्य से 20 प्रतिशत अधिक है। यदि अंकित मूल्य पर 10 प्रतिशत की छूट दी जाती है, तो लाभ प्रतिशत क्या होगा?

Ans
1. 12 प्रतिशत ✗
2. 8 प्रतिशत ✓
3. 15 प्रतिशत ✗
4. 10 प्रतिशत ✗

Question Type : **MCQ**
Question ID : **264330139008**
Option 1 ID : **264330544641**
Option 2 ID : **264330544639**
Option 3 ID : **264330544642**
Option 4 ID : **264330544640**
Status : **Answered**
Chosen Option : **2**

Q.15 एक राशि साधारण ब्याज पर 14 प्रतिशत वार्षिक दर पर 7 वर्ष में Rs.27720 हो जाती है। वह राशि क्या है?

Ans
1. Rs. 14000 ✓
2. Rs. 15000 ✗
3. Rs. 13000 ✗
4. Rs. 14700 ✗

Question Type : **MCQ**
Question ID : **264330139066**
Option 1 ID : **264330544872**
Option 2 ID : **264330544874**
Option 3 ID : **264330544871**
Option 4 ID : **264330544873**
Status : **Answered**
Chosen Option : **1**

Join Telegram Group "HaryanaJobs.in"

Q.16 12, 25 और 45 से विभाज्य, चार अंकों की सबसे बड़ी संख्या कौन-सी है?

Ans
1. 9800 ✗
2. 9900 ✓
3. 9999 ✗
4. 9890 ✗

Question Type : **MCQ**
Question ID : **264330141006**
Option 1 ID : **264330552372**
Option 2 ID : **264330552374**
Option 3 ID : **264330552371**
Option 4 ID : **264330552373**
Status : **Answered**
Chosen Option : **2**

Q.17 तीन नापने वाले फीतों की लंबाई 56 cm, 64 cm और 80 cm है। वह न्यूनतम लंबाई ज्ञात कीजिए जिसे तीनों फीतों में से किसी भी एक का प्रयोग करके नापा जा सके। (एक समय में केवल एक प्रकार के फीते का ही उपयोग किया जाना चाहिए और नापने के लिए केवल एक पूरे फीते का उपयोग किया जाना चाहिए।)

Ans
1. 1982 cm ✗
2. 2240 cm ✓
3. 1876 cm ✗
4. 1706 cm ✗

Question Type : **MCQ**
Question ID : **264330139011**
Option 1 ID : **264330544654**
Option 2 ID : **264330544652**
Option 3 ID : **264330544651**
Option 4 ID : **264330544653**
Status : **Answered**
Chosen Option : **2**

Q.18 प्रथम 57 प्राकृत संख्याओं का औसत क्या है?

Ans
1. 29 ✓
2. 42 ✗
3. 35 ✗
4. 40.5 ✗

Question Type : **MCQ**
Question ID : **264330138999**
Option 1 ID : **264330544605**
Option 2 ID : **264330544604**
Option 3 ID : **264330544606**
Option 4 ID : **264330544603**
Status : **Answered**
Chosen Option : **1**

Join Telegram Group "HaryanaJobs.in"

Q.19 एक वस्तु को Rs. 8442 में बेचते समय, एक व्यक्ति को 30 प्रतिशत की हानि हुई। उसे 20 प्रतिशत का लाभ अर्जित करने के लिए वस्तु को किस मूल्य पर बेचना चाहिए था?

Ans

1. Rs. 15686
2. Rs. 12806
3. Rs. 13885
4. Rs. 14472

Question Type : **MCQ**
Question ID : **264330139003**
Option 1 ID : **264330544620**
Option 2 ID : **264330544621**
Option 3 ID : **264330544622**
Option 4 ID : **264330544619**
Status : **Answered**
Chosen Option : **4**

Q.20 एक गोलीय कोश की बाहरी त्रिज्या 13 cm है और कोश की मोटाई 3 cm है। कोश के लिए प्रयुक्त धातु का आयतन कितना है? ($\pi = \frac{22}{7}$)

Ans

1. $2197\ cm^3$
2. $3024\ cm^3$
3. $1197\ cm^3$
4. $5016\ cm^3$

Question Type : **MCQ**
Question ID : **264330133835**
Option 1 ID : **264330524363**
Option 2 ID : **264330524365**
Option 3 ID : **264330524366**
Option 4 ID : **264330524364**
Status : **Answered**
Chosen Option : **4**

Section : **Reasoning Ability and Problem Solving**

Join Telegram Group "HaryanaJobs.in"

Q.1 दी गई आकृति के उस सही दर्पण प्रतिबिंब को चुनिए जो दर्पण MN को आकृति के दाईं ओर रखने पर बनेगा।

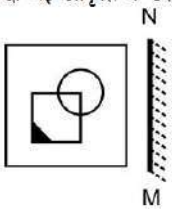

Ans

✗ 1.

✓ 2.

✗ 3.

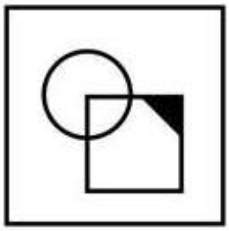

✗ 4.

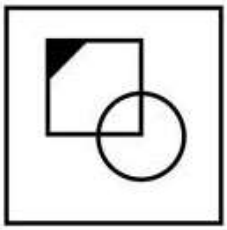

Question Type : **MCQ**
Question ID : **264330137872**
Option 1 ID : **264330540096**
Option 2 ID : **264330540097**
Option 3 ID : **264330540095**
Option 4 ID : **264330540098**
Status : **Answered**
Chosen Option : **2**

Join Telegram Group "HaryanaJobs.in"

Q.2 रश्मि, मोनिका से कद में छोटी है जो प्रेरणा से कद में छोटी है। सना, रश्मि से कद में छोटी है। हर्षिता, प्रेरणा से लंबी है। उमा, निकिता से कद में छोटी है और हर्षिता से लंबी है। इनमें से किसका कद सबसे छोटा है?

Ans

✔ 1. सना

✘ 2. रश्मि

✘ 3. उमा

✘ 4. प्रेरणा

Question Type : **MCQ**
Question ID : **264330138817**
Option 1 ID : **264330543877**
Option 2 ID : **264330543878**
Option 3 ID : **264330543876**
Option 4 ID : **264330543875**
Status : **Answered**
Chosen Option : **1**

Q.3 उस विकल्प आकृति को चुनिए जिसमें नीचे दी गई आकृति उसके भाग के रूप में निहित है (घूर्णन की अनुमति नहीं है)।

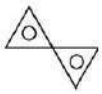

Ans

✘ 1.

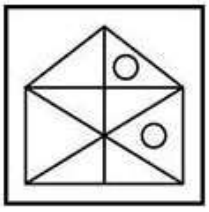

✘ 2.

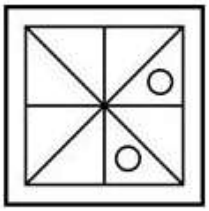

✘ 3.

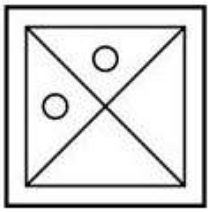

✔ 4.

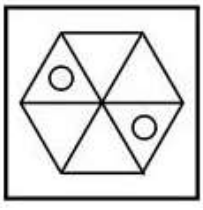

Question Type : **MCQ**
Question ID : **264330137871**
Option 1 ID : **264330540093**
Option 2 ID : **264330540092**
Option 3 ID : **264330540091**
Option 4 ID : **264330540094**
Status : **Answered**
Chosen Option : **4**

Join Telegram Group "HaryanaJobs.in"

Q.4 एक निश्चित कूट भाषा में, 'PROVED' को 'VEDPRO' लिखा जाता है। उस कूट भाषा में 'ROBUST' को कैसे लिखा जाएगा?

Ans
1. VSTRBO ✗
2. VSTROB ✗
3. USTROC ✗
4. USTROB ✓

Question Type : **MCQ**
Question ID : **264330138854**
Option 1 ID : **264330544023**
Option 2 ID : **264330544025**
Option 3 ID : **264330544026**
Option 4 ID : **264330544024**
Status : **Answered**
Chosen Option : **4**

Q.5 छः छात्र सुभम, स्नेहा, सुरभि, मुस्कान, हर्ष और विशाल एक असेंबली लाइन में उत्तर की ओर मुख करके (एक के पीछे एक) खड़े हैं। लाइन में हर्ष के पीछे केवल एक छात्र खड़ा है। स्नेहा, विशाल और मुस्कान के ठीक बीच में खड़ी है। सुरभि, मुस्कान और हर्ष के बीच में खड़ी है। सुरभि के ठीक पीछे कौन खड़ा है?

Ans
1. विशाल ✗
2. स्नेहा ✗
3. हर्ष ✓
4. सुभम ✗

Question Type : **MCQ**
Question ID : **264330138815**
Option 1 ID : **264330543868**
Option 2 ID : **264330543869**
Option 3 ID : **264330543870**
Option 4 ID : **264330543867**
Status : **Answered**
Chosen Option : **3**

Q.6 एक निश्चित कूट भाषा में, 'PARK' को 'FMVK' लिखा जाता है। उस कूट भाषा में 'RICE' को कैसे लिखा जाएगा?

Ans
1. ZXDM ✓
2. ZXDN ✗
3. ZXDL ✗
4. ZXEM ✗

Question Type : **MCQ**
Question ID : **264330138525**
Option 1 ID : **264330542710**
Option 2 ID : **264330542708**
Option 3 ID : **264330542707**
Option 4 ID : **264330542709**
Status : **Answered**
Chosen Option : **1**

Join Telegram Group "HaryanaJobs.in"

Q.7 उस विकल्प को चुनिए जो पाँचवी संख्या से ठीक उसी प्रकार संबंधित है जिस प्रकार दूसरी संख्या पहली संख्या से संबंधित है और चौथी संख्या तीसरी संख्या से संबंधित है।

10 : 512 :: 12 : 1000 :: 8 : ?

Ans
1. 512 ✗
2. 216 ✓
3. 256 ✗
4. 315 ✗

Question Type : **MCQ**
Question ID : **264330138843**
Option 1 ID : **264330543981**
Option 2 ID : **264330543982**
Option 3 ID : **264330543979**
Option 4 ID : **264330543980**
Status : **Answered**
Chosen Option : **2**

Q.8 दिए गए समीकरण को सही करने के लिए किन दो संख्याओं को आपस में बदला जाना चाहिए?

4 × 2 − 3 + 5 = 7

Ans
1. 7 और 5 ✗
2. 4 और 5 ✗
3. 3 और 4 ✓
4. 2 और 7 ✗

Question Type : **MCQ**
Question ID : **264330138824**
Option 1 ID : **264330543904**
Option 2 ID : **264330543905**
Option 3 ID : **264330543903**
Option 4 ID : **264330543906**
Status : **Answered**
Chosen Option : **3**

Q.9 दी गई श्रृंखला में निम्नलिखित में से कौन-सी संख्या प्रश्न चिन्ह (?) के स्थान पर आएगी?

27, 30, 35, 38, 43, 46, 51,?

Ans
1. 56 ✗
2. 48 ✗
3. 30 ✗
4. 54 ✓

Question Type : **MCQ**
Question ID : **264330138821**
Option 1 ID : **264330543894**
Option 2 ID : **264330543891**
Option 3 ID : **264330543892**
Option 4 ID : **264330543893**
Status : **Answered**
Chosen Option : **4**

Join Telegram Group "HaryanaJobs.in"

Q.10 दो कथन दिए गए हैं और दो निष्कर्ष I और II दिए गए हैं। कथनों को सत्य मानते हुए, चाहे वे सामान्यतः ज्ञात तथ्यों से अलग प्रतीत होते हों, निश्चय कीजिए कि कौन-सा निष्कर्ष तार्किक रूप से कथनों के अनुसार है।

कथन:

सभी कुर्सियाँ, डेस्क हैं।

सभी डेस्क, मेज़ हैं।

निष्कर्ष:

I. कुछ मेज़, कुर्सियाँ हैं।

II. सभी मेज़, डेस्क हैं।

Ans

✗ 1. सिर्फ निष्कर्ष II कथनों के अनुसार है

✓ 2. सिर्फ निष्कर्ष I कथनों के अनुसार है

✗ 3. निष्कर्ष I और II में से कोई भी कथनों के अनुसार नहीं है

✗ 4. दोनों निष्कर्ष I और II कथनों के अनुसार हैं

Question Type : **MCQ**
Question ID : **264330138818**
Option 1 ID : **264330543880**
Option 2 ID : **264330543879**
Option 3 ID : **264330543882**
Option 4 ID : **264330543881**
Status : **Answered**
Chosen Option : **2**

Q.11 दी गई श्रृंखला में निम्नलिखित में से कौन-सा अक्षर प्रश्न चिन्ह (?) के स्थान पर आएगा?

Y, T, O, J, E,?

Ans

✗ 1. B

✗ 2. C

✗ 3. D

✓ 4. Z

Question Type : **MCQ**
Question ID : **264330138808**
Option 1 ID : **264330543840**
Option 2 ID : **264330543839**
Option 3 ID : **264330543841**
Option 4 ID : **264330543842**
Status : **Answered**
Chosen Option : **4**

Join Telegram Group "HaryanaJobs.in"

Q.12 उस विकल्प को चुनिए जो तीसरे शब्द से ठीक उसी तरह संबंधित है जिस तरह दूसरा शब्द पहले शब्द से संबंधित है।
सैनिक : बंदूक :: शल्य चिकित्सक :?

Ans
✔ 1. छुरी (Scalpel)
✘ 2. तलवार (Sword)
✘ 3. कुल्हाड़ी (Axe)
✘ 4. कलम (Pen)

Question Type : **MCQ**
Question ID : **264330138810**
Option 1 ID : **264330543849**
Option 2 ID : **264330543848**
Option 3 ID : **264330543850**
Option 4 ID : **264330543847**
Status : **Answered**
Chosen Option : **1**

Q.13 निम्नलिखित प्रश्न में, दी गई श्रृंखला में लुप्त संख्या चुनिए ।

500, 477, 454, 431, 408, ?

Ans
✘ 1. 391
✘ 2. 390
✔ 3. 385
✘ 4. 384

Question Type : **MCQ**
Question ID : **264330138841**
Option 1 ID : **264330543974**
Option 2 ID : **264330543973**
Option 3 ID : **264330543971**
Option 4 ID : **264330543972**
Status : **Answered**
Chosen Option : **3**

Join Telegram Group "HaryanaJobs.in"

Q.14 P, Q, R, और S एक बेंच पर दक्षिण की ओर मुख करके बैठे हैं और A, B, C और D एक समानांतर बेंच पर उत्तर की ओर मुख करके बैठे हैं। S और B एक दूसरे के सम्मुख बैठे हैं। A, D और C के ठीक बीच में बैठा है। P, C के सम्मुख बैठा है। Q, S के ठीक बाईं ओर बैठा है। R के स्थान के संदर्भ में निम्नलिखित में से कौन-सा कथन सही है?

Ans

1. ✗ Q के ठीक दाईं ओर R बैठा है
2. ✓ A के सम्मुख R बैठा है
3. ✗ D के सम्मुख R बैठा है
4. ✗ P के ठीक बाईं ओर R बैठा है

Question Type : **MCQ**
Question ID : **264330138816**
Option 1 ID : **264330543873**
Option 2 ID : **264330543874**
Option 3 ID : **264330543871**
Option 4 ID : **264330543872**
Status : **Answered**
Chosen Option : **2**

Q.15 एक निश्चित कूट भाषा में, 'KOVID' को 'DIVOK' लिखा जाता है। उस कूट भाषा में 'DAVID' को कैसे लिखा जाएगा?

Ans

1. ✗ DIVBD
2. ✓ DIVAD
3. ✗ DIVDA
4. ✗ DIWAD

Question Type : **MCQ**
Question ID : **264330137112**
Option 1 ID : **264330537094**
Option 2 ID : **264330537092**
Option 3 ID : **264330537093**
Option 4 ID : **264330537091**
Status : **Answered**
Chosen Option : **2**

Q.16 दिए गए दो चिन्हों को आपस में बदलने पर, निम्नलिखित में से कौन-सा समीकरण सही नहीं होगा?

× और -

I. 4 ÷ 2 + 1 × 6 - 3 = 13

II. 5 + 7 - 8 × 2 ÷ 1 = 58

Ans

1. ✓ I और II दोनों
2. ✗ केवल I
3. ✗ न तो I और न ही II
4. ✗ केवल II

Question Type : **MCQ**
Question ID : **264330135579**
Option 1 ID : **264330531217**
Option 2 ID : **264330531215**
Option 3 ID : **264330531218**
Option 4 ID : **264330531216**
Status : **Answered**
Chosen Option : **1**

Join Telegram Group "HaryanaJobs.in"

Q.17 उस विकल्प आकृति को चुनिए जो नीचे दी गई आकृति में पैटर्न को पूरा करने के लिए प्रश्न चिन्ह (?) के स्थान पर आएगी। (घूर्णन की अनुमति नहीं है)।

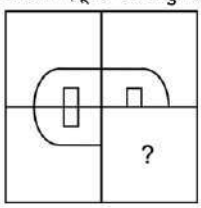

Ans

✔ 1.

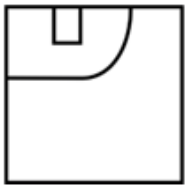

✘ 2.

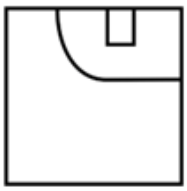

✘ 3.

✘ 4.

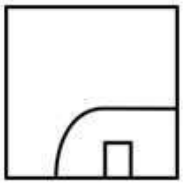

Question Type : **MCQ**
Question ID : **264330138828**
Option 1 ID : **264330543920**
Option 2 ID : **264330543921**
Option 3 ID : **264330543919**
Option 4 ID : **264330543922**
Status : **Answered**
Chosen Option : **1**

Join Telegram Group "HaryanaJobs.in"

Q.18 तीन कथन दिए गए हैं और दो निष्कर्ष I और II दिए गए हैं। कथनों को सत्य मानते हुए, चाहे वे सामान्यतः ज्ञात तथ्यों से अलग प्रतीत होते हों, निश्चय कीजिए कि कौन-सा निष्कर्ष तार्किक रूप से कथनों के अनुसार है।
कथन:

कुछ ख़रगोश, सफ़ेद हैं।

कुछ ख़रगोश, भूरे हैं।

सभी सफ़ेद, पीले हैं।

निष्कर्ष:

I. कुछ भूरे, पीले हैं।

II. कुछ ख़रगोश, पीले हैं।

Ans

✗ 1. सिर्फ निष्कर्ष I कथनों के अनुसार है

✗ 2. दोनों निष्कर्ष I और II कथनों के अनुसार हैं

✗ 3. निष्कर्ष I और II में से कोई भी कथनों के अनुसार नहीं है

✓ 4. सिर्फ निष्कर्ष II कथनों के अनुसार है

Question Type : **MCQ**
Question ID : **264330138819**
Option 1 ID : **264330543883**
Option 2 ID : **264330543885**
Option 3 ID : **264330543886**
Option 4 ID : **264330543884**
Status : **Answered**
Chosen Option : **4**

Q.19 दिए गए पैटर्न का ध्यानपूर्वक अध्ययन कीजिए और उस संख्या को चुनिए जो इसमें प्रश्न चिन्ह (?) के स्थान पर आ सकती है?
प्रथम पंक्ति- 18, 36, 6
द्वितीय पंक्ति- 24, 48, 8
तृतीय पंक्ति- 33, 66,?

Ans

✗ 1. 14

✗ 2. 13

✓ 3. 11

✗ 4. 12

Question Type : **MCQ**
Question ID : **264330138823**
Option 1 ID : **264330543901**
Option 2 ID : **264330543902**
Option 3 ID : **264330543899**
Option 4 ID : **264330543900**
Status : **Answered**
Chosen Option : **3**

Join Telegram Group "HaryanaJobs.in"

Q.20 उस विकल्प को चुनिए जो तीसरे अक्षर-समूह से ठीक उसी तरह संबंधित है जिस तरह दूसरा अक्षर-समूह पहले अक्षर-समूह से संबंधित है।
SOC : TND :: UDN :?

Ans
1. VCP
2. OCV
3. VCO
4. UCO

Question Type : **MCQ**
Question ID : **264330138811**
Option 1 ID : **264330543854**
Option 2 ID : **264330543852**
Option 3 ID : **264330543851**
Option 4 ID : **264330543853**
Status : **Answered**
Chosen Option : **3**

Section : **General Awareness**

Q.1 "थॉमस कप (Thomas Cup)" निम्नलिखित में से किस खेल से संबंधित है?

Ans
1. फ़ुटबॉल
2. टेनिस
3. बैडमिंटन
4. क्रिकेट

Question Type : **MCQ**
Question ID : **264330138900**
Option 1 ID : **264330544207**
Option 2 ID : **264330544209**
Option 3 ID : **264330544208**
Option 4 ID : **264330544210**
Status : **Answered**
Chosen Option : **3**

Q.2 निश्चित दिशा में महासागरीय सतह पर नियमित रूप से बहने वाली जल की धाराएँ _____ कहलाती हैं।

Ans
1. ज्वार-भाटा
2. महासागरीय धाराएँ
3. चक्रवात
4. लहरें

Question Type : **MCQ**
Question ID : **264330138911**
Option 1 ID : **264330544253**
Option 2 ID : **264330544254**
Option 3 ID : **264330544252**
Option 4 ID : **264330544251**
Status : **Answered**
Chosen Option : **4**

Join Telegram Group "HaryanaJobs.in"

Q.3 जून 2022 में, Google डूडल ने सत्येंद्र नाथ बोस को सम्मानित किया, वह एक _____ थे।

Ans
✔ 1. भारतीय भौतिक विज्ञानी
✘ 2. भारतीय शास्त्रीय नर्तक
✘ 3. भारतीय गायक
✘ 4. सर्वोच्च न्यायालय के न्यायाधीश

Question Type : **MCQ**
Question ID : **264330138879**
Option 1 ID : **264330544125**
Option 2 ID : **264330544124**
Option 3 ID : **264330544126**
Option 4 ID : **264330544123**
Status : **Answered**
Chosen Option : **1**

Q.4 निम्नलिखित में से किस गुप्त शासक ने नालंदा विश्वविद्यालय की शुरुआत की थी?

Ans
✔ 1. कुमारगुप्त
✘ 2. विष्णुगुप्त
✘ 3. चंद्रगुप्त द्वितीय
✘ 4. स्कंदगुप्त

Question Type : **MCQ**
Question ID : **264330137982**
Option 1 ID : **264330540537**
Option 2 ID : **264330540535**
Option 3 ID : **264330540538**
Option 4 ID : **264330540536**
Status : **Answered**
Chosen Option : **1**

Q.5 जनन की वह प्रक्रिया जिसमें केवल एक ही जीव भाग लेता है, _____ कहलाता है।

Ans
✔ 1. अलैंगिक जनन
✘ 2. इन विट्रो निषेचन
✘ 3. बाह्य निषेचन
✘ 4. लैंगिक जनन

Question Type : **MCQ**
Question ID : **264330138910**
Option 1 ID : **264330544248**
Option 2 ID : **264330544249**
Option 3 ID : **264330544250**
Option 4 ID : **264330544247**
Status : **Answered**
Chosen Option : **1**

Join Telegram Group "HaryanaJobs.in"

Q.6 भारतीय संविधान का निम्नलिखित में से कौन -सा अनुच्छेद "कार्यपालिका से न्यायपालिका के पृथक्करण" से संबंधित है?

Ans
1. अनुच्छेद 44
2. अनुच्छेद 46
3. अनुच्छेद 40
4. अनुच्छेद 50

Question Type : **MCQ**
Question ID : **264330138883**
Option 1 ID : **264330544140**
Option 2 ID : **264330544141**
Option 3 ID : **264330544139**
Option 4 ID : **264330544142**
Status : **Answered**
Chosen Option : **4**

Q.7 वह न्यूनतम ताप जिस पर कोई पदार्थ जलने लगता है, उस पदार्थ का _____ कहलाता है।

Ans
1. गलनांक
2. ज्वलन-ताप
3. दहन ताप
4. विस्फोटन बिंदु

Question Type : **MCQ**
Question ID : **264330138912**
Option 1 ID : **264330544255**
Option 2 ID : **264330544256**
Option 3 ID : **264330544257**
Option 4 ID : **264330544258**
Status : **Answered**
Chosen Option : **2**

Q.8 सितंबर 2020 में किस विधेयक के कारण लोगों ने दिल्ली, हरियाणा और पंजाब में व्यापक विरोध प्रदर्शन किया?

Ans
1. ट्रांसजेंडर विधेयक
2. केंद्रीय विश्वविद्यालय विधेयक
3. ऊर्जा संरक्षण विधेयक
4. कृषि विधेयक

Question Type : **MCQ**
Question ID : **264330135435**
Option 1 ID : **264330530650**
Option 2 ID : **264330530647**
Option 3 ID : **264330530648**
Option 4 ID : **264330530649**
Status : **Answered**
Chosen Option : **4**

Join Telegram Group "HaryanaJobs.in"

Q.9 जापान जैसे देशों में, _____ जन्म दर, जनसंख्या पिरामिड को आधार पर _____ बनाती है।

Ans
1. निम्न, विस्तृत
2. निम्न, सँकरा
3. उच्च, सँकरा
4. उच्च, विस्तृत

Question Type : **MCQ**
Question ID : **264330138916**
Option 1 ID : **264330544274**
Option 2 ID : **264330544273**
Option 3 ID : **264330544271**
Option 4 ID : **264330544272**
Status : **Answered**
Chosen Option : **2**

Q.10 निम्नलिखित में से किस फसल को "सुनहरा रेशा(Golden fibre)" के रूप में भी जाना जाता है?

Ans
1. गन्ना
2. पटसन
3. चावल
4. गेहूँ

Question Type : **MCQ**
Question ID : **264330138313**
Option 1 ID : **264330541862**
Option 2 ID : **264330541860**
Option 3 ID : **264330541859**
Option 4 ID : **264330541861**
Status : **Answered**
Chosen Option : **2**

Q.11 अहमदिया, इस्लाम का एक संप्रदाय है जिसकी शुरुआत भारत में हुई थी । इसकी स्थापना 1889 में _____ द्वारा की गई थी।

Ans
1. मीर निसार अली (Mir Nisar Ali)
2. शाह वलीउल्लाह (Shah Walliullah)
3. मिर्जा गुलाम अहमद (Mirza Ghulam Ahmad)
4. हाज़ी शरीयतुल्लाह (Haji Shariatullah)

Question Type : **MCQ**
Question ID : **264330137985**
Option 1 ID : **264330540549**
Option 2 ID : **264330540550**
Option 3 ID : **264330540547**
Option 4 ID : **264330540548**
Status : **Answered**
Chosen Option : **3**

Join Telegram Group "HaryanaJobs.in"

Q.12 झिझिया किस राज्य का प्रसिद्ध लोकनृत्य है?

Ans
1. राजस्थान ✗
2. उत्तरप्रदेश ✗
3. बिहार ✓
4. हरियाणा ✗

Question Type : **MCQ**
Question ID : **264330138871**
Option 1 ID : **264330544091**
Option 2 ID : **264330544093**
Option 3 ID : **264330544094**
Option 4 ID : **264330544092**
Status : **Not Answered**
Chosen Option : **--**

Q.13 मुग़ल अपने पिता की ओर से _____ के वंशज थे।

Ans
1. मुहम्मद गोरी ✗
2. चंगेज़ खां ✗
3. महमूद गजनवी ✗
4. तैमूर ✓

Question Type : **MCQ**
Question ID : **264330138918**
Option 1 ID : **264330544282**
Option 2 ID : **264330544279**
Option 3 ID : **264330544280**
Option 4 ID : **264330544281**
Status : **Answered**
Chosen Option : **2**

Q.14 लंदन ओलम्पिक 2012 में भारत ने कितने रजत पदक जीते?

Ans
1. दो ✓
2. तीन ✗
3. एक ✗
4. चार ✗

Question Type : **MCQ**
Question ID : **264330138874**
Option 1 ID : **264330544104**
Option 2 ID : **264330544105**
Option 3 ID : **264330544103**
Option 4 ID : **264330544106**
Status : **Answered**
Chosen Option : **3**

Join Telegram Group "HaryanaJobs.in"

Q.15 कलामंडलम कल्याणिकुट्टी अम्मा (Kalamandalam Kalyanikutty Amma) को वर्ष 1997-1998 में कालिदास सम्मान से सम्मानित किया गया था। वह किस भारतीय शास्त्रीय नृत्य शैली के लिए प्रसिद्ध थीं?

Ans
1. कुचिपुड़ी
2. मोहिनीअट्टम
3. ओडिसी
4. कथक

Question Type : **MCQ**
Question ID : **264330138303**
Option 1 ID : **264330541821**
Option 2 ID : **264330541822**
Option 3 ID : **264330541820**
Option 4 ID : **264330541819**
Status : **Answered**
Chosen Option : **1**

Q.16 GDP calculated at some constant set of prices is called _____.

Ans
1. current GDP
2. nominal GDP
3. domestic GDP
4. real GDP

Question Type : **MCQ**
Question ID : **264330138306**
Option 1 ID : **264330541833**
Option 2 ID : **264330541832**
Option 3 ID : **264330541831**
Option 4 ID : **264330541834**
Status : **Answered**
Chosen Option : **1**

Q.17 दिल्ली में जामा मस्जिद _____ द्वारा बनवाई गई थी।

Ans
1. सिकंदर लोदी
2. शाहजहाँ
3. अकबर
4. अलाउद्दीन खिलजी

Question Type : **MCQ**
Question ID : **264330135438**
Option 1 ID : **264330530659**
Option 2 ID : **264330530662**
Option 3 ID : **264330530660**
Option 4 ID : **264330530661**
Status : **Answered**
Chosen Option : **2**

Join Telegram Group "HaryanaJobs.in"

Q.18 Which of the following is the ultimate source of energy for all living organisms?

Ans
✔ 1. Sun
✘ 2. Air
✘ 3. Soil
✘ 4. Water

Question Type : **MCQ**
Question ID : **264330138884**
Option 1 ID : **264330544144**
Option 2 ID : **264330544146**
Option 3 ID : **264330544143**
Option 4 ID : **264330544145**
Status : **Answered**
Chosen Option : **4**

Q.19 लता मंगेशकर ने एक _____ फिल्म के लिए अपना पहला पार्श्व गीत रिकॉर्ड किया।

Ans
✔ 1. मराठी
✘ 2. बंगाली
✘ 3. तमिल
✘ 4. पंजाबी

Question Type : **MCQ**
Question ID : **264330138877**
Option 1 ID : **264330544118**
Option 2 ID : **264330544115**
Option 3 ID : **264330544116**
Option 4 ID : **264330544117**
Status : **Answered**
Chosen Option : **1**

Q.20 सैय्यद (Sayyid) वंश का प्रथम शासक कौन था ?

Ans
✘ 1. मुबारक खान
✘ 2. अलाउद्दीन आलम शाह
✔ 3. खिज्र खाँ
✘ 4. मुहम्मद शाह

Question Type : **MCQ**
Question ID : **264330134706**
Option 1 ID : **264330527781**
Option 2 ID : **264330527779**
Option 3 ID : **264330527780**
Option 4 ID : **264330527782**
Status : **Answered**
Chosen Option : **3**

Join Telegram Group "HaryanaJobs.in"

Q.21 नवंबर 2022 में, भारतीय तटरक्षक के उन्नत और हल्के हेलीकॉप्टर (Indian Coast Guard Advanced Light Helicopter) Mk-III स्क्वाड्रन, 840 Sqn (CG) को _____ में नियुक्त किया गया।

Ans
✔ 1. चेन्नई
✘ 2. कानपुर
✘ 3. पुरी
✘ 4. मैसूर

Question Type : **MCQ**
Question ID : **264330138880**
Option 1 ID : **264330544128**
Option 2 ID : **264330544127**
Option 3 ID : **264330544130**
Option 4 ID : **264330544129**
Status : **Answered**
Chosen Option : **1**

Q.22 कंटीले वन तथा झाड़ियाँ भारत के किन भागों में पाए जाते हैं?

Ans
✘ 1. उत्तरी-पूर्वी
✘ 2. दक्षिणी
✘ 3. पूर्वी
✔ 4. उत्तरी-पश्चिमी

Question Type : **MCQ**
Question ID : **264330138889**
Option 1 ID : **264330544166**
Option 2 ID : **264330544165**
Option 3 ID : **264330544164**
Option 4 ID : **264330544163**
Status : **Answered**
Chosen Option : **4**

Q.23 ब्रिटिश भारत के अंतिम गवर्नर जनरल कौन थे?

Ans
✘ 1. लॉर्ड हेस्टिंग्स
✘ 2. लॉर्ड ऑकलैंड
✔ 3. लॉर्ड माउंटबेटन
✘ 4. लॉर्ड वैलेस्ली

Question Type : **MCQ**
Question ID : **264330135449**
Option 1 ID : **264330530704**
Option 2 ID : **264330530706**
Option 3 ID : **264330530705**
Option 4 ID : **264330530703**
Status : **Answered**
Chosen Option : **1**

Join Telegram Group "HaryanaJobs.in"

Q.24 मणिपुर का याओशंग (Yaoshang) उत्सव _____ दिनों तक मनाया जाता है।

Ans
1. सात ✗
2. दो ✗
3. पाँच ✓
4. नौ ✗

Question Type : **MCQ**
Question ID : **264330137972**
Option 1 ID : **264330540496**
Option 2 ID : **264330540498**
Option 3 ID : **264330540495**
Option 4 ID : **264330540497**
Status : **Not Answered**
Chosen Option : **--**

Q.25 'द इनहेरिटेंस ऑफ लॉस (The Inheritance of Loss)' पुस्तक _____ द्वारा लिखी गई है।

Ans
1. वी.एस. नायपॉल ✗
2. सलमान रुश्दी ✗
3. किरण देसाई ✓
4. रस्किन बॉन्ड ✗

Question Type : **MCQ**
Question ID : **264330138301**
Option 1 ID : **264330541814**
Option 2 ID : **264330541811**
Option 3 ID : **264330541812**
Option 4 ID : **264330541813**
Status : **Answered**
Chosen Option : **2**

Section : **English Language and Comprehension**

Q.1 Select the wrongly spelt word.

Ans
1. peripheral ✗
2. pariah ✗
3. pernicious ✗
4. prefunctory ✓

Question Type : **MCQ**
Question ID : **264330136532**
Option 1 ID : **264330534869**
Option 2 ID : **264330534867**
Option 3 ID : **264330534870**
Option 4 ID : **264330534868**
Status : **Answered**
Chosen Option : **4**

Join Telegram Group "HaryanaJobs.in"

Q.2 Improve the underlined part of the sentence. Choose 'No improvement' as an answer if the sentence is grammatically correct.

The teacher had reading the instructions aloud to the students.

Ans

1. No improvement
2. had read the
3. had been read the
4. reading the

Question Type : **MCQ**
Question ID : **264330136851**
Option 1 ID : **264330536098**
Option 2 ID : **264330536096**
Option 3 ID : **264330536097**
Option 4 ID : **264330536095**
Status : **Answered**
Chosen Option : **2**

Q.3 Improve the underlined part of the sentence. Choose 'No improvement' as an answer if the sentence is grammatically correct.

In the logo, the blue contrast wells with its complementary colour, yellow.

Ans

1. contrast we'll
2. contrast well
3. No improvement
4. contrasts well

Question Type : **MCQ**
Question ID : **264330135311**
Option 1 ID : **264330530157**
Option 2 ID : **264330530156**
Option 3 ID : **264330530158**
Option 4 ID : **264330530155**
Status : **Answered**
Chosen Option : **4**

Q.4 Find the part of the given sentence that has an error in it. If there is no error, choose 'No error'.
The radio data shows neither evidence for ongoing jet activity.

Ans

1. ongoing jet activity.
2. The radio data shows
3. No error
4. neither evidence for

Question Type : **MCQ**
Question ID : **264330136848**
Option 1 ID : **264330536085**
Option 2 ID : **264330536083**
Option 3 ID : **264330536086**
Option 4 ID : **264330536084**
Status : **Answered**
Chosen Option : **4**

Join Telegram Group "HaryanaJobs.in"

Q.5 Fill in the blank with the most appropriate option.

The pudding fell _____ floor with a heart-stopping crash.

Ans

✔ 1. to the

✘ 2. upon the

✘ 3. up to the

✘ 4. in to the

Question Type : **MCQ**
Question ID : **264330136620**
Option 1 ID : **264330535210**
Option 2 ID : **264330535207**
Option 3 ID : **264330535209**
Option 4 ID : **264330535208**
Status : **Answered**
Chosen Option : **2**

Q.6 In the following question, out of the given four alternatives, select the alternative which best expresses the meaning of the Idiom/Phrase.
Draw a blank

Ans

✘ 1. Give lame excuses

✘ 2. Ragging of a fresher

✘ 3. A very complex question

✔ 4. To fail to get an answer or result

Question Type : **MCQ**
Question ID : **264330136867**
Option 1 ID : **264330536156**
Option 2 ID : **264330536155**
Option 3 ID : **264330536158**
Option 4 ID : **264330536157**
Status : **Answered**
Chosen Option : **4**

Q.7 Improve the underlined part of the sentence. Choose 'No improvement' as an answer if the sentence is grammatically correct.

The comedian's jokes are so bad that audiences usually groaning instead of laugh.

Ans

✔ 1. usually groan instead of

✘ 2. usual groan instead off

✘ 3. No improvement

✘ 4. usual groaned despite of

Question Type : **MCQ**
Question ID : **264330136852**
Option 1 ID : **264330536099**
Option 2 ID : **264330536100**
Option 3 ID : **264330536102**
Option 4 ID : **264330536101**
Status : **Answered**
Chosen Option : **1**

Join Telegram Group "HaryanaJobs.in"

Q.8 Choose the word that can substitute the given group of words.

Disease that spreads over a whole country or the whole world

Ans

1. ✗ Panacea
2. ✗ Epidermis
3. ✗ Rustic
4. ✓ Pandemic

Question Type : **MCQ**
Question ID : **264330136861**
Option 1 ID : **264330536134**
Option 2 ID : **264330536132**
Option 3 ID : **264330536131**
Option 4 ID : **264330536133**
Status : **Answered**
Chosen Option : **4**

Q.9 Find the part of the given sentence that has an error in it. If there is no error, choose 'No error'.

If I was a clown, I would have made everyone smile.

Ans

1. ✓ If I was a clown,
2. ✗ everyone smile.
3. ✗ No error
4. ✗ I would have made

Question Type : **MCQ**
Question ID : **264330136823**
Option 1 ID : **264330535987**
Option 2 ID : **264330535989**
Option 3 ID : **264330535990**
Option 4 ID : **264330535988**
Status : **Answered**
Chosen Option : **1**

Q.10 Select the appropriate antonym for the underlined word.

The new government's domestic policies could easily undermine the main foreign policy.

Ans

1. ✓ Enhance
2. ✗ Cripple
3. ✗ Weaken
4. ✗ Spoil

Question Type : **MCQ**
Question ID : **264330136840**
Option 1 ID : **264330536054**
Option 2 ID : **264330536052**
Option 3 ID : **264330536051**
Option 4 ID : **264330536053**
Status : **Answered**
Chosen Option : **1**

Join Telegram Group "HaryanaJobs.in"

Q.11 Choose the word that is opposite in meaning to the given word.

Impossible

Ans
1. Unlikely
2. Unsure
3. Shaky
4. Applicable

Question Type : **MCQ**
Question ID : **264330135196**
Option 1 ID : **264330529712**
Option 2 ID : **264330529711**
Option 3 ID : **264330529713**
Option 4 ID : **264330529714**
Status : **Answered**
Chosen Option : **4**

Q.12 Select the most appropriate option to fill in the blank.

According to the politician, using vulgar language to _____ votes is not something he will endorse.

Ans
1. garner
2. divulge
3. segregate
4. lump

Question Type : **MCQ**
Question ID : **264330136846**
Option 1 ID : **264330536076**
Option 2 ID : **264330536075**
Option 3 ID : **264330536078**
Option 4 ID : **264330536077**
Status : **Answered**
Chosen Option : **1**

Q.13 Select the appropriate synonym for the underlined word.

Go back to your image description.

Ans
1. Definition
2. Plan
3. Function
4. Deception

Question Type : **MCQ**
Question ID : **264330136837**
Option 1 ID : **264330536040**
Option 2 ID : **264330536039**
Option 3 ID : **264330536042**
Option 4 ID : **264330536041**
Status : **Answered**
Chosen Option : **1**

Join Telegram Group "HaryanaJobs.in"

Q.14 Choose the incorrectly spelt word.

Ans

✔ 1. Glovve

✘ 2. Hide

✘ 3. Fold

✘ 4. Wider

Question Type : **MCQ**
Question ID : **264330136843**
Option 1 ID : **264330536063**
Option 2 ID : **264330536064**
Option 3 ID : **264330536066**
Option 4 ID : **264330536065**
Status : **Answered**
Chosen Option : **1**

Q.15 In the following question, out of the given four alternatives, select the alternative which best expresses the meaning of the Idiom/Phrase.
The black sheep

Ans

✔ 1. The least reputable member of a group

✘ 2. A friend who betrays

✘ 3. A stupid or foolish person

✘ 4. A day of importance

Question Type : **MCQ**
Question ID : **264330136842**
Option 1 ID : **264330536060**
Option 2 ID : **264330536062**
Option 3 ID : **264330536059**
Option 4 ID : **264330536061**
Status : **Answered**
Chosen Option : **1**

Q.16 Select the most appropriate option to fill in the blank.

I was really hoping to _____ a decent movie this time, and I came up with an undisputed classic.

Ans

✘ 1. tirade

✘ 2. strut

✔ 3. unearth

✘ 4. subside

Question Type : **MCQ**
Question ID : **264330136533**
Option 1 ID : **264330534874**
Option 2 ID : **264330534871**
Option 3 ID : **264330534872**
Option 4 ID : **264330534873**
Status : **Answered**
Chosen Option : **2**

Join Telegram Group "HaryanaJobs.in"

Q.17 Select the word from the options which is similar in meaning to the bracketed word given in the sentence below.

I had a (toddler) at home and two other children at school.

Ans

✔ 1. newborn

✘ 2. adult

✘ 3. senior

✘ 4. ancient

Question Type : **MCQ**
Question ID : **264330136604**
Option 1 ID : **264330535143**
Option 2 ID : **264330535144**
Option 3 ID : **264330535145**
Option 4 ID : **264330535146**
Status : **Answered**
Chosen Option : **1**

Q.18 **Find the part of the given sentence that has an error in it. If there is no error, choose 'No error'.**
Peoples might confess just to get out of the interrogation room.

Ans

✘ 1. just to get out of

✔ 2. Peoples might confess

✘ 3. No error

✘ 4. the interrogation room.

Question Type : **MCQ**
Question ID : **264330134477**
Option 1 ID : **264330526876**
Option 2 ID : **264330526875**
Option 3 ID : **264330526878**
Option 4 ID : **264330526877**
Status : **Answered**
Chosen Option : **2**

Q.19 A sentence has been given with a blank to be filled with an appropriate option. Choose the correct alternative.
Apple's success attracted the _____ of the computer giant IBM.

Ans

✘ 1. attend

✘ 2. attending

✘ 3. attentive

✔ 4. attention

Question Type : **MCQ**
Question ID : **264330136827**
Option 1 ID : **264330536004**
Option 2 ID : **264330536005**
Option 3 ID : **264330536006**
Option 4 ID : **264330536003**
Status : **Answered**
Chosen Option : **4**

Join Telegram Group "HaryanaJobs.in"

Q.20 Choose the word that can substitute the given group of words.

A place of refugee

Ans
1. Hospice
2. Shelter
3. Asylum
4. Home

Question Type : **MCQ**
Question ID : **264330136836**
Option 1 ID : **264330536038**
Option 2 ID : **264330536035**
Option 3 ID : **264330536037**
Option 4 ID : **264330536036**
Status : **Answered**
Chosen Option : **2**

Comprehension:

In the following passage some of the words have been deleted. Read the passage carefully and select the correct answer for the given blank out of the four alternatives.

These people remind me of a harmony that exists with the natural world. They know their environment in a (1) _____ that can only be acquired (2) _____ living on equal footing with the natural world, not in (3) _____ through a recognition that humans are dependent (4) _____ our surroundings, something those of us who live in towns and cities too (5) _____ forget.

SubQuestion No : 21

Q.21 Select the most appropriate option to fill in blank number 1.

Ans
1. way
2. line
3. time
4. style

Question Type : **MCQ**
Question ID : **264330135187**
Option 1 ID : **264330529675**
Option 2 ID : **264330529677**
Option 3 ID : **264330529676**
Option 4 ID : **264330529678**
Status : **Answered**
Chosen Option : **1**

Join Telegram Group "HaryanaJobs.in"

Comprehension:

In the following passage some of the words have been deleted. Read the passage carefully and select the correct answer for the given blank out of the four alternatives.

These people remind me of a harmony that exists with the natural world. They know their environment in a (1) _____ that can only be acquired (2) _____ living on equal footing with the natural world, not in (3) _____ through a recognition that humans are dependent (4) _____ our surroundings, something those of us who live in towns and cities too (5) _____ forget.

SubQuestion No : 22

Q.22 Select the most appropriate option to fill in blank number 2.

Ans

✗ 1. to

✓ 2. through

✗ 3. for

✗ 4. with

Question Type : **MCQ**
Question ID : **264330135188**
Option 1 ID : **264330529681**
Option 2 ID : **264330529682**
Option 3 ID : **264330529680**
Option 4 ID : **264330529679**
Status : **Answered**
Chosen Option : **2**

Comprehension:

In the following passage some of the words have been deleted. Read the passage carefully and select the correct answer for the given blank out of the four alternatives.

These people remind me of a harmony that exists with the natural world. They know their environment in a (1) _____ that can only be acquired (2) _____ living on equal footing with the natural world, not in (3) _____ through a recognition that humans are dependent (4) _____ our surroundings, something those of us who live in towns and cities too (5) _____ forget.

SubQuestion No : 23

Q.23 Select the most appropriate option to fill in blank number 3.

Ans

✓ 1. domination

✗ 2. corporation

✗ 3. opposition

✗ 4. collection

Question Type : **MCQ**
Question ID : **264330135189**
Option 1 ID : **264330529684**
Option 2 ID : **264330529686**
Option 3 ID : **264330529685**
Option 4 ID : **264330529683**
Status : **Answered**
Chosen Option : **3**

Join Telegram Group "HaryanaJobs.in"

Comprehension:

In the following passage some of the words have been deleted. Read the passage carefully and select the correct answer for the given blank out of the four alternatives.

These people remind me of a harmony that exists with the natural world. They know their environment in a (1) _____ that can only be acquired (2) _____ living on equal footing with the natural world, not in (3) _____ through a recognition that humans are dependent (4) _____ our surroundings, something those of us who live in towns and cities too (5) _____ forget.

SubQuestion No : 24

Q.24 Select the most appropriate option to fill in blank number 4.

Ans

✗ 1. to

✗ 2. of

✓ 3. on

✗ 4. in

Question Type : **MCQ**
Question ID : **264330135190**
Option 1 ID : **264330529690**
Option 2 ID : **264330529687**
Option 3 ID : **264330529688**
Option 4 ID : **264330529689**
Status : **Answered**
Chosen Option : **3**

Comprehension:

In the following passage some of the words have been deleted. Read the passage carefully and select the correct answer for the given blank out of the four alternatives.

These people remind me of a harmony that exists with the natural world. They know their environment in a (1) _____ that can only be acquired (2) _____ living on equal footing with the natural world, not in (3) _____ through a recognition that humans are dependent (4) _____ our surroundings, something those of us who live in towns and cities too (5) _____ forget.

SubQuestion No : 25

Q.25 Select the most appropriate option to fill in blank number 5.

Ans

✗ 1. marginally

✗ 2. highly

✓ 3. easily

✗ 4. equally

Question Type : **MCQ**
Question ID : **264330135191**
Option 1 ID : **264330529693**
Option 2 ID : **264330529692**
Option 3 ID : **264330529694**
Option 4 ID : **264330529691**
Status : **Answered**
Chosen Option : **3**

Join Telegram Group "HaryanaJobs.in"

Multi Tasking Non Technical Staff and Havaldar CBIC and CBN Examination 2022

Roll Number	HaryanaJobs.in
Candidate Name	HaryanaJobs.in
Venue Name	Bihar Digital World
Exam Date	11/05/2023
Exam Time	12:00 PM - 2:00 PM
Subject	MTS Non Tech Havaldar CBIC and CBN Examination 2022

Section : **Numerical and Mathematical Ability**

Q.1 65 cm त्रिज्या वाले गोले का आयतन क्या होगा? (लगभग)

Ans

✔ 1. $1.15 \times 10^6\ cm^3$

✘ 2. $6 \times 10^6\ cm^3$

✘ 3. $4.5 \times 10^6\ cm^3$

✘ 4. $2 \times 10^6\ cm^3$

Question Type : **MCQ**
Question ID : **264330135106**
Option 1 ID : **264330529359**
Option 2 ID : **264330529362**
Option 3 ID : **264330529360**
Option 4 ID : **264330529361**
Status : **Answered**
Chosen Option : **1**

Join Telegram Group "HaryanaJobs.in"

Q.2 निम्न तालिका में एक कंपनी के 5 साझेदारों (partners) की वर्तमान साझेदारी (present share) को दर्शाया गया है।

यदि कंपनी ने अपने पाँच साझेदारों के बीच अपने 100000 शेयर वितरित किए हैं और राजू अपने 15200 शेयर रमेश को बेच देता है, तो रमेश के पास कितने शेयर होंगे?

Partners	Present Share (in %)
Bala	5
Shankar	15
Raju	45
Ramesh	25
Pradeep	10

Partners- साझेदार, Present share (in %)- वर्तमान साझेदारी (% में), Raju- राजू, Ramesh- रमेश
Bala- बाला, Shankar- शंकर, Pradeep- प्रदीप

Ans
✗ 1. 45000
✗ 2. 25000
✓ 3. 40200
✗ 4. 29800

Question Type : **MCQ**
Question ID : **264330133811**
Option 1 ID : **264330524269**
Option 2 ID : **264330524267**
Option 3 ID : **264330524270**
Option 4 ID : **264330524268**
Status : **Answered**
Chosen Option : **3**

Q.3 A और B ने क्रमशः Rs.15000 और Rs.30000 के साथ एक व्यवसाय शुरू किया। यदि A और B क्रमशः 1 : 5 के अनुपात में लाभ साझा करते हैं, तो A और B के लिए निवेश की समयावधि का क्रमशः अनुपात क्या है?

Ans
✗ 1. 2 : 7
✗ 2. 1 : 2
✓ 3. 2 : 5
✗ 4. 2 : 3

Question Type : **MCQ**
Question ID : **264330135052**
Option 1 ID : **264330529146**
Option 2 ID : **264330529145**
Option 3 ID : **264330529144**
Option 4 ID : **264330529143**
Status : **Answered**
Chosen Option : **3**

Join Telegram Group "HaryanaJobs.in"

Q.4 एक व्यक्ति ने साधारण ब्याज पर 6 प्रतिशत वार्षिक दर पर एक निश्चित धनराशि ऋण पर दी और 13 वर्षों में प्राप्त हुआ ब्याज, ऋण पर दी गई धनराशि से Rs. 220 कम है। ऋण पर दी गई धनराशि कितनी है?

Ans

✔ 1. Rs. 1000

✘ 2. Rs. 800

✘ 3. Rs. 600

✘ 4. Rs. 1200

Question Type : **MCQ**
Question ID : **264330137141**
Option 1 ID : **264330537208**
Option 2 ID : **264330537210**
Option 3 ID : **264330537207**
Option 4 ID : **264330537209**
Status : **Answered**
Chosen Option : **1**

Q.5 एक कूलर का क्रय मूल्य Rs. 4800 है। यदि लाभ प्रतिशत 26 प्रतिशत है, तो कूलर का विक्रय मूल्य क्या है?

Ans

✔ 1. Rs.6048

✘ 2. Rs.6248

✘ 3. Rs.5628

✘ 4. Rs.6640

Question Type : **MCQ**
Question ID : **264330137181**
Option 1 ID : **264330537368**
Option 2 ID : **264330537369**
Option 3 ID : **264330537367**
Option 4 ID : **264330537370**
Status : **Answered**
Chosen Option : **1**

Join Telegram Group "HaryanaJobs.in"

Q.6 नीचे दिए गए वृत्त आलेख में एक वर्ष में छः कंपनियों द्वारा बनाए गए ट्रकों की संख्या को दर्शाया गया है। इन सभी छः कंपनियों द्वारा बनाए गए कुल ट्रक 1440 हैं। इनमें से किसी एक विशिष्ट कंपनी द्वारा बनाए गए ट्रकों की संख्या को इन सभी छः कंपनियों द्वारा बनाए गए कुल ट्रकों की संख्या के संदर्भ में डिग्री के रूप में दर्शाया गया है।

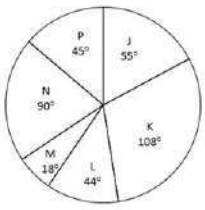

K और P द्वारा बनाए गए ट्रकों की औसत संख्या और J और M द्वारा बनाए गए ट्रकों की औसत संख्या के बीच कितना अंतर है?

Ans

✔ 1. 160

✘ 2. 176

✘ 3. 162

✘ 4. 190

Question Type : **MCQ**
Question ID : **264330135063**
Option 1 ID : **264330529188**
Option 2 ID : **264330529190**
Option 3 ID : **264330529187**
Option 4 ID : **264330529189**
Status : **Answered**
Chosen Option : **1**

Q.7 एक आदमी अकेले किसी कार्य को 16 दिनों में कर सकता है, लेकिन अपने मित्र की मदद से वह इसे 8 दिनों में कर सकता है। उसका मित्र अकेले इस कार्य को कितने समय में कर सकता है?

Ans

✘ 1. 14 दिन

✘ 2. 10 दिन

✔ 3. 16 दिन

✘ 4. 12 दिन

Question Type : **MCQ**
Question ID : **264330138361**
Option 1 ID : **264330542053**
Option 2 ID : **264330542051**
Option 3 ID : **264330542054**
Option 4 ID : **264330542052**
Status : **Answered**
Chosen Option : **3**

Join Telegram Group "HaryanaJobs.in"

Q.8 $\frac{196}{7} \div \frac{35}{12}$ of $\frac{132}{55} \times \frac{45}{20}$ का मान क्या है?

Ans
1. 45
2. 4
3. 36
4. 9 ✔

Question Type : **MCQ**
Question ID : **264330137681**
Option 1 ID : **264330539334**
Option 2 ID : **264330539331**
Option 3 ID : **264330539333**
Option 4 ID : **264330539332**
Status : **Answered**
Chosen Option : **4**

Q.9 यदि A, B से 6 गुना अधिक है, तो B, A से कितने प्रतिशत कम है?

Ans
1. 85.71 प्रतिशत ✔
2. 28.56 प्रतिशत
3. 33.33 प्रतिशत
4. 14.28 प्रतिशत

Question Type : **MCQ**
Question ID : **264330137136**
Option 1 ID : **264330537188**
Option 2 ID : **264330537189**
Option 3 ID : **264330537187**
Option 4 ID : **264330537190**
Status : **Answered**
Chosen Option : **1**

Q.10 0.005 × [(0.08 ÷ 0.002) - (0.012 ÷ 0.04)] ÷ 0.01 का मान है:

Ans
1. 0.985
2. 19.85 ✔
3. 0.01985
4. 0.1985

Question Type : **MCQ**
Question ID : **264330133797**
Option 1 ID : **264330524214**
Option 2 ID : **264330524211**
Option 3 ID : **264330524212**
Option 4 ID : **264330524213**
Status : **Answered**
Chosen Option : **2**

Join Telegram Group "HaryanaJobs.in"

Q.11 एक कार A से B तक 44 Km/hr की चाल से यात्रा करती है और B से A तक 66 Km/hr की चाल से वापस आती है। पूरी यात्रा के दौरान उसकी औसत चाल ज्ञात कीजिए।

Ans

1. ✗ 68.2 Km/hr
2. ✗ 63.3 Km/hr
3. ✓ 52.8 Km/hr
4. ✗ 55.4 Km/hr

Question Type : **MCQ**
Question ID : **264330135395**
Option 1 ID : **264330530490**
Option 2 ID : **264330530487**
Option 3 ID : **264330530489**
Option 4 ID : **264330530488**
Status : **Answered**
Chosen Option : **3**

Q.12 एक कुर्सी का अंकित मूल्य उसके क्रय मूल्य से 10 प्रतिशत अधिक है। यदि कुर्सी को Rs.140 के बट्टे के पश्चात Rs.300 में बेचा जाता है, तो हानि प्रतिशत क्या होगा?

Ans

1. ✗ 12.5 प्रतिशत
2. ✗ 17 प्रतिशत
3. ✓ 25 प्रतिशत
4. ✗ 20 प्रतिशत

Question Type : **MCQ**
Question ID : **264330135055**
Option 1 ID : **264330529157**
Option 2 ID : **264330529158**
Option 3 ID : **264330529156**
Option 4 ID : **264330529155**
Status : **Answered**
Chosen Option : **3**

Q.13 यदि (3x + y) : (3x - y) = 4 : 3, तो x : y का मान क्या है?

Ans

1. ✓ 7 : 3
2. ✗ 7 : 4
3. ✗ 5 : 2
4. ✗ 5 : 3

Question Type : **MCQ**
Question ID : **264330135051**
Option 1 ID : **264330529139**
Option 2 ID : **264330529141**
Option 3 ID : **264330529142**
Option 4 ID : **264330529140**
Status : **Answered**
Chosen Option : **1**

Join Telegram Group "HaryanaJobs.in"

Q.14 एक मिश्रण में दूध और पानी का अनुपात 9:5 है। जब इस मिश्रण में 6 लीटर पानी मिला दिया जाता है, तो दूध और पानी का अनुपात 9:7 हो जाता है। मिश्रण में दूध की मात्रा ज्ञात कीजिए।

Ans

1. ✗ 15 लीटर
2. ✗ 30 लीटर
3. ✓ 27 लीटर
4. ✗ 18 लीटर

Question Type : **MCQ**
Question ID : **264330135394**
Option 1 ID : **264330530484**
Option 2 ID : **264330530483**
Option 3 ID : **264330530486**
Option 4 ID : **264330530485**
Status : **Answered**
Chosen Option : **3**

Q.15 एक आदमी एक निश्चित दूरी का आधा भाग 60 km/hr की चाल से तय करता है। वह शेष दूरी का 40 प्रतिशत भाग 12 km/hr की चाल से और शेष दूरी 18 km/hr की चाल से तय करता है। पूरी यात्रा के दौरान उसकी औसत चाल क्या है?

Ans

1. ✗ 58/3 km/hr
2. ✓ 24 km/hr
3. ✗ 40 km/hr
4. ✗ 36 km/hr

Question Type : **MCQ**
Question ID : **264330135044**
Option 1 ID : **264330529114**
Option 2 ID : **264330529111**
Option 3 ID : **264330529113**
Option 4 ID : **264330529112**
Status : **Answered**
Chosen Option : **2**

Q.16 एक खेल के मैदान के चारों ओर एक वृत्ताकार पथ है। राहुल को मैदान का एक चक्कर लगाने में 15 मिनट लगते हैं, जबकि अनिल को इसमें 18 मिनट लगते हैं। मान लीजिए कि वे दोनों एक ही बिंदु से और एक ही समय पर शुरू करते हैं और एक ही दिशा में जाते हैं, तो कितने मिनट बाद वे फिर से प्रारंभिक बिंदु पर मिलेंगे?

Ans

1. ✗ 120 मिनट
2. ✓ 90 मिनट
3. ✗ 100 मिनट
4. ✗ 80 मिनट

Question Type : **MCQ**
Question ID : **264330135059**
Option 1 ID : **264330529172**
Option 2 ID : **264330529174**
Option 3 ID : **264330529173**
Option 4 ID : **264330529171**
Status : **Answered**
Chosen Option : **2**

Join Telegram Group "HaryanaJobs.in"

Q.17 एक शंकु का आधार व्यास 12 cm और ऊँचाई 21.7 cm है। उस शंकु का आयतन कितना है?

Ans
✗ 1. 548.6 cm^3
✗ 2. 626.3 cm^3
✓ 3. 818.4 cm^3
✗ 4. 334.5 cm^3

Question Type : **MCQ**
Question ID : **264330134100**
Option 1 ID : **264330525424**
Option 2 ID : **264330525423**
Option 3 ID : **264330525426**
Option 4 ID : **264330525425**
Status : **Answered**
Chosen Option : **3**

Q.18 एक आयत में, विकर्ण उसकी चौड़ाई का 4 गुना है। लंबाई और चौड़ाई का अनुपात है:

Ans
✗ 1. 1 : 5
✗ 2. 1 : $\sqrt{5}$
✗ 3. $\sqrt{5}$: 1
✓ 4. $\sqrt{15}$: 1

Question Type : **MCQ**
Question ID : **264330138365**
Option 1 ID : **264330542068**
Option 2 ID : **264330542067**
Option 3 ID : **264330542070**
Option 4 ID : **264330542069**
Status : **Answered**
Chosen Option : **4**

Q.19 एक धनराशि पर 12 प्रतिशत वार्षिक दर से 6 वर्षों के लिए साधारण ब्याज Rs. 28800 है। समान धनराशि पर 20 प्रतिशत वार्षिक दर से (वार्षिक रूप से संयोजित) 2 वर्षों के लिए चक्रवृद्धि ब्याज कितना होगा?

Ans
✗ 1. Rs. 19200
✓ 2. Rs. 17600
✗ 3. Rs. 12000
✗ 4. Rs. 14400

Question Type : **MCQ**
Question ID : **264330137164**
Option 1 ID : **264330537300**
Option 2 ID : **264330537299**
Option 3 ID : **264330537302**
Option 4 ID : **264330537301**
Status : **Answered**
Chosen Option : **2**

Join Telegram Group "HaryanaJobs.in"

Q.20 रिम्मी और सिम्मी मिलकर एक कार्य को 40 दिनों में पूरा कर सकती हैं। उन्होंने 30 दिनों तक साथ कार्य किया और फिर सिम्मी ने कार्य छोड़ दिया। 30 और दिनों के बाद रिम्मी ने शेष कार्य अकेले ही पूरा कर दिया। रिम्मी अकेले उस कार्य को कितने दिनों में पूरा कर सकती है?

Ans
1. 40 दिन
2. 30 दिन
3. 120 दिन
4. 80 दिन

Question Type : **MCQ**
Question ID : **264330134095**
Option 1 ID : **264330525404**
Option 2 ID : **264330525403**
Option 3 ID : **264330525406**
Option 4 ID : **264330525405**
Status : **Answered**
Chosen Option : **3**

Section : **Reasoning Ability and Problem Solving**

Q.1 दी गई श्रृंखला में निम्नलिखित में से कौन-सा अक्षर प्रश्न चिन्ह (?) के स्थान पर आएगा?
H, J, L, N, P, R, T, ?

Ans
1. T
2. M
3. V
4. R

Question Type : **MCQ**
Question ID : **264330134932**
Option 1 ID : **264330528664**
Option 2 ID : **264330528665**
Option 3 ID : **264330528663**
Option 4 ID : **264330528666**
Status : **Answered**
Chosen Option : **3**

Q.2 उस विकल्प को चुनिए जो छठी संख्या से ठीक उसी प्रकार संबंधित है जिस प्रकार पहली संख्या दूसरी संख्या से संबंधित है और तीसरी संख्या चौथी संख्या से संबंधित है।

12 : 132 :: 8 : 56 :: ? : 20

Ans
1. 5
2. 7
3. 6
4. 4

Question Type : **MCQ**
Question ID : **264330137101**
Option 1 ID : **264330537047**
Option 2 ID : **264330537050**
Option 3 ID : **264330537049**
Option 4 ID : **264330537048**
Status : **Answered**
Chosen Option : **1**

Join Telegram Group "HaryanaJobs.in"

Q.3 एक निश्चित कूट भाषा में, 'HANDLE' को 'FLENBH' लिखा जाता है। उस कूट भाषा में 'LOVELY' को कैसे लिखा जाएगा?

Ans
1. ZLVFPL
2. XLFVPL
3. ZLFVLP
4. ZLFVPL

Question Type : **MCQ**
Question ID : **264330135567**
Option 1 ID : **264330531170**
Option 2 ID : **264330531169**
Option 3 ID : **264330531167**
Option 4 ID : **264330531168**
Status : **Answered**
Chosen Option : **4**

Q.4 दी गई दो संख्याओं को आपस में बदलने पर, समीकरण (I) और (II) के क्रमशः मान क्या होंगे?

7 और 8

I. 5 × 7 + 6 ÷ 2 - 8

II. 8 + 3 × 7 - 5 ÷ 1

Ans
1. 36 और 26
2. 20 और 18
3. 20 और 19
4. 36 और 16

Question Type : **MCQ**
Question ID : **264330137126**
Option 1 ID : **264330537148**
Option 2 ID : **264330537150**
Option 3 ID : **264330537147**
Option 4 ID : **264330537149**
Status : **Answered**
Chosen Option : **1**

Join Telegram Group "HaryanaJobs.in"

Q.5 दो कथन दिए गए हैं और दो निष्कर्ष I और II दिए गए हैं। कथनों को सत्य मानते हुए, चाहे वे सामान्यतः ज्ञात तथ्यों से अलग प्रतीत होते हों, निश्चय कीजिए कि कौन-सा निष्कर्ष तार्किक रूप से कथनों के अनुसार है।

कथन:

सभी चूहे, सड़कें हैं।

सभी सड़कें, बैग हैं।

निष्कर्ष:

I. सभी बैग, चूहे हैं।

II. कुछ बैग, चूहे हैं।

Ans

✗ 1. दोनों निष्कर्ष I और II कथनों के अनुसार हैं।

✗ 2. न तो निष्कर्ष I और न ही II कथनों के अनुसार है।

✗ 3. केवल निष्कर्ष I कथनों के अनुसार है।

✓ 4. केवल निष्कर्ष II कथनों के अनुसार है।

Question Type : **MCQ**
Question ID : **264330134943**
Option 1 ID : **264330528709**
Option 2 ID : **264330528710**
Option 3 ID : **264330528707**
Option 4 ID : **264330528708**
Status : **Answered**
Chosen Option : **4**

Q.6 A, B, C, D और E एक पंक्ति में उत्तर की ओर मुख करके खड़े हैं। A किसी एक छोर पर खड़ा है। B और C एक दूसरे के आसन्न खड़े हैं। D बाएँ छोर से दूसरे स्थान पर खड़ा है। E, C के बाएँ से तीसरे स्थान पर खड़ा है। A के आसन्न कौन खड़ा है?

Ans

✓ 1. C

✗ 2. E

✗ 3. D

✗ 4. B

Question Type : **MCQ**
Question ID : **264330134940**
Option 1 ID : **264330528698**
Option 2 ID : **264330528695**
Option 3 ID : **264330528696**
Option 4 ID : **264330528697**
Status : **Answered**
Chosen Option : **1**

Q.7 एक निश्चित कूट भाषा में, 'BEAR' को '2519' और 'TURN' को '2395' लिखा जाता है। उस भाषा में 'SING' को कैसे लिखा जाएगा?

Ans

✓ 1. 1957

✗ 2. 1579

✗ 3. 1597

✗ 4. 1498

Question Type : **MCQ**
Question ID : **264330137857**
Option 1 ID : **264330540037**
Option 2 ID : **264330540035**
Option 3 ID : **264330540036**
Option 4 ID : **264330540038**
Status : **Answered**
Chosen Option : **3**

Join Telegram Group "HaryanaJobs.in"

Q.8 दी गई श्रृंखला में निम्नलिखित में से कौन-सी संख्या प्रश्न चिन्ह (?) के स्थान पर आएगी?
15, 23, 19, 20, 23, 17, 27, 14, 31, 11, ?

Ans
✔ 1. 35
✘ 2. 15
✘ 3. 19
✘ 4. 32

Question Type : **MCQ**
Question ID : **264330134946**
Option 1 ID : **264330528722**
Option 2 ID : **264330528719**
Option 3 ID : **264330528721**
Option 4 ID : **264330528720**
Status : **Answered**
Chosen Option : **1**

Q.9 उस विकल्प को चुनिए जो तीसरे अक्षर समूह से ठीक उसी प्रकार संबंधित है जिस प्रकार दूसरा अक्षर समूह पहले अक्षर समूह से संबंधित है।
DG : KN : : JM : ?

Ans
✘ 1. QS
✘ 2. RM
✔ 3. QT
✘ 4. ST

Question Type : **MCQ**
Question ID : **264330134934**
Option 1 ID : **264330528671**
Option 2 ID : **264330528672**
Option 3 ID : **264330528673**
Option 4 ID : **264330528674**
Status : **Answered**
Chosen Option : **3**

Q.10 उस विकल्प को चुनिए जो पाँचवें पद से ठीक उसी प्रकार संबंधित है जिस प्रकार दूसरा पद पहले पद से संबंधित है और चौथा पद तीसरे पद से संबंधित है।

RK46 : TJ51 :: PJ129 : RI134 :: SR53 : ?

Ans
✘ 1. VR58
✔ 2. UQ58
✘ 3. VS58
✘ 4. VQ58

Question Type : **MCQ**
Question ID : **264330138830**
Option 1 ID : **264330543930**
Option 2 ID : **264330543929**
Option 3 ID : **264330543928**
Option 4 ID : **264330543927**
Status : **Answered**
Chosen Option : **2**

Join Telegram Group "HaryanaJobs.in"

Q.11 निम्नलिखित प्रश्न में, दी गई श्रृंखला में लुप्त संख्या को चुनिए।

208, 104, 52, 26, ?, 6.5

Ans
1. 18
2. 24
3. 13
4. 20

Question Type : **MCQ**
Question ID : **264330137099**
Option 1 ID : **264330537039**
Option 2 ID : **264330537042**
Option 3 ID : **264330537040**
Option 4 ID : **264330537041**
Status : **Answered**
Chosen Option : **3**

Q.12 पाँच मित्र M, N, O, P और Q एक वृत्ताकार मेज पर केंद्र से बाहर की ओर मुख करके बैठे हैं। O, P के ठीक बाएँ पर बैठा है जो Q के दाएँ से तीसरे स्थान पर बैठा है। M, P के आसन्न नहीं बैठा है। P के ठीक दाएँ पर कौन बैठा है?

Ans
1. M
2. O
3. N
4. Q

Question Type : **MCQ**
Question ID : **264330134941**
Option 1 ID : **264330528700**
Option 2 ID : **264330528702**
Option 3 ID : **264330528699**
Option 4 ID : **264330528701**
Status : **Answered**
Chosen Option : **4**

Join Telegram Group "HaryanaJobs.in"

Q.13 तीन कथन दिए गए हैं और दो निष्कर्ष I और II दिए गए हैं। कथनों को सत्य मानते हुए, चाहे वे सामान्यतः ज्ञात तथ्यों से अलग प्रतीत होते हों, निश्चय कीजिए कि कौन-सा निष्कर्ष तार्किक रूप से कथनों के अनुसार है।

कथन:

कुछ फल, खरगोश हैं।

कोई खरगोश, लोमड़ी नहीं है।

सभी लोमड़ियाँ, गाय हैं।

निष्कर्ष:

I. कुछ गाय, फल हैं।

II. कुछ फल, लोमड़ियाँ हैं।

Ans

✗ 1. केवल निष्कर्ष I कथनों के अनुसार है।

✗ 2. दोनों निष्कर्ष I और II कथनों के अनुसार हैं।

✗ 3. केवल निष्कर्ष II कथनों के अनुसार है।

✓ 4. न तो निष्कर्ष I और न ही II कथनों के अनुसार है।

Question Type : **MCQ**
Question ID : **264330134944**
Option 1 ID : **264330528711**
Option 2 ID : **264330528713**
Option 3 ID : **264330528712**
Option 4 ID : **264330528714**
Status : **Answered**
Chosen Option : **4**

Join Telegram Group "HaryanaJobs.in"

Q.14 उस विकल्प आकृति को चुनिए जो नीचे दी गई आकृति में पैटर्न को पूरा करने के लिए प्रश्न चिन्ह (?) के स्थान पर आएगी। (घूर्णन की अनुमति नहीं है)

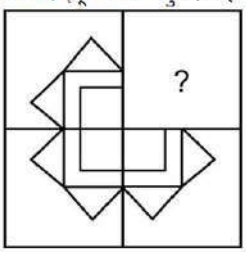

Ans

✗ 1.

✓ 2.

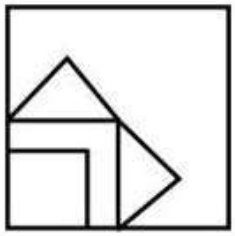

✗ 3.

✗ 4.

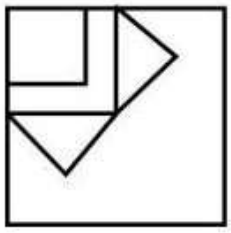

Question Type : **MCQ**
Question ID : **264330134953**
Option 1 ID : **264330528748**
Option 2 ID : **264330528750**
Option 3 ID : **264330528749**
Option 4 ID : **264330528747**
Status : **Answered**
Chosen Option : **2**

Join Telegram Group "HaryanaJobs.in"

Q.15 दिए गए समीकरण को सही करने के लिए किन दो संख्याओं को आपस में बदला जाना चाहिए?
8 × 4 − 3 + 57 ÷ 9 = 42

Ans
1. 8 और 4
2. 57 और 9
3. 3 और 9
4. 42 और 57

Question Type : **MCQ**
Question ID : **264330134949**
Option 1 ID : **264330528731**
Option 2 ID : **264330528733**
Option 3 ID : **264330528732**
Option 4 ID : **264330528734**
Status : **Answered**
Chosen Option : **3**

Q.16 एक निश्चित कूट भाषा में, 'SHORT' को '1' लिखा जाता है और 'THEME' को '2' लिखा जाता है। उस कूट भाषा में 'TRAIN' को कैसे लिखा जाएगा?

Ans
1. 4
2. 1
3. 2
4. 3

Question Type : **MCQ**
Question ID : **264330133489**
Option 1 ID : **264330522990**
Option 2 ID : **264330522989**
Option 3 ID : **264330522987**
Option 4 ID : **264330522988**
Status : **Answered**
Chosen Option : **3**

Join Telegram Group "HaryanaJobs.in"

Q.17 उस विकल्प आकृति को चुनिए जिसमें दी गई आकृति (X) उसके भाग के रूप में निहित है (घूर्णन की अनुमति नहीं है)।

(X)

Ans

✗ 1.

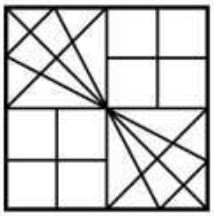

✓ 2.

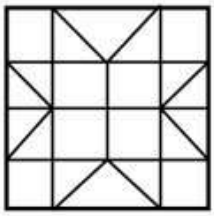

✗ 3.

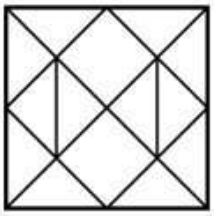

✗ 4.

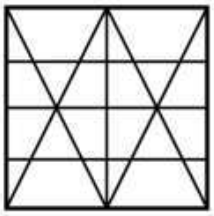

Question Type : **MCQ**
Question ID : **264330133523**
Option 1 ID : **264330523125**
Option 2 ID : **264330523126**
Option 3 ID : **264330523123**
Option 4 ID : **264330523124**
Status : **Answered**
Chosen Option : **2**

Join Telegram Group "HaryanaJobs.in"

Q.18 दी गई आकृति के उस सही दर्पण प्रतिबिंब को चुनिए, जो नीचे दर्शाए गए अनुसार दर्पण को MN पर रखने पर बनेगा।

TECHNICAL M N

Ans

✔ 1.

✘ 2.

✘ 3.

✘ 4.

Question Type : **MCQ**
Question ID : **264330133524**
Option 1 ID : **264330523127**
Option 2 ID : **264330523128**
Option 3 ID : **264330523129**
Option 4 ID : **264330523130**
Status : **Answered**
Chosen Option : **1**

Q.19 दिए गए पैटर्न का ध्यानपूर्वक अध्ययन कीजिए और उस संख्या को चुनिए जो इसमें प्रश्न चिन्ह (?) के स्थान पर आएगी।
पहली पंक्ति- 80, 40, 20
दूसरी पंक्ति- 112, 56, 28
तीसरी पंक्ति- 244, 122, ?

Ans

✔ 1. 61

✘ 2. 64

✘ 3. 78

✘ 4. 51

Question Type : **MCQ**
Question ID : **264330134948**
Option 1 ID : **264330528730**
Option 2 ID : **264330528728**
Option 3 ID : **264330528729**
Option 4 ID : **264330528727**
Status : **Answered**
Chosen Option : **1**

Q.20 सात लोगों A, B, C, D, E, F और G का कद अलग-अलग है। A चार व्यक्तियों से लंबा है। E का कद केवल एक व्यक्ति से कम है। कितने लोगों के कद, A और E के कद के बीच में हैं?

Ans

✘ 1. 2

✔ 2. 0

✘ 3. 1

✘ 4. 3

Question Type : **MCQ**
Question ID : **264330134942**
Option 1 ID : **264330528704**
Option 2 ID : **264330528706**
Option 3 ID : **264330528703**
Option 4 ID : **264330528705**
Status : **Answered**
Chosen Option : **2**

Join Telegram Group "HaryanaJobs.in"

Section : **General Awareness**

Q.1 2011 की जनगणना के अनुसार, भारत के निम्नलिखित केंद्र शासित प्रदेशों में से किस में प्रति वर्ग किलोमीटर जनसंख्या घनत्व सबसे कम है?

Ans

✗ 1. चंडीगढ़

✗ 2. दिल्ली

✗ 3. जम्मू और कश्मीर

✓ 4. अंडमान और निकोबार द्वीप समूह

Question Type : **MCQ**
Question ID : **264330133917**
Option 1 ID : **264330524692**
Option 2 ID : **264330524691**
Option 3 ID : **264330524694**
Option 4 ID : **264330524693**
Status : **Answered**
Chosen Option : **4**

Q.2 भारतीय उपमहाद्वीप का प्रथम उद्यान-मकबरा कौन-सा है?

Ans

✗ 1. औरंगजेब का मकबरा

✗ 2. ताजमहल

✓ 3. हुमायूँ का मकबरा

✗ 4. कुतुब शाही मकबरा

Question Type : **MCQ**
Question ID : **264330134596**
Option 1 ID : **264330527342**
Option 2 ID : **264330527341**
Option 3 ID : **264330527339**
Option 4 ID : **264330527340**
Status : **Answered**
Chosen Option : **4**

Q.3 हिमालय की अधिकांश नदियाँ किस प्रकार की हैं?

Ans

✓ 1. बारहमासी

✗ 2. मौसमी

✗ 3. विदेशज

✗ 4. घटनापरक

Question Type : **MCQ**
Question ID : **264330134612**
Option 1 ID : **264330527404**
Option 2 ID : **264330527403**
Option 3 ID : **264330527406**
Option 4 ID : **264330527405**
Status : **Answered**
Chosen Option : **1**

Join Telegram Group "HaryanaJobs.in"

Q.4 प्रथम फील्ड हैंडबॉल विश्व चैंपियनशिप जर्मनी में सन् _____ में खेली गई थी।

Ans
✗ 1. 1948
✗ 2. 1958
✗ 3. 1928
✓ 4. 1938

Question Type : **MCQ**
Question ID : **264330137015**
Option 1 ID : **264330536705**
Option 2 ID : **264330536706**
Option 3 ID : **264330536703**
Option 4 ID : **264330536704**
Status : **Not Answered**
Chosen Option : **--**

Q.5 बाजीराव प्रथम या बाजीराव बल्लाल _____ के पुत्र थे।

Ans
✗ 1. रघुनाथ राव
✓ 2. पेशवा बालाजी विश्वनाथ
✗ 3. माधवराव
✗ 4. शिवाजी

Question Type : **MCQ**
Question ID : **264330137033**
Option 1 ID : **264330536778**
Option 2 ID : **264330536777**
Option 3 ID : **264330536776**
Option 4 ID : **264330536775**
Status : **Answered**
Chosen Option : **2**

Q.6 निम्नलिखित में से कौन-सा कार्यक्रम सन् 1999 में शुरू किया गया था?

Ans
✗ 1. महात्मा गांधी राष्ट्रीय ग्रामीण रोजगार गारंटी योजना
✗ 2. ग्रामीण रोजगार सृजन कार्यक्रम
✓ 3. स्वर्णजयंती ग्राम स्वरोजगार योजना
✗ 4. प्रधानमंत्री ग्रामोदय योजना

Question Type : **MCQ**
Question ID : **264330134614**
Option 1 ID : **264330527411**
Option 2 ID : **264330527412**
Option 3 ID : **264330527413**
Option 4 ID : **264330527414**
Status : **Answered**
Chosen Option : **3**

Join Telegram Group "HaryanaJobs.in"

Q.7 ताप मापने के लिए किस युक्ति (device) का प्रयोग किया जाता है?

Ans
1. ऐमीटर
2. बैरोमीटर
3. मैनोमीटर
4. थर्मामीटर

Question Type : **MCQ**
Question ID : **264330137027**
Option 1 ID : **264330536753**
Option 2 ID : **264330536752**
Option 3 ID : **264330536754**
Option 4 ID : **264330536751**
Status : **Answered**
Chosen Option : **4**

Q.8 निम्नलिखित में से कौन-सी पुस्तक मिल्खा सिंह की आत्मकथा है?

Ans
1. रोमांसिंग माई लाइफ (Romancing My Life)
2. टू लाइव्स (Two Lives)
3. द रेस ऑफ माई लाइफ (The Race of My Life)
4. टच प्ले (Touch Play)

Question Type : **MCQ**
Question ID : **264330135451**
Option 1 ID : **264330530711**
Option 2 ID : **264330530714**
Option 3 ID : **264330530712**
Option 4 ID : **264330530713**
Status : **Answered**
Chosen Option : **3**

Q.9 उलट रेपो दर (Reverse Repo Rate) का अर्थ क्या है?

Ans
1. वह दर जिस पर आरबीआई (RBI) विदेशी बैंकों से ऋण लेती है
2. वह दर जिस पर व्यावसायिक बैंक आरबीआई (RBI) से ऋण लेते हैं
3. वह दर जिस पर व्यावसायिक बैंक विदेशी बैंकों से ऋण लेते हैं
4. वह दर जिस पर आरबीआई (RBI) व्यावसायिक बैंकों से ऋण लेती है

Question Type : **MCQ**
Question ID : **264330135458**
Option 1 ID : **264330530742**
Option 2 ID : **264330530739**
Option 3 ID : **264330530741**
Option 4 ID : **264330530740**
Status : **Answered**
Chosen Option : **4**

Join Telegram Group "HaryanaJobs.in"

Q.10 निम्नलिखित में से किस गुप्त राजा ने नालंदा विश्वविद्यालय की स्थापना की थी?

Ans
1. स्कन्दगुप्त
2. चंद्रगुप्त द्वितीय
3. चंद्रगुप्त प्रथम
4. कुमारगुप्त प्रथम

Question Type : **MCQ**
Question ID : **264330133994**
Option 1 ID : **264330525000**
Option 2 ID : **264330525001**
Option 3 ID : **264330524999**
Option 4 ID : **264330525002**
Status : **Answered**
Chosen Option : **4**

Q.11 ऐसी कोशिकाएँ जिनमें केन्द्रक पदार्थ केन्द्रक झिल्ली के बिना होता है _____ कहलाती हैं।

Ans
1. गाल की कोशिकाएँ
2. प्रोकैरियोटिक कोशिकाएँ
3. प्याज की कोशिकाएँ
4. यूकैरियोटिक कोशिकाएँ

Question Type : **MCQ**
Question ID : **264330137025**
Option 1 ID : **264330536746**
Option 2 ID : **264330536743**
Option 3 ID : **264330536745**
Option 4 ID : **264330536744**
Status : **Answered**
Chosen Option : **2**

Q.12 महासागर की पर्पटी मुख्यतः _____ एवं _____ की बनी है।

Ans
1. आयरन, एलुमिना
2. सिलिका, मैग्नीशियम
3. मैग्नीशियम, एलुमिना
4. सिलिका, एलुमिना

Question Type : **MCQ**
Question ID : **264330137026**
Option 1 ID : **264330536750**
Option 2 ID : **264330536749**
Option 3 ID : **264330536748**
Option 4 ID : **264330536747**
Status : **Answered**
Chosen Option : **4**

Join Telegram Group "HaryanaJobs.in"

Q.13 टुसू (Tusu) झारखंड में सर्दियों में फसल कटाई के अवसर पर _____ माह के अंतिम दिन पर मनाया जाने वाला एक उत्सव है।

Ans
1. फाल्गुन ✗
2. पौष ✓
3. माघ ✗
4. चैत्र ✗

Question Type : **MCQ**
Question ID : **264330133984**
Option 1 ID : **264330524961**
Option 2 ID : **264330524959**
Option 3 ID : **264330524960**
Option 4 ID : **264330524962**
Status : **Answered**
Chosen Option : **2**

Q.14 ज्योतिबा फुले ने _____ में सत्यशोधक समाज (सत्य साधक समाज (Truth Seekers' Society)) की स्थापना की।

Ans
1. 1898 ✗
2. 1873 ✓
3. 1865 ✗
4. 1852 ✗

Question Type : **MCQ**
Question ID : **264330133997**
Option 1 ID : **264330525012**
Option 2 ID : **264330525014**
Option 3 ID : **264330525011**
Option 4 ID : **264330525013**
Status : **Answered**
Chosen Option : **3**

Q.15 1813 के चार्टर अधिनियम ने भारत में ईस्ट इंडिया कंपनी के शासन को अगले _____ वर्षों तक के लिए बढ़ा दिया था।

Ans
1. 20 ✓
2. 5 ✗
3. 15 ✗
4. 10 ✗

Question Type : **MCQ**
Question ID : **264330137051**
Option 1 ID : **264330536850**
Option 2 ID : **264330536848**
Option 3 ID : **264330536849**
Option 4 ID : **264330536847**
Status : **Answered**
Chosen Option : **1**

Join Telegram Group "HaryanaJobs.in"

Q.16 _____ में बाघ नदी के तट पर स्थित बाघ गुफाएँ (Bagh Caves), जिसमें 9 बौद्ध गुफाएँ हैं,6वीं शताब्दी में विकसित की गई थीं।

Ans
1. महाराष्ट्र ✗
2. मध्यप्रदेश ✓
3. उत्तरप्रदेश ✗
4. गुजरात ✗

Question Type : **MCQ**
Question ID : **264330137040**
Option 1 ID : **264330536805**
Option 2 ID : **264330536803**
Option 3 ID : **264330536804**
Option 4 ID : **264330536806**
Status : **Answered**
Chosen Option : **2**

Q.17 भारत में 'द मोजार्ट ऑफ मद्रास (the Mozart of the Madras)' के नाम से किसे जाना जाता है?

Ans
1. उदित नारायण ✗
2. अरिजीत सिंह ✗
3. एस. पी. बालासुब्रमण्यम ✗
4. ए.आर. रहमान ✓

Question Type : **MCQ**
Question ID : **264330134600**
Option 1 ID : **264330527357**
Option 2 ID : **264330527356**
Option 3 ID : **264330527358**
Option 4 ID : **264330527355**
Status : **Answered**
Chosen Option : **3**

Q.18 पानीपत का तीसरा युद्ध सन् _____ में लड़ा गया था।

Ans
1. 1556 ✗
2. 1526 ✗
3. 1651 ✗
4. 1761 ✓

Question Type : **MCQ**
Question ID : **264330134616**
Option 1 ID : **264330527419**
Option 2 ID : **264330527421**
Option 3 ID : **264330527422**
Option 4 ID : **264330527420**
Status : **Answered**
Chosen Option : **4**

Join Telegram Group "HaryanaJobs.in"

Q.19 If we sum the gross value added of all the firms of the economy in a year, we get a measure of the value of aggregate amount of goods and services produced by the economy in a year. Such an estimate is called _____.

Ans

✗ 1. Net national product

✓ 2. Gross domestic product

✗ 3. Net value added

✗ 4. National income at factor price

Question Type : **MCQ**
Question ID : **264330134604**
Option 1 ID : **264330527373**
Option 2 ID : **264330527372**
Option 3 ID : **264330527374**
Option 4 ID : **264330527371**
Status : **Answered**
Chosen Option : **2**

Q.20 राजगृह किस महाजनपद की प्रथम राजधानी थी?

Ans

✗ 1. अवंती

✗ 2. कोसल

✗ 3. कुरु

✓ 4. मगध

Question Type : **MCQ**
Question ID : **264330134615**
Option 1 ID : **264330527417**
Option 2 ID : **264330527415**
Option 3 ID : **264330527416**
Option 4 ID : **264330527418**
Status : **Answered**
Chosen Option : **4**

Q.21 बीमा (संशोधन) अधिनियम, 2021 उस प्रावधान को समाप्त कर देता है जिसके तहत केंद्र सरकार को जनरल इंशोरेंस कंपनी की चार सहायक कंपनियों, अर्थात् नेशनल इंशोरेंस, न्यू इंडिया एश्योरेंस, ओरिएंटल इंश्योरेंस, यूनाइटेड इंडिया इंश्योरेंस में कम से कम _____ स्वामित्व की आवश्यकता होती थी।

Ans

✗ 1. 49%

✗ 2. 75%

✓ 3. 51%

✗ 4. 80%

Question Type : **MCQ**
Question ID : **264330137037**
Option 1 ID : **264330536792**
Option 2 ID : **264330536794**
Option 3 ID : **264330536793**
Option 4 ID : **264330536791**
Status : **Answered**
Chosen Option : **1**

Join Telegram Group "HaryanaJobs.in"

Q.22 किस प्रकार की बेरोजगारी में व्यक्ति अपनी क्षमता से कम योगदान देता है?

Ans
1. प्रतिरोधात्मक बेरोज़गारी
2. चक्रीय बेरोज़गारी
3. अनिवार्य बेरोज़गारी
4. प्रच्छन्न बेरोज़गारी

Question Type : **MCQ**
Question ID : **264330137773**
Option 1 ID : **264330539701**
Option 2 ID : **264330539699**
Option 3 ID : **264330539702**
Option 4 ID : **264330539700**
Status : **Answered**
Chosen Option : **4**

Q.23 पंडित बिरजू महाराज को शास्त्रीय नृत्य की किस शैली के लिए पद्म विभूषण पुरस्कार से सम्मानित किया गया था?

Ans
1. मणिपुरी
2. मोहिनीअट्टम
3. कथक
4. झूमर

Question Type : **MCQ**
Question ID : **264330135453**
Option 1 ID : **264330530720**
Option 2 ID : **264330530719**
Option 3 ID : **264330530722**
Option 4 ID : **264330530721**
Status : **Answered**
Chosen Option : **3**

Q.24 कथकली ने _____ के संरक्षण में सत्रहवीं शताब्दी में दक्षिण भारत में आकार लिया था।

Ans
1. कर्नाटक के राजकुमार
2. तमिलनाडु के राजकुमार
3. पंजाब के राजकुमार
4. बंगाल के राजकुमार

Question Type : **MCQ**
Question ID : **264330134594**
Option 1 ID : **264330527331**
Option 2 ID : **264330527332**
Option 3 ID : **264330527333**
Option 4 ID : **264330527334**
Status : **Answered**
Chosen Option : **1**

Join Telegram Group "HaryanaJobs.in"

Q.25 कौन-सा देश चावल का सबसे बड़ा उत्पादक है?

Ans
1. ब्राज़ील ✗
2. चीन ✓
3. रूस ✗
4. बांग्लादेश ✗

Question Type : **MCQ**
Question ID : **264330135443**
Option 1 ID : **264330530680**
Option 2 ID : **264330530679**
Option 3 ID : **264330530681**
Option 4 ID : **264330530682**
Status : **Answered**
Chosen Option : **2**

Section : **English Language and Comprehension**

Q.1 Identify the segment that contains a grammatical error. If there is no error, select 'No error'

She's considered one/ of a best young/ directors in Hollywood.

Ans
1. directors in Hollywood. ✗
2. No error ✗
3. She's considered one ✗
4. of a best young ✓

Question Type : **MCQ**
Question ID : **264330136214**
Option 1 ID : **264330533649**
Option 2 ID : **264330533650**
Option 3 ID : **264330533647**
Option 4 ID : **264330533648**
Status : **Answered**
Chosen Option : **4**

Q.2 Choose the incorrectly spelt word.

Ans
1. Plus ✗
2. Moking ✓
3. Worry ✗
4. Dearest ✗

Question Type : **MCQ**
Question ID : **264330134741**
Option 1 ID : **264330527915**
Option 2 ID : **264330527916**
Option 3 ID : **264330527917**
Option 4 ID : **264330527918**
Status : **Answered**
Chosen Option : **2**

Join Telegram Group "HaryanaJobs.in"

Q.3 Select the appropriate synonym for the underlined word.

Paul Bunyan is considered a legend.

Ans
✗ 1. spinster
✗ 2. volunteer
✗ 3. stoic
✓ 4. tradition

Question Type : **MCQ**
Question ID : **264330134735**
Option 1 ID : **264330527892**
Option 2 ID : **264330527893**
Option 3 ID : **264330527891**
Option 4 ID : **264330527894**
Status : **Answered**
Chosen Option : **4**

Q.4 **A sentence has been given with a blank to be filled with an appropriate option. Choose the correct alternative.**
_____ months later, Steve returned to New York to look for a job.

Ans
✗ 1. The few
✗ 2. Few
✗ 3. A little
✓ 4. A few

Question Type : **MCQ**
Question ID : **264330134483**
Option 1 ID : **264330526901**
Option 2 ID : **264330526899**
Option 3 ID : **264330526902**
Option 4 ID : **264330526900**
Status : **Answered**
Chosen Option : **4**

Q.5 **Choose the sentence with no spelling error.**

Ans
✗ 1. Your emergency contacts coldn't be reaced.
✓ 2. Your emergency contacts couldn't be reached.
✗ 3. Your emergancy contacts couldn't be reached.
✗ 4. Your emergency contatcs couldn't be reached.

Question Type : **MCQ**
Question ID : **264330134473**
Option 1 ID : **264330526861**
Option 2 ID : **264330526860**
Option 3 ID : **264330526859**
Option 4 ID : **264330526862**
Status : **Answered**
Chosen Option : **2**

Join Telegram Group "HaryanaJobs.in"

Q.6 In the following question, out of the given four alternatives, select the alternative which best expresses the meaning of the Idiom/Phrase.

To see the light

Ans

✗ 1. To misunderstand the situation

✗ 2. To gain conscious

✓ 3. Suddenly realize or understand something

✗ 4. To be optimistic

Question Type : **MCQ**
Question ID : **264330134740**
Option 1 ID : **264330527912**
Option 2 ID : **264330527914**
Option 3 ID : **264330527913**
Option 4 ID : **264330527911**
Status : **Answered**
Chosen Option : **4**

Q.7 Select the most appropriate option to substitute the bracketed segment in the given sentence. If there is no need to substitute it, select 'no substitution required'.

(Hardly did the ink dried on my weekly column, when) one of my readers called me.

Ans

✗ 1. No substitution required

✓ 2. Hardly had the ink dried on last week's column, when

✗ 3. Hardly had the ink dry on last week's column, when

✗ 4. Hardly did the ink dried on last week's column, when

Question Type : **MCQ**
Question ID : **264330136217**
Option 1 ID : **264330533662**
Option 2 ID : **264330533661**
Option 3 ID : **264330533660**
Option 4 ID : **264330533659**
Status : **Answered**
Chosen Option : **2**

Q.8 Select the most appropriate option to fill in the blank.

The sedative effect of the drugs impairs people's ability to pay attention and _____.

Ans

✗ 1. dilate

✗ 2. segregate

✗ 3. reverberate

✓ 4. concentrate

Question Type : **MCQ**
Question ID : **264330134744**
Option 1 ID : **264330527928**
Option 2 ID : **264330527927**
Option 3 ID : **264330527930**
Option 4 ID : **264330527929**
Status : **Answered**
Chosen Option : **4**

Join Telegram Group "HaryanaJobs.in"

Q.9 **Find the part of the given sentence that has an error in it. If there is no error, choose 'No error'.**
One-to-one interaction with parents is know to be important.

Ans
✗ 1. One-to-one interaction
✗ 2. to be important.
✗ 3. No error
✓ 4. with parents is know

Question Type : **MCQ**
Question ID : **264330134529**
Option 1 ID : **264330527075**
Option 2 ID : **264330527077**
Option 3 ID : **264330527078**
Option 4 ID : **264330527076**
Status : **Answered**
Chosen Option : **4**

Q.10 A sentence has been given with a blank to be filled with an appropriate option. Choose the correct alternative.

She kept pictures of her parents all _____ the house.

Ans
✗ 1. out
✗ 2. through
✓ 3. over
✗ 4. about

Question Type : **MCQ**
Question ID : **264330134725**
Option 1 ID : **264330527856**
Option 2 ID : **264330527857**
Option 3 ID : **264330527858**
Option 4 ID : **264330527855**
Status : **Answered**
Chosen Option : **3**

Q.11 **Select the most appropriate option to fill in the blank.**
I am going to take you for a _____ up there.

Ans
✗ 1. rite
✗ 2. right
✓ 3. ride
✗ 4. write

Question Type : **MCQ**
Question ID : **264330134474**
Option 1 ID : **264330526865**
Option 2 ID : **264330526866**
Option 3 ID : **264330526864**
Option 4 ID : **264330526863**
Status : **Answered**
Chosen Option : **3**

Join Telegram Group "HaryanaJobs.in"

Q.12 Improve the underlined part of the sentence. Choose 'No improvement' as an answer if the sentence is grammatically correct.

The accountant of the sugar mill have been deprived of his briefcase.

Ans

1. is deprive
2. has been deprived
3. was being deprived
4. No improvement

Question Type : **MCQ**
Question ID : **264330134750**
Option 1 ID : **264330527952**
Option 2 ID : **264330527951**
Option 3 ID : **264330527953**
Option 4 ID : **264330527954**
Status : **Answered**
Chosen Option : **2**

Q.13 Choose the word that is opposite in meaning to the given word.

Awful

Ans

1. Wonderful
2. Dreadful
3. Pitiful
4. Grim

Question Type : **MCQ**
Question ID : **264330135326**
Option 1 ID : **264330530212**
Option 2 ID : **264330530211**
Option 3 ID : **264330530214**
Option 4 ID : **264330530213**
Status : **Answered**
Chosen Option : **1**

Q.14 **Improve the underlined part of the sentence. Choose 'No improvement' as an answer if the sentence is grammatically correct.**
My history assignment is due on Wednesday.

Ans

1. were due on
2. No improvement
3. is dues in
4. are due at

Question Type : **MCQ**
Question ID : **264330134427**
Option 1 ID : **264330526684**
Option 2 ID : **264330526686**
Option 3 ID : **264330526685**
Option 4 ID : **264330526683**
Status : **Answered**
Chosen Option : **2**

Join Telegram Group "HaryanaJobs.in"

Q.15 **Choose the word that means the same as the given word.**
Inquisitive

Ans
✗ 1. Callous
✗ 2. Agile
✗ 3. Aloof
✓ 4. Curious

Question Type : **MCQ**
Question ID : **264330134493**
Option 1 ID : **264330526938**
Option 2 ID : **264330526935**
Option 3 ID : **264330526936**
Option 4 ID : **264330526937**
Status : **Answered**
Chosen Option : **4**

Q.16 In the following question, out of the given four alternatives, select the alternative which best expresses the meaning of the Idiom/Phrase.

From rags to riches

Ans
✗ 1. Reasonable pricing
✗ 2. From everywhere
✗ 3. To toil very hard to gain something
✓ 4. From extreme poverty to wealth

Question Type : **MCQ**
Question ID : **264330135302**
Option 1 ID : **264330530121**
Option 2 ID : **264330530119**
Option 3 ID : **264330530122**
Option 4 ID : **264330530120**
Status : **Answered**
Chosen Option : **4**

Q.17 Choose the word that can substitute the given group of words.

One hard to please (very selective in his habits)

Ans
✗ 1. Incorrigible
✗ 2. Dexterous
✗ 3. Sadist
✓ 4. Fastidious

Question Type : **MCQ**
Question ID : **264330134734**
Option 1 ID : **264330527887**
Option 2 ID : **264330527888**
Option 3 ID : **264330527889**
Option 4 ID : **264330527890**
Status : **Answered**
Chosen Option : **4**

Join Telegram Group "HaryanaJobs.in"

Q.18 Choose the word that can substitute the given group of words.

A residence for monks or priests

Ans
1. Nursery ✗
2. Monastery ✓
3. Convent ✗
4. Tomb ✗

Question Type : **MCQ**
Question ID : **264330135296**
Option 1 ID : **264330530095**
Option 2 ID : **264330530096**
Option 3 ID : **264330530097**
Option 4 ID : **264330530098**
Status : **Answered**
Chosen Option : **2**

Q.19 Find the part of the given sentence that has an error in it. If there is no error, choose 'No error'.

Many female mammals, including rabbits and cats, ovulate only when they mate.

Ans
1. Many female mammals, ✗
2. No error ✓
3. including rabbits and cats, ovulate ✗
4. only when they mate. ✗

Question Type : **MCQ**
Question ID : **264330134721**
Option 1 ID : **264330527839**
Option 2 ID : **264330527842**
Option 3 ID : **264330527840**
Option 4 ID : **264330527841**
Status : **Not Answered**
Chosen Option : **--**

Q.20 Select the appropriate antonym for the underlined word.

The tension is going to be <u>crucial</u> in determining the fate of your company.

Ans
1. decisive ✗
2. surgical ✗
3. trivial ✓
4. pivotal ✗

Question Type : **MCQ**
Question ID : **264330134738**
Option 1 ID : **264330527904**
Option 2 ID : **264330527906**
Option 3 ID : **264330527905**
Option 4 ID : **264330527903**
Status : **Answered**
Chosen Option : **3**

Join Telegram Group "HaryanaJobs.in"

Comprehension:

In the following passage some of the words have been deleted. Read the passage carefully and select the correct answer for the given blank out of the four alternatives.

Red kites were considered vermin across Britain and Ireland (1) _____ the 16th century and their numbers were rigorously (2) _____. While public perceptions have changed, gamekeepers and farmers still (3) _____ shoot, poison and trap red kites for the (4) _____ harm they cause to livestock and game. In 2020 alone, 20 red kites were confirmed to have been (5) _____ this way in the UK.

SubQuestion No : 21

Q.21 Select the most appropriate option to fill in blank number 1.

Ans

✗ 1. while

✗ 2. along

✓ 3. during

✗ 4. across

Question Type : **MCQ**
Question ID : **264330135317**
Option 1 ID : **264330530178**
Option 2 ID : **264330530175**
Option 3 ID : **264330530176**
Option 4 ID : **264330530177**
Status : **Answered**
Chosen Option : **3**

Comprehension:

In the following passage some of the words have been deleted. Read the passage carefully and select the correct answer for the given blank out of the four alternatives.

Red kites were considered vermin across Britain and Ireland (1) _____ the 16th century and their numbers were rigorously (2) _____. While public perceptions have changed, gamekeepers and farmers still (3) _____ shoot, poison and trap red kites for the (4) _____ harm they cause to livestock and game. In 2020 alone, 20 red kites were confirmed to have been (5) _____ this way in the UK.

SubQuestion No : 22

Q.22 Select the most appropriate option to fill in blank number 2.

Ans

✗ 1. loosened

✓ 2. controlled

✗ 3. changed

✗ 4. choked

Question Type : **MCQ**
Question ID : **264330135318**
Option 1 ID : **264330530182**
Option 2 ID : **264330530179**
Option 3 ID : **264330530180**
Option 4 ID : **264330530181**
Status : **Answered**
Chosen Option : **2**

Join Telegram Group "HaryanaJobs.in"

Comprehension:

In the following passage some of the words have been deleted. Read the passage carefully and select the correct answer for the given blank out of the four alternatives.

Red kites were considered vermin across Britain and Ireland (1) _____ the 16th century and their numbers were rigorously (2) _____. While public perceptions have changed, gamekeepers and farmers still (3) _____ shoot, poison and trap red kites for the (4) _____ harm they cause to livestock and game. In 2020 alone, 20 red kites were confirmed to have been (5) _____ this way in the UK.

SubQuestion No : 23

Q.23 Select the most appropriate option to fill in blank number 3.

Ans

✗ 1. randomly

✓ 2. illegally

✗ 3. fairly

✗ 4. unknowingly

Question Type : **MCQ**
Question ID : **264330135319**
Option 1 ID : **264330530186**
Option 2 ID : **264330530185**
Option 3 ID : **264330530183**
Option 4 ID : **264330530184**
Status : **Answered**
Chosen Option : **2**

Comprehension:

In the following passage some of the words have been deleted. Read the passage carefully and select the correct answer for the given blank out of the four alternatives.

Red kites were considered vermin across Britain and Ireland (1) _____ the 16th century and their numbers were rigorously (2) _____. While public perceptions have changed, gamekeepers and farmers still (3) _____ shoot, poison and trap red kites for the (4) _____ harm they cause to livestock and game. In 2020 alone, 20 red kites were confirmed to have been (5) _____ this way in the UK.

SubQuestion No : 24

Q.24 Select the most appropriate option to fill in blank number 4.

Ans

✗ 1. shipped

✓ 2. perceived

✗ 3. kicked

✗ 4. dirty

Question Type : **MCQ**
Question ID : **264330135320**
Option 1 ID : **264330530190**
Option 2 ID : **264330530188**
Option 3 ID : **264330530189**
Option 4 ID : **264330530187**
Status : **Answered**
Chosen Option : **3**

Join Telegram Group "HaryanaJobs.in"

Comprehension:

In the following passage some of the words have been deleted. Read the passage carefully and select the correct answer for the given blank out of the four alternatives.

Red kites were considered vermin across Britain and Ireland (1) _____ the 16th century and their numbers were rigorously (2) _____. While public perceptions have changed, gamekeepers and farmers still (3) _____ shoot, poison and trap red kites for the (4) _____ harm they cause to livestock and game. In 2020 alone, 20 red kites were confirmed to have been (5) _____ this way in the UK.

SubQuestion No : 25

Q.25 Select the most appropriate option to fill in blank number 5.

Ans

✗ 1. awakened

✓ 2. killed

✗ 3. rooted

✗ 4. subjected

Question Type : **MCQ**
Question ID : **264330135321**
Option 1 ID : **264330530193**
Option 2 ID : **264330530194**
Option 3 ID : **264330530191**
Option 4 ID : **264330530192**
Status : **Answered**
Chosen Option : **2**

Join Telegram Group "HaryanaJobs.in"

Multi Tasking Non Technical Staff and Havaldar CBIC and CBN Examination 2022

Roll Number	HaryanaJobs.in
Candidate Name	HaryanaJobs.in
Venue Name	iON Digital Zone iDZ Laxman Nagar
Exam Date	10/05/2023
Exam Time	3:30 PM - 5:00 PM
Subject	MTS Non Tech Havaldar CBIC and CBN Examination 2022

Section : **Numerical and Mathematical Ability**

Q.1 5 संख्याओं का औसत 48 है। उनमें से दो संख्याओं का औसत 40 है जबकि अन्य दो संख्याओं का औसत 58 है। शेष संख्या का मान ज्ञात कीजिए।

Ans
✗ 1. 30
✗ 2. 40
✗ 3. 34
✓ 4. 44

Question Type : **MCQ**
Question ID : **264330138371**
Option 1 ID : **264330542091**
Option 2 ID : **264330542093**
Option 3 ID : **264330542092**
Option 4 ID : **264330542094**
Status : **Answered**
Chosen Option : **4**

Q.2 एक विक्रेता ने Rs. 50 में 12 संतरे खरीदे और उसने Rs. 30 में 12 संतरे की दर से उन्हें बेच दिया। हानि प्रतिशत ज्ञात कीजिए।

Ans
✗ 1. 30%
✓ 2. 40%
✗ 3. 45%
✗ 4. 25%

Question Type : **MCQ**
Question ID : **264330138376**
Option 1 ID : **264330542111**
Option 2 ID : **264330542113**
Option 3 ID : **264330542114**
Option 4 ID : **264330542112**
Status : **Answered**
Chosen Option : **2**

Join Telegram Group "HaryanaJobs.in"

Q.3 दो स्टेशन A और B एक सीधी रेखा पर एक-दूसरे से 230 km की दूरी पर हैं। A से एक रेलगाड़ी सुबह 4 बजे शुरू होकर B की ओर 40 km/hr की चाल से यात्रा करती है। एक दूसरी रेलगाड़ी B से सुबह 5 बजे शुरू होकर A की ओर 55 km/hr की चाल से यात्रा करती है। दोनों रेलगाड़ियाँ किस समय मिलेंगी?

Ans
✔ 1. सुबह 7 बजे
✘ 2. सुबह 10 बजे
✘ 3. सुबह 8 बजे
✘ 4. सुबह 6 बजे

Question Type : **MCQ**
Question ID : **264330138382**
Option 1 ID : **264330542135**
Option 2 ID : **264330542136**
Option 3 ID : **264330542138**
Option 4 ID : **264330542137**
Status : **Answered**
Chosen Option : **1**

Q.4 Rs. 500 की धनराशि 2 वर्ष में साधारण ब्याज पर Rs. 580 हो जाती है। समान साधारण ब्याज दर पर कितने वर्षों में Rs. 650 की धनराशि Rs. 858 हो जाएगी?

Ans
✘ 1. 6 वर्ष
✔ 2. 4 वर्ष
✘ 3. 5 वर्ष
✘ 4. 8 वर्ष

Question Type : **MCQ**
Question ID : **264330137163**
Option 1 ID : **264330537298**
Option 2 ID : **264330537295**
Option 3 ID : **264330537296**
Option 4 ID : **264330537297**
Status : **Answered**
Chosen Option : **2**

Q.5 5(12 + 20 ÷ 10 × 3 - 5) का मान ज्ञात कीजिए।

Ans
✘ 1. 40
✘ 2. 50
✘ 3. 35
✔ 4. 65

Question Type : **MCQ**
Question ID : **264330138368**
Option 1 ID : **264330542082**
Option 2 ID : **264330542079**
Option 3 ID : **264330542080**
Option 4 ID : **264330542081**
Status : **Answered**
Chosen Option : **4**

Join Telegram Group "HaryanaJobs.in"

Q.6 रमेश, राहुल से 60 प्रतिशत कम कुशल है। यदि राहुल एक कंप्यूटर को 12 दिनों में बना सकता है, तो रमेश उसी कंप्यूटर को कितने दिनों में बना सकता है?

Ans
✔ 1. 30 दिन
✘ 2. 40 दिन
✘ 3. 50 दिन
✘ 4. 60 दिन

Question Type : **MCQ**
Question ID : **264330135043**
Option 1 ID : **264330529110**
Option 2 ID : **264330529109**
Option 3 ID : **264330529108**
Option 4 ID : **264330529107**
Status : **Answered**
Chosen Option : **1**

Q.7 यदि(x + y) का 20 प्रतिशत = (x - y) का 30 प्रतिशत है, तो x, y का कितना प्रतिशत है?

Ans
✘ 1. 0.5 प्रतिशत
✔ 2. 500 प्रतिशत
✘ 3. 50 प्रतिशत
✘ 4. 5 प्रतिशत

Question Type : **MCQ**
Question ID : **264330137158**
Option 1 ID : **264330537278**
Option 2 ID : **264330537275**
Option 3 ID : **264330537276**
Option 4 ID : **264330537277**
Status : **Answered**
Chosen Option : **2**

Q.8 $\frac{\left(\frac{28}{9} \times \frac{42}{35}\right) \div \left(\frac{3}{25} \times \frac{5}{7} \div \frac{1}{21}\right)}{\left(\frac{14}{15} \div \frac{2}{75} \text{ of } \frac{7}{5}\right) \times \frac{1}{75} \div \frac{4}{3}}$ का मान क्या है?

Ans
✘ 1. 212/27
✘ 2. 222/27
✘ 3. 244/27
✔ 4. 224/27

Question Type : **MCQ**
Question ID : **264330137620**
Option 1 ID : **264330539090**
Option 2 ID : **264330539087**
Option 3 ID : **264330539088**
Option 4 ID : **264330539089**
Status : **Answered**
Chosen Option : **4**

Join Telegram Group "HaryanaJobs.in"

Q.9 एक मिश्रण में रेत और पत्थर का अनुपात 5:8 है जबकि पत्थर और सीमेंट का अनुपात 32:35 है। मिश्रण में रेत और सीमेंट का अनुपात क्या है?

Ans

✗ 1. 4:3
✗ 2. 1:7
✓ 3. 4:7
✗ 4. 2:3

Question Type : **MCQ**
Question ID : **264330138378**
Option 1 ID : **264330542120**
Option 2 ID : **264330542122**
Option 3 ID : **264330542119**
Option 4 ID : **264330542121**
Status : **Answered**
Chosen Option : **3**

Q.10 14 और 56 का तृतीय समानुपाती ज्ञात कीजिए।

Ans

✗ 1. 212
✗ 2. 220
✓ 3. 224
✗ 4. 218

Question Type : **MCQ**
Question ID : **264330138379**
Option 1 ID : **264330542126**
Option 2 ID : **264330542124**
Option 3 ID : **264330542123**
Option 4 ID : **264330542125**
Status : **Answered**
Chosen Option : **3**

Q.11 एक कार शुरुआती 140 km की दूरी 10 घंटों में और अगले 260 km की दूरी 15 घंटों में तय करती है। पूरी यात्रा में कार की औसत चाल कितनी है?

Ans

✓ 1. 16 km/hr
✗ 2. 14 km/hr
✗ 3. 15 km/hr
✗ 4. 10 km/hr

Question Type : **MCQ**
Question ID : **264330138395**
Option 1 ID : **264330542189**
Option 2 ID : **264330542188**
Option 3 ID : **264330542187**
Option 4 ID : **264330542190**
Status : **Answered**
Chosen Option : **1**

Join Telegram Group "HaryanaJobs.in"

Q.12 15 ÷ 5 of 3 - 3 × 4 + 13 का मान क्या है?

Ans
1. 0 ✗
2. 2 ✓
3. 3 ✗
4. 10 ✗

Question Type : **MCQ**
Question ID : **264330137148**
Option 1 ID : **264330537235**
Option 2 ID : **264330537237**
Option 3 ID : **264330537238**
Option 4 ID : **264330537236**
Status : **Answered**
Chosen Option : **2**

Q.13 एक त्रिभुज की ऊँचाई 56 cm है और संगत आधार, ऊँचाई का 1/4 है। त्रिभुज का क्षेत्रफल ज्ञात कीजिए।

Ans
1. 480 cm^2 ✗
2. 440 cm^2 ✗
3. 392 cm^2 ✓
4. 544 cm^2 ✗

Question Type : **MCQ**
Question ID : **264330138387**
Option 1 ID : **264330542158**
Option 2 ID : **264330542157**
Option 3 ID : **264330542155**
Option 4 ID : **264330542156**
Status : **Answered**
Chosen Option : **3**

Join Telegram Group "HaryanaJobs.in"

Q.14 नीचे दी गई तालिका में विभिन्न राज्यों में पुरुषों और महिलाओं की संख्या को दर्शाया गया है।

राज्य	पुरुष	महिला
A	50	100
B	200	150
C	300	25
D	25	50
E	125	75
F	150	250

J1 = A और B में पुरुषों की औसत संख्या का मान।
J2 = E और F में महिलाओं की औसत संख्या का मान।
(J2 - J1) का मान क्या है?

Ans
✗ 1. 56.5
✗ 2. 42.5
✓ 3. 37.5
✗ 4. 25.5

Question Type : **MCQ**
Question ID : **264330137621**
Option 1 ID : **264330539093**
Option 2 ID : **264330539092**
Option 3 ID : **264330539094**
Option 4 ID : **264330539091**
Status : **Answered**
Chosen Option : **3**

Q.15 A, B और C को एक कार्य पूरा करने के लिए दिया जाता है। यदि A, B और C द्वारा लिए गए समय का अनुपात 4:3:6 है, तो उनकी कार्यकुशलता का अनुपात ज्ञात कीजिए।

Ans
✗ 1. 3:4:6
✗ 2. 4:6:8
✓ 3. 3:4:2
✗ 4. 4:3:6

Question Type : **MCQ**
Question ID : **264330138383**
Option 1 ID : **264330542141**
Option 2 ID : **264330542142**
Option 3 ID : **264330542140**
Option 4 ID : **264330542139**
Status : **Answered**
Chosen Option : **3**

Join Telegram Group "HaryanaJobs.in"

Q.16 एक दुकानदार अंकित मूल्य पर 20% का बट्टा देता है और फिर भी वह कुल मिलाकर 12% का लाभ अर्जित करता है। ज्ञात कीजिए कि उसने अपनी वस्तु को क्रय मूल्य से कितने प्रतिशत अधिक पर अंकित किया था?

Ans

✗ 1. 30%

✗ 2. 20%

✓ 3. 40%

✗ 4. 10%

Question Type : **MCQ**
Question ID : **264330140998**
Option 1 ID : **264330552341**
Option 2 ID : **264330552339**
Option 3 ID : **264330552342**
Option 4 ID : **264330552340**
Status : **Answered**
Chosen Option : **3**

Q.17 निम्नलिखित दंड आलेख में 5 वर्षों में कंपनी A और कंपनी B में कर्मचारियों की संख्या को दर्शाया गया है।

वर्ष 2018 और 2019 में कंपनी A और कंपनी B में कर्मचारियों की कुल संख्या ज्ञात कीजिए।

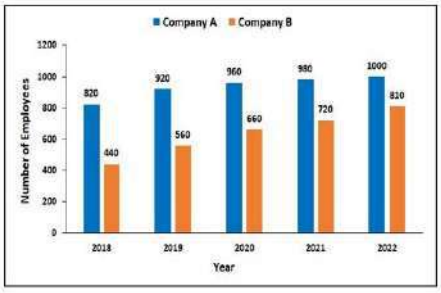

number of employees - कर्मचारियों की संख्या, Year - वर्ष, company A - कंपनी A , company B - कंपनी B

Ans

✗ 1. 2820

✗ 2. 3210

✗ 3. 2860

✓ 4. 2740

Question Type : **MCQ**
Question ID : **264330138386**
Option 1 ID : **264330542154**
Option 2 ID : **264330542152**
Option 3 ID : **264330542151**
Option 4 ID : **264330542153**
Status : **Answered**
Chosen Option : **4**

Join Telegram Group "HaryanaJobs.in"

Q.18 150 मीटर × 25 मीटर का एक आयताकार बगीचा है। बगीचे के बाहर चारों ओर 10 मीटर चौड़ा एक पथ बनाया गया है। उस पथ का क्षेत्रफल कितना है?

Ans

✔ 1. 3900 $metre^2$

✘ 2. 3220 $metre^2$

✘ 3. 3700 $metre^2$

✘ 4. 3550 $metre^2$

Question Type : **MCQ**
Question ID : **264330135058**
Option 1 ID : **264330529167**
Option 2 ID : **264330529170**
Option 3 ID : **264330529168**
Option 4 ID : **264330529169**
Status : **Answered**
Chosen Option : **1**

Q.19 कोई धनराशि साधारण ब्याज पर 14 प्रतिशत वार्षिक दर से कम-से-कम कितने पूर्ण वर्षों में स्वयं की चार गुना से अधिक हो जाएगी?

Ans

✘ 1. 20 वर्ष

✘ 2. 25 वर्ष

✘ 3. 29 वर्ष

✔ 4. 22 वर्ष

Question Type : **MCQ**
Question ID : **264330137333**
Option 1 ID : **264330537960**
Option 2 ID : **264330537961**
Option 3 ID : **264330537962**
Option 4 ID : **264330537959**
Status : **Answered**
Chosen Option : **4**

Q.20 एक दुकानदार ने Rs. 1400 अंकित मूल्य वाली एक पुस्तक 28% के बट्टे पर बेची। पुस्तक का विक्रय मूल्य ज्ञात कीजिए।

Ans

✘ 1. Rs. 2500

✘ 2. Rs. 2000

✔ 3. Rs. 1008

✘ 4. Rs. 1500

Question Type : **MCQ**
Question ID : **264330138377**
Option 1 ID : **264330542116**
Option 2 ID : **264330542118**
Option 3 ID : **264330542115**
Option 4 ID : **264330542117**
Status : **Answered**
Chosen Option : **3**

Section : **Reasoning Ability and Problem Solving**

Join Telegram Group "HaryanaJobs.in"

Q.1 किन दो चिन्हों को आपस में बदलने पर, समीकरण का मान सही होगा?

6 - 10 × 8 ÷ 5 + 7 = 15

Ans
1. + और ÷
2. ÷ और -
3. × और ÷
4. + और -

Question Type : **MCQ**
Question ID : **264330138493**
Option 1 ID : **264330542581**
Option 2 ID : **264330542582**
Option 3 ID : **264330542580**
Option 4 ID : **264330542579**
Status : **Answered**
Chosen Option : **4**

Q.2 (::) के बाईं ओर दिए गए शब्द आपस में किसी तर्क/नियम/संबंध द्वारा संबंधित हैं। समान तर्क/नियम/संबंध के आधार पर दिए गए विकल्पों में से (::) के दाईं ओर लुप्त शब्द/शब्द युग्म को चुनिए।

टैडपोल: मेंढक :: किटन: ?

Ans
1. कीट
2. हिरण
3. कुत्ता
4. बिल्ली

Question Type : **MCQ**
Question ID : **264330138479**
Option 1 ID : **264330542523**
Option 2 ID : **264330542525**
Option 3 ID : **264330542526**
Option 4 ID : **264330542524**
Status : **Answered**
Chosen Option : **4**

Q.3 एक निश्चित कूट भाषा में, 'EXPORT' को 'ORTEXP' लिखा जाता है। उस कूट भाषा में 'GENTLE' को कैसे लिखा जाएगा?

Ans
1. TLENEG
2. TLENGE
3. TELNEG
4. TLEGEN

Question Type : **MCQ**
Question ID : **264330138460**
Option 1 ID : **264330542448**
Option 2 ID : **264330542450**
Option 3 ID : **264330542447**
Option 4 ID : **264330542449**
Status : **Answered**
Chosen Option : **4**

Join Telegram Group "HaryanaJobs.in"

Q.4 दी गई दो संख्याओं को आपस में बदलने पर क्रमशः समीकरण (I) और (II) का मान क्या होगा?

8 और 2

I. 3 + 6 - 8 × 4 ÷ 2

II. 4 ÷ 6 × 9 + 2 - 8

Ans
1. 12 और 8
2. 9 और 15
3. 9 और 81
4. 8 और 12

Question Type : **MCQ**
Question ID : **264330137383**
Option 1 ID : **264330538161**
Option 2 ID : **264330538159**
Option 3 ID : **264330538162**
Option 4 ID : **264330538160**
Status : **Answered**
Chosen Option : **4**

Q.5 पाँच बल्लेबाजों रोहित, राहुल, विराट, सूर्या और हार्दिक के औसत की तुलना की जाती है। सूर्या का औसत केवल एक बल्लेबाज से अधिक है। विराट का औसत रोहित से अधिक है और रोहित का औसत हार्दिक से अधिक है। यदि रोहित का औसत = 120 है, तो सूर्या का औसत कितना हो सकता है?

Ans
1. 130
2. 125
3. 118
4. 128

Question Type : **MCQ**
Question ID : **264330138486**
Option 1 ID : **264330542554**
Option 2 ID : **264330542552**
Option 3 ID : **264330542551**
Option 4 ID : **264330542553**
Status : **Answered**
Chosen Option : **3**

Join Telegram Group "HaryanaJobs.in"

Q.6 निम्नलिखित प्रश्न में कुछ कथन दिए गए हैं और उन कथनों के आधार पर कुछ निष्कर्ष दिए गए हैं। आपको यह मानना है कि दिए गए कथन सत्य हैं चाहे वे समान्यतः ज्ञात तथ्यों से अलग प्रतीत होते हों। सभी निष्कर्षों को पढ़िए और फिर निश्चय कीजिए कि दिए गए निष्कर्षों में से कौन-सा निष्कर्ष तार्किक रूप से दिए गए कथनों के अनुसार है।

कथन:

I. कुछ V, P हैं।

II. कुछ F, V हैं।

निष्कर्ष:

I. कुछ F, P हैं।

II. कुछ V, F हैं।

Ans

✗ 1. दोनों निष्कर्ष I और II कथनों के अनुसार हैं

✗ 2. केवल निष्कर्ष I कथनों के अनुसार है

✓ 3. केवल निष्कर्ष II कथनों के अनुसार है

✗ 4. कोई भी निष्कर्ष कथनों के अनुसार नहीं है

Question Type : **MCQ**
Question ID : **264330138487**
Option 1 ID : **264330542557**
Option 2 ID : **264330542555**
Option 3 ID : **264330542556**
Option 4 ID : **264330542558**
Status : **Answered**
Chosen Option : **3**

Join Telegram Group "HaryanaJobs.in"

Q.7 उस विकल्प आकृति को चुनिए जिसमें दी गई आकृति निहित है। (घूर्णन की अनुमति नहीं है)

Ans

✗ 1.

✗ 2.

✓ 3.

✗ 4.

Question Type : **MCQ**
Question ID : **264330137534**
Option 1 ID : **264330538746**
Option 2 ID : **264330538745**
Option 3 ID : **264330538743**
Option 4 ID : **264330538744**
Status : **Answered**
Chosen Option : **3**

Q.8 निम्नलिखित प्रश्न में, दी गई श्रृंखला में लुप्त संख्या को चुनिए ।

2, 5, 14, 41, 122, ?

Ans

✗ 1. 380

✗ 2. 370

✗ 3. 368

✓ 4. 365

Question Type : **MCQ**
Question ID : **264330138490**
Option 1 ID : **264330542570**
Option 2 ID : **264330542568**
Option 3 ID : **264330542569**
Option 4 ID : **264330542567**
Status : **Answered**
Chosen Option : **4**

Join Telegram Group "HaryanaJobs.in"

Q.9 (::) के बाईं ओर दिए गए शब्द आपस में किसी तर्क/नियम/संबंध द्वारा संबंधित हैं। समान तर्क/नियम/संबंध के आधार पर दिए गए विकल्पों में से (::) के दाईं ओर लुप्त शब्द/शब्द युग्म को चुनिए।

समय : सेकंड :: ?

Ans

✗ 1. जूल : कार्य

✗ 2. न्यूटन : बल

✗ 3. दाब : लीटर

✓ 4. शक्ति : वॉट

Question Type : **MCQ**
Question ID : **264330138480**
Option 1 ID : **264330542529**
Option 2 ID : **264330542528**
Option 3 ID : **264330542527**
Option 4 ID : **264330542530**
Status : **Answered**
Chosen Option : **4**

Q.10 यदि एक दर्पण को रेखा AB पर रखा जाए, तो दी गई विकल्प आकृतियों में से कौन-सी आकृति प्रश्न आकृति का सही प्रतिबिम्ब होगी?

Ans

✗ 1.

✗ 2.

✗ 3.

✓ 4.

Question Type : **MCQ**
Question ID : **264330137535**
Option 1 ID : **264330538749**
Option 2 ID : **264330538748**
Option 3 ID : **264330538750**
Option 4 ID : **264330538747**
Status : **Answered**
Chosen Option : **4**

Join Telegram Group "HaryanaJobs.in"

Q.11 एक निश्चित कूट भाषा में, 'She is my niece' को 'Co Pv Zs Mn' लिखा जाता है, 'That is my bike' को 'Zs Pt Pv Ga' लिखा जाता है, 'She is your daughter' को 'Co Pv Ex Yz' लिखा जाता है। इस कूट भाषा में 'niece' को कैसे लिखा जाएगा?

Ans
1. Co
2. Zs
3. Pv
4. Mn

Question Type : **MCQ**
Question ID : **264330133566**
Option 1 ID : **264330523288**
Option 2 ID : **264330523287**
Option 3 ID : **264330523289**
Option 4 ID : **264330523290**
Status : **Answered**
Chosen Option : **4**

Q.12 उस विकल्प को चुनिए जिसमें समुच्चय की संख्याएँ वही संबंध साझा करती हैं जो दिए गए समुच्चय में संख्याओं द्वारा साझा किया जाता है। (ध्यान दें: संख्याओं को उनके घटक अंकों में अलग-अलग किए बिना, पूर्ण संख्याओं पर संक्रियाएँ की जानी चाहिए। उदा. 13 - 13 पर संक्रियाएँ जैसे 13 को जोड़ना /घटाना /गुणा करना आदि किया जा सकता है। 13 को 1 और 3 में अलग-अलग करने की और फिर 1 और 3 पर गणितीय संक्रियाएँ करने की अनुमति नहीं है)

(10, 20, 100)

(50, 5, 125)

Ans
1. (14, 10, 35)
2. (20, 5, 60)
3. (40, 4, 150)
4. (12, 10, 60)

Question Type : **MCQ**
Question ID : **264330138492**
Option 1 ID : **264330542576**
Option 2 ID : **264330542577**
Option 3 ID : **264330542578**
Option 4 ID : **264330542575**
Status : **Answered**
Chosen Option : **4**

Q.13 उस विकल्प को चुनिए जो पाँचवीं संख्या से ठीक उसी प्रकार संबंधित है जिस प्रकार दूसरी संख्या पहली संख्या से संबंधित है और चौथी संख्या तीसरी संख्या से संबंधित है।

9 : 730 :: 10 : 1001 :: 8 : ?

Ans
1. 513
2. 514
3. 516
4. 517

Question Type : **MCQ**
Question ID : **264330137123**
Option 1 ID : **264330537135**
Option 2 ID : **264330537136**
Option 3 ID : **264330537137**
Option 4 ID : **264330537138**
Status : **Answered**
Chosen Option : **1**

Join Telegram Group "HaryanaJobs.in"

Q.14 एक निश्चित कूट भाषा में, 'JPMNO' को '73562' लिखा जाता है, 'AMNBD' को '28954' लिखा जाता है, 'JNACQ' को '12430' लिखा जाता है। उस कूट भाषा में 'B' को कैसे लिखा जाएगा?

Ans

✗ 1. 2

✓ 2. 8

✗ 3. 4

✗ 4. 5

Question Type : **MCQ**
Question ID : **264330135566**
Option 1 ID : **264330531163**
Option 2 ID : **264330531164**
Option 3 ID : **264330531166**
Option 4 ID : **264330531165**
Status : **Answered**
Chosen Option : **4**

Q.15 एक श्रृंखला दी गई है जिसमें एक पद लुप्त है। दिए गए विकल्पों में से उस सही विकल्प को चुनिए जो श्रृंखला को पूरा करेगा।

ASBQ, XOYM, UKVI, RGSE, ?

Ans

✗ 1. NCPA

✗ 2. OBQA

✗ 3. OCPB

✓ 4. OCPA

Question Type : **MCQ**
Question ID : **264330138477**
Option 1 ID : **264330542518**
Option 2 ID : **264330542516**
Option 3 ID : **264330542517**
Option 4 ID : **264330542515**
Status : **Answered**
Chosen Option : **4**

Q.16 सात लड़कियाँ मानसी, श्वेता, मोनिका, पायल, आरती, काजल और लक्ष्मी एक वृत्ताकार मेज के चारों ओर केंद्र के विपरीत दिशा की ओर मुख करके बैठी हैं(परंतु जरूरी नहीं कि वे इसी क्रम में बैठीं हों)। आरती, काजल के बाईं ओर से दूसरे स्थान पर है। मोनिका, काजल के दाईं ओर से तीसरे स्थान पर है। मानसी, काजल की निकटतम पडोसी नहीं है। लक्ष्मी, मानसी के बाईं ओर से दूसरे स्थान पर है। पायल, लक्ष्मी की निकटतम पड़ोसी नहीं है। लक्ष्मी के बाईं ओर से दूसरे स्थान पर कौन है?

Ans

✗ 1. मानसी

✗ 2. आरती

✓ 3. काजल

✗ 4. पायल

Question Type : **MCQ**
Question ID : **264330138485**
Option 1 ID : **264330542550**
Option 2 ID : **264330542547**
Option 3 ID : **264330542548**
Option 4 ID : **264330542549**
Status : **Answered**
Chosen Option : **3**

Join Telegram Group "HaryanaJobs.in"

Q.17 निम्नलिखित प्रश्न में, दी गई श्रृंखला में लुप्त संख्या को चुनिए।

111, 128, 145, 162, 179, ?

Ans
1. 195
2. 190
3. 194
4. 196

Question Type : **MCQ**
Question ID : **264330137121**
Option 1 ID : **264330537129**
Option 2 ID : **264330537127**
Option 3 ID : **264330537128**
Option 4 ID : **264330537130**
Status : **Answered**
Chosen Option : **4**

Q.18 निम्नलिखित प्रश्न में कुछ कथन दिए गए हैं और उन कथनों के आधार पर कुछ निष्कर्ष दिए गए हैं। आपको यह मानना है कि दिए गए कथन सत्य हैं चाहे वे समान्यतः ज्ञात तथ्यों से अलग प्रतीत होते हों। सभी निष्कर्षों को पढ़िए और फिर निश्चय कीजिए कि दिए गए निष्कर्षों में से कौन-सा निष्कर्ष तार्किक रूप से दिए गए कथनों के अनुसार है।

कथन:

I. सभी K, M हैं।

II. कुछ K, Z हैं।

निष्कर्ष:

I. सभी M, Z हैं।

II. सभी M, K हैं।

III. कुछ M, K हैं।

Ans
1. कोई भी निष्कर्ष कथनों के अनुसार नहीं है
2. केवल निष्कर्ष III कथनों के अनुसार है
3. सभी निष्कर्ष कथनों के अनुसार हैं
4. दोनों निष्कर्ष I और III कथनों के अनुसार हैं

Question Type : **MCQ**
Question ID : **264330138488**
Option 1 ID : **264330542562**
Option 2 ID : **264330542561**
Option 3 ID : **264330542560**
Option 4 ID : **264330542559**
Status : **Answered**
Chosen Option : **2**

Join Telegram Group "HaryanaJobs.in"

Q.19 कौन-सी उत्तर आकृति प्रश्न आकृति में दिए गए पैटर्न को पूरा करेगी?



Ans

✗ 1.

✗ 2.

✗ 3.

✓ 4.

Question Type : **MCQ**
Question ID : **264330138497**
Option 1 ID : **264330542598**
Option 2 ID : **264330542596**
Option 3 ID : **264330542597**
Option 4 ID : **264330542595**
Status : **Answered**
Chosen Option : **4**

Q.20 सात लड़के लक्ष्मण, मोहन, बिट्टू, सोहिल, राहुल, राम और रमेश एक वृत्ताकार मेज के चारों ओर केंद्र की ओर मुख करके बैठे हैं(परंतु जरूरी नहीं कि वे इसी क्रम में बैठे हों)। सोहिल, बिट्टू के बाईं ओर से तीसरे स्थान पर है। मोहन, बिट्टू के दाईं ओर से दूसरे स्थान पर है। राम, रमेश के दाईं ओर से तीसरे स्थान पर है। रमेश, मोहन का निकटतम पड़ोसी नहीं है। लक्ष्मण, राहुल के बाईं ओर से तीसरे स्थान पर है। राम के ठीक बाईं ओर कौन बैठा है?

Ans

✓ 1. बिट्टू

✗ 2. रमेश

✗ 3. मोहन

✗ 4. लक्ष्मण

Question Type : **MCQ**
Question ID : **264330138484**
Option 1 ID : **264330542543**
Option 2 ID : **264330542546**
Option 3 ID : **264330542544**
Option 4 ID : **264330542545**
Status : **Answered**
Chosen Option : **1**

Section : **General Awareness**

Join Telegram Group "HaryanaJobs.in"

Q.1 भारतीय संविधान के अनुच्छेद 25 से 28 _____का प्रावधान करते हैं।

Ans
1. शोषण के विरुद्ध अधिकार
2. संस्कृतिक और शैक्षिक अधिकार
3. समानता के अधिकार
4. धार्मिक स्वतंत्रता के अधिकार

Question Type : **MCQ**
Question ID : **264330138258**
Option 1 ID : **264330541640**
Option 2 ID : **264330541642**
Option 3 ID : **264330541639**
Option 4 ID : **264330541641**
Status : **Answered**
Chosen Option : **4**

Q.2 निम्नलिखित में से किस ग्रह को "भोर का तारा (morning star)" भी कहा जाता है?

Ans
1. शुक्र
2. पृथ्वी
3. नेपच्यून
4. बृहस्पति

Question Type : **MCQ**
Question ID : **264330137044**
Option 1 ID : **264330536819**
Option 2 ID : **264330536820**
Option 3 ID : **264330536821**
Option 4 ID : **264330536822**
Status : **Answered**
Chosen Option : **4**

Q.3 मानक जनगणना परिभाषा के अनुसार, मुख्य श्रमिक वह व्यक्ति है जो एक वर्ष में कम से कम _____ कार्य करता है।

Ans
1. 190 दिन
2. 223 दिन
3. 150 दिन
4. 183 दिन

Question Type : **MCQ**
Question ID : **264330138668**
Option 1 ID : **264330543281**
Option 2 ID : **264330543282**
Option 3 ID : **264330543279**
Option 4 ID : **264330543280**
Status : **Marked For Review**
Chosen Option : **1**

Join Telegram Group "HaryanaJobs.in"

Q.4 भारत में वित्तीय वर्ष की अवधि कितनी है?

Ans
1. प्रत्येक वर्ष 1 जनवरी से प्रारंभ होकर अगले वर्ष 31 दिसंबर तक
2. प्रत्येक वर्ष 1 अप्रैल से प्रारंभ होकर अगले वर्ष 31 मार्च तक
3. प्रत्येक वर्ष 1 जनवरी से से प्रारंभ होकर उसी वर्ष 31 दिसंबर तक
4. प्रत्येक वर्ष 1 अप्रैल से प्रारंभ होकर उसी वर्ष 31 दिसंबर तक

Question Type : **MCQ**
Question ID : **264330134055**
Option 1 ID : **264330525245**
Option 2 ID : **264330525243**
Option 3 ID : **264330525246**
Option 4 ID : **264330525244**
Status : **Answered**
Chosen Option : **2**

Q.5 प्रधान मंत्री आवास योजना- शहरी किस केंद्रीय मंत्रालय द्वारा शुरू की गई थी?

Ans
1. आवास और शहरी मामलों के मंत्रालय
2. ग्रामीण विकास मंत्रालय
3. वित्त मंत्रालय
4. मानव संसाधन विकास मंत्रालय

Question Type : **MCQ**
Question ID : **264330138255**
Option 1 ID : **264330541628**
Option 2 ID : **264330541629**
Option 3 ID : **264330541630**
Option 4 ID : **264330541627**
Status : **Marked For Review**
Chosen Option : **4**

Q.6 इस जानी-मानी भारतीय संगीत क्षेत्र से जुड़ी शख्सियत को पहचानें।

वर्ष 2011 में, गिनीज बुक ऑफ वर्ल्ड रिकॉर्ड्स (Guinness Book of World Records) ने आधिकारिक तौर पर उन्हें संगीत इतिहास में सबसे अधिक गाने रिकॉर्ड करने वाली कलाकार के रूप में मानित किया था।

Ans
1. अलका याग्निक
2. उषा उत्थुप
3. आशा भोसले
4. श्रेया घोषाल

Question Type : **MCQ**
Question ID : **264330138252**
Option 1 ID : **264330541618**
Option 2 ID : **264330541615**
Option 3 ID : **264330541617**
Option 4 ID : **264330541616**
Status : **Not Answered**
Chosen Option : **--**

Join Telegram Group "HaryanaJobs.in"

Q.7 सरोजा वैद्यनाथन (Saroja Vaidyanathan) को _____ में शास्त्रीय नृत्य के लिए कालिदास सम्मान मिला था।

Ans
1. 2002-03
2. 2020-21
3. 2001-02
4. 2009-10

Question Type : **MCQ**
Question ID : **264330134050**
Option 1 ID : **264330525223**
Option 2 ID : **264330525225**
Option 3 ID : **264330525224**
Option 4 ID : **264330525226**
Status : **Not Answered**
Chosen Option : **--**

Q.8 श्रीजेश पी.आर. जिन्हें "मेजर ध्यानचंद खेल रत्न पुरस्कार 2021" से सम्मानित किया गया था, किस खेल से संबंधित हैं?

Ans
1. हॉकी
2. फ़ुटबॉल
3. कुश्ती
4. मुक्केबाज़ी

Question Type : **MCQ**
Question ID : **264330138249**
Option 1 ID : **264330541605**
Option 2 ID : **264330541606**
Option 3 ID : **264330541604**
Option 4 ID : **264330541603**
Status : **Answered**
Chosen Option : **3**

Q.9 बेरीबेरी (Beriberi) निम्नलिखित में से किसकी कमी से होता है?

Ans
1. विटामिन B1
2. आयोडीन
3. विटामिन D
4. विटामिन C

Question Type : **MCQ**
Question ID : **264330138259**
Option 1 ID : **264330541643**
Option 2 ID : **264330541646**
Option 3 ID : **264330541645**
Option 4 ID : **264330541644**
Status : **Answered**
Chosen Option : **1**

Join Telegram Group "HaryanaJobs.in"

Q.10 धोलावीरा का प्राचीन शहर, किस राज्य में स्थित है?

Ans
1. राजस्थान ✗
2. कर्नाटक ✗
3. मध्यप्रदेश ✗
4. गुजरात ✓

Question Type : **MCQ**
Question ID : **264330137389**
Option 1 ID : **264330538184**
Option 2 ID : **264330538186**
Option 3 ID : **264330538183**
Option 4 ID : **264330538185**
Status : **Answered**
Chosen Option : **4**

Q.11 निम्नलिखित में से किस मुगल शासक ने आलमगीर, विश्व विजेता की उपाधि धारण की थी?

Ans
1. शाहजहाँ ✗
2. औरंगज़ेब ✓
3. बाबर ✗
4. अकबर ✗

Question Type : **MCQ**
Question ID : **264330137050**
Option 1 ID : **264330536844**
Option 2 ID : **264330536843**
Option 3 ID : **264330536846**
Option 4 ID : **264330536845**
Status : **Answered**
Chosen Option : **3**

Q.12 निम्नलिखित में से कौन-सा राष्ट्रीय उद्यान महाराष्ट्र में स्थित नहीं है?

Ans
1. नवेगाँव राष्ट्रीय उद्यान ✗
2. गुगामल राष्ट्रीय उद्यान ✗
3. बांधवगढ़ राष्ट्रीय उद्यान ✓
4. ताडोबा राष्ट्रीय उद्यान ✗

Question Type : **MCQ**
Question ID : **264330137043**
Option 1 ID : **264330536818**
Option 2 ID : **264330536817**
Option 3 ID : **264330536816**
Option 4 ID : **264330536815**
Status : **Answered**
Chosen Option : **3**

Join Telegram Group "HaryanaJobs.in"

Q.13 भारतीय मसाला बोर्ड (Spices Board of India) का मुख्यालय कहाँ स्थित है?

Ans
✔ 1. कोच्चि (केरल)
✘ 2. बेंगलुरु (कर्नाटक)
✘ 3. गुंटूर (आंध्रप्रदेश)
✘ 4. पुणे (महाराष्ट्र)

Question Type : **MCQ**
Question ID : **264330134040**
Option 1 ID : **264330525185**
Option 2 ID : **264330525183**
Option 3 ID : **264330525184**
Option 4 ID : **264330525186**
Status : **Answered**
Chosen Option : **1**

Q.14 1897 में रामकृष्ण मिशन की स्थापना किसने की थी?

Ans
✘ 1. रामकृष्ण परमहंस
✘ 2. केशव चंद्र सेन
✔ 3. स्वामी विवेकानंद
✘ 4. देवेंद्रनाथ टैगोर

Question Type : **MCQ**
Question ID : **264330137702**
Option 1 ID : **264330539418**
Option 2 ID : **264330539417**
Option 3 ID : **264330539416**
Option 4 ID : **264330539415**
Status : **Answered**
Chosen Option : **4**

Q.15 भारत के किसी भी राज्य का प्रमुख एक _____ होता है।

Ans
✘ 1. मुख्यमंत्री
✘ 2. राज्य निर्वाचन आयुक्त
✘ 3. उच्च न्यायालय का मुख्य न्यायाधीश
✔ 4. राज्यपाल

Question Type : **MCQ**
Question ID : **264330137398**
Option 1 ID : **264330538219**
Option 2 ID : **264330538222**
Option 3 ID : **264330538220**
Option 4 ID : **264330538221**
Status : **Marked For Review**
Chosen Option : **4**

Join Telegram Group "HaryanaJobs.in"

Q.16 भारत की पार्लियामेंट को _____ भी कहा जाता है।

Ans
1. विधान सभा
2. लोक सभा
3. संसद
4. सैनेट

Question Type : **MCQ**
Question ID : **264330134630**
Option 1 ID : **264330527475**
Option 2 ID : **264330527476**
Option 3 ID : **264330527477**
Option 4 ID : **264330527478**
Status : **Answered**
Chosen Option : **3**

Q.17 हिमालय के सबसे उत्तरी भाग में स्थित शृंखला को _____ कहते हैं।

Ans
1. पूर्वांचल
2. अरावली पर्वतमाला
3. आंतरिक हिमालय
4. शिवालिक पर्वतमाला

Question Type : **MCQ**
Question ID : **264330138264**
Option 1 ID : **264330541666**
Option 2 ID : **264330541665**
Option 3 ID : **264330541663**
Option 4 ID : **264330541664**
Status : **Answered**
Chosen Option : **4**

Q.18 जगोई और चोलोम _____ नृत्य की दो मुख्य शौलिया सौम्य हैं।

Ans
1. कथकली
2. मणिपुरी
3. कथक
4. भरतनाट्यम

Question Type : **MCQ**
Question ID : **264330138246**
Option 1 ID : **264330541594**
Option 2 ID : **264330541593**
Option 3 ID : **264330541592**
Option 4 ID : **264330541591**
Status : **Answered**
Chosen Option : **3**

Join Telegram Group "HaryanaJobs.in"

Q.19 निम्नलिखित में से किसने फॉर्मूला 1 यूनाइटेड स्टेट्स ग्रां प्री 2022 जीता है?

Ans
1. चार्ल्स लेक्लर्क (Charles Leclerc)
2. कार्लोस सैंज जूनियर (Carlos Sainz Jr.)
3. मैक्स वेर्स्टाप्पेन (Max Verstappen)
4. लैंडो नॉरिस (Lando Norris)

Question Type : **MCQ**
Question ID : **264330137059**
Option 1 ID : **264330536882**
Option 2 ID : **264330536880**
Option 3 ID : **264330536881**
Option 4 ID : **264330536879**
Status : **Answered**
Chosen Option : **1**

Q.20 वर्ष 1817 में "द हिस्ट्री ऑफ ब्रिटिश इंडिया (The History of British India)" को किसने लिखा था?

Ans
1. जेम्स मिल
2. रमेश चंद्र दत्त
3. दादाभाई नौरोजी
4. विलियम बैंटिक

Question Type : **MCQ**
Question ID : **264330137410**
Option 1 ID : **264330538267**
Option 2 ID : **264330538268**
Option 3 ID : **264330538270**
Option 4 ID : **264330538269**
Status : **Marked For Review**
Chosen Option : **3**

Q.21 Which among the following alloys is a combination of gold and silver?

Ans
1. Electrum
2. Bronze
3. Solder
4. Constantan

Question Type : **MCQ**
Question ID : **264330137041**
Option 1 ID : **264330536807**
Option 2 ID : **264330536808**
Option 3 ID : **264330536809**
Option 4 ID : **264330536810**
Status : **Answered**
Chosen Option : **4**

Join Telegram Group "HaryanaJobs.in"

Q.22 दशहरा उत्सव को _____ के नाम से भी जाना जाता है।

Ans
1. वैकुंठ अष्टमी (Vaikunthashtami)
2. विजयादशमी(Vijayaydashami)
3. जन्माष्टमी (Janmasthami)
4. संक्रांति (Sankranti)

Question Type : **MCQ**
Question ID : **264330137689**
Option 1 ID : **264330539363**
Option 2 ID : **264330539365**
Option 3 ID : **264330539366**
Option 4 ID : **264330539364**
Status : **Answered**
Chosen Option : **2**

Q.23 निम्नलिखित में से कौन "एन ऑटोबायोग्राफी: टुवर्ड फ्रीडम (An Autobiography: Toward Freedom)" पुस्तक के लेखक हैं?

Ans
1. लाला लाजपत राय
2. इंदिरा गांधी
3. महात्मा गांधी
4. जवाहरलाल नेहरू

Question Type : **MCQ**
Question ID : **264330134048**
Option 1 ID : **264330525217**
Option 2 ID : **264330525218**
Option 3 ID : **264330525216**
Option 4 ID : **264330525215**
Status : **Not Answered**
Chosen Option : **--**

Q.24 निम्नलिखित में से कौन-सी बेरोजगारी किसी अर्थव्यवस्था में मंदी का परिणाम है?

Ans
1. चक्रीय बेरोजगारी
2. संरचनात्मक बेरोजगारी
3. मौसमी बेरोजगारी
4. प्रतिरोधात्मक बेरोजगारी

Question Type : **MCQ**
Question ID : **264330137699**
Option 1 ID : **264330539403**
Option 2 ID : **264330539404**
Option 3 ID : **264330539406**
Option 4 ID : **264330539405**
Status : **Not Answered**
Chosen Option : **--**

Join Telegram Group "HaryanaJobs.in"

Q.25 सितंबर 2022 में, किसे भारत के नए महान्यायवादी के रूप में नियुक्त किया गया है?

Ans
✔ 1. आर. वेंकटरमणी
✘ 2. जगदीप धनखड़
✘ 3. कैलाश वासदेव
✘ 4. राम जेठमलानी

Question Type : **MCQ**
Question ID : **264330138254**
Option 1 ID : **264330541624**
Option 2 ID : **264330541625**
Option 3 ID : **264330541626**
Option 4 ID : **264330541623**
Status : **Answered**
Chosen Option : **1**

Section : **English Language and Comprehension**

Q.1 In the following question, out of the given four alternatives, select the alternative which best expresses the meaning of the Idiom/Phrase.

In the long run

Ans
✔ 1. In the end
✘ 2. Lack of energy
✘ 3. Long walk
✘ 4. In tough times

Question Type : **MCQ**
Question ID : **264330135328**
Option 1 ID : **264330530219**
Option 2 ID : **264330530220**
Option 3 ID : **264330530222**
Option 4 ID : **264330530221**
Status : **Marked For Review**
Chosen Option : **3**

Q.2 Four words are given, out of which three words are spelt correctly. Choose the incorrectly spelt word.

Ans
✘ 1. LICENSE
✔ 2. NECCESARY
✘ 3. INDISPENSABLE
✘ 4. OCCASION

Question Type : **MCQ**
Question ID : **264330136635**
Option 1 ID : **264330535264**
Option 2 ID : **264330535265**
Option 3 ID : **264330535263**
Option 4 ID : **264330535266**
Status : **Answered**
Chosen Option : **2**

Join Telegram Group "HaryanaJobs.in"

Q.3 Select the most appropriate word for the given group of words.

A person who is both open and shy

Ans
1. Introvert ✗
2. Extrovert ✗
3. Ambivert ✓
4. Controvert ✗

Question Type : **MCQ**
Question ID : **264330136628**
Option 1 ID : **264330535236**
Option 2 ID : **264330535235**
Option 3 ID : **264330535237**
Option 4 ID : **264330535238**
Status : **Answered**
Chosen Option : **3**

Q.4 Select the most appropriate antonym of the given word.

Rigid

Ans
1. Satiation ✗
2. Flexible ✓
3. Distaste ✗
4. Superior ✗

Question Type : **MCQ**
Question ID : **264330135811**
Option 1 ID : **264330532115**
Option 2 ID : **264330532118**
Option 3 ID : **264330532116**
Option 4 ID : **264330532117**
Status : **Answered**
Chosen Option : **2**

Q.5 Select the most appropriate synonym to substitute the bracketed word in the given sentence.

No need to read (voluminous) campaign literature, or pore through printed recommendations.

Ans
1. Micro ✗
2. Reverberate ✗
3. Sparkling ✗
4. Commodious ✓

Question Type : **MCQ**
Question ID : **264330136074**
Option 1 ID : **264330533108**
Option 2 ID : **264330533107**
Option 3 ID : **264330533109**
Option 4 ID : **264330533110**
Status : **Not Answered**
Chosen Option : **--**

Join Telegram Group "HaryanaJobs.in"

Q.6 Improve the underlined part of the sentence. Choose 'No improvement' as an answer if the sentence is grammatically correct.

He held the railing as he walked downed the stairs.

Ans

1. No improvement
2. walked downs
3. walk down
4. walked down

Question Type : **MCQ**
Question ID : **264330136772**
Option 1 ID : **264330535794**
Option 2 ID : **264330535793**
Option 3 ID : **264330535792**
Option 4 ID : **264330535791**
Status : **Answered**
Chosen Option : **4**

Q.7 Select the wrongly spelt word.

Ans

1. Sully
2. Depravity
3. Morelity
4. Arsenal

Question Type : **MCQ**
Question ID : **264330136054**
Option 1 ID : **264330533034**
Option 2 ID : **264330533032**
Option 3 ID : **264330533031**
Option 4 ID : **264330533033**
Status : **Answered**
Chosen Option : **3**

Q.8 Select the word segment that substitutes (replaces) the bracketed word segment correctly and completes the sentence meaningfully. Select the option 'no correction required' if the sentence is correct as given.

One of the main climbing routes, approaches the summit from the southeast (in the Nepal).

Ans

1. in Nepal
2. at the Nepal
3. from the Nepal
4. No correction required

Question Type : **MCQ**
Question ID : **264330136644**
Option 1 ID : **264330535301**
Option 2 ID : **264330535299**
Option 3 ID : **264330535300**
Option 4 ID : **264330535302**
Status : **Answered**
Chosen Option : **1**

Join Telegram Group "HaryanaJobs.in"

Q.9 Find the part of the given sentence that has an error in it. If there is no error, choose 'No error'.

I hope that we will arrive at the ideal trade-off soon.

Ans

1. ✗ the ideal trade-off soon.
2. ✗ we will arrive at
3. ✗ I hope that
4. ✓ No error

Question Type : **MCQ**
Question ID : **264330136769**
Option 1 ID : **264330535781**
Option 2 ID : **264330535780**
Option 3 ID : **264330535779**
Option 4 ID : **264330535782**
Status : **Answered**
Chosen Option : **2**

Q.10 The statement below has been given with bracketed text. Select the option with correct Idiom for the bracketed text.

Susie (has such strong resemblance to) Kate Winslet that sometimes people would ask her for her autograph.

Ans

1. ✗ gone bananas
2. ✗ jack of all trades
3. ✓ dead ringer
4. ✗ pound the pavement

Question Type : **MCQ**
Question ID : **264330136634**
Option 1 ID : **264330535259**
Option 2 ID : **264330535261**
Option 3 ID : **264330535262**
Option 4 ID : **264330535260**
Status : **Answered**
Chosen Option : **2**

Q.11 Select the most appropriate option to fill in the blank.

The man who is supposed to be protecting them is somehow their fiercest and most _____ enemy.

Ans

1. ✗ quotidian
2. ✓ implacable
3. ✗ pedestrian
4. ✗ ostentatious

Question Type : **MCQ**
Question ID : **264330136055**
Option 1 ID : **264330533037**
Option 2 ID : **264330533038**
Option 3 ID : **264330533036**
Option 4 ID : **264330533035**
Status : **Answered**
Chosen Option : **3**

Join Telegram Group "HaryanaJobs.in"

Q.12 Select the most appropriate option to fill in the blank.

Before about 1830, _____ sermons, tracts and addresses routinely broached female intemperance.

Ans

✔ 1. temperance

✘ 2. congruence

✘ 3. confluence

✘ 4. affluence

Question Type : **MCQ**
Question ID : **264330136064**
Option 1 ID : **264330533072**
Option 2 ID : **264330533074**
Option 3 ID : **264330533071**
Option 4 ID : **264330533073**
Status : **Answered**
Chosen Option : **1**

Q.13 Find the part of the given sentence that has an error in it. If there is no error, choose 'No error'.

He had to rebel against his father to became a musician.

Ans

✘ 1. against his father to

✘ 2. No error

✔ 3. became a musician.

✘ 4. He had to rebel

Question Type : **MCQ**
Question ID : **264330134720**
Option 1 ID : **264330527836**
Option 2 ID : **264330527838**
Option 3 ID : **264330527837**
Option 4 ID : **264330527835**
Status : **Marked For Review**
Chosen Option : **4**

Q.14 Improve the underlined part of the sentence. Choose 'No improvement' as an answer if the sentence is grammatically correct.

He enlisting in the army and went to war when he was only eighteen.

Ans

✘ 1. No improvement

✘ 2. enlist in army

✔ 3. enlisted in the army

✘ 4. enlisted at the army

Question Type : **MCQ**
Question ID : **264330135182**
Option 1 ID : **264330529662**
Option 2 ID : **264330529660**
Option 3 ID : **264330529661**
Option 4 ID : **264330529659**
Status : **Answered**
Chosen Option : **3**

Join Telegram Group "HaryanaJobs.in"

Q.15 Select the most appropriate synonym of the given word.

Fetish

Ans
✔ 1. Desire
✘ 2. Requirement
✘ 3. Awkward
✘ 4. Learning

Question Type : **MCQ**
Question ID : **264330136629**
Option 1 ID : **264330535240**
Option 2 ID : **264330535241**
Option 3 ID : **264330535242**
Option 4 ID : **264330535239**
Status : **Answered**
Chosen Option : **3**

Q.16 Identify the segment that contains a grammatical error. If there is no error, select 'No error'.

Before Jerry could stop him, Daniel / bounding off the bed, seized Jerry's / desk lamp, and started beating himself.

Ans
✘ 1. No error
✔ 2. bounding off the bed, seized Jerry's
✘ 3. desk lamp, and started beating himself.
✘ 4. Before Jerry could stop him, Daniel

Question Type : **MCQ**
Question ID : **264330136615**
Option 1 ID : **264330535190**
Option 2 ID : **264330535188**
Option 3 ID : **264330535189**
Option 4 ID : **264330535187**
Status : **Answered**
Chosen Option : **2**

Q.17 Choose the word that can substitute the given group of words.

A portable case for holding papers, drawing etc.

Ans
✘ 1. Cache
✘ 2. Archives
✘ 3. Creche
✔ 4. Portfolio

Question Type : **MCQ**
Question ID : **264330135322**
Option 1 ID : **264330530195**
Option 2 ID : **264330530197**
Option 3 ID : **264330530196**
Option 4 ID : **264330530198**
Status : **Answered**
Chosen Option : **4**

Join Telegram Group "HaryanaJobs.in"

Q.18 Select the word from the options which is exactly opposite in meaning to the bracketed word given in the sentence below.

The company has responded (sluggishly) to these changes in technology.

Ans

✗ 1. Similarly

✗ 2. Apathetically

✓ 3. Promptly

✗ 4. Lethargically

Question Type : **MCQ**
Question ID : **264330136632**
Option 1 ID : **264330535254**
Option 2 ID : **264330535252**
Option 3 ID : **264330535251**
Option 4 ID : **264330535253**
Status : **Marked For Review**
Chosen Option : **2**

Q.19 Fill in the blank with the most appropriate option.

Societies need to develop highly _____ behavioural rules for survival.

Ans

✗ 1. matched

✗ 2. adopted

✗ 3. readjusted

✓ 4. adaptive

Question Type : **MCQ**
Question ID : **264330136638**
Option 1 ID : **264330535278**
Option 2 ID : **264330535277**
Option 3 ID : **264330535275**
Option 4 ID : **264330535276**
Status : **Answered**
Chosen Option : **4**

Q.20 Fill in the blank with the most appropriate option.

At first, it looked as _____ Uncle Vernon would manage to gloss the whole thing over.

Ans

✗ 1. thought

✗ 2. through

✓ 3. though

✗ 4. throughout

Question Type : **MCQ**
Question ID : **264330136619**
Option 1 ID : **264330535206**
Option 2 ID : **264330535203**
Option 3 ID : **264330535205**
Option 4 ID : **264330535204**
Status : **Answered**
Chosen Option : **4**

Join Telegram Group "HaryanaJobs.in"

Comprehension:

In the following passage some words have been deleted. Fill in the blanks with the help of the alternatives given. Select the most appropriate option for each number.

If you enjoy (1) _____ crime shows on TV, you know that fingerprints play a large role in (2) _____ people. But, you might be (3) _____ to find out that using fingerprints for identification is not a new science. In fact, it is very old (4) _____ back at least as far as 1885-1913 B.C.E. In Babylon, when people agreed to a business contract, they pressed their fingerprints into the clay in which the contract was written. (5) _____ have also been found on clay seals from ancient China.

SubQuestion No : 21

Q.21 Select the most appropriate option to fill in the blank No. 1.

Ans

✔ 1. watching

✘ 2. calling out

✘ 3. marking

✘ 4. writing

Question Type : **MCQ**
Question ID : **264330135802**
Option 1 ID : **264330532081**
Option 2 ID : **264330532079**
Option 3 ID : **264330532082**
Option 4 ID : **264330532080**
Status : **Answered**
Chosen Option : **1**

Comprehension:

In the following passage some words have been deleted. Fill in the blanks with the help of the alternatives given. Select the most appropriate option for each number.

If you enjoy (1) _____ crime shows on TV, you know that fingerprints play a large role in (2) _____ people. But, you might be (3) _____ to find out that using fingerprints for identification is not a new science. In fact, it is very old (4) _____ back at least as far as 1885-1913 B.C.E. In Babylon, when people agreed to a business contract, they pressed their fingerprints into the clay in which the contract was written. (5) _____ have also been found on clay seals from ancient China.

SubQuestion No : 22

Q.22 Select the most appropriate option to fill in the blank No. 2.

Ans

✘ 1. masking

✘ 2. pertaining

✘ 3. chortling

✔ 4. identifying

Question Type : **MCQ**
Question ID : **264330135803**
Option 1 ID : **264330532084**
Option 2 ID : **264330532086**
Option 3 ID : **264330532085**
Option 4 ID : **264330532083**
Status : **Answered**
Chosen Option : **4**

Join Telegram Group "HaryanaJobs.in"

Comprehension:

In the following passage some words have been deleted. Fill in the blanks with the help of the alternatives given. Select the most appropriate option for each number.

If you enjoy (1) _____ crime shows on TV, you know that fingerprints play a large role in (2) _____ people. But, you might be (3) _____ to find out that using fingerprints for identification is not a new science. In fact, it is very old (4) _____ back at least as far as 1885-1913 B.C.E. In Babylon, when people agreed to a business contract, they pressed their fingerprints into the clay in which the contract was written. (5) _____ have also been found on clay seals from ancient China.

SubQuestion No : 23

Q.23 Select the most appropriate option to fill in the blank No. 3.

Ans

✗ 1. certain

✗ 2. blocked

✗ 3. calculable

✓ 4. surprised

Question Type : **MCQ**
Question ID : **264330135804**
Option 1 ID : **264330532088**
Option 2 ID : **264330532089**
Option 3 ID : **264330532087**
Option 4 ID : **264330532090**
Status : **Answered**
Chosen Option : **4**

Comprehension:

In the following passage some words have been deleted. Fill in the blanks with the help of the alternatives given. Select the most appropriate option for each number.

If you enjoy (1) _____ crime shows on TV, you know that fingerprints play a large role in (2) _____ people. But, you might be (3) _____ to find out that using fingerprints for identification is not a new science. In fact, it is very old (4) _____ back at least as far as 1885-1913 B.C.E. In Babylon, when people agreed to a business contract, they pressed their fingerprints into the clay in which the contract was written. (5) _____ have also been found on clay seals from ancient China.

SubQuestion No : 24

Q.24 Select the most appropriate option to fill in the blank No. 4.

Ans

✗ 1. going

✓ 2. dating

✗ 3. portraying

✗ 4. stating

Question Type : **MCQ**
Question ID : **264330135805**
Option 1 ID : **264330532091**
Option 2 ID : **264330532092**
Option 3 ID : **264330532094**
Option 4 ID : **264330532093**
Status : **Answered**
Chosen Option : **1**

Join Telegram Group "HaryanaJobs.in"

Comprehension:

In the following passage some words have been deleted. Fill in the blanks with the help of the alternatives given. Select the most appropriate option for each number.

If you enjoy (1) _____ crime shows on TV, you know that fingerprints play a large role in (2) _____ people. But, you might be (3) _____ to find out that using fingerprints for identification is not a new science. In fact, it is very old (4) _____ back at least as far as 1885-1913 B.C.E. In Babylon, when people agreed to a business contract, they pressed their fingerprints into the clay in which the contract was written. (5) _____ have also been found on clay seals from ancient China.

SubQuestion No : 25

Q.25 Select the most appropriate option to fill in the blank No. 5.

Ans

✔ 1. Thumbprints

✘ 2. Sculptures

✘ 3. Footprints

✘ 4. Paintings

Question Type : **MCQ**
Question ID : **264330135806**
Option 1 ID : **264330532095**
Option 2 ID : **264330532097**
Option 3 ID : **264330532096**
Option 4 ID : **264330532098**
Status : **Answered**
Chosen Option : **1**

Join Telegram Group "HaryanaJobs.in"

Multi Tasking Non Technical Staff and Havaldar CBIC and CBN Examination 2022

Roll Number	HaryanaJobs.in
Candidate Name	HaryanaJobs.in
Venue Name	New Age Technologies
Exam Date	12/05/2023
Exam Time	9:00 AM - 10:30 AM
Subject	MTS Non Tech Havaldar CBIC and CBN Examination 2022

Section : **Numerical and Mathematical Ability**

Q.1 नीचे दी गई तालिका में 5 बल्लेबाजों द्वारा बनाए गए रनों की संख्या और खेली गई गेंदों की संख्या को दर्शाया गया है।

बल्लेबाज	बनाए गए रनों की संख्या	खेली गई गेंदों की संख्या
J	80	35
K	90	70
L	100	60
M	120	170
N	50	50

$$\text{Strike rate} = \frac{\text{Number of runs scored}}{\text{Number of balls played}} \times 100$$

स्ट्राइक रेट (Strike rate) = बनाए गए रनों की संख्या (Number of runs scored)/ खेली गई गेंदों की संख्या (Number of balls played) x 100

J का स्ट्राइक रेट, N के स्ट्राइक रेट का कितना प्रतिशत है?

Ans

✗ 1. 196.44 प्रतिशत

✗ 2. 182.36 प्रतिशत

✓ 3. 228.57 प्रतिशत

✗ 4. 242.24 प्रतिशत

Question Type : **MCQ**
Question ID : **264330137194**
Option 1 ID : **264330537422**
Option 2 ID : **264330537421**
Option 3 ID : **264330537420**
Option 4 ID : **264330537419**
Status : **Answered**
Chosen Option : **3**

Join Telegram Group "HaryanaJobs.in"

Q.2 Rs.450 की राशि पर 3.5% वार्षिक साधारण ब्याज दर पर Rs.47.25 का ब्याज प्राप्त करने में कितना समय लगेगा?

Ans
1. 4 वर्ष
2. 1 वर्ष
3. 3 वर्ष
4. 2 वर्ष

Question Type : **MCQ**
Question ID : **264330133637**
Option 1 ID : **264330523571**
Option 2 ID : **264330523574**
Option 3 ID : **264330523572**
Option 4 ID : **264330523573**
Status : **Answered**
Chosen Option : **3**

Q.3 25 × 7 ÷ 175 - 196 ÷ 14 × 2 + 625 ÷ 25 × 3 का मान क्या है?

Ans
1. 58
2. 28
3. 38
4. 48

Question Type : **MCQ**
Question ID : **264330137170**
Option 1 ID : **264330537323**
Option 2 ID : **264330537326**
Option 3 ID : **264330537324**
Option 4 ID : **264330537325**
Status : **Answered**
Chosen Option : **4**

Join Telegram Group "HaryanaJobs.in"

Q.4 निम्न दंड आलेख में विभिन्न विषयों में एक छात्र द्वारा कुल 100 अंकों में से प्राप्त अंकों को दर्शाया गया है। भौतिकी (physics) में प्राप्त अंक, गणित (mathematics) में प्राप्त अंकों से कितने प्रतिशत अधिक हैं?

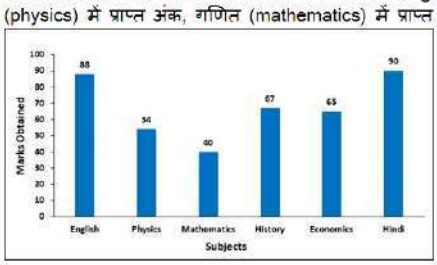

Subject - विषय, Marks Obtained - प्राप्त अंक, English - अंग्रेजी, Physics - भौतिकी, Mathematics - गणित, History - इतिहास, Economics - अर्थशास्त्र, Hindi - हिंदी

Ans

✔ 1. 35%

✘ 2. 33%

✘ 3. 28%

✘ 4. 44%

Question Type : **MCQ**
Question ID : **264330138430**
Option 1 ID : **264330542328**
Option 2 ID : **264330542329**
Option 3 ID : **264330542330**
Option 4 ID : **264330542327**
Status : **Answered**
Chosen Option : **1**

Q.5 टीना किसी काम को 15 दिनों में कर सकती है और मान्या उसी काम को 18 दिनों में कर सकती है। यदि वे दोनों साथ मिलकर 6 दिनों तक काम करती हैं, तो काम का कितना भाग शेष रह जाएगा?

Ans

✔ 1. 4/15

✘ 2. 11/30

✘ 3. 11/15

✘ 4. 8/15

Question Type : **MCQ**
Question ID : **264330133595**
Option 1 ID : **264330523405**
Option 2 ID : **264330523404**
Option 3 ID : **264330523403**
Option 4 ID : **264330523406**
Status : **Answered**
Chosen Option : **1**

Join Telegram Group "HaryanaJobs.in"

Q.6 एक दुकानदार एक थोक व्यापारी से Rs. 20 में 40 पेंसिल खरीदता है। वह उन पेंसिलों को 20 Rs. में 20 पेंसिल की दर से बेच देता है। उसका लाभ या हानि प्रतिशत क्या था?

Ans

✗ 1. 20% हानि

✗ 2. 50% लाभ

✗ 3. 80% हानि

✓ 4. 100% लाभ

Question Type : **MCQ**
Question ID : **264330141008**
Option 1 ID : **264330552379**
Option 2 ID : **264330552380**
Option 3 ID : **264330552381**
Option 4 ID : **264330552382**
Status : **Answered**
Chosen Option : **2**

Q.7 एक राशि पर 15 प्रतिशत वार्षिक दर से तीन माह का साधारण ब्याज Rs. 600 है। वह राशि क्या है?

Ans

✓ 1. Rs. 16000

✗ 2. Rs. 4000

✗ 3. Rs. 32000

✗ 4. Rs. 1600

Question Type : **MCQ**
Question ID : **264330138025**
Option 1 ID : **264330540709**
Option 2 ID : **264330540708**
Option 3 ID : **264330540710**
Option 4 ID : **264330540707**
Status : **Answered**
Chosen Option : **1**

Q.8 एक लड़की A से B तक 60 km/hr की चाल से जाती है और B से A तक 30 km/hr की चाल से वापस आती है। यदि पूरी यात्रा में 5 घंटे लगते हैं, तो A और B के बीच की दूरी कितनी है?

Ans

✗ 1. 90 km

✗ 2. 50 km

✗ 3. 200 km

✓ 4. 100 km

Question Type : **MCQ**
Question ID : **264330138351**
Option 1 ID : **264330542014**
Option 2 ID : **264330542013**
Option 3 ID : **264330542011**
Option 4 ID : **264330542012**
Status : **Answered**
Chosen Option : **3**

Join Telegram Group "HaryanaJobs.in"

Q.9 एक व्यक्ति ने 28 वस्तुएँ Rs. 2800 में बेचीं और उसे 20% की हानि हुई। 10% लाभ अर्जित करने के लिए उसे Rs. 4400 में कितनी वस्तुएँ बेचनी चाहिए?

Ans
✔ 1. 32
✘ 2. 40
✘ 3. 16
✘ 4. 24

Question Type : **MCQ**
Question ID : **264330138421**
Option 1 ID : **264330542292**
Option 2 ID : **264330542293**
Option 3 ID : **264330542291**
Option 4 ID : **264330542294**
Status : **Answered**
Chosen Option : **1**

Q.10 15 पुस्तकों को Rs. 2200 में बेचा गया जिससे 5 पुस्तकों का क्रय मूल्य प्राप्त हुआ। एक पुस्तक का क्रय मूल्य ज्ञात कीजिए।

Ans
✘ 1. Rs. 200
✘ 2. Rs. 210
✘ 3. Rs. 230
✔ 4. Rs. 110

Question Type : **MCQ**
Question ID : **264330138420**
Option 1 ID : **264330542289**
Option 2 ID : **264330542288**
Option 3 ID : **264330542290**
Option 4 ID : **264330542287**
Status : **Answered**
Chosen Option : **3**

Q.11 यदि एक गोले की त्रिज्या एक अर्धगोले की त्रिज्या का 3/4 है, तो गोले और अर्धगोले के आयतनों का अनुपात क्या होगा?

Ans
✘ 1. 9 : 16
✔ 2. 27 : 32
✘ 3. 51 : 64
✘ 4. 18 : 64

Question Type : **MCQ**
Question ID : **264330137336**
Option 1 ID : **264330537973**
Option 2 ID : **264330537971**
Option 3 ID : **264330537974**
Option 4 ID : **264330537972**
Status : **Answered**
Chosen Option : **2**

Join Telegram Group "HaryanaJobs.in"

Q.12 $24 + [33 + 40 \text{ of } \{3 \times (5 - 44 + 50)\}]$ का मान ज्ञात कीजिए।

Ans
1. 1250 ✗
2. 1442 ✗
3. 1331 ✗
4. 1377 ✓

Question Type : **MCQ**
Question ID : **264330138412**
Option 1 ID : **264330542255**
Option 2 ID : **264330542257**
Option 3 ID : **264330542258**
Option 4 ID : **264330542256**
Status : **Answered**
Chosen Option : **4**

Q.13 एक आयताकार टंकी के आधार का क्षेत्रफल 720 m^2 है और इसमें भरे पानी का आयतन 28800 m^3 है। टंकी में पानी की गहराई कितनी है?

Ans
1. 50 m ✗
2. 30 m ✗
3. 60 m ✗
4. 40 m ✓

Question Type : **MCQ**
Question ID : **264330133600**
Option 1 ID : **264330523425**
Option 2 ID : **264330523423**
Option 3 ID : **264330523426**
Option 4 ID : **264330523424**
Status : **Answered**
Chosen Option : **4**

Q.14 एक संख्या को 5:7 के अनुपात में विभाजित किया गया है। प्रत्येक संख्या में 6 जोड़ने पर अनुपात 7:9 हो जाता है। बड़ी संख्या ज्ञात कीजिए।

Ans
1. 21 ✓
2. 18 ✗
3. 12 ✗
4. 15 ✗

Question Type : **MCQ**
Question ID : **264330138422**
Option 1 ID : **264330542296**
Option 2 ID : **264330542297**
Option 3 ID : **264330542298**
Option 4 ID : **264330542295**
Status : **Answered**
Chosen Option : **1**

Join Telegram Group "HaryanaJobs.in"

Q.15 एक लड़का स्थिर जल में 40 km/hr की चाल से तैर सकता है। यदि धारा की चाल 15 km/hr होती, तो उस लड़के को धारा के प्रतिकूल 25 km तैरने में कितना समय लगेगा।

Ans
1. 2.5 घंटे ✗
2. 2 घंटे ✗
3. 3 घंटे ✗
4. 1 घंटा ✓

Question Type : **MCQ**
Question ID : **264330138426**
Option 1 ID : **264330542313**
Option 2 ID : **264330542312**
Option 3 ID : **264330542314**
Option 4 ID : **264330542311**
Status : **Answered**
Chosen Option : **4**

Q.16 $\frac{(45 \times 3 \div 27 \times 4)(81 \div 5 \times 85 \div 51)}{(108 \div 18 \times 7 \div 21)(133 \times 3 \div 38 \times 4)}$ का मान क्या है?

Ans
1. 39/7 ✗
2. 45/7 ✓
3. 54/7 ✗
4. 46/7 ✗

Question Type : **MCQ**
Question ID : **264330137193**
Option 1 ID : **264330537417**
Option 2 ID : **264330537416**
Option 3 ID : **264330537415**
Option 4 ID : **264330537418**
Status : **Answered**
Chosen Option : **2**

Q.17 यदि x का 40 प्रतिशत = 20 का 25 प्रतिशत है, तो x का मान क्या है?

Ans
1. 12.5 ✓
2. 22.5 ✗
3. 20 ✗
4. 17.5 ✗

Question Type : **MCQ**
Question ID : **264330138020**
Option 1 ID : **264330540687**
Option 2 ID : **264330540689**
Option 3 ID : **264330540690**
Option 4 ID : **264330540688**
Status : **Answered**
Chosen Option : **1**

Join Telegram Group "HaryanaJobs.in"

Q.18 कुछ बढ़इयों (carpenters) ने एक कार्य को 20 दिनों में पूरा करने का वादा किया। जब कार्य शुरू हुआ, तो उनमें से 8 बढ़ई अनुपस्थित थे और शेष बढ़इयों ने 40 दिनों में कार्य को पूरा किया। बढ़इयों की मूल संख्या कितनी थी?

Ans

✗ 1. 10

✗ 2. 12

✓ 3. 16

✗ 4. 18

Question Type : **MCQ**
Question ID : **264330137321**
Option 1 ID : **264330537912**
Option 2 ID : **264330537913**
Option 3 ID : **264330537911**
Option 4 ID : **264330537914**
Status : **Answered**
Chosen Option : **3**

Q.19 यदि 10 और x का तृतीय समानुपाती 90 है और 12 और y का तृतीय समानुपाती 27 है, तो (x + y) का मान ज्ञात कीजिए।

Ans

✗ 1. 50

✗ 2. 44

✓ 3. 48

✗ 4. 56

Question Type : **MCQ**
Question ID : **264330138423**
Option 1 ID : **264330542302**
Option 2 ID : **264330542300**
Option 3 ID : **264330542299**
Option 4 ID : **264330542301**
Status : **Answered**
Chosen Option : **3**

Q.20 70 छात्रों की एक कक्षा में, 70% लड़कियाँ हैं और शेष लड़के हैं। यदि लड़कियों के अंकों का औसत 30 और लड़कों के अंकों का औसत 40 है, तो पूरी कक्षा के औसत अंक कितने हैं?

Ans

✗ 1. 38

✗ 2. 35

✗ 3. 30

✓ 4. 33

Question Type : **MCQ**
Question ID : **264330138415**
Option 1 ID : **264330542270**
Option 2 ID : **264330542269**
Option 3 ID : **264330542267**
Option 4 ID : **264330542268**
Status : **Answered**
Chosen Option : **4**

Section : **Reasoning Ability and Problem Solving**

Join Telegram Group "HaryanaJobs.in"

Q.1 एक निश्चित कूट भाषा में, 'EDITOR' को 'CBGQLO' लिखा जाता है। उस कूट भाषा में 'FOLDER' को कैसे लिखा जाएगा?

Ans

1. DMJABR ✗
2. BMJBCR ✗
3. DMJACO ✗
4. DMJABO ✓

Question Type : **MCQ**
Question ID : **264330138544**
Option 1 ID : **264330542784**
Option 2 ID : **264330542786**
Option 3 ID : **264330542783**
Option 4 ID : **264330542785**
Status : **Answered**
Chosen Option : **3**

Q.2 आठ सहेलियाँ मानसी, श्वेता, मोनिका, पायल, आरती, काजल, लक्ष्मी और रानी एक वृत्ताकार मेज के चारों ओर केंद्र की ओर मुख करके बैठी हैं (परंतु जरूरी नहीं कि वे इसी क्रम में बैठीं हों)। मानसी, मोनिका के बाईं ओर से तीसरे स्थान पर है। आरती, मोनिका के दाईं ओर से दूसरे स्थान पर है। श्वेता, पायल के बाईं ओर से चौथे स्थान पर है। पायल, मानसी के बाईं ओर से दूसरे स्थान पर है। रानी, काजल के दाईं ओर से तीसरे स्थान पर है। काजल, मानसी की निकटतम पड़ोसी नहीं है। काजल के दाईं ओर से दूसरे स्थान पर कौन है?

Ans

1. रानी ✗
2. लक्ष्मी ✗
3. पायल ✓
4. आरती ✗

Question Type : **MCQ**
Question ID : **264330138527**
Option 1 ID : **264330542717**
Option 2 ID : **264330542715**
Option 3 ID : **264330542718**
Option 4 ID : **264330542716**
Status : **Answered**
Chosen Option : **3**

Q.3 छः लड़कियाँ मानसी, श्वेता, मोनिका, पायल, आरती और काजल एक वृत्ताकार मेज के चारों ओर केंद्र की ओर मुख करके बैठी हैं (परंतु जरूरी नहीं कि वे इसी क्रम में बैठीं हों)। काजल, मानसी के ठीक बाईं ओर है। श्वेता, मानसी के बाईं ओर से तीसरे स्थान पर है। पायल, काजल के दाईं ओर से दूसरे स्थान पर है। मोनिका, मानसी के बाईं ओर से दूसरे स्थान पर नहीं है। मानसी के दाईं ओर से दूसरे स्थान पर कौन है?

Ans

1. काजल ✗
2. पायल ✗
3. श्वेता ✗
4. मोनिका ✓

Question Type : **MCQ**
Question ID : **264330138526**
Option 1 ID : **264330542714**
Option 2 ID : **264330542713**
Option 3 ID : **264330542711**
Option 4 ID : **264330542712**
Status : **Answered**
Chosen Option : **4**

Join Telegram Group "HaryanaJobs.in"

Q.4 निम्नलिखित प्रश्न में कुछ कथन दिए गए हैं और उन कथनों के आधार पर कुछ निष्कर्ष दिए गए हैं। आपको यह मानना है कि दिए गए कथन सत्य हैं चाहे वे समान्यतः ज्ञात तथ्यों से अलग प्रतीत होते हों। सभी निष्कर्षों को पढ़िए और फिर निश्चय कीजिए कि दिए गए निष्कर्षों में से कौन-सा निष्कर्ष तार्किक रूप से दिए गए कथनों के अनुसार है।

कथन:

I. कुछ खिलौने, छोटे हैं।

II कुछ लंबे, खिलौने हैं।

निष्कर्ष:

I. कुछ छोटे, खिलौने हैं।

II सभी छोटे, लंबे हैं।

Ans

✔ 1. केवल निष्कर्ष I कथनों के अनुसार है

✘ 2. केवल निष्कर्ष II कथनों के अनुसार है

✘ 3. कोई भी निष्कर्ष कथनों के अनुसार नहीं है

✘ 4. दोनों निष्कर्ष I और II कथनों के अनुसार हैं

Question Type : **MCQ**
Question ID : **264330138529**
Option 1 ID : **264330542723**
Option 2 ID : **264330542724**
Option 3 ID : **264330542726**
Option 4 ID : **264330542725**
Status : **Answered**
Chosen Option : **1**

Q.5 उस विकल्प को चुनिए जो तीसरी संख्या से ठीक उसी तरह संबंधित है जिस तरह दूसरी संख्या पहली संख्या से संबंधित है।

20 : 30 :: 100 : ?

Ans

✔ 1. 150

✘ 2. 1480

✘ 3. 210

✘ 4. 140

Question Type : **MCQ**
Question ID : **264330137823**
Option 1 ID : **264330539902**
Option 2 ID : **264330539901**
Option 3 ID : **264330539900**
Option 4 ID : **264330539899**
Status : **Answered**
Chosen Option : **1**

Join Telegram Group "HaryanaJobs.in"

Q.6 उस विकल्प को चुनिए जो पाँचवे पद से ठीक उसी प्रकार संबंधित है जिस प्रकार दूसरा पद पहले पद से संबंधित है और चौथा पद तीसरे पद से संबंधित है।

AR9 : DN81 :: PS4 : SO16 :: MT9 :?

Ans
1. PP81
2. PQ81
3. PP729
4. PR729

Question Type : **MCQ**
Question ID : **264330138521**
Option 1 ID : **264330542691**
Option 2 ID : **264330542692**
Option 3 ID : **264330542694**
Option 4 ID : **264330542693**
Status : **Answered**
Chosen Option : **1**

Q.7 उस विकल्प को चुनिए जिसमें समुच्चय की संख्याएँ वही संबंध साझा करती हैं जो दिए गए समुच्चय में संख्याओं द्वारा साझा किया जाता है।(ध्यान दें: संख्याओं को उनके घटक अंकों में अलग-अलग किए बिना, पूर्ण संख्याओं पर संक्रियाएँ की जानी चाहिए। उदा. 13 - 13 पर संक्रियाएँ जैसे 13 को जोड़ना /घटाना /गुणा करना आदि किया जा सकता है। 13 को 1 और 3 में अलग-अलग करने की और फिर 1 और 3 पर गणितीय संक्रियाएँ करने की अनुमति नहीं है)

(10, 50, 250)

(20, 100, 500)

Ans
1. (10, 50, 200)
2. (8, 40, 200)
3. (20, 80, 500)
4. (14, 70, 300)

Question Type : **MCQ**
Question ID : **264330138534**
Option 1 ID : **264330542744**
Option 2 ID : **264330542743**
Option 3 ID : **264330542746**
Option 4 ID : **264330542745**
Status : **Answered**
Chosen Option : **2**

Q.8 किन दो चिन्हों को आपस में बदलने पर, निम्न समीकरण सही होगा?

21 - 7 × 4 ÷ 10 + 2 = 4

Ans
1. + और -
2. - और ÷
3. - और ×
4. × और ÷

Question Type : **MCQ**
Question ID : **264330138535**
Option 1 ID : **264330542747**
Option 2 ID : **264330542749**
Option 3 ID : **264330542748**
Option 4 ID : **264330542750**
Status : **Answered**
Chosen Option : **2**

Join Telegram Group "HaryanaJobs.in"

Q.9 निम्नलिखित प्रश्न में, दी गई श्रृंखला में लुप्त संख्या चुनिए।

17, 19, 23, 29, 31,?

Ans
1. 30
2. 40
3. 47
4. 37

Question Type : **MCQ**
Question ID : **264330138532**
Option 1 ID : **264330542735**
Option 2 ID : **264330542737**
Option 3 ID : **264330542738**
Option 4 ID : **264330542736**
Status : **Answered**
Chosen Option : **4**

Q.10 (::) के बाईं ओर दिए गए शब्द आपस में किसी तर्क/नियम/संबंध द्वारा संबंधित हैं। समान तर्क/नियम/संबंध के आधार पर दिए गए विकल्पों में से (::) के दाईं ओर लुप्त शब्द/शब्द युग्म को चुनिए।

ठेला (Cart): पहिया ::?

Ans
1. घर : कमरा
2. विद्यार्थी : कक्षा
3. पेडल: साइकिल
4. अध्याय : पुस्तक

Question Type : **MCQ**
Question ID : **264330138522**
Option 1 ID : **264330542695**
Option 2 ID : **264330542698**
Option 3 ID : **264330542696**
Option 4 ID : **264330542697**
Status : **Answered**
Chosen Option : **1**

Join Telegram Group "HaryanaJobs.in"

Q.11 दी गई आकृति के उस सही दर्पण प्रतिबिंब को चुनिए, जो नीचे दर्शाए गए अनुसार दर्पण को MN पर रखने पर बनेगा।

Ans

✗ 1.

✓ 2.

✗ 3.

✗ 4.

Question Type : **MCQ**
Question ID : **264330137363**
Option 1 ID : **264330538081**
Option 2 ID : **264330538079**
Option 3 ID : **264330538082**
Option 4 ID : **264330538080**
Status : **Answered**
Chosen Option : **2**

Q.12 एक निश्चित कूट भाषा में, 'DEAL' को '22' लिखा जाता है, 'EACH' को '17' लिखा जाता है। उस कूट भाषा में 'HALF' को कैसे लिखा जाएगा?

Ans

✗ 1. 25

✓ 2. 27

✗ 3. 24

✗ 4. 26

Question Type : **MCQ**
Question ID : **264330135598**
Option 1 ID : **264330531294**
Option 2 ID : **264330531293**
Option 3 ID : **264330531291**
Option 4 ID : **264330531292**
Status : **Answered**
Chosen Option : **2**

Join Telegram Group "HaryanaJobs.in"

Q.13 कौन-सी उत्तर आकृति प्रश्न आकृति में दिए गए पैटर्न को पूरा करेगी?



Ans

✗ 1. 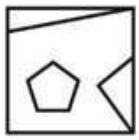

✓ 2. 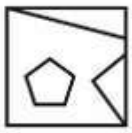

✗ 3.

✗ 4.

Question Type : **MCQ**
Question ID : **264330138539**
Option 1 ID : **264330542766**
Option 2 ID : **264330542763**
Option 3 ID : **264330542765**
Option 4 ID : **264330542764**
Status : **Answered**
Chosen Option : **2**

Q.14 पाँच कारों A, L, J, M और T के मूल्यों की तुलना की जाती है। A का मूल्य सबसे कम है। कोई भी दो कारों का मूल्य समान नहीं है। J का मूल्य T, L और M से कम है। न तो T और न ही L का मूल्य सबसे अधिक है। T का मूल्य L से कम है। कितनी कारों का मूल्य T के मूल्य से अधिक है?

Ans

✗ 1. 0

✗ 2. 1

✓ 3. 2

✗ 4. 3

Question Type : **MCQ**
Question ID : **264330138528**
Option 1 ID : **264330542719**
Option 2 ID : **264330542721**
Option 3 ID : **264330542722**
Option 4 ID : **264330542720**
Status : **Answered**
Chosen Option : **3**

Join Telegram Group "HaryanaJobs.in"

Q.15 निम्नलिखित प्रश्न में कुछ कथन दिए गए हैं और उन कथनों के आधार पर कुछ निष्कर्ष दिए गए हैं। आपको यह मानना है कि दिए गए कथन सत्य हैं चाहे वे समान्यतः ज्ञात तथ्यों से अलग प्रतीत होते हों। सभी निष्कर्षों को पढ़िए और फिर निश्चय कीजिए कि दिए गए निष्कर्षों में से कौन-सा निष्कर्ष तार्किक रूप से दिए गए कथनों के अनुसार है।

कथन:

I. सभी G, K हैं।

II कुछ K, T हैं।

निष्कर्ष:

I. कोई T, G नहीं है।

II कोई K, T नहीं है।

III सभी K, G हैं।

Ans

✗ 1. दोनों निष्कर्ष I और III कथनों के अनुसार हैं

✓ 2. कोई भी निष्कर्ष कथनों के अनुसार नहीं है

✗ 3. दोनों निष्कर्ष II और III कथनों के अनुसार हैं

✗ 4. दोनों निष्कर्ष I और II कथनों के अनुसार हैं

Question Type : **MCQ**
Question ID : **264330138530**
Option 1 ID : **264330542728**
Option 2 ID : **264330542727**
Option 3 ID : **264330542729**
Option 4 ID : **264330542730**
Status : **Answered**
Chosen Option : **2**

Q.16 एक श्रृंखला दी गई है जिसमें एक पद लुप्त है। दिए गए विकल्पों में से उस सही विकल्प को चुनिए जो श्रृंखला को पूरा करेगा।

ANS, CJU, EFW, GBY,?

Ans

✗ 1. JXB

✗ 2. JWA

✗ 3. IWA

✓ 4. IXA

Question Type : **MCQ**
Question ID : **264330138519**
Option 1 ID : **264330542683**
Option 2 ID : **264330542686**
Option 3 ID : **264330542684**
Option 4 ID : **264330542685**
Status : **Answered**
Chosen Option : **4**

Join Telegram Group "HaryanaJobs.in"

Q.17 दिए गए समीकरण को सही करने के लिए किन दो चिन्हों को आपस में बदला जाना चाहिए?
8 - 9 + 24 × 63 = 33

Ans
1. - और +
2. = और +
3. × और -
4. - और =

Question Type : **MCQ**
Question ID : **264330133382**
Option 1 ID : **264330522562**
Option 2 ID : **264330522561**
Option 3 ID : **264330522559**
Option 4 ID : **264330522560**
Status : **Answered**
Chosen Option : **3**

Q.18 दी गई श्रृंखला में निम्नलिखित में से कौन-सी संख्या प्रश्न चिन्ह (?) के स्थान पर आएगी?
-7, -6, -4, -1, 3, 8, 14, ?

Ans
1. 21
2. 26
3. 18
4. 24

Question Type : **MCQ**
Question ID : **264330137821**
Option 1 ID : **264330539892**
Option 2 ID : **264330539891**
Option 3 ID : **264330539893**
Option 4 ID : **264330539894**
Status : **Answered**
Chosen Option : **1**

Q.19 एक निश्चित कूट भाषा में, 'DUGPS' को '4377T' लिखा जाता है। उस कूट भाषा में 'AEMJQ' को कैसे लिखा जाएगा?

Ans
1. 1541R
2. 1641R
3. 1R54R
4. 1249R

Question Type : **MCQ**
Question ID : **264330133701**
Option 1 ID : **264330523828**
Option 2 ID : **264330523827**
Option 3 ID : **264330523830**
Option 4 ID : **264330523829**
Status : **Answered**
Chosen Option : **1**

Join Telegram Group "HaryanaJobs.in"

Q.20 उस विकल्प आकृति को चुनिए जिसमें दी गई आकृति उसके भाग के रूप में निहित है (घूर्णन की अनुमति नहीं है)।

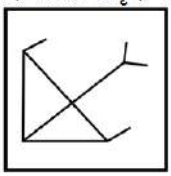

Ans

✗ 1.



✗ 2.

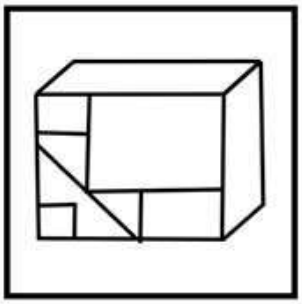

✗ 3.

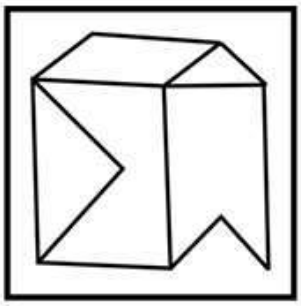

✓ 4.

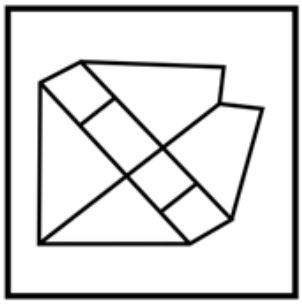

Question Type : **MCQ**
Question ID : **264330137362**
Option 1 ID : **264330538077**
Option 2 ID : **264330538075**
Option 3 ID : **264330538078**
Option 4 ID : **264330538076**
Status : **Answered**
Chosen Option : **4**

Section : **General Awareness**

Join Telegram Group "HaryanaJobs.in"

Q.1 किस नृत्यांगना को कला में उनके योगदान के लिए वर्ष 2021 में पद्म श्री (Padma Shri) पुरस्कार से सम्मानित किया गया था?

Ans
1. अलारमेल वल्ली (Alarmel Valli)
2. मंजम्मा जोगती (Manjamma Jogati)
3. अपर्णा सतीसन (Aparna Satheesan)
4. पिउली पति (Piuli Pati)

Question Type : **MCQ**
Question ID : **264330134075**
Option 1 ID : **264330525326**
Option 2 ID : **264330525325**
Option 3 ID : **264330525324**
Option 4 ID : **264330525323**
Status : **Answered**
Chosen Option : **2**

Q.2 ओजोन परत वायुमंडल की निम्नलिखित में से किस परत में पाई जाती है?

Ans
1. मध्यमंडल
2. बाह्यमंडल
3. क्षोभमंडल
4. समताप मंडल

Question Type : **MCQ**
Question ID : **264330137927**
Option 1 ID : **264330540316**
Option 2 ID : **264330540318**
Option 3 ID : **264330540317**
Option 4 ID : **264330540315**
Status : **Answered**
Chosen Option : **4**

Q.3 बांदीपुर राष्ट्रीय उद्यान निम्नलिखित में से किस राज्य में स्थित है?

Ans
1. कर्नाटक
2. आंध्रप्रदेश
3. तमिलनाडु
4. केरल

Question Type : **MCQ**
Question ID : **264330137926**
Option 1 ID : **264330540312**
Option 2 ID : **264330540314**
Option 3 ID : **264330540313**
Option 4 ID : **264330540311**
Status : **Answered**
Chosen Option : **1**

Join Telegram Group "HaryanaJobs.in"

Q.4 निम्नलिखित में से किसे भारतीय क्रिकेट कंट्रोल बोर्ड द्वारा नवंबर 2022 में न्यूजीलैंड में तीन मैचों की T20 श्रृंखला के लिए कप्तान के रूप में नामित किया गया था?

Ans
1. विराट कोहली
2. हार्दिक पण्ड्या
3. शिखर धवन
4. ऋषभ पंत

Question Type : **MCQ**
Question ID : **264330137942**
Option 1 ID : **264330540375**
Option 2 ID : **264330540378**
Option 3 ID : **264330540376**
Option 4 ID : **264330540377**
Status : **Answered**
Chosen Option : **4**

Q.5 भारत में पश्चिमी चक्रवाती विक्षोभ का प्रवेश पश्चिमी प्रवाह द्वारा किस क्षेत्र से होता है?

Ans
1. दक्षिण-अफ्रीकी क्षेत्र (South-African region)
2. भूमध्यसागरीय क्षेत्र (Mediterranean region)
3. दक्षिण-अमेरिकी क्षेत्र (South-American region)
4. पूर्वी यूरोपीय क्षेत्र (Eastern European region)

Question Type : **MCQ**
Question ID : **264330138314**
Option 1 ID : **264330541864**
Option 2 ID : **264330541865**
Option 3 ID : **264330541863**
Option 4 ID : **264330541866**
Status : **Answered**
Chosen Option : **1**

Q.6 देश में उत्पादित वस्तुओं पर लगाए गए कर _____ कहलाते हैं।

Ans
1. उत्पादन कर
2. संपत्ति कर
3. एंटी-डंपिंग कर
4. सीमा शुल्क

Question Type : **MCQ**
Question ID : **264330134080**
Option 1 ID : **264330525345**
Option 2 ID : **264330525343**
Option 3 ID : **264330525344**
Option 4 ID : **264330525346**
Status : **Answered**
Chosen Option : **1**

Join Telegram Group "HaryanaJobs.in"

Q.7 _____ एक पंचायत के क्षेत्र में रहने वाले सभी वयस्कों की सभा होती है।

Ans
✔ 1. ग्राम सभा
✘ 2. विधान सभा
✘ 3. लोक सभा
✘ 4. राज्य सभा

Question Type : **MCQ**
Question ID : **264330133867**
Option 1 ID : **264330524491**
Option 2 ID : **264330524492**
Option 3 ID : **264330524493**
Option 4 ID : **264330524494**
Status : **Answered**
Chosen Option : **1**

Q.8 _____ को केरल के नववर्ष के रूप में मनाया जाता है।

Ans
✘ 1. ओणम
✔ 2. विशु
✘ 3. बोनालु
✘ 4. पोंगल

Question Type : **MCQ**
Question ID : **264330137064**
Option 1 ID : **264330536901**
Option 2 ID : **264330536902**
Option 3 ID : **264330536899**
Option 4 ID : **264330536900**
Status : **Answered**
Chosen Option : **1**

Q.9 निम्नलिखित में से कौन वर्ष 1773 से 1785 तक भारत के गवर्नर-जनरल थे?

Ans
✘ 1. विलियम बेंटिंक
✔ 2. वारेन हेस्टिंग्स
✘ 3. लॉर्ड माउंटबेटन
✘ 4. लॉर्ड डलहौजी

Question Type : **MCQ**
Question ID : **264330133879**
Option 1 ID : **264330524539**
Option 2 ID : **264330524540**
Option 3 ID : **264330524542**
Option 4 ID : **264330524541**
Status : **Answered**
Chosen Option : **2**

Join Telegram Group "HaryanaJobs.in"

Q.10 महाकाव्य 'पद्मावत(Padmavat)' के लेखक कौन हैं?

Ans
1. अल बिरूनी (Al-Biruni)
2. मलिक मोहम्मद जायसी (Malik Muhammad Jayasi)
3. कुलदीप नैयर (Kuldeep Nayyar)
4. कालिदास(Kalidasa)

Question Type : **MCQ**
Question ID : **264330134073**
Option 1 ID : **264330525318**
Option 2 ID : **264330525317**
Option 3 ID : **264330525316**
Option 4 ID : **264330525315**
Status : **Answered**
Chosen Option : **2**

Q.11 फातिमा शेख को _____ के रूप में व्यापक रूप से जाना जाता था।

Ans
1. भारत की पहली महिला मुस्लिम उद्यमी
2. भारत की पहली महिला चिकित्सक
3. भारत की पहली महिला मुस्लिम शिक्षिका
4. भारत की पहली महिला अभियंता

Question Type : **MCQ**
Question ID : **264330138304**
Option 1 ID : **264330541824**
Option 2 ID : **264330541826**
Option 3 ID : **264330541823**
Option 4 ID : **264330541825**
Status : **Not Answered**
Chosen Option : **--**

Q.12 वर्ष 2022 के शीतकालीन ओलंपिक के लिए क्वालीफाई होने वाले एकमात्र भारतीय कौन थे?

Ans
1. शिव केशवन
2. आरिफ मोहम्मद खान
3. नदीम इकबाल
4. हिमांशु ठाकुर

Question Type : **MCQ**
Question ID : **264330138299**
Option 1 ID : **264330541805**
Option 2 ID : **264330541803**
Option 3 ID : **264330541806**
Option 4 ID : **264330541804**
Status : **Not Answered**
Chosen Option : **--**

Join Telegram Group "HaryanaJobs.in"

Q.13 1867 में, केशव चंद्र सेन ने _____ में प्रार्थना समाज की स्थापना करने में सहायता की।

Ans
1. कलकत्ता
2. मद्रास
3. बॉम्बे
4. पुणे

Question Type : **MCQ**
Question ID : **264330137077**
Option 1 ID : **264330536953**
Option 2 ID : **264330536951**
Option 3 ID : **264330536952**
Option 4 ID : **264330536954**
Status : **Answered**
Chosen Option : **3**

Q.14 निम्नलिखित में से चंद्रगुप्त द्वितीय के दरबार के नवरत्नों में से किसने 'मंत्रशास्त्र (Mantrashastra)' लिखा था?

Ans
1. घटकर्पर (Ghatakarapara)
2. अमरसिम्हा (Amarasimha)
3. कालिदास (Kalidasa)
4. वेताल भट्ट (Vetala Bhatta)

Question Type : **MCQ**
Question ID : **264330137074**
Option 1 ID : **264330536942**
Option 2 ID : **264330536941**
Option 3 ID : **264330536939**
Option 4 ID : **264330536940**
Status : **Answered**
Chosen Option : **3**

Q.15 पहल (PAHAL) योजना के तहत घरेलू उपभोक्ता को एलपीजी(LPG) सब्सिडी _____ द्वारा दी जाती है।

Ans
1. आवास और शहरी मामलों के मंत्रालय
2. उपभोक्ता मामले मंत्रालय
3. पेट्रोलियम एवं प्राकृतिक गैस मंत्रालय
4. वित्त मंत्रालय

Question Type : **MCQ**
Question ID : **264330138305**
Option 1 ID : **264330541827**
Option 2 ID : **264330541828**
Option 3 ID : **264330541830**
Option 4 ID : **264330541829**
Status : **Answered**
Chosen Option : **1**

Join Telegram Group "HaryanaJobs.in"

Q.16 जनसंख्या के घनत्व को _____ द्वारा अभिव्यक्त किया जाता है।

Ans
1. प्रति इकाई क्षेत्र में साक्षर व्यक्तियों की संख्या
2. प्रति इकाई क्षेत्र में व्यक्तियों की संख्या
3. प्रति इकाई क्षेत्र में पशुओं और व्यक्तियों की संख्या
4. प्रति इकाई क्षेत्र में ग्रामीण व्यक्तियों की संख्या

Question Type : **MCQ**
Question ID : **264330138693**
Option 1 ID : **264330543381**
Option 2 ID : **264330543379**
Option 3 ID : **264330543382**
Option 4 ID : **264330543380**
Status : **Answered**
Chosen Option : **2**

Q.17 मुगल साम्राज्य के सेनापति जय सिंह प्रथम और शिवाजी के बीच पुरंदर की संधि कब हुई थी?

Ans
1. 1665
2. 1702
3. 1639
4. 1681

Question Type : **MCQ**
Question ID : **264330137933**
Option 1 ID : **264330540341**
Option 2 ID : **264330540340**
Option 3 ID : **264330540342**
Option 4 ID : **264330540339**
Status : **Answered**
Chosen Option : **1**

Q.18 निम्नलिखित में से किस अनुच्छेद में "शोषण के विरुद्ध अधिकार" का उल्लेख है?

Ans
1. अनुच्छेद 29 - 30
2. अनुच्छेद 25 - 28
3. अनुच्छेद 23 - 24
4. अनुच्छेद 32 - 35

Question Type : **MCQ**
Question ID : **264330138308**
Option 1 ID : **264330541840**
Option 2 ID : **264330541841**
Option 3 ID : **264330541839**
Option 4 ID : **264330541842**
Status : **Answered**
Chosen Option : **3**

Join Telegram Group "HaryanaJobs.in"

Q.19 लौह स्तंभ निम्नलिखित में से किस जगह स्थित है?

Ans
1. कोलकाता
2. दिल्ली
3. चेन्नई
4. जयपुर

Question Type : **MCQ**
Question ID : **264330133858**
Option 1 ID : **264330524455**
Option 2 ID : **264330524456**
Option 3 ID : **264330524457**
Option 4 ID : **264330524458**
Status : **Answered**
Chosen Option : **4**

Q.20 अरुणाचल प्रदेश का तापू नृत्य (Tapu dance) _____ के सदस्यों द्वारा किया जाता है।

Ans
1. गरासिया जनजाति (Garasia Tribe)
2. आदि जनजाति (Adi Tribe)
3. मुंडा जनजाति (Munda tribe)
4. डामोर जनजाति (Damor Tribe)

Question Type : **MCQ**
Question ID : **264330138296**
Option 1 ID : **264330541794**
Option 2 ID : **264330541792**
Option 3 ID : **264330541791**
Option 4 ID : **264330541793**
Status : **Not Answered**
Chosen Option : **--**

Q.21 निम्नलिखित में से कौन-सी एक अधातु है जो विभिन्न रूपों में पाई जाती है?

Ans
1. कार्बन
2. पोटैशियम
3. पारा
4. लीथियम

Question Type : **MCQ**
Question ID : **264330137924**
Option 1 ID : **264330540303**
Option 2 ID : **264330540305**
Option 3 ID : **264330540306**
Option 4 ID : **264330540304**
Status : **Answered**
Chosen Option : **1**

Join Telegram Group "HaryanaJobs.in"

Q.22 फूल के अंतरतम भाग को _____ कहा जाता है।

Ans
1. बाह्यदल ✗
2. पुंकेसर ✗
3. पंखुड़ियाँ ✗
4. स्त्रीकेसर ✓

Question Type : **MCQ**
Question ID : **264330138309**
Option 1 ID : **264330541844**
Option 2 ID : **264330541846**
Option 3 ID : **264330541845**
Option 4 ID : **264330541843**
Status : **Answered**
Chosen Option : **4**

Q.23 "भारत के सर्वोच्च न्यायालय" के स्थान से संबंधित प्रावधानों का उल्लेख किस अनुच्छेद में किया गया है?

Ans
1. अनुच्छेद 129 ✗
2. अनुच्छेद 131 ✗
3. अनुच्छेद 132 ✗
4. अनुच्छेद 130 ✓

Question Type : **MCQ**
Question ID : **264330134605**
Option 1 ID : **264330527375**
Option 2 ID : **264330527377**
Option 3 ID : **264330527378**
Option 4 ID : **264330527376**
Status : **Not Answered**
Chosen Option : **--**

Q.24 अल्ला रक्खा ने 12 साल की उम्र में महान गुरु (उस्ताद) मियां कादिर बख्श की शागिर्दी में एक संगीत वाद्ययंत्र सीखने के लिए घर छोड़ दिया था। वह _____ के एक प्रसिद्ध वादक बने।

Ans
1. सरोद ✗
2. तबला ✓
3. सारंगी ✗
4. सितार ✗

Question Type : **MCQ**
Question ID : **264330138302**
Option 1 ID : **264330541815**
Option 2 ID : **264330541817**
Option 3 ID : **264330541818**
Option 4 ID : **264330541816**
Status : **Answered**
Chosen Option : **2**

Join Telegram Group "HaryanaJobs.in"

Q.25 भारतीय सीमाओं पर सड़कों के विकास और अनुरक्षण के लिए कौन-सा संगठन जिम्मेदार है?

Ans
1. पूर्वी सड़क मार्ग संगठन
2. राष्ट्रीय हरित राजमार्ग परियोजना
3. सीमा सड़क संगठन
4. पश्चिमी सड़क मार्ग संगठन

Question Type : **MCQ**
Question ID : **264330134065**
Option 1 ID : **264330525285**
Option 2 ID : **264330525284**
Option 3 ID : **264330525283**
Option 4 ID : **264330525286**
Status : **Answered**
Chosen Option : **3**

Section : **English Language and Comprehension**

Q.1 Identify the segment that contains a grammatical error. If there is no error, select 'No error'.

Even if a evidence was / relevant to the case, it couldn't / be used to determine the reprobate.

Ans
1. be used to determine the reprobate.
2. relevant to the case, it couldn't
3. No error
4. Even if a evidence was,

Question Type : **MCQ**
Question ID : **264330136667**
Option 1 ID : **264330535389**
Option 2 ID : **264330535388**
Option 3 ID : **264330535390**
Option 4 ID : **264330535387**
Status : **Answered**
Chosen Option : **4**

Q.2 Select the most appropriate antonym to substitute the bracketed word in the given sentence.

For years he pursued a (vendetta) against the Morris family.

Ans
1. traduce
2. conflict
3. tirade
4. harmony

Question Type : **MCQ**
Question ID : **264330136684**
Option 1 ID : **264330535454**
Option 2 ID : **264330535452**
Option 3 ID : **264330535453**
Option 4 ID : **264330535451**
Status : **Answered**
Chosen Option : **4**

Join Telegram Group "HaryanaJobs.in"

Q.3 Select the most appropriate meaning of the bracketed idiom in the given sentence.

With one goal remaining, they weren't (out of the woods) just yet.

Ans

✗ 1. Between two dangers

✗ 2. Without hope

✓ 3. Free from difficulties and dangers

✗ 4. Under his control

Question Type : **MCQ**
Question ID : **264330136686**
Option 1 ID : **264330535460**
Option 2 ID : **264330535459**
Option 3 ID : **264330535461**
Option 4 ID : **264330535462**
Status : **Answered**
Chosen Option : **3**

Q.4 Improve the underlined part of the sentence. Choose 'No improvement' as an answer if the sentence is grammatically correct.

In the summer, the weathering can be very hot around here.

Ans

✗ 1. weathers could being

✗ 2. weather is be

✓ 3. weather can be

✗ 4. No improvement

Question Type : **MCQ**
Question ID : **264330135208**
Option 1 ID : **264330529761**
Option 2 ID : **264330529759**
Option 3 ID : **264330529760**
Option 4 ID : **264330529762**
Status : **Answered**
Chosen Option : **3**

Q.5 Select the wrongly spelt word.

Ans

✓ 1. Discripancy

✗ 2. Indispensable

✗ 3. Tyranny

✗ 4. Pastime

Question Type : **MCQ**
Question ID : **264330135790**
Option 1 ID : **264330532038**
Option 2 ID : **264330532037**
Option 3 ID : **264330532035**
Option 4 ID : **264330532036**
Status : **Answered**
Chosen Option : **2**

Join Telegram Group "HaryanaJobs.in"

Q.6 Select the most appropriate word for the given group of words.

The sound of owls

Ans
✔ 1. Hoot
✘ 2. Croak
✘ 3. Honk
✘ 4. Neigh

Question Type : **MCQ**
Question ID : **264330136305**
Option 1 ID : **264330533998**
Option 2 ID : **264330533995**
Option 3 ID : **264330533996**
Option 4 ID : **264330533997**
Status : **Answered**
Chosen Option : **1**

Q.7 Select the most appropriate synonym of the given word.

Virtuoso

Ans
✘ 1. Waive
✔ 2. Maestro
✘ 3. Novice
✘ 4. Voluble

Question Type : **MCQ**
Question ID : **264330136681**
Option 1 ID : **264330535439**
Option 2 ID : **264330535441**
Option 3 ID : **264330535442**
Option 4 ID : **264330535440**
Status : **Answered**
Chosen Option : **2**

Q.8 **Find the part of the given sentence that has an error in it. If there is no error, choose 'No error'.**
She never did apologized for her misconduct with the boss.

Ans
✘ 1. for her misconduct
✘ 2. No error
✘ 3. with the boss.
✔ 4. She never did apologized

Question Type : **MCQ**
Question ID : **264330134295**
Option 1 ID : **264330526176**
Option 2 ID : **264330526178**
Option 3 ID : **264330526177**
Option 4 ID : **264330526175**
Status : **Answered**
Chosen Option : **4**

Join Telegram Group "HaryanaJobs.in"

Q.9 Select the most appropriate word for the given group of words.

Rights to vote in an election

Ans
1. Orchard ✗
2. Suffrage ✓
3. Propaganda ✗
4. Potable ✗

Question Type : **MCQ**
Question ID : **264330136680**
Option 1 ID : **264330535438**
Option 2 ID : **264330535436**
Option 3 ID : **264330535435**
Option 4 ID : **264330535437**
Status : **Answered**
Chosen Option : **2**

Q.10 Select the most appropriate option to fill in the blank.

Obesity is also a progressive condition, unlike anorexia nervosa, which tends to _____ with age.

Ans
1. struggle ✗
2. negate ✗
3. ameliorate ✓
4. inebriate ✗

Question Type : **MCQ**
Question ID : **264330136671**
Option 1 ID : **264330535405**
Option 2 ID : **264330535406**
Option 3 ID : **264330535403**
Option 4 ID : **264330535404**
Status : **Not Answered**
Chosen Option : **--**

Q.11 Select the most appropriate option to fill in the blank.

In my view, this falls within the exception permitting warrantless seizure in _____ circumstances.

Ans
1. exigent ✓
2. reverent ✗
3. sparse ✗
4. recondite ✗

Question Type : **MCQ**
Question ID : **264330136690**
Option 1 ID : **264330535476**
Option 2 ID : **264330535477**
Option 3 ID : **264330535478**
Option 4 ID : **264330535475**
Status : **Not Answered**
Chosen Option : **--**

Join Telegram Group "HaryanaJobs.in"

Q.12 Select the word segment that substitutes (replaces) the bracketed word segment correctly and completes the sentence meaningfully. Select the option 'no correction required' if the sentence is correct as given.
(Their heads were) dragonish, and their pupil-less eyes white and staring.

Ans

1. ✗ Their heads was
2. ✗ There heads were
3. ✓ No correction required
4. ✗ Their head were

Question Type : **MCQ**
Question ID : **264330136696**
Option 1 ID : **264330535500**
Option 2 ID : **264330535499**
Option 3 ID : **264330535502**
Option 4 ID : **264330535501**
Status : **Answered**
Chosen Option : **4**

Q.13 Improve the underlined part of the sentence. Choose 'No improvement' as an answer if the sentence is grammatically correct.

Fishermen make their lives from the sea.

Ans

1. ✗ their live
2. ✓ No improvement
3. ✗ his living
4. ✗ there livings

Question Type : **MCQ**
Question ID : **264330136798**
Option 1 ID : **264330535893**
Option 2 ID : **264330535894**
Option 3 ID : **264330535891**
Option 4 ID : **264330535892**
Status : **Answered**
Chosen Option : **1**

Q.14 Find the part of the given sentence that has an error in it. If there is no error, choose 'No error'.
Some realistic estimate will be knew after advance tax collection figures are out.

Ans

1. ✗ No error
2. ✗ tax collection figures are out.
3. ✓ be knew after advance
4. ✗ Some realistic estimate will

Question Type : **MCQ**
Question ID : **264330136795**
Option 1 ID : **264330535882**
Option 2 ID : **264330535881**
Option 3 ID : **264330535880**
Option 4 ID : **264330535879**
Status : **Answered**
Chosen Option : **3**

Join Telegram Group "HaryanaJobs.in"

Q.15 Select the most appropriate meaning of the given idiom.

Far and wide

Ans

✗ 1. Equal opportunity to all

✗ 2. Divided into two equal parts

✗ 3. Not frequent, unusual, rare

✓ 4. Present everywhere

Question Type : **MCQ**
Question ID : **264330136311**
Option 1 ID : **264330534019**
Option 2 ID : **264330534021**
Option 3 ID : **264330534020**
Option 4 ID : **264330534022**
Status : **Answered**
Chosen Option : **4**

Q.16 **Choose the word that is opposite in meaning to the given word.**
Adhere

Ans

✗ 1. Approve

✗ 2. Establish

✗ 3. Compel

✓ 4. Condemn

Question Type : **MCQ**
Question ID : **264330134338**
Option 1 ID : **264330526339**
Option 2 ID : **264330526340**
Option 3 ID : **264330526342**
Option 4 ID : **264330526341**
Status : **Answered**
Chosen Option : **4**

Q.17 Select the most appropriate option to fill in the blank.
Sitting at the computer I saw something large and dark fall past my _____ vision followed by a dull thwack.

Ans

✓ 1. peripheral

✗ 2. central

✗ 3. external

✗ 4. incidental

Question Type : **MCQ**
Question ID : **264330135800**
Option 1 ID : **264330532076**
Option 2 ID : **264330532078**
Option 3 ID : **264330532077**
Option 4 ID : **264330532075**
Status : **Answered**
Chosen Option : **1**

Join Telegram Group "HaryanaJobs.in"

Q.18 Select the most appropriate synonym to substitute the bracketed word in the given sentence.
If you think atheists are all miserable, (nihilistic) amoralists, this book should put you straight.

Ans
✔ 1. cynical
✘ 2. tyrannical
✘ 3. conical
✘ 4. canonical

Question Type : **MCQ**
Question ID : **264330135810**
Option 1 ID : **264330532114**
Option 2 ID : **264330532113**
Option 3 ID : **264330532111**
Option 4 ID : **264330532112**
Status : **Answered**
Chosen Option : **1**

Q.19 Fill in the blank with the most appropriate choice
At the _____ of the century the early evangelistic zeal of the chief Protestant denominations had notably lessened.

Ans
✘ 1. final
✘ 2. ante
✘ 3. angst
✔ 4. end

Question Type : **MCQ**
Question ID : **264330135791**
Option 1 ID : **264330532041**
Option 2 ID : **264330532040**
Option 3 ID : **264330532039**
Option 4 ID : **264330532042**
Status : **Answered**
Chosen Option : **4**

Q.20 Select the correctly spelt word.

Ans
✔ 1. Intensity
✘ 2. Intansity
✘ 3. Intencity
✘ 4. Inteansity

Question Type : **MCQ**
Question ID : **264330136687**
Option 1 ID : **264330535463**
Option 2 ID : **264330535466**
Option 3 ID : **264330535464**
Option 4 ID : **264330535465**
Status : **Answered**
Chosen Option : **1**

Join Telegram Group "HaryanaJobs.in"

Comprehension:

In the following passage some of the words have been deleted. Read the passage carefully and select the correct answer for the given blank out of the four alternatives.
As an industrial solvent, pyridine is used in a (1) _____ range of manufacturing processes. It is also a by-product of coking coal, a crucial (2) _____ for steel production. The Tees area was home to both steel and chemical (3) _____ and the discharge of contaminated effluent (4) _____ the river and surrounding wetlands has been (5) _____ practice, often with minimal or no treatment.

SubQuestion No : 21

Q.21 Select the most appropriate option to fill in blank number 1.

Ans

✔ 1. wide

✘ 2. widely

✘ 3. wider

✘ 4. widest

Question Type : **MCQ**
Question ID : **264330134329**
Option 1 ID : **264330526305**
Option 2 ID : **264330526304**
Option 3 ID : **264330526306**
Option 4 ID : **264330526303**
Status : **Answered**
Chosen Option : **2**

Comprehension:

In the following passage some of the words have been deleted. Read the passage carefully and select the correct answer for the given blank out of the four alternatives.
As an industrial solvent, pyridine is used in a (1) _____ range of manufacturing processes. It is also a by-product of coking coal, a crucial (2) _____ for steel production. The Tees area was home to both steel and chemical (3) _____ and the discharge of contaminated effluent (4) _____ the river and surrounding wetlands has been (5) _____ practice, often with minimal or no treatment.

SubQuestion No : 22

Q.22 Select the most appropriate option to fill in blank number 2.

Ans

✘ 1. desire

✘ 2. load

✘ 3. code

✔ 4. input

Question Type : **MCQ**
Question ID : **264330134330**
Option 1 ID : **264330526308**
Option 2 ID : **264330526310**
Option 3 ID : **264330526307**
Option 4 ID : **264330526309**
Status : **Answered**
Chosen Option : **4**

Join Telegram Group "HaryanaJobs.in"

Comprehension:

In the following passage some of the words have been deleted. Read the passage carefully and select the correct answer for the given blank out of the four alternatives.
As an industrial solvent, pyridine is used in a (1) _____ range of manufacturing processes. It is also a by-product of coking coal, a crucial (2) _____ for steel production. The Tees area was home to both steel and chemical (3) _____ and the discharge of contaminated effluent (4) _____ the river and surrounding wetlands has been (5) _____ practice, often with minimal or no treatment.

SubQuestion No : 23

Q.23 Select the most appropriate option to fill in blank number 3.

Ans

✗ 1. monopoly

✗ 2. salutation

✓ 3. industries

✗ 4. fabrication

Question Type : **MCQ**
Question ID : **264330134331**
Option 1 ID : **264330526311**
Option 2 ID : **264330526314**
Option 3 ID : **264330526312**
Option 4 ID : **264330526313**
Status : **Answered**
Chosen Option : **3**

Comprehension:

In the following passage some of the words have been deleted. Read the passage carefully and select the correct answer for the given blank out of the four alternatives.
As an industrial solvent, pyridine is used in a (1) _____ range of manufacturing processes. It is also a by-product of coking coal, a crucial (2) _____ for steel production. The Tees area was home to both steel and chemical (3) _____ and the discharge of contaminated effluent (4) _____ the river and surrounding wetlands has been (5) _____ practice, often with minimal or no treatment.

SubQuestion No : 24

Q.24 Select the most appropriate option to fill in blank number 4.

Ans

✓ 1. into

✗ 2. in

✗ 3. on

✗ 4. to

Question Type : **MCQ**
Question ID : **264330134332**
Option 1 ID : **264330526318**
Option 2 ID : **264330526316**
Option 3 ID : **264330526317**
Option 4 ID : **264330526315**
Status : **Answered**
Chosen Option : **2**

Join Telegram Group "HaryanaJobs.in"

Comprehension:

In the following passage some of the words have been deleted. Read the passage carefully and select the correct answer for the given blank out of the four alternatives.
As an industrial solvent, pyridine is used in a (1) _____ range of manufacturing processes. It is also a by-product of coking coal, a crucial (2) _____ for steel production. The Tees area was home to both steel and chemical (3) _____ and the discharge of contaminated effluent (4) _____ the river and surrounding wetlands has been (5) _____ practice, often with minimal or no treatment.

SubQuestion No : 25

Q.25 Select the most appropriate option to fill in blank number 5.

Ans

✗ 1. maniac

✗ 2. ruckus

✓ 3. common

✗ 4. bogus

Question Type : **MCQ**
Question ID : **264330134333**
Option 1 ID : **264330526319**
Option 2 ID : **264330526320**
Option 3 ID : **264330526322**
Option 4 ID : **264330526321**
Status : **Answered**
Chosen Option : **4**

Join Telegram Group "HaryanaJobs.in"

Multi Tasking Non Technical Staff and Havaldar CBIC and CBN Examination 2022

Roll Number	HaryanaJobs.in
Candidate Name	HaryanaJobs.in
Venue Name	ANAND INTERNATIONAL COLLEGE OF ENGINEERING JAIPUR
Exam Date	12/05/2023
Exam Time	12:00 PM - 2:00 PM
Subject	MTS Non Tech Havaldar CBIC and CBN Examination 2022

Section : **Numerical and Mathematical Ability**

Q.1 10 cm लंबाई के एक रेखाखंड को मापते समय गलती से उसे 10.2 cm नाप लिया गया, माप में प्रतिशत त्रुटि कितनी है?

Ans

✗ 1. 1%

✗ 2. 0.2%

✗ 3. 0.5%

✓ 4. 2%

Question Type : **MCQ**
Question ID : **264330138352**
Option 1 ID : **264330542015**
Option 2 ID : **264330542017**
Option 3 ID : **264330542018**
Option 4 ID : **264330542016**
Status : **Answered**
Chosen Option : **4**

Q.2 44, 10 और 5 के लघुत्तम समापवर्त्य (LCM) तथा 50 और 75 के महत्तम समापवर्तक (HCF) का अनुपात ज्ञात कीजिए।

Ans

✗ 1. 45 : 7

✗ 2. 50 : 3

✗ 3. 15 : 2

✓ 4. 44 : 5

Question Type : **MCQ**
Question ID : **264330135066**
Option 1 ID : **264330529200**
Option 2 ID : **264330529201**
Option 3 ID : **264330529202**
Option 4 ID : **264330529199**
Status : **Answered**
Chosen Option : **4**

Join Telegram Group "HaryanaJobs.in"

Q.3 $2[2.75 \times 2.75 + 1.25 \times 1.25]$ का मान क्या है?

Ans
1. 15.75
2. 18.25
3. 17.50
4. 19.75

Question Type : **MCQ**
Question ID : **264330137682**
Option 1 ID : **264330539335**
Option 2 ID : **264330539337**
Option 3 ID : **264330539336**
Option 4 ID : **264330539338**
Status : **Answered**
Chosen Option : **2**

Q.4 एक समूह में 1200 पुरुष हैं। उनके पास 80 दिन का खाना है। 5 दिनों के बाद, 400 पुरुषों ने समूह छोड़ दिया। बचा हुआ खाना कितने दिनों तक चलेगा?

Ans
1. 110.5 दिन
2. 140.8 दिन
3. 125 दिन
4. 112.5 दिन

Question Type : **MCQ**
Question ID : **264330137666**
Option 1 ID : **264330539273**
Option 2 ID : **264330539274**
Option 3 ID : **264330539271**
Option 4 ID : **264330539272**
Status : **Answered**
Chosen Option : **4**

Join Telegram Group "HaryanaJobs.in"

Q.5 नीचे दिए गए वृत्त आलेख में 6 अलग-अलग कारखानों के उत्पादन को दर्शाया गया है। इन सभी 6 कारखानों का कुल उत्पादन 17000 है। इनमें से किसी एक विशिष्ट कारखाने के उत्पादन को इन सभी 6 कारखानों के कुल उत्पादन के प्रतिशत के रूप में दर्शाया गया है।

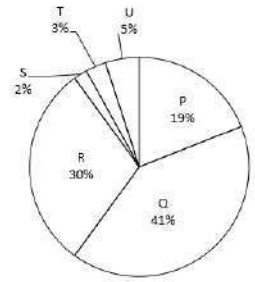

निम्नलिखित में से कौन-सा कथन सही नहीं है?

I. P और R के कुल उत्पादन तथा Q और U के कुल उत्पादन का अनुपात 49 : 46 है।

II. S और T का कुल उत्पादन, P और Q के कुल उत्पादन से 91.66 प्रतिशत अधिक है।

Ans

✔ 1. केवल II

✗ 2. न तो I और न ही II

✗ 3. केवल I

✗ 4. I और II दोनों

Question Type : **MCQ**
Question ID : **264330137622**
Option 1 ID : **264330539096**
Option 2 ID : **264330539098**
Option 3 ID : **264330539095**
Option 4 ID : **264330539097**
Status : **Answered**
Chosen Option : **1**

Q.6 नाव द्वारा धारा के प्रतिकूल x किमी की दूरी तय करने में लिया गया समय, नाव द्वारा धारा के अनुकूल समान दूरी तय करने में लिए गए समय से 3 घंटे अधिक है। धारा के प्रतिकूल नाव की चाल 8 km/hr है।

निम्नलिखित में से कौन-सा/से कथन सही है/हैं?

I. यदि x का मान 48 km है, तो धारा के अनुकूल नाव की चाल 16 km/hr है।

II. यदि धारा के अनुकूल नाव की चाल 12 km/hr है, तो x का मान 48 km है।

Ans

✔ 1. केवल I

✗ 2. केवल II

✗ 3. I और II दोनों

✗ 4. न तो I और न ही II

Question Type : **MCQ**
Question ID : **264330137605**
Option 1 ID : **264330539027**
Option 2 ID : **264330539028**
Option 3 ID : **264330539030**
Option 4 ID : **264330539029**
Status : **Answered**
Chosen Option : **4**

Join Telegram Group "HaryanaJobs.in"

Q.7 नीचे दी गई तालिका में विभिन्न कंपनियों द्वारा किए गए टेलीविज़न और फ्रिज के उत्पादन को दर्शाया गया है।

कंपनी	टेलीविज़न	फ्रिज
A	60	80
B	50	30
C	40	20
D	30	50
E	70	35

J1 = D और E द्वारा फ्रिज के औसत उत्पादन का मान।

J2 = सभी कंपनियों द्वारा टेलीविज़न और फ्रिज का कुल उत्पादन।

(J2 - J1) का मान क्या है?

Ans
1. 456.2 ✗
2. 422.5 ✓
3. 314.5 ✗
4. 465 ✗

Question Type : **MCQ**
Question ID : **264330137683**
Option 1 ID : **264330539341**
Option 2 ID : **264330539340**
Option 3 ID : **264330539342**
Option 4 ID : **264330539339**
Status : **Answered**
Chosen Option : **2**

Q.8 यदि p : q = 7 : 5, तो $\frac{(p^2+q^2)}{(p^2-q^2)}$ का मान क्या है?

Ans
1. 48/7 ✗
2. 37/12 ✓
3. 38/5 ✗
4. 36/11 ✗

Question Type : **MCQ**
Question ID : **264330137611**
Option 1 ID : **264330539053**
Option 2 ID : **264330539054**
Option 3 ID : **264330539052**
Option 4 ID : **264330539051**
Status : **Answered**
Chosen Option : **2**

Q.9 एक शंकु की ऊँचाई 12 cm है और इसके आधार की त्रिज्या 14 cm है। शंकु का आयतन क्या है?

Ans
1. 2872 cm^3 ✗
2. 2248 cm^3 ✗
3. 2464 cm^3 ✓
4. 2692 cm^3 ✗

Question Type : **MCQ**
Question ID : **264330137335**
Option 1 ID : **264330537968**
Option 2 ID : **264330537969**
Option 3 ID : **264330537967**
Option 4 ID : **264330537970**
Status : **Answered**
Chosen Option : **3**

Join Telegram Group "HaryanaJobs.in"

Q.10 दिनेश समान दूरी की चार यात्राएँ करता है। पहली यात्रा में उसकी चाल 140 km/hr थी और बाद की प्रत्येक यात्रा में उसकी चाल पिछली यात्रा की चाल से आधी थी। इन चारों यात्राओं में दिनेश की औसत चाल क्या है?

Ans

1. (124/3) km/hr ✗
2. 44 km/hr ✗
3. 40 km/hr ✗
4. (112/3) km/hr ✓

Question Type : **MCQ**
Question ID : **264330137156**
Option 1 ID : **264330537270**
Option 2 ID : **264330537269**
Option 3 ID : **264330537267**
Option 4 ID : **264330537268**
Status : **Answered**
Chosen Option : **4**

Q.11 कृष्णा 6 घंटे में बिंदु A से बिंदु B तक यात्रा करता है और 5 घंटे में बिंदु B से बिंदु A पर वापस आता है। बिंदु A और बिंदु B एक सीधे राजमार्ग पर एक-दूसरे से 220 मील दूर हैं। पूरी यात्रा में कृष्णा की औसत चाल क्या है?

Ans

1. 22 मील/घंटा ✗
2. 50 मील/घंटा ✗
3. 40 मील/घंटा ✓
4. 44 मील/घंटा ✗

Question Type : **MCQ**
Question ID : **264330138704**
Option 1 ID : **264330543425**
Option 2 ID : **264330543426**
Option 3 ID : **264330543424**
Option 4 ID : **264330543423**
Status : **Answered**
Chosen Option : **3**

Q.12 Rs. 16400 पर 1 वर्ष के लिए अर्धवार्षिक रूप से संयोजित 9% वार्षिक चक्रवृद्धि ब्याज कितना है?

Ans

1. Rs.1608.20 ✗
2. Rs.1640.40 ✗
3. Rs.1680.90 ✗
4. Rs.1509.21 ✓

Question Type : **MCQ**
Question ID : **264330138359**
Option 1 ID : **264330542043**
Option 2 ID : **264330542046**
Option 3 ID : **264330542045**
Option 4 ID : **264330542044**
Status : **Answered**
Chosen Option : **2**

Join Telegram Group "HaryanaJobs.in"

Q.13 यदि 10 प्रतिशत और 20 प्रतिशत की दो क्रमागत छूट दी जाती है, तो निवल छूट कितनी है?

Ans
✔ 1. 28 प्रतिशत
✘ 2. 20 प्रतिशत
✘ 3. 22 प्रतिशत
✘ 4. 25 प्रतिशत

Question Type : **MCQ**
Question ID : **264330137615**
Option 1 ID : **264330539068**
Option 2 ID : **264330539069**
Option 3 ID : **264330539067**
Option 4 ID : **264330539070**
Status : **Answered**
Chosen Option : **1**

Q.14 15 संख्याओं का औसत 45 है। एक और संख्या जोड़ने पर नया औसत 50 हो जाता है। वह नई संख्या क्या है?

Ans
✔ 1. 125
✘ 2. 105
✘ 3. 115
✘ 4. 118

Question Type : **MCQ**
Question ID : **264330137606**
Option 1 ID : **264330539032**
Option 2 ID : **264330539033**
Option 3 ID : **264330539031**
Option 4 ID : **264330539034**
Status : **Answered**
Chosen Option : **1**

Q.15 एक व्यापारी अपने माल को क्रय मूल्य से 44% अधिक मूल्य पर अंकित करता है। फिर वह उस पर 50% का बट्टा देता है, तो उसका हानि प्रतिशत कितना होगा?

Ans
✔ 1. 28%
✘ 2. 26%
✘ 3. 25%
✘ 4. 32%

Question Type : **MCQ**
Question ID : **264330138397**
Option 1 ID : **264330542195**
Option 2 ID : **264330542198**
Option 3 ID : **264330542197**
Option 4 ID : **264330542196**
Status : **Answered**
Chosen Option : **1**

Join Telegram Group "HaryanaJobs.in"

Q.16 एक पहिए की त्रिज्या 21 cm है। 20 चक्करों में पहिए द्वारा तय की गई दूरी (cm में) कितनी होगी?

Ans
✔ 1. 2640 cm
✘ 2. 1500 cm
✘ 3. 1440 cm
✘ 4. 2100 cm

Question Type : **MCQ**
Question ID : **264330133794**
Option 1 ID : **264330524199**
Option 2 ID : **264330524201**
Option 3 ID : **264330524200**
Option 4 ID : **264330524202**
Status : **Answered**
Chosen Option : **1**

Q.17 विजय Rs. 13 प्रति दर्जन की दर से केले बेचता है और 30 प्रतिशत का लाभ अर्जित करता है। केले के क्रय मूल्य में 10 प्रतिशत की वृद्धि हो जाती है। यदि विक्रय मूल्य वही रहता है, तो उसका नया लाभ प्रतिशत क्या है?

Ans
✘ 1. 12.5 प्रतिशत
✘ 2. 16.66 प्रतिशत
✘ 3. 14.28 प्रतिशत
✔ 4. 18.18 प्रतिशत

Question Type : **MCQ**
Question ID : **264330137610**
Option 1 ID : **264330539047**
Option 2 ID : **264330539049**
Option 3 ID : **264330539048**
Option 4 ID : **264330539050**
Status : **Answered**
Chosen Option : **1**

Q.18 एक त्रिभुज की भुजाएँ 6 cm, 8 cm और 10 cm हैं। त्रिभुज का क्षेत्रफल कितना है?

Ans
✘ 1. $28\ cm^2$
✔ 2. $24\ cm^2$
✘ 3. $20\ cm^2$
✘ 4. $16\ cm^2$

Question Type : **MCQ**
Question ID : **264330137679**
Option 1 ID : **264330539324**
Option 2 ID : **264330539326**
Option 3 ID : **264330539325**
Option 4 ID : **264330539323**
Status : **Answered**
Chosen Option : **2**

Join Telegram Group "HaryanaJobs.in"

Q.19 Rs. 6000 को P, Q और R के बीच 5 : 7 : 8 के अनुपात में बाँटा जाना था। त्रुटिवश इसे P, Q और R के बीच 9 : 7 : 4 के अनुपात में बाँट दिया गया। इस बँटवारे में R को कितनी राशि की हानि हुई?

Ans
1. Rs. 600
2. Rs. 1200
3. Rs. 900
4. Rs. 300

Question Type : **MCQ**
Question ID : **264330137612**
Option 1 ID : **264330539055**
Option 2 ID : **264330539057**
Option 3 ID : **264330539056**
Option 4 ID : **264330539058**
Status : **Answered**
Chosen Option : **2**

Q.20 10, 12 और 15 का लघुत्तम समापवर्त्य क्या है?

Ans
1. 120
2. 30
3. 180
4. 60

Question Type : **MCQ**
Question ID : **264330137618**
Option 1 ID : **264330539080**
Option 2 ID : **264330539081**
Option 3 ID : **264330539079**
Option 4 ID : **264330539082**
Status : **Answered**
Chosen Option : **4**

Section : **Reasoning Ability and Problem Solving**

Q.1 दी गई दो संख्याओं को आपस में बदलने पर दिए गए समीकरण का मान क्या होगा?

3 और 4 ; 3 × 7 - 8 ÷ 2 + 4

Ans
1. 30
2. 31
3. 27
4. 35

Question Type : **MCQ**
Question ID : **264330137532**
Option 1 ID : **264330538736**
Option 2 ID : **264330538737**
Option 3 ID : **264330538735**
Option 4 ID : **264330538738**
Status : **Answered**
Chosen Option : **3**

Join Telegram Group "HaryanaJobs.in"

Q.2 एक निश्चित कूट भाषा में, 'NIGHT' को '96270' लिखा जाता है, 'OFTEN' को '87561' लिखा जाता है, 'PILOT' को '23745' लिखा जाता है। उस कूट भाषा में 'INF' को कैसे लिखा जाएगा?

Ans

1. 269 ✗
2. 264 ✗
3. 268 ✓
4. 257 ✗

Question Type : **MCQ**
Question ID : **264330137115**
Option 1 ID : **264330537103**
Option 2 ID : **264330537106**
Option 3 ID : **264330537104**
Option 4 ID : **264330537105**
Status : **Answered**
Chosen Option : **1**

Q.3 उस विकल्प को चुनिए जो पाँचवे पद से ठीक उसी प्रकार संबंधित है जिस प्रकार दूसरा पद पहले पद से संबंधित है और चौथा पद तीसरे पद से संबंधित है।

FOM : IJT :: HIT : KDA :: FBQ : ?

Ans

1. JWX ✗
2. KXX ✗
3. IXX ✗
4. IWX ✓

Question Type : **MCQ**
Question ID : **264330137518**
Option 1 ID : **264330538680**
Option 2 ID : **264330538681**
Option 3 ID : **264330538682**
Option 4 ID : **264330538679**
Status : **Answered**
Chosen Option : **4**

Q.4 उस विकल्प को चुनिए जो चौथे पद से ठीक उसी प्रकार संबंधित है जिस प्रकार पहला पद दूसरे पद से संबंधित है और पाँचवा पद छठे पद से संबंधित है।

AKV : ZIS :: ? : ENI :: PQR : OOO

Ans

1. FOL ✗
2. EQL ✗
3. FPL ✓
4. EPL ✗

Question Type : **MCQ**
Question ID : **264330137517**
Option 1 ID : **264330538675**
Option 2 ID : **264330538678**
Option 3 ID : **264330538677**
Option 4 ID : **264330538676**
Status : **Answered**
Chosen Option : **3**

Join Telegram Group "HaryanaJobs.in"

Q.5 दी गई आकृति के उस सही दर्पण प्रतिबिंब को चुनिए, जो दर्पण MN को नीचे दर्शाए गए अनुसार रखने पर बनेगा।

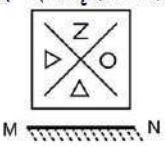

Ans

✗ 1.

✗ 2.

✗ 3.

✓ 4.

Question Type : **MCQ**
Question ID : **264330137601**
Option 1 ID : **264330539012**
Option 2 ID : **264330539013**
Option 3 ID : **264330539011**
Option 4 ID : **264330539014**
Status : **Answered**
Chosen Option : **4**

Q.6 सात लड़के राहुल, राम, रमेश, सोहन, साहिल, सोनू और मोनू एक वृत्ताकार मेज के चारों ओर केंद्र की ओर मुख करके बैठे हैं (परंतु जरूरी नहीं कि वे इसी क्रम में बैठें हों)। मोनू, सोनू के बाईं ओर से दूसरे स्थान पर है। सोनू, राहुल के बाईं ओर से दूसरे स्थान पर है। साहिल, सोनू का निकटतम पड़ोसी नहीं है। साहिल, राम के दाईं ओर से तीसरे स्थान पर है। सोहन, रमेश के दाईं ओर से तीसरे स्थान पर है। राहुल के बाईं ओर से तीसरे स्थान पर कौन है?

Ans

✗ 1. राम

✓ 2. सोहन

✗ 3. रमेश

✗ 4. साहिल

Question Type : **MCQ**
Question ID : **264330137523**
Option 1 ID : **264330538701**
Option 2 ID : **264330538702**
Option 3 ID : **264330538699**
Option 4 ID : **264330538700**
Status : **Answered**
Chosen Option : **1**

Join Telegram Group "HaryanaJobs.in"

Q.7 उस विकल्प को चुनिए जिसमें समुच्चय की संख्याएँ वही संबंध साझा करती हैं जो दिए गए समुच्चय में संख्याओं द्वारा साझा किया जाता है। (ध्यान दें: संख्याओं को उनके घटक अंकों में अलग-अलग किए बिना, पूर्ण संख्याओं पर संक्रियाएँ की जानी चाहिए। उदा. 13 - 13 पर संक्रियाएँ जैसे 13 को जोड़ना /घटाना /गुणा करना आदि किया जा सकता है। 13 को 1 और 3 में अलग-अलग करने की और फिर 1 और 3 पर गणितीय संक्रियाएँ करने की अनुमति नहीं है)

(243, 81, 27)

(99, 33, 11)

Ans

✗ 1. (27, 25, 23)

✗ 2. (27, 20, 19)

✗ 3. (27, 18, 9)

✓ 4. (27, 9, 3)

Question Type : **MCQ**
Question ID : **264330137531**
Option 1 ID : **264330538733**
Option 2 ID : **264330538734**
Option 3 ID : **264330538731**
Option 4 ID : **264330538732**
Status : **Answered**
Chosen Option : **4**

Q.8 आठ सहेलियाँ मानसी, श्वेता, मोनिका, पायल, आरती, काजल, लक्ष्मी और रानी एक वृत्ताकार मेज के चारों ओर केंद्र की ओर मुख करके बैठी हैं (परंतु जरूरी नहीं कि वे इसी क्रम में बैठीं हों)। मोनिका, काजल के दाईं ओर से दूसरे स्थान पर है। काजल, श्वेता के दाईं ओर से तीसरे स्थान पर है। पायल, श्वेता के ठीक बाईं ओर है। श्वेता, आरती के बाईं ओर से दूसरे स्थान पर है। लक्ष्मी, श्वेता के दाईं ओर से चौथे स्थान पर है। मानसी, श्वेता और आरती दोनों की निकटतम पड़ोसी है। मानसी के दाईं ओर से दूसरे स्थान पर कौन है?

Ans

✗ 1. लक्ष्मी

✓ 2. काजल

✗ 3. आरती

✗ 4. रानी

Question Type : **MCQ**
Question ID : **264330137524**
Option 1 ID : **264330538703**
Option 2 ID : **264330538706**
Option 3 ID : **264330538704**
Option 4 ID : **264330538705**
Status : **Answered**
Chosen Option : **2**

Q.9 किसी एक खास कूट भाषा में, 'MOTION' को '136435' लिखा जाता है और 'ONION' को '35435' लिखा जाता है। उस कूट भाषा में 'NOTION' को कैसे लिखा जाएगा?

Ans

✗ 1. 352637

✓ 2. 536435

✗ 3. 534354

✗ 4. 362434

Question Type : **MCQ**
Question ID : **264330133371**
Option 1 ID : **264330522517**
Option 2 ID : **264330522515**
Option 3 ID : **264330522516**
Option 4 ID : **264330522518**
Status : **Answered**
Chosen Option : **2**

Join Telegram Group "HaryanaJobs.in"

Q.10 उस विकल्प आकृति को चुनिए जिसमें दी गई आकृति (X) उसके भाग के रूप में निहित है (घूर्णन की अनुमति नहीं है)।

X

Ans

✔ 1. 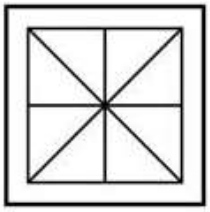

✘ 2. 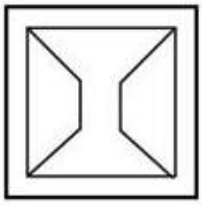

✘ 3. 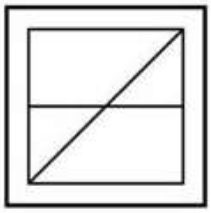

✘ 4. 

Question Type : **MCQ**
Question ID : **264330137600**
Option 1 ID : **264330539010**
Option 2 ID : **264330539007**
Option 3 ID : **264330539009**
Option 4 ID : **264330539008**
Status : **Answered**
Chosen Option : **1**

Join Telegram Group "HaryanaJobs.in"

Q.11 कौन-सी उत्तर आकृति प्रश्न आकृति में दिए गए पैटर्न को पूरा करेगी?



Ans

✗ 1.

✗ 2.

✓ 3.

✗ 4.

Question Type : **MCQ**
Question ID : **264330137536**
Option 1 ID : **264330538751**
Option 2 ID : **264330538752**
Option 3 ID : **264330538753**
Option 4 ID : **264330538754**
Status : **Answered**
Chosen Option : **3**

Join Telegram Group "HaryanaJobs.in"

Q.12 निम्नलिखित प्रश्न में कुछ कथन दिए गए हैं और उन कथनों के आधार पर कुछ निष्कर्ष दिए गए हैं। आपको यह मानना है कि दिए गए कथन सत्य हैं चाहे वे समान्यतः ज्ञात तथ्यों से अलग प्रतीत होते हों। सभी निष्कर्षों को पढ़िए और फिर निश्चय कीजिए कि दिए गए निष्कर्षों में से कौन-सा निष्कर्ष तार्किक रूप से दिए गए कथनों के अनुसार है।

कथन:

I. कुछ लड़के, ताकतवर हैं।

II कोई ताकतवर, कमजोर नहीं है।

निष्कर्ष:

I. सभी ताकतवर, लड़के हैं।

II सभी कमजोर, लड़के हैं।

III सभी कमजोर, ताकतवर हैं।

Ans
1. सभी निष्कर्ष कथनों के अनुसार हैं
2. कोई भी निष्कर्ष कथनों के अनुसार नहीं है
3. दोनों निष्कर्ष I और III कथनों के अनुसार हैं
4. दोनों निष्कर्ष II और III कथनों के अनुसार हैं

Question Type : **MCQ**
Question ID : **264330137527**
Option 1 ID : **264330538717**
Option 2 ID : **264330538718**
Option 3 ID : **264330538715**
Option 4 ID : **264330538716**
Status : **Answered**
Chosen Option : **2**

Q.13 निम्नलिखित प्रश्न में, दी गई श्रृंखला में लुप्त संख्या को चुनिए।

0, 20, 40, 60, 80, ?

Ans
1. 110
2. 120
3. 100
4. 90

Question Type : **MCQ**
Question ID : **264330138468**
Option 1 ID : **264330542480**
Option 2 ID : **264330542482**
Option 3 ID : **264330542479**
Option 4 ID : **264330542481**
Status : **Answered**
Chosen Option : **3**

Join Telegram Group "HaryanaJobs.in"

Q.14 उस विकल्प को चुनिए जो छठी संख्या से ठीक उसी प्रकार संबंधित है जिस प्रकार पहली संख्या दूसरी संख्या से संबंधित है और तीसरी संख्या चौथी संख्या से संबंधित है।

4 : 66 :: 8 : 514 :: ? : 345

Ans

✗ 1. 8

✗ 2. 11

✗ 3. 9

✓ 4. 7

Question Type : **MCQ**
Question ID : **264330138470**
Option 1 ID : **264330542489**
Option 2 ID : **264330542487**
Option 3 ID : **264330542488**
Option 4 ID : **264330542490**
Status : **Answered**
Chosen Option : **4**

Q.15 निम्नलिखित प्रश्न में कुछ कथन दिए गए हैं और उन कथनों के आधार पर कुछ निष्कर्ष दिए गए हैं। आपको यह मानना है कि दिए गए कथन सत्य हैं चाहे वे समान्यतः ज्ञात तथ्यों से अलग प्रतीत होते हों। सभी निष्कर्षों को पढ़िए और फिर निश्चय कीजिए कि दिए गए निष्कर्षों में से कौन-सा निष्कर्ष तार्किक रूप से दिए गए कथनों के अनुसार है।

कथन:

I. सभी B, M हैं।

II कुछ J, B हैं।

निष्कर्ष:

I. कुछ M, B नहीं हैं।

II कोई J, M नहीं है।

Ans

✗ 1. केवल निष्कर्ष I कथनों के अनुसार है

✗ 2. केवल निष्कर्ष II कथनों के अनुसार है

✓ 3. कोई भी निष्कर्ष कथनों के अनुसार नहीं है

✗ 4. दोनों निष्कर्ष I और II कथनों के अनुसार हैं

Question Type : **MCQ**
Question ID : **264330137526**
Option 1 ID : **264330538711**
Option 2 ID : **264330538712**
Option 3 ID : **264330538714**
Option 4 ID : **264330538713**
Status : **Answered**
Chosen Option : **3**

Join Telegram Group "HaryanaJobs.in"

Q.16 एक श्रृंखला दी गई है जिसमें एक पद लुप्त है। दिए गए विकल्पों में से उस सही विकल्प को चुनिए जो श्रृंखला को पूरा करेगा।

FANY, JERC, NIVG, ?, VQDO

Ans
1. RMYK
2. RNYK
3. RMMK
4. RMZK

Question Type : **MCQ**
Question ID : **264330137515**
Option 1 ID : **264330538667**
Option 2 ID : **264330538669**
Option 3 ID : **264330538668**
Option 4 ID : **264330538670**
Status : **Answered**
Chosen Option : **4**

Q.17 एक निश्चित कूट भाषा में, 'PADM' को '5372' लिखा जाता है, 'AZDB' को '7209' लिखा जाता है, 'BALL' को '9766' लिखा जाता है। उस कूट भाषा में 'M' को कैसे लिखा जाएगा?

Ans
1. 7
2. 9
3. 2
4. 5

Question Type : **MCQ**
Question ID : **264330138566**
Option 1 ID : **264330542874**
Option 2 ID : **264330542873**
Option 3 ID : **264330542872**
Option 4 ID : **264330542871**
Status : **Answered**
Chosen Option : **3**

Q.18 निम्नलिखित प्रश्न में, दी गई श्रृंखला में लुप्त संख्या चुनिए।

30, 91, 274, 823, 2470, ?

Ans
1. 7420
2. 4580
3. 7400
4. 7411

Question Type : **MCQ**
Question ID : **264330137529**
Option 1 ID : **264330538726**
Option 2 ID : **264330538725**
Option 3 ID : **264330538723**
Option 4 ID : **264330538724**
Status : **Answered**
Chosen Option : **4**

Join Telegram Group "HaryanaJobs.in"

Q.19 विवेक, लक्ष्मण, कमल, मोहन और रमेश नाम की पाँच कारों की चाल की तुलना की जाती है। विवेक की चाल केवल एक कार से अधिक है। रमेश की चाल, चार कारों से अधिक है। मोहन की चाल विवेक से अधिक लेकिन कमल और रमेश से कम है। कितनी कारों की चाल मोहन की चाल से कम है?

Ans
1. 0 ✗
2. 2 ✓
3. 3 ✗
4. 1 ✗

Question Type : **MCQ**
Question ID : **264330137525**
Option 1 ID : **264330538710**
Option 2 ID : **264330538707**
Option 3 ID : **264330538708**
Option 4 ID : **264330538709**
Status : **Answered**
Chosen Option : **2**

Q.20 एक निश्चित कूट भाषा में, 'SQUARE' को 'UQSERA' लिखा जाता है। उस भाषा में 'CAREER' को कैसे लिखा जाएगा?

Ans
1. RCAREE ✗
2. RACREE ✓
3. EERACR ✗
4. RACERE ✗

Question Type : **MCQ**
Question ID : **264330134958**
Option 1 ID : **264330528769**
Option 2 ID : **264330528767**
Option 3 ID : **264330528768**
Option 4 ID : **264330528770**
Status : **Answered**
Chosen Option : **2**

Section : **General Awareness**

Q.1 विशेष रूप से निर्मित पोखरों और तालाबों में मत्स्यपालन को _____ कहते हैं।

Ans
1. विटिकल्चर (द्राक्षा कृषि) ✗
2. पिसीकल्चर (मत्स्यपालन) ✓
3. सेरीकल्चर (रेशम उत्पादन) ✗
4. हॉर्टीकल्चर (उद्यान कृषि) ✗

Question Type : **MCQ**
Question ID : **264330133873**
Option 1 ID : **264330524516**
Option 2 ID : **264330524517**
Option 3 ID : **264330524515**
Option 4 ID : **264330524518**
Status : **Answered**
Chosen Option : **2**

Join Telegram Group "HaryanaJobs.in"

Q.2 शीतकालीन ओलंपिक खेल कितने वर्षों में आयोजित किए जाते हैं?

Ans
1. हर पाँच वर्ष में
2. हर तीन वर्ष में
3. हर दो वर्ष में
4. हर चार वर्ष में

Question Type : **MCQ**
Question ID : **264330137708**
Option 1 ID : **264330539441**
Option 2 ID : **264330539439**
Option 3 ID : **264330539440**
Option 4 ID : **264330539442**
Status : **Answered**
Chosen Option : **3**

Q.3 अटल पेंशन योजना (Atal Pension Yojana) के तहत, पेंशन रिटर्न, ग्राहक के (subscriber) _____ वर्ष का हो जाने के बाद दिया जाता है।

Ans
1. 55
2. 60
3. 65
4. 50

Question Type : **MCQ**
Question ID : **264330137686**
Option 1 ID : **264330539352**
Option 2 ID : **264330539354**
Option 3 ID : **264330539351**
Option 4 ID : **264330539353**
Status : **Not Answered**
Chosen Option : **--**

Q.4 निम्नलिखित में से कौन-सी पादप कोशिका की एक विशेषता है?

Ans
1. लवक अनुपस्थित होता है
2. हरितलवक अनुपस्थित होता है
3. छोटी केंद्रीय रसधानी
4. इनमें कोशिका भित्ति पाई जाती है

Question Type : **MCQ**
Question ID : **264330137692**
Option 1 ID : **264330539376**
Option 2 ID : **264330539378**
Option 3 ID : **264330539377**
Option 4 ID : **264330539375**
Status : **Answered**
Chosen Option : **4**

Join Telegram Group "HaryanaJobs.in"

Q.5 _____ वह प्रक्रिया है जिसमें प्राकृतिक रबर को अधिक मजबूत (durable) और लोचदार (elastic) बनाने के लिए सल्फर के साथ संसाधित किया जाता है।

Ans
1. किण्वन (Fermentation)
2. कार्बनीकरण (Carbonation)
3. साबुनीकरण (Saponification)
4. वल्कनीकरण (Vulcanisation)

Question Type : **MCQ**
Question ID : **264330138226**
Option 1 ID : **264330541513**
Option 2 ID : **264330541514**
Option 3 ID : **264330541511**
Option 4 ID : **264330541512**
Status : **Answered**
Chosen Option : **4**

Q.6 गारो जनजाति का संबंध भारत के किस क्षेत्र से है?

Ans
1. दक्षिण पश्चिमी
2. दक्षिणी
3. पश्चिमी
4. उत्तर पूर्वी

Question Type : **MCQ**
Question ID : **264330138266**
Option 1 ID : **264330541673**
Option 2 ID : **264330541672**
Option 3 ID : **264330541671**
Option 4 ID : **264330541674**
Status : **Answered**
Chosen Option : **4**

Q.7 ऐसी वस्तुएँ जो टिकाऊ प्रकृति की होती हैं और जिनका उत्पादन प्रक्रिया में उपयोग होता है, _____ कहलाती हैं।

Ans
1. उपभोग वस्तुएँ (consumption goods)
2. पूरक वस्तुएँ (complementary goods)
3. वेब्लेन वस्तुएँ (veblen goods)
4. पूँजीगत वस्तुएँ (capital goods)

Question Type : **MCQ**
Question ID : **264330133866**
Option 1 ID : **264330524488**
Option 2 ID : **264330524487**
Option 3 ID : **264330524489**
Option 4 ID : **264330524490**
Status : **Answered**
Chosen Option : **2**

Join Telegram Group "HaryanaJobs.in"

Q.8 भारत के मुख्य न्यायाधीश की नियुक्ति कौन करता है?

Ans
1. सर्वोच्च न्यायालय के न्यायाधीश
2. राष्ट्रपति
3. प्रधानमंत्री
4. उप-राष्ट्रपति

Question Type : **MCQ**
Question ID : **264330137707**
Option 1 ID : **264330539437**
Option 2 ID : **264330539436**
Option 3 ID : **264330539435**
Option 4 ID : **264330539438**
Status : **Answered**
Chosen Option : **2**

Q.9 "गुरुपुरब" किस सिख गुरु की जयंती के रूप में मनाया जाता है?

Ans
1. गुरु गोबिंद सिंह
2. गुरु नानक देव
3. गुरु अंगद
4. गुरु अर्जन देव

Question Type : **MCQ**
Question ID : **264330134595**
Option 1 ID : **264330527335**
Option 2 ID : **264330527338**
Option 3 ID : **264330527337**
Option 4 ID : **264330527336**
Status : **Answered**
Chosen Option : **1**

Q.10 स्वर्गीय सरोजिनी नायडू को कौनसी उपाधि दी गई थी?

Ans
1. भारत की कोकिला
2. भारत की चील
3. भारत की गौरैया
4. भारत की हॉर्नबिल

Question Type : **MCQ**
Question ID : **264330137704**
Option 1 ID : **264330539424**
Option 2 ID : **264330539425**
Option 3 ID : **264330539423**
Option 4 ID : **264330539426**
Status : **Answered**
Chosen Option : **1**

Join Telegram Group "HaryanaJobs.in"

Q.11 ऋतुसंहार (Ritusamhara) या छः ऋतुएँ संस्कृत साहित्य की एक उत्कृष्ट कृति है, जिसे _____ ने लिखा है।

Ans
✔ 1. कालिदास
✘ 2. हरिषेण
✘ 3. तुलसीदास
✘ 4. रवि कीर्ति

Question Type : **MCQ**
Question ID : **264330133861**
Option 1 ID : **264330524470**
Option 2 ID : **264330524469**
Option 3 ID : **264330524467**
Option 4 ID : **264330524468**
Status : **Not Answered**
Chosen Option : **--**

Q.12 निम्नलिखित में से कौन एक कैलेंडर वर्ष में 1,000 टी20 अंतर्राष्ट्रीय रन बनाने वाले पहले भारतीय खिलाड़ी बने?

Ans
✘ 1. विराट कोहली
✘ 2. रोहित शर्मा
✔ 3. सूर्यकुमार यादव
✘ 4. ऋषभ पंत

Question Type : **MCQ**
Question ID : **264330138244**
Option 1 ID : **264330541584**
Option 2 ID : **264330541583**
Option 3 ID : **264330541586**
Option 4 ID : **264330541585**
Status : **Not Answered**
Chosen Option : **--**

Q.13 रुक्मिणी देवी अरुंडेल को वर्ष _____ में 'पद्म भूषण' से सम्मानित किया गया था।

Ans
✘ 1. 1964
✘ 2. 1978
✔ 3. 1956
✘ 4. 1987

Question Type : **MCQ**
Question ID : **264330133863**
Option 1 ID : **264330524478**
Option 2 ID : **264330524475**
Option 3 ID : **264330524476**
Option 4 ID : **264330524477**
Status : **Not Answered**
Chosen Option : **--**

Join Telegram Group "HaryanaJobs.in"

Q.14 वायु गर्म करने पर _____ होती है और ठंडा करने पर _____ होती है।

Ans
1. संकुचित, प्रसारित
2. संकुचित, स्थिर
3. प्रसारित, प्रसारित
4. प्रसारित, संकुचित

Question Type : **MCQ**
Question ID : **264330134609**
Option 1 ID : **264330527392**
Option 2 ID : **264330527391**
Option 3 ID : **264330527393**
Option 4 ID : **264330527394**
Status : **Answered**
Chosen Option : **4**

Q.15 _____ बेरोज़गारी उस न्यूनतम बेरोज़गारी स्तर को कहते हैं, जिसे एक स्वस्थ अर्थव्यवस्था, मुद्रास्फीति पैदा किए बिना बनाए रख सकती है।

Ans
1. प्रतिरोधात्मक
2. प्रच्छन्न
3. संरचनात्मक
4. प्राकृतिक

Question Type : **MCQ**
Question ID : **264330134656**
Option 1 ID : **264330527580**
Option 2 ID : **264330527582**
Option 3 ID : **264330527581**
Option 4 ID : **264330527579**
Status : **Not Answered**
Chosen Option : **--**

Q.16 निम्नलिखित मुगल सम्राटों में से किसने पादशाह की उपाधि धारण की थी?

Ans
1. जहाँगीर
2. हुमायूँ
3. अकबर
4. बाबर

Question Type : **MCQ**
Question ID : **264330138235**
Option 1 ID : **264330541550**
Option 2 ID : **264330541548**
Option 3 ID : **264330541549**
Option 4 ID : **264330541547**
Status : **Not Answered**
Chosen Option : **--**

Join Telegram Group "HaryanaJobs.in"

Q.17 एनी बेसेंट निम्नलिखित में से किस सामाजिक-धार्मिक आंदोलन से जुड़ी थीं?

Ans
✔ 1. थियोसोफिकल सोसाइटी (Theosophical Society)
✘ 2. आदि ब्रह्म समाज (Adi Brahmo Samaj)
✘ 3. तत्वबोधिनी सभा (Tattvabodhini Sabha)
✘ 4. भारतीय सुधार संघ (Indian Reform Association)

Question Type : **MCQ**
Question ID : **264330137777**
Option 1 ID : **264330539717**
Option 2 ID : **264330539716**
Option 3 ID : **264330539715**
Option 4 ID : **264330539718**
Status : **Answered**
Chosen Option : **1**

Q.18 एंसो (ENSO) दाब की अवस्था में परिवर्तन से संबंधित परिघटना है। ENSO का पूर्ण रूप क्या है?

Ans
✘ 1. एल नीनो साउथ ओकेजन (El Nino South Occasion)
✘ 2. एल नीना साउथ ऑसिलेशन्स (El Nina South Oscillations)
✘ 3. एल नीना सदर्न ओकेजन्स (El Nina Southern Occasions)
✔ 4. एल नीनो सदर्न ऑसिलेशन (El Nino Southern Oscillation)

Question Type : **MCQ**
Question ID : **264330138229**
Option 1 ID : **264330541525**
Option 2 ID : **264330541526**
Option 3 ID : **264330541524**
Option 4 ID : **264330541523**
Status : **Not Answered**
Chosen Option : **--**

Q.19 निम्नलिखित में से कौन-सा अम्ल नारियल के तेल में पाया जाता है?

Ans
✘ 1. ऑक्सैलिक अम्ल (Oxalic Acid)
✘ 2. इरूसिक अम्ल (Erucic Acid)
✔ 3. लॉरिक अम्ल (Lauric Acid)
✘ 4. लैक्टिक अम्ल (Lactic Acid)

Question Type : **MCQ**
Question ID : **264330138228**
Option 1 ID : **264330541520**
Option 2 ID : **264330541521**
Option 3 ID : **264330541519**
Option 4 ID : **264330541522**
Status : **Not Answered**
Chosen Option : **--**

Join Telegram Group "HaryanaJobs.in"

Q.20 सिंधु घाटी सभ्यता में, लोथल शहर _____ की एक उपनदी के किनारे पर बसा था।

Ans
✔ 1. साबरमती
✘ 2. कृष्णा
✘ 3. पेरियार
✘ 4. नर्मदा

Question Type : **MCQ**
Question ID : **264330137774**
Option 1 ID : **264330539704**
Option 2 ID : **264330539703**
Option 3 ID : **264330539705**
Option 4 ID : **264330539706**
Status : **Not Answered**
Chosen Option : **--**

Q.21 मोहिनीअट्टम किस राज्य का शास्त्रीय नृत्य है?

Ans
✔ 1. केरल
✘ 2. उड़ीसा
✘ 3. तमिलनाडु
✘ 4. कर्नाटक

Question Type : **MCQ**
Question ID : **264330137688**
Option 1 ID : **264330539360**
Option 2 ID : **264330539362**
Option 3 ID : **264330539361**
Option 4 ID : **264330539359**
Status : **Answered**
Chosen Option : **1**

Q.22 निम्नलिखित में से भारत के किस राज्य में छठ पूजा का त्योहार मुख्य रूप से मनाया जाता है?

Ans
✘ 1. गुजरात
✘ 2. राजस्थान
✔ 3. बिहार
✘ 4. आंध्रप्रदेश

Question Type : **MCQ**
Question ID : **264330137764**
Option 1 ID : **264330539665**
Option 2 ID : **264330539664**
Option 3 ID : **264330539666**
Option 4 ID : **264330539663**
Status : **Answered**
Chosen Option : **3**

Join Telegram Group "HaryanaJobs.in"

Q.23 सर्वाधिक व्यक्तिगत ओलंपिक स्वर्ण पदक किसने जीते हैं?

Ans
✔ 1. माइकल फेल्प्स (Michael Phelps)
✘ 2. सिमोन बाइल्स (Simone Biles)
✘ 3. केटी लेडेकी (Katie Ledecky)
✘ 4. उसैन बोल्ट (Usain Bolt)

Question Type : **MCQ**
Question ID : **264330134598**
Option 1 ID : **264330527347**
Option 2 ID : **264330527350**
Option 3 ID : **264330527349**
Option 4 ID : **264330527348**
Status : **Not Answered**
Chosen Option : **--**

Q.24 निम्नलिखित में से कौन-सा भारतीय संविधान के अंतर्गत वर्णित एक मौलिक कर्तव्य है?

Ans
✔ 1. देश की रक्षा करना
✘ 2. निजी संपत्ति की सुरक्षा करना
✘ 3. प्रतिष्ठा की रक्षा करना
✘ 4. धार्मिक मामलों का प्रबंधन करना

Question Type : **MCQ**
Question ID : **264330137706**
Option 1 ID : **264330539433**
Option 2 ID : **264330539432**
Option 3 ID : **264330539431**
Option 4 ID : **264330539434**
Status : **Answered**
Chosen Option : **1**

Q.25 भाखड़ा नांगल बाँध निम्नलिखित में से किस नदी पर बना है?

Ans
✘ 1. ब्यास
✘ 2. चिनाब
✘ 3. रावी
✔ 4. सतलुज

Question Type : **MCQ**
Question ID : **264330137696**
Option 1 ID : **264330539394**
Option 2 ID : **264330539391**
Option 3 ID : **264330539392**
Option 4 ID : **264330539393**
Status : **Answered**
Chosen Option : **4**

Section : **English Language and Comprehension**

Join Telegram Group "HaryanaJobs.in"

Q.1 Choose the word that is opposite in meaning to the given word.

Humble

Ans
1. Diffident ✗
2. Passive ✗
3. Assertive ✓
4. Votary ✗

Question Type : **MCQ**
Question ID : **264330134737**
Option 1 ID : **264330527902**
Option 2 ID : **264330527900**
Option 3 ID : **264330527899**
Option 4 ID : **264330527901**
Status : **Answered**
Chosen Option : **3**

Q.2 **Find the part of the given sentence that has an error in it. If there is no error, choose 'No error'.**
Your success were short-lived and had disastrous outcomes.

Ans
1. short-lived and ✗
2. had disastrous outcomes. ✗
3. Your success were ✓
4. No error ✗

Question Type : **MCQ**
Question ID : **264330134424**
Option 1 ID : **264330526672**
Option 2 ID : **264330526673**
Option 3 ID : **264330526671**
Option 4 ID : **264330526674**
Status : **Answered**
Chosen Option : **3**

Q.3 Select the most appropriate word for the given group of words.

An adventurous or bold person

Ans
1. Debonair ✗
2. Judgemental ✗
3. Foolhardy ✓
4. Assaultive ✗

Question Type : **MCQ**
Question ID : **264330136601**
Option 1 ID : **264330535134**
Option 2 ID : **264330535133**
Option 3 ID : **264330535131**
Option 4 ID : **264330535132**
Status : **Answered**
Chosen Option : **2**

Join Telegram Group "HaryanaJobs.in"

Q.4 Select the most appropriate option to fill in the blank.

Fetal _____ screening uses ultrasound scanning to find certain abnormalities in the baby.

Ans

✗ 1. enfevering

✗ 2. abeyance

✗ 3. snuggle

✓ 4. anomaly

Question Type : **MCQ**
Question ID : **264330136037**
Option 1 ID : **264330532970**
Option 2 ID : **264330532968**
Option 3 ID : **264330532967**
Option 4 ID : **264330532969**
Status : **Not Answered**
Chosen Option : **--**

Q.5 Select the most appropriate option to fill in the blank.

For years, people afflicted with the itchy skin condition used stinky coal tar derivatives to _____ their symptoms.

Ans

✗ 1. refer

✗ 2. deviate

✗ 3. obviate

✓ 4. alleviate

Question Type : **MCQ**
Question ID : **264330136298**
Option 1 ID : **264330533971**
Option 2 ID : **264330533974**
Option 3 ID : **264330533973**
Option 4 ID : **264330533972**
Status : **Answered**
Chosen Option : **3**

Q.6 Select the most appropriate option to substitute the bracketed segment in the given sentence. If there is no need to substitute it, select 'no substitution required'.

(No sooner had the ink dried on last week's column, that) one of my long-suffering 17 readers was into action.

Ans

✗ 1. No substitution required

✗ 2. No sooner did the ink dried on last week's column, than

✗ 3. No sooner had the ink dry on last week's column, than

✓ 4. No sooner had the ink dried on last week's column, than

Question Type : **MCQ**
Question ID : **264330136062**
Option 1 ID : **264330533066**
Option 2 ID : **264330533063**
Option 3 ID : **264330533064**
Option 4 ID : **264330533065**
Status : **Answered**
Chosen Option : **4**

Join Telegram Group "HaryanaJobs.in"

Q.7 Select the most appropriate meaning of the given idiom.

It takes two to tango

Ans
✗ 1. To fight fiercely
✗ 2. An interesting idea
✓ 3. For an argument both parties are equally responsible
✗ 4. Two people are required for a couple dance

Question Type : **MCQ**
Question ID : **264330136607**
Option 1 ID : **264330535158**
Option 2 ID : **264330535156**
Option 3 ID : **264330535157**
Option 4 ID : **264330535155**
Status : **Answered**
Chosen Option : **4**

Q.8 Improve the underlined part of the sentence. Choose 'No improvement' as an answer if the sentence is grammatically correct.

Training your dog have required a lot of patience.

Ans
✗ 1. No improvement
✗ 2. required lot
✓ 3. requires a lot
✗ 4. require the lot

Question Type : **MCQ**
Question ID : **264330134748**
Option 1 ID : **264330527946**
Option 2 ID : **264330527944**
Option 3 ID : **264330527943**
Option 4 ID : **264330527945**
Status : **Answered**
Chosen Option : **1**

Q.9 Select the most appropriate option to fill in the blank.

The respondents were very agile and _____ in subduing the situation.

Ans
✗ 1. hassled
✓ 2. quick
✗ 3. tedious
✗ 4. tasty

Question Type : **MCQ**
Question ID : **264330136237**
Option 1 ID : **264330533735**
Option 2 ID : **264330533737**
Option 3 ID : **264330533738**
Option 4 ID : **264330533736**
Status : **Answered**
Chosen Option : **2**

Join Telegram Group "HaryanaJobs.in"

Q.10 Select the most appropriate meaning of the bracketed idiom in the given sentence.
The last observation of yours has (hit the nail on the head).

Ans
✗ 1. A personal interest in the matter
✗ 2. To have no idea about anything
✗ 3. To hear rumours
✓ 4. Find exactly the right answer

Question Type : **MCQ**
Question ID : **264330136052**
Option 1 ID : **264330533026**
Option 2 ID : **264330533023**
Option 3 ID : **264330533024**
Option 4 ID : **264330533025**
Status : **Answered**
Chosen Option : **4**

Q.11 Identify the segment that contains a grammatical error. If there is no error, select 'No error'.
Unadulterated and unabashed were/ the two words that the judge use/ to define his performance.

Ans
✓ 1. the two words that the judge use
✗ 2. Unadulterated and unabashed were
✗ 3. No error
✗ 4. to define his performance.

Question Type : **MCQ**
Question ID : **264330136033**
Option 1 ID : **264330532952**
Option 2 ID : **264330532951**
Option 3 ID : **264330532954**
Option 4 ID : **264330532953**
Status : **Answered**
Chosen Option : **1**

Q.12 Select the word from the options which is similar in meaning to the bracketed part given in the sentence below.
He has been used as the (fall guy) for issues with housing and unemployment.

Ans
✗ 1. weakling
✗ 2. reticent
✓ 3. scapegoat
✗ 4. confiscate

Question Type : **MCQ**
Question ID : **264330136256**
Option 1 ID : **264330533808**
Option 2 ID : **264330533807**
Option 3 ID : **264330533809**
Option 4 ID : **264330533810**
Status : **Answered**
Chosen Option : **3**

Join Telegram Group "HaryanaJobs.in"

Q.13 Select the word segment that substitutes (replaces) the bracketed word segment correctly and completes the sentence meaningfully. Select the option 'no correction required' if the sentence is correct as given.

The (captain with the members of his team) failed to qualify for the African Nations Cup finals.

Ans

✗ 1. captain along with the members of his team

✗ 2. captain along side the members of his team

✗ 3. No correction required

✓ 4. captain and his team

Question Type : **MCQ**
Question ID : **264330136617**
Option 1 ID : **264330535195**
Option 2 ID : **264330535197**
Option 3 ID : **264330535198**
Option 4 ID : **264330535196**
Status : **Answered**
Chosen Option : **1**

Q.14 Select the most appropriate synonym of the given word.

Decapitate

Ans

✗ 1. Desolation

✗ 2. Affection

✓ 3. Behead

✗ 4. Sincerity

Question Type : **MCQ**
Question ID : **264330136047**
Option 1 ID : **264330533004**
Option 2 ID : **264330533005**
Option 3 ID : **264330533003**
Option 4 ID : **264330533006**
Status : **Not Answered**
Chosen Option : **--**

Q.15 Select the wrongly spelt word.

Ans

✗ 1. equivocate

✗ 2. enigma

✗ 3. effigy

✓ 4. expereince

Question Type : **MCQ**
Question ID : **264330136236**
Option 1 ID : **264330533733**
Option 2 ID : **264330533732**
Option 3 ID : **264330533734**
Option 4 ID : **264330533731**
Status : **Answered**
Chosen Option : **4**

Join Telegram Group "HaryanaJobs.in"

Q.16 Select the most appropriate option to fill in the blank.

The question is why an _____ Hollywood film should provoke such a hostile reaction.

Ans

✔ 1. innocuous

✘ 2. obstinate

✘ 3. erroneous

✘ 4. elicit

Question Type : **MCQ**
Question ID : **264330136056**
Option 1 ID : **264330533039**
Option 2 ID : **264330533042**
Option 3 ID : **264330533041**
Option 4 ID : **264330533040**
Status : **Answered**
Chosen Option : **1**

Q.17 Select the most appropriate antonym to substitute the bracketed word in the given sentence.

An (unsullied) safety record swelled pride in Concorde's technical achievement as the years passed.

Ans

✘ 1. Perfect

✔ 2. Tarnished

✘ 3. Undefiled

✘ 4. Impeccable

Question Type : **MCQ**
Question ID : **264330136050**
Option 1 ID : **264330533015**
Option 2 ID : **264330533018**
Option 3 ID : **264330533016**
Option 4 ID : **264330533017**
Status : **Not Answered**
Chosen Option : **--**

Q.18 Identify the segment that contains a grammatical error. If there is no error, select 'No error'.

The kids there were so notorious, the / more I asked them to quiet down, / the more loud they would scream.

Ans

✘ 1. The kids there were so notorious, the

✘ 2. No error

✘ 3. more I asked them to quiet down,

✔ 4. the more loud they would scream.

Question Type : **MCQ**
Question ID : **264330136614**
Option 1 ID : **264330535183**
Option 2 ID : **264330535186**
Option 3 ID : **264330535184**
Option 4 ID : **264330535185**
Status : **Answered**
Chosen Option : **4**

Join Telegram Group "HaryanaJobs.in"

Q.19 Select the correctly spelt word.

Ans
✔ 1. Definition
✘ 2. Deifinatn
✘ 3. Defination
✘ 4. Definasion

Question Type : **MCQ**
Question ID : **264330136053**
Option 1 ID : **264330533029**
Option 2 ID : **264330533027**
Option 3 ID : **264330533028**
Option 4 ID : **264330533030**
Status : **Answered**
Chosen Option : **3**

Q.20 Select the most appropriate word for the given group of words.
In exactly the same words as were used originally

Ans
✘ 1. Lunatic
✘ 2. Kennel
✘ 3. Misanthrope
✔ 4. Verbatim

Question Type : **MCQ**
Question ID : **264330136046**
Option 1 ID : **264330533001**
Option 2 ID : **264330533002**
Option 3 ID : **264330533000**
Option 4 ID : **264330532999**
Status : **Answered**
Chosen Option : **4**

Comprehension:

In the following passage some of the words have been deleted. Read the passage carefully and select the correct answer for the given blank out of the four alternatives.

Snail slime is made (1)_____ a mixture of substances. It is mostly water (2)_____ with proteins and some carbohydrates and minerals, (3)_____ into a sort of jelly. This jelly is (4)_____ "mucus". It's not that different to the snot that comes out of your nose when you have a (5)_____.

SubQuestion No : 21

Q.21 Select the most appropriate option to fill in blank number 1.

Ans
✔ 1. of
✘ 2. for
✘ 3. upon
✘ 4. up

Question Type : **MCQ**
Question ID : **264330134728**
Option 1 ID : **264330527863**
Option 2 ID : **264330527865**
Option 3 ID : **264330527866**
Option 4 ID : **264330527864**
Status : **Answered**
Chosen Option : **1**

Join Telegram Group "HaryanaJobs.in"

Comprehension:

In the following passage some of the words have been deleted. Read the passage carefully and select the correct answer for the given blank out of the four alternatives.

Snail slime is made (1)_____ a mixture of substances. It is mostly water (2)_____ with proteins and some carbohydrates and minerals, (3)_____ into a sort of jelly. This jelly is (4)_____ "mucus". It's not that different to the snot that comes out of your nose when you have a (5)_____.

SubQuestion No : 22

Q.22 Select the most appropriate option to fill in blank number 2.

Ans

✗ 1. sliced

✗ 2. rotated

✗ 3. diced

✓ 4. mixed

Question Type : **MCQ**
Question ID : **264330134729**
Option 1 ID : **264330527868**
Option 2 ID : **264330527870**
Option 3 ID : **264330527869**
Option 4 ID : **264330527867**
Status : **Answered**
Chosen Option : **4**

Comprehension:

In the following passage some of the words have been deleted. Read the passage carefully and select the correct answer for the given blank out of the four alternatives.

Snail slime is made (1)_____ a mixture of substances. It is mostly water (2)_____ with proteins and some carbohydrates and minerals, (3)_____ into a sort of jelly. This jelly is (4)_____ "mucus". It's not that different to the snot that comes out of your nose when you have a (5)_____.

SubQuestion No : 23

Q.23 Select the most appropriate option to fill in blank number 3.

Ans

✗ 1. tamed

✓ 2. formed

✗ 3. framed

✗ 4. moved

Question Type : **MCQ**
Question ID : **264330134730**
Option 1 ID : **264330527874**
Option 2 ID : **264330527872**
Option 3 ID : **264330527873**
Option 4 ID : **264330527871**
Status : **Answered**
Chosen Option : **2**

Join Telegram Group "HaryanaJobs.in"

Comprehension:

In the following passage some of the words have been deleted. Read the passage carefully and select the correct answer for the given blank out of the four alternatives.

Snail slime is made (1)_____ a mixture of substances. It is mostly water (2)_____ with proteins and some carbohydrates and minerals, (3)_____ into a sort of jelly. This jelly is (4)_____ "mucus". It's not that different to the snot that comes out of your nose when you have a (5)_____.

SubQuestion No : 24

Q.24 Select the most appropriate option to fill in blank number 4.

Ans

✗ 1. hailed

✗ 2. stepped

✓ 3. called

✗ 4. deemed

Question Type : **MCQ**
Question ID : **264330134731**
Option 1 ID : **264330527877**
Option 2 ID : **264330527878**
Option 3 ID : **264330527876**
Option 4 ID : **264330527875**
Status : **Answered**
Chosen Option : **3**

Comprehension:

In the following passage some of the words have been deleted. Read the passage carefully and select the correct answer for the given blank out of the four alternatives.

Snail slime is made (1)_____ a mixture of substances. It is mostly water (2)_____ with proteins and some carbohydrates and minerals, (3)_____ into a sort of jelly. This jelly is (4)_____ "mucus". It's not that different to the snot that comes out of your nose when you have a (5)_____.

SubQuestion No : 25

Q.25 Select the most appropriate option to fill in blank number 5.

Ans

✗ 1. bug

✗ 2. plague

✓ 3. cold

✗ 4. complaint

Question Type : **MCQ**
Question ID : **264330134732**
Option 1 ID : **264330527882**
Option 2 ID : **264330527879**
Option 3 ID : **264330527881**
Option 4 ID : **264330527880**
Status : **Answered**
Chosen Option : **3**

Join Telegram Group "HaryanaJobs.in"

Multi Tasking Non Technical Staff and Havaldar CBIC and CBN Examination 2022

Roll Number	HaryanaJobs.in
Candidate Name	HaryanaJobs.in
Venue Name	Aurobindo International School Jaipur
Exam Date	12/05/2023
Exam Time	3:30 PM - 5:00 PM
Subject	MTS Non Tech Havaldar CBIC and CBN Examination 2022

Section : **Numerical and Mathematical Ability**

Q.1 $5 \times 4 + (3 + 4)^2 \div 7 \times 4$ का मान ज्ञात कीजिए।

Ans
✗ 1. 49
✗ 2. 47
✓ 3. 48
✗ 4. 46

Question Type : **MCQ**
Question ID : **264330138089**
Option 1 ID : **264330540964**
Option 2 ID : **264330540965**
Option 3 ID : **264330540963**
Option 4 ID : **264330540966**
Status : **Answered**
Chosen Option : **3**

Q.2 5 क्रमागत प्राकृत संख्याओं का औसत 43 है। इनमें से सबसे बड़ी संख्या है:

Ans
✗ 1. 46
✗ 2. 43
✗ 3. 41
✓ 4. 45

Question Type : **MCQ**
Question ID : **264330138092**
Option 1 ID : **264330540978**
Option 2 ID : **264330540976**
Option 3 ID : **264330540975**
Option 4 ID : **264330540977**
Status : **Answered**
Chosen Option : **4**

Join Telegram Group "HaryanaJobs.in"

Q.3 एक बस पहले 100 km की दूरी 100 km/hr की चाल से तय करती है। वह अगले 150 km की दूरी 90 km/hr की चाल से तय करती है। बस की औसत चाल क्या है?

Ans

1. ✗ 100.25 km/hr
2. ✗ 156.25 km/hr
3. ✓ 93.75 km/hr
4. ✗ 120.50 km/hr

Question Type : **MCQ**
Question ID : **264330141007**
Option 1 ID : **264330552375**
Option 2 ID : **264330552376**
Option 3 ID : **264330552377**
Option 4 ID : **264330552378**
Status : **Answered**
Chosen Option : **3**

Q.4 निम्नलिखित दंड आलेख में वर्ष 2022 में भारत के चार राज्यों में कोविड (COVID) के मामलों की संख्या को दर्शाया गया है।

केरल की तुलना में कर्नाटक में कितने प्रतिशत अधिक मामले हैं?

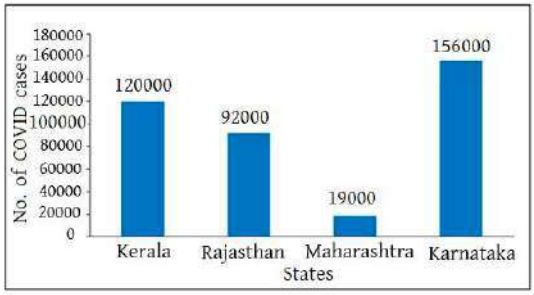

No. of COVID cases = कोविड (COVID) के मामलों की संख्या

Kerala = केरल, Rajasthan = राजस्थान, Maharashtra = महाराष्ट्र, Karnataka = कर्नाटक

States = राज्य

Ans

1. ✓ 30%
2. ✗ 20%
3. ✗ 40%
4. ✗ 50%

Question Type : **MCQ**
Question ID : **264330138106**
Option 1 ID : **264330541033**
Option 2 ID : **264330541031**
Option 3 ID : **264330541032**
Option 4 ID : **264330541034**
Status : **Answered**
Chosen Option : **1**

Join Telegram Group "HaryanaJobs.in"

Q.5 यदि दो बेलनों के आयतनों का अनुपात 6 : 5 है और उनकी ऊँचाई का अनुपात 5 : 24 है, तो उनकी त्रिज्याओं का अनुपात क्या है?

Ans
1. 12 : 5
2. 12 : 7
3. 5 : 6
4. 1 : 2

Question Type : **MCQ**
Question ID : **264330137638**
Option 1 ID : **264330539160**
Option 2 ID : **264330539159**
Option 3 ID : **264330539161**
Option 4 ID : **264330539162**
Status : **Answered**
Chosen Option : **1**

Q.6 Rs.1200 को X, Y और Z में इस प्रकार बाँटा जाता है कि Y का हिस्सा X के हिस्से से Rs.200 अधिक है। Y का हिस्सा Z के हिस्से से Rs.200 कम है। Y का हिस्सा है:

Ans
1. Rs.600
2. Rs.800
3. Rs.400
4. Rs.200

Question Type : **MCQ**
Question ID : **264330138099**
Option 1 ID : **264330541003**
Option 2 ID : **264330541006**
Option 3 ID : **264330541004**
Option 4 ID : **264330541005**
Status : **Answered**
Chosen Option : **1**

Q.7 हर्षिता एक कपड़े की दुकान पर गई। दुकान पर Rs.2999 अंकित मूल्य वाली एक ड्रेस 20% बट्टे पर बेची जा रही है। यदि हर्षिता ड्रेस खरीदती है, तो वह उसके लिए कितना भुगतान करेगी?

Ans
1. Rs.2199.80
2. Rs.2699.50
3. Rs.2399.20
4. Rs.2899.40

Question Type : **MCQ**
Question ID : **264330138097**
Option 1 ID : **264330540998**
Option 2 ID : **264330540995**
Option 3 ID : **264330540997**
Option 4 ID : **264330540996**
Status : **Answered**
Chosen Option : **3**

Join Telegram Group "HaryanaJobs.in"

Q.8 उस लम्ब वृत्तीय बेलन का पार्श्व पृष्ठीय क्षेत्रफल क्या होगा जिसके आधार की परिधि 22 cm है और जिसकी ऊँचाई इसकी त्रिज्या की चार गुनी है?

Ans

✗ 1. 408 cm^2

✗ 2. 288 cm^2

✗ 3. 388 cm^2

✓ 4. 308 cm^2

Question Type : **MCQ**
Question ID : **264330133692**
Option 1 ID : **264330523792**
Option 2 ID : **264330523793**
Option 3 ID : **264330523794**
Option 4 ID : **264330523791**
Status : **Answered**
Chosen Option : **4**

Q.9 Rs. 60000 की राशि पर 5 वर्षों के लिए 10% वार्षिक दर पर वार्षिक रूप से संयोजित चक्रवृद्धि ब्याज ज्ञात कीजिए।

Ans

✗ 1. Rs.34563.12

✗ 2. Rs.3456.87

✓ 3. Rs.36630.60

✗ 4. Rs.3254.98

Question Type : **MCQ**
Question ID : **264330133747**
Option 1 ID : **264330524012**
Option 2 ID : **264330524014**
Option 3 ID : **264330524011**
Option 4 ID : **264330524013**
Status : **Answered**
Chosen Option : **3**

Q.10 निम्न तालिका में अलग-अलग दुकानों में हास्य और काल्पनिक कथा साहित्य की पुस्तकों की बिक्री को दर्शाया गया है।

दुकान C द्वारा बेची गई कुल पुस्तकों और दुकान A द्वारा बेची गई कुल पुस्तकों का अनुपात ज्ञात कीजिए।

Shops	Comic Books	Fiction Books
A	200	150
B	250	200
C	350	300
D	400	200
E	450	500

shops - दुकानें, Comic Books - हास्य पुस्तकें, Fiction Books - काल्पनिक कथा साहित्य की पुस्तकें

Ans

✗ 1. 11:7

✓ 2. 13:7

✗ 3. 11:13

✗ 4. 13:5

Question Type : **MCQ**
Question ID : **264330138429**
Option 1 ID : **264330542326**
Option 2 ID : **264330542325**
Option 3 ID : **264330542323**
Option 4 ID : **264330542324**
Status : **Answered**
Chosen Option : **2**

Join Telegram Group "HaryanaJobs.in"

Q.11 X लड़के किसी कार्य को 80 दिनों में कर सकते हैं। 2X लड़के उसी कार्य का आधा भाग कितने दिनों में करेंगे?

Ans

✗ 1. 30 दिन

✗ 2. 12 दिन

✗ 3. 16 दिन

✓ 4. 20 दिन

Question Type : **MCQ**
Question ID : **264330137623**
Option 1 ID : **264330539100**
Option 2 ID : **264330539101**
Option 3 ID : **264330539102**
Option 4 ID : **264330539099**
Status : **Answered**
Chosen Option : **4**

Q.12 एक कमरे में 36 महिलाएँ और 20 पुरुष हैं। उस कमरे में पुरुषों की कुल संख्या और व्यक्तियों की कुल संख्या का अनुपात कितना है?

Ans

✗ 1. 14:11

✗ 2. 5:11

✗ 3. 5:13

✓ 4. 5:14

Question Type : **MCQ**
Question ID : **264330138098**
Option 1 ID : **264330541000**
Option 2 ID : **264330540999**
Option 3 ID : **264330541001**
Option 4 ID : **264330541002**
Status : **Answered**
Chosen Option : **4**

Q.13 वह सबसे बड़ी संख्या कौन-सी है, जिससे 456 और 553 को भाग देने पर क्रमशः 6 और 3 शेषफल प्राप्त होता है?

Ans

✗ 1. 10

✗ 2. 30

✓ 3. 50

✗ 4. 5

Question Type : **MCQ**
Question ID : **264330141031**
Option 1 ID : **264330552471**
Option 2 ID : **264330552474**
Option 3 ID : **264330552473**
Option 4 ID : **264330552472**
Status : **Answered**
Chosen Option : **3**

Join Telegram Group "HaryanaJobs.in"

Q.14 एक लड़का धारा के प्रतिकूल 12 km/hr और धारा के अनुकूल 23 km/hr की चाल से नाव चला सकता है। धारा की चाल क्या है?

Ans

1. ✗ 3.5 km/hr
2. ✗ 6.5 km/hr
3. ✗ 4.5 km/hr
4. ✓ 5.5 km/hr

Question Type : **MCQ**
Question ID : **264330138102**
Option 1 ID : **264330541018**
Option 2 ID : **264330541017**
Option 3 ID : **264330541015**
Option 4 ID : **264330541016**
Status : **Answered**
Chosen Option : **4**

Q.15 एक दुकानदार एक बक्सा बेचकर 5% का लाभ अर्जित करता है। अगले बक्से के लिए वह विक्रय मूल्य का दोगुना शुल्क लेता है। दूसरे बक्से पर लाभ प्रतिशत कितना है?

Ans

1. ✗ 100%
2. ✗ 200%
3. ✗ 80%
4. ✓ 110%

Question Type : **MCQ**
Question ID : **264330138096**
Option 1 ID : **264330540993**
Option 2 ID : **264330540992**
Option 3 ID : **264330540994**
Option 4 ID : **264330540991**
Status : **Answered**
Chosen Option : **4**

Q.16 एक गाँव की जनसंख्या 40% वार्षिक दर से घटती है। यदि 2 वर्ष पूर्व गाँव की जनसंख्या 15,000 थी, तो गाँव की वर्तमान जनसंख्या ज्ञात कीजिए?

Ans

1. ✗ 4400
2. ✓ 5400
3. ✗ 3500
4. ✗ 4450

Question Type : **MCQ**
Question ID : **264330133786**
Option 1 ID : **264330524170**
Option 2 ID : **264330524168**
Option 3 ID : **264330524169**
Option 4 ID : **264330524167**
Status : **Answered**
Chosen Option : **2**

Join Telegram Group "HaryanaJobs.in"

Q.17 एक बाइक का मूल्य पिछले वर्ष Rs.7000 था। इस वर्ष उसके मूल्य में 10% की वृद्धी हुई। इस वर्ष बाइक का मूल्य क्या है?

Ans
1. Rs. 7500
2. Rs. 7600
3. Rs. 7700
4. Rs. 7400

Question Type : **MCQ**
Question ID : **264330133740**
Option 1 ID : **264330523984**
Option 2 ID : **264330523986**
Option 3 ID : **264330523985**
Option 4 ID : **264330523983**
Status : **Answered**
Chosen Option : **3**

Q.18 $144 \div 12 + 4^2 - 44 + 54 \div 3 \times 2$ का मान ज्ञात कीजिए।

Ans
1. 30
2. 20
3. 15
4. 5

Question Type : **MCQ**
Question ID : **264330138413**
Option 1 ID : **264330542259**
Option 2 ID : **264330542261**
Option 3 ID : **264330542260**
Option 4 ID : **264330542262**
Status : **Answered**
Chosen Option : **2**

Q.19 एक वस्तु का विक्रय मूल्य Rs.616 है। यदि हानि प्रतिशत 30 प्रतिशत है, तो वस्तु का क्रय मूल्य क्या है?

Ans
1. Rs. 800
2. Rs. 880
3. Rs. 850
4. Rs. 900

Question Type : **MCQ**
Question ID : **264330139062**
Option 1 ID : **264330544855**
Option 2 ID : **264330544857**
Option 3 ID : **264330544856**
Option 4 ID : **264330544858**
Status : **Answered**
Chosen Option : **2**

Join Telegram Group "HaryanaJobs.in"

Q.20 X अकेले किसी काम को 15 दिनों में कर सकता है जबकि Y अकेले उसी काम को 10 दिनों में कर सकता है। उन्होंने 3 दिनों तक साथ मिलकर काम किया और शेष काम Z ने 1 दिन में पूरा किया। यदि उन्हें पूरे काम के लिए Rs.4000 का भुगतान किया जाता है, तो इसमें Z का हिस्सा कितना है?

Ans

✗ 1. Rs.1200

✗ 2. Rs.1000

✗ 3. Rs.800

✓ 4. Rs.2000

Question Type : **MCQ**
Question ID : **264330133687**
Option 1 ID : **264330523773**
Option 2 ID : **264330523771**
Option 3 ID : **264330523774**
Option 4 ID : **264330523772**
Status : **Answered**
Chosen Option : **4**

Section : **Reasoning Ability and Problem Solving**

Q.1 एक निश्चित कूट भाषा में, 'DISPUTE' को 'SID16ETU' लिखा जाता है। उस कूट भाषा में 'FEATURE' को कैसे लिखा जाएगा?

Ans

✗ 1. AEF02ERU

✗ 2. AEF20UER

✓ 3. AEF20ERU

✗ 4. AEF20REU

Question Type : **MCQ**
Question ID : **264330135025**
Option 1 ID : **264330529037**
Option 2 ID : **264330529038**
Option 3 ID : **264330529035**
Option 4 ID : **264330529036**
Status : **Answered**
Chosen Option : **3**

Join Telegram Group "HaryanaJobs.in"

Q.2 दो कथन दिए गए हैं और दो निष्कर्ष I और II दिए गए हैं। कथनों को सत्य मानते हुए, चाहे वे सामान्यतः ज्ञात तथ्यों से अलग प्रतीत होते हों, निश्चय कीजिए कि कौन-सा निष्कर्ष तार्किक रूप से कथनों के अनुसार है।

कथन:

कुछ सेब, फल हैं।

सभी फल, आम हैं।

निष्कर्ष:

I. कुछ सेब, आम हैं।

II. सभी आम, फल हैं।

Ans
1. दोनों निष्कर्ष I और II कथनों के अनुसार हैं
2. केवल निष्कर्ष II कथनों के अनुसार है
3. केवल निष्कर्ष I कथनों के अनुसार है
4. न तो निष्कर्ष I और न ही II कथनों के अनुसार है

Question Type : **MCQ**
Question ID : **264330137863**
Option 1 ID : **264330540061**
Option 2 ID : **264330540060**
Option 3 ID : **264330540059**
Option 4 ID : **264330540062**
Status : **Answered**
Chosen Option : **3**

Q.3 दी गई श्रृंखला में निम्नलिखित में से कौन-सी संख्या प्रश्न चिन्ह (?) के स्थान पर आएगी?

55, 61, 67, 73, 79,?

Ans
1. 93
2. 82
3. 94
4. 85

Question Type : **MCQ**
Question ID : **264330137866**
Option 1 ID : **264330540072**
Option 2 ID : **264330540073**
Option 3 ID : **264330540074**
Option 4 ID : **264330540071**
Status : **Answered**
Chosen Option : **4**

Join Telegram Group "HaryanaJobs.in"

Q.4 उस विकल्प आकृति को चुनिए जिसमें दी गई आकृति निहित है।(घूर्णन की अनुमति नहीं है)

Ans

1. 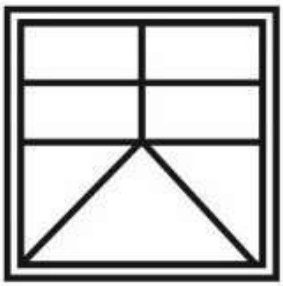

2. 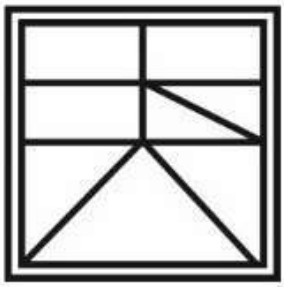

3. 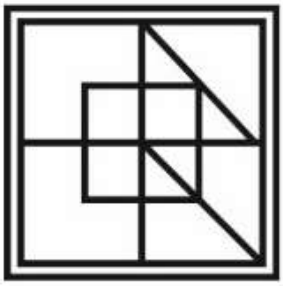

4. 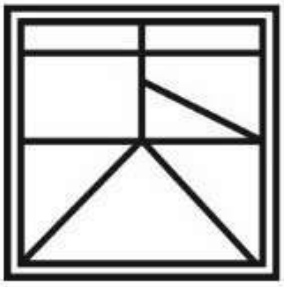

Question Type : **MCQ**
Question ID : **264330138537**
Option 1 ID : **264330542757**
Option 2 ID : **264330542756**
Option 3 ID : **264330542755**
Option 4 ID : **264330542758**
Status : **Answered**
Chosen Option : **2**

Join Telegram Group "HaryanaJobs.in"

Q.5 दी गई श्रृंखला में निम्नलिखित में से कौन-सी संख्या प्रश्न चिन्ह (?) के स्थान पर आएगी?
43, 45, 48, 53, 60, 71, ?

Ans
1. 81
2. 82
3. 84
4. 83

Question Type : **MCQ**
Question ID : **264330133457**
Option 1 ID : **264330522859**
Option 2 ID : **264330522860**
Option 3 ID : **264330522861**
Option 4 ID : **264330522862**
Status : **Answered**
Chosen Option : **3**

Q.6 एक निश्चित कूट भाषा में, 'COAT' को 'XLZG' लिखा जाता है। उस कूट भाषा में 'PLAY' को कैसे लिखा जाएगा?

Ans
1. KPZB
2. KZOB
3. JOZB
4. KOZB

Question Type : **MCQ**
Question ID : **264330138814**
Option 1 ID : **264330543864**
Option 2 ID : **264330543863**
Option 3 ID : **264330543865**
Option 4 ID : **264330543866**
Status : **Answered**
Chosen Option : **4**

Join Telegram Group "HaryanaJobs.in"

Q.7 यदि एक दर्पण को रेखा AB पर रखा जाए, तो दी गई विकल्प आकृतियों में से कौन-सी आकृति प्रश्न आकृति का सही प्रतिबिम्ब होगी?

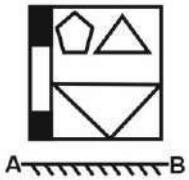

Ans

✔ 1.

✘ 2.

✘ 3.

✘ 4.

Question Type : **MCQ**
Question ID : **264330138538**
Option 1 ID : **264330542759**
Option 2 ID : **264330542761**
Option 3 ID : **264330542760**
Option 4 ID : **264330542762**
Status : **Answered**
Chosen Option : **1**

Join Telegram Group "HaryanaJobs.in"

Q.8 छः मित्र S, T, U, V, W और X एक पंक्ति में दक्षिण की ओर मुख करके बैठे हैं। U, S और V के ठीक बीच में बैठा है। X, W और T के ठीक बीच में बैठा है। पाँच मित्र S के बाईं ओर बैठे हैं। V के बाईं ओर से दूसरे स्थान पर कौन बैठा है?

Ans

✔ 1. X

✘ 2. W

✘ 3. T

✘ 4. U

Question Type : **MCQ**
Question ID : **264330137860**
Option 1 ID : **264330540049**
Option 2 ID : **264330540047**
Option 3 ID : **264330540048**
Option 4 ID : **264330540050**
Status : **Answered**
Chosen Option : **1**

Q.9 उस विकल्प को चुनिए जो तीसरे शब्द से ठीक उसी प्रकार संबंधित है जिस प्रकार दूसरा शब्द पहले शब्द से संबंधित है।
खरगोश : छलांग :: तोता :?

Ans

✘ 1. रेंगना

✘ 2. पक्षी

✔ 3. उड़ना

✘ 4. दबे पाँव चलना

Question Type : **MCQ**
Question ID : **264330137854**
Option 1 ID : **264330540026**
Option 2 ID : **264330540024**
Option 3 ID : **264330540023**
Option 4 ID : **264330540025**
Status : **Answered**
Chosen Option : **3**

Q.10 दिए गए पैटर्न का ध्यानपूर्वक अध्ययन कीजिए और उस संख्या को चुनिए जो इसमें प्रश्न चिन्ह (?) के स्थान पर आ सकती है।
पहली पंक्ति- 80, 64, 48
दूसरी पंक्ति- 112, 96, 80
तीसरी पंक्ति- 232, 216,?

Ans

✔ 1. 200

✘ 2. 230

✘ 3. 225

✘ 4. 219

Question Type : **MCQ**
Question ID : **264330137868**
Option 1 ID : **264330540079**
Option 2 ID : **264330540081**
Option 3 ID : **264330540080**
Option 4 ID : **264330540082**
Status : **Answered**
Chosen Option : **1**

Join Telegram Group "HaryanaJobs.in"

Q.11 सात भाईयों सुभम, सौरव, सहवाग, सचिन, सैम, शोएब और सूर्या की उम्र अलग-अलग है। सुभम सबसे बड़ा भाई है। सूर्या केवल दो भाइयों से बड़ा है। सौरव, सैम से बड़ा है लेकिन शोएब से छोटा है। सहवाग केवल सचिन से बड़ा है। कितने भाई सौरव से छोटे हैं?

Ans

✗ 1. 5

✗ 2. 3

✓ 3. 4

✗ 4. 2

Question Type : **MCQ**
Question ID : **264330137862**
Option 1 ID : **264330540057**
Option 2 ID : **264330540055**
Option 3 ID : **264330540056**
Option 4 ID : **264330540058**
Status : **Answered**
Chosen Option : **3**

Q.12 दिए गए समीकरण को सही करने के लिए किन दो चिन्हों को आपस में बदला जाना चाहिए?
8 ÷ 2 × 7 − 5 + 2 = 1

Ans

✗ 1. × और -

✓ 2. × और +

✗ 3. + और =

✗ 4. + और -

Question Type : **MCQ**
Question ID : **264330137869**
Option 1 ID : **264330540083**
Option 2 ID : **264330540085**
Option 3 ID : **264330540086**
Option 4 ID : **264330540084**
Status : **Answered**
Chosen Option : **2**

Q.13 दिए गए समीकरण को सही करने के लिए किन दो संख्याओं को आपस में बदला जाना चाहिए?
16 + 24 × 12 - 25 ÷ 6 = 312

Ans

✓ 1. 25 और 24

✗ 2. 24 और 16

✗ 3. 25 और 16

✗ 4. 25 और 12

Question Type : **MCQ**
Question ID : **264330133502**
Option 1 ID : **264330523041**
Option 2 ID : **264330523039**
Option 3 ID : **264330523042**
Option 4 ID : **264330523040**
Status : **Answered**
Chosen Option : **1**

Join Telegram Group "HaryanaJobs.in"

Q.14 छः सहकर्मी X, Y, Z, A, B और C एक वृत्ताकार मेज के चारों ओर केंद्र से बाहर की ओर मुख करके बैठे हैं। B, Y के ठीक बाईं ओर बैठा है। A, Z के ठीक दाईं ओर बैठा है। X, B के आसन्न बैठा है। C, Y के आसन्न नहीं बैठा है। A के ठीक दाईं ओर कौन बैठा है?

Ans

✗ 1. Y

✗ 2. X

✓ 3. C

✗ 4. B

Question Type : **MCQ**
Question ID : **264330137861**
Option 1 ID : **264330540053**
Option 2 ID : **264330540051**
Option 3 ID : **264330540054**
Option 4 ID : **264330540052**
Status : **Answered**
Chosen Option : **4**

Join Telegram Group "HaryanaJobs.in"

Q.15 उस विकल्प आकृति को चुनिए जो पैटर्न को पूरा करने के लिए नीचे दी गई आकृति में प्रश्न चिन्ह (?) के स्थान पर आएगी। (घूर्णन की अनुमति नहीं है)

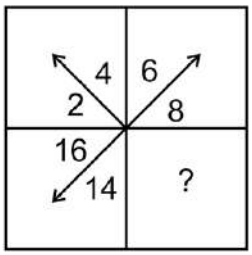

Ans

✗ 1.

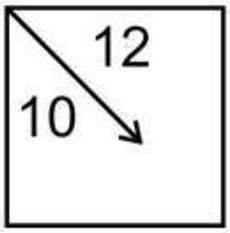

✓ 2.

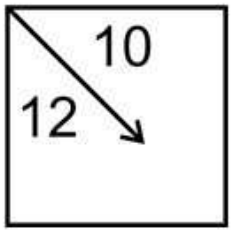

✗ 3.

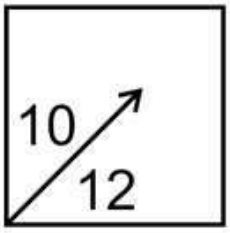

✗ 4.

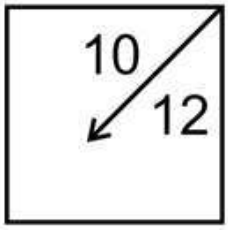

Question Type : **MCQ**
Question ID : **264330137873**
Option 1 ID : **264330540101**
Option 2 ID : **264330540099**
Option 3 ID : **264330540100**
Option 4 ID : **264330540102**
Status : **Answered**
Chosen Option : **2**

Join Telegram Group "HaryanaJobs.in"

Q.16 उस विकल्प को चुनिए जो तीसरी संख्या से ठीक उसी प्रकार संबंधित है जिस प्रकार दूसरी संख्या पहली संख्या से संबंधित है।
7 : 343 : : 4 : ?

Ans
✔ 1. 64
✘ 2. 84
✘ 3. 72
✘ 4. 58

Question Type : **MCQ**
Question ID : **264330133459**
Option 1 ID : **264330522868**
Option 2 ID : **264330522869**
Option 3 ID : **264330522870**
Option 4 ID : **264330522867**
Status : **Answered**
Chosen Option : **1**

Q.17 तीन कथन दिए गए हैं और दो निष्कर्ष I और II दिए गए हैं। कथनों को सत्य मानते हुए, चाहे वे सामान्यतः ज्ञात तथ्यों से अलग प्रतीत होते हों, निश्चय कीजिए कि कौन-सा निष्कर्ष तार्किक रूप से कथनों के अनुसार है।
कथन:

सभी बिल्लियाँ, बाघ हैं।

सभी बाघ, शेर हैं।

कुछ बाघ, कुत्ते हैं।

निष्कर्ष:

I. सभी बिल्लियाँ, शेर हैं।

II. कुछ कुत्ते, शेर हैं।

Ans
✘ 1. केवल निष्कर्ष II कथनों के अनुसार है
✔ 2. दोनों निष्कर्ष I और II कथनों के अनुसार हैं
✘ 3. न तो निष्कर्ष I और न ही II कथनों के अनुसार है
✘ 4. केवल निष्कर्ष I कथनों के अनुसार है

Question Type : **MCQ**
Question ID : **264330137864**
Option 1 ID : **264330540064**
Option 2 ID : **264330540065**
Option 3 ID : **264330540066**
Option 4 ID : **264330540063**
Status : **Answered**
Chosen Option : **2**

Join Telegram Group "HaryanaJobs.in"

Q.18 निम्नलिखित में से कौन-सा अक्षर-समूह दी गई श्रृंखला में प्रश्न चिन्ह (?) के स्थान पर आएगा?
KS, MU, OW, QY, SA, UC,?

Ans
1. EW
2. WD
3. WS
4. WE

Question Type : **MCQ**
Question ID : **264330137852**
Option 1 ID : **264330540015**
Option 2 ID : **264330540018**
Option 3 ID : **264330540016**
Option 4 ID : **264330540017**
Status : **Answered**
Chosen Option : **4**

Q.19 उस विकल्प को चुनिए जो तीसरे अक्षर-समूह से ठीक उसी प्रकार संबंधित है जिस प्रकार दूसरा अक्षर-समूह पहले अक्षर-समूह से संबंधित है।
RS : TU :: TM :?

Ans
1. OV
2. UP
3. VO
4. VP

Question Type : **MCQ**
Question ID : **264330137855**
Option 1 ID : **264330540027**
Option 2 ID : **264330540030**
Option 3 ID : **264330540029**
Option 4 ID : **264330540028**
Status : **Answered**
Chosen Option : **3**

Q.20 एक निश्चित कूट भाषा में, 'NOTIFY' को 'TONYFI' लिखा जाता है। उस कूट भाषा में 'PATENT' को कैसे लिखा जाएगा?

Ans
1. TAPTNE
2. TAPENT
3. PATTNE
4. TAPTEN

Question Type : **MCQ**
Question ID : **264330137519**
Option 1 ID : **264330538685**
Option 2 ID : **264330538683**
Option 3 ID : **264330538684**
Option 4 ID : **264330538686**
Status : **Answered**
Chosen Option : **1**

Section : **General Awareness**

Join Telegram Group "HaryanaJobs.in"

Q.1 ठोस कार्बन डाइऑक्साइड का दूसरा नाम क्या है?

Ans
✔ 1. शुष्क बर्फ (Dry Ice)
✘ 2. कोयला (Coal)
✘ 3. प्रशीतक (Refrigerant)
✘ 4. कोक (Coke)

Question Type : **MCQ**
Question ID : **264330133913**
Option 1 ID : **264330524675**
Option 2 ID : **264330524677**
Option 3 ID : **264330524678**
Option 4 ID : **264330524676**
Status : **Answered**
Chosen Option : **1**

Q.2 लच्छू महाराज _____ के एक प्रसिद्ध भारतीय शास्त्रीय नर्तक और नृत्य-निर्देशक (choreographer) थे।

Ans
✘ 1. छऊ
✘ 2. ओडिसी
✘ 3. कुचिपुड़ी
✔ 4. कथक

Question Type : **MCQ**
Question ID : **264330138878**
Option 1 ID : **264330544119**
Option 2 ID : **264330544122**
Option 3 ID : **264330544121**
Option 4 ID : **264330544120**
Status : **Answered**
Chosen Option : **4**

Q.3 निम्नलिखित में से किसने पेरिस में फ्रेंच ओपन 2022 बैडमिंटन टूर्नामेंट पुरुष युगल (Men's Doubles) का खिताब जीता?

Ans
✔ 1.
चिराग शेट्टी (Chirag Shetty) और सात्विकसाईराज रंकी रेड्डी (Satwiksairaj Ranki Reddy)
✘ 2.
ताकुरो होकी (Takuro Hoki) और युगो कोबायाशी (Yugo Kobayashi)
✘ 3.
लू चिंग याओ (Lu Ching Yao) और यांग पो हान (Yang Po Han)
✘ 4.
को सुंग ह्यून (Ko Sung Hyun) और शिन बेक चेओल (Shin Baek Cheol)

Question Type : **MCQ**
Question ID : **264330137991**
Option 1 ID : **264330540571**
Option 2 ID : **264330540572**
Option 3 ID : **264330540573**
Option 4 ID : **264330540574**
Status : **Answered**
Chosen Option : **3**

Join Telegram Group "HaryanaJobs.in"

Q.4 आधुनिक भारतीय भाषाओं का दूसरा सबसे बड़ा परिवार कौन-सा है?

Ans
1. ऑस्ट्रिक (निषाद)
2. चीन-तिब्बती (किराता)
3. द्रविड़ियन (द्रविड़)
4. भारतीय - यूरोपीय (आर्यन)

Question Type : **MCQ**
Question ID : **264330138643**
Option 1 ID : **264330543182**
Option 2 ID : **264330543180**
Option 3 ID : **264330543179**
Option 4 ID : **264330543181**
Status : **Answered**
Chosen Option : **3**

Q.5 Bhopal gas disaster occurred in which of the following factory?

Ans
1. Union Carbide Pesticide plant
2. Meghnagar Pharmachem Pvt Ltd
3. Bhopal Incinerator Ltd.
4. Standard Surfactants Limited

Question Type : **MCQ**
Question ID : **264330138888**
Option 1 ID : **264330544160**
Option 2 ID : **264330544159**
Option 3 ID : **264330544162**
Option 4 ID : **264330544161**
Status : **Answered**
Chosen Option : **2**

Q.6 ड्रिब्लिंग (Dribbling) _____ खेल से संबंधित है।

Ans
1. बैडमिंटन
2. तैराकी
3. क्रिकेट
4. बास्केटबॉल

Question Type : **MCQ**
Question ID : **264330133929**
Option 1 ID : **264330524741**
Option 2 ID : **264330524742**
Option 3 ID : **264330524740**
Option 4 ID : **264330524739**
Status : **Answered**
Chosen Option : **2**

Join Telegram Group "HaryanaJobs.in"

Q.7 यक्षगान निम्नलिखित में से किस राज्य से संबंधित एक प्रसिद्ध लोकनृत्य है?

Ans
1. केरल
2. कर्नाटक
3. तमिलनाडु
4. उड़ीसा

Question Type : **MCQ**
Question ID : **264330137971**
Option 1 ID : **264330540491**
Option 2 ID : **264330540492**
Option 3 ID : **264330540493**
Option 4 ID : **264330540494**
Status : **Answered**
Chosen Option : **2**

Q.8 भारतीय अर्थव्यवस्था में बैंक दर _____ द्वारा निर्धारित की जाती है।

Ans
1. भारत के वित्त मंत्रालय
2. भारतीय रिज़र्व बैंक
3. भारतीय प्रतिभूति और विनिमय बोर्ड
4. भारतीय स्टेट बैंक

Question Type : **MCQ**
Question ID : **264330138881**
Option 1 ID : **264330544134**
Option 2 ID : **264330544132**
Option 3 ID : **264330544131**
Option 4 ID : **264330544133**
Status : **Answered**
Chosen Option : **2**

Q.9 निम्नलिखित में से किस सुधार के कारण 1919 का भारत सरकार अधिनियम लागू हुआ?

Ans
1. मांटेग्यू-चेम्सफोर्ड सुधार (Montagu- Chelmsford reforms)
2. मार्ले-मिंटो सुधार (Morley-Minto reforms)
3. गुलामी विरोधी सुधार (Antislavery reforms)
4. यंग बंगाल आंदोलन (Young Bengal movement)

Question Type : **MCQ**
Question ID : **264330133971**
Option 1 ID : **264330524910**
Option 2 ID : **264330524909**
Option 3 ID : **264330524907**
Option 4 ID : **264330524908**
Status : **Answered**
Chosen Option : **1**

Join Telegram Group "HaryanaJobs.in"

Q.10 'आई टू हैड ए लव स्टोरी (I Too Had a Love Story)' उपन्यास _____ द्वारा लिखा गया है।

Ans
1. अरविंद अडिगा
2. रस्किन बॉन्ड
3. रविंदर सिंह
4. दुर्जोय दत्ता

Question Type : **MCQ**
Question ID : **264330138876**
Option 1 ID : **264330544112**
Option 2 ID : **264330544111**
Option 3 ID : **264330544113**
Option 4 ID : **264330544114**
Status : **Answered**
Chosen Option : **1**

Q.11 निम्नलिखित में से कौनसी पश्चिम बंगाल की सबसे ऊँची चोटी है?

Ans
1. संदक्फू (Sandakphu)
2. सारामती (Saramati)
3. देवमाली (Deomali)
4. डोड्डाबेट्टा (Doddabetta)

Question Type : **MCQ**
Question ID : **264330137979**
Option 1 ID : **264330540526**
Option 2 ID : **264330540523**
Option 3 ID : **264330540524**
Option 4 ID : **264330540525**
Status : **Answered**
Chosen Option : **4**

Q.12 विज्ञान की आवर्त सारणी में "H" किस रासायनिक तत्व का प्रतीक है?

Ans
1. होल्मियम (Holmium)
2. हीलियम (Helium)
3. पारा (Mercury)
4. हाइड्रोजन (Hydrogen)

Question Type : **MCQ**
Question ID : **264330133911**
Option 1 ID : **264330524670**
Option 2 ID : **264330524667**
Option 3 ID : **264330524669**
Option 4 ID : **264330524668**
Status : **Answered**
Chosen Option : **4**

Join Telegram Group "HaryanaJobs.in"

Q.13 प्रतिस्पर्धा (संशोधन) विधेयक, 2022 भारत के _____ मंत्रालय से संबंधित है।

Ans
✔ 1. कॉर्पोरेट कार्य
✘ 2. वित्त
✘ 3. जनजातीय कार्य
✘ 4. विधि एवं न्याय

Question Type : **MCQ**
Question ID : **264330133957**
Option 1 ID : **264330524852**
Option 2 ID : **264330524851**
Option 3 ID : **264330524854**
Option 4 ID : **264330524853**
Status : **Answered**
Chosen Option : **1**

Q.14 निम्नलिखित में से कौन-सा एक जीवाणु रोग नहीं है?

Ans
✘ 1. महामारी (Plague)
✔ 2. जलांतक (Rabies)
✘ 3. हैज़ा (Cholera)
✘ 4. मोतीझरा (Typhoid)

Question Type : **MCQ**
Question ID : **264330137975**
Option 1 ID : **264330540509**
Option 2 ID : **264330540508**
Option 3 ID : **264330540507**
Option 4 ID : **264330540510**
Status : **Answered**
Chosen Option : **2**

Q.15 "संघ" में रहने वाले बौद्ध भिक्षुओं के लिए बनाए गए नियम _____ नामक ग्रंथ में मिलते हैं।

Ans
✘ 1. सुत्तपिटक
✘ 2. अभिधम्मपिटक
✘ 3. मिलिंदपन्ह
✔ 4. विनयपिटक

Question Type : **MCQ**
Question ID : **264330138317**
Option 1 ID : **264330541875**
Option 2 ID : **264330541878**
Option 3 ID : **264330541876**
Option 4 ID : **264330541877**
Status : **Answered**
Chosen Option : **2**

Join Telegram Group "HaryanaJobs.in"

Q.16 भारतीय संविधान का निम्नलिखित में से कौन-सा अनुच्छेद "मौलिक कर्तव्यों (Fundamental Duties)" से संबंधित है?

Ans

1. 54-A ✗
2. 51-A ✓
3. 55-A ✗
4. 61-A ✗

Question Type : **MCQ**
Question ID : **264330137989**
Option 1 ID : **264330540565**
Option 2 ID : **264330540566**
Option 3 ID : **264330540563**
Option 4 ID : **264330540564**
Status : **Answered**
Chosen Option : **2**

Q.17 2022 में, केंद्रीय इलेक्ट्रॉनिकी और सूचना प्रौद्योगिकी मंत्रालय ने _____ में ग्रीनफील्ड इलेक्ट्रॉनिक्स मैन्युफैक्चरिंग क्लस्टर (EMC - Electronics Manufacturing Cluster) को मंजूरी दी।

Ans

1. पश्चिम बंगाल ✗
2. केरल ✗
3. महाराष्ट्र ✓
4. राजस्थान ✗

Question Type : **MCQ**
Question ID : **264330137969**
Option 1 ID : **264330540485**
Option 2 ID : **264330540483**
Option 3 ID : **264330540486**
Option 4 ID : **264330540484**
Status : **Answered**
Chosen Option : **1**

Q.18 भारत के पड़ोसी देश बांग्लादेश की आधिकारिक भाषा कौन-सी है?

Ans

1. जोंगखा (Dzongkha) ✗
2. उर्दू ✗
3. बंगाली ✓
4. हिन्दी ✗

Question Type : **MCQ**
Question ID : **264330135471**
Option 1 ID : **264330530794**
Option 2 ID : **264330530792**
Option 3 ID : **264330530793**
Option 4 ID : **264330530791**
Status : **Answered**
Chosen Option : **1**

Join Telegram Group "HaryanaJobs.in"

Q.19 सिक्किम में "लोसर (Losar)" का त्योहार नव वर्ष के रूप में मनाया जाता है। यह _____ चंद्र कैलेंडर के पहले महीने के पहले दिन मनाया जाता है।

Ans
✔ 1. तिब्बती
✘ 2. फ़ारसी
✘ 3. ग्रेगोरियन
✘ 4. इस्लामी

Question Type : **MCQ**
Question ID : **264330138297**
Option 1 ID : **264330541795**
Option 2 ID : **264330541798**
Option 3 ID : **264330541796**
Option 4 ID : **264330541797**
Status : **Answered**
Chosen Option : **3**

Q.20 किसने बदायूं (1197-98 ई.) पर कब्जा करके इल्तुतमिश को वहाँ के पहले मुस्लिम गवर्नर के रूप में नियुक्त किया?

Ans
✘ 1. मुहम्मद गोरी
✔ 2. कुतुबुद्दीन ऐबक
✘ 3. महाराणा प्रताप
✘ 4. पृथ्वीराज चौहान

Question Type : **MCQ**
Question ID : **264330133920**
Option 1 ID : **264330524706**
Option 2 ID : **264330524705**
Option 3 ID : **264330524704**
Option 4 ID : **264330524703**
Status : **Answered**
Chosen Option : **1**

Q.21 अखिल भारतीय मुस्लिम लीग का गठन ढाका में वर्ष _____ में हुआ था।

Ans
✘ 1. 1904
✔ 2. 1906
✘ 3. 1908
✘ 4. 1902

Question Type : **MCQ**
Question ID : **264330138320**
Option 1 ID : **264330541888**
Option 2 ID : **264330541889**
Option 3 ID : **264330541890**
Option 4 ID : **264330541887**
Status : **Answered**
Chosen Option : **2**

Join Telegram Group "HaryanaJobs.in"

Q.22 निम्नलिखित में से किसका संबंध तबला से नहीं है?

Ans
1. संदीप दास (Sandeep Das)
2. ज्ञान प्रकाश घोष (Jnan Prakash Ghosh)
3. साबिर खान (Sabir Khan)
4. शकूर खान (Shakoor Khan)

Question Type : **MCQ**
Question ID : **264330137987**
Option 1 ID : **264330540555**
Option 2 ID : **264330540556**
Option 3 ID : **264330540557**
Option 4 ID : **264330540558**
Status : **Answered**
Chosen Option : **4**

Q.23 भारतीय संविधान के निम्नलिखित में से किस अनुच्छेद में भारत के महान्यायवादी का प्रावधान है?

Ans
1. 72
2. 76
3. 79
4. 81

Question Type : **MCQ**
Question ID : **264330137990**
Option 1 ID : **264330540567**
Option 2 ID : **264330540568**
Option 3 ID : **264330540569**
Option 4 ID : **264330540570**
Status : **Answered**
Chosen Option : **2**

Q.24 प्रीत एक ऐसे महासागर के बारे में लिखती हैं जो उत्तरी अमेरिका को यूरोप से अलग करता है। यह कौन सा महासागर है?

Ans
1. अटलांटिक महासागर
2. प्रशांत महासागर
3. आर्कटिक महासागर
4. हिंद महासागर

Question Type : **MCQ**
Question ID : **264330133914**
Option 1 ID : **264330524682**
Option 2 ID : **264330524681**
Option 3 ID : **264330524679**
Option 4 ID : **264330524680**
Status : **Answered**
Chosen Option : **4**

Join Telegram Group "HaryanaJobs.in"

Q.25 राजस्थान के माउंट आबू में दिलवाड़ा मंदिर (Dilwara Temple) _____ मंदिर शैली (temple architecture) का एक जीता-जागता उदाहरण है।

Ans
1. बौद्ध
2. द्रविड़
3. जैन
4. मुगल

Question Type : **MCQ**
Question ID : **264330133960**
Option 1 ID : **264330524866**
Option 2 ID : **264330524863**
Option 3 ID : **264330524865**
Option 4 ID : **264330524864**
Status : **Answered**
Chosen Option : **3**

Section : **English Language and Comprehension**

Q.1 Select the most appropriate option to fill in the blank.

We cannot _____ a religion or a political party that ignores the rights of half the human race.

Ans
1. condemn
2. disseminate
3. forgive
4. desiccate

Question Type : **MCQ**
Question ID : **264330136689**
Option 1 ID : **264330535471**
Option 2 ID : **264330535473**
Option 3 ID : **264330535472**
Option 4 ID : **264330535474**
Status : **Answered**
Chosen Option : **1**

Q.2 Select the most appropriate option to fill in the blank.

This initiative has been sharply criticised as grossly inefficient and _____.

Ans
1. Capricious
2. Counterproductive
3. Canonical
4. Calumny

Question Type : **MCQ**
Question ID : **264330136515**
Option 1 ID : **264330534803**
Option 2 ID : **264330534806**
Option 3 ID : **264330534804**
Option 4 ID : **264330534805**
Status : **Not Answered**
Chosen Option : **--**

Join Telegram Group "HaryanaJobs.in"

Q.3 Improve the underlined part of the sentence. Choose 'No improvement' as an answer if the sentence is grammatically correct.

The dessert was many sweet for my tastes.

Ans
1. No improvement
2. too sweetly
3. too sweet
4. more sweeter

Question Type : **MCQ**
Question ID : **264330134827**
Option 1 ID : **264330528250**
Option 2 ID : **264330528249**
Option 3 ID : **264330528248**
Option 4 ID : **264330528247**
Status : **Answered**
Chosen Option : **3**

Q.4 Select the most appropriate word for the given group of words.

Open to more than one interpretation, not having one obvious meaning

Ans
1. Altercation
2. Ambiguous
3. Alchemy
4. Amateur

Question Type : **MCQ**
Question ID : **264330136524**
Option 1 ID : **264330534836**
Option 2 ID : **264330534835**
Option 3 ID : **264330534838**
Option 4 ID : **264330534837**
Status : **Answered**
Chosen Option : **2**

Q.5 Select the correctly spelt word.

Ans
1. resind
2. rescind
3. recsind
4. recind

Question Type : **MCQ**
Question ID : **264330136531**
Option 1 ID : **264330534864**
Option 2 ID : **264330534863**
Option 3 ID : **264330534866**
Option 4 ID : **264330534865**
Status : **Answered**
Chosen Option : **2**

Join Telegram Group "HaryanaJobs.in"

Q.6 **Choose the word that is opposite in meaning to the given word.**
Doze

Ans
✔ 1. Wake
✘ 2. Cold
✘ 3. Snooze
✘ 4. Neglect

Question Type : **MCQ**
Question ID : **264330134442**
Option 1 ID : **264330526740**
Option 2 ID : **264330526741**
Option 3 ID : **264330526739**
Option 4 ID : **264330526742**
Status : **Answered**
Chosen Option : **1**

Q.7 Identify the segment that contains a grammatical error. If there is no error, select 'No error'.

The Federalists wished to/ make the central government/ as strong possible.

Ans
✘ 1. The Federalists wished to
✔ 2. as strong possible.
✘ 3. No error
✘ 4. make the central government

Question Type : **MCQ**
Question ID : **264330136511**
Option 1 ID : **264330534787**
Option 2 ID : **264330534789**
Option 3 ID : **264330534790**
Option 4 ID : **264330534788**
Status : **Answered**
Chosen Option : **2**

Q.8 Select the most appropriate meaning of the bracketed idiom in the given sentence.

Sure, fixing a flubbed decision isn't always (a piece of cake), but it's rarely impossible.

Ans
✔ 1. A task that can be accomplished very easily
✘ 2.
Having no stand, shows favour at one time and unfavour at another
✘ 3. A rare event or occurrence
✘ 4. The family bond is closer than anything else

Question Type : **MCQ**
Question ID : **264330136530**
Option 1 ID : **264330534860**
Option 2 ID : **264330534862**
Option 3 ID : **264330534859**
Option 4 ID : **264330534861**
Status : **Answered**
Chosen Option : **3**

Join Telegram Group "HaryanaJobs.in"

Q.9 Select the most appropriate option to substitute the bracketed segment in the given sentence. If there is no need to substitute it, select 'no substitution required'.
The query isn't (whether he will admit it, but when).

Ans

✗ 1. whether he will admit it or not, but when?

✗ 2. whether he will be admitting it or not, but when?

✓ 3. No substitution required

✗ 4. whether or nor he will admit it, but when?

Question Type : **MCQ**
Question ID : **264330136720**
Option 1 ID : **264330535592**
Option 2 ID : **264330535591**
Option 3 ID : **264330535594**
Option 4 ID : **264330535593**
Status : **Answered**
Chosen Option : **1**

Q.10 Select the most appropriate antonym to substitute the bracketed word in the given sentence.

They are virtually unimpeachable in the (unbiased), invariably correct reading of a race.

Ans

✓ 1. prejudiced

✗ 2. ceasing

✗ 3. captivity

✗ 4. stranger

Question Type : **MCQ**
Question ID : **264330136528**
Option 1 ID : **264330534853**
Option 2 ID : **264330534852**
Option 3 ID : **264330534851**
Option 4 ID : **264330534854**
Status : **Not Answered**
Chosen Option : **--**

Q.11 Find the part of the given sentence that has an error in it. If there is no error, choose 'No error'.
Can you please help me to this project?

Ans

✗ 1. Can you please

✓ 2. help me to

✗ 3. No error

✗ 4. this project?

Question Type : **MCQ**
Question ID : **264330134347**
Option 1 ID : **264330526375**
Option 2 ID : **264330526376**
Option 3 ID : **264330526378**
Option 4 ID : **264330526377**
Status : **Answered**
Chosen Option : **1**

Join Telegram Group "HaryanaJobs.in"

Q.12 **In the following question, out of the given four alternatives, select the alternative which best expresses the meaning of the Idiom/Phrase.**
To kill two birds with one stone

Ans
✗ 1. The weak point in a person
✗ 2. To accidentally hurt someone's feelings
✓ 3. To achieve two things with a single effort
✗ 4. A work which needs tremendous efforts

Question Type : **MCQ**
Question ID : **264330134392**
Option 1 ID : **264330526548**
Option 2 ID : **264330526550**
Option 3 ID : **264330526547**
Option 4 ID : **264330526549**
Status : **Answered**
Chosen Option : **3**

Q.13 Select the most appropriate option to fill in the blank.

They probably subsisted on insects and other small _____ invertebrates and perhaps even on aquatic vertebrates.

Ans
✗ 1. reverent
✗ 2. skittish
✓ 3. terrestrial
✗ 4. recluse

Question Type : **MCQ**
Question ID : **264330136534**
Option 1 ID : **264330534876**
Option 2 ID : **264330534877**
Option 3 ID : **264330534878**
Option 4 ID : **264330534875**
Status : **Not Answered**
Chosen Option : **--**

Q.14 Select the most appropriate option to fill in the blank.

The duke had capacity, but his life was so _____ that what influence he had upon the king was for evil.

Ans
✓ 1. lewd
✗ 2. scrumptious
✗ 3. seditious
✗ 4. ambitious

Question Type : **MCQ**
Question ID : **264330136724**
Option 1 ID : **264330535609**
Option 2 ID : **264330535607**
Option 3 ID : **264330535608**
Option 4 ID : **264330535610**
Status : **Not Answered**
Chosen Option : **--**

Join Telegram Group "HaryanaJobs.in"

Q.15 Select the word segment that substitutes (replaces) the bracketed word segment correctly and completes the sentence meaningfully. Select the option 'no correction required' if the sentence is correct as given.

The (roof collapsing) in a roar of rock and rubble.

Ans

✔ 1. roof collapsed

✘ 2. roof was collapse

✘ 3. No correction required

✘ 4. roof have collapsed

Question Type : **MCQ**
Question ID : **264330136592**
Option 1 ID : **264330535101**
Option 2 ID : **264330535099**
Option 3 ID : **264330535102**
Option 4 ID : **264330535100**
Status : **Answered**
Chosen Option : **4**

Q.16 Select the most appropriate synonym of the given word.

Debased

Ans

✔ 1. Corrupted

✘ 2. Unamenable

✘ 3. Aggrandize

✘ 4. Amenable

Question Type : **MCQ**
Question ID : **264330136525**
Option 1 ID : **264330534840**
Option 2 ID : **264330534841**
Option 3 ID : **264330534839**
Option 4 ID : **264330534842**
Status : **Not Answered**
Chosen Option : **--**

Q.17 Select the wrongly spelt word.

Ans

✘ 1. Unconventional

✔ 2. Alturistc

✘ 3. Ethical

✘ 4. Unsavoury

Question Type : **MCQ**
Question ID : **264330136688**
Option 1 ID : **264330535469**
Option 2 ID : **264330535470**
Option 3 ID : **264330535467**
Option 4 ID : **264330535468**
Status : **Answered**
Chosen Option : **4**

Join Telegram Group "HaryanaJobs.in"

Q.18 Select the word from the options which is similar in meaning to the bracketed word given in the sentence below.
Well, you want an (argument)," he added, "come on then."

Ans

✗ 1. enhancement
✗ 2. capability
✓ 3. explanation
✗ 4. agreement

Question Type : **MCQ**
Question ID : **264330136708**
Option 1 ID : **264330535546**
Option 2 ID : **264330535545**
Option 3 ID : **264330535544**
Option 4 ID : **264330535543**
Status : **Answered**
Chosen Option : **4**

Q.19 Identify the segment that contains a grammatical error. If there is no error, select 'No error'.
He belted two huge sixers, but / eleven to get of the last two / deliveries was a big ask.

Ans

✗ 1. He belted two huge sixers, but
✓ 2. eleven to get of the last two
✗ 3. No error
✗ 4. deliveries was a big ask.

Question Type : **MCQ**
Question ID : **264330136717**
Option 1 ID : **264330535579**
Option 2 ID : **264330535580**
Option 3 ID : **264330535582**
Option 4 ID : **264330535581**
Status : **Answered**
Chosen Option : **1**

Q.20 Choose the word that can substitute the given group of words.
A person who believes in the equality of all people

Ans

✗ 1. Philodendron
✗ 2. Philologist
✗ 3. Philander
✓ 4. Egalitarian

Question Type : **MCQ**
Question ID : **264330134386**
Option 1 ID : **264330526524**
Option 2 ID : **264330526523**
Option 3 ID : **264330526526**
Option 4 ID : **264330526525**
Status : **Answered**
Chosen Option : **2**

Join Telegram Group "HaryanaJobs.in"

Comprehension:

In the following passage some of the words have been deleted. Read the passage carefully and select the correct answer for the given blank out of the four alternatives.
Network security (1) _____ securing a network and protecting the user's information about (2) _____ is connected through that network. Over the network (3) _____ steal, the packets of data through sniffing and spoofing (4) _____, man in the middle attack, war driving, etc, and misuse the data for their (5) _____.

SubQuestion No : 21

Q.21 Select the most appropriate option to fill in blank number 1.

Ans

✗ 1. declares

✗ 2. calls

✓ 3. means

✗ 4. names

Question Type : **MCQ**
Question ID : **264330134433**
Option 1 ID : **264330526703**
Option 2 ID : **264330526706**
Option 3 ID : **264330526705**
Option 4 ID : **264330526704**
Status : **Answered**
Chosen Option : **3**

Comprehension:

In the following passage some of the words have been deleted. Read the passage carefully and select the correct answer for the given blank out of the four alternatives.
Network security (1) _____ securing a network and protecting the user's information about (2) _____ is connected through that network. Over the network (3) _____ steal, the packets of data through sniffing and spoofing (4) _____, man in the middle attack, war driving, etc, and misuse the data for their (5) _____.

SubQuestion No : 22

Q.22 Select the most appropriate option to fill in blank number 2.

Ans

✗ 1. whose

✗ 2. which

✓ 3. who

✗ 4. that

Question Type : **MCQ**
Question ID : **264330134434**
Option 1 ID : **264330526708**
Option 2 ID : **264330526709**
Option 3 ID : **264330526710**
Option 4 ID : **264330526707**
Status : **Answered**
Chosen Option : **2**

Join Telegram Group "HaryanaJobs.in"

Comprehension:

In the following passage some of the words have been deleted. Read the passage carefully and select the correct answer for the given blank out of the four alternatives.
Network security (1) _____ securing a network and protecting the user's information about (2) _____ is connected through that network. Over the network (3) _____ steal, the packets of data through sniffing and spoofing (4) _____, man in the middle attack, war driving, etc, and misuse the data for their (5) _____.

SubQuestion No : 23

Q.23 Select the most appropriate option to fill in blank number 3.

Ans

✗ 1. engineers

✗ 2. labourers

✓ 3. hackers

✗ 4. smugglers

Question Type : **MCQ**
Question ID : **264330134435**
Option 1 ID : **264330526711**
Option 2 ID : **264330526714**
Option 3 ID : **264330526713**
Option 4 ID : **264330526712**
Status : **Answered**
Chosen Option : **3**

Comprehension:

In the following passage some of the words have been deleted. Read the passage carefully and select the correct answer for the given blank out of the four alternatives.
Network security (1) _____ securing a network and protecting the user's information about (2) _____ is connected through that network. Over the network (3) _____ steal, the packets of data through sniffing and spoofing (4) _____, man in the middle attack, war driving, etc, and misuse the data for their (5) _____.

SubQuestion No : 24

Q.24 Select the most appropriate option to fill in blank number 4.

Ans

✓ 1. attacks

✗ 2. guards

✗ 3. charges

✗ 4. raids

Question Type : **MCQ**
Question ID : **264330134436**
Option 1 ID : **264330526718**
Option 2 ID : **264330526715**
Option 3 ID : **264330526716**
Option 4 ID : **264330526717**
Status : **Answered**
Chosen Option : **1**

Join Telegram Group "HaryanaJobs.in"

Comprehension:

In the following passage some of the words have been deleted. Read the passage carefully and select the correct answer for the given blank out of the four alternatives.
Network security (1) _____ securing a network and protecting the user's information about (2) _____ is connected through that network. Over the network (3) _____ steal, the packets of data through sniffing and spoofing (4) _____, man in the middle attack, war driving, etc, and misuse the data for their (5) _____.

SubQuestion No : 25

Q.25 Select the most appropriate option to fill in blank number 5.

Ans

✔ 1. benefits

✘ 2. pleasure

✘ 3. hindrances

✘ 4. banes

Question Type : **MCQ**
Question ID : **264330134437**
Option 1 ID : **264330526721**
Option 2 ID : **264330526722**
Option 3 ID : **264330526720**
Option 4 ID : **264330526719**
Status : **Answered**
Chosen Option : **3**

Join Telegram Group "HaryanaJobs.in"

Multi Tasking Non Technical Staff and Havaldar CBIC and CBN Examination 2022

Roll Number	HaryanaJobs.in
Candidate Name	HaryanaJobs.in
Venue Name	R K Digital Computer Centre 2
Exam Date	15/05/2023
Exam Time	9:00 AM - 10:30 AM
Subject	MTS Non Tech Havaldar CBIC and CBN Examination 2022

Section : **Numerical and Mathematical Ability**

Q.1 क्रय मूल्य और विक्रय मूल्य के बीच Rs. 143 का अंतर है। यदि लाभ प्रतिशत 26 प्रतिशत है, तो विक्रय मूल्य क्या है?

Ans

✗ 1. Rs. 713

✗ 2. Rs. 676

✓ 3. Rs. 693

✗ 4. Rs. 603

Question Type : **MCQ**
Question ID : **264330133842**
Option 1 ID : **264330524391**
Option 2 ID : **264330524394**
Option 3 ID : **264330524393**
Option 4 ID : **264330524392**
Status : **Answered**
Chosen Option : **3**

Q.2 रंगीन ब्लॉक की कुल संख्या 1260 है। यदि लाल ब्लॉक और नीले ब्लॉक का अनुपात 2:5 है और नीले ब्लॉक और पीले ब्लॉक का अनुपात 15:7 है, तो पीले ब्लॉक की संख्या कितनी है?

Ans

✗ 1. 270

✗ 2. 745

✗ 3. 675

✓ 4. 315

Question Type : **MCQ**
Question ID : **264330133844**
Option 1 ID : **264330524400**
Option 2 ID : **264330524402**
Option 3 ID : **264330524401**
Option 4 ID : **264330524399**
Status : **Answered**
Chosen Option : **4**

Join Telegram Group "HaryanaJobs.in"

Q.3 {20 of 4 + (40 - 14 + 30) - 84} का मान ज्ञात कीजिए।

Ans
1. 50
2. 52
3. 55
4. 44

Question Type : **MCQ**
Question ID : **264330133757**
Option 1 ID : **264330524052**
Option 2 ID : **264330524054**
Option 3 ID : **264330524051**
Option 4 ID : **264330524053**
Status : **Answered**
Chosen Option : **2**

Q.4 निम्नलिखित दंड आलेख में एक कारखाने में 4 क्रमागत सप्ताहों के दौरान निर्मित साइकलों की संख्या को दर्शाया गया है। इन सप्ताहों में प्रति सप्ताह निर्मित साइकलों की औसत संख्या कितनी है?

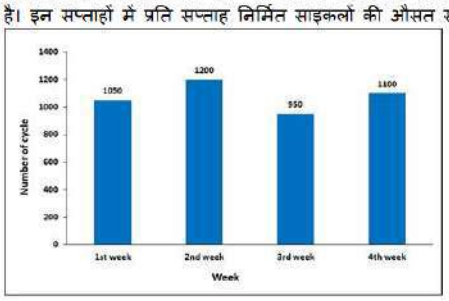

Number of cycle = साइकलों की संख्या

1st week = पहला सप्ताह, 2nd week = दूसरा सप्ताह, 3rd week = तीसरा सप्ताह, 4th week = चौथा सप्ताह

Week = सप्ताह

Ans
1. 1085
2. 1075
3. 1120
4. 1015

Question Type : **MCQ**
Question ID : **264330133852**
Option 1 ID : **264330524432**
Option 2 ID : **264330524431**
Option 3 ID : **264330524433**
Option 4 ID : **264330524434**
Status : **Answered**
Chosen Option : **2**

Join Telegram Group "HaryanaJobs.in"

Q.5 पिंकी और रिंकी मिलकर किसी काम को 20 दिनों में पूरा कर सकती हैं। रिंकी और मिंकी मिलकर इसे 12 दिनों में पूरा कर सकती हैं जबकि पिंकी और मिंकी मिलकर इसे 15 दिनों में पूरा कर सकती हैं। रिंकी अकेले इसे कितने दिनों में पूरा कर सकती है?

Ans
✔ 1. 30 दिन
✘ 2. 10 दिन
✘ 3. 25 दिन
✘ 4. 20 दिन

Question Type : **MCQ**
Question ID : **264330133641**
Option 1 ID : **264330523589**
Option 2 ID : **264330523587**
Option 3 ID : **264330523590**
Option 4 ID : **264330523588**
Status : **Answered**
Chosen Option : **1**

Q.6 कृष को 24 मीटर दौड़ने में उतना ही समय लगता है जितना एक बस को 72 मीटर की दूरी तय करने में लगता है। बस द्वारा 4.8 km की दूरी तय करने पर कृष द्वारा तय की गई दूरी कितनी होगी?

Ans
✘ 1. 2.4 km
✘ 2. 2.1 km
✔ 3. 1.6 km
✘ 4. 3.6 km

Question Type : **MCQ**
Question ID : **264330133848**
Option 1 ID : **264330524416**
Option 2 ID : **264330524418**
Option 3 ID : **264330524415**
Option 4 ID : **264330524417**
Status : **Answered**
Chosen Option : **3**

Q.7 [-11 + 2 - 12 ÷ 4] × 5 का मान है:

Ans
✔ 1. -60
✘ 2. -12
✘ 3. 17
✘ 4. 84

Question Type : **MCQ**
Question ID : **264330133836**
Option 1 ID : **264330524369**
Option 2 ID : **264330524367**
Option 3 ID : **264330524368**
Option 4 ID : **264330524370**
Status : **Answered**
Chosen Option : **1**

Join Telegram Group "HaryanaJobs.in"

Q.8 साधारण ब्याज पर एक धनराशि 3 वर्ष में Rs. 800 और 4 वर्ष में Rs. 900 हो जाती है। वह धनराशि है:

Ans
1. Rs.600
2. Rs.800
3. Rs.500
4. Rs.700

Question Type : **MCQ**
Question ID : **264330133746**
Option 1 ID : **264330524008**
Option 2 ID : **264330524010**
Option 3 ID : **264330524007**
Option 4 ID : **264330524009**
Status : **Answered**
Chosen Option : **3**

Q.9 Rs. 60000 पर 4% वार्षिक चक्रवृद्धि ब्याज Rs. 4896 होता है। वर्षों में समय अवधि कितनी है?

Ans
1. 2 वर्ष
2. 4 वर्ष
3. 1 वर्ष
4. 3 वर्ष

Question Type : **MCQ**
Question ID : **264330133847**
Option 1 ID : **264330524412**
Option 2 ID : **264330524414**
Option 3 ID : **264330524411**
Option 4 ID : **264330524413**
Status : **Answered**
Chosen Option : **1**

Q.10 5/33, 25/11, 20/55 और 15/77 का लघुत्तम समापवर्त्य (LCM) है:

Ans
1. 300/11
2. 25/33
3. 500/11
4. 300/77

Question Type : **MCQ**
Question ID : **264330135110**
Option 1 ID : **264330529375**
Option 2 ID : **264330529376**
Option 3 ID : **264330529377**
Option 4 ID : **264330529378**
Status : **Answered**
Chosen Option : **1**

Join Telegram Group "HaryanaJobs.in"

Q.11 10 संख्याओं का योग 686 है। उनका औसत क्या है?

Ans
✔ 1. 68.6
✘ 2. 66.6
✘ 3. 65.5
✘ 4. 67.5

Question Type : **MCQ**
Question ID : **264330133838**
Option 1 ID : **264330524377**
Option 2 ID : **264330524378**
Option 3 ID : **264330524376**
Option 4 ID : **264330524375**
Status : **Answered**
Chosen Option : **1**

Q.12 एक ठोस धात्विक गोले की त्रिज्या 28 cm है। यदि इसे पिघलाकर 3.5 cm त्रिज्या के छोटे-छोटे गोले बनाए जाएँ, तो कितने छोटे गोले बनेंगे?

Ans
✔ 1. 512
✘ 2. 424
✘ 3. 496
✘ 4. 624

Question Type : **MCQ**
Question ID : **264330137616**
Option 1 ID : **264330539071**
Option 2 ID : **264330539074**
Option 3 ID : **264330539073**
Option 4 ID : **264330539072**
Status : **Answered**
Chosen Option : **1**

Join Telegram Group "HaryanaJobs.in"

Q.13 निम्न तालिका में एक कंपनी द्वारा दो वर्षों में विभिन्न देशों में किए गए उत्पादों के निर्यात (सौ में) को दर्शाया गया है। दोनों वर्षों में मिलाकर रूस और भारत के उत्पादों का कुल निर्यात ज्ञात कीजिए।

Countries	Export in 2018	Export in 2019
China	440	400
India	320	280
Japan	340	330
Australia	480	460
Korea	210	260
Russia	180	190

Countries = देश, Export in 2018 = 2018 में निर्यात, Export in 2019 = 2019 में निर्यात

China = चीन, India = भारत, Japan = जापान, Australia = ऑस्ट्रेलिया, Korea = कोरिया, Russia = रूस

Ans

✗ 1. 96,000

✗ 2. 99,000

✗ 3. 88,000

✓ 4. 97,000

Question Type : **MCQ**
Question ID : **264330133771**
Option 1 ID : **264330524110**
Option 2 ID : **264330524108**
Option 3 ID : **264330524107**
Option 4 ID : **264330524109**
Status : **Answered**
Chosen Option : **4**

Q.14 महामारी फैलने के कारण एक शहर की आबादी 156940 से घटकर 141246 हो गई। आबादी में कितने प्रतिशत की कमी हुई है?

Ans

✗ 1. 8%

✓ 2. 10%

✗ 3. 15%

✗ 4. 12%

Question Type : **MCQ**
Question ID : **264330133840**
Option 1 ID : **264330524383**
Option 2 ID : **264330524384**
Option 3 ID : **264330524386**
Option 4 ID : **264330524385**
Status : **Answered**
Chosen Option : **2**

Join Telegram Group "HaryanaJobs.in"

Q.15 राम, तीन समान दूरियों के लिए 15 km/hr, 10 km/hr और 12 km/hr की चाल से यात्रा करता है। यदि उसके द्वारा तय की गई कुल दूरी 180 km है, तो उसकी औसत चाल क्या है?

Ans

1. ✗ 18 km/hr
2. ✓ 12 km/hr
3. ✗ 15 km/hr
4. ✗ 20 km/hr

Question Type : **MCQ**
Question ID : **264330135135**
Option 1 ID : **264330529477**
Option 2 ID : **264330529476**
Option 3 ID : **264330529475**
Option 4 ID : **264330529478**
Status : **Answered**
Chosen Option : **2**

Q.16 महेश और सुरेश अकेले किसी कार्य को क्रमश: 20 दिन और 30 दिन में पूरा कर सकते हैं। साथ मिलकर कार्य पूरा करने के लिए उन्हें Rs. 3300 मिले। इसमें महेश का हिस्सा कितना है?

Ans

1. ✗ Rs. 1720
2. ✗ Rs. 2080
3. ✗ Rs. 1800
4. ✓ Rs. 1980

Question Type : **MCQ**
Question ID : **264330137603**
Option 1 ID : **264330539019**
Option 2 ID : **264330539022**
Option 3 ID : **264330539020**
Option 4 ID : **264330539021**
Status : **Answered**
Chosen Option : **4**

Q.17 जब कोई धनराशि 50 बच्चों में समान रूप से वितरित की गई, तो प्रत्येक बच्चे को Rs. 80 प्राप्त हुए। यदि समान राशि को बच्चों के दूसरे समूह में समान रूप से इस प्रकार वितरित किया जाए कि प्रत्येक बच्चे को Rs. 50 प्राप्त हों, तो दूसरे समूह में बच्चों की संख्या कितनी है?

Ans

1. ✗ 60
2. ✗ 50
3. ✓ 80
4. ✗ 40

Question Type : **MCQ**
Question ID : **264330133845**
Option 1 ID : **264330524405**
Option 2 ID : **264330524404**
Option 3 ID : **264330524406**
Option 4 ID : **264330524403**
Status : **Answered**
Chosen Option : **3**

Join Telegram Group "HaryanaJobs.in"

Q.18 एक दुकानदार Rs. 5000 में सूचीबद्ध एक डाइनिंग-सेट को 20% और 10% के क्रमागत बट्टों पर एक आदमी को बेचता है। डाइनिंग सेट का विक्रय मूल्य क्या है?

Ans

✔ 1. Rs. 3600

✘ 2. Rs. 1000

✘ 3. Rs. 4000

✘ 4. Rs. 4800

Question Type : **MCQ**
Question ID : **264330133843**
Option 1 ID : **264330524396**
Option 2 ID : **264330524397**
Option 3 ID : **264330524395**
Option 4 ID : **264330524398**
Status : **Answered**
Chosen Option : **1**

Q.19 18 cm त्रिज्या वाले एक गोले को पिघलाया जाता है और फिर इससे 4 cm आधार त्रिज्या का एक ठोस बेलन बनाया जाता है। ठोस बेलन की ऊँचाई कितनी है?

Ans

✘ 1. 384 cm

✔ 2. 486 cm

✘ 3. 196 cm

✘ 4. 224 cm

Question Type : **MCQ**
Question ID : **264330133646**
Option 1 ID : **264330523607**
Option 2 ID : **264330523609**
Option 3 ID : **264330523608**
Option 4 ID : **264330523610**
Status : **Answered**
Chosen Option : **2**

Q.20 एक वस्तु के क्रय मूल्य का 40 प्रतिशत उसके विक्रय मूल्य के 25 प्रतिशत के बराबर है। वस्तु पर लाभ प्रतिशत क्या है?

Ans

✘ 1. 120 प्रतिशत

✔ 2. 60 प्रतिशत

✘ 3. 150 प्रतिशत

✘ 4. 50 प्रतिशत

Question Type : **MCQ**
Question ID : **264330137137**
Option 1 ID : **264330537192**
Option 2 ID : **264330537193**
Option 3 ID : **264330537194**
Option 4 ID : **264330537191**
Status : **Answered**
Chosen Option : **2**

Section : **Reasoning Ability and Problem Solving**

Join Telegram Group "HaryanaJobs.in"

Q.1 उस विकल्प आकृति को चुनिए जिसमें दी गई आकृति (X) इसके भाग के रूप में निहित है। (घूर्णन की अनुमति नहीं है)।



(X)

Ans

✗ 1. 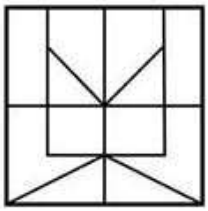

✓ 2. 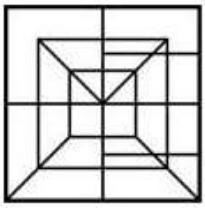

✗ 3. 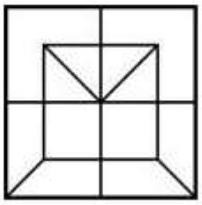

✗ 4. 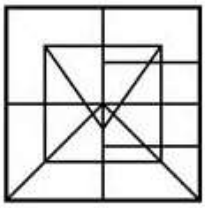

Question Type : **MCQ**
Question ID : **264330133483**
Option 1 ID : **264330522964**
Option 2 ID : **264330522966**
Option 3 ID : **264330522963**
Option 4 ID : **264330522965**
Status : **Answered**
Chosen Option : **2**

Q.2 पाँच मित्र A, B, G, R और T को एक पंक्ति में उत्तर की ओर मुख करके बैठाया गया है, परंतु जरूरी नहीं है कि वे इसी क्रम में बैठे हों। B पंक्ति के बाएँ छोर पर बैठा है। A और G के बीच केवल दो व्यक्ति बैठे हैं। A, B के ठीक बगल में बैठा है और R, B के दाएँ से दूसरे स्थान पर बैठा है। R और G के बीच कौन बैठा है?

Ans

✓ 1. T

✗ 2. B

✗ 3. A

✗ 4. कोई भी नहीं

Question Type : **MCQ**
Question ID : **264330133567**
Option 1 ID : **264330523293**
Option 2 ID : **264330523291**
Option 3 ID : **264330523294**
Option 4 ID : **264330523292**
Status : **Answered**
Chosen Option : **4**

Join Telegram Group "HaryanaJobs.in"

Q.3 उस समुच्चय को चुनिए जिसमें संख्याएँ उसी प्रकार संबंधित हैं जिस प्रकार निम्नलिखित समुच्चयों की संख्याएँ संबंधित हैं। (ध्यान दें: संख्याओं को उनके घटक अंकों में अलग-अलग किए बिना, पूर्ण संख्याओं पर संक्रियाएँ की जानी चाहिए। उदाहरण 13 - 13 पर संक्रियाएँ जैसे 13 को जोड़ना / घटाना / गुणा करना आदि किया जा सकता है। 13 को 1 एवं 3 में अलग करने की और फिर 1 एवं 3 पर गणितीय संक्रियाएँ करने की अनुमति नहीं है)
(17, 35, 72)
(13, 27, 56)

Ans
✗ 1. (11, 24, 50)
✗ 2. (12, 25, 50)
✗ 3. (18, 36, 110)
✓ 4. (15, 31, 64)

Question Type : **MCQ**
Question ID : **264330133575**
Option 1 ID : **264330523325**
Option 2 ID : **264330523326**
Option 3 ID : **264330523324**
Option 4 ID : **264330523323**
Status : **Answered**
Chosen Option : **4**

Q.4 उस विकल्प को चुनिए जो तीसरी संख्या से ठीक उसी प्रकार संबंधित है जिस प्रकार दूसरी संख्या पहली संख्या से संबंधित है।
12 : 1730 :: 9 : ?

Ans
✓ 1. 731
✗ 2. 730
✗ 3. 741
✗ 4. 733

Question Type : **MCQ**
Question ID : **264330133574**
Option 1 ID : **264330523320**
Option 2 ID : **264330523319**
Option 3 ID : **264330523322**
Option 4 ID : **264330523321**
Status : **Answered**
Chosen Option : **1**

Q.5 दी गई श्रृंखला में निम्नलिखित में से कौन-सी संख्या प्रश्न चिन्ह (?) के स्थान पर आएगी?
47, 37, 29, 23, 19, ?

Ans
✗ 1. 14
✗ 2. 15
✗ 3. 16
✓ 4. 17

Question Type : **MCQ**
Question ID : **264330133572**
Option 1 ID : **264330523313**
Option 2 ID : **264330523314**
Option 3 ID : **264330523312**
Option 4 ID : **264330523311**
Status : **Answered**
Chosen Option : **4**

Join Telegram Group "HaryanaJobs.in"

Q.6 दी गई श्रृंखला में निम्नलिखित में से कौन-सी संख्या प्रश्न चिन्ह (?) के स्थान पर आएगी?
53, 54, 50, 59, 43, ?

Ans
1. 18 ✗
2. 61 ✗
3. 58 ✗
4. 68 ✓

Question Type : **MCQ**
Question ID : **264330133573**
Option 1 ID : **264330523318**
Option 2 ID : **264330523317**
Option 3 ID : **264330523315**
Option 4 ID : **264330523316**
Status : **Answered**
Chosen Option : **4**

Q.7 उस विकल्प को चुनिए जो तीसरे शब्द से ठीक उसी प्रकार संबंधित है जिस प्रकार दूसरा शब्द पहले शब्द से संबंधित है।
लैटिन : भाषा :: तलवारबाजी : ?

Ans
1. स्थान ✗
2. खेल ✓
3. बीमारी ✗
4. वाहन ✗

Question Type : **MCQ**
Question ID : **264330133563**
Option 1 ID : **264330523278**
Option 2 ID : **264330523275**
Option 3 ID : **264330523277**
Option 4 ID : **264330523276**
Status : **Answered**
Chosen Option : **2**

Q.8 उस विकल्प को चुनिए जो तीसरे शब्द से ठीक उसी प्रकार संबंधित है जिस प्रकार दूसरा शब्द पहले शब्द से संबंधित है।
बिल्ली : म्याऊँ :: पक्षी : ?

Ans
1. कलरव (Chirp) ✓
2. फुफकार (Hiss) ✗
3. गुर्राना (Growl) ✗
4. हिनहिनाना (Neigh) ✗

Question Type : **MCQ**
Question ID : **264330133562**
Option 1 ID : **264330523272**
Option 2 ID : **264330523271**
Option 3 ID : **264330523273**
Option 4 ID : **264330523274**
Status : **Answered**
Chosen Option : **1**

Join Telegram Group "HaryanaJobs.in"

Q.9 किसी एक खास कूट भाषा में, 'SLEEP' को 'TLEEQ' लिखा जाता है। उस भाषा में 'DROWSY' को कैसे लिखा जाएगा?

Ans

✔ 1. EROWSZ

✘ 2. ERWOSZ

✘ 3. ERWOZS

✘ 4. ROWSZQ

Question Type : **MCQ**
Question ID : **264330133451**
Option 1 ID : **264330522837**
Option 2 ID : **264330522836**
Option 3 ID : **264330522838**
Option 4 ID : **264330522835**
Status : **Answered**
Chosen Option : **1**

Q.10 दी गई आकृति के उस सही दर्पण प्रतिबिंब को चुनिए, जो नीचे दर्शाए गए अनुसार दर्पण को MN पर रखने पर बनेगा।

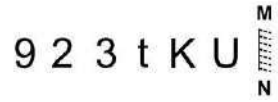

Ans

✘ 1.

✘ 2.

✔ 3.

✘ 4.

Question Type : **MCQ**
Question ID : **264330133484**
Option 1 ID : **264330522969**
Option 2 ID : **264330522967**
Option 3 ID : **264330522970**
Option 4 ID : **264330522968**
Status : **Answered**
Chosen Option : **3**

Q.11 किसी एक खास कूट भाषा में, 'MARS' को '51' लिखा जाता है और 'COLD' को '34' लिखा जाता है। उस कूट भाषा में 'ACID' को कैसे लिखा जाएगा?

Ans

✘ 1. 16

✘ 2. 19

✔ 3. 17

✘ 4. 18

Question Type : **MCQ**
Question ID : **264330133469**
Option 1 ID : **264330522908**
Option 2 ID : **264330522910**
Option 3 ID : **264330522909**
Option 4 ID : **264330522907**
Status : **Answered**
Chosen Option : **3**

Join Telegram Group "HaryanaJobs.in"

Q.12 दी गई श्रृंखला में निम्नलिखित में से कौन-सा अक्षर समूह प्रश्न चिन्ह (?) के स्थान पर आएगा?
OD, LA, IX, FU, ?

Ans
1. CR
2. CS
3. CT
4. BR

Question Type : **MCQ**
Question ID : **264330133561**
Option 1 ID : **264330523268**
Option 2 ID : **264330523267**
Option 3 ID : **264330523270**
Option 4 ID : **264330523269**
Status : **Answered**
Chosen Option : **1**

Join Telegram Group "HaryanaJobs.in"

Q.13 उस विकल्प आकृति को चुनिए जो नीचे दी गई आकृति में पैटर्न को पूरा करने के लिए प्रश्न चिन्ह (?) के स्थान पर आएगी।



Ans

✗ 1.

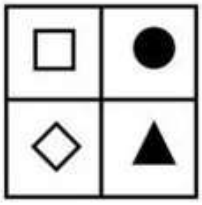

✓ 2.



✗ 3.



✗ 4.

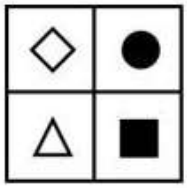

Question Type : **MCQ**
Question ID : **264330133580**
Option 1 ID : **264330523346**
Option 2 ID : **264330523343**
Option 3 ID : **264330523345**
Option 4 ID : **264330523344**
Status : **Answered**
Chosen Option : **2**

Join Telegram Group "HaryanaJobs.in"

Q.14 दिए गए समीकरण को सही करने के लिए किन दो चिन्हों को आपस में बदला जाना चाहिए?
7 × 2 + 4 - 6 ÷ 3 = 12

Ans
1. - और =
2. = और ×
3. × और -
4. - और +

Question Type : **MCQ**
Question ID : **264330133462**
Option 1 ID : **264330522881**
Option 2 ID : **264330522879**
Option 3 ID : **264330522880**
Option 4 ID : **264330522882**
Status : **Answered**
Chosen Option : **4**

Q.15 एक निश्चित कूट भाषा में, 'CROWNED' को 'OWRCEND' लिखा जाता है। उस भाषा में 'SERGENT' को कैसे लिखा जाएगा?

Ans
1. REGSNET
2. RGESNET
3. REGSENT
4. RGESENT

Question Type : **MCQ**
Question ID : **264330137564**
Option 1 ID : **264330538865**
Option 2 ID : **264330538863**
Option 3 ID : **264330538864**
Option 4 ID : **264330538866**
Status : **Answered**
Chosen Option : **2**

Q.16 दो कथन दिए गए हैं और दो निष्कर्ष I और II दिए गए हैं। कथनों को सत्य मानते हुए, चाहे वे सामान्यतः ज्ञात तथ्यों से अलग प्रतीत होते हों, निश्चय कीजिए कि कौन-सा निष्कर्ष तार्किक रूप से कथनों के अनुसार है।
कथन:
कोई खगोलशास्त्री, लंबा नहीं है।
कुछ लंबे, सुंदर हैं।
निष्कर्ष:
I. कुछ खगोलशास्त्री, सुंदर हैं।
II. कोई लंबा, खगोलशास्त्री नहीं है।

Ans
1. न तो निष्कर्ष I और न ही II कथनों के अनुसार है।
2. दोनों निष्कर्ष I और II कथनों के अनुसार हैं।
3. केवल निष्कर्ष II कथनों के अनुसार है।
4. केवल निष्कर्ष I कथनों के अनुसार है।

Question Type : **MCQ**
Question ID : **264330133570**
Option 1 ID : **264330523306**
Option 2 ID : **264330523305**
Option 3 ID : **264330523304**
Option 4 ID : **264330523303**
Status : **Answered**
Chosen Option : **3**

Join Telegram Group "HaryanaJobs.in"

Q.17 नीचे दिए गए समीकरण में कौन-से गणितीय चिन्हों को आपस में बदला जाना चाहिए जिससे यह समीकरण गणितीय रूप से सही हो जाएगा?
6 ÷ 48 + 12 × 9 - 7 = 35

Ans

✔ 1. ÷ और +

✘ 2. × और -

✘ 3. × और +

✘ 4. ÷ और ×

Question Type : **MCQ**
Question ID : **264330133576**
Option 1 ID : **264330523328**
Option 2 ID : **264330523330**
Option 3 ID : **264330523329**
Option 4 ID : **264330523327**
Status : **Answered**
Chosen Option : **1**

Q.18 Two Statements are given followed by two conclusions numbered I and II. Assuming the statements to be true, even if they seem to be at variance with commonly known facts, decide which of the conclusions logically follow(s) from the statements.
Statements:
All crows are birds.
Some parrots are birds.
Conclusions:
I. No crow is a parrot.
II. Some crows are parrots.

Ans

✘ 1. Only conclusion II follows.

✘ 2. Only conclusion I follows.

✔ 3. Either conclusion I or II follows.

✘ 4. Both conclusions I and II follow.

Question Type : **MCQ**
Question ID : **264330133571**
Option 1 ID : **264330523308**
Option 2 ID : **264330523307**
Option 3 ID : **264330523310**
Option 4 ID : **264330523309**
Status : **Answered**
Chosen Option : **3**

Join Telegram Group "HaryanaJobs.in"

Q.19 एक परीक्षा भवन में सात छात्र अयान, चंदन, जतिन, कनिका, नैना, पिंकी और स्वीटी एक पंक्ति में उत्तर की ओर मुख करके बैठे हैं, परंतु जरूरी नहीं है कि वे इसी क्रम में बैठे हों। चंदन, स्वीटी के दाएँ से तीसरे स्थान पर बैठा है। अयान और पिंकी चंदन के निकटतम पड़ोसी हैं। पिंकी और स्वीटी के बीच दो से अधिक छात्र बैठे हैं। जतिन नैना का एकमात्र पड़ोसी है। जतिन अयान के दाईं ओर बैठा है। कनिका के सापेक्ष नैना का स्थान कौन-सा है?

Ans

1. ✗ दाएँ से तीसरा
2. ✓ दाएँ से पाँचवाँ
3. ✗ बाएँ से पाँचवाँ
4. ✗ बाएँ से तीसरा

Question Type : **MCQ**
Question ID : **264330133568**
Option 1 ID : **264330523295**
Option 2 ID : **264330523296**
Option 3 ID : **264330523298**
Option 4 ID : **264330523297**
Status : **Answered**
Chosen Option : **2**

Q.20 पाँच लड़कियों अंजली, बीना, चिंटू, दीक्षा और श्रुति की आयु अलग-अलग हैं। अंजली केवल दीक्षा और श्रुति से छोटी है। श्रुति दीक्षा से छोटी है। चिंटू सबसे छोटी है। समूह में चौथी सबसे बड़ी कौन है?

Ans

1. ✗ दीक्षा
2. ✓ बीना
3. ✗ चिंटू
4. ✗ श्रुति

Question Type : **MCQ**
Question ID : **264330133569**
Option 1 ID : **264330523302**
Option 2 ID : **264330523299**
Option 3 ID : **264330523301**
Option 4 ID : **264330523300**
Status : **Answered**
Chosen Option : **2**

Section : **General Awareness**

Q.1 National Family Benefit Scheme was started in August _____ by Government of India.

Ans

1. ✓ 1995
2. ✗ 2000
3. ✗ 2005
4. ✗ 2002

Question Type : **MCQ**
Question ID : **264330137748**
Option 1 ID : **264330539601**
Option 2 ID : **264330539602**
Option 3 ID : **264330539600**
Option 4 ID : **264330539599**
Status : **Not Answered**
Chosen Option : **--**

Join Telegram Group "HaryanaJobs.in"

Q.2 सैम की वार्षिक आय 9 लाख रुपए है। वित्त वर्ष 2021-22 की आयकर स्लैब दरों (Income Tax Slab Rates) की नई व्यवस्था के अनुसार उसकी आय पर भारत का कौन-सा टैक्स स्लैब (नई व्यवस्था) लागू होगा?

Ans
✔ 1. 15%
✘ 2. 10%
✘ 3. 20%
✘ 4. 5%

Question Type : **MCQ**
Question ID : **264330133930**
Option 1 ID : **264330524745**
Option 2 ID : **264330524743**
Option 3 ID : **264330524744**
Option 4 ID : **264330524746**
Status : **Answered**
Chosen Option : **1**

Q.3 भारत के उपराष्ट्रपति का पद कितने वर्षों का होता है?

Ans
✘ 1. तीन
✔ 2. पाँच
✘ 3. चार
✘ 4. छः

Question Type : **MCQ**
Question ID : **264330134052**
Option 1 ID : **264330525231**
Option 2 ID : **264330525234**
Option 3 ID : **264330525232**
Option 4 ID : **264330525233**
Status : **Answered**
Chosen Option : **2**

Q.4 किस प्रकार के घर्षण को स्वयं-समायोजन बल (self-adjusting force) माना जाता है?

Ans
✘ 1. अभिकेंद्र घर्षण
✘ 2. लोटनिक घर्षण
✘ 3. गतिज घर्षण
✔ 4. स्थैतिक घर्षण

Question Type : **MCQ**
Question ID : **264330134036**
Option 1 ID : **264330525169**
Option 2 ID : **264330525167**
Option 3 ID : **264330525168**
Option 4 ID : **264330525170**
Status : **Answered**
Chosen Option : **1**

Join Telegram Group "HaryanaJobs.in"

Q.5 पंडित लच्छू महाराज (Pandit Lachhu Maharaj) का संबंध मुख्य रूप से निम्नलिखित में से किस नृत्य से था?

Ans
1. भरतनाट्यम
2. ओडिसी
3. कथक
4. मणिपुरी

Question Type : **MCQ**
Question ID : **264330134033**
Option 1 ID : **264330525157**
Option 2 ID : **264330525156**
Option 3 ID : **264330525155**
Option 4 ID : **264330525158**
Status : **Answered**
Chosen Option : **3**

Q.6 मई 2022 तक, भारत में चीनी का सबसे बड़ा उत्पादक राज्य कौन-सा है?

Ans
1. महाराष्ट्र
2. तमिलनाडु
3. उत्तरप्रदेश
4. तेलंगाना

Question Type : **MCQ**
Question ID : **264330133915**
Option 1 ID : **264330524684**
Option 2 ID : **264330524685**
Option 3 ID : **264330524683**
Option 4 ID : **264330524686**
Status : **Answered**
Chosen Option : **1**

Q.7 SAI भारत की सर्वोच्च राष्ट्रीय खेल संस्था है। SAI का पूर्ण रूप क्या है?

Ans
1. स्पोर्ट्स एकेडमी ऑफ इंडिया (Sports Academy of India)
2. स्पोर्ट्स अथॉरिटी ऑफ इंडिया (Sports Authority of India)
3. स्पोर्ट्स एसोसिएशन ऑफ इंडिया (Sports Association of India)
4. स्पोर्ट्स एजेंसी ऑफ इंडिया (Sports Agency of India)

Question Type : **MCQ**
Question ID : **264330134053**
Option 1 ID : **264330525236**
Option 2 ID : **264330525237**
Option 3 ID : **264330525238**
Option 4 ID : **264330525235**
Status : **Answered**
Chosen Option : **2**

Join Telegram Group "HaryanaJobs.in"

Q.8 2022 शीतकालीन ओलंपिक की मेजबानी किस शहर ने की है?

Ans
1. मेलबर्न
2. बीजिंग
3. टोक्यो
4. मिलान

Question Type : **MCQ**
Question ID : **264330134054**
Option 1 ID : **264330525240**
Option 2 ID : **264330525241**
Option 3 ID : **264330525242**
Option 4 ID : **264330525239**
Status : **Answered**
Chosen Option : **2**

Q.9 भारत के किस स्वतंत्रता सेनानी ने लखनऊ में 1857 के प्रसिद्ध विद्रोह (सिपाही विद्रोह) का नेतृत्व किया था?

Ans
1. बेगम हजरत महल
2. अल्लूरी सीताराम राजू
3. रानी लक्ष्मी बाई
4. कस्तूरबा गांधी

Question Type : **MCQ**
Question ID : **264330133921**
Option 1 ID : **264330524709**
Option 2 ID : **264330524708**
Option 3 ID : **264330524707**
Option 4 ID : **264330524710**
Status : **Answered**
Chosen Option : **1**

Q.10 गणगौर एक भारतीय त्योहार है जो प्रमुख रूप से _____ में मनाया जाता है।

Ans
1. राजस्थान
2. हिमाचल प्रदेश
3. त्रिपुरा
4. अरुणाचल प्रदेश

Question Type : **MCQ**
Question ID : **264330133934**
Option 1 ID : **264330524760**
Option 2 ID : **264330524761**
Option 3 ID : **264330524759**
Option 4 ID : **264330524762**
Status : **Answered**
Chosen Option : **1**

Join Telegram Group "HaryanaJobs.in"

Q.11 भागीरथी नदी का उद्गम गौमुख हिमनद से होता है। यह देवप्रयाग में अलकनंदा से मिलकर _____ नदी बनाती है।

Ans
1. रावी ✗
2. सरस्वती ✗
3. गंगा ✓
4. यमुना ✗

Question Type : **MCQ**
Question ID : **264330134041**
Option 1 ID : **264330525188**
Option 2 ID : **264330525189**
Option 3 ID : **264330525190**
Option 4 ID : **264330525187**
Status : **Answered**
Chosen Option : **3**

Q.12 अक्टूबर 2022 में प्रधानमंत्री नरेंद्र मोदी द्वारा शुरू की गई "वन नेशन वन फर्टिलाइज़र (One Nation One Fertilizer)" योजना के तहत उस ब्रांड का नाम बताइए जिसके तहत ये सभी उर्वरक बेचे जाएंगे?

Ans
1. भारती (Bharti) ✗
2. भारतीय (Bhartiya) ✗
3. भारत (Bharat) ✓
4. भारतवासी (Bharatwasi) ✗

Question Type : **MCQ**
Question ID : **264330134031**
Option 1 ID : **264330525150**
Option 2 ID : **264330525148**
Option 3 ID : **264330525147**
Option 4 ID : **264330525149**
Status : **Answered**
Chosen Option : **2**

Q.13 21वीं सदी के किस प्रसिद्ध भारतीय लेखक ने 'मेलूहा के मृत्युंजय (शिव रचना त्रय) (The Immortals of Meluha (Shiva Trilogy))' उपन्यास लिखा था?

Ans
1. शशि थरूर ✗
2. दुर्जोय दत्ता ✗
3. रविंदर सिंह ✗
4. अमीश त्रिपाठी ✓

Question Type : **MCQ**
Question ID : **264330133923**
Option 1 ID : **264330524716**
Option 2 ID : **264330524717**
Option 3 ID : **264330524715**
Option 4 ID : **264330524718**
Status : **Answered**
Chosen Option : **4**

Join Telegram Group "HaryanaJobs.in"

Q.14 अल्लूरी सीताराम राजू भारत के _____ राज्य के एक आदिवासी स्वतंत्रता सेनानी थे।

Ans
✔ 1. आंध्रप्रदेश
✘ 2. महाराष्ट्र
✘ 3. गुजरात
✘ 4. बिहार

Question Type : **MCQ**
Question ID : **264330133947**
Option 1 ID : **264330524811**
Option 2 ID : **264330524812**
Option 3 ID : **264330524814**
Option 4 ID : **264330524813**
Status : **Answered**
Chosen Option : **1**

Q.15 किसने भरतनाट्यम में 'पंडानल्लूर (Pandanallur) शैली' को लोकप्रिय बनाया और 2004 में पद्म भूषण प्राप्त किया?

Ans
✘ 1. माधुरी दीक्षित
✘ 2. कुमारी कमला (Kumari Kamala)
✘ 3. मल्लिका साराभाई (Mallika Sarabhai)
✔ 4. अलारमेल वल्ली (Alarmel Valli)

Question Type : **MCQ**
Question ID : **264330133925**
Option 1 ID : **264330524724**
Option 2 ID : **264330524723**
Option 3 ID : **264330524725**
Option 4 ID : **264330524726**
Status : **Answered**
Chosen Option : **2**

Q.16 _____ is the division of the cytoplasm of one eukaryotic cell into two daughter cells.

Ans
✘ 1. Genesis
✘ 2. Karyokinesis
✘ 3. Sepsis
✔ 4. Cytokinesis

Question Type : **MCQ**
Question ID : **264330134037**
Option 1 ID : **264330525173**
Option 2 ID : **264330525171**
Option 3 ID : **264330525174**
Option 4 ID : **264330525172**
Status : **Answered**
Chosen Option : **4**

Join Telegram Group "HaryanaJobs.in"

Q.17 विंड वेन (Wind vane) यंत्र _____ निर्धारित करता है।

Ans
1. सापेक्षिक आर्द्रता
2. पवन का वेग
3. ताप
4. पवन की दिशा

Question Type : **MCQ**
Question ID : **264330134039**
Option 1 ID : **264330525181**
Option 2 ID : **264330525180**
Option 3 ID : **264330525182**
Option 4 ID : **264330525179**
Status : **Answered**
Chosen Option : **4**

Q.18 उस्ताद बिस्मिल्लाह खां _____ के सबसे महान प्रतिपादकों में से एक थे।

Ans
1. सितार
2. शहनाई
3. तबला
4. बांसुरी

Question Type : **MCQ**
Question ID : **264330134049**
Option 1 ID : **264330525222**
Option 2 ID : **264330525221**
Option 3 ID : **264330525220**
Option 4 ID : **264330525219**
Status : **Answered**
Chosen Option : **2**

Q.19 भारतीय अंटार्कटिक विधेयक, 2022 भारत के _____ मंत्रालय से संबंधित है।

Ans
1. विदेशी मामले
2. पृथ्वी विज्ञान
3. कानून और न्याय
4. जनजातीय मामले

Question Type : **MCQ**
Question ID : **264330133907**
Option 1 ID : **264330524651**
Option 2 ID : **264330524653**
Option 3 ID : **264330524654**
Option 4 ID : **264330524652**
Status : **Answered**
Chosen Option : **2**

Join Telegram Group "HaryanaJobs.in"

Q.20 भारतीय संविधान का कौन-सा अनुच्छेद समान नागरिक संहिता (uniform civil code) की बात करता है?

Ans
1. अनुच्छेद 44 ✔
2. अनुच्छेद 352 ✘
3. अनुच्छेद 370 ✘
4. अनुच्छेद 14 ✘

Question Type : **MCQ**
Question ID : **264330134051**
Option 1 ID : **264330525228**
Option 2 ID : **264330525230**
Option 3 ID : **264330525229**
Option 4 ID : **264330525227**
Status : **Answered**
Chosen Option : **1**

Q.21 कौन-सा भारतीय राज्य बौद्ध गुफा मंदिरों का घर है, जिन्हें बराबर गुफाओं (Barabar Caves) के नाम से जाना जाता है?

Ans
1. पश्चिम बंगाल ✘
2. बिहार ✔
3. उत्तरप्रदेश ✘
4. सिक्किम ✘

Question Type : **MCQ**
Question ID : **264330133910**
Option 1 ID : **264330524665**
Option 2 ID : **264330524663**
Option 3 ID : **264330524664**
Option 4 ID : **264330524666**
Status : **Answered**
Chosen Option : **2**

Q.22 निम्नलिखित में से कौन(130-150 ई.) भारत में एक शक शासक था?

Ans
1. पांडुका ✘
2. बिन्दुसार ✘
3. रुद्रदामन ✔
4. चश्ताना ✘

Question Type : **MCQ**
Question ID : **264330133944**
Option 1 ID : **264330524800**
Option 2 ID : **264330524799**
Option 3 ID : **264330524801**
Option 4 ID : **264330524802**
Status : **Not Answered**
Chosen Option : **--**

Join Telegram Group "HaryanaJobs.in"

Q.23 विभिन्न स्तरों पर विभिन्न प्रजातियों के ऊर्ध्वाधर वितरण (Vertical distribution) को _____ कहते हैं।

Ans
1. अपघटन (decomposition)
2. जैव आवर्धन (biomagnification)
3. सहविकास (coevolution)
4. स्तर विन्या (stratification)

Question Type : **MCQ**
Question ID : **264330134038**
Option 1 ID : **264330525177**
Option 2 ID : **264330525176**
Option 3 ID : **264330525178**
Option 4 ID : **264330525175**
Status : **Answered**
Chosen Option : **4**

Q.24 वर्ष 2011 की जनगणना के अनुसार, भारत में शहरी जनसंख्या का प्रतिशत _____ है।

Ans
1. 31.16
2. 35.6
3. 21.6
4. 25.6

Question Type : **MCQ**
Question ID : **264330133900**
Option 1 ID : **264330524625**
Option 2 ID : **264330524626**
Option 3 ID : **264330524623**
Option 4 ID : **264330524624**
Status : **Answered**
Chosen Option : **3**

Q.25 निम्नलिखित में से कौन मुगल बादशाह शाहजहाँ का पुत्र था?

Ans
1. सिकंदर लोधी
2. जहाँगीर
3. हुमायूँ
4. औरंगज़ेब

Question Type : **MCQ**
Question ID : **264330134045**
Option 1 ID : **264330525205**
Option 2 ID : **264330525206**
Option 3 ID : **264330525203**
Option 4 ID : **264330525204**
Status : **Answered**
Chosen Option : **4**

Section : **English Language and Comprehension**

Join Telegram Group "HaryanaJobs.in"

Q.1 **Select the most appropriate option to fill in the blank.**
Disturbing emotions begin to build into fear, and then _____.

Ans
✗ 1. boldness
✗ 2. server
✗ 3. assurance
✓ 4. terror

Question Type : **MCQ**
Question ID : **264330134422**
Option 1 ID : **264330526665**
Option 2 ID : **264330526666**
Option 3 ID : **264330526663**
Option 4 ID : **264330526664**
Status : **Answered**
Chosen Option : **4**

Q.2 Select the most appropriate option to substitute the bracketed segment in the given sentence. If there is no need to substitute it, select 'no substitution required'.
The Yoruba was (one of the west African city-state culture).

Ans
✗ 1. No substitution required
✗ 2. one of a west African city-state cultures
✗ 3. one of the west's African city-state culture
✓ 4. one of the west African city-state cultures

Question Type : **MCQ**
Question ID : **264330136087**
Option 1 ID : **264330533162**
Option 2 ID : **264330533160**
Option 3 ID : **264330533161**
Option 4 ID : **264330533159**
Status : **Answered**
Chosen Option : **4**

Q.3 **Choose the word that means the same as the given word.**
Consecutive

Ans
✗ 1. Executive
✗ 2. Important
✗ 3. Organized
✓ 4. Successive

Question Type : **MCQ**
Question ID : **264330134441**
Option 1 ID : **264330526735**
Option 2 ID : **264330526736**
Option 3 ID : **264330526738**
Option 4 ID : **264330526737**
Status : **Answered**
Chosen Option : **4**

Join Telegram Group "HaryanaJobs.in"

Q.4 **In the following question, out of the given four alternatives, select the alternative which best expresses the meaning of the Idiom/Phrase.**
To scratch one's head

Ans
1. To come up with an idea
2. To think hard in a puzzled way
3. To lose all the wealth
4. To think about good days

Question Type : **MCQ**
Question ID : **264330134522**
Option 1 ID : **264330527050**
Option 2 ID : **264330527047**
Option 3 ID : **264330527048**
Option 4 ID : **264330527049**
Status : **Answered**
Chosen Option : **1**

Q.5 **Choose the sentence with no spelling error.**

Ans
1. You are going to figure out everrything.
2. You are going to figrue out everything.
3. You are going to figure out everything.
4. You are going to figre out everything.

Question Type : **MCQ**
Question ID : **264330134421**
Option 1 ID : **264330526661**
Option 2 ID : **264330526662**
Option 3 ID : **264330526660**
Option 4 ID : **264330526659**
Status : **Answered**
Chosen Option : **3**

Q.6 **Select the appropriate synonym for the underlined word.**
The story shows the importance of <u>self-esteem</u>.

Ans
1. pride
2. humility
3. disgrace
4. shyness

Question Type : **MCQ**
Question ID : **264330134518**
Option 1 ID : **264330527031**
Option 2 ID : **264330527034**
Option 3 ID : **264330527033**
Option 4 ID : **264330527032**
Status : **Answered**
Chosen Option : **1**

Join Telegram Group "HaryanaJobs.in"

Q.7 **Choose the incorrectly spelt word.**

Ans
✗ 1. Molest
✗ 2. Called
✗ 3. Reflect
✓ 4. Temparory

Question Type : **MCQ**
Question ID : **264330134524**
Option 1 ID : **264330527058**
Option 2 ID : **264330527057**
Option 3 ID : **264330527056**
Option 4 ID : **264330527055**
Status : **Answered**
Chosen Option : **4**

Q.8 **A sentence has been given with a blank to be filled with an appropriate option. Choose the correct alternative.**
I bowed to him, but he _____ not to see me.

Ans
✗ 1. seems
✗ 2. seeming
✓ 3. seemed
✗ 4. seemingly

Question Type : **MCQ**
Question ID : **264330134508**
Option 1 ID : **264330526996**
Option 2 ID : **264330526998**
Option 3 ID : **264330526995**
Option 4 ID : **264330526997**
Status : **Answered**
Chosen Option : **3**

Q.9 **Improve the underlined part of the sentence. Choose 'No improvement' as an answer if the sentence is grammatically correct.**
The Tagore House is rehearsing a skit for the school's Annual Day Function.

Ans
✗ 1. was rehearse a skit
✓ 2. No improvement
✗ 3. is rehearsed an skit
✗ 4. has been rehearsing a skits

Question Type : **MCQ**
Question ID : **264330134507**
Option 1 ID : **264330526992**
Option 2 ID : **264330526994**
Option 3 ID : **264330526991**
Option 4 ID : **264330526993**
Status : **Answered**
Chosen Option : **4**

Join Telegram Group "HaryanaJobs.in"

Q.10 **Select the most appropriate option to fill in the blank.**
The researcher team took air _____ from the room every five minutes to rule out the possibility of a virus.

Ans
- ✔ 1. samples
- ✘ 2. droops
- ✘ 3. slices
- ✘ 4. instances

Question Type : **MCQ**
Question ID : **264330134527**
Option 1 ID : **264330527067**
Option 2 ID : **264330527070**
Option 3 ID : **264330527069**
Option 4 ID : **264330527068**
Status : **Answered**
Chosen Option : **1**

Q.11 **Choose the word that can substitute the given group of words.**
A person who does not believe in God

Ans
- ✘ 1. Iconoclast
- ✘ 2. Highbrow
- ✔ 3. Atheist
- ✘ 4. Lecher

Question Type : **MCQ**
Question ID : **264330134516**
Option 1 ID : **264330527024**
Option 2 ID : **264330527026**
Option 3 ID : **264330527023**
Option 4 ID : **264330527025**
Status : **Answered**
Chosen Option : **3**

Q.12 **Select the appropriate antonym for the underlined word.**
I stare out into the really <u>amazingly</u> dark night.

Ans
- ✘ 1. unusually
- ✔ 2. obviously
- ✘ 3. shockingly
- ✘ 4. astonishingly

Question Type : **MCQ**
Question ID : **264330134521**
Option 1 ID : **264330527046**
Option 2 ID : **264330527044**
Option 3 ID : **264330527045**
Option 4 ID : **264330527043**
Status : **Answered**
Chosen Option : **2**

Join Telegram Group "HaryanaJobs.in"

Q.13 **A sentence has been given with a blank to be filled with an appropriate option. Choose the correct alternative.**
Meteorologists are still _____ to understand sting jets.

Ans
✗ 1. works
✗ 2. on work
✗ 3. worked
✓ 4. working

Question Type : **MCQ**
Question ID : **264330134431**
Option 1 ID : **264330526699**
Option 2 ID : **264330526701**
Option 3 ID : **264330526702**
Option 4 ID : **264330526700**
Status : **Answered**
Chosen Option : **4**

Q.14 **In the following question, out of the given four alternatives, select the alternative which best expresses the meaning of the Idiom/Phrase.**
Know the ropes

Ans
✗ 1. To reveal a secret
✗ 2. To fight without any reason
✓ 3. To understand the details
✗ 4. To break the rules

Question Type : **MCQ**
Question ID : **264330134523**
Option 1 ID : **264330527054**
Option 2 ID : **264330527053**
Option 3 ID : **264330527051**
Option 4 ID : **264330527052**
Status : **Answered**
Chosen Option : **3**

Q.15 **Choose the word that is opposite in meaning to the given word.**
Surrender

Ans
✗ 1. Waive
✗ 2. Stay
✓ 3. Withstand
✗ 4. Calm

Question Type : **MCQ**
Question ID : **264330134390**
Option 1 ID : **264330526542**
Option 2 ID : **264330526539**
Option 3 ID : **264330526541**
Option 4 ID : **264330526540**
Status : **Answered**
Chosen Option : **1**

Join Telegram Group "HaryanaJobs.in"

Q.16 Identify the segment that contains a grammatical error. If there is no error, select 'No error'.
Her evaluation will give / me a best indication of / where I stand in the class.

Ans
✗ 1. Her evaluation will give
✓ 2. me a best indication of
✗ 3. where I stand in the class.
✗ 4. No error

Question Type : **MCQ**
Question ID : **264330136084**
Option 1 ID : **264330533147**
Option 2 ID : **264330533148**
Option 3 ID : **264330533149**
Option 4 ID : **264330533150**
Status : **Answered**
Chosen Option : **2**

Q.17 **Find the part of the given sentence that has an error in it. If there is no error, choose 'No error'.**
Their should be Lokpal to check corruption by the bureaucrats and politicians.

Ans
✗ 1. No error
✗ 2. the bureaucrats and politicians.
✗ 3. check corruption by
✓ 4. Their should be Lokpal to

Question Type : **MCQ**
Question ID : **264330134504**
Option 1 ID : **264330526982**
Option 2 ID : **264330526981**
Option 3 ID : **264330526980**
Option 4 ID : **264330526979**
Status : **Answered**
Chosen Option : **2**

Q.18 **Find the part of the given sentence that has an error in it. If there is no error, choose 'No error'.**
Can you please pass me that glittery pen black?

Ans
✗ 1. pass me that
✓ 2. glittery pen black?
✗ 3. No error
✗ 4. Can you please

Question Type : **MCQ**
Question ID : **264330134321**
Option 1 ID : **264330526276**
Option 2 ID : **264330526277**
Option 3 ID : **264330526278**
Option 4 ID : **264330526275**
Status : **Answered**
Chosen Option : **2**

Join Telegram Group "HaryanaJobs.in"

Q.19 **Improve the underlined part of the sentence. Choose 'No improvement' as an answer if the sentence is grammatically correct.**
The teacher let the students <u>choose there</u> essay topics.

Ans
✗ 1. has choose their
✗ 2. No improvement
✓ 3. choose their
✗ 4. chosen there

Question Type : **MCQ**
Question ID : **264330134401**
Option 1 ID : **264330526584**
Option 2 ID : **264330526586**
Option 3 ID : **264330526583**
Option 4 ID : **264330526585**
Status : **Answered**
Chosen Option : **3**

Q.20 **Choose the word that can substitute the given group of words.**
Someone who knows a lot about the arts, food, drink, or some other subject

Ans
✓ 1. Connoisseur
✗ 2. Gourmand
✗ 3. Cynic
✗ 4. Pacifist

Question Type : **MCQ**
Question ID : **264330134517**
Option 1 ID : **264330527027**
Option 2 ID : **264330527029**
Option 3 ID : **264330527028**
Option 4 ID : **264330527030**
Status : **Answered**
Chosen Option : **2**

Comprehension:

In the following passage some of the words have been deleted. Read the passage carefully and select the correct answer for the given blank out of the four alternatives.
With Halloween only (1) _____ days away, I thought this was a perfect time to talk (2) _____ Zombies. For years, zombies have dominated science (3) _____. These creatures, the walking dead, don't (4) _____ exist, right? Wrong! There are in fact several very real life diseases that could and can make you (5) _____ like a zombie.

SubQuestion No : 21

Q.21 **Select the most appropriate option to fill in blank number 1.**

Ans
✗ 1. a little
✓ 2. a few
✗ 3. much
✗ 4. little

Question Type : **MCQ**
Question ID : **264330134381**
Option 1 ID : **264330526506**
Option 2 ID : **264330526503**
Option 3 ID : **264330526505**
Option 4 ID : **264330526504**
Status : **Answered**
Chosen Option : **2**

Join Telegram Group "HaryanaJobs.in"

Comprehension:

In the following passage some of the words have been deleted. Read the passage carefully and select the correct answer for the given blank out of the four alternatives.
With Halloween only (1) _____ days away, I thought this was a perfect time to talk (2) _____ Zombies. For years, zombies have dominated science (3) _____. These creatures, the walking dead, don't (4) _____ exist, right? Wrong! There are in fact several very real life diseases that could and can make you (5) _____ like a zombie.

SubQuestion No : 22

Q.22 Select the most appropriate option to fill in blank number 2.

Ans

✔ 1. about

✘ 2. for

✘ 3. by

✘ 4. of

Question Type : **MCQ**
Question ID : **264330134382**
Option 1 ID : **264330526509**
Option 2 ID : **264330526508**
Option 3 ID : **264330526507**
Option 4 ID : **264330526510**
Status : **Answered**
Chosen Option : **1**

Comprehension:

In the following passage some of the words have been deleted. Read the passage carefully and select the correct answer for the given blank out of the four alternatives.
With Halloween only (1) _____ days away, I thought this was a perfect time to talk (2) _____ Zombies. For years, zombies have dominated science (3) _____. These creatures, the walking dead, don't (4) _____ exist, right? Wrong! There are in fact several very real life diseases that could and can make you (5) _____ like a zombie.

SubQuestion No : 23

Q.23 Select the most appropriate option to fill in blank number 3.

Ans

✘ 1. freelance

✘ 2. friction

✘ 3. fickle

✔ 4. fictions

Question Type : **MCQ**
Question ID : **264330134383**
Option 1 ID : **264330526511**
Option 2 ID : **264330526514**
Option 3 ID : **264330526512**
Option 4 ID : **264330526513**
Status : **Answered**
Chosen Option : **1**

Join Telegram Group "HaryanaJobs.in"

Comprehension:

In the following passage some of the words have been deleted. Read the passage carefully and select the correct answer for the given blank out of the four alternatives.
With Halloween only (1) _____ days away, I thought this was a perfect time to talk (2) _____ Zombies. For years, zombies have dominated science (3) _____. These creatures, the walking dead, don't (4) _____ exist, right? Wrong! There are in fact several very real life diseases that could and can make you (5) _____ like a zombie.

SubQuestion No : 24

Q.24 Select the most appropriate option to fill in blank number 4.

Ans

✗ 1. manually

✗ 2. suddenly

✗ 3. gladly

✓ 4. actually

Question Type : **MCQ**
Question ID : **264330134384**
Option 1 ID : **264330526517**
Option 2 ID : **264330526515**
Option 3 ID : **264330526518**
Option 4 ID : **264330526516**
Status : **Answered**
Chosen Option : **4**

Comprehension:

In the following passage some of the words have been deleted. Read the passage carefully and select the correct answer for the given blank out of the four alternatives.
With Halloween only (1) _____ days away, I thought this was a perfect time to talk (2) _____ Zombies. For years, zombies have dominated science (3) _____. These creatures, the walking dead, don't (4) _____ exist, right? Wrong! There are in fact several very real life diseases that could and can make you (5) _____ like a zombie.

SubQuestion No : 25

Q.25 Select the most appropriate option to fill in blank number 5.

Ans

✓ 1. act

✗ 2. slake

✗ 3. run

✗ 4. state

Question Type : **MCQ**
Question ID : **264330134385**
Option 1 ID : **264330526520**
Option 2 ID : **264330526519**
Option 3 ID : **264330526521**
Option 4 ID : **264330526522**
Status : **Answered**
Chosen Option : **1**

Join Telegram Group "HaryanaJobs.in"

Multi Tasking Non Technical Staff and Havaldar CBIC and CBN Examination 2022

Roll Number	HaryanaJobs.in
Candidate Name	HaryanaJobs.in
Venue Name	Translam Group of Institutions
Exam Date	15/05/2023
Exam Time	12:00 PM - 2:00 PM
Subject	MTS Non Tech Havaldar CBIC and CBN Examination 2022

Section : **Numerical and Mathematical Ability**

Q.1 हल कीजिए : $\left[\left(\frac{144}{12}\right) + (43 \times 3)\right] + 45 - 20 \times 3$

Ans

1. 156 ✗
2. 126 ✓
3. 111 ✗
4. 127 ✗

Question Type : **MCQ**
Question ID : **264330135086**
Option 1 ID : **264330529282**
Option 2 ID : **264330529281**
Option 3 ID : **264330529279**
Option 4 ID : **264330529280**
Status : **Answered**
Chosen Option : **2**

Q.2 निम्नलिखित आलेख में 4 क्रमागत वर्षों में रागी के उत्पादन को दर्शाया गया है। किस वर्ष रागी का उत्पादन सर्वाधिक है?

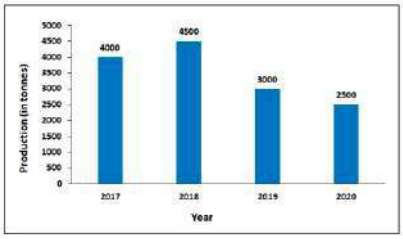

Production (in tonnes) - उत्पादन (टन में), Year - वर्ष

Ans

1. 2019 ✗
2. 2020 ✗
3. 2017 ✗
4. 2018 ✓

Question Type : **MCQ**
Question ID : **264330135104**
Option 1 ID : **264330529353**
Option 2 ID : **264330529354**
Option 3 ID : **264330529351**
Option 4 ID : **264330529352**
Status : **Answered**
Chosen Option : **4**

Join Telegram Group "HaryanaJobs.in"

Q.3 यदि A, B से 20 प्रतिशत कम है, तो B, A से कितने प्रतिशत अधिक है?

Ans
✔ 1. 25 प्रतिशत
✘ 2. 50 प्रतिशत
✘ 3. 20 प्रतिशत
✘ 4. 33.33 प्रतिशत

Question Type : **MCQ**
Question ID : **264330135048**
Option 1 ID : **264330529129**
Option 2 ID : **264330529127**
Option 3 ID : **264330529130**
Option 4 ID : **264330529128**
Status : **Answered**
Chosen Option : **1**

Q.4 एक धनराशि 12 वर्ष में स्वयं की दोगुनी हो जाती है। साधारण ब्याज का वार्षिक दर प्रतिशत ज्ञात कीजिए।

Ans
✘ 1. 11.11%
✔ 2. 8.33%
✘ 3. 6.25%
✘ 4. 9.09%

Question Type : **MCQ**
Question ID : **264330135076**
Option 1 ID : **264330529241**
Option 2 ID : **264330529239**
Option 3 ID : **264330529240**
Option 4 ID : **264330529242**
Status : **Answered**
Chosen Option : **2**

Q.5 एक खिलौने का अंकित मूल्य 100 रुपए है और विक्रय मूल्य 80 रुपए है। बट्टा प्रतिशत की गणना कीजिए।

Ans
✔ 1. 20 %
✘ 2. 10 %
✘ 3. 30 %
✘ 4. 40 %

Question Type : **MCQ**
Question ID : **264330135095**
Option 1 ID : **264330529316**
Option 2 ID : **264330529315**
Option 3 ID : **264330529317**
Option 4 ID : **264330529318**
Status : **Answered**
Chosen Option : **1**

Join Telegram Group "HaryanaJobs.in"

Q.6 एक धनराशि साधारण ब्याज पर 20 प्रतिशत वार्षिक दर पर 4 वर्ष में Rs.5400 हो जाती है। वह धनराशि क्या है?

Ans
1. Rs.2500
2. Rs.2000
3. Rs.4000
4. Rs.3000

Question Type : **MCQ**
Question ID : **264330135053**
Option 1 ID : **264330529150**
Option 2 ID : **264330529149**
Option 3 ID : **264330529147**
Option 4 ID : **264330529148**
Status : **Answered**
Chosen Option : **4**

Q.7 12 पुरुष प्रतिदिन 4 घंटे कार्य करके एक कार्य को 6 दिनों में पूरा कर सकते हैं। यदि 4 पुरुष प्रतिदिन 8 घंटे कार्य करें, तो यही कार्य कितने दिनों में पूरा होगा?

Ans
1. 10 दिन
2. 8 दिन
3. 6 दिन
4. 9 दिन

Question Type : **MCQ**
Question ID : **264330137874**
Option 1 ID : **264330540104**
Option 2 ID : **264330540106**
Option 3 ID : **264330540105**
Option 4 ID : **264330540103**
Status : **Answered**
Chosen Option : **4**

Q.8 एक व्यक्ति शुरुआती 15 km की दूरी 60 मिनट में और अगले 24 km की दूरी 30 मिनट में तय करता है। पूरी यात्रा में उसकी औसत चाल क्या है?

Ans
1. 26 km/hr
2. 29 km/hr
3. 33 km/hr
4. 23 km/hr

Question Type : **MCQ**
Question ID : **264330137179**
Option 1 ID : **264330537362**
Option 2 ID : **264330537361**
Option 3 ID : **264330537359**
Option 4 ID : **264330537360**
Status : **Answered**
Chosen Option : **1**

Join Telegram Group "HaryanaJobs.in"

Q.9 एक धनराशि साधारण ब्याज पर 3 वर्ष में Rs. 610 और 4 वर्ष में Rs. 650 हो जाती है। वह धनराशि है:

Ans
1. Rs. 610
2. Rs. 570
3. Rs. 490
4. Rs. 550

Question Type : **MCQ**
Question ID : **264330135097**
Option 1 ID : **264330529325**
Option 2 ID : **264330529323**
Option 3 ID : **264330529326**
Option 4 ID : **264330529324**
Status : **Answered**
Chosen Option : **3**

Q.10 एक अर्धगोले की त्रिज्या 5 cm है। आयतन ज्ञात कीजिए।

Ans
1. 261.9 cm^3
2. 150.6 cm^3
3. 330.4 cm^3
4. 117.9 cm^3

Question Type : **MCQ**
Question ID : **264330135432**
Option 1 ID : **264330530635**
Option 2 ID : **264330530638**
Option 3 ID : **264330530637**
Option 4 ID : **264330530636**
Status : **Answered**
Chosen Option : **1**

Q.11 प्रथम 10 प्राकृत संख्याओं का औसत क्या है?

Ans
1. 5
2. 10
3. 10.5
4. 5.5

Question Type : **MCQ**
Question ID : **264330135089**
Option 1 ID : **264330529292**
Option 2 ID : **264330529291**
Option 3 ID : **264330529294**
Option 4 ID : **264330529293**
Status : **Answered**
Chosen Option : **4**

Join Telegram Group "HaryanaJobs.in"

Q.12 एक पंक्ति में बैठे चार छात्रों में से अंतिम तीन छात्रों की औसत आयु 48 वर्ष है और पहले तीन छात्रों की औसत आयु 50 वर्ष है। यदि पहले छात्र की आयु 56 वर्ष है, तो अंतिम छात्र की आयु कितनी है?

Ans

✔ 1. 50 वर्ष

✘ 2. 60 वर्ष

✘ 3. 30 वर्ष

✘ 4. 40 वर्ष

Question Type : **MCQ**
Question ID : **264330137325**
Option 1 ID : **264330537930**
Option 2 ID : **264330537928**
Option 3 ID : **264330537927**
Option 4 ID : **264330537929**
Status : **Answered**
Chosen Option : **1**

Q.13 यदि दो बेलनों की ऊँचाइयों का अनुपात 7 : 9 है और उनके व्यासों का अनुपात 6 : 7 है, तो बेलनों के आयतनों का अनुपात कितना है?

Ans

✔ 1. 4 : 7

✘ 2. 6 : 7

✘ 3. 5 : 9

✘ 4. 7 : 9

Question Type : **MCQ**
Question ID : **264330137887**
Option 1 ID : **264330540156**
Option 2 ID : **264330540157**
Option 3 ID : **264330540158**
Option 4 ID : **264330540155**
Status : **Answered**
Chosen Option : **1**

Join Telegram Group "HaryanaJobs.in"

Q.14 नीचे दी गई तालिका में पाँच कक्षाओं में अलग-अलग खेल खेलने वाले विद्यार्थियों की संख्या को दर्शाया गया है।

	खेल		
कक्षा	A	B	C
6वीं	30	50	70
7वीं	60	20	35
8वीं	40	10	90
9वीं	38	26	50
10वीं	25	32	20

निम्नलिखित में से कौन-सा कथन सही है?

I. 9वीं कक्षा में A और B खेल खेलने वाले विद्यार्थियों की औसत संख्या 32 है।

II. 8वीं कक्षा में A और C खेल खेलने वाले विद्यार्थियों की औसत संख्या 75 है।

III. 10वीं कक्षा में तीनों खेल खेलने वाले विद्यार्थियों की कुल संख्या 77 है।

Ans
✔ 1. I और III
✘ 2. II और III
✘ 3. I, II और III
✘ 4. I और II

Question Type : **MCQ**
Question ID : **264330135062**
Option 1 ID : **264330529185**
Option 2 ID : **264330529184**
Option 3 ID : **264330529186**
Option 4 ID : **264330529183**
Status : **Answered**
Chosen Option : **1**

Q.15 यदि एक दुकानदार एक वस्तु को Rs. 4673 में बेचता है जिसका क्रय मूल्य Rs. 3456 था, तो दुकानदार का लाभ ज्ञात कीजिए

Ans
✔ 1. Rs. 1217
✘ 2. Rs. 1345
✘ 3. Rs. 1237
✘ 4. Rs. 1456

Question Type : **MCQ**
Question ID : **264330135094**
Option 1 ID : **264330529311**
Option 2 ID : **264330529313**
Option 3 ID : **264330529312**
Option 4 ID : **264330529314**
Status : **Answered**
Chosen Option : **1**

Join Telegram Group "HaryanaJobs.in"

Q.16 एक बाल्टी में 40 लाल गेंदें और 120 नीली गेंदें हैं। बाल्टी में लाल और नीली गेंदों का अनुपात है:

Ans
1. 1:3
2. 2:3
3. 3:4
4. 1:4

Question Type : **MCQ**
Question ID : **264330135096**
Option 1 ID : **264330529320**
Option 2 ID : **264330529321**
Option 3 ID : **264330529322**
Option 4 ID : **264330529319**
Status : **Answered**
Chosen Option : **1**

Q.17 $9 \times 121 + 11 \times 84 \div 4$ का मान क्या है?

Ans
1. 1240
2. 1230
3. 1340
4. 1320

Question Type : **MCQ**
Question ID : **264330139012**
Option 1 ID : **264330544657**
Option 2 ID : **264330544655**
Option 3 ID : **264330544658**
Option 4 ID : **264330544656**
Status : **Answered**
Chosen Option : **4**

Q.18 एक आदमी A से B तक 200 kmph की चाल से जाता है और 300 kmph की चाल से A तक वापस आता है। पूरी यात्रा के लिए उसकी औसत चाल ज्ञात कीजिये?

Ans
1. 345 kmph
2. 240 kmph
3. 264 kmph
4. 340 kmph

Question Type : **MCQ**
Question ID : **264330135100**
Option 1 ID : **264330529337**
Option 2 ID : **264330529336**
Option 3 ID : **264330529338**
Option 4 ID : **264330529335**
Status : **Answered**
Chosen Option : **2**

Join Telegram Group "HaryanaJobs.in"

Q.19 A अकेले किसी काम को 60 दिनों में कर सकता है और B अकेले उसी काम को A द्वारा लिए गए समय से 33.33% कम समय में कर सकता है। B द्वारा अकेले काम को पूरा करने में लिया गया समय ज्ञात कीजिए।

Ans

1. ✗ 30 दिन
2. ✗ 22 दिन
3. ✓ 40 दिन
4. ✗ 17 दिन

Question Type : **MCQ**
Question ID : **264330133790**
Option 1 ID : **264330524183**
Option 2 ID : **264330524185**
Option 3 ID : **264330524184**
Option 4 ID : **264330524186**
Status : **Answered**
Chosen Option : **3**

Q.20 पंकज एक वस्तु बेचकर 55 प्रतिशत का लाभ अर्जित करता है। वस्तु के क्रय मूल्य और विक्रय मूल्य का अनुपात क्या होगा?

Ans

1. ✗ 20 : 37
2. ✗ 17 : 25
3. ✗ 18 : 25
4. ✓ 20 : 31

Question Type : **MCQ**
Question ID : **264330137609**
Option 1 ID : **264330539045**
Option 2 ID : **264330539043**
Option 3 ID : **264330539046**
Option 4 ID : **264330539044**
Status : **Answered**
Chosen Option : **4**

Section : **Reasoning Ability and Problem Solving**

Q.1 दिए गए पैटर्न का ध्यानपूर्वक अध्ययन कीजिए और उस संख्या को चुनिए जो इसमें प्रश्न चिन्ह (?) के स्थान पर आ सकती है?
प्रथम पंक्ति- 7, 343, 49
द्वितीय पंक्ति- 6, 216, 36
तृतीय पंक्ति- 5, 125, ?

Ans

1. ✗ 45
2. ✓ 25
3. ✗ 85
4. ✗ 30

Question Type : **MCQ**
Question ID : **264330134992**
Option 1 ID : **264330528904**
Option 2 ID : **264330528905**
Option 3 ID : **264330528906**
Option 4 ID : **264330528903**
Status : **Answered**
Chosen Option : **2**

Join Telegram Group "HaryanaJobs.in"

Q.2 एक निश्चित कूट भाषा में, 'DARK' को 'ECSM' लिखा जाता है और 'TREE' को 'UTFG' लिखा जाता है। उस भाषा में 'GAME' को कैसे लिखा जाएगा?

Ans
1. HCNH
2. HCNF
3. HCNG
4. HCMG

Question Type : **MCQ**
Question ID : **264330133509**
Option 1 ID : **264330523070**
Option 2 ID : **264330523067**
Option 3 ID : **264330523069**
Option 4 ID : **264330523068**
Status : **Answered**
Chosen Option : **3**

Q.3 दिए गए समीकरण को सही करने के लिए किन दो चिन्हों को आपस में बदला जाना चाहिए?
13 − 25 = 5 + 4 ÷ 12

Ans
1. + और -
2. + और =
3. - और =
4. ÷ और =

Question Type : **MCQ**
Question ID : **264330134993**
Option 1 ID : **264330528910**
Option 2 ID : **264330528907**
Option 3 ID : **264330528908**
Option 4 ID : **264330528909**
Status : **Answered**
Chosen Option : **4**

Join Telegram Group "HaryanaJobs.in"

Q.4 दी गई आकृति के उस सही दर्पण प्रतिबिंब को चुनिए जो दर्पण AB को आकृति के दाईं ओर रखने पर बनेगा ।

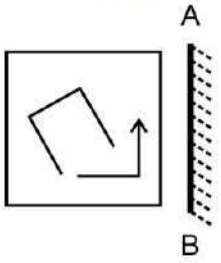

Ans

✗ 1.

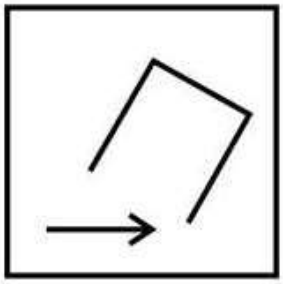

✗ 2.

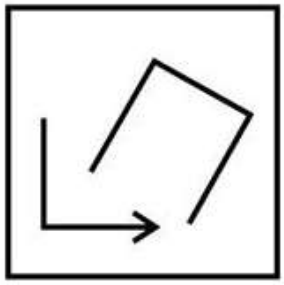

✗ 3.

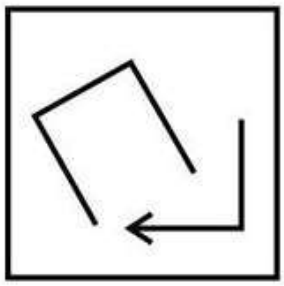

✓ 4.

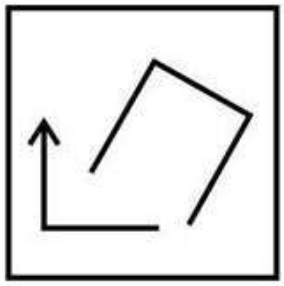

Question Type : **MCQ**
Question ID : **264330134952**
Option 1 ID : **264330528743**
Option 2 ID : **264330528746**
Option 3 ID : **264330528744**
Option 4 ID : **264330528745**
Status : **Answered**
Chosen Option : **4**

Join Telegram Group "HaryanaJobs.in"

Q.5 छः महिलाएँ अनु, प्रीति, आरती, कीर्ति, पूनम और सुमन एक वृत्ताकार मेज पर केंद्र की ओर मुख करके बैठी हैं। प्रीति, पूनम के सम्मुख बैठी है। पूनम, कीर्ति और अनु के ठीक बीच में बैठी है। आरती, अनु के ठीक दाएँ पर बैठी है। प्रीति के ठीक दाएँ पर कौन बैठा है?

Ans

✔ 1. सुमन

✘ 2. आरती

✘ 3. कीर्ति

✘ 4. अनु

Question Type : **MCQ**
Question ID : **264330134984**
Option 1 ID : **264330528874**
Option 2 ID : **264330528872**
Option 3 ID : **264330528873**
Option 4 ID : **264330528871**
Status : **Answered**
Chosen Option : **1**

Join Telegram Group "HaryanaJobs.in"

Q.6 उस विकल्प आकृति को चुनिए जिसमें दी गई आकृति (X) उसके भाग के रूप में निहित है (घूर्णन की अनुमति नहीं है)।

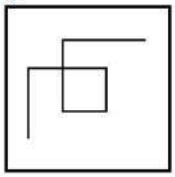

(X)

Ans

✗ 1.

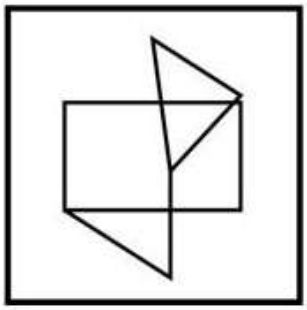

✗ 2.

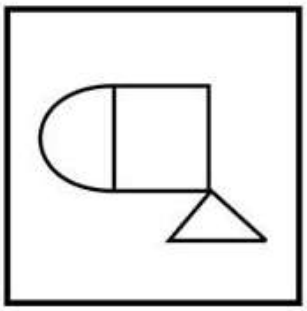

✗ 3.

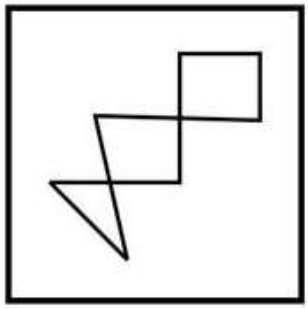

✓ 4.

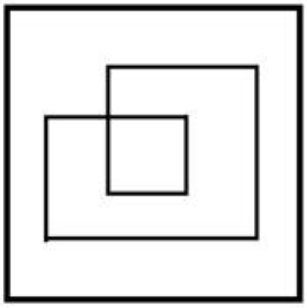

Question Type : **MCQ**
Question ID : **264330134951**
Option 1 ID : **264330528739**
Option 2 ID : **264330528740**
Option 3 ID : **264330528742**
Option 4 ID : **264330528741**
Status : **Answered**
Chosen Option : **4**

Join Telegram Group "HaryanaJobs.in"

Q.7 उस विकल्प को चुनिए जो तीसरे अक्षर से ठीक उसी तरह संबंधित है जिस तरह दूसरी संख्या पहले अक्षर से संबंधित है।
R : 324 : : I : ?

Ans
1. 100
2. 99
3. 81
4. 64

Question Type : **MCQ**
Question ID : **264330134978**
Option 1 ID : **264330528850**
Option 2 ID : **264330528848**
Option 3 ID : **264330528847**
Option 4 ID : **264330528849**
Status : **Answered**
Chosen Option : **3**

Q.8 एक निश्चित कूट भाषा में, 'JOCKEY' को 'KCJYOE' लिखा जाता है। उस भाषा में 'EXCISE' को कैसे लिखा जाएगा?

Ans
1. ICEXES
2. ICEEXS
3. CLEXDE
4. EEICSX

Question Type : **MCQ**
Question ID : **264330137836**
Option 1 ID : **264330539954**
Option 2 ID : **264330539953**
Option 3 ID : **264330539951**
Option 4 ID : **264330539952**
Status : **Answered**
Chosen Option : **2**

Join Telegram Group "HaryanaJobs.in"

Q.9 तीन कथन दिए गए हैं और दो निष्कर्ष I और II दिए गए हैं। कथनों को सत्य मानते हुए, चाहे वे सामान्यतः ज्ञात तथ्यों से अलग प्रतीत होते हों, निश्चय कीजिए कि कौन-सा निष्कर्ष तार्किक रूप से कथनों के अनुसार है।

कथन:

कोई भी छड़ी, बस नहीं है।

सभी विद्यालय, बसें हैं।

सभी बसें, बहादुर हैं।

निष्कर्ष:

I. कोई भी छड़ी, बहादुर नहीं है।

II. सभी विद्यालय, बहादुर हैं।

Ans

✔ 1. सिर्फ निष्कर्ष II कथनों के अनुसार है

✘ 2. सिर्फ निष्कर्ष I कथनों के अनुसार है

✘ 3. दोनों निष्कर्ष I और II कथनों के अनुसार है

✘ 4. निष्कर्ष I और II में से कोई भी कथनों के अनुसार नहीं है

Question Type : **MCQ**
Question ID : **264330134988**
Option 1 ID : **264330528888**
Option 2 ID : **264330528887**
Option 3 ID : **264330528889**
Option 4 ID : **264330528890**
Status : **Answered**
Chosen Option : **1**

Q.10 दिए गए समीकरण को सही करने के लिए किन दो चिन्हों को आपस में बदला जाना चाहिए?

$9 \times 4 + 6 \div 3 - 5 = 39$

Ans

✘ 1. × और +

✔ 2. - और +

✘ 3. ÷ और -

✘ 4. - और =

Question Type : **MCQ**
Question ID : **264330134972**
Option 1 ID : **264330528826**
Option 2 ID : **264330528823**
Option 3 ID : **264330528825**
Option 4 ID : **264330528824**
Status : **Answered**
Chosen Option : **2**

Join Telegram Group "HaryanaJobs.in"

Q.11 Select the option that is related to the third word in the same way as the second word is related to the first word.
Fruit : Pomegranate : : Mammal : ?

Ans
1. Lizard ✗
2. Dog ✓
3. Pigeon ✗
4. Snake ✗

Question Type : **MCQ**
Question ID : **264330134979**
Option 1 ID : **264330528853**
Option 2 ID : **264330528851**
Option 3 ID : **264330528854**
Option 4 ID : **264330528852**
Status : **Answered**
Chosen Option : **2**

Q.12 एक निश्चित कूट भाषा में, 'WIFE' को '172' लिखा जाता है और 'CAT' को '72' लिखा जाता है। उस भाषा में 'SON' को कैसे लिखा जाएगा?

Ans
1. 241 ✗
2. 244 ✗
3. 141 ✗
4. 144 ✓

Question Type : **MCQ**
Question ID : **264330137586**
Option 1 ID : **264330538954**
Option 2 ID : **264330538953**
Option 3 ID : **264330538952**
Option 4 ID : **264330538951**
Status : **Answered**
Chosen Option : **4**

Q.13 दो कथन दिए गए हैं और दो निष्कर्ष I और II दिए गए हैं। कथनों को सत्य मानते हुए, चाहे वे सामान्यतः ज्ञात तथ्यों से अलग प्रतीत होते हों, निश्चय कीजिए कि कौन-सा निष्कर्ष तार्किक रूप से कथनों के अनुसार है।
कथन:
कोई पेन, कागज़ नहीं है।

सभी कागज़, पेंसिल हैं।
निष्कर्ष:
I. कुछ पेन, पेंसिल हैं।
II. सभी पेंसिल, पेन हैं।

Ans
1. सिर्फ निष्कर्ष I कथनों के अनुसार है ✗
2. सिर्फ निष्कर्ष II कथनों के अनुसार है ✗
3. दोनों निष्कर्ष I और II कथनों के अनुसार है ✗
4. निष्कर्ष I और II में से कोई भी कथनों के अनुसार नहीं है ✓

Question Type : **MCQ**
Question ID : **264330134987**
Option 1 ID : **264330528883**
Option 2 ID : **264330528884**
Option 3 ID : **264330528885**
Option 4 ID : **264330528886**
Status : **Answered**
Chosen Option : **4**

Join Telegram Group "HaryanaJobs.in"

Q.14 दी गई श्रृंखला में निम्नलिखित में से कौन-सा अक्षर-समूह प्रश्न चिन्ह (?) के स्थान पर आएगा?
CX, EV, GT, IR, KP, ?

Ans
1. QR ✗
2. MK ✗
3. LN ✗
4. MN ✓

Question Type : **MCQ**
Question ID : **264330134976**
Option 1 ID : **264330528839**
Option 2 ID : **264330528841**
Option 3 ID : **264330528842**
Option 4 ID : **264330528840**
Status : **Answered**
Chosen Option : **4**

Q.15 एक निश्चित कूट भाषा में, 'VOTED' को '76218' लिखा जाता है, 'WIDER' को '08759'लिखा जाता है, 'ADORE' को '79382' लिखा जाता है। उस कूट भाषा में 'ART' को कैसे लिखा जाएगा?

Ans
1. 397 ✗
2. 396 ✓
3. 395 ✗
4. 387 ✗

Question Type : **MCQ**
Question ID : **264330137372**
Option 1 ID : **264330538118**
Option 2 ID : **264330538117**
Option 3 ID : **264330538116**
Option 4 ID : **264330538115**
Status : **Not Answered**
Chosen Option : **--**

Q.16 पाँच मित्र टैम, टैन, टैप, टैब और टैट एक कतार में उत्तर की ओर मुख करके खड़े हैं। टैम, टैन के पीछे खड़ा है। टैप, टैट के ठीक पीछे खड़ा है। टैट और टैम के बीच केवल एक मित्र खड़ा है। टैब, टैम के ठीक पीछे खड़ा है। टैब कतार में सबसे पीछे खड़ा है। कतार में सबसे आगे कौन खड़ा है?

Ans
1. टैन ✓
2. टैट ✗
3. टैम ✗
4. टैप ✗

Question Type : **MCQ**
Question ID : **264330134985**
Option 1 ID : **264330528878**
Option 2 ID : **264330528875**
Option 3 ID : **264330528876**
Option 4 ID : **264330528877**
Status : **Answered**
Chosen Option : **1**

Join Telegram Group "HaryanaJobs.in"

Q.17 सात लड़कों I, II, III, IV, V, VI और VII में प्रत्येक की उम्र अलग-अलग है। V केवल II से बड़ा है। I, केवल VI से छोटा है। III चार अन्य लड़कों से बड़ा है। VII, IV से छोटा है। लड़कों में चौथा सबसे बड़ा कौन है?

Ans
1. III
2. IV ✔
3. I
4. II

Question Type : **MCQ**
Question ID : **264330134986**
Option 1 ID : **264330528880**
Option 2 ID : **264330528881**
Option 3 ID : **264330528882**
Option 4 ID : **264330528879**
Status : **Answered**
Chosen Option : **2**

Q.18 दी गई श्रृंखला में निम्नलिखित में से कौन-सी संख्या प्रश्न चिन्ह (?) के स्थान पर आएगी?
27, 32, 42, 57, 77, 102, 132, ?

Ans
1. 158
2. 172
3. 149
4. 167 ✔

Question Type : **MCQ**
Question ID : **264330134990**
Option 1 ID : **264330528896**
Option 2 ID : **264330528897**
Option 3 ID : **264330528898**
Option 4 ID : **264330528895**
Status : **Answered**
Chosen Option : **4**

Q.19 दी गई श्रृंखला में निम्नलिखित में से कौन-सी संख्या प्रश्न चिन्ह (?) के स्थान पर आएगी?
88, 92, 97, 103, 110, 118, ?

Ans
1. 219
2. 217
3. 127 ✔
4. 117

Question Type : **MCQ**
Question ID : **264330134945**
Option 1 ID : **264330528718**
Option 2 ID : **264330528715**
Option 3 ID : **264330528717**
Option 4 ID : **264330528716**
Status : **Answered**
Chosen Option : **3**

Join Telegram Group "HaryanaJobs.in"

Q.20 उस विकल्प आकृति को चुनिए जो नीचे दी गई आकृति में पैटर्न को पूरा करने के लिए प्रश्न चिन्ह (?) के स्थान पर आएगी। (घूर्णन की अनुमति नहीं है)।

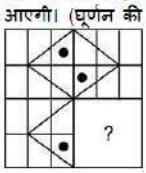

Ans

✔ 1. 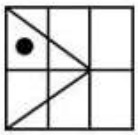

✘ 2. 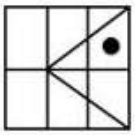

✘ 3. 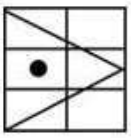

✘ 4. 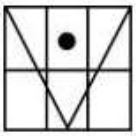

Question Type : **MCQ**
Question ID : **264330134997**
Option 1 ID : **264330528926**
Option 2 ID : **264330528924**
Option 3 ID : **264330528925**
Option 4 ID : **264330528923**
Status : **Answered**
Chosen Option : **1**

Section : **General Awareness**

Q.1 ब्रिटिश संसद ने सन् _____ में ईस्ट इंडिया कंपनी के सारे अधिकार ब्रिटिश साम्राज्य के हाथ में सौंप दिए।

Ans

✘ 1. 1919

✔ 2. 1858

✘ 3. 1773

✘ 4. 1909

Question Type : **MCQ**
Question ID : **264330134617**
Option 1 ID : **264330527426**
Option 2 ID : **264330527424**
Option 3 ID : **264330527423**
Option 4 ID : **264330527425**
Status : **Answered**
Chosen Option : **2**

Join Telegram Group "HaryanaJobs.in"

Q.2 'द गॉड ऑफ स्मॉल थिंग्स (The God of Small Things)' उपन्यास का लेखक कौन है?

Ans
✔ 1. अरुंधति राय
✘ 2. खुशवंत सिंह
✘ 3. किरण देसाई
✘ 4. अरविंद अडिगा

Question Type : **MCQ**
Question ID : **264330134599**
Option 1 ID : **264330527354**
Option 2 ID : **264330527352**
Option 3 ID : **264330527351**
Option 4 ID : **264330527353**
Status : **Answered**
Chosen Option : **1**

Q.3 International year of freshwater was observed in which year?

Ans
✘ 1. 2000
✘ 2. 2001
✘ 3. 2002
✔ 4. 2003

Question Type : **MCQ**
Question ID : **264330134634**
Option 1 ID : **264330527491**
Option 2 ID : **264330527492**
Option 3 ID : **264330527493**
Option 4 ID : **264330527494**
Status : **Answered**
Chosen Option : **1**

Q.4 निम्नलिखित में से कौन-सा भारत में नोट जारी करने वाला एकमात्र प्राधिकारी है?

Ans
✘ 1. भारतीय राष्ट्रीय भुगतान निगम
✘ 2. भारतीय औद्योगिक वित्त निगम
✔ 3. भारतीय रिजर्व बैंक
✘ 4. भारतीय स्टेट बैंक

Question Type : **MCQ**
Question ID : **264330137968**
Option 1 ID : **264330540481**
Option 2 ID : **264330540482**
Option 3 ID : **264330540479**
Option 4 ID : **264330540480**
Status : **Answered**
Chosen Option : **3**

Join Telegram Group "HaryanaJobs.in"

Q.5 भारतीय संविधान की निम्नलिखित में से कौन-सी विशेषता ब्रिटेन के संविधान से ली गई थी?

Ans
1. समवर्ती सूची
2. राज्य के नीति निर्देशक सिद्धांत
3. मंत्रिमंडलीय व्यवस्था
4. मौलिक कर्तव्य

Question Type : **MCQ**
Question ID : **264330134664**
Option 1 ID : **264330527613**
Option 2 ID : **264330527612**
Option 3 ID : **264330527611**
Option 4 ID : **264330527614**
Status : **Answered**
Chosen Option : **3**

Q.6 सन् 1983 का क्रिकेट विश्व कप निम्नलिखित में से किस देश में आयोजित किया गया था?

Ans
1. ऑस्ट्रेलिया
2. भारत
3. वेस्टइंडीज
4. इंग्लैंड

Question Type : **MCQ**
Question ID : **264330134597**
Option 1 ID : **264330527343**
Option 2 ID : **264330527346**
Option 3 ID : **264330527345**
Option 4 ID : **264330527344**
Status : **Answered**
Chosen Option : **4**

Q.7 भारतीय संविधान के अनुच्छेद 243-I के तहत राज्य के राज्यपाल को प्रत्येक _____ वर्षों के बाद एक वित्त आयोग का गठन करना होता है।

Ans
1. छः
2. तीन
3. पाँच
4. दस

Question Type : **MCQ**
Question ID : **264330134665**
Option 1 ID : **264330527617**
Option 2 ID : **264330527616**
Option 3 ID : **264330527615**
Option 4 ID : **264330527618**
Status : **Answered**
Chosen Option : **3**

Join Telegram Group "HaryanaJobs.in"

Q.8 उत्तराखंड के गढ़वाल क्षेत्र में दूसरा सबसे ऊँचा पर्वत कौन-सा है?

Ans
1. नीलकंठ (Nilkantha)
2. नंदा देवी (Nanda Devi)
3. मेरु (Meru)
4. कामेट (Kamet)

Question Type : **MCQ**
Question ID : **264330134654**
Option 1 ID : **264330527574**
Option 2 ID : **264330527572**
Option 3 ID : **264330527573**
Option 4 ID : **264330527571**
Status : **Answered**
Chosen Option : **4**

Q.9 किस प्रसिद्ध भारतीय ओडिसी नृत्यांगना/नर्तक को वर्ष 2000 में भारत के दूसरे सर्वोच्च नागरिक पुरस्कार पद्म विभूषण से सम्मानित किया गया था?

Ans
1. सुनंदा नायर
2. दर्शना झवेरी
3. रुक्मिणी देवी अरुंडेल
4. केलुचरण महापात्र

Question Type : **MCQ**
Question ID : **264330137963**
Option 1 ID : **264330540461**
Option 2 ID : **264330540459**
Option 3 ID : **264330540460**
Option 4 ID : **264330540462**
Status : **Answered**
Chosen Option : **4**

Q.10 निम्नलिखित में से किसने मैक्सिकन फॉर्मूला 1 ग्रां प्री 2022 जीता है?

Ans
1. लैंडो नॉरिस (Lando Norris)
2. कार्लोस सैंज जूनियर (Carlos Sainz Jr.)
3. मैक्स वेर्स्टाप्पेन (Max Verstappen)
4. चार्ल्स लेक्लर (Charles Leclerc)

Question Type : **MCQ**
Question ID : **264330134666**
Option 1 ID : **264330527622**
Option 2 ID : **264330527620**
Option 3 ID : **264330527619**
Option 4 ID : **264330527621**
Status : **Answered**
Chosen Option : **3**

Join Telegram Group "HaryanaJobs.in"

Q.11 भारत किस पड़ोसी देश के साथ सुंदरबन वन साझा करता है?

Ans
✔ 1. बांग्लादेश
✘ 2. चीन
✘ 3. नेपाल
✘ 4. पाकिस्तान

Question Type : **MCQ**
Question ID : **264330137906**
Option 1 ID : **264330540234**
Option 2 ID : **264330540233**
Option 3 ID : **264330540232**
Option 4 ID : **264330540231**
Status : **Answered**
Chosen Option : **1**

Q.12 'चरकुला (Charkula)' निम्नलिखित में से किस राज्य से संबंधित एक प्रसिद्ध नृत्य शैली है?

Ans
✘ 1. तमिलनाडु
✘ 2. त्रिपुरा
✘ 3. आंध्रप्रदेश
✔ 4. उत्तरप्रदेश

Question Type : **MCQ**
Question ID : **264330134646**
Option 1 ID : **264330527541**
Option 2 ID : **264330527540**
Option 3 ID : **264330527539**
Option 4 ID : **264330527542**
Status : **Answered**
Chosen Option : **4**

Q.13 2022 तक, भारत दुनिया में गेहूँ का _____ सबसे बड़ा उत्पादक है।

Ans
✘ 1. चौथा
✘ 2. तीसरा
✔ 3. दूसरा
✘ 4. पाँचवाँ

Question Type : **MCQ**
Question ID : **264330137953**
Option 1 ID : **264330540421**
Option 2 ID : **264330540420**
Option 3 ID : **264330540419**
Option 4 ID : **264330540422**
Status : **Answered**
Chosen Option : **3**

Join Telegram Group "HaryanaJobs.in"

Q.14 "होला मोहल्ला (Hola Mohalla)" का त्यौहार किस समुदाय द्वारा मनाया जाता है?

Ans
1. पारसी
2. जैन
3. बौद्ध
4. सिख

Question Type : **MCQ**
Question ID : **264330134620**
Option 1 ID : **264330527438**
Option 2 ID : **264330527435**
Option 3 ID : **264330527436**
Option 4 ID : **264330527437**
Status : **Not Answered**
Chosen Option : **--**

Q.15 साहित्य में 2022 का नोबेल पुरस्कार किसे मिला?

Ans
1. पीटर हैंडके (Peter Handke)
2. अब्दुलराज़क गुरनाह (Abdulrazak Gurnah)
3. एनी एरनॉक्स (Annie Ernaux)
4. ओल्गा टोकार्कज़ुक (Olga Tokarczuk)

Question Type : **MCQ**
Question ID : **264330134602**
Option 1 ID : **264330527366**
Option 2 ID : **264330527365**
Option 3 ID : **264330527364**
Option 4 ID : **264330527363**
Status : **Answered**
Chosen Option : **2**

Q.16 गुरु वेम्पति चिन्ना सत्यम को वर्ष 1998 में निम्नलिखित में से कौन-सा पुरस्कार मिला था?

Ans
1. भारत रत्न
2. पद्म श्री
3. पद्म भूषण
4. पद्म विभूषण

Question Type : **MCQ**
Question ID : **264330134601**
Option 1 ID : **264330527360**
Option 2 ID : **264330527361**
Option 3 ID : **264330527359**
Option 4 ID : **264330527362**
Status : **Answered**
Chosen Option : **3**

Join Telegram Group "HaryanaJobs.in"

Q.17 2022 में किस मंत्रालय ने 'काशी तमिल संगमम (Kashi Tamil Sangamam)' नामक महीने भर चलने वाले एक कार्यक्रम का आयोजन किया था?

Ans
1. जनजातीय कार्य मंत्रालय
2. शिक्षा मंत्रालय
3. विदेश मंत्रालय
4. संस्कृति मंत्रालय

Question Type : **MCQ**
Question ID : **264330134644**
Option 1 ID : **264330527532**
Option 2 ID : **264330527531**
Option 3 ID : **264330527533**
Option 4 ID : **264330527534**
Status : **Answered**
Chosen Option : **4**

Q.18 निम्नलिखित में से किसने 2022 के राष्ट्रमंडल खेलों में भारोत्तोलन में स्वर्ण पदक जीता?

Ans
1. विकास ठाकुर
2. साइखोम मीराबाई चानू
3. बिंदियारानी देवी
4. संकेत सागर

Question Type : **MCQ**
Question ID : **264330134623**
Option 1 ID : **264330527450**
Option 2 ID : **264330527447**
Option 3 ID : **264330527449**
Option 4 ID : **264330527448**
Status : **Answered**
Chosen Option : **2**

Q.19 Which among the following statements is incorrect?

Ans
1. Chromosomes are composed of DNA and Protein.
2. Cell wall is present in animals.
3. Mitochondria are known as the powerhouse of the cell.
4. Cell membrane is also called the plasma membrane.

Question Type : **MCQ**
Question ID : **264330134650**
Option 1 ID : **264330527558**
Option 2 ID : **264330527555**
Option 3 ID : **264330527557**
Option 4 ID : **264330527556**
Status : **Answered**
Chosen Option : **2**

Join Telegram Group "HaryanaJobs.in"

Q.20 निम्नलिखित में से किस संगीतकार को 'सितार' बजाने के लिए जाना जाता है?

Ans
1. सुरोजीत चटर्जी
2. विलायत ख़ाँ
3. अली अकबर खाँ
4. ज़ाकिर हुसैन

Question Type : **MCQ**
Question ID : **264330134662**
Option 1 ID : **264330527605**
Option 2 ID : **264330527603**
Option 3 ID : **264330527604**
Option 4 ID : **264330527606**
Status : **Answered**
Chosen Option : **1**

Q.21 पौधों को वृद्धि के लिए पोषक तत्वों की आवश्यकता होती है जिसकी आपूर्ति _____ द्वारा की जा सकती है।

Ans
1. केवल मिट्टी और जल
2. केवल मिट्टी
3. केवल मिट्टी और वायु
4. मिट्टी, जल और वायु

Question Type : **MCQ**
Question ID : **264330134607**
Option 1 ID : **264330527384**
Option 2 ID : **264330527383**
Option 3 ID : **264330527385**
Option 4 ID : **264330527386**
Status : **Answered**
Chosen Option : **4**

Q.22 निम्नलिखित में से कौन-सा संचारी रोगों का एक उदाहरण नहीं है?

Ans
1. मधुमेह
2. चेचक
3. खाँसी-जुकाम
4. क्षय रोग

Question Type : **MCQ**
Question ID : **264330134608**
Option 1 ID : **264330527390**
Option 2 ID : **264330527387**
Option 3 ID : **264330527389**
Option 4 ID : **264330527388**
Status : **Answered**
Chosen Option : **1**

Join Telegram Group "HaryanaJobs.in"

Q.23 "द ब्लू अम्ब्रेला (The blue umbrella)" प्रसिद्ध भारतीय लेखक _____ द्वारा लिखित एक उपन्यास है।

Ans
✔ 1. रस्किन बॉन्ड
✘ 2. शरत चंद्र चट्टोपाध्याय
✘ 3. खुशवंत सिंह
✘ 4. अरुंधति राय

Question Type : **MCQ**
Question ID : **264330137961**
Option 1 ID : **264330540454**
Option 2 ID : **264330540453**
Option 3 ID : **264330540451**
Option 4 ID : **264330540452**
Status : **Answered**
Chosen Option : **2**

Q.24 _____ are formed when an opaque objects comes in the path of light.

Ans
✔ 1. Shadows
✘ 2. Mirror reflections
✘ 3. Transparent rays
✘ 4. Translucent rays

Question Type : **MCQ**
Question ID : **264330134610**
Option 1 ID : **264330527395**
Option 2 ID : **264330527396**
Option 3 ID : **264330527397**
Option 4 ID : **264330527398**
Status : **Answered**
Chosen Option : **1**

Q.25 2011 की जनगणना के अनुसार भारत में कुल प्रजनन दर (Total Fertility Rate) कितनी है? (अनुमानित सीमा प्रदान करें)

Ans
✘ 1. 3.1-3.9
✔ 2. 2.1-2.9
✘ 3. 4.1-4.9
✘ 4. 5.1-5.9

Question Type : **MCQ**
Question ID : **264330133967**
Option 1 ID : **264330524892**
Option 2 ID : **264330524891**
Option 3 ID : **264330524893**
Option 4 ID : **264330524894**
Status : **Answered**
Chosen Option : **4**

Section : **English Language and Comprehension**

Join Telegram Group "HaryanaJobs.in"

Q.1 Choose the word that can substitute the given group of words.

An exact copy of handwriting, printing

Ans
1. Platitude ✗
2. Maiden ✗
3. Facsimile ✓
4. Potable ✗

Question Type : **MCQ**
Question ID : **264330134786**
Option 1 ID : **264330528087**
Option 2 ID : **264330528090**
Option 3 ID : **264330528089**
Option 4 ID : **264330528088**
Status : **Marked For Review**
Chosen Option : **4**

Q.2 A sentence has been given with a blank to be filled with an appropriate option. Choose the correct alternative.

The storm passed _____, but the night remained warm.

Ans
1. quicker ✗
2. quickest ✗
3. quickly ✓
4. quick ✗

Question Type : **MCQ**
Question ID : **264330134777**
Option 1 ID : **264330528056**
Option 2 ID : **264330528055**
Option 3 ID : **264330528058**
Option 4 ID : **264330528057**
Status : **Answered**
Chosen Option : **3**

Q.3 Choose the word that means the same as the given word.

Arrogance

Ans
1. Inhibition ✗
2. Diffidence ✗
3. Dominance ✓
4. Bashful ✗

Question Type : **MCQ**
Question ID : **264330134762**
Option 1 ID : **264330527997**
Option 2 ID : **264330527996**
Option 3 ID : **264330527995**
Option 4 ID : **264330527998**
Status : **Answered**
Chosen Option : **2**

Join Telegram Group "HaryanaJobs.in"

Q.4 Select the word segment that substitutes (replaces) the bracketed word segment correctly and completes the sentence meaningfully. Select the option 'no correction required' if the sentence is correct as given.

The tourists (rendered to the) museum on time.

Ans

✗ 1. occurred to the

✗ 2. appeared at the

✓ 3. arrived at the

✗ 4. No correction required

Question Type : **MCQ**
Question ID : **264330136243**
Option 1 ID : **264330533760**
Option 2 ID : **264330533759**
Option 3 ID : **264330533761**
Option 4 ID : **264330533762**
Status : **Answered**
Chosen Option : **3**

Q.5 Select the most appropriate option to fill in the blank.

The priest puts some _____ water on the child's head.

Ans

✓ 1. holy

✗ 2. wholly

✗ 3. hairy

✗ 4. haughty

Question Type : **MCQ**
Question ID : **264330134743**
Option 1 ID : **264330527924**
Option 2 ID : **264330527925**
Option 3 ID : **264330527923**
Option 4 ID : **264330527926**
Status : **Answered**
Chosen Option : **1**

Q.6 Choose the sentence with no spelling error.

Ans

✗ 1. He stood outcide the bathroom door.

✗ 2. He stuod outside the bathroom door.

✗ 3. He stood outside the bathrum door.

✓ 4. He stood outside the bathroom door.

Question Type : **MCQ**
Question ID : **264330134742**
Option 1 ID : **264330527921**
Option 2 ID : **264330527919**
Option 3 ID : **264330527920**
Option 4 ID : **264330527922**
Status : **Answered**
Chosen Option : **4**

Join Telegram Group "HaryanaJobs.in"

Q.7 Improve the underlined part of the sentence. Choose 'No improvement' as an answer if the sentence is grammatically correct.

The number of homes with running watered has been rising sharply since 1985.

Ans

✗ 1. with run water

✓ 2. with running water

✗ 3. No improvement

✗ 4. of ran watered

Question Type : **MCQ**
Question ID : **264330134802**
Option 1 ID : **264330528151**
Option 2 ID : **264330528152**
Option 3 ID : **264330528154**
Option 4 ID : **264330528153**
Status : **Answered**
Chosen Option : **2**

Q.8 **Find the part of the given sentence that has an error in it. If there is no error, choose 'No error'.**
Black holes can has powerful effects on their surroundings.

Ans

✗ 1. No error

✗ 2. Black holes can

✗ 3. on their surroundings.

✓ 4. has powerful effects

Question Type : **MCQ**
Question ID : **264330134425**
Option 1 ID : **264330526678**
Option 2 ID : **264330526675**
Option 3 ID : **264330526677**
Option 4 ID : **264330526676**
Status : **Answered**
Chosen Option : **4**

Q.9 Choose the word that is opposite in meaning to the given word.

Lordly

Ans

✗ 1. Arrogant

✗ 2. Saucy

✓ 3. Ignoble

✗ 4. Despair

Question Type : **MCQ**
Question ID : **264330134763**
Option 1 ID : **264330527999**
Option 2 ID : **264330528001**
Option 3 ID : **264330528000**
Option 4 ID : **264330528002**
Status : **Answered**
Chosen Option : **3**

Join Telegram Group "HaryanaJobs.in"

Q.10 Select the appropriate antonym for the underlined word.

The freedom to browse a secure and <u>accountable</u> online space will be compromised.

Ans

✗ 1. liable

✓ 2. irresponsible

✗ 3. amicable

✗ 4. indebted

Question Type : **MCQ**
Question ID : **264330134790**
Option 1 ID : **264330528103**
Option 2 ID : **264330528105**
Option 3 ID : **264330528106**
Option 4 ID : **264330528104**
Status : **Answered**
Chosen Option : **3**

Q.11 A sentence has been given with a blank to be filled with an appropriate option. Choose the correct alternative.

Oak trees do not use leaves to make food _____ the winter.

Ans

✗ 1. by

✗ 2. while

✓ 3. during

✗ 4. within

Question Type : **MCQ**
Question ID : **264330134752**
Option 1 ID : **264330527959**
Option 2 ID : **264330527961**
Option 3 ID : **264330527960**
Option 4 ID : **264330527962**
Status : **Answered**
Chosen Option : **3**

Q.12 In the following question, out of the given four alternatives, select the alternative which best expresses the meaning of the Idiom/Phrase.

Dead men's shoes

Ans

✗ 1. Making oneself available for all the tasks being assigned

✓ 2. Job that one takes over from somebody who has left unexpectedly or died

✗ 3. A career where a lot of cheques are signed

✗ 4. Acquiring the wealth of a dead man through malpractices

Question Type : **MCQ**
Question ID : **264330134792**
Option 1 ID : **264330528111**
Option 2 ID : **264330528113**
Option 3 ID : **264330528112**
Option 4 ID : **264330528114**
Status : **Answered**
Chosen Option : **1**

Join Telegram Group "HaryanaJobs.in"

Q.13 **Improve the underlined part of the sentence. Choose 'No improvement' as an answer if the sentence is grammatically correct.**
Richard Dawkins written the foreword to the second edition of the book.

Ans
✔ 1. wrote the foreword
✘ 2. No improvement
✘ 3. write the foreword
✘ 4. will wrote the foreword

Question Type : **MCQ**
Question ID : **264330134453**
Option 1 ID : **264330526784**
Option 2 ID : **264330526786**
Option 3 ID : **264330526783**
Option 4 ID : **264330526785**
Status : **Answered**
Chosen Option : **1**

Q.14 Choose the word that can substitute the given group of words.

One who hates war, loves peace

Ans
✘ 1. Fatalist
✔ 2. Pacifist
✘ 3. Conformist
✘ 4. Desecrater

Question Type : **MCQ**
Question ID : **264330134733**
Option 1 ID : **264330527884**
Option 2 ID : **264330527886**
Option 3 ID : **264330527885**
Option 4 ID : **264330527883**
Status : **Answered**
Chosen Option : **2**

Q.15 Identify the segment that contains a grammatical error. If there is no error, select 'No error'.

Before he could devote many more / thought to the matter, Pranav / had stepped up to him.

Ans
✘ 1. No error
✘ 2. had stepped up to him.
✘ 3. thought to the matter, Pranav
✔ 4. Before he could devote many more

Question Type : **MCQ**
Question ID : **264330136240**
Option 1 ID : **264330533750**
Option 2 ID : **264330533749**
Option 3 ID : **264330533748**
Option 4 ID : **264330533747**
Status : **Answered**
Chosen Option : **2**

Join Telegram Group "HaryanaJobs.in"

Q.16 Find the part of the given sentence that has an error in it. If there is no error, choose 'No error'.

No matter how mountains are formed, they eventually becomes too heavy and succumb to gravity.

Ans

✔ 1. formed, they eventually becomes

✘ 2. too heavy and succumb to gravity.

✘ 3. No error

✘ 4. No matter how mountains are

Question Type : **MCQ**
Question ID : **264330134773**
Option 1 ID : **264330528040**
Option 2 ID : **264330528041**
Option 3 ID : **264330528042**
Option 4 ID : **264330528039**
Status : **Answered**
Chosen Option : **1**

Q.17 Select the appropriate synonym for the underlined word.

There is no need to attack our guest.

Ans

✘ 1. adore

✔ 2. assault

✘ 3. generate

✘ 4. mark

Question Type : **MCQ**
Question ID : **264330134787**
Option 1 ID : **264330528092**
Option 2 ID : **264330528093**
Option 3 ID : **264330528094**
Option 4 ID : **264330528091**
Status : **Answered**
Chosen Option : **2**

Q.18 In the following question, out of the given four alternatives, select the alternative which best expresses the meaning of the Idiom/Phrase.

The lion's share

Ans

✘ 1. To lose a big amount of money

✘ 2. Life with no regrets

✘ 3. Big success

✔ 4. The largest portion

Question Type : **MCQ**
Question ID : **264330134739**
Option 1 ID : **264330527910**
Option 2 ID : **264330527908**
Option 3 ID : **264330527909**
Option 4 ID : **264330527907**
Status : **Answered**
Chosen Option : **4**

Join Telegram Group "HaryanaJobs.in"

Q.19 Select the most appropriate option to fill in the blank.

Unless you complete your school education, you cannot get yourself _____ into a college.

Ans

✔ 1. enrolled

✘ 2. accommodated

✘ 3. advanced

✘ 4. mopped

Question Type : **MCQ**
Question ID : **264330134796**
Option 1 ID : **264330528127**
Option 2 ID : **264330528128**
Option 3 ID : **264330528129**
Option 4 ID : **264330528130**
Status : **Answered**
Chosen Option : **1**

Q.20 Choose the incorrectly spelt word.

Ans

✘ 1. Gang

✘ 2. Stupid

✘ 3. Boring

✔ 4. Maintaen

Question Type : **MCQ**
Question ID : **264330134793**
Option 1 ID : **264330528116**
Option 2 ID : **264330528117**
Option 3 ID : **264330528115**
Option 4 ID : **264330528118**
Status : **Answered**
Chosen Option : **4**

Comprehension:

In the following passage some of the words have been deleted. Read the passage carefully and select the correct answer for the given blank out of the four alternatives.

In a gallery at the Metropolitan Museum of Art (1)_____ New York, paintings of a father and daughter (2)_____ face to face. Larger than life, the monumental portraits (3)_____ competing conceptions of royal power. The father, Henry VIII, (4)_____ directly at the viewer, conveying aggression through his wide stance, bulging leg muscles and (5)_____ padded clothing.

SubQuestion No : 21

Q.21 Select the most appropriate option to fill in blank number 1.

Ans

✘ 1. on

✘ 2. to

✘ 3. at

✔ 4. in

Question Type : **MCQ**
Question ID : **264330134754**
Option 1 ID : **264330527964**
Option 2 ID : **264330527963**
Option 3 ID : **264330527966**
Option 4 ID : **264330527965**
Status : **Answered**
Chosen Option : **4**

Join Telegram Group "HaryanaJobs.in"

Comprehension:

In the following passage some of the words have been deleted. Read the passage carefully and select the correct answer for the given blank out of the four alternatives.

In a gallery at the Metropolitan Museum of Art (1)_____ New York, paintings of a father and daughter (2)_____ face to face. Larger than life, the monumental portraits (3)_____ competing conceptions of royal power. The father, Henry VIII, (4)_____ directly at the viewer, conveying aggression through his wide stance, bulging leg muscles and (5)_____ padded clothing.

SubQuestion No : 22

Q.22 Select the most appropriate option to fill in blank number 2.

Ans

✗ 1. rest

✗ 2. hanged

✗ 3. poised

✓ 4. hang

Question Type : **MCQ**
Question ID : **264330134755**
Option 1 ID : **264330527967**
Option 2 ID : **264330527969**
Option 3 ID : **264330527970**
Option 4 ID : **264330527968**
Status : **Answered**
Chosen Option : **4**

Comprehension:

In the following passage some of the words have been deleted. Read the passage carefully and select the correct answer for the given blank out of the four alternatives.

In a gallery at the Metropolitan Museum of Art (1)_____ New York, paintings of a father and daughter (2)_____ face to face. Larger than life, the monumental portraits (3)_____ competing conceptions of royal power. The father, Henry VIII, (4)_____ directly at the viewer, conveying aggression through his wide stance, bulging leg muscles and (5)_____ padded clothing.

SubQuestion No : 23

Q.23 Select the most appropriate option to fill in blank number 3.

Ans

✗ 1. believe

✓ 2. present

✗ 3. settle

✗ 4. sell

Question Type : **MCQ**
Question ID : **264330134756**
Option 1 ID : **264330527974**
Option 2 ID : **264330527973**
Option 3 ID : **264330527971**
Option 4 ID : **264330527972**
Status : **Answered**
Chosen Option : **2**

Join Telegram Group "HaryanaJobs.in"

Comprehension:

In the following passage some of the words have been deleted. Read the passage carefully and select the correct answer for the given blank out of the four alternatives.

In a gallery at the Metropolitan Museum of Art (1)_____ New York, paintings of a father and daughter (2)_____ face to face. Larger than life, the monumental portraits (3)_____ competing conceptions of royal power. The father, Henry VIII, (4)_____ directly at the viewer, conveying aggression through his wide stance, bulging leg muscles and (5)_____ padded clothing.

SubQuestion No : 24

Q.24 Select the most appropriate option to fill in blank number 4.

Ans

✔ 1. looks

✘ 2. shocks

✘ 3. hooks

✘ 4. books

Question Type : **MCQ**
Question ID : **264330134757**
Option 1 ID : **264330527977**
Option 2 ID : **264330527975**
Option 3 ID : **264330527978**
Option 4 ID : **264330527976**
Status : **Answered**
Chosen Option : **1**

Comprehension:

In the following passage some of the words have been deleted. Read the passage carefully and select the correct answer for the given blank out of the four alternatives.

In a gallery at the Metropolitan Museum of Art (1)_____ New York, paintings of a father and daughter (2)_____ face to face. Larger than life, the monumental portraits (3)_____ competing conceptions of royal power. The father, Henry VIII, (4)_____ directly at the viewer, conveying aggression through his wide stance, bulging leg muscles and (5)_____ padded clothing.

SubQuestion No : 25

Q.25 Select the most appropriate option to fill in blank number 5.

Ans

✔ 1. excessively

✘ 2. totally

✘ 3. commonly

✘ 4. acutely

Question Type : **MCQ**
Question ID : **264330134758**
Option 1 ID : **264330527982**
Option 2 ID : **264330527979**
Option 3 ID : **264330527980**
Option 4 ID : **264330527981**
Status : **Answered**
Chosen Option : **2**

Join Telegram Group "HaryanaJobs.in"

Multi Tasking Non Technical Staff and Havaldar CBIC and CBN Examination 2022

Roll Number	HaryanaJobs.in
Candidate Name	HaryanaJobs.in
Venue Name	iON Digital Zone iDZ 2 Patliputra
Exam Date	15/05/2023
Exam Time	3:30 PM - 5:00 PM
Subject	MTS Non Tech Havaldar CBIC and CBN Examination 2022

Section : **Numerical and Mathematical Ability**

Q.1 $\frac{126}{39}\times\left(\frac{78}{14}\div\frac{13}{91}\right)-\frac{45}{9}$ का मान क्या है?

Ans

✗ 1. 141

✗ 2. 123

✗ 3. 143

✓ 4. 121

Question Type : **MCQ**
Question ID : **264330139092**
Option 1 ID : **264330544977**
Option 2 ID : **264330544976**
Option 3 ID : **264330544978**
Option 4 ID : **264330544975**
Status : **Answered**
Chosen Option : **4**

Q.2 A अकेले एक घर को 35 दिनों में पेंट कर सकता है और B अकेले इसे 70 दिनों में कर सकता है। C के साथ, उन्होंने यह कार्य केवल 10 दिनों में कर दिया। C अकेले इस कार्य को कितने दिनों में कर सकता है?

Ans

✗ 1. 40 दिन

✗ 2. 70/3 दिन

✓ 3. 70/4 दिन

✗ 4. 20 दिन

Question Type : **MCQ**
Question ID : **264330138384**
Option 1 ID : **264330542146**
Option 2 ID : **264330542143**
Option 3 ID : **264330542145**
Option 4 ID : **264330542144**
Status : **Answered**
Chosen Option : **3**

Join Telegram Group "HaryanaJobs.in"

Q.3 A मार्च में अन्य प्रत्येक महीनों की तुलना में दोगुना कमाता है। मार्च में उसकी आय और वार्षिक आय का अनुपात कितना है?

Ans
1. 2 : 7
2. 3 : 8
3. 4 : 9
4. 2 : 13

Question Type : **MCQ**
Question ID : **264330135074**
Option 1 ID : **264330529232**
Option 2 ID : **264330529233**
Option 3 ID : **264330529234**
Option 4 ID : **264330529231**
Status : **Answered**
Chosen Option : **4**

Q.4 दो नाव एक नदी में धारा के अनुकूल 35 km/hr और 25 km/hr की चाल से चलती हैं। धारा की चाल 4 km/hr है। प्रारंभ में दोनों नावों के बीच की दूरी 60 km है। यदि दोनों नाव धारा के अनुकूल गति कर रही हैं, तो वे एक-दूसरे से कितने समय में मिलेंगी?

Ans
1. 8 घंटे
2. 13 घंटे
3. 10 घंटे
4. 6 घंटे

Question Type : **MCQ**
Question ID : **264330135078**
Option 1 ID : **264330529249**
Option 2 ID : **264330529250**
Option 3 ID : **264330529247**
Option 4 ID : **264330529248**
Status : **Answered**
Chosen Option : **4**

Q.5 4 क्रमागत संख्याओं का औसत 35.5 है। इन संख्याओं में से सबसे बड़ी संख्या ज्ञात कीजिए।

Ans
1. 37
2. 36
3. 39
4. 40

Question Type : **MCQ**
Question ID : **264330135067**
Option 1 ID : **264330529203**
Option 2 ID : **264330529205**
Option 3 ID : **264330529204**
Option 4 ID : **264330529206**
Status : **Answered**
Chosen Option : **1**

Join Telegram Group "HaryanaJobs.in"

Q.6 यदि किसी वस्तु का क्रय मूल्य उसके विक्रय मूल्य का 80 प्रतिशत है, तो लाभ प्रतिशत क्या है?

Ans
1. 50 प्रतिशत
2. 33.33 प्रतिशत
3. 25 प्रतिशत
4. 30 प्रतिशत

Question Type : **MCQ**
Question ID : **264330137328**
Option 1 ID : **264330537940**
Option 2 ID : **264330537939**
Option 3 ID : **264330537942**
Option 4 ID : **264330537941**
Status : **Answered**
Chosen Option : **3**

Q.7 25 कर्मचारी कार्य को 20 दिनों में पूरा कर सकते हैं। 10 कर्मचारियों को कितने दिनों के बाद कार्य छोड़ देना चाहिए ताकि कार्य 30 दिनों में समाप्त हो?

Ans
1. 3 दिन
2. 5 दिन
3. 6 दिन
4. 7 दिन

Question Type : **MCQ**
Question ID : **264330135079**
Option 1 ID : **264330529251**
Option 2 ID : **264330529254**
Option 3 ID : **264330529252**
Option 4 ID : **264330529253**
Status : **Answered**
Chosen Option : **2**

Join Telegram Group "HaryanaJobs.in"

Q.8 निम्न दंड आलेख में 5 अलग-अलग देशों में रोजगार प्राप्त (employed) और बेरोजगार (unemployed) व्यक्तियों की संख्या को दर्शाया गया है। भारत में बेरोजगार व्यक्तियों और रूस में रोजगार प्राप्त व्यक्तियों का अनुपात ज्ञात कीजिए।

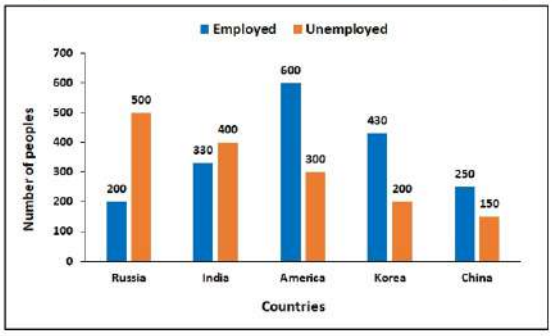

Number of People - व्यक्तियों की संख्या, Countries - देश, employed - रोजगार प्राप्त, unemployed - बेरोजगार

Russia - रूस, India - भारत, America - अमेरिका, Korea - कोरिया, China - चीन

Ans

1. ✗ 3 : 4
2. ✗ 2 : 3
3. ✓ 2 : 1
4. ✗ 1 : 4

Question Type : **MCQ**
Question ID : **264330135082**
Option 1 ID : **264330529265**
Option 2 ID : **264330529264**
Option 3 ID : **264330529263**
Option 4 ID : **264330529266**
Status : **Answered**
Chosen Option : **3**

Q.9 एक रेलगाड़ी 360 km/h की एकसमान चाल से गति कर रही है। 18 मिनट में वह कितनी दूरी तय करेगी?

Ans

1. ✓ 108 km
2. ✗ 180 km
3. ✗ 160 km
4. ✗ 200 km

Question Type : **MCQ**
Question ID : **264330135075**
Option 1 ID : **264330529238**
Option 2 ID : **264330529236**
Option 3 ID : **264330529235**
Option 4 ID : **264330529237**
Status : **Answered**
Chosen Option : **1**

Join Telegram Group "HaryanaJobs.in"

Q.10 चक्रवृद्धि ब्याज (वार्षिक रूप से संयोजित) पर 16 प्रतिशत की वार्षिक दर से एक वर्ष के लिए एक राशि ऋण पर दी गई थी। यदि चक्रवृद्धि अर्धवार्षिक रूप से की जाती, तो ब्याज में Rs. 64 की वृद्धि होती। ऋण पर दी गई राशि कितनी थी?

Ans

✔ 1. Rs. 10000

✘ 2. Rs. 6000

✘ 3. Rs. 20000

✘ 4. Rs. 14000

Question Type : **MCQ**
Question ID : **264330137614**
Option 1 ID : **264330539065**
Option 2 ID : **264330539064**
Option 3 ID : **264330539063**
Option 4 ID : **264330539066**
Status : **Answered**
Chosen Option : **1**

Q.11 Successive discounts of 15% and 30% are equivalent to how much percent of a single discount?

Ans

✘ 1. 20.5%

✘ 2. 33.33%

✘ 3. 52.8%

✔ 4. 40.5%

Question Type : **MCQ**
Question ID : **264330135073**
Option 1 ID : **264330529227**
Option 2 ID : **264330529229**
Option 3 ID : **264330529228**
Option 4 ID : **264330529230**
Status : **Answered**
Chosen Option : **4**

Q.12 $\frac{1}{8} \times \left[\frac{1}{5} \text{ of } \frac{11}{2} \div \left\{\left(\frac{15}{3} - \frac{18}{6}\right)\right\}\right]$ का मान है:

Ans

✘ 1. $\frac{11}{20}$

✘ 2. $\frac{11}{8}$

✔ 3. $\frac{11}{160}$

✘ 4. $\frac{8}{11}$

Question Type : **MCQ**
Question ID : **264330134082**
Option 1 ID : **264330525351**
Option 2 ID : **264330525353**
Option 3 ID : **264330525354**
Option 4 ID : **264330525352**
Status : **Answered**
Chosen Option : **3**

Join Telegram Group "HaryanaJobs.in"

Q.13 यदि एक ठोस बेलन का वक्र पृष्ठीय क्षेत्रफल इसके कुल पृष्ठीय क्षेत्रफल का 2/5 भाग है, तो इसके व्यास और इसकी ऊँचाई का अनुपात कितना है?

Ans
1. 2:3
2. 1:2
3. 3:1
4. 2:5

Question Type : **MCQ**
Question ID : **264330138389**
Option 1 ID : **264330542165**
Option 2 ID : **264330542166**
Option 3 ID : **264330542163**
Option 4 ID : **264330542164**
Status : **Answered**
Chosen Option : **3**

Q.14 यदि किसी वृत्त की परिधि 13.2 cm है, तो उसकी त्रिज्या कितनी है?

Ans
1. 21 cm
2. 6 cm
3. 1.7 cm
4. 2.1 cm

Question Type : **MCQ**
Question ID : **264330135083**
Option 1 ID : **264330529269**
Option 2 ID : **264330529267**
Option 3 ID : **264330529268**
Option 4 ID : **264330529270**
Status : **Answered**
Chosen Option : **4**

Q.15 निम्न तालिका में 4 अलग-अलग स्कूलों से अलग-अलग खेल खेलने वाले छात्रों की संख्या को दर्शाया गया है। स्कूल A और C में मिलाकर बास्केटबॉल खेलने वाले कुल छात्रों और स्कूल B और D में मिलाकर फुटबॉल खेलने वाले कुल छात्रों का अनुपात कितना है?

Schools	Games				
	Basketball	Football	Tennis	Cricket	Hockey
A	125	75	28	100	22
B	90	50	12	50	13
C	145	80	45	70	40
D	100	40	20	45	55

Schools- स्कूल, Games- खेल, Basketball- बास्केटबॉल, Football- फुटबॉल, Tennis- टेनिस, Cricket- क्रिकेट

Ans
1. 3:1
2. 2:3
3. 2:5
4. 4:5

Question Type : **MCQ**
Question ID : **264330134096**
Option 1 ID : **264330525409**
Option 2 ID : **264330525410**
Option 3 ID : **264330525407**
Option 4 ID : **264330525408**
Status : **Answered**
Chosen Option : **1**

Join Telegram Group "HaryanaJobs.in"

Q.16 $12 \div (1/2) + \{(35 \div 7)\ of\ 40\} + 20 - 15\ of\ 10$ का मान है:

Ans
1. 99 ✗
2. 88 ✗
3. 94 ✓
4. 80 ✗

Question Type : **MCQ**
Question ID : **264330135064**
Option 1 ID : **264330529191**
Option 2 ID : **264330529193**
Option 3 ID : **264330529192**
Option 4 ID : **264330529194**
Status : **Answered**
Chosen Option : **3**

Q.17 एक मैच में 7 खिलाड़ियों द्वारा बनाए गए रनों का औसत 63 है। यदि 6 खिलाड़ियों द्वारा बनाए गए रन 130, 42, 24, 53, 45 और 54 हैं, तो सातवें खिलाड़ी ने कितने रन बनाए?

Ans
1. 93 ✓
2. 90 ✗
3. 87 ✗
4. 85 ✗

Question Type : **MCQ**
Question ID : **264330137157**
Option 1 ID : **264330537274**
Option 2 ID : **264330537272**
Option 3 ID : **264330537273**
Option 4 ID : **264330537271**
Status : **Answered**
Chosen Option : **1**

Q.18 साधारण ब्याज पर Rs. 600 की राशि 4 वर्ष में Rs. 840 हो जाती है। साधारण ब्याज की समान दर पर Rs. 1500 की राशि कितने वर्षों में Rs. 2100 हो जाएगी?

Ans
1. 4 वर्ष ✓
2. 3 वर्ष ✗
3. 5 वर्ष ✗
4. 2 वर्ष ✗

Question Type : **MCQ**
Question ID : **264330137634**
Option 1 ID : **264330539146**
Option 2 ID : **264330539144**
Option 3 ID : **264330539145**
Option 4 ID : **264330539143**
Status : **Answered**
Chosen Option : **1**

Join Telegram Group "HaryanaJobs.in"

Q.19 एक विक्रेता ने Rs. 6400 में एक वॉशिंग मशीन खरीदी। इसके अंकित मूल्य पर 20% का बट्टा देने के पश्चात भी उसे 30% का लाभ होता है। वॉशिंग मशीन का अंकित मूल्य ज्ञात कीजिए।

Ans
1. Rs. 11,000
2. Rs. 12,000
3. Rs. 10,400
4. Rs. 13,000

Question Type : **MCQ**
Question ID : **264330135072**
Option 1 ID : **264330529223**
Option 2 ID : **264330529224**
Option 3 ID : **264330529225**
Option 4 ID : **264330529226**
Status : **Answered**
Chosen Option : **3**

Q.20 2100 के (2/7) भाग के 40 प्रतिशत के 25 प्रतिशत का मान क्या है?

Ans
1. 60
2. 40
3. 50
4. 45

Question Type : **MCQ**
Question ID : **264330137629**
Option 1 ID : **264330539126**
Option 2 ID : **264330539124**
Option 3 ID : **264330539125**
Option 4 ID : **264330539123**
Status : **Answered**
Chosen Option : **1**

Section : **Reasoning Ability and Problem Solving**

Q.1 उस विकल्प को चुनिए जो तीसरे शब्द से ठीक उसी प्रकार संबंधित है जिस प्रकार दूसरा शब्द पहले शब्द से संबंधित है।
खंडन करना: स्वीकृति देना : : प्रशंसा करना : ?

Ans
1. गुणगान करना
2. गर्व करना
3. आलोचना करना
4. सराहना करना

Question Type : **MCQ**
Question ID : **264330134957**
Option 1 ID : **264330528764**
Option 2 ID : **264330528766**
Option 3 ID : **264330528765**
Option 4 ID : **264330528763**
Status : **Answered**
Chosen Option : **3**

Join Telegram Group "HaryanaJobs.in"

Q.2 पाँच लड़कियाँ अर्थात् B, H, O, M और S एक परिधि में केंद्र की ओर मुख करके बैठी हैं। S, O के ठीक बाईं ओर, और B के ठीक दाईं ओर बैठी है। M, S के बाएँ से दूसरे स्थान पर बैठी है। H के ठीक दाईं ओर कौन बैठा है?

Ans

✗ 1. S

✗ 2. O

✗ 3. B

✓ 4. M

Question Type : **MCQ**
Question ID : **264330134962**
Option 1 ID : **264330528786**
Option 2 ID : **264330528785**
Option 3 ID : **264330528784**
Option 4 ID : **264330528783**
Status : **Answered**
Chosen Option : **4**

Q.3 सात छात्र H, I, J, K, L, M और N, सभी ने अलग-अलग अंक प्राप्त किए हैं। H ने केवल N से अधिक अंक प्राप्त किए। तीन छात्रों के अंक J और I के अंकों के बीच थे। I ने सर्वाधिक अंक प्राप्त नहीं किए हैं। कितने छात्रों ने J से कम अंक प्राप्त किए?

Ans

✗ 1. 4

✗ 2. 5

✓ 3. 6

✗ 4. 3

Question Type : **MCQ**
Question ID : **264330134964**
Option 1 ID : **264330528791**
Option 2 ID : **264330528792**
Option 3 ID : **264330528793**
Option 4 ID : **264330528794**
Status : **Answered**
Chosen Option : **3**

Q.4 दी गई दो संख्याओं को आपस में बदलने पर क्रमशः समीकरण (I) और (II) का मान क्या होगा?

8 और 4

I. 8 - 4 × 6 ÷ 3 + 7

II. 8 × 3 - 6 ÷ 2 + 4

Ans

✗ 1. 20 और 18

✗ 2. -5 और 20

✓ 3. -5 और 17

✗ 4. -4 और 18

Question Type : **MCQ**
Question ID : **264330137533**
Option 1 ID : **264330538739**
Option 2 ID : **264330538742**
Option 3 ID : **264330538741**
Option 4 ID : **264330538740**
Status : **Answered**
Chosen Option : **4**

Join Telegram Group "HaryanaJobs.in"

Q.5 उस विकल्प आकृति को चुनिए जिसमें दी गई आकृति (X) उसके भाग के रूप में निहित है (घूर्णन की अनुमति नहीं है)।

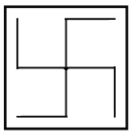

(X)

Ans

✗ 1.

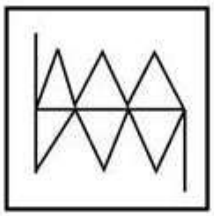

✗ 2.

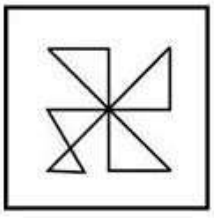

✗ 3.

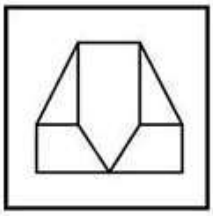

✓ 4.

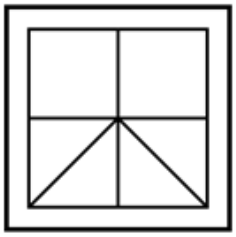

Question Type : **MCQ**
Question ID : **264330133713**
Option 1 ID : **264330523878**
Option 2 ID : **264330523877**
Option 3 ID : **264330523876**
Option 4 ID : **264330523875**
Status : **Answered**
Chosen Option : **4**

Join Telegram Group "HaryanaJobs.in"

Q.6 उस विकल्प आकृति को चुनिए जो पैटर्न को पूरा करने के लिए नीचे दी गई आकृति में प्रश्न चिन्ह (?) के स्थान पर आएगी। (घूर्णन की अनुमति नहीं है)

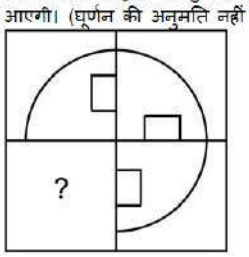

Ans

✗ 1.
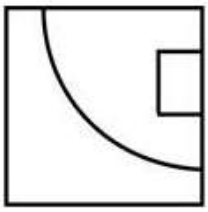

✗ 2.

✗ 3.
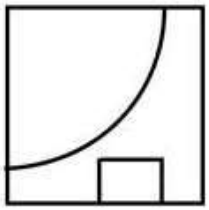

✓ 4.

Question Type : **MCQ**
Question ID : **264330134975**
Option 1 ID : **264330528838**
Option 2 ID : **264330528835**
Option 3 ID : **264330528837**
Option 4 ID : **264330528836**
Status : **Answered**
Chosen Option : **4**

Join Telegram Group "HaryanaJobs.in"

Q.7 उस विकल्प को चुनिए जो तीसरी संख्या से ठीक उसी तरह संबंधित है जिस तरह दूसरी संख्या पहली संख्या से संबंधित है।
483 : 331 :: 715 : ?

Ans
1. 356
2. 653
3. 563
4. 570

Question Type : **MCQ**
Question ID : **264330137552**
Option 1 ID : **264330538816**
Option 2 ID : **264330538815**
Option 3 ID : **264330538818**
Option 4 ID : **264330538817**
Status : **Answered**
Chosen Option : **3**

Q.8 दी गई श्रृंखला में निम्नलिखित में से कौन-सी संख्या प्रश्न चिन्ह(?) के स्थान पर आएगी?
47, 49, 53, 55, 59, 61, 65, ?

Ans
1. 76
2. 67
3. 69
4. 56

Question Type : **MCQ**
Question ID : **264330134968**
Option 1 ID : **264330528809**
Option 2 ID : **264330528808**
Option 3 ID : **264330528807**
Option 4 ID : **264330528810**
Status : **Answered**
Chosen Option : **2**

Q.9 दी गई श्रृंखला में निम्नलिखित में से कौन-सी संख्या प्रश्न चिन्ह (?) के स्थान पर आएगी?
81, 243, 40.5, 121.5, 20.25, 60.75, ?

Ans
1. 10.120
2. 10.215
3. 10.125
4. 10.115

Question Type : **MCQ**
Question ID : **264330137550**
Option 1 ID : **264330538809**
Option 2 ID : **264330538807**
Option 3 ID : **264330538810**
Option 4 ID : **264330538808**
Status : **Answered**
Chosen Option : **3**

Join Telegram Group "HaryanaJobs.in"

Q.10 एक निश्चित कूट भाषा में, 'FULLY' को 'CPPYJ' लिखा जाता है। उस कूट भाषा में 'GIVEN' को कैसे लिखा जाएगा?

Ans

✔ 1. RIZMK

✘ 2. RIYMK

✘ 3. RIZML

✘ 4. RIZOK

Question Type : **MCQ**
Question ID : **264330138462**
Option 1 ID : **264330542458**
Option 2 ID : **264330542455**
Option 3 ID : **264330542456**
Option 4 ID : **264330542457**
Status : **Answered**
Chosen Option : **1**

Q.11 दिए गए पैटर्न का ध्यानपूर्वक अध्ययन कीजिए और उस संख्या को चुनिए जो इस पैटर्न में प्रश्न चिन्ह (?) के स्थान पर आ सकती है।
पहली पंक्ति- 8, 96, 104
दूसरी पंक्ति- 11, 132, 143
तीसरी पंक्ति- 7, 84, ?

Ans

✘ 1. 92

✘ 2. 88

✔ 3. 91

✘ 4. 95

Question Type : **MCQ**
Question ID : **264330134970**
Option 1 ID : **264330528816**
Option 2 ID : **264330528817**
Option 3 ID : **264330528815**
Option 4 ID : **264330528818**
Status : **Answered**
Chosen Option : **3**

Join Telegram Group "HaryanaJobs.in"

Q.12 दी गई आकृति के उस सही दर्पण प्रतिबिंब को चुनिए, जो नीचे दर्शाए गए अनुसार दर्पण को AB पर रखने पर बनेगा।

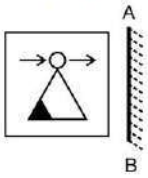

Ans

✔ 1.
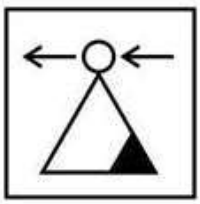

✘ 2.

✘ 3.

✘ 4.

Question Type : **MCQ**
Question ID : **264330133714**
Option 1 ID : **264330523881**
Option 2 ID : **264330523882**
Option 3 ID : **264330523879**
Option 4 ID : **264330523880**
Status : **Answered**
Chosen Option : **1**

Q.13 उस विकल्प को चुनिए जो तीसरे अक्षर समूह से ठीक उसी प्रकार संबंधित है जिस प्रकार दूसरी संख्या पहले अक्षर समूह से संबंधित है।
CL : 36 : : FP : ?

Ans

✘ 1. 88

✔ 2. 96

✘ 3. 49

✘ 4. 92

Question Type : **MCQ**
Question ID : **264330134956**
Option 1 ID : **264330528760**
Option 2 ID : **264330528762**
Option 3 ID : **264330528759**
Option 4 ID : **264330528761**
Status : **Answered**
Chosen Option : **2**

Join Telegram Group "HaryanaJobs.in"

Q.14 छः भाई K, L, M, N, O और S एक कतार में उत्तर की ओर मुख करके खड़े हैं। K, N के ठीक पीछे खड़ा है। O, M और S के ठीक बीच में खड़ा है। केवल तीन भाई L के पीछे खड़े हैं। K के ठीक पीछे कौन खड़ा है?

Ans

✗ 1. N

✗ 2. S

✓ 3. L

✗ 4. M

Question Type : **MCQ**
Question ID : **264330134963**
Option 1 ID : **264330528788**
Option 2 ID : **264330528790**
Option 3 ID : **264330528787**
Option 4 ID : **264330528789**
Status : **Answered**
Chosen Option : **3**

Q.15 तीन कथन दिए गए हैं और दो निष्कर्ष I और II दिए गए हैं। कथनों को सत्य मानते हुए, चाहे वे सामान्यतः ज्ञात तथ्यों से अलग प्रतीत होते हों, निश्चय कीजिए कि कौन-सा निष्कर्ष तार्किक रूप से कथनों के अनुसार है।

कथन:

कुछ शब्द, छोटे हैं।

कुछ छोटे, लंबे हैं।

सभी लंबे, पेड़ हैं।

निष्कर्ष:

I. कुछ पेड़, छोटे हैं।

II. कुछ पेड़, शब्द हैं।

Ans

✗ 1. दोनों निष्कर्ष I और II कथनों के अनुसार हैं।

✗ 2. केवल निष्कर्ष II कथनों के अनुसार है।

✓ 3. केवल निष्कर्ष I कथनों के अनुसार है।

✗ 4. न तो निष्कर्ष I और न ही II कथनों के अनुसार है।

Question Type : **MCQ**
Question ID : **264330134966**
Option 1 ID : **264330528801**
Option 2 ID : **264330528800**
Option 3 ID : **264330528799**
Option 4 ID : **264330528802**
Status : **Answered**
Chosen Option : **3**

Join Telegram Group "HaryanaJobs.in"

Q.16 एक निश्चित कूट भाषा में, 'JUMP' को 'ITLO' लिखा जाता है और 'GIRL' को 'FHQK' लिखा जाता है। उस कूट भाषा में 'LOVE' को कैसे लिखा जाएगा?

Ans

✔ 1. KNUD

✘ 2. KPUD

✘ 3. KNWD

✘ 4. KNWF

Question Type : **MCQ**
Question ID : **264330133490**
Option 1 ID : **264330522992**
Option 2 ID : **264330522991**
Option 3 ID : **264330522993**
Option 4 ID : **264330522994**
Status : **Answered**
Chosen Option : **2**

Q.17 एक निश्चित कूट भाषा में, 'ABOVE' को 'DERYH' लिखा जाता है। उस कूट भाषा में 'BELOW' को कैसे लिखा जाएगा?

Ans

✘ 1. FHOSY

✘ 2. EHPRY

✔ 3. EHORZ

✘ 4. EHORY

Question Type : **MCQ**
Question ID : **264330138502**
Option 1 ID : **264330542616**
Option 2 ID : **264330542615**
Option 3 ID : **264330542618**
Option 4 ID : **264330542617**
Status : **Answered**
Chosen Option : **3**

Q.18 दी गई श्रृंखला में निम्नलिखित में से कौन-सा अक्षर समूह प्रश्न चिन्ह (?) के स्थान पर आएगा?
CAM, DYL, EWK, FUJ, GSI, HQH, ?

Ans

✔ 1. IOG

✘ 2. IOF

✘ 3. FOG

✘ 4. IJG

Question Type : **MCQ**
Question ID : **264330134954**
Option 1 ID : **264330528754**
Option 2 ID : **264330528751**
Option 3 ID : **264330528752**
Option 4 ID : **264330528753**
Status : **Answered**
Chosen Option : **1**

Join Telegram Group "HaryanaJobs.in"

Q.19 दिए गए समीकरण को सही करने के लिए किन दो संख्याओं को आपस में बदला जाना चाहिए?

$12 \times 4 - 8 + 9 \div 3 = 32$

Ans

✗ 1. 32 और 12

✗ 2. 12 और 3

✓ 3. 12 और 9

✗ 4. 4 और 9

Question Type : **MCQ**
Question ID : **264330134971**
Option 1 ID : **264330528819**
Option 2 ID : **264330528822**
Option 3 ID : **264330528821**
Option 4 ID : **264330528820**
Status : **Answered**
Chosen Option : **3**

Q.20 दो कथन दिए गए हैं और दो निष्कर्ष I और II दिए गए हैं। कथनों को सत्य मानते हुए, चाहे वे सामान्यत: ज्ञात तथ्यों से अलग प्रतीत होते हों, निश्चय कीजिए कि कौन-सा निष्कर्ष तार्किक रूप से कथनों के अनुसार है।

कथन:

कुछ घोड़े, ट्रक नहीं हैं।

सभी घोड़े, सफेद हैं।

निष्कर्ष:

I. कुछ सफेद, ट्रक हैं।

II. कुछ घोड़ों का ट्रक होना एक संभावना है।

Ans

✗ 1. न तो निष्कर्ष I और न ही II कथनों के अनुसार है।

✗ 2. दोनों निष्कर्ष I और II कथनों के अनुसार हैं।

✗ 3. केवल निष्कर्ष I कथनों के अनुसार है।

✓ 4. केवल निष्कर्ष II कथनों के अनुसार है।

Question Type : **MCQ**
Question ID : **264330134965**
Option 1 ID : **264330528798**
Option 2 ID : **264330528797**
Option 3 ID : **264330528795**
Option 4 ID : **264330528796**
Status : **Answered**
Chosen Option : **4**

Section : **General Awareness**

Join Telegram Group "HaryanaJobs.in"

Q.1 गौतम बुद्ध को _____ में एक पीपल के वृक्ष के नीचे ज्ञान प्राप्ति हुई।

Ans
1. वाराणसी
2. बोधगया
3. पाटलिपुत्र
4. उज्जैन

Question Type : **MCQ**
Question ID : **264330134640**
Option 1 ID : **264330527518**
Option 2 ID : **264330527515**
Option 3 ID : **264330527516**
Option 4 ID : **264330527517**
Status : **Answered**
Chosen Option : **2**

Q.2 वह कौन-सी पहली प्राचीन भारतीय सभ्यता थी जिसमें व्यवस्थित नगर नियोजन और भूमिगत जल निकास प्रणाली थी?

Ans
1. पूर्वकालीन न्युबियन सभ्यता (Early Nubian civilization)
2. सिंधु घाटी सभ्यता (Indus valley civilization)
3. उत्तरकालीन वैदिक सभ्यता (Later Vedic civilization)
4. ईजियन सभ्यता (Aegean civilization)

Question Type : **MCQ**
Question ID : **264330137690**
Option 1 ID : **264330539368**
Option 2 ID : **264330539367**
Option 3 ID : **264330539369**
Option 4 ID : **264330539370**
Status : **Answered**
Chosen Option : **2**

Q.3 प्रधानमंत्री कौशल विकास योजना (PMKVY) किस वर्ष शुरू की गई थी?

Ans
1. 2016
2. 2014
3. 2017
4. 2015

Question Type : **MCQ**
Question ID : **264330134639**
Option 1 ID : **264330527513**
Option 2 ID : **264330527511**
Option 3 ID : **264330527514**
Option 4 ID : **264330527512**
Status : **Answered**
Chosen Option : **1**

Join Telegram Group "HaryanaJobs.in"

Q.4 भारतीय दंड संहिता की धारा 377 क्या परिभाषित करती है?

Ans
1. सरोगेसी
2. महिलाओं का मंदिर में प्रवेश
3. अप्राकृतिक अपराधों को गैरकानूनी घोषित करना
4. तीन तलाक

Question Type : **MCQ**
Question ID : **264330137687**
Option 1 ID : **264330539356**
Option 2 ID : **264330539357**
Option 3 ID : **264330539355**
Option 4 ID : **264330539358**
Status : **Answered**
Chosen Option : **4**

Q.5 छऊ नृत्य युद्ध परंपराओं, मंदिर अनुष्ठानों आदि का मिश्रण है। यह भारत के किस क्षेत्र में किया जाता है?

Ans
1. दक्षिणी
2. उत्तरी
3. पूर्वी
4. पश्चिमी

Question Type : **MCQ**
Question ID : **264330134619**
Option 1 ID : **264330527432**
Option 2 ID : **264330527433**
Option 3 ID : **264330527434**
Option 4 ID : **264330527431**
Status : **Answered**
Chosen Option : **3**

Q.6 छत्रपति शिवाजी महाराज टर्मिनस को पहले _____ के नाम से जाना जाता था।

Ans
1. एलिजाबेथ टर्मिनस स्टेशन
2. जेम्स टर्मिनस स्टेशन
3. जॉर्ज टर्मिनस स्टेशन
4. विक्टोरिया टर्मिनस स्टेशन

Question Type : **MCQ**
Question ID : **264330134621**
Option 1 ID : **264330527441**
Option 2 ID : **264330527439**
Option 3 ID : **264330527442**
Option 4 ID : **264330527440**
Status : **Answered**
Chosen Option : **4**

Join Telegram Group "HaryanaJobs.in"

Q.7 निम्नलिखित में से कौन-सा तत्व हैलोजन (Halogens) समूह के अंतर्गत **नहीं** आता?

Ans
1. ✗ ब्रोमीन
2. ✗ ऐस्टैटीन
3. ✓ हीलियम
4. ✗ क्लोरीन

Question Type : **MCQ**
Question ID : **264330137716**
Option 1 ID : **264330539472**
Option 2 ID : **264330539474**
Option 3 ID : **264330539473**
Option 4 ID : **264330539471**
Status : **Answered**
Chosen Option : **3**

Q.8 प्रसिद्ध नेलापट्टू (Nelapattu) पक्षी अभयारण्य निम्नलिखित में से किस राज्य में स्थित है?

Ans
1. ✓ आंध्रप्रदेश
2. ✗ मध्यप्रदेश
3. ✗ तमिलनाडु
4. ✗ कर्नाटक

Question Type : **MCQ**
Question ID : **264330137718**
Option 1 ID : **264330539481**
Option 2 ID : **264330539482**
Option 3 ID : **264330539480**
Option 4 ID : **264330539479**
Status : **Answered**
Chosen Option : **1**

Q.9 कारक अदायगी के समस्त मूल्यों को मापने वाली सकल घरेलू उत्पाद (GDP) की मूल्यांकन पद्धति को _____ कहा जाता है।

Ans
1. ✗ उत्पाद विधि
2. ✗ व्यय विधि
3. ✓ आय विधि
4. ✗ मूल्य वर्धित विधि

Question Type : **MCQ**
Question ID : **264330134629**
Option 1 ID : **264330527471**
Option 2 ID : **264330527472**
Option 3 ID : **264330527473**
Option 4 ID : **264330527474**
Status : **Answered**
Chosen Option : **4**

Join Telegram Group "HaryanaJobs.in"

Q.10 निम्नलिखित में से किस शख़्सियत का संबंध अलीगढ़ आंदोलन से है?

Ans
✔ 1. सैयद अहमद खान
✘ 2. मुहम्मद अली जिन्ना
✘ 3. सैयद अमीर अली
✘ 4. अबुल कलाम आज़ाद

Question Type : **MCQ**
Question ID : **264330134072**
Option 1 ID : **264330525314**
Option 2 ID : **264330525313**
Option 3 ID : **264330525312**
Option 4 ID : **264330525311**
Status : **Answered**
Chosen Option : **1**

Q.11 बजट 2022 में की गई घोषणा के मुताबिक, बाल स्वास्थ्य में सुधार के लिए _____ आंगनवाड़ियों को बेहतर बनाया जाएगा।

Ans
✘ 1. 4 लाख
✔ 2. 2 लाख
✘ 3. 1 लाख
✘ 4. 3 लाख

Question Type : **MCQ**
Question ID : **264330138245**
Option 1 ID : **264330541590**
Option 2 ID : **264330541588**
Option 3 ID : **264330541587**
Option 4 ID : **264330541589**
Status : **Answered**
Chosen Option : **2**

Q.12 "वाइड एंगल (Wide Angle)" निम्नलिखित में से किस खिलाड़ी की आत्मकथा है?

Ans
✘ 1. इमरान खान
✘ 2. वसीम अकरम
✘ 3. युवराज सिंह
✔ 4. अनिल कुंबले

Question Type : **MCQ**
Question ID : **264330138238**
Option 1 ID : **264330541561**
Option 2 ID : **264330541562**
Option 3 ID : **264330541560**
Option 4 ID : **264330541559**
Status : **Answered**
Chosen Option : **2**

Join Telegram Group "HaryanaJobs.in"

Q.13 2011 की भारतीय जनगणना को भारत की आजादी के बाद _____ जनगणना अभियान कहा जा सकता है।

Ans
✔ 1. सातवाँ
✘ 2. नौवाँ
✘ 3. दसवाँ
✘ 4. ग्यारहवाँ

Question Type : **MCQ**
Question ID : **264330137905**
Option 1 ID : **264330540230**
Option 2 ID : **264330540228**
Option 3 ID : **264330540229**
Option 4 ID : **264330540227**
Status : **Answered**
Chosen Option : **1**

Q.14 _____ सबसे गहरा भूपरिवेष्ठित (landlocked) और पूरी तरह से संरक्षित बंदरगाह है।

Ans
✔ 1. विशाखापत्तनम
✘ 2. कांडला
✘ 3. पाराद्वीप
✘ 4. मुंबई

Question Type : **MCQ**
Question ID : **264330138230**
Option 1 ID : **264330541527**
Option 2 ID : **264330541528**
Option 3 ID : **264330541530**
Option 4 ID : **264330541529**
Status : **Answered**
Chosen Option : **1**

Q.15 शोवना नारायण एक प्रसिद्ध _____ नृत्यांगना हैं।

Ans
✔ 1. कथक
✘ 2. कुचिपुड़ी
✘ 3. ओडिसी
✘ 4. मणिपुरी

Question Type : **MCQ**
Question ID : **264330138240**
Option 1 ID : **264330541570**
Option 2 ID : **264330541568**
Option 3 ID : **264330541567**
Option 4 ID : **264330541569**
Status : **Answered**
Chosen Option : **2**

Join Telegram Group "HaryanaJobs.in"

Q.16 दिल्ली में हुए 1929 के असेंबली बम कांड के मुख्य आरोपी कौन थे?

Ans
1. राम प्रसाद और अशफाकउल्ला
2. भगत सिंह और बटुकेश्वर दत्त
3. उधम सिंह और मंगल पांडे
4. सूर्य सेन और राम प्रसाद

Question Type : **MCQ**
Question ID : **264330137701**
Option 1 ID : **264330539414**
Option 2 ID : **264330539413**
Option 3 ID : **264330539412**
Option 4 ID : **264330539411**
Status : **Answered**
Chosen Option : **2**

Q.17 1 मार्च 2023 तक, निम्नलिखित में से कौन-सा देश आसियान (ASEAN) का हिस्सा **नहीं** है ?

Ans
1. थाईलैंड
2. इंडोनेशिया
3. श्रीलंका
4. मलेशिया

Question Type : **MCQ**
Question ID : **264330133943**
Option 1 ID : **264330524795**
Option 2 ID : **264330524798**
Option 3 ID : **264330524796**
Option 4 ID : **264330524797**
Status : **Answered**
Chosen Option : **3**

Q.18 महानदी का उद्गम_____की उच्चभूमि से होता है।

Ans
1. बिहार
2. छत्तीसगढ़
3. आंध्रप्रदेश
4. उड़ीसा

Question Type : **MCQ**
Question ID : **264330134637**
Option 1 ID : **264330527506**
Option 2 ID : **264330527505**
Option 3 ID : **264330527504**
Option 4 ID : **264330527503**
Status : **Answered**
Chosen Option : **4**

Join Telegram Group "HaryanaJobs.in"

Q.19 कंदरिया महादेव (Kandariya Mahadeva) मंदिर का निर्माण 999 ईस्वी में _____ वंश के राजा धंगदेव ने करवाया था।

Ans
1. चोल
2. पाल
3. पल्लव
4. चंदेल

Question Type : **MCQ**
Question ID : **264330134641**
Option 1 ID : **264330527520**
Option 2 ID : **264330527519**
Option 3 ID : **264330527522**
Option 4 ID : **264330527521**
Status : **Answered**
Chosen Option : **4**

Q.20 तुकारोई का युद्ध, जिसमें अकबर ने बंगाल और बिहार की सल्तनत को हराया था, कब लड़ा गया था?

Ans
1. 1582
2. 1564
3. 1591
4. 1575

Question Type : **MCQ**
Question ID : **264330137725**
Option 1 ID : **264330539510**
Option 2 ID : **264330539508**
Option 3 ID : **264330539507**
Option 4 ID : **264330539509**
Status : **Answered**
Chosen Option : **3**

Q.21 वायुमंडल की निम्नलिखित परतों में से किसका अर्थ "मिश्रण का क्षेत्र (region of mixing)" है?

Ans
1. मध्यमंडल (Mesosphere)
2. बाह्य वायुमंडल(Thermosphere)
3. समताप मंडल (Stratosphere)
4. क्षोभमंडल (Troposphere)

Question Type : **MCQ**
Question ID : **264330137719**
Option 1 ID : **264330539484**
Option 2 ID : **264330539483**
Option 3 ID : **264330539486**
Option 4 ID : **264330539485**
Status : **Answered**
Chosen Option : **4**

Join Telegram Group "HaryanaJobs.in"

Q.22 निम्नलिखित में से किस टीम ने अंतर्राष्ट्रीय क्रिकेट परिषद (ICC) का पुरुष T20 विश्व कप 2021 जीता?

Ans
✔ 1. ऑस्ट्रेलिया
✘ 2. इंग्लैंड
✘ 3. भारत
✘ 4. वेस्ट इंडीज

Question Type : **MCQ**
Question ID : **264330137734**
Option 1 ID : **264330539546**
Option 2 ID : **264330539543**
Option 3 ID : **264330539544**
Option 4 ID : **264330539545**
Status : **Answered**
Chosen Option : **1**

Q.23 भारत में, महापाषाण कब्रें (megaliths) बनाने की प्रथा लगभग _____ पहले शुरू हुई थी।

Ans
✔ 1. 3000 साल
✘ 2. 1000 साल
✘ 3. 500 साल
✘ 4. 2000 साल

Question Type : **MCQ**
Question ID : **264330134069**
Option 1 ID : **264330525301**
Option 2 ID : **264330525300**
Option 3 ID : **264330525302**
Option 4 ID : **264330525299**
Status : **Answered**
Chosen Option : **1**

Q.24 भारत में किस धार्मिक समूह के लोग नवरोज़ (Nowruz) उत्सव मनाते हैं?

Ans
✘ 1. जैन(Jains)
✔ 2. पारसी(Parsis)
✘ 3. यहूदी (jews)
✘ 4. बौद्ध(Buddhists)

Question Type : **MCQ**
Question ID : **264330134059**
Option 1 ID : **264330525259**
Option 2 ID : **264330525262**
Option 3 ID : **264330525261**
Option 4 ID : **264330525260**
Status : **Answered**
Chosen Option : **2**

Join Telegram Group "HaryanaJobs.in"

Q.25 निम्नलिखित में से कौन एक प्रसिद्ध सरोद वादक है?

Ans
1. एन. रमणी ✗
2. विलायत ख़ाँ ✗
3. ज़रीन शर्मा ✓
4. नीलाद्री कुमार ✗

Question Type : **MCQ**
Question ID : **264330134625**
Option 1 ID : **264330527455**
Option 2 ID : **264330527457**
Option 3 ID : **264330527458**
Option 4 ID : **264330527456**
Status : **Answered**
Chosen Option : **2**

Section : **English Language and Comprehension**

Q.1 A sentence has been given with a blank to be filled with an appropriate option. Choose the correct alternative.

There is definitely _____ he is not telling me.

Ans
1. somebody ✗
2. everything ✗
3. something ✓
4. anything ✗

Question Type : **MCQ**
Question ID : **264330134751**
Option 1 ID : **264330527956**
Option 2 ID : **264330527958**
Option 3 ID : **264330527955**
Option 4 ID : **264330527957**
Status : **Answered**
Chosen Option : **3**

Q.2 Choose the word that can substitute the given group of words.

Departure from common rule

Ans
1. Pragmatic ✗
2. Stupor ✗
3. Anomaly ✓
4. Quixotic ✗

Question Type : **MCQ**
Question ID : **264330134760**
Option 1 ID : **264330527987**
Option 2 ID : **264330527989**
Option 3 ID : **264330527990**
Option 4 ID : **264330527988**
Status : **Not Answered**
Chosen Option : **--**

Join Telegram Group "HaryanaJobs.in"

Q.3 Find the part of the given sentence that has an error in it. If there is no error, choose 'No error'.

In humans, consumption of alcohol, stimulate brain cells to release mood-altering dopamine.

Ans

✗ 1. In humans, consumption of alcohol,

✗ 2. No error

✗ 3. release mood-altering dopamine.

✓ 4. stimulate brain cells to

Question Type : **MCQ**
Question ID : **264330134747**
Option 1 ID : **264330527939**
Option 2 ID : **264330527942**
Option 3 ID : **264330527941**
Option 4 ID : **264330527940**
Status : **Answered**
Chosen Option : **4**

Q.4 **Select the most appropriate option to fill in the blank.**
All the companies make an _____ to be seen and heard within communities.

Ans

✓ 1. effort

✗ 2. establishment

✗ 3. aisle

✗ 4. excuse

Question Type : **MCQ**
Question ID : **264330134552**
Option 1 ID : **264330527165**
Option 2 ID : **264330527164**
Option 3 ID : **264330527163**
Option 4 ID : **264330527166**
Status : **Answered**
Chosen Option : **1**

Q.5 A sentence has been given with a blank to be filled with an appropriate option. Choose the correct alternative.

I am looking forward to _____ you at our favourite restaurant.

Ans

✓ 1. meeting

✗ 2. meets

✗ 3. met

✗ 4. meet

Question Type : **MCQ**
Question ID : **264330134726**
Option 1 ID : **264330527861**
Option 2 ID : **264330527859**
Option 3 ID : **264330527860**
Option 4 ID : **264330527862**
Status : **Answered**
Chosen Option : **4**

Join Telegram Group "HaryanaJobs.in"

Q.6 Select the most appropriate option to fill in the blank.

Jacqueline represents retirement as the final result of a long course of dissatisfaction with _____ life.

Ans

✔ 1. mundane

✘ 2. divine

✘ 3. barbaric

✘ 4. joyful

Question Type : **MCQ**
Question ID : **264330134770**
Option 1 ID : **264330528028**
Option 2 ID : **264330528029**
Option 3 ID : **264330528030**
Option 4 ID : **264330528027**
Status : **Answered**
Chosen Option : **4**

Q.7 Select the most appropriate meaning of the given idiom.

Drastic times call for drastic measures

Ans

✘ 1. Do not pull all your resources in one possibility

✘ 2. Don't rely on it until you sure of it

✘ 3. Something that ends at the last minute or last few seconds

✔ 4. When you are extremely desperate you need to take extremely desperate actions

Question Type : **MCQ**
Question ID : **264330136077**
Option 1 ID : **264330533119**
Option 2 ID : **264330533120**
Option 3 ID : **264330533122**
Option 4 ID : **264330533121**
Status : **Answered**
Chosen Option : **1**

Q.8 Choose the incorrectly spelt word.

Ans

✘ 1. Crops

✘ 2. Salute

✘ 3. Shout

✔ 4. Belieif

Question Type : **MCQ**
Question ID : **264330134767**
Option 1 ID : **264330528016**
Option 2 ID : **264330528015**
Option 3 ID : **264330528018**
Option 4 ID : **264330528017**
Status : **Answered**
Chosen Option : **4**

Join Telegram Group "HaryanaJobs.in"

Q.9 Select the word segment that substitutes (replaces) the bracketed word segment correctly and completes the sentence meaningfully. Select the option 'no correction required' if the sentence is correct as given.

Apple has also introduced a (rule that seemed tie) to its recent dispute with Basecamp.

Ans

✗ 1. rule that seemingly tied

✓ 2. rule that seems tied

✗ 3. No correction required

✗ 4. rule which seemed tie

Question Type : **MCQ**
Question ID : **264330136242**
Option 1 ID : **264330533756**
Option 2 ID : **264330533757**
Option 3 ID : **264330533758**
Option 4 ID : **264330533755**
Status : **Answered**
Chosen Option : **2**

Q.10 Identify the segment that contains a grammatical error. If there is no error, select 'No error'.

What evil magic does / it possess to draw the human / heart so powerful to it?

Ans

✗ 1. What evil magic does

✗ 2. it possess to draw the human

✓ 3. heart so powerful to it?

✗ 4. No error

Question Type : **MCQ**
Question ID : **264330136239**
Option 1 ID : **264330533743**
Option 2 ID : **264330533744**
Option 3 ID : **264330533745**
Option 4 ID : **264330533746**
Status : **Answered**
Chosen Option : **3**

Q.11 Select the appropriate antonym for the underlined word.

Megan, my <u>precious</u> darling, where is the kettle?

Ans

✓ 1. detested

✗ 2. expensive

✗ 3. beloved

✗ 4. steep

Question Type : **MCQ**
Question ID : **264330134764**
Option 1 ID : **264330528006**
Option 2 ID : **264330528004**
Option 3 ID : **264330528003**
Option 4 ID : **264330528005**
Status : **Answered**
Chosen Option : **1**

Join Telegram Group "HaryanaJobs.in"

Q.12 Select the most appropriate antonym of the given word.

Wicked

Ans
1. Sarcastic
2. Admirable
3. Infernal
4. Dissent

Question Type : **MCQ**
Question ID : **264330136049**
Option 1 ID : **264330533011**
Option 2 ID : **264330533012**
Option 3 ID : **264330533014**
Option 4 ID : **264330533013**
Status : **Answered**
Chosen Option : **2**

Q.13 In the following question, out of the given four alternatives, select the alternative which best expresses the meaning of the Idiom/Phrase.

To stretch one's legs

Ans
1. To go for a walk after you have been sitting for a long time
2. To measure one's worth
3. To leave a place without permission
4. To go for a party

Question Type : **MCQ**
Question ID : **264330134766**
Option 1 ID : **264330528012**
Option 2 ID : **264330528011**
Option 3 ID : **264330528013**
Option 4 ID : **264330528014**
Status : **Answered**
Chosen Option : **4**

Q.14 Find the part of the given sentence that has an error in it. If there is no error, choose 'No error'.

I spend a lot of my time at work helping my customers find an best outfit.

Ans
1. my time at work helping my
2. customers find an best outfit.
3. I spend a lot of
4. No error

Question Type : **MCQ**
Question ID : **264330134745**
Option 1 ID : **264330527932**
Option 2 ID : **264330527933**
Option 3 ID : **264330527931**
Option 4 ID : **264330527934**
Status : **Answered**
Chosen Option : **2**

Join Telegram Group "HaryanaJobs.in"

Q.15 **Choose the sentence with no spelling error.**

Ans
✗ 1. The two are in most casies mutually exclusive.
✗ 2. The two are in most cases mutualy exclusive.
✗ 3. The two are in most cases mutualyy exclusive.
✓ 4. The two are in most cases mutually exclusive.

Question Type : **MCQ**
Question ID : **264330134551**
Option 1 ID : **264330527161**
Option 2 ID : **264330527162**
Option 3 ID : **264330527160**
Option 4 ID : **264330527159**
Status : **Answered**
Chosen Option : **4**

Q.16 Choose the word that means the same as the given word.

Aptitude

Ans
✗ 1. Attitude
✓ 2. Talent
✗ 3. Stress
✗ 4. Faith

Question Type : **MCQ**
Question ID : **264330134736**
Option 1 ID : **264330527895**
Option 2 ID : **264330527897**
Option 3 ID : **264330527898**
Option 4 ID : **264330527896**
Status : **Answered**
Chosen Option : **2**

Q.17 Select the most appropriate word for the given group of words.

The sound of elephants

Ans
✗ 1. Quack
✓ 2. Trumpet
✗ 3. Laurel
✗ 4. Screech

Question Type : **MCQ**
Question ID : **264330136071**
Option 1 ID : **264330533098**
Option 2 ID : **264330533097**
Option 3 ID : **264330533095**
Option 4 ID : **264330533096**
Status : **Answered**
Chosen Option : **2**

Join Telegram Group "HaryanaJobs.in"

Q.18 Improve the underlined part of the sentence. Choose 'No improvement' as an answer if the sentence is grammatically correct.

Since 1950 the number of children in secondary schools has been increasing noticeable.

Ans

✗ 1. No improvement

✗ 2. have increasingly noticeably

✓ 3. has been increasing noticeably

✗ 4. increasingly noticeable

Question Type : **MCQ**
Question ID : **264330134776**
Option 1 ID : **264330528054**
Option 2 ID : **264330528052**
Option 3 ID : **264330528051**
Option 4 ID : **264330528053**
Status : **Answered**
Chosen Option : **3**

Q.19 Select the appropriate synonym for the underlined word.

Immediate relocation is your best course of action.

Ans

✗ 1. expiration

✓ 2. migration

✗ 3. ending

✗ 4. emergence

Question Type : **MCQ**
Question ID : **264330134761**
Option 1 ID : **264330527992**
Option 2 ID : **264330527991**
Option 3 ID : **264330527994**
Option 4 ID : **264330527993**
Status : **Answered**
Chosen Option : **2**

Q.20 **Improve the underlined part of the sentence. Choose 'No improvement' as an answer if the sentence is grammatically correct.**
She was fined of driving over the speed limit.

Ans

✗ 1. No improvement

✗ 2. fined for drive

✗ 3. fine of driving

✓ 4. fined for driving

Question Type : **MCQ**
Question ID : **264330134428**
Option 1 ID : **264330526690**
Option 2 ID : **264330526688**
Option 3 ID : **264330526687**
Option 4 ID : **264330526689**
Status : **Answered**
Chosen Option : **4**

Join Telegram Group "HaryanaJobs.in"

Comprehension:

In the following passage some words have been deleted. Fill in the blanks with the help of the alternatives given. Select the most appropriate option for each number.

In the early 1920's, settlers came to Alaska looking for (1) _____. They travelled by boat to the coastal towns of Seward and Knik, and from there by land into the gold fields. The trail they used to (2) _____ inland is known today as the Iditarod Trail, one of the National Historic Trails designated (3) _____ the Congress of the United States. The Iditarod Trail quickly became a major thoroughfare in Alaska, as the mail and supplies were (4) _____ across this trail. People also used it to get from place to place, including the priests, ministers, and judges who had to travel between villages. In the winter, the settlers' only means of travel down this trail was via dog (5) _____.

SubQuestion No : 21

Q.21 Select the most appropriate option to fill in the blank No. 1.

Ans

✗ 1. silver

✓ 2. gold

✗ 3. copper

✗ 4. iron

Question Type : **MCQ**
Question ID : **264330136040**
Option 1 ID : **264330532977**
Option 2 ID : **264330532978**
Option 3 ID : **264330532975**
Option 4 ID : **264330532976**
Status : **Answered**
Chosen Option : **2**

Comprehension:

In the following passage some words have been deleted. Fill in the blanks with the help of the alternatives given. Select the most appropriate option for each number.

In the early 1920's, settlers came to Alaska looking for (1) _____. They travelled by boat to the coastal towns of Seward and Knik, and from there by land into the gold fields. The trail they used to (2) _____ inland is known today as the Iditarod Trail, one of the National Historic Trails designated (3) _____ the Congress of the United States. The Iditarod Trail quickly became a major thoroughfare in Alaska, as the mail and supplies were (4) _____ across this trail. People also used it to get from place to place, including the priests, ministers, and judges who had to travel between villages. In the winter, the settlers' only means of travel down this trail was via dog (5) _____.

SubQuestion No : 22

Q.22 Select the most appropriate option to fill in the blank No. 2.

Ans

✗ 1. submerge

✗ 2. locate

✓ 3. travel

✗ 4. navigate

Question Type : **MCQ**
Question ID : **264330136041**
Option 1 ID : **264330532981**
Option 2 ID : **264330532982**
Option 3 ID : **264330532979**
Option 4 ID : **264330532980**
Status : **Answered**
Chosen Option : **3**

Join Telegram Group "HaryanaJobs.in"

Comprehension:

In the following passage some words have been deleted. Fill in the blanks with the help of the alternatives given. Select the most appropriate option for each number.

In the early 1920's, settlers came to Alaska looking for (1) _____. They travelled by boat to the coastal towns of Seward and Knik, and from there by land into the gold fields. The trail they used to (2) _____ inland is known today as the Iditarod Trail, one of the National Historic Trails designated (3) _____ the Congress of the United States. The Iditarod Trail quickly became a major thoroughfare in Alaska, as the mail and supplies were (4) _____ across this trail. People also used it to get from place to place, including the priests, ministers, and judges who had to travel between villages. In the winter, the settlers' only means of travel down this trail was via dog (5) _____.

SubQuestion No : 23

Q.23 Select the most appropriate option to fill in the blank No. 3.

Ans

✔ 1. by

✗ 2. in

✗ 3. at

✗ 4. of

Question Type : **MCQ**
Question ID : **264330136042**
Option 1 ID : **264330532986**
Option 2 ID : **264330532984**
Option 3 ID : **264330532983**
Option 4 ID : **264330532985**
Status : **Answered**
Chosen Option : **1**

Comprehension:

In the following passage some words have been deleted. Fill in the blanks with the help of the alternatives given. Select the most appropriate option for each number.

In the early 1920's, settlers came to Alaska looking for (1) _____. They travelled by boat to the coastal towns of Seward and Knik, and from there by land into the gold fields. The trail they used to (2) _____ inland is known today as the Iditarod Trail, one of the National Historic Trails designated (3) _____ the Congress of the United States. The Iditarod Trail quickly became a major thoroughfare in Alaska, as the mail and supplies were (4) _____ across this trail. People also used it to get from place to place, including the priests, ministers, and judges who had to travel between villages. In the winter, the settlers' only means of travel down this trail was via dog (5) _____.

SubQuestion No : 24

Q.24 Select the most appropriate option to fill in the blank No. 4.

Ans

✔ 1. carried

✗ 2. transported

✗ 3. imported

✗ 4. deported

Question Type : **MCQ**
Question ID : **264330136043**
Option 1 ID : **264330532987**
Option 2 ID : **264330532990**
Option 3 ID : **264330532988**
Option 4 ID : **264330532989**
Status : **Answered**
Chosen Option : **2**

Join Telegram Group "HaryanaJobs.in"

Comprehension:

In the following passage some words have been deleted. Fill in the blanks with the help of the alternatives given. Select the most appropriate option for each number.

In the early 1920's, settlers came to Alaska looking for (1) _____. They travelled by boat to the coastal towns of Seward and Knik, and from there by land into the gold fields. The trail they used to (2) _____ inland is known today as the Iditarod Trail, one of the National Historic Trails designated (3) _____ the Congress of the United States. The Iditarod Trail quickly became a major thoroughfare in Alaska, as the mail and supplies were (4) _____ across this trail. People also used it to get from place to place, including the priests, ministers, and judges who had to travel between villages. In the winter, the settlers' only means of travel down this trail was via dog (5) _____.

SubQuestion No : 25

Q.25 Select the most appropriate option to fill in the blank No. 5.

Ans

✗ 1. bark

✗ 2. smell

✓ 3. sled

✗ 4. boat

Question Type : **MCQ**
Question ID : **264330136044**
Option 1 ID : **264330532993**
Option 2 ID : **264330532994**
Option 3 ID : **264330532991**
Option 4 ID : **264330532992**
Status : **Answered**
Chosen Option : **3**

Join Telegram Group "HaryanaJobs.in"

Multi Tasking Non Technical Staff and Havaldar CBIC and CBN Examination 2022

Roll Number	HaryanaJobs.in
Candidate Name	HaryanaJobs.in
Venue Name	R K Digital Computer Centre 1
Exam Date	16/05/2023
Exam Time	9:00 AM - 10:30 AM
Subject	MTS Non Tech Havaldar CBIC and CBN Examination 2022

Section : **Numerical and Mathematical Ability**

Q.1 एक कार निर्धारित समय से 4 घंटे देरी से निकलती है लेकिन 480 km दूर अपने गंतव्य तक समय पर पहुँचने के लिए उसे अपनी सामान्य चाल को 10 km/hr से बढ़ाना पड़ता है। कार की सामान्य चाल क्या है?

Ans
1. ✗ 40 km/hr
2. ✓ 30 km/hr
3. ✗ 60 km/hr
4. ✗ 50 km/hr

Question Type : **MCQ**
Question ID : **264330137154**
Option 1 ID : **264330537262**
Option 2 ID : **264330537261**
Option 3 ID : **264330537260**
Option 4 ID : **264330537259**
Status : **Answered**
Chosen Option : **2**

Q.2 $\sqrt{[(7^2 + 6^3 + 9^2) \div 2 + 52]}$ का मान ज्ञात कीजिए।

Ans
1. ✗ 16
2. ✗ 14
3. ✓ 15
4. ✗ 13

Question Type : **MCQ**
Question ID : **264330135413**
Option 1 ID : **264330530562**
Option 2 ID : **264330530559**
Option 3 ID : **264330530561**
Option 4 ID : **264330530560**
Status : **Answered**
Chosen Option : **3**

Join Telegram Group "HaryanaJobs.in"

Q.3 एक लम्बवृत्तीय शंकु की ऊँचाई 24 cm है। यदि इसके आधार का व्यास 36 cm है, तो शंकु का वक्र पृष्ठीय क्षेत्रफल कितना होगा?

Ans

1. ✗ 2144.2 cm^2
2. ✗ 2400.9 cm^2
3. ✓ 1697.14 cm^2
4. ✗ 1444.6 cm^2

Question Type : **MCQ**
Question ID : **264330135151**
Option 1 ID : **264330529541**
Option 2 ID : **264330529540**
Option 3 ID : **264330529539**
Option 4 ID : **264330529542**
Status : **Answered**
Chosen Option : **2**

Q.4 नीचे दिए गए वृत्त आलेख में छः विद्यालयों में पढने वाले छात्रों की संख्या को दर्शाया गया है। इन सभी छः विद्यालयों में पढ़ने वाले छात्रों की कुल संख्या 7000 है। इनमें से किसी एक विशिष्ट विद्यालय में पढ़ने वाले छात्रों की संख्या को इन सभी छः विद्यालयों में पढने वाले छात्रों की कुल संख्या के प्रतिशत के रूप में दर्शाया गया है।

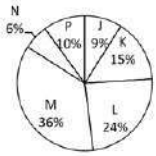

विद्यालय K और L में पढ़ने वाले छात्रों की औसत संख्या और विद्यालय M और N में पढ़ने वाले छात्रों की औसत संख्या के बीच कितना अंतर है?

Ans

1. ✗ 85
2. ✗ 115
3. ✗ 90
4. ✓ 105

Question Type : **MCQ**
Question ID : **264330137173**
Option 1 ID : **264330537338**
Option 2 ID : **264330537335**
Option 3 ID : **264330537336**
Option 4 ID : **264330537337**
Status : **Answered**
Chosen Option : **4**

Q.5 14 कर्मचारी प्रतिदिन 16 घंटे कार्य करके एक इमारत को 81 दिनों में गिरा सकते हैं। 18 कर्मचारी 24 घंटे प्रतिदिन कार्य करके उसी इमारत को कितने दिनों में गिरा सकते हैं?

Ans

1. ✗ 70 दिन
2. ✓ 42 दिन
3. ✗ 54 दिन
4. ✗ 30 दिन

Question Type : **MCQ**
Question ID : **264330135146**
Option 1 ID : **264330529520**
Option 2 ID : **264330529522**
Option 3 ID : **264330529519**
Option 4 ID : **264330529521**
Status : **Answered**
Chosen Option : **2**

Join Telegram Group "HaryanaJobs.in"

Q.6 दिए गए डेटा में वर्ष 2018, 2019 और 2020 में कंपनियों C1, C2, C3 और C4 द्वारा निर्मित मोबाइल की संख्या को (हजारों में) दर्शाया गया है। किस कंपनी ने सभी वर्षों में कुल मिलाकर सबसे कम मोबाइलों का निर्माण किया?

Company	2018	2019	2020
C1	44	33	70
C2	32	54	50
C3	72	63	82
C4	84	71	49

Company - कंपनी

Ans

✗ 1. C3

✗ 2. C1

✓ 3. C2

✗ 4. C4

Question Type : **MCQ**
Question ID : **264330135429**
Option 1 ID : **264330530625**
Option 2 ID : **264330530624**
Option 3 ID : **264330530626**
Option 4 ID : **264330530623**
Status : **Answered**
Chosen Option : **3**

Q.7 8 संख्याओं का औसत 44 है। पहली तीन संख्याओं का औसत 50 है और अगली दो संख्याओं का औसत 52 है। यदि छठी संख्या क्रमशः सातवीं और आठवीं संख्या से 6 और 8 कम है, तो आठवीं संख्या का मान क्या है?

Ans

✓ 1. 36

✗ 2. 56

✗ 3. 32

✗ 4. 40

Question Type : **MCQ**
Question ID : **264330138019**
Option 1 ID : **264330540683**
Option 2 ID : **264330540686**
Option 3 ID : **264330540685**
Option 4 ID : **264330540684**
Status : **Answered**
Chosen Option : **3**

Q.8 साधारण ब्याज पर एक धनराशि 3 वर्षों में Rs.5704 और 4 वर्षों में Rs.6072 हो जाती है। वह धनराशि है:

Ans

✗ 1. Rs.4980

✗ 2. Rs.5020

✗ 3. Rs.4800

✓ 4. Rs.4600

Question Type : **MCQ**
Question ID : **264330138100**
Option 1 ID : **264330541010**
Option 2 ID : **264330541008**
Option 3 ID : **264330541009**
Option 4 ID : **264330541007**
Status : **Answered**
Chosen Option : **4**

Join Telegram Group "HaryanaJobs.in"

Q.9 Rs. 8400 की राशि पर 2 वर्ष के लिए 10% वार्षिक दर पर वार्षिक रूप से संयोजित चक्रवृद्धि ब्याज कितना होगा?

Ans

1. ✗ Rs. 840
2. ✗ Rs. 5064
3. ✗ Rs. 10164
4. ✓ Rs. 1764

Question Type : **MCQ**
Question ID : **264330138048**
Option 1 ID : **264330540800**
Option 2 ID : **264330540801**
Option 3 ID : **264330540799**
Option 4 ID : **264330540802**
Status : **Answered**
Chosen Option : **4**

Q.10 Rs. 15000 को E, F और G के बीच बाँटा जाता है। E के हिस्से और F के हिस्से का अनुपात 3: 2 है। F के हिस्से और G के हिस्से का अनुपात 6: 5 है। F को कितनी धनराशि प्राप्त होगी?

Ans

1. ✗ Rs. 6750
2. ✓ Rs. 4500
3. ✗ Rs. 3750
4. ✗ Rs. 6000

Question Type : **MCQ**
Question ID : **264330137162**
Option 1 ID : **264330537293**
Option 2 ID : **264330537292**
Option 3 ID : **264330537294**
Option 4 ID : **264330537291**
Status : **Answered**
Chosen Option : **2**

Q.11 50 वस्तुओं का क्रय मूल्य, x वस्तुओं के विक्रय मूल्य के समान है। यदि 25 प्रतिशत का लाभ होता है, तो x का मान क्या है? (सभी वस्तुओं का विक्रय मूल्य समान है। सभी वस्तुओं का क्रय मूल्य भी समान है)

Ans

1. ✗ 30
2. ✗ 25
3. ✓ 40
4. ✗ 20

Question Type : **MCQ**
Question ID : **264330137160**
Option 1 ID : **264330537284**
Option 2 ID : **264330537285**
Option 3 ID : **264330537283**
Option 4 ID : **264330537286**
Status : **Answered**
Chosen Option : **3**

Join Telegram Group "HaryanaJobs.in"

Q.12 एक व्यापारी ने Rs. 1488 अंकित मूल्य वाले ट्रॉली बैग पर 25 प्रतिशत की छूट दी और 20 प्रतिशत का लाभ अर्जित किया। ट्रॉली बैग का क्रय मूल्य क्या है?

Ans

✗ 1. Rs. 960
✗ 2. Rs. 880
✗ 3. Rs. 908
✓ 4. Rs. 930

Question Type : **MCQ**
Question ID : **264330137165**
Option 1 ID : **264330537305**
Option 2 ID : **264330537306**
Option 3 ID : **264330537304**
Option 4 ID : **264330537303**
Status : **Answered**
Chosen Option : **4**

Q.13 एक संख्या में 20% की वृद्धि की जाती है और फिर उसमें 20% की कमी की जाती है। संख्या में निवल प्रतिशत परिवर्तन कितना हुआ?

Ans

✓ 1. 4% की कमी
✗ 2. 4% की वृद्धि
✗ 3. 5% की वृद्धि
✗ 4. 5% की कमी

Question Type : **MCQ**
Question ID : **264330138041**
Option 1 ID : **264330540771**
Option 2 ID : **264330540773**
Option 3 ID : **264330540774**
Option 4 ID : **264330540772**
Status : **Answered**
Chosen Option : **1**

Q.14 एक वस्तु को Rs.425 में बेचने पर एक दुकानदार को 15% की हानि होती है। 20% का लाभ अर्जित करने के लिए उसे वस्तु को किस मूल्य पर बेचना चाहिए?

Ans

✗ 1. Rs.800
✓ 2. Rs.600
✗ 3. Rs.400
✗ 4. Rs.1000

Question Type : **MCQ**
Question ID : **264330138095**
Option 1 ID : **264330540989**
Option 2 ID : **264330540988**
Option 3 ID : **264330540987**
Option 4 ID : **264330540990**
Status : **Answered**
Chosen Option : **2**

Join Telegram Group "HaryanaJobs.in"

Q.15 वह सबसे छोटी संख्या, जिसे 14, 18 और 36 से भाग देने पर प्रत्येक स्थिति में शेषफल 1 बचता है, _____ है।

Ans

✗ 1. 250

✗ 2. 251

✗ 3. 252

✓ 4. 253

Question Type : **MCQ**
Question ID : **264330138037**
Option 1 ID : **264330540757**
Option 2 ID : **264330540758**
Option 3 ID : **264330540755**
Option 4 ID : **264330540756**
Status : **Answered**
Chosen Option : **4**

Q.16 रेशमा अकेले किसी कार्य को 14 दिनों में कर सकती है। भावना, रेशमा से 40% अधिक कुशल है। भावना अकेले उसी कार्य को करने में कितने दिन लेगी?

Ans

✗ 1. 28 दिन

✗ 2. 40 दिन

✓ 3. 10 दिन

✗ 4. 14 दिन

Question Type : **MCQ**
Question ID : **264330138714**
Option 1 ID : **264330543465**
Option 2 ID : **264330543466**
Option 3 ID : **264330543463**
Option 4 ID : **264330543464**
Status : **Answered**
Chosen Option : **3**

Q.17 9 संख्याओं का औसत 47 है। यदि एक संख्या को निकाल दिया जाए तो औसत 48 हो जाता है। कौन-सी संख्या निकाली गई?

Ans

✓ 1. 39

✗ 2. 45

✗ 3. 40

✗ 4. 42

Question Type : **MCQ**
Question ID : **264330137155**
Option 1 ID : **264330537263**
Option 2 ID : **264330537266**
Option 3 ID : **264330537265**
Option 4 ID : **264330537264**
Status : **Answered**
Chosen Option : **1**

Join Telegram Group "HaryanaJobs.in"

Q.18 दो वृत्तों की परिधि के बीच का अंतर 4.4 cm है और छोटे वृत्त की त्रिज्या 1.4 cm है। बड़े वृत्त की त्रिज्या कितनी है?

Ans
1. 3.5 cm
2. 4.1 cm
3. 2.1 cm
4. 0.7 cm

Question Type : **MCQ**
Question ID : **264330138718**
Option 1 ID : **264330543480**
Option 2 ID : **264330543482**
Option 3 ID : **264330543481**
Option 4 ID : **264330543479**
Status : **Answered**
Chosen Option : **2**

Q.19 25, 15 और 75 का महत्तम समापवर्तक क्या है?

Ans
1. 7
2. 15
3. 25
4. 5

Question Type : **MCQ**
Question ID : **264330137169**
Option 1 ID : **264330537319**
Option 2 ID : **264330537322**
Option 3 ID : **264330537320**
Option 4 ID : **264330537321**
Status : **Answered**
Chosen Option : **2**

Q.20 यदि X : Y = 3 : 2, तो (X - Y) : (X + Y) का मान क्या है?

Ans
1. 3 : 7
2. 1 : 5
3. 4 : 5
4. 8 : 9

Question Type : **MCQ**
Question ID : **264330137161**
Option 1 ID : **264330537290**
Option 2 ID : **264330537287**
Option 3 ID : **264330537288**
Option 4 ID : **264330537289**
Status : **Answered**
Chosen Option : **2**

Section : **Reasoning Ability and Problem Solving**

Join Telegram Group "HaryanaJobs.in"

Q.1 उस विकल्प को चुनिए जो पाँचवें पद से ठीक उसी प्रकार संबंधित है जिस प्रकार दूसरा पद पहले पद से संबंधित है और चौथा पद तीसरे पद से संबंधित है।

T3G : V16L :: R29A : T42F :: M43P : ?

Ans
1. P56V
2. O56V
3. O56U
4. P56U

Question Type : **MCQ**
Question ID : **264330137110**
Option 1 ID : **264330537086**
Option 2 ID : **264330537085**
Option 3 ID : **264330537083**
Option 4 ID : **264330537084**
Status : **Answered**
Chosen Option : **3**

Q.2 यदि A का अर्थ 'जोड़', B का अर्थ 'गुणा', C का अर्थ 'घटाव' और D का अर्थ 'भाग' हो, तो निम्नलिखित समीकरण का मान क्या होगा?

7 A (18 D 3) C 5 =?

Ans
1. 18
2. 8
3. 13
4. 5

Question Type : **MCQ**
Question ID : **264330137870**
Option 1 ID : **264330540089**
Option 2 ID : **264330540090**
Option 3 ID : **264330540088**
Option 4 ID : **264330540087**
Status : **Answered**
Chosen Option : **2**

Join Telegram Group "HaryanaJobs.in"

Q.3 निम्नलिखित प्रश्न में कुछ कथन दिए गए हैं और उन कथनों के आधार पर कुछ निष्कर्ष दिए गए हैं। आपको यह मानना है कि दिए गए कथन सत्य हैं चाहे वे समान्यतः ज्ञात तथ्यों से अलग प्रतीत होते हों। सभी निष्कर्षों को पढ़िए और फिर निश्चय कीजिए कि दिए गए निष्कर्षों में से कौन-सा निष्कर्ष तार्किक रूप से दिए गए कथनों के अनुसार है।

कथन:

I. कुछ B, T हैं।

II. कोई K, B नहीं है।

निष्कर्ष:

I. कोई B, K नहीं है।

II. कुछ T, B हैं।

III. कुछ T, K हैं।

Ans
1. सभी निष्कर्ष कथनों के अनुसार हैं
2. दोनों निष्कर्ष I और II कथनों के अनुसार हैं
3. दोनों निष्कर्ष I और III कथनों के अनुसार हैं
4. कोई भी निष्कर्ष कथनों के अनुसार नहीं है

Question Type : **MCQ**
Question ID : **264330137120**
Option 1 ID : **264330537125**
Option 2 ID : **264330537123**
Option 3 ID : **264330537124**
Option 4 ID : **264330537126**
Status : **Answered**
Chosen Option : **2**

Q.4 निम्नलिखित प्रश्न में, दी गई श्रृंखला में लुप्त संख्या को चुनिए।

3, 9, 54, 648, 15552, ?

Ans
1. 124583
2. 746946
3. 746496
4. 78342

Question Type : **MCQ**
Question ID : **264330137122**
Option 1 ID : **264330537132**
Option 2 ID : **264330537133**
Option 3 ID : **264330537134**
Option 4 ID : **264330537131**
Status : **Answered**
Chosen Option : **3**

Join Telegram Group "HaryanaJobs.in"

Q.5 दिए गए दो चिन्हों को आपस में बदलने पर, दिए गए समीकरण का मान क्या होगा?

× और ÷ ; 25 + 5 × 35 ÷ 7 - 26

Ans
1. 51
2. 50
3. 0
4. 10

Question Type : **MCQ**
Question ID : **264330137125**
Option 1 ID : **264330537145**
Option 2 ID : **264330537143**
Option 3 ID : **264330537144**
Option 4 ID : **264330537146**
Status : **Answered**
Chosen Option : **3**

Q.6 (::) के बाईं ओर दिए गए शब्द आपस में किसी तर्क/नियम/संबंध द्वारा संबंधित हैं। समान तर्क/नियम/संबंध के आधार पर दिए गए विकल्पों में से (::) के दाईं ओर लुप्त शब्द/शब्द युग्म को चुनिए।

गाय : शाकाहारी :: ?

Ans
1. भेड़ : माँसाहारी
2. माँसाहारी : शेर
3. हाथी : शाकाहारी
4. बकरी : माँसाहारी

Question Type : **MCQ**
Question ID : **264330137111**
Option 1 ID : **264330537087**
Option 2 ID : **264330537090**
Option 3 ID : **264330537089**
Option 4 ID : **264330537088**
Status : **Answered**
Chosen Option : **3**

Join Telegram Group "HaryanaJobs.in"

Q.7 उस विकल्प को चुनिए जिसमें समुच्चय की संख्याएँ वही संबंध साझा करती हैं जो दिए गए समुच्चय में संख्याओं द्वारा साझा किया जाता है। (ध्यान दें: संख्याओं को उनके घटक अंकों में अलग-अलग किए बिना, पूर्ण संख्याओं पर संक्रियाएँ की जानी चाहिए। उदा. 13 - 13 पर संक्रियाएँ जैसे 13 को जोड़ना /घटाना /गुणा करना आदि किया जा सकता है। 13 को 1 और 3 में अलग-अलग करने की और फिर 1 और 3 पर गणितीय संक्रियाएँ करने की अनुमति नहीं है)

(10, 30, 90)

(20, 60, 180)

Ans

✗ 1. (30, 60, 90)

✗ 2. (30, 90, 310)

✗ 3. (30, 45, 60)

✓ 4. (30, 90, 270)

Question Type : **MCQ**
Question ID : **264330137124**
Option 1 ID : **264330537139**
Option 2 ID : **264330537142**
Option 3 ID : **264330537141**
Option 4 ID : **264330537140**
Status : **Answered**
Chosen Option : **4**

Q.8 आठ मित्र अनिल, कमल, राम, संजय, आकाश, विवेक, राहुल और रामू एक वृत्ताकार मेज के चारों ओर केंद्र की ओर मुख करके बैठे हैं(परंतु जरूरी नहीं कि वे इसी क्रम में बैठें हों)। राम, अनिल के ठीक दाईं ओर है। अनिल, संजय के दाईं ओर से चौथे स्थान पर है। राहुल, आकाश के बाईं ओर से चौथे स्थान पर है। आकाश, अनिल के बाईं ओर से दूसरे स्थान पर है। रामू, कमल के बाईं ओर से दूसरे स्थान पर है। विवेक, कमल के दाईं ओर से दूसरे स्थान पर है। विवेक के दाईं ओर से दूसरे स्थान पर कौन है?

Ans

✓ 1. राम

✗ 2. आकाश

✗ 3. रामू

✗ 4. विवेक

Question Type : **MCQ**
Question ID : **264330137117**
Option 1 ID : **264330537112**
Option 2 ID : **264330537113**
Option 3 ID : **264330537111**
Option 4 ID : **264330537114**
Status : **Answered**
Chosen Option : **1**

Q.9 एक निश्चित कूट भाषा में, 'HAND' को 'SZMW' लिखा जाता है। उस कूट भाषा में 'BODY' को कैसे लिखा जाएगा?

Ans

✗ 1. YLWE

✗ 2. YWLB

✓ 3. YLWB

✗ 4. BLWY

Question Type : **MCQ**
Question ID : **264330133700**
Option 1 ID : **264330523826**
Option 2 ID : **264330523824**
Option 3 ID : **264330523823**
Option 4 ID : **264330523825**
Status : **Answered**
Chosen Option : **3**

Join Telegram Group "HaryanaJobs.in"

Q.10 दी गई श्रृंखला में निम्नलिखित में से कौन-सी संख्या प्रश्न चिन्ह (?) के स्थान पर आएगी?
16, 21, 31, 46, 66, 91, ?

Ans
1. 243
2. 211
3. 121
4. 112

Question Type : **MCQ**
Question ID : **264330137843**
Option 1 ID : **264330539980**
Option 2 ID : **264330539982**
Option 3 ID : **264330539979**
Option 4 ID : **264330539981**
Status : **Answered**
Chosen Option : **3**

Q.11 उस विकल्प आकृति को चुनिए जिसमें दी गई आकृति निहित है। (घूर्णन की अनुमति नहीं है)

Ans
1. 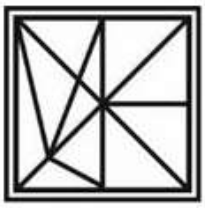
2.
3.
4.

Question Type : **MCQ**
Question ID : **264330135634**
Option 1 ID : **264330531438**
Option 2 ID : **264330531436**
Option 3 ID : **264330531437**
Option 4 ID : **264330531435**
Status : **Answered**
Chosen Option : **4**

Join Telegram Group "HaryanaJobs.in"

Q.12 छः शब्दों B1, B2, B3, B4, B5 और B6 में अक्षरों की संख्या की तुलना की जाती है। B1 में अक्षरों की संख्या सबसे कम है। B4 में अक्षरों की संख्या B1 से अधिक लेकिन B2 से कम है। B6 में अक्षरों की संख्या B3 और B5 से अधिक है। B3 में अक्षरों की संख्या B2 से अधिक है। यदि B5 में अक्षरों की संख्या B3 से अधिक है, तो कितने शब्दों के अक्षरों की संख्या B4 में अक्षरों की संख्या से कम है?

Ans

✗ 1. 2

✗ 2. 1

✓ 3. 4

✗ 4. 3

Question Type : **MCQ**
Question ID : **264330137118**
Option 1 ID : **264330537116**
Option 2 ID : **264330537115**
Option 3 ID : **264330537118**
Option 4 ID : **264330537117**
Status : **Answered**
Chosen Option : **3**

Q.13 आठ मित्र राहुल, राम, रमेश, सोहन, साहिल, अनिल, सोनू और मोनू एक वृत्ताकार मेज के चारों ओर केंद्र की ओर मुख करके बैठे हैं (परंतु जरूरी नहीं कि वे इसी क्रम में बैठें हों)। साहिल, सोनू के बाईं ओर से तीसरे स्थान पर है। सोनू, राम के ठीक दाईं ओर है। राम, राहुल के बाईं ओर से तीसरे स्थान पर है। मोनू, अनिल के दाईं ओर से दूसरे स्थान पर है। अनिल, साहिल का निकटतम पड़ोसी नहीं है। सोहन, राम का निकटतम पड़ोसी नहीं है। राम के बाईं ओर से तीसरे स्थान पर कौन है?

Ans

✓ 1. सोहन

✗ 2. राहुल

✗ 3. सोनू

✗ 4. साहिल

Question Type : **MCQ**
Question ID : **264330137116**
Option 1 ID : **264330537107**
Option 2 ID : **264330537110**
Option 3 ID : **264330537108**
Option 4 ID : **264330537109**
Status : **Answered**
Chosen Option : **1**

Q.14 एक निश्चित कूट भाषा में, 'CENTRE' को '982748' लिखा जाता है, 'DEVICE' को '583098' लिखा जाता है। उस कूट भाषा में 'DIRECT' को कैसे लिखा जाएगा?

Ans

✗ 1. 506897

✗ 2. 564897

✗ 3. 694879

✓ 4. 504897

Question Type : **MCQ**
Question ID : **264330138545**
Option 1 ID : **264330542787**
Option 2 ID : **264330542790**
Option 3 ID : **264330542789**
Option 4 ID : **264330542788**
Status : **Answered**
Chosen Option : **4**

Join Telegram Group "HaryanaJobs.in"

Q.15 उस विकल्प को चुनिए जो तीसरी संख्या से ठीक उसी प्रकार संबंधित है जिस प्रकार दूसरी संख्या पहली संख्या से संबंधित है।
64 : 15 :: 88 : ?

Ans
1. 12 ✗
2. 21 ✓
3. 7 ✗
4. 31 ✗

Question Type : **MCQ**
Question ID : **264330137845**
Option 1 ID : **264330539989**
Option 2 ID : **264330539988**
Option 3 ID : **264330539990**
Option 4 ID : **264330539987**
Status : **Answered**
Chosen Option : **2**

Q.16 एक निश्चित कूट भाषा में, 'SLDDER' को 'PEBDJS' लिखा जाता है। उस कूट भाषा में 'TALLER' को कैसे लिखा जाएगा?

Ans
1. PEJLYT ✓
2. PDJLYT ✗
3. PEJMYT ✗
4. PEJLTY ✗

Question Type : **MCQ**
Question ID : **264330137092**
Option 1 ID : **264330537011**
Option 2 ID : **264330537013**
Option 3 ID : **264330537014**
Option 4 ID : **264330537012**
Status : **Answered**
Chosen Option : **1**

Join Telegram Group "HaryanaJobs.in"

Q.17 यदि रेखा AB पर एक दर्पण रखा जाए, तो दी गई विकल्प आकृतियों में से कौन-सी प्रश्न आकृति का सही प्रतिबिंब होगी?

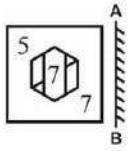

Ans

✔ 1.

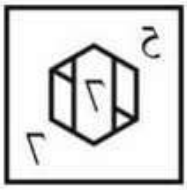

✘ 2.

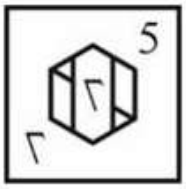

✘ 3.

✘ 4.

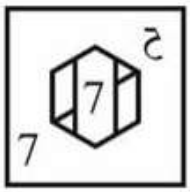

Question Type : **MCQ**
Question ID : **264330135635**
Option 1 ID : **264330531439**
Option 2 ID : **264330531442**
Option 3 ID : **264330531441**
Option 4 ID : **264330531440**
Status : **Answered**
Chosen Option : **1**

Join Telegram Group "HaryanaJobs.in"

Q.18 निम्नलिखित प्रश्न में कुछ कथन दिए गए हैं और उन कथनों के आधार पर कुछ निष्कर्ष दिए गए हैं। आपको यह मानना है कि दिए गए कथन सत्य हैं चाहे वे समान्यतः ज्ञात तथ्यों से अलग प्रतीत होते हों। सभी निष्कर्षों को पढ़िए और फिर निश्चय कीजिए कि दिए गए निष्कर्षों में से कौन-सा निष्कर्ष तार्किक रूप से दिए गए कथनों के अनुसार है।

कथन:

I. कुछ S, P हैं।

II. कोई P, L नहीं है।

निष्कर्ष:

I. सभी S, P हैं।

II. सभी L, S हैं।

Ans

1. केवल निष्कर्ष I कथनों के अनुसार है
2. कोई भी निष्कर्ष कथनों के अनुसार नहीं है
3. केवल निष्कर्ष II कथनों के अनुसार है
4. दोनों निष्कर्ष I और II कथनों के अनुसार हैं

Question Type : **MCQ**
Question ID : **264330137119**
Option 1 ID : **264330537119**
Option 2 ID : **264330537122**
Option 3 ID : **264330537120**
Option 4 ID : **264330537121**
Status : **Answered**
Chosen Option : **2**

Join Telegram Group "HaryanaJobs.in"

Q.19 कौन-सी उत्तर आकृति प्रश्न आकृति में दिए गए पैटर्न को पूरा करेगी? (घूर्णन की अनुमति नहीं है)



Ans

✔ 1.

✘ 2.

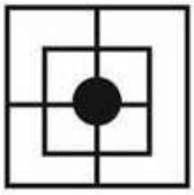

✘ 3.

✘ 4.

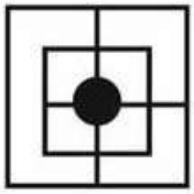

Question Type : **MCQ**
Question ID : **264330137129**
Option 1 ID : **264330537161**
Option 2 ID : **264330537160**
Option 3 ID : **264330537162**
Option 4 ID : **264330537159**
Status : **Answered**
Chosen Option : **1**

Join Telegram Group "HaryanaJobs.in"

Q.20 एक श्रृंखला दी गई है जिसमें एक पद लुप्त है। दिए गए विकल्पों में से उस सही विकल्प को चुनिए जो श्रृंखला को पूरा करेगा।

RAIR, UBLS, XCOT, ADRU, ?

Ans
1. DFUV
2. DEUV
3. DEVV
4. DFFV

Question Type : **MCQ**
Question ID : **264330137108**
Option 1 ID : **264330537076**
Option 2 ID : **264330537077**
Option 3 ID : **264330537078**
Option 4 ID : **264330537075**
Status : **Answered**
Chosen Option : **2**

Section : **General Awareness**

Q.1 चौरी चौरा कांड कब हुआ था?

Ans
1. 1922
2. 1901
3. 1915
4. 1908

Question Type : **MCQ**
Question ID : **264330137984**
Option 1 ID : **264330540543**
Option 2 ID : **264330540546**
Option 3 ID : **264330540544**
Option 4 ID : **264330540545**
Status : **Answered**
Chosen Option : **1**

Q.2 किस देश ने 2022 में विश्व एथलेटिक्स चैंपियनशिप (18वीं) की मेजबानी की?

Ans
1. संयुक्त राज्य अमेरिका
2. जापान
3. कोलंबिया
4. कतर

Question Type : **MCQ**
Question ID : **264330137967**
Option 1 ID : **264330540477**
Option 2 ID : **264330540476**
Option 3 ID : **264330540478**
Option 4 ID : **264330540475**
Status : **Answered**
Chosen Option : **1**

Join Telegram Group "HaryanaJobs.in"

Q.3 निम्नलिखित में से कौन-से पुष्पी और बीज धारण करने वाले पौधे अर्थात फैनरोगैम (पुष्पोद्भिद)हैं?

Ans
1. ब्रायोफ़ाइटा
2. टेरिडोफ़ाइटा
3. जिम्नोस्पर्म
4. थैलोफ़ाइटा

Question Type : **MCQ**
Question ID : **264330137951**
Option 1 ID : **264330540412**
Option 2 ID : **264330540414**
Option 3 ID : **264330540413**
Option 4 ID : **264330540411**
Status : **Answered**
Chosen Option : **3**

Q.4 भारत किस देश के साथ सबसे लंबी सीमा साझा करता है?

Ans
1. बांग्लादेश
2. पाकिस्तान
3. चीन
4. नेपाल

Question Type : **MCQ**
Question ID : **264330134043**
Option 1 ID : **264330525197**
Option 2 ID : **264330525195**
Option 3 ID : **264330525198**
Option 4 ID : **264330525196**
Status : **Answered**
Chosen Option : **1**

Q.5 जमी हुई गैसों, चट्टान और धूल के ब्रहमांडीय हिमगोले (Cosmic snowballs), जो सूर्य की परिक्रमा करते हैं, _____ कहलाते हैं।

Ans
1. उल्का (Meteors)
2. तारा (Star)
3. उल्कापिंड (Meteorites)
4. धूमकेतु (Comets)

Question Type : **MCQ**
Question ID : **264330137952**
Option 1 ID : **264330540417**
Option 2 ID : **264330540416**
Option 3 ID : **264330540415**
Option 4 ID : **264330540418**
Status : **Answered**
Chosen Option : **3**

Join Telegram Group "HaryanaJobs.in"

Q.6 भारत में, जनगणना अधिनियम _____ के प्रावधानों के तहत जनगणना की जाती है।

Ans
1. 1952
2. 1955
3. 1948
4. 1950

Question Type : **MCQ**
Question ID : **264330138232**
Option 1 ID : **264330541537**
Option 2 ID : **264330541538**
Option 3 ID : **264330541536**
Option 4 ID : **264330541535**
Status : **Answered**
Chosen Option : **4**

Q.7 निम्नलिखित में से कौन-सा अनुष्ठान भारत के त्रिपुरा में पृथ्वी की सफाई के साथ-साथ चौदह देवताओं की पूजा करने से संबंधित है?

Ans
1. खार्ची पूजा
2. बानी (Bani)
3. टूसू
4. दुर्गा पूजा

Question Type : **MCQ**
Question ID : **264330135487**
Option 1 ID : **264330530858**
Option 2 ID : **264330530856**
Option 3 ID : **264330530857**
Option 4 ID : **264330530855**
Status : **Answered**
Chosen Option : **1**

Q.8 निम्नलिखित में से कौन-सा विटामिन देखने की क्षमता में एक अहम भूमिका निभाता है?

Ans
1. D
2. A
3. C
4. B1

Question Type : **MCQ**
Question ID : **264330137042**
Option 1 ID : **264330536814**
Option 2 ID : **264330536811**
Option 3 ID : **264330536813**
Option 4 ID : **264330536812**
Status : **Answered**
Chosen Option : **2**

Join Telegram Group "HaryanaJobs.in"

Q.9 कपास उगाने के लिए कितने पाला रहित दिनों की आवश्यकता होती है?

Ans
1. 140
2. 250
3. 210
4. 160

Question Type : **MCQ**
Question ID : **264330137028**
Option 1 ID : **264330536755**
Option 2 ID : **264330536757**
Option 3 ID : **264330536756**
Option 4 ID : **264330536758**
Status : **Answered**
Chosen Option : **3**

Q.10 'द व्हाइट टाइगर (The White Tiger)' नामक पुस्तक के लेखक कौन हैं?

Ans
1. खुशवंत सिंह
2. मुल्क राज आनंद
3. रविंदर सिंह
4. अरविंद अडिगा

Question Type : **MCQ**
Question ID : **264330137016**
Option 1 ID : **264330536709**
Option 2 ID : **264330536710**
Option 3 ID : **264330536707**
Option 4 ID : **264330536708**
Status : **Answered**
Chosen Option : **4**

Q.11 अक्टूबर 2022 तक, प्रधानमंत्री नरेंद्र मोदी _____ प्रधानमंत्री किसान समृद्धि केंद्रों का उद्घाटन कर चुके हैं।

Ans
1. 500
2. 300
3. 600
4. 400

Question Type : **MCQ**
Question ID : **264330137036**
Option 1 ID : **264330536788**
Option 2 ID : **264330536790**
Option 3 ID : **264330536787**
Option 4 ID : **264330536789**
Status : **Not Answered**
Chosen Option : **--**

Join Telegram Group "HaryanaJobs.in"

Q.12 बहुपरमाणुक धनायनों के सामान्य नाम प्रायः प्रत्यय _____ के साथ समाप्त होते हैं।

Ans
1. आइड (-ide)
2. अस (-ous)
3. ओनियम (-onium)
4. इक (-ic)

Question Type : **MCQ**
Question ID : **264330137949**
Option 1 ID : **264330540405**
Option 2 ID : **264330540404**
Option 3 ID : **264330540403**
Option 4 ID : **264330540406**
Status : **Not Answered**
Chosen Option : **--**

Q.13 पंडित रवि शंकर को वर्ष 1999 में भारत के सर्वोच्च नागरिक सम्मान, भारतरत्न से सम्मानित किया गया था। वह निम्नलिखित में से कौन-से वाद्ययंत्र के वादक हैं?

Ans
1. तबला
2. शहनाई
3. बांसुरी
4. सितार

Question Type : **MCQ**
Question ID : **264330137054**
Option 1 ID : **264330536860**
Option 2 ID : **264330536861**
Option 3 ID : **264330536862**
Option 4 ID : **264330536859**
Status : **Answered**
Chosen Option : **4**

Q.14 भारतीय संविधान में एकल नागरिकता की विशेषता _____ के संविधान से ली गई थी।

Ans
1. ऑस्ट्रेलिया
2. संयुक्त राज्य अमेरिका
3. कनाडा
4. ब्रिटेन

Question Type : **MCQ**
Question ID : **264330137056**
Option 1 ID : **264330536870**
Option 2 ID : **264330536868**
Option 3 ID : **264330536869**
Option 4 ID : **264330536867**
Status : **Answered**
Chosen Option : **4**

Join Telegram Group "HaryanaJobs.in"

Q.15 1857 के विद्रोह के बाद किस मुगल शासक का अंग्रेजों ने तख्ता पलट कर उसे बर्मा में निर्वासन के लिए भेज दिया?

Ans
1. बहादुर शाह प्रथम
2. शाहजहाँ
3. बहादुर शाह द्वितीय
4. आलमगीर द्वितीय

Question Type : **MCQ**
Question ID : **264330137958**
Option 1 ID : **264330540440**
Option 2 ID : **264330540439**
Option 3 ID : **264330540442**
Option 4 ID : **264330540441**
Status : **Answered**
Chosen Option : **3**

Q.16 निम्नलिखित में से कौन-सा नृत्य, युद्ध के हिंदू देवता, मुरुगन की अनुष्ठानिक पूजा के दौरान भक्तों द्वारा किया जाने वाला एक नृत्य है?

Ans
1. कावड़ी अट्टम (Kavadiattam)
2. मयिलाट्टम (Mayilattam)
3. यक्ष (Yaksha)
4. कुम्मी (Kummi)

Question Type : **MCQ**
Question ID : **264330137038**
Option 1 ID : **264330536795**
Option 2 ID : **264330536796**
Option 3 ID : **264330536798**
Option 4 ID : **264330536797**
Status : **Answered**
Chosen Option : **1**

Q.17 पाँचवें खेलो इंडिया यूथ गेम्स 2022 का आयोजन 2023 में _____ राज्य में किया गया ।

Ans
1. मध्यप्रदेश
2. उत्तरप्रदेश
3. पश्चिम बंगाल
4. केरल

Question Type : **MCQ**
Question ID : **264330137058**
Option 1 ID : **264330536875**
Option 2 ID : **264330536876**
Option 3 ID : **264330536877**
Option 4 ID : **264330536878**
Status : **Answered**
Chosen Option : **1**

Join Telegram Group "HaryanaJobs.in"

Q.18 अशोक के शिलालेखों में वर्णित जानकारी के अनुसार मौर्य साम्राज्य में कितने प्रमुख राजनीतिक केंद्र थे?

Ans
1. चार ✗
2. पाँच ✓
3. छः ✗
4. तीन ✗

Question Type : **MCQ**
Question ID : **264330135497**
Option 1 ID : **264330530895**
Option 2 ID : **264330530896**
Option 3 ID : **264330530897**
Option 4 ID : **264330530898**
Status : **Answered**
Chosen Option : **2**

Q.19 परिवारों द्वारा प्राप्त राष्ट्रीय आय को _____ कहते हैं।

Ans
1. पेशेवर आय ✗
2. व्यक्तिगत आय ✓
3. घरेलू आय ✗
4. प्रयोज्य आय ✗

Question Type : **MCQ**
Question ID : **264330137021**
Option 1 ID : **264330536729**
Option 2 ID : **264330536728**
Option 3 ID : **264330536730**
Option 4 ID : **264330536727**
Status : **Not Answered**
Chosen Option : **--**

Q.20 निम्नलिखित में से किसे दुनियाभर में भरतनाट्यम की सामाज्ञी के रूप में जाना जाता है?

Ans
1. शोभना नारायण ✗
2. कलामंडलम कल्याणिकुट्टी अम्मा ✗
3. मल्लिका साराभाई ✗
4. तंजौर बालासरस्वती ✓

Question Type : **MCQ**
Question ID : **264330137018**
Option 1 ID : **264330536715**
Option 2 ID : **264330536717**
Option 3 ID : **264330536718**
Option 4 ID : **264330536716**
Status : **Answered**
Chosen Option : **4**

Join Telegram Group "HaryanaJobs.in"

Q.21 किशोर न्याय (बच्चों की देखभाल एवं संरक्षण) संशोधन विधेयक, 2021 किशोर न्याय (बच्चों की देखभाल एवं संरक्षण) अधिनियम, _____ में संशोधन करना चाहता है।

Ans
1. 2013 ✗
2. 2016 ✗
3. 2015 ✓
4. 2014 ✗

Question Type : **MCQ**
Question ID : **264330137970**
Option 1 ID : **264330540487**
Option 2 ID : **264330540490**
Option 3 ID : **264330540489**
Option 4 ID : **264330540488**
Status : **Answered**
Chosen Option : **1**

Q.22 निम्नलिखित में से कौन-सी नदी बंगाल की खाड़ी में **नहीं** गिरती है?

Ans
1. ताप्ती ✓
2. यमुना ✗
3. महानदी ✗
4. कृष्णा ✗

Question Type : **MCQ**
Question ID : **264330137046**
Option 1 ID : **264330536830**
Option 2 ID : **264330536829**
Option 3 ID : **264330536828**
Option 4 ID : **264330536827**
Status : **Answered**
Chosen Option : **1**

Q.23 निम्नलिखित में से कौन-सा प्रसिद्ध मंदिर असम में स्थित है?

Ans
1. मुंडेश्वरी मंदिर (Mundeshwari Temple) ✗
2. शोर मंदिर (Shore Temple) ✗
3. कामाख्या मंदिर (Kamakhya Temple) ✓
4. सोमनाथ मंदिर (Somnath Temple) ✗

Question Type : **MCQ**
Question ID : **264330137973**
Option 1 ID : **264330540500**
Option 2 ID : **264330540499**
Option 3 ID : **264330540502**
Option 4 ID : **264330540501**
Status : **Answered**
Chosen Option : **3**

Join Telegram Group "HaryanaJobs.in"

Q.24 भारत के राष्ट्रपति द्वारा अधिकतम _____ सदस्यों को राज्यसभा का सदस्य बनने के लिए मनोनीत किया जा सकता है।

Ans
✔ 1. 12
✘ 2. 10
✘ 3. 18
✘ 4. 25

Question Type : **MCQ**
Question ID : **264330137057**
Option 1 ID : **264330536872**
Option 2 ID : **264330536871**
Option 3 ID : **264330536873**
Option 4 ID : **264330536874**
Status : **Answered**
Chosen Option : **1**

Q.25 निम्नलिखित में से किस स्वतंत्रता सेनानी ने प्रसिद्ध नारा "तुम मुझे खून दो, मैं तुम्हें आज़ादी दूंगा!" दिया था?

Ans
✔ 1. सुभाषचंद्र बोस
✘ 2. लाला लाजपत राय
✘ 3. बाल गंगाधर तिलक
✘ 4. सरदार वल्लभ भाई पटेल

Question Type : **MCQ**
Question ID : **264330135500**
Option 1 ID : **264330530907**
Option 2 ID : **264330530910**
Option 3 ID : **264330530909**
Option 4 ID : **264330530908**
Status : **Answered**
Chosen Option : **1**

Section : **English Language and Comprehension**

Q.1 Select the most appropriate antonym of the given word.

Lethargy

Ans
✘ 1. Shield
✘ 2. Refusal
✘ 3. Existence
✔ 4. Attention

Question Type : **MCQ**
Question ID : **264330136527**
Option 1 ID : **264330534850**
Option 2 ID : **264330534849**
Option 3 ID : **264330534847**
Option 4 ID : **264330534848**
Status : **Answered**
Chosen Option : **4**

Join Telegram Group "HaryanaJobs.in"

Q.2 Select the appropriate antonym for the underlined word.

The beauty of our landscape is important.

Ans

✗ 1. nobility

✓ 2. blemish

✗ 3. aesthetics

✗ 4. glamour

Question Type : **MCQ**
Question ID : **264330135327**
Option 1 ID : **264330530217**
Option 2 ID : **264330530218**
Option 3 ID : **264330530215**
Option 4 ID : **264330530216**
Status : **Answered**
Chosen Option : **2**

Q.3 Select the most appropriate option to fill in the blank.

Strength training is useful as it avoids large increases in breathing rate and _____ muscle strength.

Ans

✗ 1. degrades

✗ 2. regresses

✗ 3. distributes

✓ 4. improves

Question Type : **MCQ**
Question ID : **264330135333**
Option 1 ID : **264330530240**
Option 2 ID : **264330530242**
Option 3 ID : **264330530241**
Option 4 ID : **264330530239**
Status : **Answered**
Chosen Option : **4**

Q.4 Identify the segment that contains a grammatical error. If there is no error, select 'No error'.

In another words, most of us / are made by our elders or by our / peers, but leaders are self-directed.

Ans

✗ 1. peers, but leaders are self-directed.

✗ 2. No error

✗ 3. are made by our elders or by our

✓ 4. In another words, most of us

Question Type : **MCQ**
Question ID : **264330136587**
Option 1 ID : **264330535081**
Option 2 ID : **264330535082**
Option 3 ID : **264330535080**
Option 4 ID : **264330535079**
Status : **Answered**
Chosen Option : **4**

Join Telegram Group "HaryanaJobs.in"

Q.5 Find the part of the given sentence that has an error in it. If there is no error, choose 'No error'.

Producing a different component was as simple such launching a new computer program.

Ans

✗ 1. Producing a different component was

✓ 2. as simple such launching

✗ 3. a new computer program.

✗ 4. No error

Question Type : **MCQ**
Question ID : **264330135310**
Option 1 ID : **264330530151**
Option 2 ID : **264330530152**
Option 3 ID : **264330530153**
Option 4 ID : **264330530154**
Status : **Answered**
Chosen Option : **2**

Q.6 A sentence has been given with a blank to be filled with an appropriate option. Choose the correct alternative.

He was _____ in a pool of blood near a neighbour's house.

Ans

✓ 1. lying

✗ 2. lain

✗ 3. lied

✗ 4. laying

Question Type : **MCQ**
Question ID : **264330135289**
Option 1 ID : **264330530073**
Option 2 ID : **264330530072**
Option 3 ID : **264330530071**
Option 4 ID : **264330530074**
Status : **Answered**
Chosen Option : **4**

Q.7 Select the most appropriate option to substitute the bracketed segment in the given sentence. If there is no need to substitute it, select 'no substitution required'.
This commodity in clay-coloured material (can't be used neither as a table mat nor as a table napkin).

Ans

✗ 1. can't be used neither as a table mat but as a table napkin

✗ 2. No substitution required

✗ 3. can't be used neither as a table mat or as a table napkin

✓ 4. can't be used either as a table mat or as a table napkin

Question Type : **MCQ**
Question ID : **264330135772**
Option 1 ID : **264330531967**
Option 2 ID : **264330531970**
Option 3 ID : **264330531968**
Option 4 ID : **264330531969**
Status : **Answered**
Chosen Option : **2**

Join Telegram Group "HaryanaJobs.in"

Q.8 In the following question, out of the given four alternatives, select the alternative which best expresses the meaning of the Idiom/Phrase.

With a pinch of salt

Ans

✗ 1. Taken forcefully

✗ 2. Nefariously

✓ 3. Doubt the truth or value of something

✗ 4. With due respect

Question Type : **MCQ**
Question ID : **264330135329**
Option 1 ID : **264330530226**
Option 2 ID : **264330530225**
Option 3 ID : **264330530223**
Option 4 ID : **264330530224**
Status : **Answered**
Chosen Option : **3**

Q.9 Select the appropriate synonym for the underlined word.

A sudden gust of wind hits the window.

Ans

✗ 1. cramp

✗ 2. feel

✓ 3. blow

✗ 4. pump

Question Type : **MCQ**
Question ID : **264330135324**
Option 1 ID : **264330530206**
Option 2 ID : **264330530204**
Option 3 ID : **264330530203**
Option 4 ID : **264330530205**
Status : **Answered**
Chosen Option : **3**

Q.10 A sentence has been given with a blank to be filled with an appropriate option. Choose the correct alternative.

You have the power _____ the perspective of this nation.

Ans

✗ 1. changed

✗ 2. changing

✗ 3. change

✓ 4. to change

Question Type : **MCQ**
Question ID : **264330135314**
Option 1 ID : **264330530167**
Option 2 ID : **264330530169**
Option 3 ID : **264330530168**
Option 4 ID : **264330530170**
Status : **Answered**
Chosen Option : **4**

Join Telegram Group "HaryanaJobs.in"

Q.11 Select the word segment that substitutes (replaces) the bracketed word segment correctly and completes the sentence meaningfully. Select the option 'no correction required' if the sentence is correct as given.

They said that they (were understandings) his theory very well.

Ans

✗ 1. understanding

✗ 2. No correction required

✗ 3. have understand

✓ 4. understood

Question Type : **MCQ**
Question ID : **264330136590**
Option 1 ID : **264330535092**
Option 2 ID : **264330535094**
Option 3 ID : **264330535093**
Option 4 ID : **264330535091**
Status : **Answered**
Chosen Option : **4**

Q.12 Select the most appropriate option to fill in the blank.

He gave the horse enough room to _____ away from the wagon.

Ans

✗ 1. stalk

✓ 2. walk

✗ 3. woke

✗ 4. watch

Question Type : **MCQ**
Question ID : **264330135280**
Option 1 ID : **264330530037**
Option 2 ID : **264330530038**
Option 3 ID : **264330530036**
Option 4 ID : **264330530035**
Status : **Answered**
Chosen Option : **2**

Q.13 Choose the incorrectly spelt word.

Ans

✓ 1. Condision

✗ 2. Busy

✗ 3. Sponge

✗ 4. Plane

Question Type : **MCQ**
Question ID : **264330135330**
Option 1 ID : **264330530230**
Option 2 ID : **264330530228**
Option 3 ID : **264330530227**
Option 4 ID : **264330530229**
Status : **Answered**
Chosen Option : **1**

Join Telegram Group "HaryanaJobs.in"

Q.14 Select the most appropriate meaning of the given idiom.

To sing a different tune

Ans
1. To buy or sell something
2. To be able to handle a jolt
3. To brag about something
4. To change the way one talks about something

Question Type : **MCQ**
Question ID : **264330136404**
Option 1 ID : **264330534380**
Option 2 ID : **264330534382**
Option 3 ID : **264330534381**
Option 4 ID : **264330534379**
Status : **Answered**
Chosen Option : **4**

Q.15 Find the part of the given sentence that has an error in it. If there is no error, choose 'No error'.

People need to made changes in agriculture and land use.

Ans
1. People need to
2. agriculture and land use.
3. made changes in
4. No error

Question Type : **MCQ**
Question ID : **264330134824**
Option 1 ID : **264330528235**
Option 2 ID : **264330528237**
Option 3 ID : **264330528236**
Option 4 ID : **264330528238**
Status : **Answered**
Chosen Option : **3**

Q.16 Choose the sentence with no spelling error.

Ans
1. Near death experiences are still near death.
2. Near death expereinces are stil near death.
3. Near death experiences are stil near deaath.
4. Near death expriences are still near death.

Question Type : **MCQ**
Question ID : **264330135279**
Option 1 ID : **264330530032**
Option 2 ID : **264330530031**
Option 3 ID : **264330530034**
Option 4 ID : **264330530033**
Status : **Answered**
Chosen Option : **1**

Join Telegram Group "HaryanaJobs.in"

Q.17 **Improve the underlined part of the sentence. Choose 'No improvement' as an answer if the sentence is grammatically correct.**
At age 25, she <u>taken her vows</u> and became a nun.

Ans
✗ 1. take her vowed
✗ 2. No improvement
✓ 3. took her vows
✗ 4. take her vows

Question Type : **MCQ**
Question ID : **264330134532**
Option 1 ID : **264330527089**
Option 2 ID : **264330527090**
Option 3 ID : **264330527087**
Option 4 ID : **264330527088**
Status : **Answered**
Chosen Option : **3**

Q.18 Choose the word that means the same as the given word.

Easiness

Ans
✗ 1. Immunity
✗ 2. Indomitability
✓ 3. Gullibility
✗ 4. Fraternity

Question Type : **MCQ**
Question ID : **264330135299**
Option 1 ID : **264330530109**
Option 2 ID : **264330530107**
Option 3 ID : **264330530110**
Option 4 ID : **264330530108**
Status : **Answered**
Chosen Option : **3**

Q.19 Choose the word that can substitute the given group of words.

A case in which the blade of a sword is kept

Ans
✗ 1. Pantry
✗ 2. Dyke
✗ 3. Infirmary
✓ 4. Sheath

Question Type : **MCQ**
Question ID : **264330135323**
Option 1 ID : **264330530202**
Option 2 ID : **264330530201**
Option 3 ID : **264330530199**
Option 4 ID : **264330530200**
Status : **Answered**
Chosen Option : **4**

Join Telegram Group "HaryanaJobs.in"

Q.20 Select the most appropriate word for the given group of words.

Government by two rulers or authorities

Ans
1. Diarchy ✔
2. Anarchy ✘
3. Monarchy ✘
4. Bureaucracy ✘

Question Type : **MCQ**
Question ID : **264330136398**
Option 1 ID : **264330534357**
Option 2 ID : **264330534355**
Option 3 ID : **264330534356**
Option 4 ID : **264330534358**
Status : **Answered**
Chosen Option : **1**

Comprehension:

In the following passage some words have been deleted. Fill in the blanks with the help of the alternatives given. Select the most appropriate option for each number.

By contrast, depression is a (1) _____, long-term downturn in economic activity in one or more (2) _____. A depression is a more (3) _____ downturn than a recession, which is seen by some economists as part of the modern business cycle. The latter refers to (4) _____ that occur around a long-term growth trend, and typically involve shifts over time between (5) _____ of relatively rapid economic growth (an expansion or boom), and periods of relative stagnation or decline (a contraction or recession).

SubQuestion No : 21

Q.21 Select the most appropriate option to fill in blank number 1.

Ans
1. abstained ✘
2. stained ✘
3. sustained ✔
4. curtained ✘

Question Type : **MCQ**
Question ID : **264330136518**
Option 1 ID : **264330534812**
Option 2 ID : **264330534811**
Option 3 ID : **264330534814**
Option 4 ID : **264330534813**
Status : **Answered**
Chosen Option : **3**

Join Telegram Group "HaryanaJobs.in"

Comprehension:

In the following passage some words have been deleted. Fill in the blanks with the help of the alternatives given. Select the most appropriate option for each number.

By contrast, depression is a (1) _____, long-term downturn in economic activity in one or more (2) _____. A depression is a more (3) _____ downturn than a recession, which is seen by some economists as part of the modern business cycle. The latter refers to (4) _____ that occur around a long-term growth trend, and typically involve shifts over time between (5) _____ of relatively rapid economic growth (an expansion or boom), and periods of relative stagnation or decline (a contraction or recession).

SubQuestion No : 22

Q.22 Select the most appropriate option to fill in blank number 2.

Ans

✗ 1. services

✗ 2. autonomies

✗ 3. astronomies

✓ 4. economies

Question Type : **MCQ**
Question ID : **264330136519**
Option 1 ID : **264330534815**
Option 2 ID : **264330534818**
Option 3 ID : **264330534817**
Option 4 ID : **264330534816**
Status : **Not Answered**
Chosen Option : **--**

Comprehension:

In the following passage some words have been deleted. Fill in the blanks with the help of the alternatives given. Select the most appropriate option for each number.

By contrast, depression is a (1) _____, long-term downturn in economic activity in one or more (2) _____. A depression is a more (3) _____ downturn than a recession, which is seen by some economists as part of the modern business cycle. The latter refers to (4) _____ that occur around a long-term growth trend, and typically involve shifts over time between (5) _____ of relatively rapid economic growth (an expansion or boom), and periods of relative stagnation or decline (a contraction or recession).

SubQuestion No : 23

Q.23 Select the most appropriate option to fill in blank number 3.

Ans

✗ 1. feral

✓ 2. severe

✗ 3. tamed

✗ 4. simple

Question Type : **MCQ**
Question ID : **264330136520**
Option 1 ID : **264330534820**
Option 2 ID : **264330534822**
Option 3 ID : **264330534819**
Option 4 ID : **264330534821**
Status : **Answered**
Chosen Option : **2**

Join Telegram Group "HaryanaJobs.in"

Comprehension:

In the following passage some words have been deleted. Fill in the blanks with the help of the alternatives given. Select the most appropriate option for each number.

By contrast, depression is a (1) _____, long-term downturn in economic activity in one or more (2) _____. A depression is a more (3) _____ downturn than a recession, which is seen by some economists as part of the modern business cycle. The latter refers to (4) _____ that occur around a long-term growth trend, and typically involve shifts over time between (5) _____ of relatively rapid economic growth (an expansion or boom), and periods of relative stagnation or decline (a contraction or recession).

SubQuestion No : 24

Q.24 Select the most appropriate option to fill in blank number 4.

Ans

✔ 1. fluctuations

✘ 2. sustainability

✘ 3. stability

✘ 4. firmness

Question Type : **MCQ**
Question ID : **264330136521**
Option 1 ID : **264330534826**
Option 2 ID : **264330534824**
Option 3 ID : **264330534825**
Option 4 ID : **264330534823**
Status : **Answered**
Chosen Option : **1**

Comprehension:

In the following passage some words have been deleted. Fill in the blanks with the help of the alternatives given. Select the most appropriate option for each number.

By contrast, depression is a (1) _____, long-term downturn in economic activity in one or more (2) _____. A depression is a more (3) _____ downturn than a recession, which is seen by some economists as part of the modern business cycle. The latter refers to (4) _____ that occur around a long-term growth trend, and typically involve shifts over time between (5) _____ of relatively rapid economic growth (an expansion or boom), and periods of relative stagnation or decline (a contraction or recession).

SubQuestion No : 25

Q.25 Select the most appropriate option to fill in blank number 5.

Ans

✔ 1. periods

✘ 2. prods

✘ 3. perpetually

✘ 4. perpetuity

Question Type : **MCQ**
Question ID : **264330136522**
Option 1 ID : **264330534827**
Option 2 ID : **264330534830**
Option 3 ID : **264330534829**
Option 4 ID : **264330534828**
Status : **Answered**
Chosen Option : **1**

Join Telegram Group "HaryanaJobs.in"

Multi Tasking Non Technical Staff and Havaldar CBIC and CBN Examination 2022

Roll Number	HaryanaJobs.in
Candidate Name	HaryanaJobs.in
Venue Name	Jaipur Engineering College
Exam Date	16/05/2023
Exam Time	12:00 PM - 2:00 PM
Subject	MTS Non Tech Havaldar CBIC and CBN Examination 2022

Section : **Numerical and Mathematical Ability**

Q.1 निम्न दंड आलेख में विभिन्न उत्पादों के निर्माण और बिक्री को दर्शाया गया है। जो लैपटॉप नहीं बिके उनकी संख्या ज्ञात कीजिए।

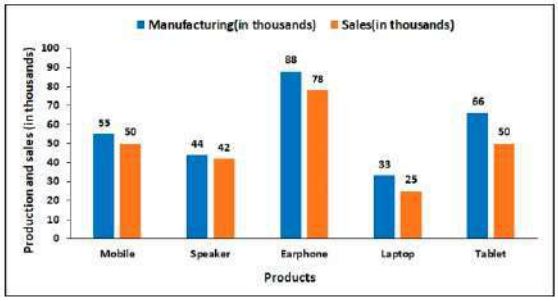

Manufacturing(in thousands)= उत्पादन(हजारों में), Sales(in thousands) = बिक्री (हजारों में)

Production and sales(in thousands)= उत्पादन और बिक्री(हजारों में), Products = उत्पाद

Mobile = मोबाइल, Speaker = स्पीकर, Earphone = ईयरफोन, Laptop = लैपटाप, Tablet = टेबलेट

Ans

✗ 1. 4000

✗ 2. 5000

✗ 3. 9000

✓ 4. 8000

Question Type : **MCQ**
Question ID : **264330133772**
Option 1 ID : **264330524113**
Option 2 ID : **264330524112**
Option 3 ID : **264330524114**
Option 4 ID : **264330524111**
Status : **Answered**
Chosen Option : **4**

Join Telegram Group "HaryanaJobs.in"

Q.2 64 और 144 का माध्य समानुपाती ज्ञात कीजिए।

Ans
1. 108 ✗
2. 96 ✓
3. 12 ✗
4. 8 ✗

Question Type : **MCQ**
Question ID : **264330133764**
Option 1 ID : **264330524082**
Option 2 ID : **264330524081**
Option 3 ID : **264330524079**
Option 4 ID : **264330524080**
Status : **Answered**
Chosen Option : **2**

Q.3 $6^2 + 4^2 - 20$ of $2 + 40$ का मान ज्ञात कीजिए।

Ans
1. 54 ✗
2. 56 ✗
3. 50 ✗
4. 52 ✓

Question Type : **MCQ**
Question ID : **264330133756**
Option 1 ID : **264330524048**
Option 2 ID : **264330524050**
Option 3 ID : **264330524049**
Option 4 ID : **264330524047**
Status : **Answered**
Chosen Option : **4**

Q.4 अनिकेत का वार्षिक वेतन Rs.1000000 से बढ़कर Rs.1400000 हो गया। वृद्धि प्रतिशत क्या है?

Ans
1. 14% ✗
2. 40% ✓
3. 4% ✗
4. 20% ✗

Question Type : **MCQ**
Question ID : **264330133585**
Option 1 ID : **264330523366**
Option 2 ID : **264330523364**
Option 3 ID : **264330523363**
Option 4 ID : **264330523365**
Status : **Answered**
Chosen Option : **2**

Join Telegram Group "HaryanaJobs.in"

Q.5 A, B और C मिलकर किसी कार्य को 5 दिनों में पूरा कर सकते हैं। A और B मिलकर उसी कार्य को 6 दिनों में पूरा कर सकते हैं। C अकेले उसी कार्य को कितने दिनों में पूरा कर सकता है?

Ans

✗ 1. 60 दिन

✓ 2. 30 दिन

✗ 3. 15 दिन

✗ 4. 20 दिन

Question Type : **MCQ**
Question ID : **264330137130**
Option 1 ID : **264330537166**
Option 2 ID : **264330537165**
Option 3 ID : **264330537164**
Option 4 ID : **264330537163**
Status : **Answered**
Chosen Option : **2**

Q.6 एक वृत्त के क्षेत्रफल का नौ गुना, एक वर्ग के क्षेत्रफल के तीन गुना के बराबर है। वृत्त के व्यास और वर्ग के विकर्ण का अनुपात क्या है?

Ans

✗ 1. $2:\sqrt{3\pi}$

✗ 2. $\sqrt{5}:\sqrt{7\pi}$

✓ 3. $\sqrt{2}:\sqrt{3\pi}$

✗ 4. $2:3\pi$

Question Type : **MCQ**
Question ID : **264330139010**
Option 1 ID : **264330544650**
Option 2 ID : **264330544649**
Option 3 ID : **264330544647**
Option 4 ID : **264330544648**
Status : **Answered**
Chosen Option : **1**

Q.7 यदि किसी घनाभ की लंबाई और चौड़ाई दोनों में 12 प्रतिशत की वृद्धि कर दी जाए, तो उसकी ऊँचाई में कितने प्रतिशत की कमी की जानी चाहिए ताकि घनाभ का आयतन वही रहे?

Ans

✗ 1. 24.72 प्रतिशत

✗ 2. 28.44 प्रतिशत

✗ 3. 14.56 प्रतिशत

✓ 4. 20.28 प्रतिशत

Question Type : **MCQ**
Question ID : **264330137145**
Option 1 ID : **264330537224**
Option 2 ID : **264330537223**
Option 3 ID : **264330537225**
Option 4 ID : **264330537226**
Status : **Answered**
Chosen Option : **4**

Join Telegram Group "HaryanaJobs.in"

Q.8 35 वस्तुओं को बेचने पर, एक दुकानदार 15 वस्तुओं के विक्रय मूल्य के बराबर लाभ अर्जित करता है। उसका लाभ प्रतिशत ज्ञात कीजिए।

Ans
1. 88% ✗
2. 75% ✓
3. 60% ✗
4. 40% ✗

Question Type : **MCQ**
Question ID : **264330135137**
Option 1 ID : **264330529485**
Option 2 ID : **264330529483**
Option 3 ID : **264330529484**
Option 4 ID : **264330529486**
Status : **Answered**
Chosen Option : **2**

Q.9 एक आदमी अपनी कार को 2 घंटे तक 50 km/hr की चाल से चलाता है और फिर यात्रा के अंत तक चाल को कम करके 40 km/hr की चाल से चलाता है। यदि यात्रा के दौरान उसकी औसत चाल 44 km/hr थी, तो उसने कितने समय तक अपनी कार को 40 km/hr की चाल से चलाया?

Ans
1. 1 घंटे ✗
2. 2 घंटे ✗
3. 3 घंटे ✓
4. 4 घंटे ✗

Question Type : **MCQ**
Question ID : **264330138040**
Option 1 ID : **264330540767**
Option 2 ID : **264330540768**
Option 3 ID : **264330540769**
Option 4 ID : **264330540770**
Status : **Answered**
Chosen Option : **3**

Q.10 49 × 64 ÷ 56 + 45 ÷ 5 + 25 × 5 + 75 ÷ 3 + 8 × 3 का मान क्या है?

Ans
1. 250 ✗
2. 225 ✗
3. 214 ✗
4. 239 ✓

Question Type : **MCQ**
Question ID : **264330137149**
Option 1 ID : **264330537242**
Option 2 ID : **264330537240**
Option 3 ID : **264330537239**
Option 4 ID : **264330537241**
Status : **Answered**
Chosen Option : **4**

Join Telegram Group "HaryanaJobs.in"

Q.11 नीचे दी गई तालिका में पाँच अलग-अलग वस्तुओं के अंकित मूल्य और छूट प्रतिशत को दर्शाया गया है।

वस्तु	अंकित मूल्य	छूट प्रतिशत
P	300	20 प्रतिशत
Q	600	25 प्रतिशत
R	400	16 प्रतिशत
S	700	22 प्रतिशत
T	800	30 प्रतिशत

$$\text{Selling Price} = \text{Marked Price} - \left(\frac{\text{Marked Price} \times \text{Discount}}{100}\right)$$

विक्रय मूल्य (selling price) = अंकित मूल्य (marked price) - (अंकित मूल्य (marked price) x छूट (discount)/100)

J1 = वस्तु P और R का कुल विक्रय मूल्य।

J2 = Q और T का कुल विक्रय मूल्य।

(J2 - J1) का मान क्या है?

Ans

✗ 1. 532

✓ 2. 434

✗ 3. 530

✗ 4. 448

Question Type : **MCQ**
Question ID : **264330137150**
Option 1 ID : **264330537246**
Option 2 ID : **264330537245**
Option 3 ID : **264330537243**
Option 4 ID : **264330537244**
Status : **Answered**
Chosen Option : **2**

Q.12 21 m व्यास वाले एक अर्धगोलाकार कटोरे में कितने लीटर पानी आ सकता है? ($1m^3$ = 1000 लीटर)

Ans

✗ 1. 2100000 लीटर

✗ 2. 2322500 लीटर

✓ 3. 2425500 लीटर

✗ 4. 2250500 लीटर

Question Type : **MCQ**
Question ID : **264330135128**
Option 1 ID : **264330529447**
Option 2 ID : **264330529450**
Option 3 ID : **264330529449**
Option 4 ID : **264330529448**
Status : **Answered**
Chosen Option : **3**

Join Telegram Group "HaryanaJobs.in"

Q.13 A और B द्वारा एक निश्चित दूरी तय करने में लगने वाले समय का अनुपात 17:19 है। दोनों की चाल का क्रमशः अनुपात ज्ञात कीजिए।

Ans
1. 15:19
2. 11:15
3. 17:15
4. 19:17

Question Type : **MCQ**
Question ID : **264330133768**
Option 1 ID : **264330524096**
Option 2 ID : **264330524098**
Option 3 ID : **264330524095**
Option 4 ID : **264330524097**
Status : **Answered**
Chosen Option : **4**

Q.14 $\frac{39}{25} \div \frac{13}{5} + \frac{33}{5} \times \frac{4}{11}$ का मान क्या है?

Ans
1. 5
2. 15
3. 3
4. 12

Question Type : **MCQ**
Question ID : **264330137641**
Option 1 ID : **264330539172**
Option 2 ID : **264330539173**
Option 3 ID : **264330539171**
Option 4 ID : **264330539174**
Status : **Answered**
Chosen Option : **3**

Q.15 33% और 30% के क्रमागत बट्टे किस एकल बट्टे के बराबर हैं?

Ans
1. 50.5%
2. 45.9%
3. 60.4%
4. 53.1%

Question Type : **MCQ**
Question ID : **264330133763**
Option 1 ID : **264330524075**
Option 2 ID : **264330524076**
Option 3 ID : **264330524078**
Option 4 ID : **264330524077**
Status : **Answered**
Chosen Option : **4**

Join Telegram Group "HaryanaJobs.in"

Q.16 55, 60 और 33 का चतुर्थ समानुपाती ज्ञात कीजिए।

Ans
1. 28 ✗
2. 30 ✗
3. 36 ✓
4. 24 ✗

Question Type : **MCQ**
Question ID : **264330133765**
Option 1 ID : **264330524085**
Option 2 ID : **264330524086**
Option 3 ID : **264330524083**
Option 4 ID : **264330524084**
Status : **Answered**
Chosen Option : **3**

Q.17 साधारण ब्याज दर पर 5 वर्षों में Rs. 21850 की धनराशि Rs. 28623.50 हो जाती है। दर प्रतिशत कितना है?

Ans
1. 6.2% वार्षिक ✓
2. 7.2% वार्षिक ✗
3. 6.8% वार्षिक ✗
4. 4.8% वार्षिक ✗

Question Type : **MCQ**
Question ID : **264330138736**
Option 1 ID : **264330543553**
Option 2 ID : **264330543554**
Option 3 ID : **264330543552**
Option 4 ID : **264330543551**
Status : **Answered**
Chosen Option : **1**

Q.18 चीनी की 4% मात्रा को बेचने के बाद, 6 kg चीनी बच जाती है। चीनी की कुल मात्रा ज्ञात कीजिए।

Ans
1. 11.11 kg ✗
2. 7 kg ✗
3. 5.25 kg ✗
4. 6.25 kg ✓

Question Type : **MCQ**
Question ID : **264330133762**
Option 1 ID : **264330524073**
Option 2 ID : **264330524074**
Option 3 ID : **264330524071**
Option 4 ID : **264330524072**
Status : **Answered**
Chosen Option : **4**

Join Telegram Group "HaryanaJobs.in"

Q.19 Rs. 58 प्रति किलोग्राम मूल्य वाली चाय को, Rs. 64 प्रति किलोग्राम मूल्य वाली चाय के साथ किस अनुपात में मिलाया जाना चाहिए जिससे मिश्रण का मूल्य Rs. 60 प्रति किलोग्राम हो जाएगा?

Ans

✗ 1. 3:2

✓ 2. 2:1

✗ 3. 1:2

✗ 4. 2:3

Question Type : **MCQ**
Question ID : **264330138039**
Option 1 ID : **264330540764**
Option 2 ID : **264330540763**
Option 3 ID : **264330540765**
Option 4 ID : **264330540766**
Status : **Answered**
Chosen Option : **2**

Q.20 21 संख्याओं का औसत 60 है। यदि प्रत्येक संख्या में 20 की वृद्धि की जाती है, तो वह संख्या ज्ञात कीजिए जिसके द्वारा औसत में वृद्धि होती है।

Ans

✗ 1. 12

✗ 2. 18

✗ 3. 15

✓ 4. 20

Question Type : **MCQ**
Question ID : **264330133758**
Option 1 ID : **264330524056**
Option 2 ID : **264330524057**
Option 3 ID : **264330524055**
Option 4 ID : **264330524058**
Status : **Answered**
Chosen Option : **4**

Section : **Reasoning Ability and Problem Solving**

Q.1 Five students A, M, C, Y and G are sitting around a circular table facing outside the center not necessarily in the same order. M sits to the immediate left of A and to the immediate right of G. Y is not an immediate neighbour of A. Who sits second left of G?

Ans

✗ 1. A

✓ 2. C

✗ 3. M

✗ 4. Y

Question Type : **MCQ**
Question ID : **264330133472**
Option 1 ID : **264330522919**
Option 2 ID : **264330522920**
Option 3 ID : **264330522921**
Option 4 ID : **264330522922**
Status : **Answered**
Chosen Option : **2**

Join Telegram Group "HaryanaJobs.in"

Q.2 एक निश्चित कूट भाषा में, 'CAUGHT' को 'EYWEJR' लिखा जाता है और 'ENGINE' को 'GLIGPC' लिखा जाता है। उस कूट भाषा में 'WORKER' को कैसे लिखा जाएगा?

Ans
1. YMTKGP
2. YMTIHP
3. YMTIGP
4. YMTJIP

Question Type : **MCQ**
Question ID : **264330137348**
Option 1 ID : **264330538019**
Option 2 ID : **264330538021**
Option 3 ID : **264330538020**
Option 4 ID : **264330538022**
Status : **Answered**
Chosen Option : **3**

Q.3 पाँच मित्रों पीयूष, निखिल, राहुल, सक्षम और तरुण के कद अलग-अलग हैं। तरुण केवल तीन अन्य मित्रों से लंबा है। राहुल सभी मित्रों में सबसे लंबा है। निखिल केवल एक मित्र से लंबा है। पीयूष से केवल दो मित्र लंबे हैं। सभी मित्रों में किसका कद सबसे कम है?

Ans
1. निखिल
2. पीयूष
3. सक्षम
4. तरूण

Question Type : **MCQ**
Question ID : **264330133474**
Option 1 ID : **264330522928**
Option 2 ID : **264330522927**
Option 3 ID : **264330522930**
Option 4 ID : **264330522929**
Status : **Answered**
Chosen Option : **3**

Q.4 दी गई श्रृंखला में निम्नलिखित में से कौन-सा अक्षर-समूह प्रश्न चिन्ह (?) के स्थान पर आएगा?
UX, YB, CF, GJ, ?

Ans
1. LO
2. KN
3. KM
4. LN

Question Type : **MCQ**
Question ID : **264330133466**
Option 1 ID : **264330522898**
Option 2 ID : **264330522895**
Option 3 ID : **264330522896**
Option 4 ID : **264330522897**
Status : **Answered**
Chosen Option : **2**

Join Telegram Group "HaryanaJobs.in"

Q.5 दी गई श्रृंखला में निम्नलिखित में से कौन-सी संख्या प्रश्न चिन्ह (?) के स्थान पर आएगी?
5, 7, 11, 13, 17, 19, 23, 25,?

Ans
✗ 1. 42
✗ 2. 39
✗ 3. 56
✓ 4. 29

Question Type : **MCQ**
Question ID : **264330133331**
Option 1 ID : **264330522359**
Option 2 ID : **264330522360**
Option 3 ID : **264330522361**
Option 4 ID : **264330522362**
Status : **Answered**
Chosen Option : **4**

Q.6 यदि रेखा AB पर एक दर्पण रखा जाए, तो दी गई विकल्प आकृतियों में से कौन-सी आकृति प्रश्न आकृति का सही प्रतिबिंब होगी?

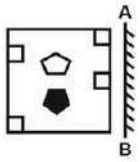

Ans
✗ 1.
✗ 2.
✓ 3.
✗ 4.

Question Type : **MCQ**
Question ID : **264330137106**
Option 1 ID : **264330537070**
Option 2 ID : **264330537067**
Option 3 ID : **264330537069**
Option 4 ID : **264330537068**
Status : **Answered**
Chosen Option : **3**

Join Telegram Group "HaryanaJobs.in"

Q.7 एक निश्चित कूट भाषा में, '3152' को 'FBJD' और '5476' को 'JHNL' लिखा जाता है। उस भाषा में '2231' को कैसे लिखा जाएगा?

Ans
1. BDDF ✗
2. EFDB ✗
3. DDFB ✓
4. FBED ✗

Question Type : **MCQ**
Question ID : **264330133389**
Option 1 ID : **264330522589**
Option 2 ID : **264330522587**
Option 3 ID : **264330522588**
Option 4 ID : **264330522590**
Status : **Answered**
Chosen Option : **3**

Q.8 एक निश्चित कूट भाषा में, 'CAGE' को '92' लिखा जाता है और 'BURN' को '53' लिखा जाता है। उस कूट भाषा में 'TORCH' को कैसे लिखा जाएगा?

Ans
1. 65 ✗
2. 71 ✓
3. 98 ✗
4. 82 ✗

Question Type : **MCQ**
Question ID : **264330137544**
Option 1 ID : **264330538786**
Option 2 ID : **264330538785**
Option 3 ID : **264330538783**
Option 4 ID : **264330538784**
Status : **Answered**
Chosen Option : **2**

Q.9 दी गई दो संख्याओं को आपस में बदलने पर, निम्नलिखित में से कौनसा समीकरण सही होगा?

7 और 4

I. 7 × 8 + 4 − 9 ÷ 3 = 30

II. 9 + 4 × 8 ÷ 2 − 7 = 33

Ans
1. केवल I ✗
2. I और II दोनों ✗
3. केवल II ✓
4. न तो I और न ही II ✗

Question Type : **MCQ**
Question ID : **264330138599**
Option 1 ID : **264330543003**
Option 2 ID : **264330543005**
Option 3 ID : **264330543004**
Option 4 ID : **264330543006**
Status : **Answered**
Chosen Option : **3**

Join Telegram Group "HaryanaJobs.in"

Q.10 उस विकल्प आकृति को चुनिए जिसमें दी गई आकृति निहित है। (घूर्णन की अनुमति नहीं है)

Ans

✗ 1.

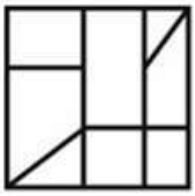

✗ 2.

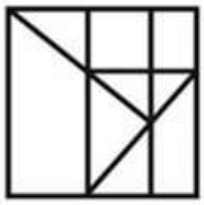

✗ 3.

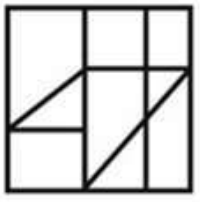

✓ 4.

Question Type : **MCQ**
Question ID : **264330137105**
Option 1 ID : **264330537064**
Option 2 ID : **264330537066**
Option 3 ID : **264330537065**
Option 4 ID : **264330537063**
Status : **Answered**
Chosen Option : **4**

Q.11 Select the option that is related to the third word in the same way as the second word is related to the first word.
Cataract : Eyes :: Psoriasis : ?

Ans

✓ 1. Skin

✗ 2. Leg

✗ 3. Hair

✗ 4. Ear

Question Type : **MCQ**
Question ID : **264330133467**
Option 1 ID : **264330522902**
Option 2 ID : **264330522900**
Option 3 ID : **264330522901**
Option 4 ID : **264330522899**
Status : **Answered**
Chosen Option : **2**

Join Telegram Group "HaryanaJobs.in"

Q.12 दो कथन दिए गए हैं और उनके बाद दो निष्कर्ष I और II दिए गए हैं। कथनों को सत्य मानते हुए, चाहे वे सामान्यतः ज्ञात तथ्यों से अलग प्रतीत होते हों, निश्चय कीजिए कि कौन-सा निष्कर्ष तार्किक रूप से कथनों के अनुसार है।

कथन:

सभी ट्रॉली, टोकरियाँ हैं।

कुछ अटैची, ट्रॉली हैं।

निष्कर्ष:

I. सभी अटैची, टोकरियाँ हैं।

II. कुछ टोकरियाँ, अटैची हैं।

Ans

✗ 1. सिर्फ निष्कर्ष I कथनों के अनुसार है

✓ 2. सिर्फ निष्कर्ष II कथनों के अनुसार है

✗ 3. निष्कर्ष I और II दोनों कथनों के अनुसार हैं

✗ 4. निष्कर्ष I और II में से कोई भी कथनों के अनुसार नहीं है

Question Type : **MCQ**
Question ID : **264330133475**
Option 1 ID : **264330522931**
Option 2 ID : **264330522932**
Option 3 ID : **264330522933**
Option 4 ID : **264330522934**
Status : **Answered**
Chosen Option : **2**

Q.13 दो कथन दिए गए हैं और उनके बाद दो निष्कर्ष I और II दिए गए हैं। कथनों को सत्य मानते हुए, चाहे वे सामान्यतः ज्ञात तथ्यों से अलग प्रतीत होते हों, निश्चय कीजिए कि कौन-सा निष्कर्ष तार्किक रूप से कथनों के अनुसार है।

कथन:

केवल कुछ वयस्क, प्लंबर हैं।

केवल कुछ प्लंबर, टैक्सी चालक हैं।

निष्कर्ष:

I. कुछ वयस्क, टैक्सी चालक हैं।

II. सभी प्लंबर कभी भी टैक्सी चालक नहीं हो सकते।

Ans

✗ 1. निष्कर्ष I और II में से कोई भी कथनों के अनुसार नहीं है

✗ 2. सिर्फ निष्कर्ष I कथनों के अनुसार है

✗ 3. निष्कर्ष I और II दोनों कथनों के अनुसार हैं

✓ 4. सिर्फ निष्कर्ष II कथनों के अनुसार है

Question Type : **MCQ**
Question ID : **264330133476**
Option 1 ID : **264330522938**
Option 2 ID : **264330522935**
Option 3 ID : **264330522937**
Option 4 ID : **264330522936**
Status : **Answered**
Chosen Option : **1**

Join Telegram Group "HaryanaJobs.in"

Q.14 नीचे दिए गए समीकरण में कौन-से गणितीय चिन्हों को आपस में बदला जाना चाहिए जिससे यह समीकरण गणितीय रूप से सही हो जाए?
45 - 6 + 108 ÷ 12 × 14 = 5

Ans
1. ✗ ÷ और -
2. ✗ + और -
3. ✓ + और ×
4. ✗ × और -

Question Type : **MCQ**
Question ID : **264330133481**
Option 1 ID : **264330522956**
Option 2 ID : **264330522958**
Option 3 ID : **264330522955**
Option 4 ID : **264330522957**
Status : **Answered**
Chosen Option : **3**

Q.15 उस समुच्चय को चुनिए जिसमें संख्याएँ ठीक उसी प्रकार संबंधित हैं जिस प्रकार निम्नलिखित समुच्चयों की संख्याएँ संबंधित हैं। (ध्यान दें: संख्याओं को उनके घटक अंकों में अलग-अलग किए बिना, पूर्ण संख्याओं पर संक्रियाएँ की जानी चाहिए। उदा. 13 - 13 पर संक्रियाएँ जैसे 13 को जोड़ना /घटाना /गुणा करना आदि किया जा सकता है। 13 को 1 और 3 में अलग-अलग करने की और फिर 1 और 3 पर गणितीय संक्रियाएँ करने की अनुमति नहीं है)
(7, 49, 343)
(8, 64, 512)

Ans
1. ✗ (5, 25, 225)
2. ✗ (6, 36, 206)
3. ✗ (11, 121, 1221)
4. ✓ (9, 81, 729)

Question Type : **MCQ**
Question ID : **264330133480**
Option 1 ID : **264330522952**
Option 2 ID : **264330522951**
Option 3 ID : **264330522954**
Option 4 ID : **264330522953**
Status : **Answered**
Chosen Option : **4**

Q.16 एक निश्चित कूट भाषा में, 'JACK' को 'LCEI' लिखा जाता है। उस कूट भाषा में 'FURO' को कैसे लिखा जाएगा?

Ans
1. ✗ HMTW
2. ✗ HTWM
3. ✗ HTMW
4. ✓ HWTM

Question Type : **MCQ**
Question ID : **264330135004**
Option 1 ID : **264330528953**
Option 2 ID : **264330528952**
Option 3 ID : **264330528954**
Option 4 ID : **264330528951**
Status : **Answered**
Chosen Option : **4**

Join Telegram Group "HaryanaJobs.in"

Q.17 उस विकल्प को चुनिए जो तीसरे शब्द से ठीक उसी तरह संबंधित है जिस तरह दूसरा शब्द पहले शब्द से संबंधित है।
कसाई : माँस :: विमान-चालक : ?

Ans

✗ 1. उपचार

✓ 2. विमान

✗ 3. बेचना

✗ 4. रूपरेखा

Question Type : **MCQ**
Question ID : **264330133468**
Option 1 ID : **264330522905**
Option 2 ID : **264330522903**
Option 3 ID : **264330522906**
Option 4 ID : **264330522904**
Status : **Answered**
Chosen Option : **2**

Q.18 उस विकल्प आकृति को चुनिए जो नीचे दी गई आकृति में पैटर्न को पूरा करने के लिए प्रश्न चिन्ह (?) के स्थान पर आएगी। (घूर्णन की अनुमति नहीं है)।

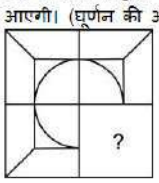

Ans

✗ 1.

✗ 2. 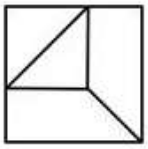

✗ 3.

✓ 4. 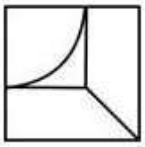

Question Type : **MCQ**
Question ID : **264330133485**
Option 1 ID : **264330522971**
Option 2 ID : **264330522974**
Option 3 ID : **264330522972**
Option 4 ID : **264330522973**
Status : **Answered**
Chosen Option : **4**

Join Telegram Group "HaryanaJobs.in"

Q.19 दी गई श्रृंखला में निम्नलिखित में से कौन-सी संख्या प्रश्न चिन्ह (?) के स्थान पर आएगी?
58, 62, 71, 87, 112, ?

Ans
1. 140
2. 138
3. 158
4. 148

Question Type : **MCQ**
Question ID : **264330133478**
Option 1 ID : **264330522946**
Option 2 ID : **264330522943**
Option 3 ID : **264330522945**
Option 4 ID : **264330522944**
Status : **Answered**
Chosen Option : **4**

Q.20 उस विकल्प को चुनिए जो तीसरी संख्या से ठीक उसी तरह संबंधित है जिस तरह दूसरी संख्या पहली संख्या से संबंधित है।
346 : 175 : : 250 :?

Ans
1. 271
2. 213
3. 127
4. 174

Question Type : **MCQ**
Question ID : **264330133333**
Option 1 ID : **264330522367**
Option 2 ID : **264330522370**
Option 3 ID : **264330522368**
Option 4 ID : **264330522369**
Status : **Answered**
Chosen Option : **3**

Section : **General Awareness**

Q.1 आयनिक यौगिक $MgCl_2$ का रासायनिक नाम क्या है?

Ans
1. सीज़ियम फ्लोराइड (Cesium fluoride)
2. सोडियम आयोडाइड (Sodium iodide)
3. मैंगनीज़ क्लोराइड (Manganese chloride)
4. मैग्नीशियम क्लोराइड (Magnesium chloride)

Question Type : **MCQ**
Question ID : **264330133653**
Option 1 ID : **264330523636**
Option 2 ID : **264330523637**
Option 3 ID : **264330523635**
Option 4 ID : **264330523638**
Status : **Answered**
Chosen Option : **4**

Join Telegram Group "HaryanaJobs.in"

Q.2 भारत की कौन-सी नदी बंगाल की खाड़ी में गिरती है?

Ans
1. नर्मदा
2. गोदावरी
3. माही
4. तापी

Question Type : **MCQ**
Question ID : **264330133941**
Option 1 ID : **264330524789**
Option 2 ID : **264330524790**
Option 3 ID : **264330524788**
Option 4 ID : **264330524787**
Status : **Answered**
Chosen Option : **2**

Q.3 लाला लाजपत राय किस संगठन के एक सक्रिय सदस्य थे?

Ans
1. ब्रह्म सभा
2. प्रार्थना सभा
3. आर्य समाज
4. ब्रह्म समाज

Question Type : **MCQ**
Question ID : **264330137035**
Option 1 ID : **264330536786**
Option 2 ID : **264330536784**
Option 3 ID : **264330536785**
Option 4 ID : **264330536783**
Status : **Answered**
Chosen Option : **4**

Q.4 निम्नलिखित में से कौन-सा नृत्य भारत के जम्मू और कश्मीर का एक लोक नृत्य है?

Ans
1. रऊफ (Rouf)
2. बिहू
3. भांगड़ा
4. कथक

Question Type : **MCQ**
Question ID : **264330133933**
Option 1 ID : **264330524756**
Option 2 ID : **264330524758**
Option 3 ID : **264330524757**
Option 4 ID : **264330524755**
Status : **Answered**
Chosen Option : **1**

Join Telegram Group "HaryanaJobs.in"

Q.5 प्रत्येक टीम में ग्यारह खिलाड़ियों वाली दो टीमों के बीच निम्न में से कौन-सा खेल खेला जाता है?

Ans
1. तैराकी
2. टेबल टेनिस
3. बास्केटबॉल
4. क्रिकेट

Question Type : **MCQ**
Question ID : **264330133671**
Option 1 ID : **264330523707**
Option 2 ID : **264330523710**
Option 3 ID : **264330523709**
Option 4 ID : **264330523708**
Status : **Answered**
Chosen Option : **4**

Q.6 आठवीं शताब्दी के मध्य में, एक राष्ट्रकूट प्रमुख, दन्तिदुर्ग ने अपने चालुक्य अधिपति का तख्ता पलट करके एक अनुष्ठान करवाया जिसे शाब्दिक रूप से _____ कहा जाता था।

Ans
1. प्रार्थना सभा
2. घुड़सवारी
3. सहायक गठबंधन
4. हिरण्य गर्भ

Question Type : **MCQ**
Question ID : **264330137698**
Option 1 ID : **264330539402**
Option 2 ID : **264330539401**
Option 3 ID : **264330539399**
Option 4 ID : **264330539400**
Status : **Answered**
Chosen Option : **4**

Q.7 चार दिवसीय फसल कटाई उत्सव पोंगल आमतौर पर _____ में मनाया जाता है।

Ans
1. दक्षिण भारत
2. पूर्वी भारत
3. उत्तर भारत
4. उत्तर-पूर्वी भारत

Question Type : **MCQ**
Question ID : **264330137012**
Option 1 ID : **264330536692**
Option 2 ID : **264330536694**
Option 3 ID : **264330536691**
Option 4 ID : **264330536693**
Status : **Answered**
Chosen Option : **1**

Join Telegram Group "HaryanaJobs.in"

Q.8 भारतीय शास्त्रीय नृत्यांगना सोनल मानसिंह को निम्नलिखित में से किन पुरस्कारों से सम्मानित किया गया?

Ans
✔ 1. पद्म भूषण और पद्म विभूषण
✘ 2. पद्म विभूषण और पद्म श्री
✘ 3. पद्म भूषण और भारतरत्न
✘ 4. पद्म भूषण और पद्म श्री

Question Type : **MCQ**
Question ID : **264330134688**
Option 1 ID : **264330527708**
Option 2 ID : **264330527709**
Option 3 ID : **264330527710**
Option 4 ID : **264330527707**
Status : **Answered**
Chosen Option : **1**

Q.9 दंत कथाओं के संग्रह, पंचतंत्र की रचना किसने की थी?

Ans
✘ 1. जय देव
✔ 2. विष्णु शर्मा
✘ 3. रूमी
✘ 4. अमर सिंह

Question Type : **MCQ**
Question ID : **264330134686**
Option 1 ID : **264330527700**
Option 2 ID : **264330527702**
Option 3 ID : **264330527699**
Option 4 ID : **264330527701**
Status : **Answered**
Chosen Option : **2**

Q.10 11 अगस्त 2022 तक, राज्य सभा के सभापति कौन हैं?

Ans
✔ 1. जगदीप धनखड़
✘ 2. अमित शाह
✘ 3. नरेंद्र मोदी
✘ 4. अधीर रंजन चौधरी

Question Type : **MCQ**
Question ID : **264330133952**
Option 1 ID : **264330524832**
Option 2 ID : **264330524831**
Option 3 ID : **264330524834**
Option 4 ID : **264330524833**
Status : **Answered**
Chosen Option : **1**

Join Telegram Group "HaryanaJobs.in"

Q.11 1192 ईस्वी में तराइन के द्वितीय युद्ध में पृथ्वीराज चौहान को किसने पराजित किया था?

Ans
1. अलाउद्दीन खिलजी (Alauddin Khilji)
2. बाबर (Babur)
3. इल्तुतमिश (Iltutmish)
4. मोहम्मद गोरी (Muhammad Ghori)

Question Type : **MCQ**
Question ID : **264330133662**
Option 1 ID : **264330523674**
Option 2 ID : **264330523671**
Option 3 ID : **264330523673**
Option 4 ID : **264330523672**
Status : **Answered**
Chosen Option : **4**

Q.12 किसी चुनाव में मतदान करने वाले पात्र मतदाताओं के प्रतिशत को _____ कहा जाता है।

Ans
1. वीटो (Veto)
2. मतदान प्रतिशत (Turnout)
3. कोरम (Quorum)
4. मतदाता वर्ग (Constituency)

Question Type : **MCQ**
Question ID : **264330138660**
Option 1 ID : **264330543248**
Option 2 ID : **264330543247**
Option 3 ID : **264330543250**
Option 4 ID : **264330543249**
Status : **Answered**
Chosen Option : **2**

Q.13 टाटा आयरन एंड स्टील कंपनी (टिस्को) ने सन् _____ में स्टील का उत्पादन शुरू किया था।

Ans
1. 1910
2. 1914
3. 1912
4. 1916

Question Type : **MCQ**
Question ID : **264330138672**
Option 1 ID : **264330543295**
Option 2 ID : **264330543297**
Option 3 ID : **264330543296**
Option 4 ID : **264330543298**
Status : **Answered**
Chosen Option : **1**

Join Telegram Group "HaryanaJobs.in"

Q.14 मीना अवसादी शैल के एक उदाहरण के बारे में चर्चा करती है। निम्न में से वह कौन-सा हो सकता है?

Ans
1. बेसाल्ट (Basalt)
2. ग्रेनाइट (Granite)
3. बलुआ पत्थर(Sandstone)
4. संगमरमर (Marble)

Question Type : **MCQ**
Question ID : **264330133656**
Option 1 ID : **264330523647**
Option 2 ID : **264330523650**
Option 3 ID : **264330523648**
Option 4 ID : **264330523649**
Status : **Answered**
Chosen Option : **3**

Q.15 पद्म श्री पुरस्कार पाने वाली पहली भारतीय अभिनेत्री कौन थी?

Ans
1. आशा पारेख
2. नरगिस दत्त
3. मधुबाला
4. देविका रानी

Question Type : **MCQ**
Question ID : **264330133949**
Option 1 ID : **264330524820**
Option 2 ID : **264330524821**
Option 3 ID : **264330524822**
Option 4 ID : **264330524819**
Status : **Answered**
Chosen Option : **4**

Q.16 निम्नलिखित में से कौन-सा प्राणी जगत के फाइलम मैमेलिया का एक उदाहरण है?

Ans
1. चूहा
2. कबूतर
3. मगरमच्छ
4. मुर्गी

Question Type : **MCQ**
Question ID : **264330133937**
Option 1 ID : **264330524771**
Option 2 ID : **264330524774**
Option 3 ID : **264330524773**
Option 4 ID : **264330524772**
Status : **Answered**
Chosen Option : **1**

Join Telegram Group "HaryanaJobs.in"

Q.17 निम्नलिखित में से किस फसल को बंगाल का "सुनहरा रेशा (Golden Fibre)" कहा जाता है?

Ans
1. मक्का ✗
2. सोयाबीन ✗
3. चावल ✗
4. जूट ✓

Question Type : **MCQ**
Question ID : **264330134678**
Option 1 ID : **264330527669**
Option 2 ID : **264330527668**
Option 3 ID : **264330527667**
Option 4 ID : **264330527670**
Status : **Answered**
Chosen Option : **4**

Q.18 जैनों के अंतिम तीर्थंकर कौन थे?

Ans
1. चंद्रप्रभ ✗
2. ऋषभनाथ ✗
3. वर्धमान महावीर ✓
4. पद्मप्रभ ✗

Question Type : **MCQ**
Question ID : **264330137032**
Option 1 ID : **264330536773**
Option 2 ID : **264330536771**
Option 3 ID : **264330536772**
Option 4 ID : **264330536774**
Status : **Answered**
Chosen Option : **3**

Q.19 भारत में हर _____ के अंतराल पर जनगणना की जाती है।

Ans
1. 2 वर्ष ✗
2. 7 वर्ष ✗
3. 10 वर्ष ✓
4. 5 वर्ष ✗

Question Type : **MCQ**
Question ID : **264330134067**
Option 1 ID : **264330525294**
Option 2 ID : **264330525292**
Option 3 ID : **264330525291**
Option 4 ID : **264330525293**
Status : **Answered**
Chosen Option : **3**

Join Telegram Group "HaryanaJobs.in"

Q.20 निम्नलिखित में से कौन-सा एक पर्यावरण कार्य (environment function) **नहीं** है?

Ans
1. जीवन की गुणवत्ता को बढ़ाना
2. संसाधनों की आपूर्ति करना
3. अपशिष्ट का संचय
4. जीवन निर्वाह

Question Type : **MCQ**
Question ID : **264330133655**
Option 1 ID : **264330523646**
Option 2 ID : **264330523643**
Option 3 ID : **264330523645**
Option 4 ID : **264330523644**
Status : **Not Answered**
Chosen Option : **--**

Q.21 GDP देश की अर्थव्यवस्था का सूचक है। GDP में 'D' का क्या अर्थ है?

Ans
1. डेफिसिट (Deficit)
2. डॉमेस्टिक (Domestic)
3. डेवलपमेंट (Development)
4. डिविडेंड (Dividend)

Question Type : **MCQ**
Question ID : **264330134693**
Option 1 ID : **264330527729**
Option 2 ID : **264330527730**
Option 3 ID : **264330527727**
Option 4 ID : **264330527728**
Status : **Answered**
Chosen Option : **2**

Q.22 क्रिकेट में, गेंद को मारने पर, गेंद मैदान पर दौड़ती हुई निर्धारित सीमा के पार जाती हैं, यह _____ रन के बराबर है।

Ans
1. 6
2. 1
3. 4
4. 2

Question Type : **MCQ**
Question ID : **264330133953**
Option 1 ID : **264330524838**
Option 2 ID : **264330524835**
Option 3 ID : **264330524837**
Option 4 ID : **264330524836**
Status : **Answered**
Chosen Option : **3**

Join Telegram Group "HaryanaJobs.in"

Q.23 भारतीय संविधान में शासन के मंत्रिमंडलीय स्वरूप को _____ से लिया गया है।

Ans
1. फ्रांस ✗
2. दक्षिण अफ्रीका ✗
3. ऑस्ट्रेलिया ✗
4. यूनाइटेड किंगडम ✓

Question Type : **MCQ**
Question ID : **264330133951**
Option 1 ID : **264330524827**
Option 2 ID : **264330524830**
Option 3 ID : **264330524829**
Option 4 ID : **264330524828**
Status : **Answered**
Chosen Option : **4**

Q.24 The rock – cave temple of _____ is the largest monolithic structure in the world.

Ans
1. Ajanta ✗
2. Badami ✗
3. Ellora ✓
4. Udaygiri ✗

Question Type : **MCQ**
Question ID : **264330138651**
Option 1 ID : **264330543214**
Option 2 ID : **264330543212**
Option 3 ID : **264330543211**
Option 4 ID : **264330543213**
Status : **Answered**
Chosen Option : **3**

Q.25 भारत सरकार के किस विभाग ने अप्रैल 2022 में 'वन हैल्थ'(One Health) पायलट प्रोजेक्ट की शुरुआत की है?

Ans
1. वाणिज्य विभाग ✗
2. सूचना प्रौद्योगिकी विभाग ✗
3. पशुपालन और डेयरी विभाग ✓
4. उपभोक्ता मामलों के विभाग ✗

Question Type : **MCQ**
Question ID : **264330133931**
Option 1 ID : **264330524750**
Option 2 ID : **264330524749**
Option 3 ID : **264330524748**
Option 4 ID : **264330524747**
Status : **Answered**
Chosen Option : **2**

Section : **English Language and Comprehension**

Join Telegram Group "HaryanaJobs.in"

Q.1 **Select the appropriate synonym for the underlined word.**
"Little Red Riding Hood" is a fairy tale.

Ans
✔ 1. story
✘ 2. fact
✘ 3. tail
✘ 4. document

Question Type : **MCQ**
Question ID : **264330134414**
Option 1 ID : **264330526633**
Option 2 ID : **264330526634**
Option 3 ID : **264330526631**
Option 4 ID : **264330526632**
Status : **Answered**
Chosen Option : **1**

Q.2 **In the following question, out of the given four alternatives, select the alternative which best expresses the meaning of the Idiom/Phrase.**
On account of

Ans
✘ 1. To mark one's territory
✔ 2. Because of
✘ 3. To make excuses
✘ 4. To settle dues

Question Type : **MCQ**
Question ID : **264330134314**
Option 1 ID : **264330526249**
Option 2 ID : **264330526247**
Option 3 ID : **264330526250**
Option 4 ID : **264330526248**
Status : **Answered**
Chosen Option : **2**

Q.3 Select the most appropriate option to fill in the blank.

If she hadn't _____ her cell phone on the bed, she could have called him.

Ans
✘ 1. through
✔ 2. thrown
✘ 3. throne
✘ 4. throng

Question Type : **MCQ**
Question ID : **264330135306**
Option 1 ID : **264330530135**
Option 2 ID : **264330530137**
Option 3 ID : **264330530138**
Option 4 ID : **264330530136**
Status : **Answered**
Chosen Option : **2**

Join Telegram Group "HaryanaJobs.in"

Q.4 **Select the appropriate antonym for the underlined word.**
He says we are <u>poor</u> now.

Ans
✗ 1. barren
✗ 2. indigent
✗ 3. ruined
✓ 4. opulent

Question Type : **MCQ**
Question ID : **264330134417**
Option 1 ID : **264330526646**
Option 2 ID : **264330526643**
Option 3 ID : **264330526644**
Option 4 ID : **264330526645**
Status : **Answered**
Chosen Option : **4**

Q.5 Choose the word that is opposite in meaning to the given word.

Abort

Ans
✓ 1. Commence
✗ 2. Collision
✗ 3. Commode
✗ 4. Command

Question Type : **MCQ**
Question ID : **264330136787**
Option 1 ID : **264330535849**
Option 2 ID : **264330535850**
Option 3 ID : **264330535847**
Option 4 ID : **264330535848**
Status : **Answered**
Chosen Option : **1**

Q.6 **Choose the word that can substitute the given group of words.**
A living organism that steals nourishment from other living beings

Ans
✗ 1. Insect
✗ 2. Co – Dependent
✗ 3. Vector
✓ 4. Parasite

Question Type : **MCQ**
Question ID : **264330134308**
Option 1 ID : **264330526225**
Option 2 ID : **264330526224**
Option 3 ID : **264330526223**
Option 4 ID : **264330526226**
Status : **Answered**
Chosen Option : **4**

Join Telegram Group "HaryanaJobs.in"

Q.7 **Improve the underlined part of the sentence. Choose 'No improvement' as an answer if the sentence is grammatically correct.**
Though a foreigner, Mother Teresa settle in Calcutta and made it her home.

Ans
✔ 1. settled in Calcutta and
✘ 2. No improvement
✘ 3. settle over Calcutta as
✘ 4. settling in Calcutta or

Question Type : **MCQ**
Question ID : **264330134403**
Option 1 ID : **264330526591**
Option 2 ID : **264330526594**
Option 3 ID : **264330526593**
Option 4 ID : **264330526592**
Status : **Answered**
Chosen Option : **1**

Q.8 A sentence has been given with a blank to be filled with an appropriate option. Choose the correct alternative.

_____ from humans, lions are the key natural predators of elephants.

Ans
✘ 1. Along
✘ 2. Rather
✔ 3. Aside
✘ 4. Beside

Question Type : **MCQ**
Question ID : **264330135315**
Option 1 ID : **264330530171**
Option 2 ID : **264330530174**
Option 3 ID : **264330530172**
Option 4 ID : **264330530173**
Status : **Answered**
Chosen Option : **4**

Q.9 **In the following question, out of the given four alternatives, select the alternative which best expresses the meaning of the Idiom/Phrase.**
To work against the clocks

Ans
✘ 1. To fill one with terror
✔ 2. To work fast
✘ 3. To die while still working
✘ 4. To move anti-clockwise

Question Type : **MCQ**
Question ID : **264330134419**
Option 1 ID : **264330526652**
Option 2 ID : **264330526653**
Option 3 ID : **264330526654**
Option 4 ID : **264330526651**
Status : **Answered**
Chosen Option : **2**

Join Telegram Group "HaryanaJobs.in"

Q.10 **Choose the word that can substitute the given group of words.**
A government run by a single person

Ans
✗ 1. Anocracy
✗ 2. Gerontocracy
✗ 3. Bureaucracy
✓ 4. Autocracy

Question Type : **MCQ**
Question ID : **264330134413**
Option 1 ID : **264330526628**
Option 2 ID : **264330526627**
Option 3 ID : **264330526630**
Option 4 ID : **264330526629**
Status : **Answered**
Chosen Option : **4**

Q.11 Find the part of the given sentence that has an error in it. If there is no error, choose 'No error'.

Neither teachers or the principal revolted against the new education policy.

Ans
✓ 1. Neither teachers or
✗ 2. the principal revolted against
✗ 3. the new education policy.
✗ 4. No error

Question Type : **MCQ**
Question ID : **264330135282**
Option 1 ID : **264330530043**
Option 2 ID : **264330530044**
Option 3 ID : **264330530045**
Option 4 ID : **264330530046**
Status : **Answered**
Chosen Option : **1**

Q.12 **Find the part of the given sentence that has an error in it. If there is no error, choose 'No error'.**
India's claim to be a world leader in pharmaceuticals are heavily compromised.

Ans
✗ 1. world leader in pharmaceuticals
✗ 2. No error
✓ 3. are heavily compromised.
✗ 4. India's claim to be a

Question Type : **MCQ**
Question ID : **264330134400**
Option 1 ID : **264330526580**
Option 2 ID : **264330526582**
Option 3 ID : **264330526581**
Option 4 ID : **264330526579**
Status : **Answered**
Chosen Option : **3**

Join Telegram Group "HaryanaJobs.in"

Q.13 Choose the sentence with no spelling error.

Ans

✗ 1. Alice turned away, and shugged her shulders.

✗ 2. Alice turned away, and shruged her sholders.

✗ 3. Alice truned away, and shrugged her shoulders.

✓ 4. Alice turned away, and shrugged her shoulders.

Question Type : **MCQ**
Question ID : **264330135305**
Option 1 ID : **264330530134**
Option 2 ID : **264330530133**
Option 3 ID : **264330530131**
Option 4 ID : **264330530132**
Status : **Answered**
Chosen Option : **4**

Q.14 Select the most appropriate option to substitute the bracketed segment in the given sentence. If there is no need to substitute it, select 'no substitution required'.
He has 33 years of professional experience (on the field of) Public Administration.

Ans

✗ 1. in the field off

✗ 2. over field of

✗ 3. No substitution required

✓ 4. in the field of

Question Type : **MCQ**
Question ID : **264330136035**
Option 1 ID : **264330532961**
Option 2 ID : **264330532959**
Option 3 ID : **264330532962**
Option 4 ID : **264330532960**
Status : **Answered**
Chosen Option : **4**

Q.15 Choose the word that means the same as the given word.

Fabulously

Ans

✗ 1. Nominally

✓ 2. Fantastically

✗ 3. Scantily

✗ 4. Scarcely

Question Type : **MCQ**
Question ID : **264330135325**
Option 1 ID : **264330530210**
Option 2 ID : **264330530209**
Option 3 ID : **264330530207**
Option 4 ID : **264330530208**
Status : **Answered**
Chosen Option : **2**

Join Telegram Group "HaryanaJobs.in"

Q.16 Select the most appropriate option to fill in the blank.
Sometimes we wish for things, but we do not think about their _____.

Ans
1. hazards
2. copiousness
3. fractions
4. consequences

Question Type : **MCQ**
Question ID : **264330134423**
Option 1 ID : **264330526668**
Option 2 ID : **264330526667**
Option 3 ID : **264330526669**
Option 4 ID : **264330526670**
Status : **Answered**
Chosen Option : **4**

Q.17 Choose the incorrectly spelt word.

Ans
1. Structrure
2. Havoc
3. Recently
4. Brush

Question Type : **MCQ**
Question ID : **264330134420**
Option 1 ID : **264330526657**
Option 2 ID : **264330526656**
Option 3 ID : **264330526655**
Option 4 ID : **264330526658**
Status : **Answered**
Chosen Option : **1**

Q.18 A sentence has been given with a blank to be filled with an appropriate option. Choose the correct alternative.
The school was _____ than a mile from their home.

Ans
1. more
2. most
3. many
4. much

Question Type : **MCQ**
Question ID : **264330134404**
Option 1 ID : **264330526595**
Option 2 ID : **264330526597**
Option 3 ID : **264330526598**
Option 4 ID : **264330526596**
Status : **Answered**
Chosen Option : **1**

Join Telegram Group "HaryanaJobs.in"

Q.19 Identify the segment that contains a grammatical error. If there is no error, select 'No error'.
When he buckled down to his / work he became the slyer / and cleverest of diplomats.

Ans
1. When he buckled down to his
2. and cleverest of diplomats.
3. No error
4. work he became the slyer ✓

Question Type : **MCQ**
Question ID : **264330136032**
Option 1 ID : **264330532947**
Option 2 ID : **264330532949**
Option 3 ID : **264330532950**
Option 4 ID : **264330532948**
Status : **Answered**
Chosen Option : **2**

Q.20 **Improve the underlined part of the sentence. Choose 'No improvement' as an answer if the sentence is grammatically correct.**
She works <u>for eight hours</u> every weekday.

Ans
1. No improvement ✓
2. for eighth hours
3. of eighth hour
4. for eight hourly

Question Type : **MCQ**
Question ID : **264330134349**
Option 1 ID : **264330526386**
Option 2 ID : **264330526383**
Option 3 ID : **264330526385**
Option 4 ID : **264330526384**
Status : **Answered**
Chosen Option : **1**

Comprehension:

In the following passage some of the words have been deleted. Read the passage carefully and select the correct answer for the given blank out of the four alternatives.

After a rejection, we tend to beat ourselves up over the things that might have (1) _____ us to be rejected — and might even end up dwelling on these negative (2) _____, a process called rumination. This habit, however, inevitably causes us to (3) _____ worse. "The first thing a lot of people do when they get rejected is to be unkind to (4) _____, and they start coming up with all kinds of ideas about what's (5) _____ with them," Gottlieb notes.

SubQuestion No : 21

Q.21 Select the most appropriate option to fill in the blank No. 1.

Ans
1. let
2. led ✓
3. leading
4. lead

Question Type : **MCQ**
Question ID : **264330136778**
Option 1 ID : **264330535814**
Option 2 ID : **264330535811**
Option 3 ID : **264330535813**
Option 4 ID : **264330535812**
Status : **Answered**
Chosen Option : **2**

Join Telegram Group "HaryanaJobs.in"

Comprehension:

In the following passage some of the words have been deleted. Read the passage carefully and select the correct answer for the given blank out of the four alternatives.

After a rejection, we tend to beat ourselves up over the things that might have (1) _____ us to be rejected — and might even end up dwelling on these negative (2) _____, a process called rumination. This habit, however, inevitably causes us to (3) _____ worse. "The first thing a lot of people do when they get rejected is to be unkind to (4) _____, and they start coming up with all kinds of ideas about what's (5) _____ with them," Gottlieb notes.

SubQuestion No : 22

Q.22 Select the most appropriate option to fill in the blank No. 2.

Ans

✔ 1. emotions

✘ 2. endurance

✘ 3. stoppages

✘ 4. formalities

Question Type : **MCQ**
Question ID : **264330136779**
Option 1 ID : **264330535816**
Option 2 ID : **264330535815**
Option 3 ID : **264330535817**
Option 4 ID : **264330535818**
Status : **Answered**
Chosen Option : **4**

Comprehension:

In the following passage some of the words have been deleted. Read the passage carefully and select the correct answer for the given blank out of the four alternatives.

After a rejection, we tend to beat ourselves up over the things that might have (1) _____ us to be rejected — and might even end up dwelling on these negative (2) _____, a process called rumination. This habit, however, inevitably causes us to (3) _____ worse. "The first thing a lot of people do when they get rejected is to be unkind to (4) _____, and they start coming up with all kinds of ideas about what's (5) _____ with them," Gottlieb notes.

SubQuestion No : 23

Q.23 Select the most appropriate option to fill in the blank No. 3.

Ans

✘ 1. recognize

✘ 2. share

✘ 3. swirl

✔ 4. feel

Question Type : **MCQ**
Question ID : **264330136780**
Option 1 ID : **264330535820**
Option 2 ID : **264330535819**
Option 3 ID : **264330535821**
Option 4 ID : **264330535822**
Status : **Answered**
Chosen Option : **4**

Join Telegram Group "HaryanaJobs.in"

Comprehension:

In the following passage some of the words have been deleted. Read the passage carefully and select the correct answer for the given blank out of the four alternatives.

After a rejection, we tend to beat ourselves up over the things that might have (1) _____ us to be rejected — and might even end up dwelling on these negative (2) _____, a process called rumination. This habit, however, inevitably causes us to (3) _____ worse. "The first thing a lot of people do when they get rejected is to be unkind to (4) _____, and they start coming up with all kinds of ideas about what's (5) _____ with them," Gottlieb notes.

SubQuestion No : 24

Q.24 Select the most appropriate option to fill in the blank No. 4.

Ans

✗ 1. himself

✓ 2. themselves

✗ 3. itself

✗ 4. yourself

Question Type : **MCQ**
Question ID : **264330136781**
Option 1 ID : **264330535826**
Option 2 ID : **264330535824**
Option 3 ID : **264330535825**
Option 4 ID : **264330535823**
Status : **Answered**
Chosen Option : **2**

Comprehension:

In the following passage some of the words have been deleted. Read the passage carefully and select the correct answer for the given blank out of the four alternatives.

After a rejection, we tend to beat ourselves up over the things that might have (1) _____ us to be rejected — and might even end up dwelling on these negative (2) _____, a process called rumination. This habit, however, inevitably causes us to (3) _____ worse. "The first thing a lot of people do when they get rejected is to be unkind to (4) _____, and they start coming up with all kinds of ideas about what's (5) _____ with them," Gottlieb notes.

SubQuestion No : 25

Q.25 Select the most appropriate option to fill in the blank No. 5.

Ans

✓ 1. wrong

✗ 2. strong

✗ 3. syncing

✗ 4. taming

Question Type : **MCQ**
Question ID : **264330136782**
Option 1 ID : **264330535827**
Option 2 ID : **264330535828**
Option 3 ID : **264330535829**
Option 4 ID : **264330535830**
Status : **Answered**
Chosen Option : **1**

Join Telegram Group "HaryanaJobs.in"

Multi Tasking Non Technical Staff and Havaldar CBIC and CBN Examination 2022

Roll Number	HaryanaJobs.in
Candidate Name	HaryanaJobs.in
Venue Name	iON Digital Zone iDZ Laxman Nagar
Exam Date	16/05/2023
Exam Time	3:30 PM - 5:00 PM
Subject	MTS Non Tech Havaldar CBIC and CBN Examination 2022

Section : **Numerical and Mathematical Ability**

Q.1 यदि एक आयत की लम्बाई में 13% की कमी की जाती है और चौड़ाई में 13% की वृद्धि की जाती है, तो इसके क्षेत्रफल में प्रतिशत परिवर्तन ज्ञात कीजिए।

Ans

✗ 1. 1.69% वृद्धि

✗ 2. 13% कमी

✓ 3. 1.69% कमी

✗ 4. कोई परिवर्तन नहीं

Question Type : **MCQ**
Question ID : **264330135431**
Option 1 ID : **264330530632**
Option 2 ID : **264330530634**
Option 3 ID : **264330530633**
Option 4 ID : **264330530631**
Status : **Answered**
Chosen Option : **3**

Q.2 एक व्यापारी अपने माल को क्रय मूल्य से 55% अधिक मूल्य पर अंकित करता है और 20% का बट्टा देता है। उसका लाभ प्रतिशत कितना है?

Ans

✗ 1. 22%

✗ 2. 16%

✓ 3. 24%

✗ 4. 18%

Question Type : **MCQ**
Question ID : **264330138399**
Option 1 ID : **264330542203**
Option 2 ID : **264330542206**
Option 3 ID : **264330542204**
Option 4 ID : **264330542205**
Status : **Answered**
Chosen Option : **2**

Join Telegram Group "HaryanaJobs.in"

Q.3 यदि (x + y) : (y + z) : (z + x) = 3 : 5 : 7 और (x + y + z) = 45 है, तो z का मान क्या है?

Ans
✗ 1. 18
✓ 2. 27
✗ 3. 30
✗ 4. 20

Question Type : **MCQ**
Question ID : **264330138400**
Option 1 ID : **264330542209**
Option 2 ID : **264330542208**
Option 3 ID : **264330542207**
Option 4 ID : **264330542210**
Status : **Answered**
Chosen Option : **1**

Q.4 55 मीटर कपड़ा बेचने पर, एक व्यक्ति को 11 मीटर कपड़े के विक्रय मूल्य के बराबर लाभ होता है। लाभ प्रतिशत ज्ञात कीजिए।

Ans
✗ 1. 15%
✓ 2. 25%
✗ 3. 33%
✗ 4. 23%

Question Type : **MCQ**
Question ID : **264330138398**
Option 1 ID : **264330542199**
Option 2 ID : **264330542201**
Option 3 ID : **264330542202**
Option 4 ID : **264330542200**
Status : **Answered**
Chosen Option : **2**

Q.5 A और B दिए गए कार्य को साथ मिलकर 10 दिनों में पूरा कर सकते हैं। C उसी कार्य को अकेले 15 दिनों में पूरा कर सकता है। यदि तीनों साथ मिलकर कार्य करें, तो वे इस कार्य को कितने दिनों में पूरा कर सकते हैं?

Ans
✓ 1. 6 दिनों
✗ 2. 8 दिनों
✗ 3. 5 दिनों
✗ 4. 10 दिनों

Question Type : **MCQ**
Question ID : **264330135427**
Option 1 ID : **264330530616**
Option 2 ID : **264330530615**
Option 3 ID : **264330530618**
Option 4 ID : **264330530617**
Status : **Answered**
Chosen Option : **1**

Join Telegram Group "HaryanaJobs.in"

Q.6 रीमा Rs. 1000 में एक कुर्सी खरीदती है और इसे 8% की हानि पर बेच देती है। कुर्सी का विक्रय मूल्य क्या है?

Ans
1. Rs. 980
2. Rs. 1000
3. Rs. 900
4. Rs. 920

Question Type : **MCQ**
Question ID : **264330141003**
Option 1 ID : **264330552360**
Option 2 ID : **264330552361**
Option 3 ID : **264330552362**
Option 4 ID : **264330552359**
Status : **Answered**
Chosen Option : **4**

Q.7 A का मान ज्ञात कीजिए।

(64 ÷ 8) - A + 4 × 23 + 45 - 87 = 53

Ans
1. 5
2. 3
3. 4
4. 6

Question Type : **MCQ**
Question ID : **264330138747**
Option 1 ID : **264330543595**
Option 2 ID : **264330543597**
Option 3 ID : **264330543596**
Option 4 ID : **264330543598**
Status : **Answered**
Chosen Option : **4**

Q.8 एक नाविक धारा के अनुकूल 15 मिनट में 15 km और धारा के प्रतिकूल 1 घंटे में 10 km नाव चलाता है। स्थिर जल में नाव की चाल ज्ञात कीजिए।

Ans
1. 35 km/hr
2. 33 km/hr
3. 26 km/hr
4. 40 km/hr

Question Type : **MCQ**
Question ID : **264330138404**
Option 1 ID : **264330542226**
Option 2 ID : **264330542224**
Option 3 ID : **264330542223**
Option 4 ID : **264330542225**
Status : **Answered**
Chosen Option : **1**

Join Telegram Group "HaryanaJobs.in"

Q.9 देव ने स्कूल प्रोजेक्ट को अकेले 40 दिनों में पूरा किया। यदि अरुण, देव से 25% अधिक कुशल है तो अरुण को उसी कार्य को अकेले पूरा करने में कितने दिन लगेंगे?

Ans
1. 32 दिन
2. 16 दिन
3. 35 दिन
4. 14 दिन

Question Type : **MCQ**
Question ID : **264330138760**
Option 1 ID : **264330543647**
Option 2 ID : **264330543648**
Option 3 ID : **264330543650**
Option 4 ID : **264330543649**
Status : **Answered**
Chosen Option : **1**

Q.10 21, 49 और 18 का चतुर्थ समानुपाती ज्ञात कीजिए।

Ans
1. 44
2. 49
3. 42
4. 56

Question Type : **MCQ**
Question ID : **264330138401**
Option 1 ID : **264330542211**
Option 2 ID : **264330542214**
Option 3 ID : **264330542213**
Option 4 ID : **264330542212**
Status : **Answered**
Chosen Option : **3**

Q.11 एक व्यक्ति किसी स्थान पर कार से 144 km/hr की चाल से जाता है और धीमी चाल से वापस आता है। यदि औसत चाल कुल 60 km/hr है, तो उसकी वापसी की चाल (km/hr में) ज्ञात कीजिए।

Ans
1. 22.25 km/hr
2. 40.05 km/hr
3. 37.89 km/hr
4. 33.33 km/hr

Question Type : **MCQ**
Question ID : **264330135373**
Option 1 ID : **264330530399**
Option 2 ID : **264330530401**
Option 3 ID : **264330530402**
Option 4 ID : **264330530400**
Status : **Answered**
Chosen Option : **2**

Join Telegram Group "HaryanaJobs.in"

Q.12 निम्न दंड आलेख में 2 अलग-अलग बैंकों M और N में अलग-अलग वर्षों में नियुक्त किए गए उम्मीदवारों की संख्या को दर्शाया गया है। सभी वर्षों में मिलाकर बैंक N में उम्मीदवारों की औसत संख्या कितनी है?

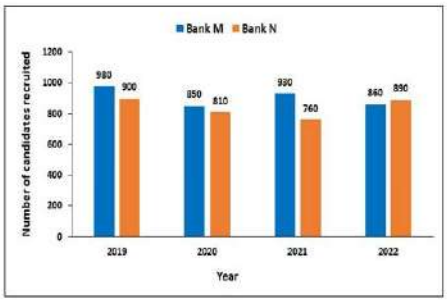

Bank - बैंक, Year - वर्ष, Number of Candidates recruited - नियुक्त किए गए उम्मीदवारों की संख्या

Ans

1. 850 ✗
2. 720 ✗
3. 840 ✓
4. 700 ✗

Question Type : **MCQ**
Question ID : **264330138408**
Option 1 ID : **264330542241**
Option 2 ID : **264330542239**
Option 3 ID : **264330542242**
Option 4 ID : **264330542240**
Status : **Answered**
Chosen Option : **3**

Q.13 74 + 88 ÷ 8 × 10 of 5 - 90 ÷ 15 + {44 - (108 ÷ 12)} का मान है:

Ans

1. 700 ✗
2. 770 ✗
3. 653 ✓
4. 605 ✗

Question Type : **MCQ**
Question ID : **264330133777**
Option 1 ID : **264330524134**
Option 2 ID : **264330524132**
Option 3 ID : **264330524131**
Option 4 ID : **264330524133**
Status : **Answered**
Chosen Option : **2**

Join Telegram Group "HaryanaJobs.in"

Q.14 8 वर्ष और 20 वर्ष के लिए समान ब्याज दर पर एक निश्चित राशि द्वारा अर्जित साधारण ब्याज का अनुपात क्या होगा?

Ans

1. 3:5 ✗
2. 5:7 ✗
3. 4:3 ✗
4. 2:5 ✓

Question Type : **MCQ**
Question ID : **264330138446**
Option 1 ID : **264330542393**
Option 2 ID : **264330542394**
Option 3 ID : **264330542392**
Option 4 ID : **264330542391**
Status : **Answered**
Chosen Option : **4**

Q.15 तीन संख्याएँ 2:3:5 के अनुपात में हैं और उनका लघुत्तम समापवर्त्य (LCM) 60 है। उन संख्याओं का महत्तम समापवर्तक (HCF) क्या है?

Ans

1. 2 ✓
2. 10 ✗
3. 6 ✗
4. 4 ✗

Question Type : **MCQ**
Question ID : **264330141011**
Option 1 ID : **264330552391**
Option 2 ID : **264330552394**
Option 3 ID : **264330552393**
Option 4 ID : **264330552392**
Status : **Answered**
Chosen Option : **3**

Q.16 चार भाइयों की औसत आयु 24 वर्ष है। यदि उनके पिता की आयु को भी शामिल कर लिया जाए, तो औसत में 6 वर्ष की वृद्धि हो जाती है। पिता की आयु(वर्षों में)ज्ञात कीजिए।

Ans

1. 54 वर्ष ✓
2. 50 वर्ष ✗
3. 55 वर्ष ✗
4. 52 वर्ष ✗

Question Type : **MCQ**
Question ID : **264330138393**
Option 1 ID : **264330542182**
Option 2 ID : **264330542179**
Option 3 ID : **264330542180**
Option 4 ID : **264330542181**
Status : **Answered**
Chosen Option : **1**

Join Telegram Group "HaryanaJobs.in"

Q.17 [7 + {4 × (2 + 5 × 4)}] का मान ज्ञात कीजिए।

Ans
1. 85 ✗
2. 55 ✗
3. 45 ✗
4. 95 ✓

Question Type : **MCQ**
Question ID : **264330138390**
Option 1 ID : **264330542170**
Option 2 ID : **264330542169**
Option 3 ID : **264330542168**
Option 4 ID : **264330542167**
Status : **Answered**
Chosen Option : **2**

Q.18 80 के 80 प्रतिशत का 225 प्रतिशत = _____।

Ans
1. 138 ✗
2. 156 ✗
3. 144 ✓
4. 132 ✗

Question Type : **MCQ**
Question ID : **264330137180**
Option 1 ID : **264330537363**
Option 2 ID : **264330537365**
Option 3 ID : **264330537366**
Option 4 ID : **264330537364**
Status : **Answered**
Chosen Option : **3**

Q.19 यदि एक निश्चित धनराशि साधारण ब्याज पर 3 वर्ष 6 माह में स्वयं की दोगुनी हो जाती है, तो वार्षिक ब्याज दर क्या होगी?

Ans
1. 30.53 प्रतिशत ✗
2. 28.57 प्रतिशत ✓
3. 26.57 प्रतिशत ✗
4. 22.5 प्रतिशत ✗

Question Type : **MCQ**
Question ID : **264330137185**
Option 1 ID : **264330537385**
Option 2 ID : **264330537383**
Option 3 ID : **264330537386**
Option 4 ID : **264330537384**
Status : **Answered**
Chosen Option : **1**

Join Telegram Group "HaryanaJobs.in"

Q.20 निम्नलिखित तालिका में अलग-अलग कक्षाओं में लड़कियों और लड़कों की संख्या को दर्शाया गया है। सभी कक्षाओं में छात्रों की कुल संख्या का योग ज्ञात कीजिए।

Class	Number of girls	Number of boys
5	88	76
6	140	92
7	54	80
8	84	68
9	90	70

Class = कक्षा, Number of girls = लड़कियों की संख्या, Number of boys = लड़कों की संख्या

Ans

✗ 1. 840

✓ 2. 842

✗ 3. 800

✗ 4. 760

Question Type : **MCQ**
Question ID : **264330133791**
Option 1 ID : **264330524189**
Option 2 ID : **264330524188**
Option 3 ID : **264330524187**
Option 4 ID : **264330524190**
Status : **Not Answered**
Chosen Option : **--**

Section : **Reasoning Ability and Problem Solving**

Q.1 सात श्रमिक राहुल, राम, रमेश, सोहन, साहिल, अनिल और सोनू एक वृत्ताकार मेज के चारों ओर केंद्र की ओर मुख करके बैठे हैं (परंतु जरूरी नहीं कि वे इसी क्रम में बैठें हों)। अनिल, राम और सोनू दोनों का निकटतम पड़ोसी है। राम, साहिल के दाईं ओर से दूसरे स्थान पर है। राहुल, साहिल और सोहन दोनों का निकटतम पड़ोसी है। साहिल के बाईं ओर से दूसरे स्थान पर कौन है?

Ans

✓ 1. सोहन

✗ 2. रमेश

✗ 3. अनिल

✗ 4. सोनू

Question Type : **MCQ**
Question ID : **264330138506**
Option 1 ID : **264330542632**
Option 2 ID : **264330542631**
Option 3 ID : **264330542634**
Option 4 ID : **264330542633**
Status : **Answered**
Chosen Option : **1**

Join Telegram Group "HaryanaJobs.in"

Q.2 दी गई श्रृंखला में निम्नलिखित में से कौन-सी संख्या प्रश्न चिन्ह (?) के स्थान पर आएगी?
17, 24, 32, 41, 51, ?

Ans
1. 63
2. 61
3. 64
4. 62

Question Type : **MCQ**
Question ID : **264330137356**
Option 1 ID : **264330538053**
Option 2 ID : **264330538051**
Option 3 ID : **264330538054**
Option 4 ID : **264330538052**
Status : **Answered**
Chosen Option : **4**

Q.3 दी गई आकृति के उस सही दर्पण प्रतिबिंब को चुनिए, जो नीचे दर्शाए गए अनुसार दर्पण को MN पर रखने पर बनेगा।

Ans
1. KLAWOB MAR
2. KLAWOB MAR
3. KLAWOB MAR
4. KLAWOB MAR

Question Type : **MCQ**
Question ID : **264330133504**
Option 1 ID : **264330523048**
Option 2 ID : **264330523050**
Option 3 ID : **264330523047**
Option 4 ID : **264330523049**
Status : **Answered**
Chosen Option : **1**

Q.4 आठ मित्र अनिल, कमल, राम, संजय, आकाश, विवेक, राहुल और रामू एक वृत्ताकार मेज के चारों ओर केंद्र की ओर मुख करके बैठे हैं (परंतु जरूरी नहीं कि वे इसी क्रम में बैठे हों)। विवेक, अनिल के दाईं ओर से दूसरे स्थान पर है। कमल, अनिल के बाईं ओर से तीसरे स्थान पर है। रामू, विवेक के दाईं ओर से दूसरे स्थान पर है। राम, रामू के दाईं ओर से दूसरे स्थान पर है। आकाश, राहुल के दाईं ओर से दूसरे स्थान पर है। राहुल, विवेक का निकटतम पड़ोसी नहीं है। अनिल के बाईं ओर से दूसरे स्थान पर कौन है?

Ans
1. विवेक
2. कमल
3. राम
4. रामू

Question Type : **MCQ**
Question ID : **264330138505**
Option 1 ID : **264330542630**
Option 2 ID : **264330542629**
Option 3 ID : **264330542627**
Option 4 ID : **264330542628**
Status : **Answered**
Chosen Option : **3**

Join Telegram Group "HaryanaJobs.in"

Q.5 उस विकल्प को चुनिए जो तीसरी संख्या से ठीक उसी तरह संबंधित है जिस तरह दूसरी संख्या पहली संख्या से संबंधित है।

67 : 336 :: 43 : ?

Ans
1. 236
2. 214
3. 216
4. 226

Question Type : **MCQ**
Question ID : **264330137358**
Option 1 ID : **264330538061**
Option 2 ID : **264330538060**
Option 3 ID : **264330538059**
Option 4 ID : **264330538062**
Status : **Answered**
Chosen Option : **3**

Q.6 किन दो चिन्हों को आपस में बदलने पर समीकरण का मान सही होगा?

27 ÷ 3 - 18 + 3 × 2 = 18

Ans
1. × और +
2. + और ÷
3. + और -
4. ÷ और ×

Question Type : **MCQ**
Question ID : **264330138514**
Option 1 ID : **264330542664**
Option 2 ID : **264330542665**
Option 3 ID : **264330542663**
Option 4 ID : **264330542666**
Status : **Answered**
Chosen Option : **2**

Join Telegram Group "HaryanaJobs.in"

Q.7 निम्नलिखित प्रश्न में कुछ कथन दिए गए हैं और उन कथनों के आधार पर कुछ निष्कर्ष दिए गए हैं। आपको यह मानना है कि दिए गए कथन सत्य हैं चाहे वे समान्यतः ज्ञात तथ्यों से अलग प्रतीत होते हों। सभी निष्कर्षों को पढ़िए और फिर निश्चय कीजिए कि दिए गए निष्कर्षों में से कौन-सा निष्कर्ष तार्किक रूप से दिए गए कथनों के अनुसार है।

कथन:

I. सभी बाइक, साइकिल हैं।

II कुछ साइकिल, टब हैं।

निष्कर्ष:

I. सभी टब, बाइक हैं।

II सभी साइकिल, टब हैं।

III सभी साइकिल, बाइक हैं।

Ans

✔ 1. कोई भी निष्कर्ष कथनों के अनुसार नहीं है

✘ 2. सभी निष्कर्ष कथनों के अनुसार हैं

✘ 3. केवल निष्कर्ष II कथनों के अनुसार है

✘ 4. दोनों निष्कर्ष I और II कथनों के अनुसार हैं

Question Type : **MCQ**
Question ID : **264330138509**
Option 1 ID : **264330542646**
Option 2 ID : **264330542645**
Option 3 ID : **264330542644**
Option 4 ID : **264330542643**
Status : **Answered**
Chosen Option : **1**

Q.8 पाँच पेन P1, P2, P3, P4 और P5 के भारों (Weights) की तुलना की जाती है। P3 का भार P1 से कम है लेकिन P2 से अधिक है। P2 का भार केवल दो पेन से अधिक है। P5 का भार सबसे कम नहीं है। यदि P5 का भार 100 ग्राम है, तो P1 का भार कितना हो सकता है?

Ans

✘ 1. 96 ग्राम

✘ 2. 90 ग्राम

✘ 3. 95 ग्राम

✔ 4. 108 ग्राम

Question Type : **MCQ**
Question ID : **264330138507**
Option 1 ID : **264330542637**
Option 2 ID : **264330542636**
Option 3 ID : **264330542635**
Option 4 ID : **264330542638**
Status : **Answered**
Chosen Option : **4**

Join Telegram Group "HaryanaJobs.in"

Q.9 उस विकल्प आकृति को चुनिए जिसमें दी गई आकृति (X) इसके भाग के रूप में निहित है। (घूर्णन की अनुमति **नहीं** है)।

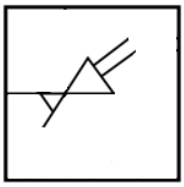

(X)

Ans

✗ 1.

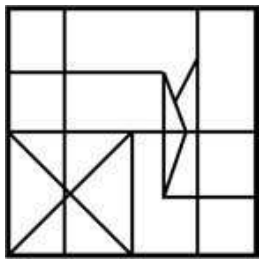

✗ 2.

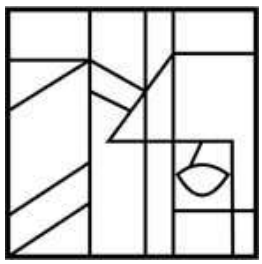

✗ 3.

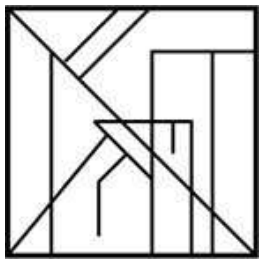

✓ 4.

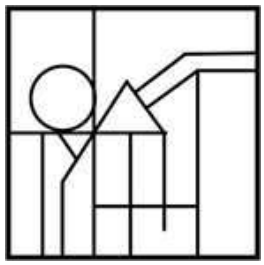

Question Type : **MCQ**
Question ID : **264330133503**
Option 1 ID : **264330523043**
Option 2 ID : **264330523044**
Option 3 ID : **264330523045**
Option 4 ID : **264330523046**
Status : **Answered**
Chosen Option : **4**

Join Telegram Group "HaryanaJobs.in"

Q.10 (::) के बाईं ओर दिए गए शब्द आपस में किसी तर्क/नियम/संबंध द्वारा संबंधित हैं। समान तर्क/नियम/संबंध के आधार पर दिए गए विकल्पों में से (::) के दाईं ओर लुप्त शब्द/शब्द युग्म को चुनिए।

रिंक (Rink) : स्केटिंग (Skating) :: पिच (Pitch) : ?

Ans

✔ 1. क्रिकेट

✘ 2. कुश्ती

✘ 3. हॉकी

✘ 4. फ़ुटबॉल

Question Type : **MCQ**
Question ID : **264330138500**
Option 1 ID : **264330542609**
Option 2 ID : **264330542607**
Option 3 ID : **264330542610**
Option 4 ID : **264330542608**
Status : **Answered**
Chosen Option : **1**

Q.11 एक निश्चित कूट भाषा में, 'REPORT' को '18, 5, 16, 15, 18, 20' लिखा जाता है, 'BEYOND' को '2, 5, 25, 15, 14, 4' लिखा जाता है। उस कूट भाषा में 'MONEY' को कैसे लिखा जाएगा?

Ans

✘ 1. 13, 15, 12, 6, 25

✘ 2. 13, 15, 14, 6, 25

✔ 3. 13, 15, 14, 5, 25

✘ 4. 15, 13, 12, 6, 25

Question Type : **MCQ**
Question ID : **264330138461**
Option 1 ID : **264330542452**
Option 2 ID : **264330542454**
Option 3 ID : **264330542451**
Option 4 ID : **264330542453**
Status : **Answered**
Chosen Option : **3**

Q.12 (::) के बाईं ओर दिए गए शब्द आपस में किसी तर्क/नियम/संबंध द्वारा संबंधित हैं। समान तर्क/नियम/संबंध के आधार पर दिए गए विकल्पों में से (::) के दाईं ओर लुप्त शब्द/शब्द युग्म को चुनिए।

आमलेट (Omelette) : अंडा :: ?

Ans

✘ 1. डामर : सड़क

✘ 2. अयस्क : धातु

✘ 3. बीज : तेल

✔ 4. फर्नीचर : लकड़ी

Question Type : **MCQ**
Question ID : **264330138501**
Option 1 ID : **264330542612**
Option 2 ID : **264330542614**
Option 3 ID : **264330542611**
Option 4 ID : **264330542613**
Status : **Answered**
Chosen Option : **4**

Join Telegram Group "HaryanaJobs.in"

Q.13 एक निश्चित कूट भाषा में, 'PIECES' को 'PKBCGP' लिखा जाता है। उस कूट भाषा में 'OBTAIN' को कैसे लिखा जाएगा?

Ans

✗ 1. ODQAJK

✗ 2. ODQALL

✓ 3. ODQAKK

✗ 4. ODQBKK

Question Type : **MCQ**
Question ID : **264330138546**
Option 1 ID : **264330542792**
Option 2 ID : **264330542791**
Option 3 ID : **264330542794**
Option 4 ID : **264330542793**
Status : **Answered**
Chosen Option : **3**

Q.14 एक श्रृंखला दी गई है जिसमें एक पद लुप्त है। दिए गए विकल्पों में से उस सही विकल्प को चुनिए जो श्रृंखला को पूरा करेगा।

FOC, IMF, LKI, OIL,?

Ans

✗ 1. SGO

✗ 2. SHO

✗ 3. RHO

✓ 4. RGO

Question Type : **MCQ**
Question ID : **264330138498**
Option 1 ID : **264330542602**
Option 2 ID : **264330542599**
Option 3 ID : **264330542601**
Option 4 ID : **264330542600**
Status : **Answered**
Chosen Option : **4**

Join Telegram Group "HaryanaJobs.in"

Q.15 कौन-सी उत्तर आकृति प्रश्न आकृति में दिए गए पैटर्न को पूरा करेगी?

Ans

✗ 1.

✗ 2.

✗ 3.

✓ 4.

Question Type : **MCQ**
Question ID : **264330138518**
Option 1 ID : **264330542682**
Option 2 ID : **264330542680**
Option 3 ID : **264330542681**
Option 4 ID : **264330542679**
Status : **Answered**
Chosen Option : **4**

Q.16 निम्नलिखित प्रश्न में, दी गई श्रृंखला में लुप्त संख्या को चुनिए ।

30, 60, 180, 720, 3600,?

Ans

✗ 1. 25000

✓ 2. 21600

✗ 3. 14400

✗ 4. 12000

Question Type : **MCQ**
Question ID : **264330138511**
Option 1 ID : **264330542653**
Option 2 ID : **264330542651**
Option 3 ID : **264330542652**
Option 4 ID : **264330542654**
Status : **Answered**
Chosen Option : **2**

Join Telegram Group "HaryanaJobs.in"

Q.17 एक निश्चित कूट भाषा में, 'HEAVY' को 'EBXSV' लिखा जाता है। उस कूट भाषा में 'LABEL' को कैसे लिखा जाएगा?

Ans

✗ 1. JXYBJ

✗ 2. IXZBI

✓ 3. IXYBI

✗ 4. IXYBJ

Question Type : **MCQ**
Question ID : **264330135597**
Option 1 ID : **264330531288**
Option 2 ID : **264330531287**
Option 3 ID : **264330531289**
Option 4 ID : **264330531290**
Status : **Answered**
Chosen Option : **3**

Q.18 निम्नलिखित प्रश्न में कुछ कथन दिए गए हैं और उन कथनों के आधार पर कुछ निष्कर्ष दिए गए हैं। आपको यह मानना है कि दिए गए कथन सत्य हैं चाहे वे समान्यतः ज्ञात तथ्यों से अलग प्रतीत होते हों। सभी निष्कर्षों को पढ़िए और फिर निश्चय कीजिए कि दिए गए निष्कर्षों में से कौन-सा निष्कर्ष तार्किक रूप से दिए गए कथनों के अनुसार है।

कथन:

I. कुछ पुरुष, लड़कियाँ हैं।

II कुछ ताकतवर, लड़कियाँ हैं।

निष्कर्ष:

I. कुछ ताकतवर, पुरुष नहीं हैं।

II कुछ लड़कियाँ, पुरुष हैं।

Ans

✗ 1. दोनों निष्कर्ष I और II कथनों के अनुसार हैं

✗ 2. कोई भी निष्कर्ष कथनों के अनुसार नहीं है

✗ 3. केवल निष्कर्ष I कथनों के अनुसार है

✓ 4. केवल निष्कर्ष II कथनों के अनुसार है

Question Type : **MCQ**
Question ID : **264330138508**
Option 1 ID : **264330542641**
Option 2 ID : **264330542642**
Option 3 ID : **264330542639**
Option 4 ID : **264330542640**
Status : **Answered**
Chosen Option : **4**

Join Telegram Group "HaryanaJobs.in"

Q.19 दी गई दो संख्याओं को आपस में बदलने पर, निम्नलिखित में से कौनसा समीकरण सही होगा?

5 और 4

I. 4 + 8 × 5 - 7 ÷ 1 = 30

II. 5 × 3 - 4 + 6 ÷ 2 = 11

Ans

1. केवल II
2. केवल I
3. I और II दोनों
4. न तो I और न ही II

Question Type : **MCQ**
Question ID : **264330138557**
Option 1 ID : **264330542836**
Option 2 ID : **264330542835**
Option 3 ID : **264330542837**
Option 4 ID : **264330542838**
Status : **Answered**
Chosen Option : **4**

Q.20 उस विकल्प को चुनिए जिसमें समुच्चय की संख्याएँ वही संबंध साझा करती हैं जो दिए गए समुच्चय में संख्याओं द्वारा साझा किया जाता है।(ध्यान दें: संख्याओं को उनके घटक अंकों में अलग-अलग किए बिना, पूर्ण संख्याओं पर संक्रियाएँ की जानी चाहिए। उदा. 13 - 13 पर संक्रियाएँ जैसे 13 को जोड़ना /घटाना /गुणा करना आदि किया जा सकता है। 13 को 1 और 3 में अलग-अलग करने की और फिर 1 और 3 पर गणितीय संक्रियाएँ करने की अनुमति नहीं है)

(64, 8, 16)

(40, 20, 4)

Ans

1. (54, 9, 14)
2. (100, 50, 8)
3. (120, 100, 5)
4. (56, 14, 8)

Question Type : **MCQ**
Question ID : **264330138513**
Option 1 ID : **264330542662**
Option 2 ID : **264330542659**
Option 3 ID : **264330542661**
Option 4 ID : **264330542660**
Status : **Answered**
Chosen Option : **4**

Section : **General Awareness**

Join Telegram Group "HaryanaJobs.in"

Q.1 भारत के तेलंगाना का निम्नलिखित में से कौन-सा पारंपरिक हिंदू त्योहार देवी महाकाली को समर्पित है?

Ans
1. उगादि (Ugadi)
2. लोहड़ी (Lohri)
3. देहिंग पटकाई (Dehing Patkai)
4. बोनालु (Bonalu)

Question Type : **MCQ**
Question ID : **264330133959**
Option 1 ID : **264330524861**
Option 2 ID : **264330524859**
Option 3 ID : **264330524862**
Option 4 ID : **264330524860**
Status : **Answered**
Chosen Option : **1**

Q.2 निम्नलिखित में से कौन पीएम-केयर्स फंड के ट्रस्टियों में से एक है?

Ans
1. श्री रतन एन. टाटा
2. श्री गौतम अडानी
3. श्री अज़ीम प्रेमजी
4. श्री मुकेश अंबानी

Question Type : **MCQ**
Question ID : **264330138279**
Option 1 ID : **264330541726**
Option 2 ID : **264330541724**
Option 3 ID : **264330541725**
Option 4 ID : **264330541723**
Status : **Answered**
Chosen Option : **1**

Q.3 निम्नलिखित में से कौन-सी जैविक खेती की एक विशेषता 'नहीं' है?

Ans
1. जैविक उर्वरकों का उपयोग
2. मिश्रित कृषि का कोई उपयोग नहीं
3. रसायनों का न्यूनतम या कोई उपयोग नहीं
4. कृषि अपशिष्ट का पुनर्चक्रण

Question Type : **MCQ**
Question ID : **264330138284**
Option 1 ID : **264330541744**
Option 2 ID : **264330541746**
Option 3 ID : **264330541745**
Option 4 ID : **264330541743**
Status : **Not Attempted and Marked For Review**
Chosen Option : **--**

Join Telegram Group "HaryanaJobs.in"

Q.4 कुमारी कमला को वर्ष 1970 में पद्म भूषण से सम्मानित किया गया था। उन्हें किस शास्त्रीय नृत्य शैली के लिए जाना जाता था?

Ans
✔ 1. भरतनाट्यम
✘ 2. कथक
✘ 3. मोहिनीअट्टम
✘ 4. मणिपुरी

Question Type : **MCQ**
Question ID : **264330138328**
Option 1 ID : **264330541922**
Option 2 ID : **264330541919**
Option 3 ID : **264330541921**
Option 4 ID : **264330541920**
Status : **Answered**
Chosen Option : **3**

Q.5 निम्नलिखित में से कौन-सी किताब मुल्क राज आनंद द्वारा लिखी गई है?

Ans
✘ 1. द इंग्लिश टीचर (The English Teacher)
✘ 2. अ सूटेबल बॉय (A Suitable Boy)
✔ 3. अनटचेबल (Untouchable)
✘ 4. द ब्लू अम्ब्रेला (The Blue Umbrella)

Question Type : **MCQ**
Question ID : **264330138326**
Option 1 ID : **264330541913**
Option 2 ID : **264330541911**
Option 3 ID : **264330541912**
Option 4 ID : **264330541914**
Status : **Answered**
Chosen Option : **2**

Q.6 मेरठ के सिपाही _____ को मुगल सम्राट बहादुर शाह से मिलने के लिए लाल किले के फाटक पर पहुँचे।

Ans
✘ 1. 11 मार्च, 1857
✘ 2. 10 मार्च, 1857
✘ 3. 10 मई, 1857
✔ 4. 11 मई, 1857

Question Type : **MCQ**
Question ID : **264330138344**
Option 1 ID : **264330541986**
Option 2 ID : **264330541985**
Option 3 ID : **264330541983**
Option 4 ID : **264330541984**
Status : **Answered**
Chosen Option : **4**

Join Telegram Group "HaryanaJobs.in"

Q.7 भारत में सामाजिक समूहों के संबंध में, PVTGs का अर्थ _____ है।

Ans
✗ 1. पर्टिकुलरली वेरियस ट्राइबल ग्रुप्स (Particularly Various Tribal Groups)

✗ 2. पीरियोडिक वल्नरेबल ट्राइबल ग्रुप्स (Periodic Vulnerable Tribal Groups)

✓ 3. पर्टिकुलरली वल्नरेबल ट्राइबल ग्रुप्स (Particularly Vulnerable Tribal Groups)

✗ 4. पीरियोडिक वेरियस ट्राइबल ग्रुप्स (Periodic Various Tribal Groups)

Question Type : **MCQ**
Question ID : **264330133901**
Option 1 ID : **264330524629**
Option 2 ID : **264330524628**
Option 3 ID : **264330524627**
Option 4 ID : **264330524630**
Status : **Answered**
Chosen Option : **1**

Q.8 बैंकों को अपने पास तरल परिसंपत्तियों के रूप में कुछ आरक्षित मुद्रा रखना आवश्यक होता है। इसे _____ कहा जाता है।

Ans
✓ 1. सांविधिक चलनिधि अनुपात

✗ 2. सीमांत स्थिरता योजना

✗ 3. वैध जमा अनुपात

✗ 4. खुली बाज़ार कार्यवाही

Question Type : **MCQ**
Question ID : **264330138331**
Option 1 ID : **264330541932**
Option 2 ID : **264330541931**
Option 3 ID : **264330541933**
Option 4 ID : **264330541934**
Status : **Answered**
Chosen Option : **4**

Q.9 निम्नलिखित में से किस अनुच्छेद में, "अंतःकरण की और धर्म की अबाध रूप से मानने, आचरण और प्रचार करने की स्वतंत्रता" का उल्लेख है?

Ans
✗ 1. अनुच्छेद 27

✓ 2. अनुच्छेद 25

✗ 3. अनुच्छेद 26

✗ 4. अनुच्छेद 28

Question Type : **MCQ**
Question ID : **264330138283**
Option 1 ID : **264330541742**
Option 2 ID : **264330541739**
Option 3 ID : **264330541740**
Option 4 ID : **264330541741**
Status : **Answered**
Chosen Option : **1**

Join Telegram Group "HaryanaJobs.in"

Q.10 एक नाटक में, हेमा ने कहा "स्वराज मेरा जन्मसिद्ध अधिकार है और मैं इसे लेकर रहूंगी।" यह नारा किस भारतीय स्वतंत्रता सेनानी ने दिया था?

Ans
1. महात्मा गांधी
2. लोकमान्य बाल गंगाधर तिलक
3. अंबिका चरण मजूमदार
4. भगत सिंह

Question Type : **MCQ**
Question ID : **264330133972**
Option 1 ID : **264330524911**
Option 2 ID : **264330524912**
Option 3 ID : **264330524914**
Option 4 ID : **264330524913**
Status : **Answered**
Chosen Option : **2**

Q.11 वे बस्तियाँ जिनमें मकान एक दूसरे के समीप बनाए जाते हैं, _____ कहलाती हैं।

Ans
1. रैखिक बस्तियाँ
2. संहत बस्तियाँ
3. तारे के आकार की बस्तियाँ
4. प्रकीर्ण बस्तियाँ

Question Type : **MCQ**
Question ID : **264330138669**
Option 1 ID : **264330543284**
Option 2 ID : **264330543283**
Option 3 ID : **264330543286**
Option 4 ID : **264330543285**
Status : **Answered**
Chosen Option : **2**

Q.12 विश्व में कॉफी के उत्पादन में अग्रणी देश कौन-सा है?

Ans
1. चीन
2. ब्राज़ील
3. अमेरिका
4. भारत

Question Type : **MCQ**
Question ID : **264330138338**
Option 1 ID : **264330541959**
Option 2 ID : **264330541962**
Option 3 ID : **264330541961**
Option 4 ID : **264330541960**
Status : **Answered**
Chosen Option : **2**

Join Telegram Group "HaryanaJobs.in"

Q.13 निम्नलिखित में से किसने जयपुर शहर की स्थापना की थी?

Ans
1. राजा मानसिंह
2. सवाई जयसिंह द्वितीय
3. राजा भारमल
4. पृथ्वीराज चौहान

Question Type : **MCQ**
Question ID : **264330138323**
Option 1 ID : **264330541899**
Option 2 ID : **264330541901**
Option 3 ID : **264330541900**
Option 4 ID : **264330541902**
Status : **Answered**
Chosen Option : **2**

Q.14 भागीरथी और अलकनंदा का संगम _____ में होता है।

Ans
1. रुद्रप्रयाग
2. नंदप्रयाग
3. विष्णुप्रयाग
4. देवप्रयाग

Question Type : **MCQ**
Question ID : **264330138289**
Option 1 ID : **264330541765**
Option 2 ID : **264330541766**
Option 3 ID : **264330541763**
Option 4 ID : **264330541764**
Status : **Answered**
Chosen Option : **4**

Q.15 शास्त्रीय नृत्य कथक की उत्पत्ति _____ में हुई थी।

Ans
1. असम
2. उड़ीसा
3. उत्तरप्रदेश
4. राजस्थान

Question Type : **MCQ**
Question ID : **264330138271**
Option 1 ID : **264330541692**
Option 2 ID : **264330541693**
Option 3 ID : **264330541694**
Option 4 ID : **264330541691**
Status : **Answered**
Chosen Option : **3**

Join Telegram Group "HaryanaJobs.in"

Q.16 निम्नलिखित में से कौनसे देश 'I2U2' शिखर सम्मेलन का हिस्सा हैं?

Ans
1. भारत, इज़राइल, संयुक्त अरब अमीरात और युगांडा
2. इराक, ईरान, संयुक्त अरब अमीरात और अमेरिका
3. भारत, इज़राइल, संयुक्त अरब अमीरात और अमेरिका
4. भारत, ईरान, संयुक्त अरब अमीरात और अमेरिका

Question Type : **MCQ**
Question ID : **264330138280**
Option 1 ID : **264330541728**
Option 2 ID : **264330541727**
Option 3 ID : **264330541729**
Option 4 ID : **264330541730**
Status : **Answered**
Chosen Option : **4**

Q.17 निम्नलिखित में से किस भारतीय खिलाड़ी ने क्रिकेट विश्व कप 1983 में अधिकतम रन बनाए हैं?

Ans
1. एस.एम. पाटिल
2. के. श्रीकांत
3. एस.एम. गावस्कर
4. कपिल देव

Question Type : **MCQ**
Question ID : **264330138274**
Option 1 ID : **264330541706**
Option 2 ID : **264330541704**
Option 3 ID : **264330541703**
Option 4 ID : **264330541705**
Status : **Answered**
Chosen Option : **4**

Q.18 यूनानियों (Greeks) द्वारा किस मौर्य शासक को अमित्रघात (Amitrochates) कहा जाता था?

Ans
1. कनिष्क
2. समुद्रगुप्त
3. बिंदुसार
4. चंद्रगुप्त प्रथम

Question Type : **MCQ**
Question ID : **264330133969**
Option 1 ID : **264330524901**
Option 2 ID : **264330524900**
Option 3 ID : **264330524899**
Option 4 ID : **264330524902**
Status : **Answered**
Chosen Option : **3**

Join Telegram Group "HaryanaJobs.in"

Q.19 निम्नलिखित में से कौन वर्ष 1996 में स्पेन के मेनोर्का (Menorca) में अंडर-10 वर्ल्ड चेस चैम्पियनशिप जीतने वाला पहला भारतीय है?

Ans
1. विदित संतोष गुजराती
2. विश्वनाथन आनंद
3. पी हरिकृष्णा
4. कोनेरू हम्पी

Question Type : **MCQ**
Question ID : **264330137084**
Option 1 ID : **264330536981**
Option 2 ID : **264330536979**
Option 3 ID : **264330536980**
Option 4 ID : **264330536982**
Status : **Answered**
Chosen Option : **2**

Q.20 निम्नलिखित में से कौन-सा सौर मंडल का सबसे ठंडा ग्रह है?

Ans
1. शनि
2. नेपच्यून
3. मंगल
4. यूरेनस

Question Type : **MCQ**
Question ID : **264330137069**
Option 1 ID : **264330536919**
Option 2 ID : **264330536921**
Option 3 ID : **264330536922**
Option 4 ID : **264330536920**
Status : **Answered**
Chosen Option : **4**

Q.21 विदुषी शरण रानी किस वाद्य यंत्र की प्रसिद्ध वादक हैं?

Ans
1. सरोद
2. सितार
3. बाँसुरी
4. तबला

Question Type : **MCQ**
Question ID : **264330138277**
Option 1 ID : **264330541716**
Option 2 ID : **264330541717**
Option 3 ID : **264330541718**
Option 4 ID : **264330541715**
Status : **Answered**
Chosen Option : **1**

Join Telegram Group "HaryanaJobs.in"

Q.22 निम्नलिखित में से कौन-सा एक क्षार धातु नहीं है और आवर्त सारणी के प्रथम वर्ग के अंतर्गत नहीं आता?

Ans
1. सोडियम
2. पोटैशियम
3. लीथियम
4. कैल्सियम

Question Type : **MCQ**
Question ID : **264330137066**
Option 1 ID : **264330536907**
Option 2 ID : **264330536909**
Option 3 ID : **264330536910**
Option 4 ID : **264330536908**
Status : **Answered**
Chosen Option : **4**

Q.23 केरल के मध्य और उत्तरी भागों और तमिलनाडु के कोंगु (Kongu) क्षेत्र को नियंत्रित करने वाले चेर राजवंश का प्रतीक _____ था।

Ans
1. पक्षी
2. धनुष और बाण
3. मछली
4. बाघ

Question Type : **MCQ**
Question ID : **264330137075**
Option 1 ID : **264330536945**
Option 2 ID : **264330536944**
Option 3 ID : **264330536946**
Option 4 ID : **264330536943**
Status : **Answered**
Chosen Option : **2**

Q.24 भारतीय न्यायिक प्रणाली में, PIL का अर्थ _____ है।

Ans
1. पीरियोडिक इंडिविजुअल लिटिगेशन (Periodic Individual Litigation)
2. पब्लिक इंटरेस्ट लिटिगेशन (Public Interest Litigation)
3. पीरियोडिक इंटरेस्ट लिटिगेशन (Periodic Interest Litigation)
4. प्राइवेट इंटरेस्ट लाइसेंस (Private Interest License)

Question Type : **MCQ**
Question ID : **264330138332**
Option 1 ID : **264330541937**
Option 2 ID : **264330541936**
Option 3 ID : **264330541935**
Option 4 ID : **264330541938**
Status : **Answered**
Chosen Option : **2**

Join Telegram Group "HaryanaJobs.in"

Q.25 सोडियम हाइड्रॉक्साइड निम्नलिखित में से किस सामान्य पदार्थ का रासायनिक नाम है?

Ans
✔ 1. दाहक सोडा (Caustic Soda)
✘ 2. चाक (Chalk)
✘ 3. विरंजक चूर्ण (Bleaching Powder)
✘ 4. सुहागा (Borax)

Question Type : **MCQ**
Question ID : **264330137068**
Option 1 ID : **264330536915**
Option 2 ID : **264330536917**
Option 3 ID : **264330536916**
Option 4 ID : **264330536918**
Status : **Answered**
Chosen Option : **4**

Section : **English Language and Comprehension**

Q.1 Select the most appropriate synonym of the given word.

Subtle

Ans
✘ 1. Corrupt
✘ 2. Wrong
✘ 3. Homely
✔ 4. Exquisite

Question Type : **MCQ**
Question ID : **264330136655**
Option 1 ID : **264330535340**
Option 2 ID : **264330535342**
Option 3 ID : **264330535339**
Option 4 ID : **264330535341**
Status : **Answered**
Chosen Option : **1**

Q.2 Select the most appropriate antonym of the given word.

Calm

Ans
✘ 1. Placid
✘ 2. Low-key
✔ 3. Frenzy
✘ 4. Harmonious

Question Type : **MCQ**
Question ID : **264330136709**
Option 1 ID : **264330535549**
Option 2 ID : **264330535548**
Option 3 ID : **264330535550**
Option 4 ID : **264330535547**
Status : **Answered**
Chosen Option : **3**

Join Telegram Group "HaryanaJobs.in"

Q.3 **A sentence has been given with a blank to be filled with an appropriate option. Choose the correct alternative.**
I went to the lake and _____ some of its water in my metallic cup.

Ans
✔ 1. drank
✘ 2. drunken
✘ 3. drinking
✘ 4. drunk

Question Type : **MCQ**
Question ID : **264330134457**
Option 1 ID : **264330526800**
Option 2 ID : **264330526802**
Option 3 ID : **264330526799**
Option 4 ID : **264330526801**
Status : **Answered**
Chosen Option : **1**

Q.4 Select the most appropriate meaning of the given idiom.

Gut Feeling

Ans
✘ 1. Doing things recklessly
✘ 2. Very excited and/or joyful, especially when in love
✔ 3.
A personal intuition you get, especially when feel something may not be right
✘ 4. To have a dispute with someone

Question Type : **MCQ**
Question ID : **264330135787**
Option 1 ID : **264330532024**
Option 2 ID : **264330532026**
Option 3 ID : **264330532023**
Option 4 ID : **264330532025**
Status : **Answered**
Chosen Option : **2**

Q.5 Select the most appropriate option to substitute the bracketed segment in the given sentence. If there is no need to substitute it, select 'no substitution required'.

(The transit of the Planet of Love happen in pairs), eight years apart every century.

Ans
✘ 1. No substitution required
✘ 2. The transits of the Planet of Love happens at pairs
✘ 3. The transit of Planet of Love happen in pairs
✔ 4. The transits of the Planet of Love happen in pairs

Question Type : **MCQ**
Question ID : **264330136670**
Option 1 ID : **264330535402**
Option 2 ID : **264330535399**
Option 3 ID : **264330535400**
Option 4 ID : **264330535401**
Status : **Answered**
Chosen Option : **4**

Join Telegram Group "HaryanaJobs.in"

Q.6 Find the part of the given sentence that has an error in it. If there is no error, choose 'No error'.

I am not going to help you of this science project.

Ans

1. No error ✗
2. this science project. ✗
3. I am not going to ✗
4. help you of ✓

Question Type : **MCQ**
Question ID : **264330135256**
Option 1 ID : **264330529946**
Option 2 ID : **264330529945**
Option 3 ID : **264330529943**
Option 4 ID : **264330529944**
Status : **Answered**
Chosen Option : **4**

Q.7 Identify the segment that contains a grammatical error. If there is no error, select 'No error'.

George handing the / hairpin to Ron, / a moment later.

Ans

1. George handing the ✓
2. hairpin to Ron, ✗
3. a moment later. ✗
4. No error ✗

Question Type : **MCQ**
Question ID : **264330136641**
Option 1 ID : **264330535287**
Option 2 ID : **264330535288**
Option 3 ID : **264330535289**
Option 4 ID : **264330535290**
Status : **Answered**
Chosen Option : **3**

Q.8 Choose the word that is correctly spelt.

Ans

1. Liasion ✗
2. Indispensible ✗
3. Occurred ✓
4. Privilige ✗

Question Type : **MCQ**
Question ID : **264330136661**
Option 1 ID : **264330535365**
Option 2 ID : **264330535366**
Option 3 ID : **264330535363**
Option 4 ID : **264330535364**
Status : **Answered**
Chosen Option : **1**

Join Telegram Group "HaryanaJobs.in"

Q.9 Select the most appropriate word for the given group of words.

The medieval forerunner of chemistry

Ans

✗ 1. Anchor

✓ 2. Alchemy

✗ 3. Anthropologist

✗ 4. Curator

Question Type : **MCQ**
Question ID : **264330135781**
Option 1 ID : **264330532000**
Option 2 ID : **264330532001**
Option 3 ID : **264330532002**
Option 4 ID : **264330531999**
Status : **Answered**
Chosen Option : **2**

Q.10 **Choose the sentence with no spelling error.**

Ans

✗ 1. He supposed he should be thankfull.

✗ 2. He supposed he shuld be thankful.

✓ 3. He supposed he should be thankful.

✗ 4. He suposed he should be thankful.

Question Type : **MCQ**
Question ID : **264330134447**
Option 1 ID : **264330526759**
Option 2 ID : **264330526761**
Option 3 ID : **264330526762**
Option 4 ID : **264330526760**
Status : **Answered**
Chosen Option : **1**

Q.11 Select the word from the options which is exactly opposite in meaning to the bracketed word given in the sentence below.

Our financial situation had become (precarious).

Ans

✗ 1. Noisy

✗ 2. Insecure

✗ 3. Delicate

✓ 4. Stable

Question Type : **MCQ**
Question ID : **264330136658**
Option 1 ID : **264330535354**
Option 2 ID : **264330535353**
Option 3 ID : **264330535351**
Option 4 ID : **264330535352**
Status : **Answered**
Chosen Option : **3**

Join Telegram Group "HaryanaJobs.in"

Q.12 **Select the most appropriate option to fill in the blank.**
Fear evolved over millions of years to protect us from _____.

Ans
1. confidence ✗
2. danger ✓
3. birth ✗
4. courage ✗

Question Type : **MCQ**
Question ID : **264330134448**
Option 1 ID : **264330526766**
Option 2 ID : **264330526763**
Option 3 ID : **264330526765**
Option 4 ID : **264330526764**
Status : **Answered**
Chosen Option : **2**

Q.13 Select the most appropriate word for the given group of words.

A long wandering or voyage usually marked by many changes of fortune

Ans
1. Odyssey ✓
2. Ode ✗
3. Trip ✗
4. Pilgrimage ✗

Question Type : **MCQ**
Question ID : **264330136654**
Option 1 ID : **264330535335**
Option 2 ID : **264330535337**
Option 3 ID : **264330535336**
Option 4 ID : **264330535338**
Status : **Answered**
Chosen Option : **4**

Q.14 Fill in the blank with the most appropriate option.

I watched him with the excitement of _____ him to do anything at any time.

Ans
1. expecting ✓
2. accepting ✗
3. lacking ✗
4. excepting ✗

Question Type : **MCQ**
Question ID : **264330136645**
Option 1 ID : **264330535303**
Option 2 ID : **264330535304**
Option 3 ID : **264330535306**
Option 4 ID : **264330535305**
Status : **Answered**
Chosen Option : **4**

Join Telegram Group "HaryanaJobs.in"

Q.15 The statement below has been given with bracketed text. Select the option with correct idiom for the bracketed text.

Although Shagun was competently doing the project on her own, Pranav couldn't stop himself from (giving her unnecessary advice).

Ans

1. devil's advocate
2. being a backseat driver
3. a bitter pill to swallow
4. cutting the mustard

Question Type : **MCQ**
Question ID : **264330136660**
Option 1 ID : **264330535362**
Option 2 ID : **264330535360**
Option 3 ID : **264330535359**
Option 4 ID : **264330535361**
Status : **Answered**
Chosen Option : **1**

Q.16 Improve the underlined part of the sentence. Choose 'No improvement' as an answer if the sentence is grammatically correct.

The cat sits in the window and staring at the squirrel.

Ans

1. stared at
2. stare on
3. No improvement
4. stares at

Question Type : **MCQ**
Question ID : **264330136773**
Option 1 ID : **264330535797**
Option 2 ID : **264330535795**
Option 3 ID : **264330535798**
Option 4 ID : **264330535796**
Status : **Answered**
Chosen Option : **3**

Q.17 Fill in the blank with the most appropriate option.

The plan began to _____ once we all met to discuss it.

Ans

1. gel
2. gale
3. jail
4. jell

Question Type : **MCQ**
Question ID : **264330136664**
Option 1 ID : **264330535375**
Option 2 ID : **264330535378**
Option 3 ID : **264330535376**
Option 4 ID : **264330535377**
Status : **Answered**
Chosen Option : **2**

Join Telegram Group "HaryanaJobs.in"

Q.18 Improve the underlined part of the sentence. Choose 'No improvement' as an answer if the sentence is grammatically correct.

I'm recovering from the flu, and I still is feeling weak .

Ans

✗ 1. felt weakest

✗ 2. No improvement

✓ 3. feel weak

✗ 4. feels weakened

Question Type : **MCQ**
Question ID : **264330135207**
Option 1 ID : **264330529755**
Option 2 ID : **264330529758**
Option 3 ID : **264330529756**
Option 4 ID : **264330529757**
Status : **Answered**
Chosen Option : **2**

Q.19 **Choose the word that means the same as the given word.**
Consensus

Ans

✗ 1. Censure

✗ 2. Census

✓ 3. Agreement

✗ 4. Puck

Question Type : **MCQ**
Question ID : **264330134467**
Option 1 ID : **264330526838**
Option 2 ID : **264330526837**
Option 3 ID : **264330526835**
Option 4 ID : **264330526836**
Status : **Answered**
Chosen Option : **2**

Q.20 Find the part of the given sentence that has an error in it. If there is no error, choose 'No error'.
Humans have rapidly changing the balance of gases in the atmosphere.

Ans

✓ 1. changing the balance of

✗ 2. gases in the atmosphere.

✗ 3. No error

✗ 4. Humans have rapidly

Question Type : **MCQ**
Question ID : **264330136770**
Option 1 ID : **264330535784**
Option 2 ID : **264330535785**
Option 3 ID : **264330535786**
Option 4 ID : **264330535783**
Status : **Answered**
Chosen Option : **4**

Join Telegram Group "HaryanaJobs.in"

Comprehension:

In the following passage some words have been deleted. Fill in the blanks with the help of the alternatives given. Select the most appropriate option for each number.

I was surprised— (1) _____ at the news that my father spared me any thought, and second at my brother's compliment, (2) _____ it was backhanded. Dhri (3) _____ commented on my looks; nor did he encourage me to comment on his. Such useless (4) _____, he believed, made people vain. Was this another (5) _____ of change?

SubQuestion No : 21

Q.21 Select the most appropriate option to fill in the blank No. 1.

Ans

✗ 1. earlier

✗ 2. in the beginning

✓ 3. first

✗ 4. second

Question Type : **MCQ**
Question ID : **264330136700**
Option 1 ID : **264330535513**
Option 2 ID : **264330535514**
Option 3 ID : **264330535512**
Option 4 ID : **264330535511**
Status : **Answered**
Chosen Option : **3**

Comprehension:

In the following passage some words have been deleted. Fill in the blanks with the help of the alternatives given. Select the most appropriate option for each number.

I was surprised— (1) _____ at the news that my father spared me any thought, and second at my brother's compliment, (2) _____ it was backhanded. Dhri (3) _____ commented on my looks; nor did he encourage me to comment on his. Such useless (4) _____, he believed, made people vain. Was this another (5) _____ of change?

SubQuestion No : 22

Q.22 Select the most appropriate option to fill in the blank No. 2.

Ans

✗ 1. all

✗ 2. through

✓ 3. though

✗ 4. afterwards

Question Type : **MCQ**
Question ID : **264330136701**
Option 1 ID : **264330535517**
Option 2 ID : **264330535516**
Option 3 ID : **264330535518**
Option 4 ID : **264330535515**
Status : **Answered**
Chosen Option : **1**

Join Telegram Group "HaryanaJobs.in"

Comprehension:

In the following passage some words have been deleted. Fill in the blanks with the help of the alternatives given. Select the most appropriate option for each number.

I was surprised—(1) _____ at the news that my father spared me any thought, and second at my brother's compliment, (2) _____ it was backhanded. Dhri (3) _____ commented on my looks; nor did he encourage me to comment on his. Such useless (4) _____, he believed, made people vain. Was this another (5) _____ of change?

SubQuestion No : 23

Q.23 Select the most appropriate option to fill in the blank No. 3.

Ans

✗ 1. ever

✗ 2. always

✓ 3. never

✗ 4. forever

Question Type : **MCQ**
Question ID : **264330136702**
Option 1 ID : **264330535520**
Option 2 ID : **264330535521**
Option 3 ID : **264330535519**
Option 4 ID : **264330535522**
Status : **Answered**
Chosen Option : **2**

Comprehension:

In the following passage some words have been deleted. Fill in the blanks with the help of the alternatives given. Select the most appropriate option for each number.

I was surprised—(1) _____ at the news that my father spared me any thought, and second at my brother's compliment, (2) _____ it was backhanded. Dhri (3) _____ commented on my looks; nor did he encourage me to comment on his. Such useless (4) _____, he believed, made people vain. Was this another (5) _____ of change?

SubQuestion No : 24

Q.24 Select the most appropriate option to fill in the blank No. 4.

Ans

✗ 1. disclosure

✓ 2. talk

✗ 3. ode

✗ 4. babble

Question Type : **MCQ**
Question ID : **264330136703**
Option 1 ID : **264330535523**
Option 2 ID : **264330535525**
Option 3 ID : **264330535524**
Option 4 ID : **264330535526**
Status : **Not Answered**
Chosen Option : **--**

Join Telegram Group "HaryanaJobs.in"

Comprehension:

In the following passage some words have been deleted. Fill in the blanks with the help of the alternatives given. Select the most appropriate option for each number.

I was surprised—(1) _____ at the news that my father spared me any thought, and second at my brother's compliment, (2) _____ it was backhanded. Dhri (3) _____ commented on my looks; nor did he encourage me to comment on his. Such useless (4) _____, he believed, made people vain. Was this another (5) _____ of change?

SubQuestion No : 25

Q.25 Select the most appropriate option to fill in the blank No. 5.

Ans

✗ 1. signature

✗ 2. symbolic

✗ 3. light

✓ 4. sign

Question Type : **MCQ**
Question ID : **264330136704**
Option 1 ID : **264330535527**
Option 2 ID : **264330535529**
Option 3 ID : **264330535530**
Option 4 ID : **264330535528**
Status : **Not Answered**
Chosen Option : **--**

Join Telegram Group "HaryanaJobs.in"

Multi Tasking Non Technical Staff and Havaldar CBIC and CBN Examination 2022

Roll Number	HaryanaJobs.in
Candidate Name	HaryanaJobs.in
Venue Name	iON Digital Zone iDZ Karhi Road Amoudha
Exam Date	17/05/2023
Exam Time	9:00 AM - 10:30 AM
Subject	MTS Non Tech Havaldar CBIC and CBN Examination 2022

Section : **Numerical and Mathematical Ability**

Q.1 $44 \div 11 \times 4 + 5 \times 8 \div 4 - 7 \times 36 \div 14 + 7 \times 4$ का मान क्या है?

Ans
✗ 1. 24
✓ 2. 36
✗ 3. 33
✗ 4. 28

Question Type : **MCQ**
Question ID : **264330139013**
Option 1 ID : **264330544659**
Option 2 ID : **264330544662**
Option 3 ID : **264330544660**
Option 4 ID : **264330544661**
Status : **Answered**
Chosen Option : **2**

Q.2 एक दुकानदार एक वस्तु के अंकित मूल्य पर 20 प्रतिशत की छूट देता है और उसे 12 प्रतिशत की हानि होती है। यदि वस्तु को अंकित मूल्य पर बेचा जाए, तो लाभ प्रतिशत कितना होगा?

Ans
✗ 1. 9.69 प्रतिशत
✓ 2. 10 प्रतिशत
✗ 3. 8.33 प्रतिशत
✗ 4. 12.5 प्रतिशत

Question Type : **MCQ**
Question ID : **264330137143**
Option 1 ID : **264330537215**
Option 2 ID : **264330537216**
Option 3 ID : **264330537217**
Option 4 ID : **264330537218**
Status : **Answered**
Chosen Option : **2**

Join Telegram Group "HaryanaJobs.in"

Q.3 56 व्यक्ति एक पुल की मरम्मत 20 दिनों में कर सकते हैं। यदि 14 व्यक्ति और शामिल हो जाते हैं, तो कितने दिनों में पुल की मरम्मत की जा सकती है?

Ans
1. 14 दिनों में ✗
2. 12 दिनों में ✗
3. 16 दिनों में ✓
4. 18 दिनों में ✗

Question Type : **MCQ**
Question ID : **264330133770**
Option 1 ID : **264330524103**
Option 2 ID : **264330524104**
Option 3 ID : **264330524105**
Option 4 ID : **264330524106**
Status : **Answered**
Chosen Option : **3**

Q.4 यदि 2A = 3B = 7C है, तो A : B : C का मान क्या है?

Ans
1. 14 : 18 : 5 ✗
2. 21 : 7 : 6 ✗
3. 3 : 2 : 1 ✗
4. 21 : 14 : 6 ✓

Question Type : **MCQ**
Question ID : **264330137139**
Option 1 ID : **264330537202**
Option 2 ID : **264330537201**
Option 3 ID : **264330537199**
Option 4 ID : **264330537200**
Status : **Answered**
Chosen Option : **4**

Q.5 कार्तिक को 80 km/hr की चाल से स्थान X से स्थान Y तक की यात्रा करने में 4 घंटे का समय लगता है। वह 80% अधिक तेज़ चाल के साथ स्थान Y से स्थान Z तक की यात्रा करने में 1 घंटे का समय लेता है। पूरी यात्रा में स्थान X से स्थान Z तक की औसत चाल क्या है?

Ans
1. 88.6 km/hr ✗
2. 82.6 km/hr ✗
3. 92.8 km/hr ✓
4. 90.8 km/hr ✗

Question Type : **MCQ**
Question ID : **264330141032**
Option 1 ID : **264330552477**
Option 2 ID : **264330552478**
Option 3 ID : **264330552476**
Option 4 ID : **264330552475**
Status : **Not Answered**
Chosen Option : **--**

Join Telegram Group "HaryanaJobs.in"

Q.6 साधारण ब्याज की किसी दर पर Rs. 14500 की धनराशि 36 महीनों में Rs. 16675 हो जाएगी। तो वार्षिक ब्याज दर क्या है?

Ans

1. ✗ 4% वार्षिक
2. ✗ 6% वार्षिक
3. ✗ 7% वार्षिक
4. ✓ 5% वार्षिक

Question Type : **MCQ**
Question ID : **264330134091**
Option 1 ID : **264330525387**
Option 2 ID : **264330525389**
Option 3 ID : **264330525390**
Option 4 ID : **264330525388**
Status : **Answered**
Chosen Option : **1**

Q.7 एक बेलन की ऊँचाई और वक्र पृष्ठीय क्षेत्रफल क्रमशः 15 cm और 330 cm^2 है। बेलन का व्यास ज्ञात कीजिए।

Ans

1. ✗ 5 cm
2. ✗ 2 cm
3. ✗ 6 cm
4. ✓ 7 cm

Question Type : **MCQ**
Question ID : **264330133775**
Option 1 ID : **264330524124**
Option 2 ID : **264330524126**
Option 3 ID : **264330524123**
Option 4 ID : **264330524125**
Status : **Answered**
Chosen Option : **4**

Join Telegram Group "HaryanaJobs.in"

Q.8 नीचे दिए गए वृत्त आलेख में छः विद्यालयों में पढ़ने वाले छात्रों की संख्या को दर्शाया गया है। इन सभी छः विद्यालयों में पढ़ने वाले छात्रों की कुल संख्या 9000 है। इनमें से किसी एक विशिष्ट विद्यालय में पढ़ने वाले छात्रों की संख्या को इन सभी छः विद्यालयों में पढ़ने वाले छात्रों की कुल संख्या के प्रतिशत के रूप में दर्शाया गया है।

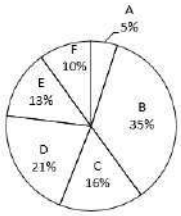

स्कूल A और B में मिलाकर पढ़ने वाले छात्रों की संख्या और स्कूल D और F में मिलाकर पढ़ने वाले छात्रों की संख्या के बीच कितना अंतर है?

Ans

1. ✗ 840
2. ✓ 810
3. ✗ 770
4. ✗ 790

Question Type : **MCQ**
Question ID : **264330137151**
Option 1 ID : **264330537249**
Option 2 ID : **264330537248**
Option 3 ID : **264330537250**
Option 4 ID : **264330537247**
Status : **Answered**
Chosen Option : **2**

Q.9 18 पुरुष एक कार्य को 50 दिनों में पूरा कर सकते हैं। यदि 25 पुरुष कार्य करते हैं, तो कार्य कितने दिनों में पूरा होगा?

Ans

1. ✗ 32 दिन
2. ✗ 48 दिन
3. ✓ 36 दिन
4. ✗ 25 दिन

Question Type : **MCQ**
Question ID : **264330137665**
Option 1 ID : **264330539269**
Option 2 ID : **264330539270**
Option 3 ID : **264330539267**
Option 4 ID : **264330539268**
Status : **Answered**
Chosen Option : **3**

Join Telegram Group "HaryanaJobs.in"

Q.10 वार्षिक चक्रवृद्धि ब्याज (वार्षिक रूप से संयोजित) की किस दर पर Rs.250000 की राशि 2 वर्षों में Rs.275625 हो जाएगी?

Ans

1. ✗ 3% वार्षिक
2. ✗ 8% वार्षिक
3. ✓ 5% वार्षिक
4. ✗ 10% वार्षिक

Question Type : **MCQ**
Question ID : **264330133638**
Option 1 ID : **264330523578**
Option 2 ID : **264330523576**
Option 3 ID : **264330523577**
Option 4 ID : **264330523575**
Status : **Not Answered**
Chosen Option : **--**

Q.11 Rs. 120 की धनराशि को p, q और r के बीच इस प्रकार बाँटा जाता है कि p को q से Rs. 9 अधिक मिलते हैं और q को r से Rs. 6 अधिक मिलते हैं। p, q और r के हिस्सों का क्रमशः अनुपात क्या है?

Ans

1. ✗ 11 : 8 : 10
2. ✓ 16 : 13 : 11
3. ✗ 18 : 15 : 13
4. ✗ 15 : 12 : 10

Question Type : **MCQ**
Question ID : **264330137140**
Option 1 ID : **264330537205**
Option 2 ID : **264330537206**
Option 3 ID : **264330537204**
Option 4 ID : **264330537203**
Status : **Answered**
Chosen Option : **2**

Join Telegram Group "HaryanaJobs.in"

Q.12 नीचे दी गई तालिका में दो कंपनियों द्वारा बेची गई 5 अलग-अलग प्रकार की बाइकों की संख्या को दर्शाया गया है।

	कंपनी	
बाइक	C1	C2
A	50	80
B	30	40
C	70	90
D	80	110
E	100	140

निम्नलिखित में से कौन-सा कथन सही है?

I. C1 द्वारा बेची गई बाइक A की संख्या और C2 द्वारा बेची गई बाइक D की संख्या का अनुपात 5 : 11 है।

II. C1 द्वारा बेची गई बाइक A, B, D और E की औसत संख्या 75 है।

Ans

✔ 1. केवल I

✘ 2. न तो I और न ही II

✘ 3. केवल II

✘ 4. I और II दोनों

Question Type : **MCQ**
Question ID : **264330139014**
Option 1 ID : **264330544663**
Option 2 ID : **264330544666**
Option 3 ID : **264330544664**
Option 4 ID : **264330544665**
Status : **Answered**
Chosen Option : **1**

Q.13 एक ठोस बेलन,जिसकी आधार की त्रिज्या 28 cm और ऊँचाई 24 cm है, को इसकी ऊँचाई से समद्विभाजित करके दो समरूप बेलन प्राप्त किए जाते हैं। कुल पृष्ठीय क्षेत्रफल में कितने प्रतिशत की वृद्धि होगी?

Ans

✘ 1. 41.92 प्रतिशत

✔ 2. 53.85 प्रतिशत

✘ 3. 61.72 प्रतिशत

✘ 4. 48.64 प्रतिशत

Question Type : **MCQ**
Question ID : **264330137678**
Option 1 ID : **264330539319**
Option 2 ID : **264330539322**
Option 3 ID : **264330539321**
Option 4 ID : **264330539320**
Status : **Answered**
Chosen Option : **2**

Join Telegram Group "HaryanaJobs.in"

Q.14 एक कमरे की लंबाई, चौड़ाई,और ऊँचाई क्रमशः 6 m 40 cm, 4 m 80 cm और 3 m 20 cm है। ऐसे सबसे लंबे फीते की लंबाई ज्ञात कीजिए जो कमरे के आयामों को सटीक रूप से नाप सकता है।

Ans

✗ 1. 1 m 20 cm

✓ 2. 1 m 60 cm

✗ 3. 1 m 40 cm

✗ 4. 1 m 80 cm

Question Type : **MCQ**
Question ID : **264330137147**
Option 1 ID : **264330537234**
Option 2 ID : **264330537231**
Option 3 ID : **264330537233**
Option 4 ID : **264330537232**
Status : **Answered**
Chosen Option : **2**

Q.15 11 संख्याओं का औसत 8 है। यदि प्रत्येक संख्या को तीन गुना कर दिया जाए, तो संख्याओं का नया औसत क्या होगा?

Ans

✓ 1. 24

✗ 2. 16

✗ 3. 32

✗ 4. 8

Question Type : **MCQ**
Question ID : **264330137133**
Option 1 ID : **264330537177**
Option 2 ID : **264330537175**
Option 3 ID : **264330537178**
Option 4 ID : **264330537176**
Status : **Answered**
Chosen Option : **1**

Q.16 एक व्यक्ति स्थान A से शुरू करके स्थान B तक 50 घंटे में पहुँचता है। वह 1/4 दूरी 5 km/hr की चाल से और शेष दूरी 15 km/hr की चाल से तय करता है। A से B के बीच की दूरी कितनी है?

Ans

✗ 1. 375 km

✗ 2. 525 km

✓ 3. 500 km

✗ 4. 425 km

Question Type : **MCQ**
Question ID : **264330137132**
Option 1 ID : **264330537174**
Option 2 ID : **264330537171**
Option 3 ID : **264330537173**
Option 4 ID : **264330537172**
Status : **Answered**
Chosen Option : **2**

Join Telegram Group "HaryanaJobs.in"

Q.17 यदि दो संख्याओं 260 और 390 का लघुत्तम समापवर्त्य (LCM) 780 है, तो उनका महत्तम समापवर्तक (HCF) ज्ञात कीजिए।

Ans

✔ 1. 130

✘ 2. 120

✘ 3. 133

✘ 4. 140

Question Type : **MCQ**
Question ID : **264330138414**
Option 1 ID : **264330542264**
Option 2 ID : **264330542263**
Option 3 ID : **264330542265**
Option 4 ID : **264330542266**
Status : **Answered**
Chosen Option : **1**

Q.18 एक संख्या में 5% की वृद्धि की जाती है और फिर बढ़ी हुई संख्या में 5% की कमी की जाती है। निवल वृद्धि या कमी प्रतिशत कितना है?

Ans

✘ 1. 0.50% कमी

✔ 2. 0.25% कमी

✘ 3. 1% वृद्धि

✘ 4. 0.75% वृद्धि

Question Type : **MCQ**
Question ID : **264330133631**
Option 1 ID : **264330523548**
Option 2 ID : **264330523549**
Option 3 ID : **264330523547**
Option 4 ID : **264330523550**
Status : **Answered**
Chosen Option : **1**

Q.19 एक व्यक्ति को 80 पेन Rs. 40 में बेचने पर 20 प्रतिशत की हानि होती है। 10 प्रतिशत का लाभ अर्जित करने के लिए 80 पेन का विक्रय मूल्य क्या होना चाहिए?

Ans

✘ 1. Rs. 60

✔ 2. Rs. 55

✘ 3. Rs. 80

✘ 4. Rs. 65

Question Type : **MCQ**
Question ID : **264330137138**
Option 1 ID : **264330537195**
Option 2 ID : **264330537196**
Option 3 ID : **264330537197**
Option 4 ID : **264330537198**
Status : **Answered**
Chosen Option : **2**

Join Telegram Group "HaryanaJobs.in"

Q.20 एक दुकानदार 105 m कपड़ा Rs. 12600 में Rs. 20 प्रति मीटर के लाभ पर बेचता है। 20 m कपड़े का क्रय मूल्य कितना है?

Ans

✗ 1. Rs. 1000

✗ 2. Rs. 4000

✓ 3. Rs. 2000

✗ 4. Rs. 3000

Question Type : **MCQ**
Question ID : **264330138042**
Option 1 ID : **264330540778**
Option 2 ID : **264330540775**
Option 3 ID : **264330540777**
Option 4 ID : **264330540776**
Status : **Answered**
Chosen Option : **3**

Section : **Reasoning Ability and Problem Solving**

Q.1 एक निश्चित कूट भाषा में, 'ASKING' को 'SAIKGN' लिखा जाता है। उस कूट भाषा में 'DECIDE' को कैसे लिखा जाएगा?

Ans

✓ 1. EDICED

✗ 2. EDCIDE

✗ 3. EDIBED

✗ 4. EDICDE

Question Type : **MCQ**
Question ID : **264330137369**
Option 1 ID : **264330538105**
Option 2 ID : **264330538104**
Option 3 ID : **264330538106**
Option 4 ID : **264330538103**
Status : **Answered**
Chosen Option : **1**

Join Telegram Group "HaryanaJobs.in"

Q.2 दी गई आकृति के उस सही दर्पण प्रतिबिंब को चुनिए, जो दर्पण MN को आकृति के दाईं ओर रखने पर बनेगा।

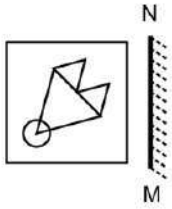

Ans

✗ 1.

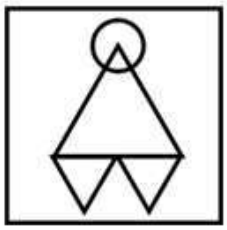

✗ 2.

✓ 3.

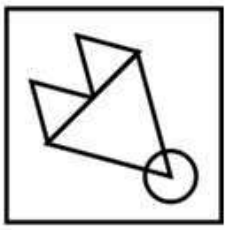

✗ 4.

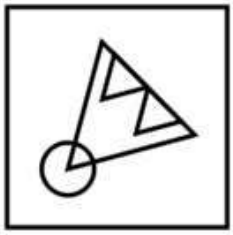

Question Type : **MCQ**
Question ID : **264330138827**
Option 1 ID : **264330543917**
Option 2 ID : **264330543916**
Option 3 ID : **264330543915**
Option 4 ID : **264330543918**
Status : **Answered**
Chosen Option : **3**

Join Telegram Group "HaryanaJobs.in"

Q.3 (::) के बाईं ओर दिए गए शब्द एक-दूसरे से किसी तर्क/नियम/संबंध द्वारा संबंधित हैं। उसी तर्क/नियम/संबंध के आधार पर दिए गए विकल्पों में से (::) के दाईं ओर लुप्त शब्द/शब्द युग्म को चुनिए।

वियना (Vienna) : ऑस्ट्रिया :: ?

Ans

1. ✗ रूस : मॉस्को
2. ✗ केन्या : नायरोबी
3. ✓ थिम्फू : भूटान
4. ✗ पाकिस्तान : इस्लामाबाद

Question Type : **MCQ**
Question ID : **264330137089**
Option 1 ID : **264330536999**
Option 2 ID : **264330537002**
Option 3 ID : **264330537001**
Option 4 ID : **264330537000**
Status : **Answered**
Chosen Option : **2**

Q.4 नीचे दिए गए प्रश्न में कुछ कथन दिए गए हैं और उन कथनों के आधार पर कुछ निष्कर्ष दिए गए हैं। आपको मानना है कि दिए गए कथन सत्य हैं चाहे वे समान्यतः ज्ञात तथ्यों से अलग प्रतीत होते हों। सभी निष्कर्षों को पढ़िए और फिर निश्चय कीजिए कि दिए गए निष्कर्षों में से कौन-सा निष्कर्ष तार्किक रूप से दिए गए कथनों के अनुसार है।

कथन:

I. कोई N, A नहीं है।

II. सभी A, T हैं।

निष्कर्ष:

I. कुछ T, A हैं।

II. कुछ N, T हैं।

III. कोई A, N नहीं है।

Ans

1. ✗ सभी निष्कर्ष कथनों के अनुसार हैं
2. ✓ दोनों निष्कर्ष I और III कथनों के अनुसार हैं
3. ✗ दोनों निष्कर्ष II और III कथनों के अनुसार हैं
4. ✗ दोनों निष्कर्ष I और II कथनों के अनुसार हैं

Question Type : **MCQ**
Question ID : **264330137098**
Option 1 ID : **264330537038**
Option 2 ID : **264330537037**
Option 3 ID : **264330537036**
Option 4 ID : **264330537035**
Status : **Answered**
Chosen Option : **2**

Join Telegram Group "HaryanaJobs.in"

Q.5 कौन-सी उत्तर आकृति प्रश्न आकृति में पैटर्न को पूरा करेगी?

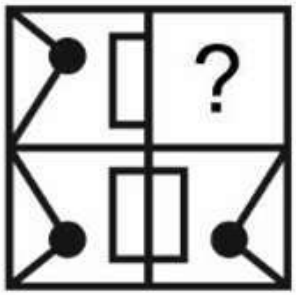

Ans

✗ 1.

✓ 2. 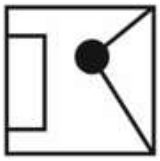

✗ 3.

✗ 4.

Question Type : **MCQ**
Question ID : **264330137107**
Option 1 ID : **264330537071**
Option 2 ID : **264330537074**
Option 3 ID : **264330537072**
Option 4 ID : **264330537073**
Status : **Answered**
Chosen Option : **2**

Q.6 दी गई श्रृंखला में निम्नलिखित में से कौन-सी संख्या प्रश्न चिन्ह (?) के स्थान पर आएगी?
25, 36, 49, 64, 81, 100, 121, 144, 169, ?

Ans

✓ 1. 196

✗ 2. 256

✗ 3. 204

✗ 4. 342

Question Type : **MCQ**
Question ID : **264330133377**
Option 1 ID : **264330522539**
Option 2 ID : **264330522541**
Option 3 ID : **264330522540**
Option 4 ID : **264330522542**
Status : **Answered**
Chosen Option : **1**

Join Telegram Group "HaryanaJobs.in"

Q.7 छः शिक्षक अनिल, कमल, राम, संजय, आकाश और विवेक एक वृत्ताकार मेज के चारों ओर केंद्र की ओर मुख करके बैठे हैं (परंतु जरूरी नहीं कि वे इसी क्रम में बैठे हों)। राम, विवेक के दाईं ओर तीसरे स्थान पर बैठा है। विवेक, अनिल के दाईं ओर दूसरे स्थान पर बैठा है। आकाश, अनिल के ठीक दाईं ओर है। कमल, विवेक का निकटतम पड़ोसी नहीं है। कमल और विवेक दोनों का निकटतम पड़ोसी कौन है?

Ans
1. ✗ राम
2. ✗ आकाश
3. ✓ संजय
4. ✗ अनिल

Question Type : **MCQ**
Question ID : **264330137094**
Option 1 ID : **264330537022**
Option 2 ID : **264330537019**
Option 3 ID : **264330537021**
Option 4 ID : **264330537020**
Status : **Answered**
Chosen Option : **2**

Q.8 एक श्रृंखला दी गई है जिसमें एक पद लुप्त है। दिए गए विकल्पों में से उस सही विकल्प को चुनिए जो श्रृंखला को पूरा करेगा।

APCE, DSYA, GVUW, JYQS, ?

Ans
1. ✗ BMMO
2. ✓ MBMO
3. ✗ NBNO
4. ✗ NBMO

Question Type : **MCQ**
Question ID : **264330137086**
Option 1 ID : **264330536988**
Option 2 ID : **264330536987**
Option 3 ID : **264330536990**
Option 4 ID : **264330536989**
Status : **Answered**
Chosen Option : **2**

Q.9 उस विकल्प को चुनिए जो तीसरी संख्या से ठीक उसी तरह संबंधित है जिस तरह दूसरी संख्या पहली संख्या से संबंधित है।

7 : 56 : : 12 : ?

Ans
1. ✓ 156
2. ✗ 165
3. ✗ 256
4. ✗ 110

Question Type : **MCQ**
Question ID : **264330133379**
Option 1 ID : **264330522550**
Option 2 ID : **264330522547**
Option 3 ID : **264330522549**
Option 4 ID : **264330522548**
Status : **Answered**
Chosen Option : **1**

Join Telegram Group "HaryanaJobs.in"

Q.10 सात व्यक्ति अनिल, कमल, राम, संजय, आकाश, विवेक और राहुल एक वृत्ताकार मेज के चारों ओर केंद्र से विपरीत दिशा में मुख करके बैठे हैं (परंतु जरूरी नहीं कि वे इसी क्रम में बैठे हों)। विवेक, कमल और राहुल दोनों का निकटतम पड़ोसी है। कमल, आकाश के बाईं ओर दूसरे स्थान पर बैठा है। अनिल, आकाश और संजय दोनों का निकटतम पड़ोसी है। संजय के दाईं ओर दूसरे स्थान पर कौन बैठा है?

Ans

✔ 1. विवेक

✘ 2. आकाश

✘ 3. कमल

✘ 4. अनिल

Question Type : **MCQ**
Question ID : **264330137095**
Option 1 ID : **264330537026**
Option 2 ID : **264330537025**
Option 3 ID : **264330537023**
Option 4 ID : **264330537024**
Status : **Answered**
Chosen Option : **2**

Q.11 एक निश्चित कूट भाषा में, 'WALL' को '24' लिखा जाता है। उस कूट भाषा में 'FLOOR' को कैसे लिखा जाएगा?

Ans

✔ 1. 33

✘ 2. 23

✘ 3. 66

✘ 4. 43

Question Type : **MCQ**
Question ID : **264330133699**
Option 1 ID : **264330523821**
Option 2 ID : **264330523820**
Option 3 ID : **264330523822**
Option 4 ID : **264330523819**
Status : **Answered**
Chosen Option : **3**

Q.12 दिए गए समीकरण को सही करने के लिए किन दो चिन्हों को आपस में बदला जाना चाहिए?

44 ÷ 11 + 7 × 3 - 19 = 2

Ans

✔ 1. - और +

✘ 2. - और =

✘ 3. + और ÷

✘ 4. = और ÷

Question Type : **MCQ**
Question ID : **264330133712**
Option 1 ID : **264330523872**
Option 2 ID : **264330523871**
Option 3 ID : **264330523874**
Option 4 ID : **264330523873**
Status : **Answered**
Chosen Option : **3**

Join Telegram Group "HaryanaJobs.in"

Q.13 दिए गए दो चिन्हों और दो संख्याओं को आपस में बदलने पर, दिए गए समीकरण का मान क्या होगा?

+ और -, 7 और 9 ; 8 × 7 + 9 ÷ 1 - 5

Ans
1. 70
2. 10
3. 60
4. 40

Question Type : **MCQ**
Question ID : **264330137103**
Option 1 ID : **264330537056**
Option 2 ID : **264330537055**
Option 3 ID : **264330537058**
Option 4 ID : **264330537057**
Status : **Answered**
Chosen Option : **3**

Join Telegram Group "HaryanaJobs.in"

Q.14 उस विकल्प आकृति को चुनिए जिसमें दी गई आकृति (X) इसके भाग के रूप में निहित है (घूर्णन की अनुमति नहीं है)।

X

Ans

✔ 1.

✘ 2.

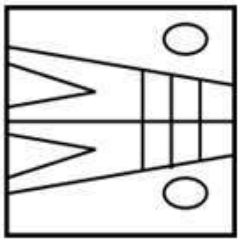

✘ 3.

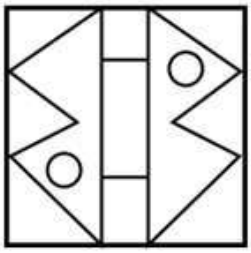

✘ 4.

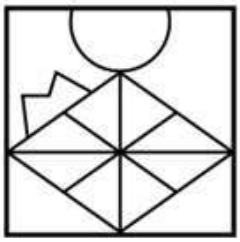

Question Type : **MCQ**
Question ID : **264330138826**
Option 1 ID : **264330543911**
Option 2 ID : **264330543913**
Option 3 ID : **264330543914**
Option 4 ID : **264330543912**
Status : **Answered**
Chosen Option : **1**

Join Telegram Group "HaryanaJobs.in"

Q.15 एक निश्चित कूट भाषा में, 'FOREIGN' को 'EFGINOR' लिखा जाता है। उस कूट भाषा में 'NUCLEAR' को कैसे लिखा जाएगा?

Ans

1. AECLNRU ✗
2. ACELRUN ✗
3. ACELNUR ✗
4. ACELNRU ✓

Question Type : **MCQ**
Question ID : **264330137543**
Option 1 ID : **264330538780**
Option 2 ID : **264330538781**
Option 3 ID : **264330538782**
Option 4 ID : **264330538779**
Status : **Answered**
Chosen Option : **1**

Q.16 पाँच लड़कियों मानसी, काजल, रीतू, टीना और रिया के अंकों की तुलना की जाती है। रिया के अंक मानसी से कम लेकिन टीना से अधिक हैं। रीतू के अंक टीना, रिया और मानसी से कम हैं। काजल के अंक रीतू से कम हैं। कितनी लड़कियों के अंक रिया के अंकों से कम हैं?

Ans

1. 3 ✓
2. 0 ✗
3. 2 ✗
4. 1 ✗

Question Type : **MCQ**
Question ID : **264330137096**
Option 1 ID : **264330537029**
Option 2 ID : **264330537030**
Option 3 ID : **264330537028**
Option 4 ID : **264330537027**
Status : **Answered**
Chosen Option : **3**

Q.17 (::) के बाईं ओर दिए गए शब्द एक-दूसरे से किसी तर्क/नियम/संबंध द्वारा संबंधित हैं। उसी तर्क/नियम/संबंध के आधार पर दिए गए विकल्पों में से (::) के दाईं ओर लुप्त शब्द/शब्द युग्म को चुनिए।

आर्द्रतामापी : आर्द्रता :: वायुवेगमापी : ?

Ans

1. लंबाई ✗
2. पवन ✓
3. ताप ✗
4. विद्युत धारा ✗

Question Type : **MCQ**
Question ID : **264330137088**
Option 1 ID : **264330536997**
Option 2 ID : **264330536998**
Option 3 ID : **264330536996**
Option 4 ID : **264330536995**
Status : **Answered**
Chosen Option : **2**

Join Telegram Group "HaryanaJobs.in"

Q.18 निम्नलिखित प्रश्न में, दी गई श्रृंखला में लुप्त संख्या को चुनिए।

10, 4, 3, 3.5, 6, ?

Ans
1. 9
2. 14
3. 10
4. 12

Question Type : **MCQ**
Question ID : **264330137100**
Option 1 ID : **264330537046**
Option 2 ID : **264330537044**
Option 3 ID : **264330537043**
Option 4 ID : **264330537045**
Status : **Answered**
Chosen Option : **1**

Q.19 नीचे दिए गए प्रश्न में कुछ कथन दिए गए हैं और उन कथनों के आधार पर कुछ निष्कर्ष दिए गए हैं। आपको मानना है कि दिए गए कथन सत्य हैं चाहे वे समान्यतः ज्ञात तथ्यों से अलग प्रतीत होते हों। सभी निष्कर्षों को पढ़िए और फिर निश्चय कीजिए कि दिए गए निष्कर्षों में से कौन-सा निष्कर्ष तार्किक रूप से दिए गए कथनों के अनुसार है।

कथन:

I. कोई कुर्सी, ठोस नहीं है।

II. कोई मेज, ठोस नहीं है।

निष्कर्ष:

I. कुछ मेज, कुर्सी हैं।

II. कोई ठोस, कुर्सी नहीं है।

Ans
1. दोनों निष्कर्ष I और II कथनों के अनुसार हैं
2. केवल निष्कर्ष II कथनों के अनुसार है
3. केवल निष्कर्ष I कथनों के अनुसार है
4. कोई भी निष्कर्ष कथनों के अनुसार नहीं है

Question Type : **MCQ**
Question ID : **264330137097**
Option 1 ID : **264330537033**
Option 2 ID : **264330537032**
Option 3 ID : **264330537031**
Option 4 ID : **264330537034**
Status : **Answered**
Chosen Option : **4**

Join Telegram Group "HaryanaJobs.in"

Q.20 उस विकल्प को चुनिए जिसमें समुच्चय की संख्याएँ वही संबंध साझा करती हैं जो दिए गए समुच्चय में संख्याओं द्वारा साझा किया जाता है। (ध्यान दें: संख्याओं को उनके घटक अंकों में अलग-अलग किए बिना, पूर्ण संख्याओं पर संक्रियाएँ की जानी चाहिए। उदा. 13 - 13 पर संक्रियाएँ जैसे 13 को जोड़ना /घटाना /गुणा करना आदि किया जा सकता है। 13 को 1 और 3 में अलग-अलग करने की और फिर 1 और 3 पर गणितीय संक्रियाएँ करने की अनुमति नहीं है)

(5, 50, 500)

(3, 30, 300)

Ans
✔ 1. (7, 70, 700)
✘ 2. (11, 110, 2200)
✘ 3. (14, 140, 1500)
✘ 4. (12, 220, 440)

Question Type : **MCQ**
Question ID : **264330137102**
Option 1 ID : **264330537051**
Option 2 ID : **264330537052**
Option 3 ID : **264330537054**
Option 4 ID : **264330537053**
Status : **Answered**
Chosen Option : **1**

Section : **General Awareness**

Q.1 भारत में अभियंता दिवस _____ की स्मृति में मनाया जाता है।

Ans
✘ 1. कल्पना चावला
✔ 2. डॉ. एम. विश्वेश्वरैया
✘ 3. सतीश धवन
✘ 4. ए. पी. जे. अब्दुल कलाम

Question Type : **MCQ**
Question ID : **264330137019**
Option 1 ID : **264330536721**
Option 2 ID : **264330536722**
Option 3 ID : **264330536719**
Option 4 ID : **264330536720**
Status : **Answered**
Chosen Option : **2**

Join Telegram Group "HaryanaJobs.in"

Q.2 वृक्ष और झाड़ियों की खेती _____ कहलाती है।

Ans
✔ 1. अर्बोरीकल्चर
✘ 2. ऐविकल्चर
✘ 3. एपिकल्चर
✘ 4. विटिकल्चर

Question Type : **MCQ**
Question ID : **264330137720**
Option 1 ID : **264330539488**
Option 2 ID : **264330539487**
Option 3 ID : **264330539490**
Option 4 ID : **264330539489**
Status : **Answered**
Chosen Option : **1**

Q.3 बजट 2022 में की गई घोषणा के अनुसार, कॉर्पोरेट अधिभार (surcharge) को 12% से घटाकर _____ कर दिया गया था।

Ans
✔ 1. 7%
✘ 2. 10%
✘ 3. 9%
✘ 4. 5%

Question Type : **MCQ**
Question ID : **264330137735**
Option 1 ID : **264330539549**
Option 2 ID : **264330539547**
Option 3 ID : **264330539550**
Option 4 ID : **264330539548**
Status : **Answered**
Chosen Option : **2**

Q.4 कथक नृत्य का राष्ट्रीय संस्थान _____ में स्थित है।

Ans
✘ 1. लखनऊ
✔ 2. नई दिल्ली
✘ 3. वाराणसी
✘ 4. मेरठ

Question Type : **MCQ**
Question ID : **264330137011**
Option 1 ID : **264330536687**
Option 2 ID : **264330536690**
Option 3 ID : **264330536688**
Option 4 ID : **264330536689**
Status : **Answered**
Chosen Option : **2**

Join Telegram Group "HaryanaJobs.in"

Q.5 भारत ने टोक्यो ओलंपिक 2020 (वर्ष 2021 में खेले गए) में कुल कितने पदक जीते?

Ans
1. छः
2. सात
3. पाँच
4. आठ

Question Type : **MCQ**
Question ID : **264330133860**
Option 1 ID : **264330524464**
Option 2 ID : **264330524465**
Option 3 ID : **264330524463**
Option 4 ID : **264330524466**
Status : **Answered**
Chosen Option : **2**

Q.6 संकरी नलियों द्वारा पौधों को जल देने की तकनीक, जो सीधे उनकी जड़ों तक जल पहुँचाती है _____ कहलाती है।

Ans
1. पृष्ठीय सिंचाई
2. ड्रिप सिंचाई
3. नहर सिंचाई
4. छिड़काव सिंचाई

Question Type : **MCQ**
Question ID : **264330133870**
Option 1 ID : **264330524505**
Option 2 ID : **264330524503**
Option 3 ID : **264330524504**
Option 4 ID : **264330524506**
Status : **Answered**
Chosen Option : **2**

Q.7 भारत में मेलोडी क्वीन के नाम से किसे जाना जाता था?

Ans
1. अनुराधा पौडवाल
2. ज़रीन एस. शर्मा
3. लता मंगेशकर
4. शुभा मुद्गल

Question Type : **MCQ**
Question ID : **264330137017**
Option 1 ID : **264330536711**
Option 2 ID : **264330536714**
Option 3 ID : **264330536713**
Option 4 ID : **264330536712**
Status : **Answered**
Chosen Option : **3**

Join Telegram Group "HaryanaJobs.in"

Q.8 भारत के सर्वोच्च न्यायालय द्वारा, बेटियों को उनकी पैतृक संपत्ति में समान अधिकार प्रदान करने के लिए किस अधिनियम में संशोधन किया गया है?

Ans
1. न्यायिक अवमानना अधिनियम (The Contempt of Courts Act)
2. हिन्दू विवाह अधिनियम (Hindu Marriage Act)
3. हिन्दू उत्तराधिकार अधिनियम (Hindu Succession Act)
4. शारदा अधिनियम (Sarda Act)

Question Type : **MCQ**
Question ID : **264330134057**
Option 1 ID : **264330525252**
Option 2 ID : **264330525254**
Option 3 ID : **264330525253**
Option 4 ID : **264330525251**
Status : **Answered**
Chosen Option : **3**

Q.9 भारत की सीमा _____ में अफगानिस्तान और पाकिस्तान से लगती है।

Ans
1. उत्तर-पश्चिम
2. उत्तर-पूर्व
3. दक्षिण
4. दक्षिण-पश्चिम

Question Type : **MCQ**
Question ID : **264330137981**
Option 1 ID : **264330540531**
Option 2 ID : **264330540532**
Option 3 ID : **264330540534**
Option 4 ID : **264330540533**
Status : **Answered**
Chosen Option : **1**

Q.10 वी. सत्यनारायण सरमा (V. Satyanarayana Sarma), जिन्हें 'सत्यम' के नाम से जाना जाता है, निम्नलिखित में से किस नृत्य शैली से संबंधित हैं?

Ans
1. मोहिनीअट्टम
2. भरतनाट्यम
3. कथकली
4. कुचिपुड़ी

Question Type : **MCQ**
Question ID : **264330137730**
Option 1 ID : **264330539528**
Option 2 ID : **264330539529**
Option 3 ID : **264330539530**
Option 4 ID : **264330539527**
Status : **Answered**
Chosen Option : **2**

Join Telegram Group "HaryanaJobs.in"

Q.11 2011 की जनगणना के अनुसार, निम्न में से किस राज्य का जनसंख्या घनत्व सर्वाधिक है?

Ans
1. उत्तरप्रदेश
2. तमिलनाडु
3. महाराष्ट्र
4. बिहार

Question Type : **MCQ**
Question ID : **264330137047**
Option 1 ID : **264330536834**
Option 2 ID : **264330536833**
Option 3 ID : **264330536832**
Option 4 ID : **264330536831**
Status : **Answered**
Chosen Option : **1**

Q.12 वर्षा को _____ नामक एक यंत्र द्वारा मापा जाता है।

Ans
1. वर्षामापी (rain gauge)
2. वर्षा परिकलक (rain calculator)
3. अवक्षेपक (precipitator)
4. रेन कैचर (rain catcher)

Question Type : **MCQ**
Question ID : **264330133871**
Option 1 ID : **264330524508**
Option 2 ID : **264330524509**
Option 3 ID : **264330524510**
Option 4 ID : **264330524507**
Status : **Answered**
Chosen Option : **1**

Q.13 राष्ट्रकूट वंश के संस्थापक _____ थे।

Ans
1. दन्तिदुर्ग
2. कृष्णदुर्ग
3. अमोघवर्ष
4. गोविंददुर्ग

Question Type : **MCQ**
Question ID : **264330133878**
Option 1 ID : **264330524536**
Option 2 ID : **264330524538**
Option 3 ID : **264330524535**
Option 4 ID : **264330524537**
Status : **Answered**
Chosen Option : **2**

Join Telegram Group "HaryanaJobs.in"

Q.14 "उगादि" का त्योहार हर वर्ष हिंदू महीने _____ के पहले दिन मनाया जाता है।

Ans
1. आषाढ़
2. चैत्र
3. ज्येष्ठ
4. कार्तिक

Question Type : **MCQ**
Question ID : **264330138872**
Option 1 ID : **264330544097**
Option 2 ID : **264330544096**
Option 3 ID : **264330544098**
Option 4 ID : **264330544095**
Status : **Answered**
Chosen Option : **1**

Q.15 मोतीलाल नेहरू और सी.आर. दास ने किस आंदोलन में अपनी वकालत छोड़ दी?

Ans
1. असहयोग आंदोलन (Non-Cooperation Movement)
2. सविनय अवज्ञा आंदोलन (Civil Disobedience Movement)
3. स्वाभिमान आंदोलन (Self-respect Movement)
4. भारत छोड़ो आंदोलन (Quit India Movement)

Question Type : **MCQ**
Question ID : **264330138895**
Option 1 ID : **264330544189**
Option 2 ID : **264330544188**
Option 3 ID : **264330544190**
Option 4 ID : **264330544187**
Status : **Answered**
Chosen Option : **4**

Q.16 "वन लाइफ इज नॉट इनफ (One Life is Not Enough)" निम्नलिखित में से किस लेखक द्वारा लिखी गई है?

Ans
1. झुंपा लाहिड़ी
2. फ़राज़ अहमद
3. के. नटवर सिंह
4. खुशवंत सिंह

Question Type : **MCQ**
Question ID : **264330137728**
Option 1 ID : **264330539522**
Option 2 ID : **264330539521**
Option 3 ID : **264330539519**
Option 4 ID : **264330539520**
Status : **Not Answered**
Chosen Option : **--**

Join Telegram Group "HaryanaJobs.in"

Q.17 ऐसे पदार्थों, जिनसे होकर वस्तुओं को देख तो सकते हैं, परंतु बहुत स्पष्ट नहीं देखा जा सकता, उन्हें _____ कहते हैं।

Ans
1. अपारदर्शी पदार्थ
2. पारभासी पदार्थ
3. संवाही पदार्थ
4. पारदर्शी पदार्थ

Question Type : **MCQ**
Question ID : **264330133872**
Option 1 ID : **264330524513**
Option 2 ID : **264330524512**
Option 3 ID : **264330524514**
Option 4 ID : **264330524511**
Status : **Answered**
Chosen Option : **2**

Q.18 "गोपुरम (Gopuram)" या मंदिर का प्रवेश द्वार किस मंदिर स्थापत्यकला की विशेषता है?

Ans
1. उत्तर भारतीय मंदिर स्थापत्यकला
2. बौद्ध स्थापत्यकला
3. दक्षिण भारतीय मंदिर स्थापत्यकला
4. जैन स्थापत्यकला

Question Type : **MCQ**
Question ID : **264330134060**
Option 1 ID : **264330525263**
Option 2 ID : **264330525265**
Option 3 ID : **264330525264**
Option 4 ID : **264330525266**
Status : **Answered**
Chosen Option : **3**

Q.19 कलिंग (Kalinga), जिसे सम्राट अशोक ने जीता था, _____ का प्राचीन नाम है।

Ans
1. तटीय उड़ीसा
2. तटीय बंगाल
3. तटीय कर्नाटक
4. तटीय तमिलनाडु

Question Type : **MCQ**
Question ID : **264330138892**
Option 1 ID : **264330544176**
Option 2 ID : **264330544175**
Option 3 ID : **264330544177**
Option 4 ID : **264330544178**
Status : **Answered**
Chosen Option : **1**

Join Telegram Group "HaryanaJobs.in"

Q.20 1875 के दक्कन विद्रोह _____ में हुए थे।

Ans
1. बिहार
2. हिमाचल प्रदेश
3. महाराष्ट्र
4. पश्चिम बंगाल

Question Type : **MCQ**
Question ID : **264330134071**
Option 1 ID : **264330525309**
Option 2 ID : **264330525307**
Option 3 ID : **264330525308**
Option 4 ID : **264330525310**
Status : **Answered**
Chosen Option : **3**

Q.21 निम्नलिखित में से किस अनुच्छेद में, "संस्कृति एवं शिक्षा के अधिकार" का उल्लेख किया गया है?

Ans
1. अनुच्छेद 19 - 22
2. अनुच्छेद 23 - 24
3. अनुच्छेद 25 - 28
4. अनुच्छेद 29 - 30

Question Type : **MCQ**
Question ID : **264330137023**
Option 1 ID : **264330536738**
Option 2 ID : **264330536737**
Option 3 ID : **264330536736**
Option 4 ID : **264330536735**
Status : **Answered**
Chosen Option : **1**

Q.22 Water comes out of the leaves in the form of vapour by a process called _____.

Ans
1. creepers
2. venation
3. transportation
4. transpiration

Question Type : **MCQ**
Question ID : **264330137024**
Option 1 ID : **264330536740**
Option 2 ID : **264330536739**
Option 3 ID : **264330536742**
Option 4 ID : **264330536741**
Status : **Answered**
Chosen Option : **4**

Join Telegram Group "HaryanaJobs.in"

Q.23 डूरंड कप (Durand Cup) की स्थापना शिमला में वर्ष _____ में हुई थी।

Ans
✔ 1. 1888
✘ 2. 1868
✘ 3. 1858
✘ 4. 1878

Question Type : **MCQ**
Question ID : **264330137014**
Option 1 ID : **264330536702**
Option 2 ID : **264330536700**
Option 3 ID : **264330536699**
Option 4 ID : **264330536701**
Status : **Not Answered**
Chosen Option : **--**

Q.24 किस बल के कारण पवनें उत्तरी गोलार्द्ध में दाहिनी ओर तथा दक्षिणी गोलार्द्ध में बाईं ओर विक्षेपित हो जाती हैं?

Ans
✔ 1. कोरिआलिस बल
✘ 2. चुंबकीय बल
✘ 3. गुरुत्वाकर्षण बल
✘ 4. घर्षण बल

Question Type : **MCQ**
Question ID : **264330137029**
Option 1 ID : **264330536760**
Option 2 ID : **264330536761**
Option 3 ID : **264330536759**
Option 4 ID : **264330536762**
Status : **Answered**
Chosen Option : **1**

Q.25 केंद्र सरकार की "पहल योजना (PAHAL Scheme)"_____ से संबंधित है।

Ans
✔ 1. एलपीजी (LPG) सब्सिडी
✘ 2. स्नानगृह निर्माण
✘ 3. बालिका छात्रवृत्ति
✘ 4. चिकित्सा सब्सिडी

Question Type : **MCQ**
Question ID : **264330137020**
Option 1 ID : **264330536725**
Option 2 ID : **264330536723**
Option 3 ID : **264330536726**
Option 4 ID : **264330536724**
Status : **Answered**
Chosen Option : **3**

Section : **English Language and Comprehension**

Join Telegram Group "HaryanaJobs.in"

Q.1 In the following question, out of the given four alternatives, select the alternative which best expresses the meaning of the Idiom/Phrase.

To fly into a rage

Ans

✔ 1. To get very angry

✘ 2. To make inappropriate gestures

✘ 3. To be very excited

✘ 4. To harm oneself

Question Type : **MCQ**
Question ID : **264330135303**
Option 1 ID : **264330530125**
Option 2 ID : **264330530123**
Option 3 ID : **264330530124**
Option 4 ID : **264330530126**
Status : **Answered**
Chosen Option : **3**

Q.2 Select the appropriate synonym for the underlined word.

There are actually many different versions of "Cinderella."

Ans

✘ 1. Signals

✔ 2. Variations

✘ 3. Problems

✘ 4. Features

Question Type : **MCQ**
Question ID : **264330135298**
Option 1 ID : **264330530105**
Option 2 ID : **264330530103**
Option 3 ID : **264330530106**
Option 4 ID : **264330530104**
Status : **Answered**
Chosen Option : **2**

Q.3 Choose the sentence with no spelling error.

Ans

✘ 1. We can't blame a bad governmnet budget.

✘ 2. We can't blamme a bad government buget.

✔ 3. We can't blame a bad government budget.

✘ 4. We can't blame a bad goverment budget.

Question Type : **MCQ**
Question ID : **264330136844**
Option 1 ID : **264330536067**
Option 2 ID : **264330536069**
Option 3 ID : **264330536068**
Option 4 ID : **264330536070**
Status : **Answered**
Chosen Option : **3**

Join Telegram Group "HaryanaJobs.in"

Q.4 A sentence has been given with a blank to be filled with an appropriate option. Choose the correct alternative.

I have _____ to understand your problem.

Ans

✗ 1. begin

✓ 2. begun

✗ 3. beginning

✗ 4. began

Question Type : **MCQ**
Question ID : **264330135288**
Option 1 ID : **264330530068**
Option 2 ID : **264330530069**
Option 3 ID : **264330530067**
Option 4 ID : **264330530070**
Status : **Answered**
Chosen Option : **2**

Q.5 Select the appropriate antonym for the underlined word.

Many children still do not have access to quality education that will harness their inherent abilities and talent.

Ans

✗ 1. handle

✗ 2. exploit

✓ 3. misapply

✗ 4. direct

Question Type : **MCQ**
Question ID : **264330135301**
Option 1 ID : **264330530116**
Option 2 ID : **264330530115**
Option 3 ID : **264330530117**
Option 4 ID : **264330530118**
Status : **Answered**
Chosen Option : **1**

Q.6 A sentence has been given with a blank to be filled with an appropriate option. Choose the correct alternative.

The small amount of fusion fuel _____ to be heated to huge temperatures.

Ans

✗ 1. needing

✗ 2. need

✗ 3. needful

✓ 4. needs

Question Type : **MCQ**
Question ID : **264330136880**
Option 1 ID : **264330536210**
Option 2 ID : **264330536208**
Option 3 ID : **264330536209**
Option 4 ID : **264330536207**
Status : **Answered**
Chosen Option : **4**

Join Telegram Group "HaryanaJobs.in"

Q.7 Select the most appropriate option to fill in the blank.

His _____ of smoking in restaurants created a lot of issues in New York.

Ans

✔ 1. habit

✘ 2. reputation

✘ 3. orbit

✘ 4. hatred

Question Type : **MCQ**
Question ID : **264330136845**
Option 1 ID : **264330536073**
Option 2 ID : **264330536071**
Option 3 ID : **264330536074**
Option 4 ID : **264330536072**
Status : **Answered**
Chosen Option : **1**

Q.8 Find the part of the given sentence that has an error in it. If there is no error, choose 'No error'.

Largest farmers usually have more money, social power and local influence.

Ans

✘ 1. No error

✔ 2. Largest farmers usually

✘ 3. and local influence.

✘ 4. have more money, social power

Question Type : **MCQ**
Question ID : **264330135284**
Option 1 ID : **264330530054**
Option 2 ID : **264330530051**
Option 3 ID : **264330530053**
Option 4 ID : **264330530052**
Status : **Answered**
Chosen Option : **4**

Q.9 **Improve the underlined part of the sentence. Choose 'No improvement' as an answer if the sentence is grammatically correct.**
I have to work in the morning, but I <u>is freer</u> in the afternoon.

Ans

✘ 1. am frees

✔ 2. am free

✘ 3. is freed

✘ 4. No improvement

Question Type : **MCQ**
Question ID : **264330134531**
Option 1 ID : **264330527084**
Option 2 ID : **264330527085**
Option 3 ID : **264330527083**
Option 4 ID : **264330527086**
Status : **Answered**
Chosen Option : **2**

Join Telegram Group "HaryanaJobs.in"

Q.10 **Choose the word that can substitute the given group of words.**
To renounce a throne

Ans
✔ 1. Abdicate
✘ 2. Abort
✘ 3. Assert
✘ 4. Avow

Question Type : **MCQ**
Question ID : **264330134334**
Option 1 ID : **264330526326**
Option 2 ID : **264330526324**
Option 3 ID : **264330526325**
Option 4 ID : **264330526323**
Status : **Not Answered**
Chosen Option : **--**

Q.11 Select the most appropriate option to substitute the bracketed segment in the given sentence. If there is no need to substitute it, select 'no substitution required'.

Some of them were nearly (as hard as ligament, and many an inch in length).

Ans
✘ 1. hard as ligament, and many an inch at length
✔ 2. as hard as ligaments, and many were an inch long
✘ 3. as hard as a ligament, and many an inches in length
✘ 4. No substitution required

Question Type : **MCQ**
Question ID : **264330136513**
Option 1 ID : **264330534797**
Option 2 ID : **264330534796**
Option 3 ID : **264330534795**
Option 4 ID : **264330534798**
Status : **Answered**
Chosen Option : **2**

Q.12 Identify the segment that contains a grammatical error. If there is no error, select 'No error'.

His struggles were becoming/ more and more frenzier,/ a wild look creeping into his blue eyes.

Ans
✘ 1. a wild look creeping into his blue eyes.
✘ 2. His struggles were becoming
✔ 3. more and more frenzier,
✘ 4. No error

Question Type : **MCQ**
Question ID : **264330136510**
Option 1 ID : **264330534785**
Option 2 ID : **264330534783**
Option 3 ID : **264330534784**
Option 4 ID : **264330534786**
Status : **Answered**
Chosen Option : **3**

Join Telegram Group "HaryanaJobs.in"

Q.13 Choose the incorrectly spelt word.

Ans
✗ 1. Loss
✗ 2. Loose
✗ 3. Local
✓ 4. Losare

Question Type : **MCQ**
Question ID : **264330135304**
Option 1 ID : **264330530129**
Option 2 ID : **264330530128**
Option 3 ID : **264330530130**
Option 4 ID : **264330530127**
Status : **Answered**
Chosen Option : **4**

Q.14 **Find the part of the given sentence that has an error in it. If there is no error, choose 'No error'.**
I want all the culprits to be punished immediate.

Ans
✗ 1. the culprits to
✗ 2. No error
✗ 3. I want all
✓ 4. be punished immediate.

Question Type : **MCQ**
Question ID : **264330134399**
Option 1 ID : **264330526576**
Option 2 ID : **264330526578**
Option 3 ID : **264330526575**
Option 4 ID : **264330526577**
Status : **Answered**
Chosen Option : **4**

Q.15 Choose the word that can substitute the given group of words.

A place where fruit trees are grown

Ans
✗ 1. Cemetery
✗ 2. Botanical
✓ 3. Orchard
✗ 4. Dyke

Question Type : **MCQ**
Question ID : **264330135297**
Option 1 ID : **264330530101**
Option 2 ID : **264330530100**
Option 3 ID : **264330530099**
Option 4 ID : **264330530102**
Status : **Answered**
Chosen Option : **2**

Join Telegram Group "HaryanaJobs.in"

Q.16 Improve the underlined part of the sentence. Choose 'No improvement' as an answer if the sentence is grammatically correct.

The rise in temperature disturbs the rain cycle .

Ans

✔ 1. No improvement

✘ 2. was disturbed the rain order

✘ 3. disturb the rainy cycle

✘ 4. disturbing the rain cycle

Question Type : **MCQ**
Question ID : **264330135313**
Option 1 ID : **264330530166**
Option 2 ID : **264330530165**
Option 3 ID : **264330530164**
Option 4 ID : **264330530163**
Status : **Answered**
Chosen Option : **1**

Q.17 **Choose the word that is opposite in meaning to the given word.**
Suspicion

Ans

✘ 1. Tremor

✔ 2. Conviction

✘ 3. Incertitude

✘ 4. Niggle

Question Type : **MCQ**
Question ID : **264330134546**
Option 1 ID : **264330527142**
Option 2 ID : **264330527140**
Option 3 ID : **264330527139**
Option 4 ID : **264330527141**
Status : **Not Answered**
Chosen Option : **--**

Q.18 Select the most appropriate option to fill in the blank.

I am just saying that maybe you are letting emotion _____ your better judgment right now.

Ans

✔ 1. cloud

✘ 2. clamp

✘ 3. finger

✘ 4. clog

Question Type : **MCQ**
Question ID : **264330135307**
Option 1 ID : **264330530140**
Option 2 ID : **264330530142**
Option 3 ID : **264330530139**
Option 4 ID : **264330530141**
Status : **Answered**
Chosen Option : **1**

Join Telegram Group "HaryanaJobs.in"

Q.19 Choose the word that means the same as the given word.

Backstab

Ans
✔ 1. Betray
✘ 2. Berate
✘ 3. Bleary
✘ 4. Blare

Question Type : **MCQ**
Question ID : **264330136864**
Option 1 ID : **264330536145**
Option 2 ID : **264330536144**
Option 3 ID : **264330536146**
Option 4 ID : **264330536143**
Status : **Not Answered**
Chosen Option : **--**

Q.20 **In the following question, out of the given four alternatives, select the alternative which best expresses the meaning of the Idiom/Phrase.**
To button one's lips

Ans
✔ 1. To keep silence
✘ 2. To kidnap somebody
✘ 3. To advance in harmony
✘ 4. To rain heavily

Question Type : **MCQ**
Question ID : **264330134340**
Option 1 ID : **264330526349**
Option 2 ID : **264330526350**
Option 3 ID : **264330526347**
Option 4 ID : **264330526348**
Status : **Answered**
Chosen Option : **2**

Comprehension:

In the following passage some of the words have been deleted. Read the passage carefully and select the correct answer for the given blank out of the four alternatives.
An 'occupational disease' is any disease (1)_____ primarily by exposure at work (2)_____ a physical, organisational, chemical or biological risk (3)_____ or to a combination of these factors. Occupational diseases are (4)_____ those listed in national legislation as resulting from exposure to risk factors at (5)_____.

SubQuestion No : 21

Q.21 **Select the most appropriate option to fill in blank number 1.**

Ans
✔ 1. caused
✘ 2. flawed
✘ 3. posed
✘ 4. abated

Question Type : **MCQ**
Question ID : **264330134537**
Option 1 ID : **264330527104**
Option 2 ID : **264330527105**
Option 3 ID : **264330527106**
Option 4 ID : **264330527103**
Status : **Answered**
Chosen Option : **1**

Join Telegram Group "HaryanaJobs.in"

Comprehension:

In the following passage some of the words have been deleted. Read the passage carefully and select the correct answer for the given blank out of the four alternatives.
An 'occupational disease' is any disease (1)_____ primarily by exposure at work (2)_____ a physical, organisational, chemical or biological risk (3)_____ or to a combination of these factors. Occupational diseases are (4)_____ those listed in national legislation as resulting from exposure to risk factors at (5)_____.

SubQuestion No : 22

Q.22 Select the most appropriate option to fill in blank number 2.

Ans

✗ 1. on

✗ 2. in

✗ 3. of

✓ 4. to

Question Type : **MCQ**
Question ID : **264330134538**
Option 1 ID : **264330527110**
Option 2 ID : **264330527107**
Option 3 ID : **264330527108**
Option 4 ID : **264330527109**
Status : **Answered**
Chosen Option : **2**

Comprehension:

In the following passage some of the words have been deleted. Read the passage carefully and select the correct answer for the given blank out of the four alternatives.
An 'occupational disease' is any disease (1)_____ primarily by exposure at work (2)_____ a physical, organisational, chemical or biological risk (3)_____ or to a combination of these factors. Occupational diseases are (4)_____ those listed in national legislation as resulting from exposure to risk factors at (5)_____.

SubQuestion No : 23

Q.23 Select the most appropriate option to fill in blank number 3.

Ans

✗ 1. maker

✗ 2. part

✗ 3. exposure

✓ 4. factor

Question Type : **MCQ**
Question ID : **264330134539**
Option 1 ID : **264330527111**
Option 2 ID : **264330527114**
Option 3 ID : **264330527112**
Option 4 ID : **264330527113**
Status : **Answered**
Chosen Option : **4**

Join Telegram Group "HaryanaJobs.in"

Comprehension:

In the following passage some of the words have been deleted. Read the passage carefully and select the correct answer for the given blank out of the four alternatives.
An 'occupational disease' is any disease (1)_____ primarily by exposure at work (2)_____ a physical, organisational, chemical or biological risk (3)_____ or to a combination of these factors. Occupational diseases are (4)_____ those listed in national legislation as resulting from exposure to risk factors at (5)_____.

SubQuestion No : 24

Q.24 Select the most appropriate option to fill in blank number 4.

Ans

✗ 1. manually

✗ 2. radically

✓ 3. mostly

✗ 4. oddly

Question Type : **MCQ**
Question ID : **264330134540**
Option 1 ID : **264330527115**
Option 2 ID : **264330527116**
Option 3 ID : **264330527118**
Option 4 ID : **264330527117**
Status : **Answered**
Chosen Option : **3**

Comprehension:

In the following passage some of the words have been deleted. Read the passage carefully and select the correct answer for the given blank out of the four alternatives.
An 'occupational disease' is any disease (1)_____ primarily by exposure at work (2)_____ a physical, organisational, chemical or biological risk (3)_____ or to a combination of these factors. Occupational diseases are (4)_____ those listed in national legislation as resulting from exposure to risk factors at (5)_____.

SubQuestion No : 25

Q.25 Select the most appropriate option to fill in blank number 5.

Ans

✗ 1. home

✓ 2. work

✗ 3. office

✗ 4. bank

Question Type : **MCQ**
Question ID : **264330134541**
Option 1 ID : **264330527120**
Option 2 ID : **264330527121**
Option 3 ID : **264330527122**
Option 4 ID : **264330527119**
Status : **Answered**
Chosen Option : **2**

Join Telegram Group "HaryanaJobs.in"

Multi Tasking Non Technical Staff and Havaldar CBIC and CBN Examination 2022

Roll Number	HaryanaJobs.in
Candidate Name	HaryanaJobs.in
Venue Name	Vibrant Assessment Centre
Exam Date	17/05/2023
Exam Time	12:00 PM - 2:00 PM
Subject	MTS Non Tech Havaldar CBIC and CBN Examination 2022

Section : **Numerical and Mathematical Ability**

Q.1 साधारण ब्याज पर 20 वर्ष में कोई धनराशि कितने प्रतिशत वार्षिक दर पर तिगुनी हो जाएगी?

Ans

✗ 1. 18% वार्षिक

✓ 2. 10% वार्षिक

✗ 3. 20% वार्षिक

✗ 4. 12% वार्षिक

Question Type : **MCQ**
Question ID : **264330138358**
Option 1 ID : **264330542042**
Option 2 ID : **264330542039**
Option 3 ID : **264330542040**
Option 4 ID : **264330542041**
Status : **Answered**
Chosen Option : **2**

Q.2 15% का बट्टा देने के बाद, एक डीलर एक मोटर को Rs.3570 में बेचना चाहता है। मोटर का अंकित मूल्य क्या होना चाहिए?

Ans

✗ 1. Rs.4000

✗ 2. Rs.3900

✗ 3. Rs.4800

✓ 4. Rs.4200

Question Type : **MCQ**
Question ID : **264330133680**
Option 1 ID : **264330523743**
Option 2 ID : **264330523746**
Option 3 ID : **264330523745**
Option 4 ID : **264330523744**
Status : **Answered**
Chosen Option : **4**

Join Telegram Group "HaryanaJobs.in"

Q.3 हानि प्रतिशत ज्ञात कीजिए यदि: क्रय मूल्य = Rs. 4500 और विक्रय मूल्य = Rs. 3900

Ans
1. 13.3 %
2. 14.5 %
3. 14 %
4. 13 %

Question Type : **MCQ**
Question ID : **264330135093**
Option 1 ID : **264330529308**
Option 2 ID : **264330529310**
Option 3 ID : **264330529309**
Option 4 ID : **264330529307**
Status : **Answered**
Chosen Option : **1**

Q.4 तीन कक्षाओं में छात्रों की संख्या 3:7:8 के अनुपात में है। यदि प्रत्येक कक्षा में 6 छात्रों की वृद्धि होती है, तो अनुपात 11:23:26 हो जाता है। वृद्धि से पहले तीनों कक्षाओं में छात्रों की कुल संख्या ज्ञात कीजिए।

Ans
1. 162
2. 144
3. 90
4. 112

Question Type : **MCQ**
Question ID : **264330135372**
Option 1 ID : **264330530395**
Option 2 ID : **264330530396**
Option 3 ID : **264330530398**
Option 4 ID : **264330530397**
Status : **Answered**
Chosen Option : **4**

Q.5 12 वर्षों में एक व्यक्ति द्वारा Rs.12000 के मूलधन पर प्राप्त साधारण ब्याज मूलधन का 120 प्रतिशत है। वार्षिक ब्याज दर क्या है?

Ans
1. 5 प्रतिशत
2. 12 प्रतिशत
3. 20 प्रतिशत
4. 10 प्रतिशत

Question Type : **MCQ**
Question ID : **264330137655**
Option 1 ID : **264330539227**
Option 2 ID : **264330539230**
Option 3 ID : **264330539229**
Option 4 ID : **264330539228**
Status : **Answered**
Chosen Option : **4**

Join Telegram Group "HaryanaJobs.in"

Q.6 निम्नलिखित आलेख में एक मेले के दौरान 6 छात्रों P, Q, R, S, T और U द्वारा बेचे गए टिकटों की संख्या को दर्शाया गया है। Q, S और U द्वारा कुल टिकटों का कितना प्रतिशत बेचा गया?

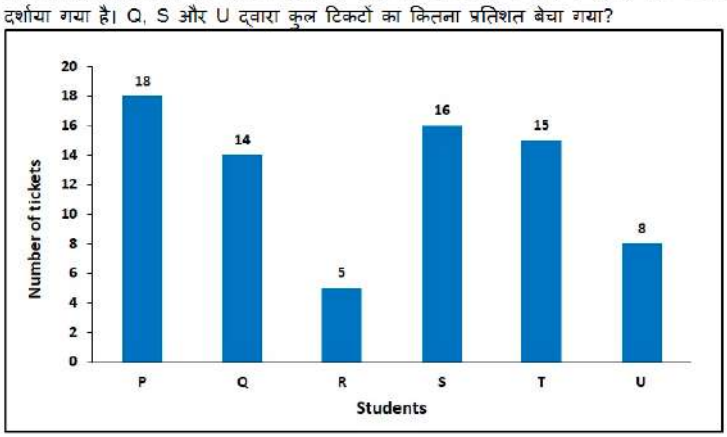

Number of tickets = टिकटों की संख्या, Students = छात्र

Ans
1. 40%
2. 20%
3. 50%
4. 30%

Question Type : **MCQ**
Question ID : **264330133689**
Option 1 ID : **264330523781**
Option 2 ID : **264330523779**
Option 3 ID : **264330523782**
Option 4 ID : **264330523780**
Status : **Answered**
Chosen Option : **3**

Q.7 एक टीवी को Rs.39216 में बेचने पर राकेश को 4% की हानि होती है। 4% लाभ अर्जित करने के लिए टीवी को किस मूल्य पर बेचा जाना चाहिए?

Ans
1. Rs.42484
2. Rs.45600
3. Rs.48560
4. Rs.49780

Question Type : **MCQ**
Question ID : **264330133679**
Option 1 ID : **264330523741**
Option 2 ID : **264330523739**
Option 3 ID : **264330523740**
Option 4 ID : **264330523742**
Status : **Answered**
Chosen Option : **2**

Join Telegram Group "HaryanaJobs.in"

Q.8 0.4 × 0.5 + 2 × (0.10 - 0.5) का मान क्या है?

Ans
1. 0.40
2. 1
3. 0
4. -0.60

Question Type : **MCQ**
Question ID : **264330133673**
Option 1 ID : **264330523715**
Option 2 ID : **264330523717**
Option 3 ID : **264330523718**
Option 4 ID : **264330523716**
Status : **Answered**
Chosen Option : **1**

Q.9 एक घनाभ की विमाएँ 80 cm × 64 cm × 50 cm हैं। दिए गए घनाभ में 8 cm भुजा वाले कितने छोटे घन रखे जा सकते हैं?

Ans
1. 1000
2. 200
3. 480
4. 700

Question Type : **MCQ**
Question ID : **264330138720**
Option 1 ID : **264330543487**
Option 2 ID : **264330543488**
Option 3 ID : **264330543490**
Option 4 ID : **264330543489**
Status : **Answered**
Chosen Option : **1**

Q.10 पाँच घंटियाँ एक साथ बजने लगती हैं और क्रमशः 5, 10, 15, 20 और 25 सेकंड के अंतराल पर बजती हैं। 1 घंटे 20 मिनट में वे कितनी बार एक साथ बजती हैं?

Ans
1. 20 बार
2. 15 बार
3. 14 बार
4. 17 बार

Question Type : **MCQ**
Question ID : **264330138436**
Option 1 ID : **264330542354**
Option 2 ID : **264330542353**
Option 3 ID : **264330542351**
Option 4 ID : **264330542352**
Status : **Answered**
Chosen Option : **4**

Join Telegram Group "HaryanaJobs.in"

Q.11 निम्न तालिका में विभिन्न कारखानों में स्कूटरों के वार्षिक उत्पादन (हजारों में) को दर्शाया गया है। किस वर्ष सभी कारखानों में स्कूटरों का कुल उत्पादन, वर्ष 2015-2019 के दौरान उत्पादित स्कूटरों की वार्षिक औसत संख्या के बराबर था?

Factory	Year				
	2015	2016	2017	2018	2019
A	25	30	15	23	16
B	14	24	12	17	20
C	20	41	17	21	13
D	40	39	35	32	41
E	16	15	22	15	12
Total	115	149	101	108	102

Factory = कारखाना, Year = वर्ष, Total = कुल

Ans

✔ 1. 2015

✘ 2. 2016

✘ 3. 2017

✘ 4. 2018

Question Type : **MCQ**
Question ID : **264330133688**
Option 1 ID : **264330523775**
Option 2 ID : **264330523776**
Option 3 ID : **264330523777**
Option 4 ID : **264330523778**
Status : **Answered**
Chosen Option : **1**

Q.12 40 km/hr की चाल से चल रही एक कार की चाल आधी दूरी तय करने के बाद 30 km/hr तक धीमी हो जाती है। कार की औसत चाल क्या है?

Ans

✔ 1. $\frac{240}{7}$ km/hr

✘ 2. $\frac{120}{7}$ km/hr

✘ 3. 35 km/hr

✘ 4. 30 km/hr

Question Type : **MCQ**
Question ID : **264330135091**
Option 1 ID : **264330529299**
Option 2 ID : **264330529302**
Option 3 ID : **264330529300**
Option 4 ID : **264330529301**
Status : **Answered**
Chosen Option : **1**

Join Telegram Group "HaryanaJobs.in"

Q.13 A अकेले किसी कार्य को 16 दिनों में कर सकता है और B अकेले उसी कार्य को 12 दिनों में कर सकता है। यदि वे 4 दिनों तक साथ मिलकर कार्य करते हैं और फिर A कार्य छोड़कर चला जाता है, तो शेष कार्य को पूरा करने में B को कितना समय लगा?

Ans

1. ✗ 6 दिन
2. ✗ 8 दिन
3. ✓ 5 दिन
4. ✗ 7 दिन

Question Type : **MCQ**
Question ID : **264330138715**
Option 1 ID : **264330543469**
Option 2 ID : **264330543470**
Option 3 ID : **264330543467**
Option 4 ID : **264330543468**
Status : **Answered**
Chosen Option : **3**

Q.14 मिश्रधातु X में 70% तांबा और 30% जस्ता है। मिश्र धातु Y में 40% तांबा, 25% जस्ता और 35% एल्यूमीनियम है। मिश्रधातु X और Y को 1 : 3 के अनुपात में मिलाया जाता है। नई बनी मिश्रधातु में तांबे और जस्ते का अनुपात क्या है?

Ans

1. ✗ 19 : 33
2. ✓ 38 : 21
3. ✗ 19 : 21
4. ✗ 11 : 32

Question Type : **MCQ**
Question ID : **264330133682**
Option 1 ID : **264330523753**
Option 2 ID : **264330523754**
Option 3 ID : **264330523751**
Option 4 ID : **264330523752**
Status : **Answered**
Chosen Option : **3**

Q.15 8 cm त्रिज्या के एक ठोस अर्धगोले को पिघलाकर N समरूप शंकु बनाए जाते हैं, जिनकी त्रिज्या 4 cm और ऊँचाई 2 cm है। तो, N का मान क्या है?

Ans

1. ✗ 26
2. ✗ 25
3. ✓ 32
4. ✗ 10

Question Type : **MCQ**
Question ID : **264330135084**
Option 1 ID : **264330529272**
Option 2 ID : **264330529273**
Option 3 ID : **264330529274**
Option 4 ID : **264330529271**
Status : **Answered**
Chosen Option : **3**

Join Telegram Group "HaryanaJobs.in"

Q.16 एक आदमी 5 kmph की चाल से चलकर 3 घंटे में एक निश्चित दूरी तय करता है। 15 kmph की चाल से दौड़ते हुए वह आदमी समान दूरी कितने समय में तय करेगा?

Ans

✔ 1. 1 घंटे

✘ 2. 30 मिनट

✘ 3. 2 घंटे

✘ 4. 1 घंटे 30 मिनट

Question Type : **MCQ**
Question ID : **264330133685**
Option 1 ID : **264330523764**
Option 2 ID : **264330523763**
Option 3 ID : **264330523766**
Option 4 ID : **264330523765**
Status : **Answered**
Chosen Option : **1**

Q.17 11 के पहले पाँच गुणजों का औसत क्या है?

Ans

✘ 1. 11

✔ 2. 33

✘ 3. 55

✘ 4. 22

Question Type : **MCQ**
Question ID : **264330133675**
Option 1 ID : **264330523723**
Option 2 ID : **264330523726**
Option 3 ID : **264330523725**
Option 4 ID : **264330523724**
Status : **Answered**
Chosen Option : **2**

Q.18 यदि एक वृत्त का व्यास 14 cm है, तो वृत्त के उस त्रिज्यखंड का क्षेत्रफल ज्ञात कीजिए जिसका केंद्रीय कोण 60 डिग्री है।

Ans

✘ 1. $38.12\ cm^2$

✔ 2. $25.66\ cm^2$

✘ 3. $21.66\ cm^2$

✘ 4. $18.12\ cm^2$

Question Type : **MCQ**
Question ID : **264330135387**
Option 1 ID : **264330530456**
Option 2 ID : **264330530458**
Option 3 ID : **264330530457**
Option 4 ID : **264330530455**
Status : **Answered**
Chosen Option : **2**

Join Telegram Group "HaryanaJobs.in"

Q.19 14 व्यक्ति 28 दिनों में एक कार्य कर सकते हैं। 8 व्यक्ति इससे दुगने कार्य को कितने दिनों में पूरा कर सकते हैं?

Ans

✗ 1. 80 दिनों में

✗ 2. 32 दिनों में

✓ 3. 98 दिनों में

✗ 4. 55 दिनों में

Question Type : **MCQ**
Question ID : **264330135383**
Option 1 ID : **264330530441**
Option 2 ID : **264330530442**
Option 3 ID : **264330530439**
Option 4 ID : **264330530440**
Status : **Answered**
Chosen Option : **1**

Q.20 यदि एक संख्या A एक दूसरी संख्या B से 40 प्रतिशत कम है और B, 100 से 20 प्रतिशत अधिक है, तो A का मान क्या है?

Ans

✗ 1. 84

✓ 2. 72

✗ 3. 66

✗ 4. 58

Question Type : **MCQ**
Question ID : **264330137650**
Option 1 ID : **264330539208**
Option 2 ID : **264330539207**
Option 3 ID : **264330539210**
Option 4 ID : **264330539209**
Status : **Answered**
Chosen Option : **1**

Section : **Reasoning Ability and Problem Solving**

Q.1 छः भाइयों अमन, बंटी, चंदू, दीपक, इमाद और फैजल, प्रत्येक का कद अलग-अलग है। बंटी केवल तीन भाइयों से लंबा है। फैजल केवल दीपक से लंबा है। चंदू केवल अमन से छोटा है। सभी भाइयों में चौथा सबसे लंबा कौन है?

Ans

✓ 1. इमाद

✗ 2. चंदू

✗ 3. बंटी

✗ 4. दीपक

Question Type : **MCQ**
Question ID : **264330133394**
Option 1 ID : **264330522609**
Option 2 ID : **264330522610**
Option 3 ID : **264330522607**
Option 4 ID : **264330522608**
Status : **Answered**
Chosen Option : **3**

Join Telegram Group "HaryanaJobs.in"

Q.2 छः बहनें हिना, इशिता, जेना, कमला, ललिता, मीना दो पंक्तियों में बैठी हैं। उनमें से तीन का मुख उत्तर की ओर है और अन्य तीन का मुख दक्षिण की ओर है। एक ही पंक्ति में बैठी सभी बहनों का मुख समान दिशा की ओर है। मीना का मुख दक्षिण की ओर है और वह कोने में नहीं बैठी है। ललिता का मुख हिना की ओर है जो मीना के दायीं ओर बैठी है। इशिता, जेना के ठीक दाएँ पर है। इशिता के सम्मुख कौन बैठा है?

Ans

✗ 1. हिना

✓ 2. कमला

✗ 3. ललिता

✗ 4. मीना

Question Type : **MCQ**
Question ID : **264330133393**
Option 1 ID : **264330522603**
Option 2 ID : **264330522604**
Option 3 ID : **264330522606**
Option 4 ID : **264330522605**
Status : **Answered**
Chosen Option : **4**

Q.3 उस विकल्प को चुनिए जो तीसरे अक्षर-समूह से ठीक उसी प्रकार संबंधित है जिस प्रकार दूसरा अक्षर-समूह पहले अक्षर-समूह से संबंधित है।
TREE : USDD :: SOAP : ?

Ans

✗ 1. TZPO

✗ 2. TZNQ

✓ 3. TPZO

✗ 4. TNQZ

Question Type : **MCQ**
Question ID : **264330133388**
Option 1 ID : **264330522584**
Option 2 ID : **264330522583**
Option 3 ID : **264330522586**
Option 4 ID : **264330522585**
Status : **Answered**
Chosen Option : **3**

Q.4 किसी एक खास कूट भाषा में, 'SPEAKER' को ' RQDBJFQ' लिखा जाता है। उस कूट भाषा में 'MOBILE' को कैसे लिखा जाएगा?

Ans

✗ 1. LSPJKS

✗ 2. LPSJAK

✗ 3. LPAJKS

✓ 4. LPAJKF

Question Type : **MCQ**
Question ID : **264330133369**
Option 1 ID : **264330522509**
Option 2 ID : **264330522507**
Option 3 ID : **264330522510**
Option 4 ID : **264330522508**
Status : **Answered**
Chosen Option : **4**

Join Telegram Group "HaryanaJobs.in"

Q.5 उस विकल्प आकृति को चुनिए जो नीचे दी गई आकृति में पैटर्न को पूरा करने के लिए प्रश्न चिन्ह (?) के स्थान पर आएगी। (घूर्णन की अनुमति नहीं है)।

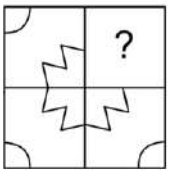

Ans

✗ 1.

✓ 2.

✗ 3.

✗ 4.

Question Type : **MCQ**
Question ID : **264330133405**
Option 1 ID : **264330522652**
Option 2 ID : **264330522651**
Option 3 ID : **264330522654**
Option 4 ID : **264330522653**
Status : **Answered**
Chosen Option : **2**

Q.6 दी गई श्रृंखला में निम्नलिखित में से कौन-सी संख्या प्रश्न चिन्ह (?) के स्थान पर आएगी?
158, 160, 164, 170, 178, 188, 200, ?

Ans

✗ 1. 230

✗ 2. 210

✗ 3. 215

✓ 4. 214

Question Type : **MCQ**
Question ID : **264330133398**
Option 1 ID : **264330522624**
Option 2 ID : **264330522623**
Option 3 ID : **264330522625**
Option 4 ID : **264330522626**
Status : **Answered**
Chosen Option : **4**

Join Telegram Group "HaryanaJobs.in"

Q.7 दो कथन दिए गए हैं और उनके बाद दो निष्कर्ष I और II दिए गए हैं। कथनों को सत्य मानते हुए, चाहे वे सामान्यतः ज्ञात तथ्यों से अलग प्रतीत होते हों, निश्चय कीजिए कि कौन-सा निष्कर्ष तार्किक रूप से कथनों के अनुसार है।

कथन:

कुछ राजा, अमीर हैं।

कुछ अमीर, अभिमानी हैं।

निष्कर्ष:

I. कुछ राजा, अभिमानी नहीं हैं।

II. कुछ अमीर, अभिमानी नहीं हैं।

Ans

✔ 1. न तो निष्कर्ष I और न ही II कथनों के अनुसार है।

✘ 2. केवल निष्कर्ष II कथनों के अनुसार है।

✘ 3. निष्कर्ष I और II दोनों कथनों के अनुसार हैं।

✘ 4. केवल निष्कर्ष I कथनों के अनुसार है।

Question Type : **MCQ**
Question ID : **264330133395**
Option 1 ID : **264330522614**
Option 2 ID : **264330522612**
Option 3 ID : **264330522613**
Option 4 ID : **264330522611**
Status : **Answered**
Chosen Option : **2**

Q.8 एक निश्चित कूट भाषा में, 'FALF' को 'HCJD' लिखा जाता है। उस भाषा में 'OEMC' को कैसे लिखा जाएगा?

Ans

✘ 1. QKGA

✔ 2. QGKA

✘ 3. QKAG

✘ 4. QGAK

Question Type : **MCQ**
Question ID : **264330137565**
Option 1 ID : **264330538869**
Option 2 ID : **264330538870**
Option 3 ID : **264330538867**
Option 4 ID : **264330538868**
Status : **Answered**
Chosen Option : **2**

Join Telegram Group "HaryanaJobs.in"

Q.9 उस विकल्प को चुनिए जो तीसरी संख्या से ठीक उसी प्रकार संबंधित है जिस प्रकार दूसरी संख्या पहली संख्या से संबंधित है।
5 : 125 :: 8 : ?

Ans
1. 216
2. 343
3. 576
4. 512

Question Type : **MCQ**
Question ID : **264330137574**
Option 1 ID : **264330538905**
Option 2 ID : **264330538903**
Option 3 ID : **264330538906**
Option 4 ID : **264330538904**
Status : **Answered**
Chosen Option : **4**

Q.10 दी गई श्रृंखला में निम्नलिखित में से कौन-सी संख्या प्रश्न चिन्ह (?) के स्थान पर आएगी?
15, 16, 32, 35, 140, 145, ?

Ans
1. 790
2. 910
3. 840
4. 870

Question Type : **MCQ**
Question ID : **264330137572**
Option 1 ID : **264330538897**
Option 2 ID : **264330538898**
Option 3 ID : **264330538896**
Option 4 ID : **264330538895**
Status : **Answered**
Chosen Option : **4**

Q.11 छः महिलाएँ अदिति, पिंकी, रीना, मीनल, स्नेहा और ज़ोया एक सीधी पंक्ति में उत्तर की ओर मुख करके बैठी हैं। स्नेहा और ज़ोया मध्य में बैठी हैं। अदिति और पिंकी दोनों कोनों पर बैठी हैं। रीना,अदिति के ठीक बाएँ पर बैठी है। पिंकी के ठीक दाएँ पर कौन बैठा है?

Ans
1. ज़ोया
2. स्नेहा
3. मीनल
4. अदिति

Question Type : **MCQ**
Question ID : **264330133392**
Option 1 ID : **264330522599**
Option 2 ID : **264330522601**
Option 3 ID : **264330522600**
Option 4 ID : **264330522602**
Status : **Answered**
Chosen Option : **3**

Join Telegram Group "HaryanaJobs.in"

Q.12 उस विकल्प को चुनिए जो तीसरे अक्षर-समूह से ठीक उसी प्रकार संबंधित है जिस प्रकार दूसरा अक्षर-समूह पहले शब्द से संबंधित है।
KITCHEN : TIKCNEH :: PLUMBER : ?

Ans
1. ULPRMBE
2. ULPBREM
3. ULPMREB
4. ULPREMB

Question Type : **MCQ**
Question ID : **264330133387**
Option 1 ID : **264330522581**
Option 2 ID : **264330522582**
Option 3 ID : **264330522580**
Option 4 ID : **264330522579**
Status : **Answered**
Chosen Option : **3**

Q.13 उस विकल्प आकृति को चुनिए जिसमें दी गई आकृति (X) उसके भाग के रूप में निहित है (घूर्णन की अनुमति नहीं है)।

X

Ans
1. 
2. 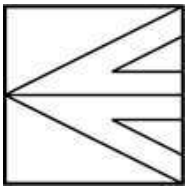
3. 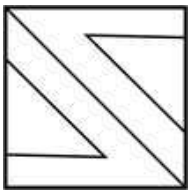
4. 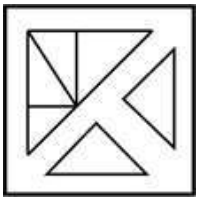

Question Type : **MCQ**
Question ID : **264330133403**
Option 1 ID : **264330522645**
Option 2 ID : **264330522643**
Option 3 ID : **264330522644**
Option 4 ID : **264330522646**
Status : **Answered**
Chosen Option : **4**

Join Telegram Group "HaryanaJobs.in"

Q.14 दिए गए समीकरण को सही करने के लिए किन दो संख्याओं को आपस में बदला जाना चाहिए?
84 ÷ 6 + 16 − 14 × 2 = 10

Ans
✔ 1. 6 और 14
✘ 2. 10 और 14
✘ 3. 6 और 10
✘ 4. 2 और 84

Question Type : **MCQ**
Question ID : **264330133401**
Option 1 ID : **264330522637**
Option 2 ID : **264330522635**
Option 3 ID : **264330522638**
Option 4 ID : **264330522636**
Status : **Answered**
Chosen Option : **1**

Q.15 दिए गए दो चिन्हों को आपस में बदलने पर, समीकरण (I) और (II) के क्रमशः मान क्या होंगे?

× और -

I. 18 × 8 - 6 ÷ 3 + 4

II. 7 - 8 × 4 ÷ 2 + 15

Ans
✘ 1. 18 और 10
✔ 2. 6 और 69
✘ 3. -8 और 10
✘ 4. 89 और 6

Question Type : **MCQ**
Question ID : **264330138473**
Option 1 ID : **264330542501**
Option 2 ID : **264330542499**
Option 3 ID : **264330542500**
Option 4 ID : **264330542502**
Status : **Answered**
Chosen Option : **2**

Q.16 दिए गए पैटर्न का ध्यानपूर्वक अध्ययन कीजिए और उस संख्या को चुनिए जो इसमें प्रश्न चिन्ह (?) के स्थान पर आ सकती है।
पहली पंक्ति- 6, 216, 180
दूसरी पंक्ति- 8, 512, 448
तीसरी पंक्ति- 10, 1000, ?

Ans
✘ 1. 1100
✔ 2. 900
✘ 3. 1300
✘ 4. 800

Question Type : **MCQ**
Question ID : **264330133400**
Option 1 ID : **264330522631**
Option 2 ID : **264330522633**
Option 3 ID : **264330522634**
Option 4 ID : **264330522632**
Status : **Answered**
Chosen Option : **2**

Join Telegram Group "HaryanaJobs.in"

Q.17 निम्नलिखित में से कौन-सा अक्षर-समूह दी गई श्रृंखला में रिक्त स्थानों को पूरा करेगा?
stss_ssstsss_tss_ _stssssssst

Ans
1. ttss
2. sstt
3. ssst
4. tsss

Question Type : **MCQ**
Question ID : **264330133386**
Option 1 ID : **264330522578**
Option 2 ID : **264330522575**
Option 3 ID : **264330522576**
Option 4 ID : **264330522577**
Status : **Answered**
Chosen Option : **4**

Q.18 दो कथन दिए गए हैं और उनके बाद दो निष्कर्ष I और II दिए गए हैं। कथनों को सत्य मानते हुए, चाहे वे सामान्यतः ज्ञात तथ्यों से अलग प्रतीत होते हों, निश्चय कीजिए कि कौन-सा निष्कर्ष तार्किक रूप से कथनों के अनुसार है।
कथन:

कोई लड़की, घोड़ा नहीं है।

रेचेल, लड़की है।

निष्कर्ष:

I. रेचेल, घोड़ा नहीं है।

II. सभी लड़कियाँ, रेचेल नहीं हैं।

Ans
1. केवल निष्कर्ष I कथनों के अनुसार है।
2. निष्कर्ष I और II दोनों कथनों के अनुसार हैं।
3. केवल निष्कर्ष II कथनों के अनुसार है।
4. न तो निष्कर्ष I और न ही II कथनों के अनुसार है।

Question Type : **MCQ**
Question ID : **264330133396**
Option 1 ID : **264330522615**
Option 2 ID : **264330522617**
Option 3 ID : **264330522616**
Option 4 ID : **264330522618**
Status : **Answered**
Chosen Option : **2**

Join Telegram Group "HaryanaJobs.in"

Q.19 एक निश्चित कूट भाषा में, 'HERO' को '7, 4, 17, 14' लिखा जाता है, 'ICON' को '8, 2, 14, 13' लिखा जाता है। उस कूट भाषा में 'JOIN' को कैसे लिखा जाएगा?

Ans

✗ 1. 8, 14, 9, 13

✗ 2. 10, 14, 8, 13

✓ 3. 9, 14, 8, 13

✗ 4. 9, 14, 9, 13

Question Type : **MCQ**
Question ID : **264330138503**
Option 1 ID : **264330542622**
Option 2 ID : **264330542619**
Option 3 ID : **264330542621**
Option 4 ID : **264330542620**
Status : **Answered**
Chosen Option : **3**

Q.20 दी गई आकृति के उस सही दर्पण प्रतिबिंब को चुनिए जो नीचे दर्शाए गए अनुसार दर्पण को AB पर रखने पर बनेगा।

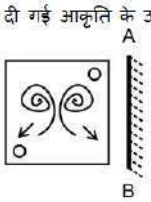

Ans

✓ 1. 

✗ 2. 

✗ 3. 

✗ 4. 

Question Type : **MCQ**
Question ID : **264330133404**
Option 1 ID : **264330522648**
Option 2 ID : **264330522647**
Option 3 ID : **264330522650**
Option 4 ID : **264330522649**
Status : **Answered**
Chosen Option : **1**

Section : **General Awareness**

Join Telegram Group "HaryanaJobs.in"

Q.1 छः दिवसीय खजुराहो नृत्य उत्सव निम्नलिखित में से किस राज्य में मनाया जाता है?

Ans
1. हरियाणा
2. केरल
3. मध्यप्रदेश
4. असम

Question Type : **MCQ**
Question ID : **264330133882**
Option 1 ID : **264330524551**
Option 2 ID : **264330524553**
Option 3 ID : **264330524552**
Option 4 ID : **264330524554**
Status : **Not Answered**
Chosen Option : **--**

Q.2 कुमारी कमला को 1970 में पद्म भूषण से सम्मानित किया गया था। वह नृत्य की _____ परंपरा की एक श्रेष्ठ कलाकार हैं।

Ans
1. वज़ुवूर (Vazhuvoor)
2. तमज़ारा (Tamzara)
3. कुचिपुड़ी
4. कुर्दिश (Kurdish)

Question Type : **MCQ**
Question ID : **264330137755**
Option 1 ID : **264330539629**
Option 2 ID : **264330539627**
Option 3 ID : **264330539628**
Option 4 ID : **264330539630**
Status : **Answered**
Chosen Option : **3**

Q.3 मर्डेका (Merdeka) कप निम्नलिखित में से किस खेल से संबंधित है?

Ans
1. हॉकी
2. फ़ुटबॉल
3. गोल्फ़
4. शतरंज

Question Type : **MCQ**
Question ID : **264330137759**
Option 1 ID : **264330539645**
Option 2 ID : **264330539643**
Option 3 ID : **264330539644**
Option 4 ID : **264330539646**
Status : **Answered**
Chosen Option : **2**

Join Telegram Group "HaryanaJobs.in"

Q.4 निम्नलिखित में से किसने जयपुर में हवा महल का निर्माण करवाया था?

Ans
1. कृष्णराजेंद्र वाडियार चतुर्थ
2. राजा मानसिंह प्रथम
3. महाराजा नरिंदर सिंह
4. महाराजा सवाई प्रताप सिंह

Question Type : **MCQ**
Question ID : **264330138225**
Option 1 ID : **264330541507**
Option 2 ID : **264330541510**
Option 3 ID : **264330541508**
Option 4 ID : **264330541509**
Status : **Not Answered**
Chosen Option : **--**

Q.5 निम्नलिखित में से किस शासक ने 'देवपुत्र (devaputra)' की उपाधि धारण की थी?

Ans
1. होयसल (Hoyasala)
2. कुषाण
3. चोल
4. शक (Saka)

Question Type : **MCQ**
Question ID : **264330137750**
Option 1 ID : **264330539608**
Option 2 ID : **264330539610**
Option 3 ID : **264330539609**
Option 4 ID : **264330539607**
Status : **Not Answered**
Chosen Option : **--**

Q.6 वधावन (Vadhavan) बंदरगाह _____ में स्थित है।

Ans
1. तमिलनाडु
2. पश्चिम बंगाल
3. केरल
4. महाराष्ट्र

Question Type : **MCQ**
Question ID : **264330137745**
Option 1 ID : **264330539588**
Option 2 ID : **264330539587**
Option 3 ID : **264330539590**
Option 4 ID : **264330539589**
Status : **Answered**
Chosen Option : **2**

Join Telegram Group "HaryanaJobs.in"

Q.7 फिजियोलॉजी या मेडिसिन में 2022 का नोबेल पुरस्कार _____ को दिया गया है।

Ans
1. वलेरी पोल्याकोव (Valeri Polyakov)
2. स्वंते पाबो (Svante Paabo)
3. एलेस बियालियात्स्की (Ales Bialiatski)
4. जियोर्जिया मेलोनी (Giorgia Meloni)

Question Type : **MCQ**
Question ID : **264330133889**
Option 1 ID : **264330524581**
Option 2 ID : **264330524580**
Option 3 ID : **264330524582**
Option 4 ID : **264330524579**
Status : **Not Answered**
Chosen Option : **--**

Q.8 निम्नलिखित में से कौन-सा भारतीय दर्शन के छः पद्धतियों का हिस्सा नहीं है?

Ans
1. सांख्य
2. द्रविड़
3. योग
4. न्याय

Question Type : **MCQ**
Question ID : **264330133902**
Option 1 ID : **264330524633**
Option 2 ID : **264330524634**
Option 3 ID : **264330524632**
Option 4 ID : **264330524631**
Status : **Answered**
Chosen Option : **4**

Q.9 "इंडिया एट रिस्क (India at Risk)" निम्नलिखित में से किस लेखक द्वारा लिखी गई है?

Ans
1. जसवंत सिंह
2. विजय दर्डा (Vijay Darda)
3. खुशवंत सिंह
4. नटवर सिंह

Question Type : **MCQ**
Question ID : **264330137753**
Option 1 ID : **264330539621**
Option 2 ID : **264330539620**
Option 3 ID : **264330539619**
Option 4 ID : **264330539622**
Status : **Not Answered**
Chosen Option : **--**

Join Telegram Group "HaryanaJobs.in"

Q.10 अंतर्राष्ट्रीय योग दिवस (2022) का विषय क्या था?

Ans
1. स्वस्थ शरीर के लिए योग
2. स्वस्थ मस्तिष्क के लिए योग
3. बेहतर जीवन के लिए योग
4. मानवता के लिए योग

Question Type : **MCQ**
Question ID : **264330133890**
Option 1 ID : **264330524584**
Option 2 ID : **264330524583**
Option 3 ID : **264330524585**
Option 4 ID : **264330524586**
Status : **Answered**
Chosen Option : **1**

Q.11 बास्केटबॉल खेल दो टीमों के बीच खेला जाता है जिसमें प्रत्येक टीम में _____ खिलाड़ी होते हैं।

Ans
1. आठ
2. छः
3. पाँच
4. चार

Question Type : **MCQ**
Question ID : **264330133884**
Option 1 ID : **264330524562**
Option 2 ID : **264330524560**
Option 3 ID : **264330524559**
Option 4 ID : **264330524561**
Status : **Answered**
Chosen Option : **2**

Q.12 भारत में पहली जनसंख्या जनगणना वर्ष _____ में आयोजित की गई थी।

Ans
1. 1865
2. 1870
3. 1872
4. 1862

Question Type : **MCQ**
Question ID : **264330133875**
Option 1 ID : **264330524525**
Option 2 ID : **264330524523**
Option 3 ID : **264330524524**
Option 4 ID : **264330524526**
Status : **Answered**
Chosen Option : **1**

Join Telegram Group "HaryanaJobs.in"

Q.13 श्री दीपक मजूमदार को वर्ष _____ का संगीत नाटक अकादमी पुरस्कार मिला।

Ans
1. 2017
2. 2018
3. 2016
4. 2019

Question Type : **MCQ**
Question ID : **264330133881**
Option 1 ID : **264330524548**
Option 2 ID : **264330524549**
Option 3 ID : **264330524547**
Option 4 ID : **264330524550**
Status : **Not Answered**
Chosen Option : **--**

Q.14 _____ के नियम के अनुसार, किसी विद्युत धारा द्वारा उत्पन्न ऊष्मा, चालक के प्रतिरोध, धारा के वर्ग और धारा प्रवाह की समयावधि के समानुपाती होती है।

Ans
1. फैराडे
2. हुक
3. जूल
4. चार्ल्स

Question Type : **MCQ**
Question ID : **264330137741**
Option 1 ID : **264330539573**
Option 2 ID : **264330539572**
Option 3 ID : **264330539571**
Option 4 ID : **264330539574**
Status : **Answered**
Chosen Option : **1**

Q.15 अन्नपूर्णा देवी किस वाद्य यंत्र का अभ्यास करने के लिए जानी जाती थीं?

Ans
1. वायलिन
2. सुरबहार
3. बाँसुरी
4. सरोद

Question Type : **MCQ**
Question ID : **264330133887**
Option 1 ID : **264330524571**
Option 2 ID : **264330524572**
Option 3 ID : **264330524573**
Option 4 ID : **264330524574**
Status : **Not Answered**
Chosen Option : **--**

Join Telegram Group "HaryanaJobs.in"

Q.16 निम्नलिखित में से किस अनुच्छेद में, "अल्पसंख्यक-वर्गों को अपनी रुचि की शिक्षण संस्थाओं की स्थापना करने और संचालन करने के अधिकार" का उल्लेख किया गया है?

Ans

✔ 1. अनुच्छेद 30

✘ 2. अनुच्छेद 29

✘ 3. अनुच्छेद 28

✘ 4. अनुच्छेद 31

Question Type : **MCQ**
Question ID : **264330133893**
Option 1 ID : **264330524597**
Option 2 ID : **264330524596**
Option 3 ID : **264330524595**
Option 4 ID : **264330524598**
Status : **Answered**
Chosen Option : **2**

Q.17 मध्यस्थता विधेयक (Mediation Bill), 2021 के अनुसार, मध्यस्थता प्रक्रिया को 180 दिनों के भीतर पूरा किया जाना चाहिए, जिसे पक्षों द्वारा और _____ दिनों तक बढ़ाया जा सकता है।

Ans

✘ 1. 200

✘ 2. 220

✘ 3. 120

✔ 4. 180

Question Type : **MCQ**
Question ID : **264330138222**
Option 1 ID : **264330541497**
Option 2 ID : **264330541498**
Option 3 ID : **264330541495**
Option 4 ID : **264330541496**
Status : **Answered**
Chosen Option : **2**

Q.18 कुइपर बेल्ट (Kuiper Belt) _____ की कक्षा के ठीक बाहर मौजूद बर्फ की चट्टानों और धूल के पिंडों का एक छल्ला है।

Ans

✘ 1. शनि

✘ 2. बृहस्पति

✔ 3. नेपच्यून

✘ 4. शुक्र

Question Type : **MCQ**
Question ID : **264330137744**
Option 1 ID : **264330539585**
Option 2 ID : **264330539583**
Option 3 ID : **264330539584**
Option 4 ID : **264330539586**
Status : **Answered**
Chosen Option : **4**

Join Telegram Group "HaryanaJobs.in"

Q.19 वित्त मंत्री निर्मला सीतारमण ने केंद्रीय बजट 2022 पेश करते हुए कहा कि भारत की आर्थिक विकास दर मौजूदा वित्त वर्ष में _____ प्रतिशत की दर से बढ़ रही है।

Ans
1. 5.3 ✗
2. 9.2 ✓
3. 6.5 ✗
4. 7.4 ✗

Question Type : **MCQ**
Question ID : **264330137760**
Option 1 ID : **264330539648**
Option 2 ID : **264330539647**
Option 3 ID : **264330539650**
Option 4 ID : **264330539649**
Status : **Answered**
Chosen Option : **3**

Q.20 एक वर्ष के दौरान वायु की दिशा में ऋतु के अनुसार परिवर्तन को _____ कहते हैं।

Ans
1. मानसून ✓
2. जलवायु ✗
3. उत्सर्जन ✗
4. समीर ✗

Question Type : **MCQ**
Question ID : **264330133899**
Option 1 ID : **264330524622**
Option 2 ID : **264330524620**
Option 3 ID : **264330524621**
Option 4 ID : **264330524619**
Status : **Answered**
Chosen Option : **1**

Q.21 कंचनजुंगा जीव मंडल निचय (आरक्षित क्षेत्र) निम्नलिखित में से किस राज्य में स्थित है?

Ans
1. केरल ✗
2. असम ✗
3. मणिपुर ✗
4. सिक्किम ✓

Question Type : **MCQ**
Question ID : **264330137743**
Option 1 ID : **264330539580**
Option 2 ID : **264330539579**
Option 3 ID : **264330539581**
Option 4 ID : **264330539582**
Status : **Answered**
Chosen Option : **2**

Join Telegram Group "HaryanaJobs.in"

Q.22 मराठी समाचार पत्र "केसरी (Kesari)" के संपादक _____ थे।

Ans
✔ 1. बाल गंगाधर तिलक
✘ 2. लाला लाजपत राय
✘ 3. बिपिन चंद्र पाल
✘ 4. अरबिंदो घोष

Question Type : **MCQ**
Question ID : **264330133905**
Option 1 ID : **264330524644**
Option 2 ID : **264330524643**
Option 3 ID : **264330524645**
Option 4 ID : **264330524646**
Status : **Answered**
Chosen Option : **2**

Q.23 नीति आयोग (NITI Aayog) के पहले राष्ट्रीय बहुआयामी गरीबी सूचकांक के अनुसार, किस राज्य में गरीब लोगों की संख्या का प्रतिशत सबसे अधिक है?

Ans
✘ 1. उत्तरप्रदेश
✔ 2. बिहार
✘ 3. झारखंड
✘ 4. मध्यप्रदेश

Question Type : **MCQ**
Question ID : **264330137407**
Option 1 ID : **264330538256**
Option 2 ID : **264330538257**
Option 3 ID : **264330538255**
Option 4 ID : **264330538258**
Status : **Answered**
Chosen Option : **2**

Q.24 इल्बर्ट बिल लॉर्ड रिपन के कार्यकाल के दौरान सन् _____ में भारतीय और यूरोपीय न्यायाधीशों के बीच समानता स्थापित करने के लिए पारित किया गया था

Ans
✘ 1. 1876
✘ 2. 1871
✔ 3. 1883
✘ 4. 1892

Question Type : **MCQ**
Question ID : **264330138236**
Option 1 ID : **264330541551**
Option 2 ID : **264330541554**
Option 3 ID : **264330541552**
Option 4 ID : **264330541553**
Status : **Answered**
Chosen Option : **2**

Join Telegram Group "HaryanaJobs.in"

Q.25 पत्ती के चपटे हरे भाग को _____ कहते हैं।

Ans
1. मध्य शिरा ✗
2. फलक ✓
3. शिरा ✗
4. पर्णवृंत ✗

Question Type : **MCQ**
Question ID : **264330133894**
Option 1 ID : **264330524602**
Option 2 ID : **264330524601**
Option 3 ID : **264330524600**
Option 4 ID : **264330524599**
Status : **Answered**
Chosen Option : **4**

Section : **English Language and Comprehension**

Q.1 Select the most appropriate antonym of the given word.

Culpable

Ans
1. Edible ✗
2. Rigorous ✗
3. Innocent ✓
4. Reasonable ✗

Question Type : **MCQ**
Question ID : **264330136605**
Option 1 ID : **264330535147**
Option 2 ID : **264330535149**
Option 3 ID : **264330535150**
Option 4 ID : **264330535148**
Status : **Not Answered**
Chosen Option : **--**

Q.2 Select the most appropriate word for the given group of words.

A large, tall cupboard in which clothes may be hung or stored

Ans
1. Hypergamy ✗
2. Honorary ✗
3. Wardrobe ✓
4. Gibber ✗

Question Type : **MCQ**
Question ID : **264330136097**
Option 1 ID : **264330533197**
Option 2 ID : **264330533198**
Option 3 ID : **264330533196**
Option 4 ID : **264330533195**
Status : **Answered**
Chosen Option : **3**

Join Telegram Group "HaryanaJobs.in"

Q.3 **In the following question, out of the given four alternatives, select the alternative which best expresses the meaning of the Idiom/Phrase.**
To bear the brunt of

Ans
✔ 1. To endure the impact of something
✘ 2. To become free from
✘ 3. For one's sake
✘ 4. An inexperienced person

Question Type : **MCQ**
Question ID : **264330134367**
Option 1 ID : **264330526453**
Option 2 ID : **264330526452**
Option 3 ID : **264330526451**
Option 4 ID : **264330526454**
Status : **Answered**
Chosen Option : **1**

Q.4 **Improve the underlined part of the sentence. Choose 'No improvement' as an answer if the sentence is grammatically correct.**
Dr. Mark said I can came to his office on Friday or Saturday of next week.

Ans
✔ 1. come to his office on
✘ 2. No improvement
✘ 3. comes to his office in
✘ 4. coming to his office at

Question Type : **MCQ**
Question ID : **264330134351**
Option 1 ID : **264330526391**
Option 2 ID : **264330526394**
Option 3 ID : **264330526393**
Option 4 ID : **264330526392**
Status : **Answered**
Chosen Option : **1**

Q.5 **Select the most appropriate option to fill in the blank.**
He _____ his teeth against the curse on his tongue.

Ans
✘ 1. unclasped
✔ 2. clenched
✘ 3. dropped
✘ 4. yielded

Question Type : **MCQ**
Question ID : **264330134371**
Option 1 ID : **264330526468**
Option 2 ID : **264330526469**
Option 3 ID : **264330526470**
Option 4 ID : **264330526467**
Status : **Answered**
Chosen Option : **4**

Join Telegram Group "HaryanaJobs.in"

Q.6 Identify the segment that contains a grammatical error. If there is no error, select 'No error'.
And how amorous you become / when your courtship with the / muses is going stronger.

Ans
✗ 1. And how amorous you become
✓ 2. muses is going stronger.
✗ 3. No Error
✗ 4. when your courtship with the

Question Type : **MCQ**
Question ID : **264330135794**
Option 1 ID : **264330532051**
Option 2 ID : **264330532053**
Option 3 ID : **264330532054**
Option 4 ID : **264330532052**
Status : **Answered**
Chosen Option : **1**

Q.7 **Improve the underlined part of the sentence. Choose 'No improvement' as an answer if the sentence is grammatically correct.**
The sea wall protected the village in the waves.

Ans
✗ 1. village through
✗ 2. village by
✓ 3. village from
✗ 4. No improvement

Question Type : **MCQ**
Question ID : **264330134323**
Option 1 ID : **264330526284**
Option 2 ID : **264330526285**
Option 3 ID : **264330526283**
Option 4 ID : **264330526286**
Status : **Answered**
Chosen Option : **1**

Q.8 **Find the part of the given sentence that has an error in it. If there is no error, choose 'No error'.**
You can find these books into the extreme corner of this shelf.

Ans
✗ 1. No error
✗ 2. corner of this shelf.
✓ 3. books into the extreme
✗ 4. You can find these

Question Type : **MCQ**
Question ID : **264330134348**
Option 1 ID : **264330526382**
Option 2 ID : **264330526381**
Option 3 ID : **264330526380**
Option 4 ID : **264330526379**
Status : **Answered**
Chosen Option : **1**

Join Telegram Group "HaryanaJobs.in"

Q.9 Select the most appropriate meaning of the given idiom.

Between a rock and a hard place

Ans ✗ 1. Avoiding the main topic, not speaking directly about the issue

✓ 2. Stuck between two very bad options

✗ 3. Willing to do anything

✗ 4. On the point of achievement

Question Type : **MCQ**
Question ID : **264330136103**
Option 1 ID : **264330533222**
Option 2 ID : **264330533221**
Option 3 ID : **264330533219**
Option 4 ID : **264330533220**
Status : **Answered**
Chosen Option : **1**

Q.10 **Select the appropriate antonym for the underlined word.**
A mysterious glowing girl has informed him of the death.

Ans ✓ 1. evident

✗ 2. cryptic

✗ 3. critical

✗ 4. murky

Question Type : **MCQ**
Question ID : **264330134365**
Option 1 ID : **264330526446**
Option 2 ID : **264330526444**
Option 3 ID : **264330526445**
Option 4 ID : **264330526443**
Status : **Answered**
Chosen Option : **3**

Q.11 **Choose the word that can substitute the given group of words.**
One who is 100 years old or older

Ans ✗ 1. Sententia

✗ 2. Immortal

✗ 3. Mortal

✓ 4. Centenarian

Question Type : **MCQ**
Question ID : **264330134361**
Option 1 ID : **264330526429**
Option 2 ID : **264330526428**
Option 3 ID : **264330526430**
Option 4 ID : **264330526427**
Status : **Answered**
Chosen Option : **3**

Join Telegram Group "HaryanaJobs.in"

Q.12 **Select the appropriate synonym for the underlined word.**
John says, "I am <u>serious</u>."

Ans
✗ 1. comical
✗ 2. light
✗ 3. safe
✓ 4. severe

Question Type : **MCQ**
Question ID : **264330134362**
Option 1 ID : **264330526433**
Option 2 ID : **264330526434**
Option 3 ID : **264330526431**
Option 4 ID : **264330526432**
Status : **Answered**
Chosen Option : **2**

Q.13 **Choose the sentence with no spelling error.**

Ans
✗ 1. He wondared about lots of things.
✗ 2. He wondered about lotts of things.
✓ 3. He wondered about lots of things.
✗ 4. He wondered about lots of thinggs.

Question Type : **MCQ**
Question ID : **264330134369**
Option 1 ID : **264330526461**
Option 2 ID : **264330526460**
Option 3 ID : **264330526462**
Option 4 ID : **264330526459**
Status : **Answered**
Chosen Option : **3**

Q.14 **A sentence has been given with a blank to be filled with an appropriate option. Choose the correct alternative.**
The royal messengers _____ out last night.

Ans
✗ 1. goes
✗ 2. gone
✗ 3. go
✓ 4. went

Question Type : **MCQ**
Question ID : **264330134352**
Option 1 ID : **264330526395**
Option 2 ID : **264330526397**
Option 3 ID : **264330526398**
Option 4 ID : **264330526396**
Status : **Answered**
Chosen Option : **4**

Join Telegram Group "HaryanaJobs.in"

Q.15 Find the part of the given sentence that has an error in it. If there is no error, choose 'No error'.

Mothers can pass the HIV virus to their newborns during delivery as well, WHO says.

Ans

✗ 1. Mothers can pass the HIV virus to

✗ 2. No error

✗ 3. their newborns during delivery

✓ 4. as well, WHO says.

Question Type : **MCQ**
Question ID : **264330135178**
Option 1 ID : **264330529643**
Option 2 ID : **264330529646**
Option 3 ID : **264330529644**
Option 4 ID : **264330529645**
Status : **Answered**
Chosen Option : **3**

Q.16 **Select the most appropriate option to fill in the blank.**
Enzymes can _____ starches into sugars and proteins into amino acids.

Ans

✗ 1. cover

✗ 2. covert

✓ 3. convert

✗ 4. conserve

Question Type : **MCQ**
Question ID : **264330134370**
Option 1 ID : **264330526464**
Option 2 ID : **264330526465**
Option 3 ID : **264330526466**
Option 4 ID : **264330526463**
Status : **Answered**
Chosen Option : **3**

Q.17 Select the most appropriate option to substitute the bracketed segment in the given sentence. If there is no need to substitute it, select 'no substitution required'.

The only course of action to (fend of the loud clamour off conspiracy theories) is to keep everyone fully informed.

Ans

✓ 1. fend off the loud clamour of conspiracy theories

✗ 2. No substitution required

✗ 3. fend off the loud clamour off conspiracy theories

✗ 4. fend of the loud clamour of conspiracy theories

Question Type : **MCQ**
Question ID : **264330135797**
Option 1 ID : **264330532065**
Option 2 ID : **264330532066**
Option 3 ID : **264330532063**
Option 4 ID : **264330532064**
Status : **Answered**
Chosen Option : **4**

Join Telegram Group "HaryanaJobs.in"

Q.18 **A sentence has been given with a blank to be filled with an appropriate option. Choose the correct alternative.**
I _____ only a few steps before I was forced to stop.

Ans
✗ 1. walk
✗ 2. walked
✓ 3. had walked
✗ 4. have walked

Question Type : **MCQ**
Question ID : **264330134353**
Option 1 ID : **264330526402**
Option 2 ID : **264330526401**
Option 3 ID : **264330526400**
Option 4 ID : **264330526399**
Status : **Answered**
Chosen Option : **3**

Q.19 **Choose the incorrectly spelt word.**

Ans
✓ 1. Pleasurre
✗ 2. Heaven
✗ 3. Slogan
✗ 4. Brinjal

Question Type : **MCQ**
Question ID : **264330134368**
Option 1 ID : **264330526457**
Option 2 ID : **264330526455**
Option 3 ID : **264330526456**
Option 4 ID : **264330526458**
Status : **Answered**
Chosen Option : **1**

Q.20 **Choose the word that means the same as the given word.**
Villainous

Ans
✗ 1. Famous
✓ 2. Nefarious
✗ 3. Wholesome
✗ 4. Lucid

Question Type : **MCQ**
Question ID : **264330134389**
Option 1 ID : **264330526536**
Option 2 ID : **264330526535**
Option 3 ID : **264330526538**
Option 4 ID : **264330526537**
Status : **Answered**
Chosen Option : **1**

Join Telegram Group "HaryanaJobs.in"

Comprehension:

In the following passage some words have been deleted. Fill in the blanks with the help of the alternatives given. Select the most appropriate option for each number.

"Why?" said Harry in surprise. "There is a (1) _____, Harry Potter. A plot to make most terrible things (2) _____ at Hogwarts School of Witchcraft and Wizardry (3) _____," whispered Dobby, suddenly trembling all over. "Dobby has (4) _____ months, sir. Harry Potter (5) _____ in peril.

SubQuestion No : 21

Q.21 Select the most appropriate option to fill in blank number 1.

Ans

✔ 1. plot

✘ 2. diary

✘ 3. paper

✘ 4. notebook

Question Type : **MCQ**
Question ID : **264330136596**
Option 1 ID : **264330535112**
Option 2 ID : **264330535114**
Option 3 ID : **264330535111**
Option 4 ID : **264330535113**
Status : **Answered**
Chosen Option : **1**

Comprehension:

In the following passage some words have been deleted. Fill in the blanks with the help of the alternatives given. Select the most appropriate option for each number.

"Why?" said Harry in surprise. "There is a (1) _____, Harry Potter. A plot to make most terrible things (2) _____ at Hogwarts School of Witchcraft and Wizardry (3) _____," whispered Dobby, suddenly trembling all over. "Dobby has (4) _____ months, sir. Harry Potter (5) _____ in peril.

SubQuestion No : 22

Q.22 Select the most appropriate option to fill in blank number 2.

Ans

✘ 1. happening

✘ 2. happened

✔ 3. happen

✘ 4. happens

Question Type : **MCQ**
Question ID : **264330136597**
Option 1 ID : **264330535118**
Option 2 ID : **264330535116**
Option 3 ID : **264330535117**
Option 4 ID : **264330535115**
Status : **Answered**
Chosen Option : **4**

Join Telegram Group "HaryanaJobs.in"

Comprehension:

In the following passage some words have been deleted. Fill in the blanks with the help of the alternatives given. Select the most appropriate option for each number.

"Why?" said Harry in surprise. "There is a (1) _____, Harry Potter. A plot to make most terrible things (2) _____ at Hogwarts School of Witchcraft and Wizardry (3) _____," whispered Dobby, suddenly trembling all over. "Dobby has (4) _____ months, sir. Harry Potter (5) _____ in peril.

SubQuestion No : 23

Q.23 Select the most appropriate option to fill in blank number 3.

Ans

✗ 1. the year

✗ 2. those years

✗ 3. that year

✓ 4. this year

Question Type : **MCQ**
Question ID : **264330136598**
Option 1 ID : **264330535119**
Option 2 ID : **264330535121**
Option 3 ID : **264330535120**
Option 4 ID : **264330535122**
Status : **Answered**
Chosen Option : **4**

Comprehension:

In the following passage some words have been deleted. Fill in the blanks with the help of the alternatives given. Select the most appropriate option for each number.

"Why?" said Harry in surprise. "There is a (1) _____, Harry Potter. A plot to make most terrible things (2) _____ at Hogwarts School of Witchcraft and Wizardry (3) _____," whispered Dobby, suddenly trembling all over. "Dobby has (4) _____ months, sir. Harry Potter (5) _____ in peril.

SubQuestion No : 24

Q.24 Select the most appropriate option to fill in blank number 4.

Ans

✗ 1. had knowing for

✓ 2. known it for

✗ 3. had acknowledging for

✗ 4. been known since

Question Type : **MCQ**
Question ID : **264330136599**
Option 1 ID : **264330535125**
Option 2 ID : **264330535123**
Option 3 ID : **264330535126**
Option 4 ID : **264330535124**
Status : **Answered**
Chosen Option : **4**

Join Telegram Group "HaryanaJobs.in"

Comprehension:

In the following passage some words have been deleted. Fill in the blanks with the help of the alternatives given. Select the most appropriate option for each number.

"Why?" said Harry in surprise. "There is a (1) _____, Harry Potter. A plot to make most terrible things (2) _____ at Hogwarts School of Witchcraft and Wizardry (3) _____," whispered Dobby, suddenly trembling all over. "Dobby has (4) _____ months, sir. Harry Potter (5) _____ in peril.

SubQuestion No : 25

Q.25 Select the most appropriate option to fill in blank number 5.

Ans

✗ 1. must not insert himself

✗ 2. must not put his self

✓ 3. must not put himself

✗ 4. might not put oneself

Question Type : **MCQ**
Question ID : **264330136600**
Option 1 ID : **264330535130**
Option 2 ID : **264330535129**
Option 3 ID : **264330535128**
Option 4 ID : **264330535127**
Status : **Answered**
Chosen Option : **3**

Join Telegram Group "HaryanaJobs.in"

Multi Tasking Non Technical Staff and Havaldar CBIC and CBN Examination 2022

Roll Number	HaryanaJobs.in
Candidate Name	HaryanaJobs.in
Venue Name	Vibrant Assessment Centre
Exam Date	17/05/2023
Exam Time	3:30 PM - 5:00 PM
Subject	MTS Non Tech Havaldar CBIC and CBN Examination 2022

Section : **Numerical and Mathematical Ability**

Q.1 यदि एक संख्या का 20% दूसरी संख्या का (1/6) भाग है, तो पहली संख्या का दूसरी संख्या से अनुपात कितना है?

Ans

✗ 1. 4:5

✓ 2. 5:6

✗ 3. 4:7

✗ 4. 5:3

Question Type : **MCQ**
Question ID : **264330135118**
Option 1 ID : **264330529407**
Option 2 ID : **264330529409**
Option 3 ID : **264330529410**
Option 4 ID : **264330529408**
Status : **Answered**
Chosen Option : **2**

Q.2 $\frac{13\times4-26}{54-7\times4}$ का मान क्या है?

Ans

✓ 1. 1

✗ 2. 0

✗ 3. -1

✗ 4. 10

Question Type : **MCQ**
Question ID : **264330137619**
Option 1 ID : **264330539084**
Option 2 ID : **264330539085**
Option 3 ID : **264330539083**
Option 4 ID : **264330539086**
Status : **Answered**
Chosen Option : **1**

Join Telegram Group "HaryanaJobs.in"

Q.3 एक वृत्ताकार पथ की बाहरी और आंतरिक परिधियों का अनुपात 11 : 7 है। यदि पथ की चौड़ाई 20 मीटर है, तो आंतरिक वृत्त की त्रिज्या कितनी है?

Ans
1. 55 मीटर
2. 20 मीटर
3. 65 मीटर
4. 35 मीटर

Question Type : **MCQ**
Question ID : **264330137168**
Option 1 ID : **264330537317**
Option 2 ID : **264330537315**
Option 3 ID : **264330537316**
Option 4 ID : **264330537318**
Status : **Answered**
Chosen Option : **4**

Q.4 रीनल ने Rs. 28500 में एक एसी (AC) खरीदा और उसकी ढुलाई के लिए Rs. 600 का भुगतान किया। फिर उसने इसे Rs. 30264 में बेच दिया। उसका लाभ % क्या है?

Ans
1. 8%
2. 5%
3. 10%
4. 4%

Question Type : **MCQ**
Question ID : **264330135116**
Option 1 ID : **264330529401**
Option 2 ID : **264330529400**
Option 3 ID : **264330529399**
Option 4 ID : **264330529402**
Status : **Answered**
Chosen Option : **4**

Q.5 A अकेले किसी कार्य का(1/10) भाग 8 घंटों में कर सकता है। B अकेले उसी कार्य का(1/5) भाग 4 घंटों में कर सकता है। यदि वे मिलकर कार्य करें, तो उसी कार्य के(9/16) भाग को पूरा करने में उन्हें कितने घंटे लगेंगे?

Ans
1. 8 घंटे
2. 9 घंटे
3. 4 घंटे
4. 5 घंटे

Question Type : **MCQ**
Question ID : **264330137153**
Option 1 ID : **264330537258**
Option 2 ID : **264330537255**
Option 3 ID : **264330537257**
Option 4 ID : **264330537256**
Status : **Answered**
Chosen Option : **2**

Join Telegram Group "HaryanaJobs.in"

Q.6 निम्नलिखित दंड आलेख में दो क्रमागत वर्षों 2018 और 2019 के दौरान एक कंपनी के पाँच स्टोर से की गई सेलफोन की
बिक्री (हजार संख्या में) को दर्शाया गया है।
दोनों वर्षों में स्टोर S_3 की कुल बिक्री और दोनों वर्षों में स्टोर S_1 की कुल बिक्री का अनुपात कितना है?

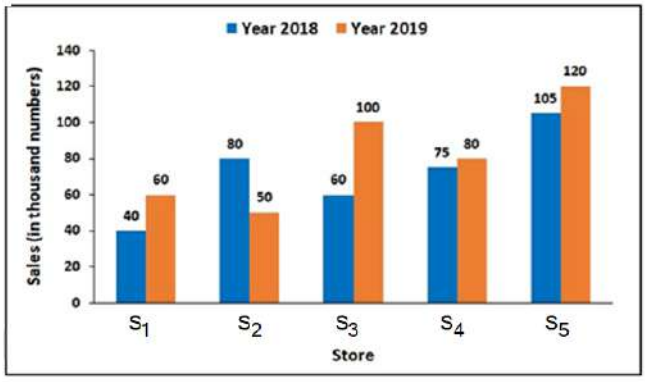

Sales (in thousand numbers) = बिक्री (हजार संख्या में)
Year 2018 = वर्ष 2018, Year 2019 = वर्ष 2019
Store = स्टोर

Ans
1. 4:5
2. 3:7
3. 8:5
4. 7:4

Question Type : **MCQ**
Question ID : **264330135126**
Option 1 ID : **264330529440**
Option 2 ID : **264330529442**
Option 3 ID : **264330529439**
Option 4 ID : **264330529441**
Status : **Answered**
Chosen Option : **3**

Q.7 एक बेलन की त्रिज्या 14 cm है। यदि बेलन की ऊँचाई उसकी त्रिज्या की चार गुनी है, तो बेलन का वक्र पृष्ठीय क्षेत्रफल क्या है?

Ans
1. 5546 cm^2
2. 4928 cm^2
3. 4694 cm^2
4. 5214 cm^2

Question Type : **MCQ**
Question ID : **264330139089**
Option 1 ID : **264330544963**
Option 2 ID : **264330544964**
Option 3 ID : **264330544966**
Option 4 ID : **264330544965**
Status : **Answered**
Chosen Option : **2**

Join Telegram Group "HaryanaJobs.in"

Q.8 यदि 2 वर्षों के लिए चक्रवृद्धि ब्याज Rs.618 है, तो एक व्यक्ति द्वारा निवेश की गई वह धनराशि ज्ञात कीजिए जो उसने 6% वार्षिक दर पर चक्रवृद्धि ब्याज (वार्षिक रूप से संयोजित) प्रदान करने वाली योजना में निवेश की है।

Ans

1. ✗ Rs.9000
2. ✓ Rs.5000
3. ✗ Rs.4000
4. ✗ Rs.7000

Question Type : **MCQ**
Question ID : **264330135425**
Option 1 ID : **264330530607**
Option 2 ID : **264330530610**
Option 3 ID : **264330530609**
Option 4 ID : **264330530608**
Status : **Answered**
Chosen Option : **2**

Q.9 Rs. 6000 की राशि 8 प्रतिशत वार्षिक दर से चक्रवृद्धि ब्याज (तिमाही रूप से संयोजित) पर ऋण पर दी जाती है। 6 माह का चक्रवृद्धि ब्याज कितना होगा?

Ans

1. ✗ Rs. 164.6
2. ✗ Rs. 268.6
3. ✓ Rs. 242.4
4. ✗ Rs. 190.5

Question Type : **MCQ**
Question ID : **264330139067**
Option 1 ID : **264330544876**
Option 2 ID : **264330544877**
Option 3 ID : **264330544875**
Option 4 ID : **264330544878**
Status : **Answered**
Chosen Option : **2**

Q.10 10 संख्याओं का औसत 8 है। यदि प्रत्येक संख्या को 10 से गुणा किया जाए, तो नया औसत _____ होगा।

Ans

1. ✓ 80
2. ✗ 50
3. ✗ 8
4. ✗ 18

Question Type : **MCQ**
Question ID : **264330135111**
Option 1 ID : **264330529381**
Option 2 ID : **264330529382**
Option 3 ID : **264330529379**
Option 4 ID : **264330529380**
Status : **Answered**
Chosen Option : **4**

Join Telegram Group "HaryanaJobs.in"

Q.11 एक कक्षा में, यदि 55% छात्र, लड़के हैं और लड़कियों की संख्या 90 है, तो लड़कों की संख्या ज्ञात कीजिए।

Ans

✗ 1. 198

✗ 2. 120

✗ 3. 135

✓ 4. 110

Question Type : **MCQ**
Question ID : **264330135418**
Option 1 ID : **264330530582**
Option 2 ID : **264330530579**
Option 3 ID : **264330530581**
Option 4 ID : **264330530580**
Status : **Answered**
Chosen Option : **4**

Q.12 A अकेले किसी कार्य को 25 दिनों में पूरा कर सकता है और B अकेले उसी कार्य को 50 दिनों में पूरा कर सकता है। यदि वे दोनों साथ मिलकर कार्य करते हैं, तो कुल कार्य का कितना प्रतिशत कार्य 9 दिनों में पूरा होगा?

Ans

✗ 1. 49 प्रतिशत

✗ 2. 60 प्रतिशत

✓ 3. 54 प्रतिशत

✗ 4. 45 प्रतिशत

Question Type : **MCQ**
Question ID : **264330139076**
Option 1 ID : **264330544914**
Option 2 ID : **264330544911**
Option 3 ID : **264330544912**
Option 4 ID : **264330544913**
Status : **Answered**
Chosen Option : **3**

Q.13 एक लड़की अपने बगीचे में पेड़ों को पंक्तियों में इस प्रकार लगाना चाहती है कि प्रत्येक पंक्ति में पेड़ों की संख्या समान हो। बगीचे में 10 पंक्तियाँ हैं और प्रत्येक पंक्ति में पेड़ों की संख्या 12 है, यदि बगीचे में 5 और पंक्तियाँ बना दी जाती हैं, तो प्रत्येक पंक्ति में पेड़ों की संख्या कितनी होगी?

Ans

✗ 1. 12

✗ 2. 10

✓ 3. 8

✗ 4. 6

Question Type : **MCQ**
Question ID : **264330135119**
Option 1 ID : **264330529412**
Option 2 ID : **264330529411**
Option 3 ID : **264330529413**
Option 4 ID : **264330529414**
Status : **Answered**
Chosen Option : **1**

Join Telegram Group "HaryanaJobs.in"

Q.14 निम्न तालिका में वर्ष 2012 से 2018 तक 5 विभिन्न कंपनियों में कर्मचारियों की संख्या को दर्शाया गया है। वर्ष 2015 में, कंपनी C में कर्मचारियों की संख्या, कंपनी E से कितने प्रतिशत कम है?

Year/ Company	A	B	C	D	E
2012	242	215	223	211	177
2013	245	163	165	213	211
2014	231	191	221	241	215
2015	198	188	222	223	250
2016	197	240	175	221	254
2017	177	245	268	198	268
2018	158	230	213	215	218

Year - वर्ष, Company - कंपनी

Ans
1. 11.2%
2. 16%
3. 28%
4. 18.8%

Question Type : **MCQ**
Question ID : **264330138451**
Option 1 ID : **264330542412**
Option 2 ID : **264330542414**
Option 3 ID : **264330542411**
Option 4 ID : **264330542413**
Status : **Answered**
Chosen Option : **1**

Q.15 एक वस्तु 20 m की दूरी 5 सेकंड में तथा एक और 25 m की दूरी 10 सेकंड में तय करती है। वस्तु की औसत चाल क्या है?

Ans
1. 3 m/sec
2. 4 m/sec
3. 5 m/sec
4. 2 m/sec

Question Type : **MCQ**
Question ID : **264330141012**
Option 1 ID : **264330552397**
Option 2 ID : **264330552395**
Option 3 ID : **264330552398**
Option 4 ID : **264330552396**
Status : **Answered**
Chosen Option : **1**

Join Telegram Group "HaryanaJobs.in"

Q.16 एक थोक विक्रेता अपने माल को क्रय मूल्य से 35% अधिक पर अंकित करता है परंतु बिक्री के समय 15% का बट्टा देता है। उसका लाभ है:

Ans
✗ 1. 24.85%
✗ 2. 20.45%
✗ 3. 25.50%
✓ 4. 14.75%

Question Type : **MCQ**
Question ID : **264330135117**
Option 1 ID : **264330529403**
Option 2 ID : **264330529406**
Option 3 ID : **264330529405**
Option 4 ID : **264330529404**
Status : **Answered**
Chosen Option : **4**

Q.17 यदि $48 \div 4 + A \times 2 - 8 = 14$, तो A का मान ज्ञात कीजिए।

Ans
✗ 1. 14
✗ 2. 10
✓ 3. 5
✗ 4. 8

Question Type : **MCQ**
Question ID : **264330138435**
Option 1 ID : **264330542349**
Option 2 ID : **264330542348**
Option 3 ID : **264330542347**
Option 4 ID : **264330542350**
Status : **Answered**
Chosen Option : **3**

Q.18 $8 + [\{12 - (8 \div 2)\} \times (1/4)]$ का मान है:

Ans
✓ 1. 10
✗ 2. 6
✗ 3. 2
✗ 4. 8

Question Type : **MCQ**
Question ID : **264330135108**
Option 1 ID : **264330529367**
Option 2 ID : **264330529370**
Option 3 ID : **264330529369**
Option 4 ID : **264330529368**
Status : **Answered**
Chosen Option : **1**

Join Telegram Group "HaryanaJobs.in"

Q.19 सौम्य 50 km की दूरी तय करने में सन्नी से 1 घंटा अधिक लेता है। यदि सौम्य अपनी चाल दोगुनी कर देता, तो वह सन्नी से 1 घंटा कम समय लेता। सौम्य की चाल है:

Ans
1. 15.6 km/hr ✗
2. 18.4 km/hr ✗
3. 12.5 km/hr ✓
4. 14.8 km/hr ✗

Question Type : **MCQ**
Question ID : **264330135122**
Option 1 ID : **264330529424**
Option 2 ID : **264330529423**
Option 3 ID : **264330529426**
Option 4 ID : **264330529425**
Status : **Answered**
Chosen Option : **3**

Q.20 एक वस्तु के क्रय मूल्य का 40 प्रतिशत उसके विक्रय मूल्य के 24 प्रतिशत के बराबर है। लाभ प्रतिशत क्या है?

Ans
1. 50 प्रतिशत ✗
2. 66.66 प्रतिशत ✓
3. 60 प्रतिशत ✗
4. 52.5 प्रतिशत ✗

Question Type : **MCQ**
Question ID : **264330137630**
Option 1 ID : **264330539129**
Option 2 ID : **264330539128**
Option 3 ID : **264330539127**
Option 4 ID : **264330539130**
Status : **Answered**
Chosen Option : **2**

Section : **Reasoning Ability and Problem Solving**

Q.1 एक निश्चित कूट भाषा में, 'JAPAN' को 'KZPZO' लिखा जाता है। उस कूट भाषा में 'GROUP' को कैसे लिखा जाएगा?

Ans
1. HOTOQ ✗
2. HOQTQ ✗
3. HQOTQ ✓
4. HQQTO ✗

Question Type : **MCQ**
Question ID : **264330134982**
Option 1 ID : **264330528866**
Option 2 ID : **264330528865**
Option 3 ID : **264330528864**
Option 4 ID : **264330528863**
Status : **Answered**
Chosen Option : **3**

Join Telegram Group "HaryanaJobs.in"

Q.2 तीन कथन दिए गए हैं और दो निष्कर्ष I और II दिए गए हैं। कथनों को सत्य मानते हुए, चाहे वे सामान्यतः ज्ञात तथ्यों से अलग प्रतीत होते हों, निश्चय कीजिए कि कौन-सा निष्कर्ष तार्किक रूप से कथनों के अनुसार है।

कथन:

सभी महासागर, तेल हैं।

सभी तेल, दूध हैं।

सभी दूध, पानी हैं।

निष्कर्ष:

I. कुछ पानी, दूध हैं।

II. सभी दूध, महासागर हैं।

Ans

✗ 1. केवल निष्कर्ष II कथनों के अनुसार है।

✗ 2. दोनों निष्कर्ष I और II कथनों के अनुसार हैं।

✓ 3. केवल निष्कर्ष I कथनों के अनुसार है।

✗ 4. न तो निष्कर्ष I और न ही II कथनों के अनुसार है।

Question Type : **MCQ**
Question ID : **264330135010**
Option 1 ID : **264330528976**
Option 2 ID : **264330528977**
Option 3 ID : **264330528975**
Option 4 ID : **264330528978**
Status : **Answered**
Chosen Option : **3**

Join Telegram Group "HaryanaJobs.in"

Q.3 उस विकल्प आकृति को चुनिए जिसमें दी गई आकृति निहित है। (घूर्णन की अनुमति नहीं है)

Ans

✔ 1.

✘ 2.

✘ 3. 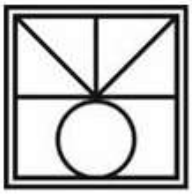

✘ 4.

Question Type : **MCQ**
Question ID : **264330138558**
Option 1 ID : **264330542841**
Option 2 ID : **264330542840**
Option 3 ID : **264330542842**
Option 4 ID : **264330542839**
Status : **Answered**
Chosen Option : **1**

Q.4 R, M से लंबा है। M, P से लंबा है। S, R से लंबा है। H, P से कद में छोटा है। U, N से लंबा है और H से कद में छोटा है। इनमें से सबसे लंबा कौन है?

Ans

✘ 1. U

✔ 2. S

✘ 3. M

✘ 4. R

Question Type : **MCQ**
Question ID : **264330135008**
Option 1 ID : **264330528967**
Option 2 ID : **264330528970**
Option 3 ID : **264330528968**
Option 4 ID : **264330528969**
Status : **Answered**
Chosen Option : **2**

Join Telegram Group "HaryanaJobs.in"

Q.5 यदि एक दर्पण को रेखा AB पर रखा जाए, तो दी गई विकल्प आकृतियों में से कौन-सी आकृति प्रश्न आकृति का सही प्रतिबिम्ब होगी?

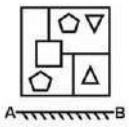

Ans

✗ 1. 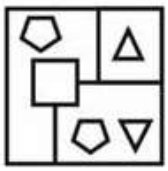

✗ 2. 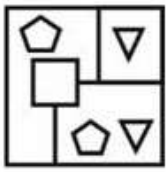

✓ 3. 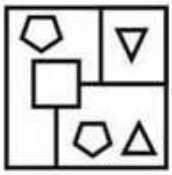

✗ 4. 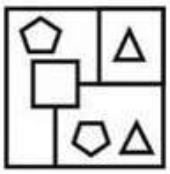

Question Type : **MCQ**
Question ID : **264330138559**
Option 1 ID : **264330542844**
Option 2 ID : **264330542845**
Option 3 ID : **264330542846**
Option 4 ID : **264330542843**
Status : **Answered**
Chosen Option : **3**

Q.6 दी गई श्रृंखला में निम्नलिखित में से कौन-सी संख्या प्रश्न चिन्ह (?) के स्थान पर आएगी?
53, 60, 67, 74, 81, 88, ?

Ans

✓ 1. 95

✗ 2. 98

✗ 3. 104

✗ 4. 93

Question Type : **MCQ**
Question ID : **264330135012**
Option 1 ID : **264330528983**
Option 2 ID : **264330528985**
Option 3 ID : **264330528986**
Option 4 ID : **264330528984**
Status : **Answered**
Chosen Option : **1**

Join Telegram Group "HaryanaJobs.in"

Q.7 एक निश्चित कूट भाषा में, 'EAR' को '24' लिखा जाता है। उस भाषा में 'ICY' को कैसे लिखा जाएगा?

Ans
1. 34 ✗
2. 37 ✓
3. 38 ✗
4. 42 ✗

Question Type : **MCQ**
Question ID : **264330137856**
Option 1 ID : **264330540033**
Option 2 ID : **264330540032**
Option 3 ID : **264330540034**
Option 4 ID : **264330540031**
Status : **Answered**
Chosen Option : **2**

Q.8 उस विकल्प को चुनिए जो तीसरे अक्षर-समूह से ठीक उसी प्रकार संबंधित है जिस प्रकार दूसरा अक्षर-समूह पहले अक्षर-समूह से संबंधित है।
AFN : BDQ :: DLR : ?

Ans
1. EJU ✓
2. JUN ✗
3. EUJ ✗
4. UJE ✗

Question Type : **MCQ**
Question ID : **264330135000**
Option 1 ID : **264330528935**
Option 2 ID : **264330528938**
Option 3 ID : **264330528936**
Option 4 ID : **264330528937**
Status : **Answered**
Chosen Option : **1**

Q.9 दी गई श्रृंखला में निम्नलिखित में से कौनसा अक्षर प्रश्न चिन्ह (?) के स्थान पर आएगा?
L, N, R, X, F, P, ?

Ans
1. M ✗
2. S ✗
3. B ✓
4. F ✗

Question Type : **MCQ**
Question ID : **264330134998**
Option 1 ID : **264330528927**
Option 2 ID : **264330528929**
Option 3 ID : **264330528928**
Option 4 ID : **264330528930**
Status : **Answered**
Chosen Option : **3**

Join Telegram Group "HaryanaJobs.in"

Q.10 P, Q, R, S और T एक वृत्ताकार मेज पर केंद्र की ओर मुख करके बैठे हैं। R, T के ठीक बाईं ओर बैठा है। Q, S के ठीक बाईं ओर, और T के ठीक दाईं ओर बैठा है। S के ठीक दाईं ओर कौन बैठा है?

Ans
✔ 1. P
✘ 2. T
✘ 3. R
✘ 4. Q

Question Type : **MCQ**
Question ID : **264330135007**
Option 1 ID : **264330528963**
Option 2 ID : **264330528966**
Option 3 ID : **264330528965**
Option 4 ID : **264330528964**
Status : **Answered**
Chosen Option : **1**

Q.11 दिए गए पैटर्न का ध्यानपूर्वक अध्ययन कीजिए और उस संख्या को चुनिए जो इसमें प्रश्न चिन्ह (?) के स्थान पर आ सकती है।
पहली पंक्ति- 68, 56, 44
दूसरी पंक्ति- 245, 233, 221
तीसरी पंक्ति- 97, 85, ?

Ans
✘ 1. 89
✘ 2. 93
✔ 3. 73
✘ 4. 90

Question Type : **MCQ**
Question ID : **264330135014**
Option 1 ID : **264330528992**
Option 2 ID : **264330528993**
Option 3 ID : **264330528991**
Option 4 ID : **264330528994**
Status : **Answered**
Chosen Option : **3**

Q.12 एक निश्चित कूट भाषा में, 'FIELD' को 'LOKRJ' लिखा जाता है और 'GLOBE' को 'MRUHK' लिखा जाता है। उस भाषा में 'GLASS' को कैसे लिखा जाएगा?

Ans
✘ 1. MRHYY
✘ 2. MRGZZ
✔ 3. MRGYY
✘ 4. MSGYY

Question Type : **MCQ**
Question ID : **264330133510**
Option 1 ID : **264330523073**
Option 2 ID : **264330523074**
Option 3 ID : **264330523071**
Option 4 ID : **264330523072**
Status : **Answered**
Chosen Option : **3**

Join Telegram Group "HaryanaJobs.in"

Q.13 अयान, प्रशांत, रितु, नीता, स्नेहा और ज़ैन एक पंक्ति में दक्षिण की ओर मुख करके बैठे हैं। स्नेहा और ज़ैन मध्य में बैठे हैं। अयान और प्रशांत कोनों पर बैठे हैं। रितु अयान के ठीक बाएँ पर बैठी है। प्रशांत के ठीक दाएँ पर कौन बैठा है?

Ans

✔ 1. नीता

✘ 2. स्नेहा

✘ 3. अयान

✘ 4. रितु

Question Type : **MCQ**
Question ID : **264330135006**
Option 1 ID : **264330528959**
Option 2 ID : **264330528961**
Option 3 ID : **264330528962**
Option 4 ID : **264330528960**
Status : **Answered**
Chosen Option : **1**

Q.14 दो कथन दिए गए हैं और दो निष्कर्ष I और II दिए गए हैं। कथनों को सत्य मानते हुए, चाहे वे सामान्यतः ज्ञात तथ्यों से अलग प्रतीत होते हों, निश्चय कीजिए कि कौन-सा निष्कर्ष तार्किक रूप से कथनों के अनुसार है।

कथन:

सभी घंटियाँ, पक्षी हैं।

कुछ घंटियाँ, खिलौने हैं।

निष्कर्ष:

I. कोई पक्षी, खिलौना नहीं है।

II. कुछ खिलौने, पक्षी हैं।

Ans

✘ 1. केवल निष्कर्ष I कथनों के अनुसार है।

✘ 2. न तो निष्कर्ष I और न ही II कथनों के अनुसार है।

✔ 3. केवल निष्कर्ष II कथनों के अनुसार है।

✘ 4. दोनों निष्कर्ष I और II कथनों के अनुसार हैं।

Question Type : **MCQ**
Question ID : **264330135009**
Option 1 ID : **264330528971**
Option 2 ID : **264330528974**
Option 3 ID : **264330528972**
Option 4 ID : **264330528973**
Status : **Answered**
Chosen Option : **3**

Join Telegram Group "HaryanaJobs.in"

Q.15 दिए गए समीकरण को सही करने के लिए किन दो संख्याओं को आपस में बदला जाना चाहिए?
5 × 7 − 4 + 21 ÷ 6 = 29

Ans
1. 5 और 4
2. 21 और 29
3. 6 और 5
4. 6 और 7

Question Type : **MCQ**
Question ID : **264330135015**
Option 1 ID : **264330528995**
Option 2 ID : **264330528997**
Option 3 ID : **264330528996**
Option 4 ID : **264330528998**
Status : **Answered**
Chosen Option : **4**

Q.16 उस विकल्प आकृति को चुनिए जो पैटर्न को पूरा करने के लिए नीचे दी गई आकृति में प्रश्न चिन्ह (?) के स्थान पर आएगी। (घूर्णन की अनुमति नहीं है)

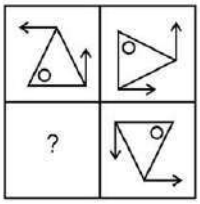

Ans
1. 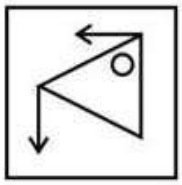
2. 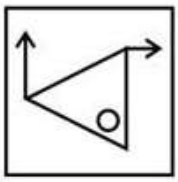
3. 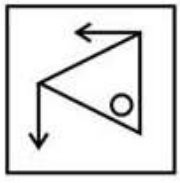
4. 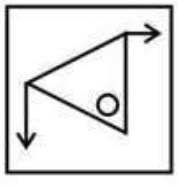

Question Type : **MCQ**
Question ID : **264330135019**
Option 1 ID : **264330529014**
Option 2 ID : **264330529013**
Option 3 ID : **264330529012**
Option 4 ID : **264330529011**
Status : **Answered**
Chosen Option : **3**

Join Telegram Group "HaryanaJobs.in"

Q.17 निम्नलिखित प्रश्न में दी गई श्रृंखला में लुप्त संख्या को चुनिए।

43, 42, 39, 34, 27, ?

Ans
1. 21
2. 16
3. 20
4. 18

Question Type : **MCQ**
Question ID : **264330135628**
Option 1 ID : **264330531413**
Option 2 ID : **264330531414**
Option 3 ID : **264330531411**
Option 4 ID : **264330531412**
Status : **Answered**
Chosen Option : **4**

Q.18 उस विकल्प को चुनिए जो तीसरे शब्द से ठीक उसी प्रकार संबंधित है जिस प्रकार दूसरा शब्द पहले शब्द से संबंधित है।
घर : कमरा :: दुनिया : ?

Ans
1. चेहरा
2. पेंसिल
3. महाद्वीप
4. बिस्तर

Question Type : **MCQ**
Question ID : **264330135001**
Option 1 ID : **264330528941**
Option 2 ID : **264330528940**
Option 3 ID : **264330528939**
Option 4 ID : **264330528942**
Status : **Answered**
Chosen Option : **3**

Q.19 उस विकल्प को चुनिए जो पाँचवीं संख्या से ठीक उसी प्रकार संबंधित है जिस प्रकार दूसरी संख्या पहली संख्या से संबंधित है और चौथी संख्या तीसरी संख्या से संबंधित है।

5 : 50 :: 17 : 170 :: 19 : ?

Ans
1. 200
2. 210
3. 190
4. 180

Question Type : **MCQ**
Question ID : **264330135630**
Option 1 ID : **264330531420**
Option 2 ID : **264330531422**
Option 3 ID : **264330531421**
Option 4 ID : **264330531419**
Status : **Answered**
Chosen Option : **3**

Join Telegram Group "HaryanaJobs.in"

Q.20 दी गई दो संख्याओं को आपस में बदलने पर निम्नलिखित में से कौन-सा समीकरण सही नहीं होगा?

8 और 2

I. 8 × 4 - 6 ÷ 3 + 2 = 14

II. 6 - 8 × 3 + 2 ÷ 1 = 9

Ans
1. केवल I
2. केवल II
3. I और II दोनों
4. न तो I और न ही II

Question Type : **MCQ**
Question ID : **264330138846**
Option 1 ID : **264330543991**
Option 2 ID : **264330543992**
Option 3 ID : **264330543993**
Option 4 ID : **264330543994**
Status : **Answered**
Chosen Option : **2**

Section : **General Awareness**

Q.1 निम्नलिखित में से कौन-सा वनस्पति जगत में आवृतबीजियों (Angiosperm) का एक उदाहरण है?

Ans
1. फ्यूनेरिया (Funaria)
2. पाइनस (Pinus)
3. कारा (Chara)
4. टमाटर (Tomato)

Question Type : **MCQ**
Question ID : **264330135491**
Option 1 ID : **264330530873**
Option 2 ID : **264330530871**
Option 3 ID : **264330530872**
Option 4 ID : **264330530874**
Status : **Answered**
Chosen Option : **4**

Join Telegram Group "HaryanaJobs.in"

Q.2 फरवरी 2022 में, कैबिनेट ने 'आयुष्मान भारत डिजिटल मिशन (Ayushman Bharat Digital Mission)' लागू करने की मंजूरी दी थी। केंद्र सरकार के किस मंत्रालय ने देशभर में आयुष्मान भारत योजना की शुरुआत की?

Ans
1. महिला एवं बाल विकास मंत्रालय
2. शिक्षा मंत्रालय
3. आयुष मंत्रालय
4. स्वास्थ्य एवं परिवार कल्याण मंत्रालय

Question Type : **MCQ**
Question ID : **264330134669**
Option 1 ID : **264330527631**
Option 2 ID : **264330527632**
Option 3 ID : **264330527634**
Option 4 ID : **264330527633**
Status : **Answered**
Chosen Option : **2**

Q.3 ब्रह्म सभा के संस्थापक _____ थे।

Ans
1. राजा राम मोहन राय
2. केशव चंद्र सेन
3. रवीन्द्रनाथ टैगोर
4. राधाकांत देब

Question Type : **MCQ**
Question ID : **264330138919**
Option 1 ID : **264330544283**
Option 2 ID : **264330544286**
Option 3 ID : **264330544284**
Option 4 ID : **264330544285**
Status : **Answered**
Chosen Option : **3**

Q.4 भारतीय संविधान के किस अनुच्छेद में शोषण के विरुद्ध अधिकार निहित है?

Ans
1. अनुच्छेद 23 और 24
2. अनुच्छेद 21
3. अनुच्छेद 27 और 28
4. अनुच्छेद 15

Question Type : **MCQ**
Question ID : **264330134689**
Option 1 ID : **264330527714**
Option 2 ID : **264330527713**
Option 3 ID : **264330527712**
Option 4 ID : **264330527711**
Status : **Answered**
Chosen Option : **1**

Join Telegram Group "HaryanaJobs.in"

Q.5 कोशिकाविज्ञान _____ का अध्ययन है।

Ans
1. ऊतकों
2. वंशाणुओं
3. कोशिकाओं
4. हरितलवकों

Question Type : **MCQ**
Question ID : **264330134675**
Option 1 ID : **264330527655**
Option 2 ID : **264330527658**
Option 3 ID : **264330527656**
Option 4 ID : **264330527657**
Status : **Answered**
Chosen Option : **3**

Q.6 2011 की जनगणना के अनुसार, भारत में कुल जनसंख्या की दृष्टि से महाराष्ट्र किस स्थान पर है?

Ans
1. पहले
2. दूसरे
3. तीसरे
4. चौथे

Question Type : **MCQ**
Question ID : **264330135495**
Option 1 ID : **264330530887**
Option 2 ID : **264330530888**
Option 3 ID : **264330530889**
Option 4 ID : **264330530890**
Status : **Answered**
Chosen Option : **3**

Q.7 भारत के रक्षा बलों का सर्वोच्च सेनापति कौन होता है?

Ans
1. भारत का राष्ट्रपति
2. भारत का मुख्य न्यायाधीश
3. भारत का प्रधानमंत्री
4. सेनाध्यक्ष

Question Type : **MCQ**
Question ID : **264330138907**
Option 1 ID : **264330544236**
Option 2 ID : **264330544235**
Option 3 ID : **264330544237**
Option 4 ID : **264330544238**
Status : **Answered**
Chosen Option : **1**

Join Telegram Group "HaryanaJobs.in"

Q.8 निम्नलिखित में से किसे वर्ष 1986 में 'पद्म विभूषण (Padma Vibhushan)' से सम्मानित किया गया था और उन्होंने देवदास (Devdas) फिल्म के प्रसिद्ध गीत 'काहे छेड़ मोहे (Kahe Chhed Mohe)' और बाजीराव मस्तानी (Bajirao Mastani) के 'मोहे रंग दो लाल (Mohe Rang Do Laal)' को कोरियोग्राफ किया था?

Ans
1. बिपिन सिंह
2. केलुचरण महापात्र
3. बिरजू महाराज
4. उदय शंकर

Question Type : **MCQ**
Question ID : **264330134663**
Option 1 ID : **264330527610**
Option 2 ID : **264330527609**
Option 3 ID : **264330527607**
Option 4 ID : **264330527608**
Status : **Answered**
Chosen Option : **4**

Q.9 अमरावती कला शैली _____ के संरक्षण में विकसित हुई है।

Ans
1. पाल
2. चोल
3. चेर
4. सातवाहन

Question Type : **MCQ**
Question ID : **264330138898**
Option 1 ID : **264330544202**
Option 2 ID : **264330544199**
Option 3 ID : **264330544201**
Option 4 ID : **264330544200**
Status : **Answered**
Chosen Option : **3**

Q.10 हिमालय पर्वत श्रृंखला _____ का एक प्रकार है।

Ans
1. अवशिष्ट पर्वत (residual mountains)
2. संचित पर्वत (accumulated mountains)
3. वलित पर्वत (fold mountains)
4. भ्रंशोत्थ पर्वत (block mountains)

Question Type : **MCQ**
Question ID : **264330134679**
Option 1 ID : **264330527672**
Option 2 ID : **264330527674**
Option 3 ID : **264330527671**
Option 4 ID : **264330527673**
Status : **Answered**
Chosen Option : **4**

Join Telegram Group "HaryanaJobs.in"

Q.11 भारत ने किस वर्ष अपना 76वाँ स्वतंत्रता दिवस मनाया?

Ans
✔ 1. 2022
✘ 2. 2019
✘ 3. 2021
✘ 4. 2018

Question Type : **MCQ**
Question ID : **264330138322**
Option 1 ID : **264330541895**
Option 2 ID : **264330541897**
Option 3 ID : **264330541896**
Option 4 ID : **264330541898**
Status : **Answered**
Chosen Option : **1**

Q.12 पृथ्वी पर ज्वालामुखी विस्फोट होने पर, उद्गर्गीण सामग्री समान्यतः तरल चट्टान के रूप में निकलती है जिसे _____ कहते हैं।

Ans
✘ 1. पारा (Mercury)
✔ 2. लावा (Lava)
✘ 3. प्लाज्मा (Plasma)
✘ 4. ओला (Hailstone)

Question Type : **MCQ**
Question ID : **264330135492**
Option 1 ID : **264330530878**
Option 2 ID : **264330530877**
Option 3 ID : **264330530876**
Option 4 ID : **264330530875**
Status : **Answered**
Chosen Option : **2**

Q.13 एक ही परमाणु से बने ऋणायन (Negative ions) को तत्व के मूल नाम में _____ प्रत्यय लगाकर नामांकित किया जाता है।

Ans
✘ 1. -अस (-ous)
✘ 2. -इक (-ic)
✔ 3. -आइड (-ide)
✘ 4. -ओनियम (-onium)

Question Type : **MCQ**
Question ID : **264330135489**
Option 1 ID : **264330530864**
Option 2 ID : **264330530866**
Option 3 ID : **264330530865**
Option 4 ID : **264330530863**
Status : **Not Answered**
Chosen Option : **--**

Join Telegram Group "HaryanaJobs.in"

Q.14 निम्नलिखित में से कौन-सा राजस्थान का एक पारंपरिक लोकनृत्य है?

Ans
1. बिहू
2. घूमर
3. भांगड़ा
4. गिद्दा

Question Type : **MCQ**
Question ID : **264330134671**
Option 1 ID : **264330527642**
Option 2 ID : **264330527641**
Option 3 ID : **264330527640**
Option 4 ID : **264330527639**
Status : **Answered**
Chosen Option : **2**

Q.15 पानीपत का तीसरा युद्ध सन् _____ में हुआ था।

Ans
1. 1754
2. 1761
3. 1765
4. 1757

Question Type : **MCQ**
Question ID : **264330135498**
Option 1 ID : **264330530902**
Option 2 ID : **264330530899**
Option 3 ID : **264330530901**
Option 4 ID : **264330530900**
Status : **Not Answered**
Chosen Option : **--**

Q.16 उस्ताद ज़ाकिर हुसैन _____के सबसे महान वादकों में से एक हैं।

Ans
1. शहनाई
2. वायलिन
3. सितार
4. तबला

Question Type : **MCQ**
Question ID : **264330134687**
Option 1 ID : **264330527703**
Option 2 ID : **264330527704**
Option 3 ID : **264330527705**
Option 4 ID : **264330527706**
Status : **Answered**
Chosen Option : **4**

Join Telegram Group "HaryanaJobs.in"

Q.17 जैन तथा बौद्ध धर्म जिस समय लोकप्रिय हो रहे थे, उसी समय ब्राह्मणों ने चार आश्रमों की व्यवस्था की। निम्नलिखित में से किस आश्रम की व्यवस्था नहीं की गई थी?

Ans
1. गृहस्थ ✗
2. परमार्थ ✓
3. वानप्रस्थ ✗
4. ब्रह्मचर्य ✗

Question Type : **MCQ**
Question ID : **264330138342**
Option 1 ID : **264330541976**
Option 2 ID : **264330541977**
Option 3 ID : **264330541978**
Option 4 ID : **264330541975**
Status : **Answered**
Chosen Option : **4**

Q.18 निम्नलिखित में से किस मृदा को रेगर (Regur) मृदा के नाम से भी जाना जाता है?

Ans
1. काली मृदा ✓
2. लैटेराइट मृदा ✗
3. पीटमय (Peaty) मृदा ✗
4. जलोढ़ मृदा ✗

Question Type : **MCQ**
Question ID : **264330134653**
Option 1 ID : **264330527567**
Option 2 ID : **264330527569**
Option 3 ID : **264330527568**
Option 4 ID : **264330527570**
Status : **Answered**
Chosen Option : **4**

Q.19 मेजर ध्यानचंद किस खेल के लिए जाने जाते थे?

Ans
1. फ़ुटबॉल ✗
2. फील्ड हॉकी ✓
3. पोलो ✗
4. वॉलीबॉल ✗

Question Type : **MCQ**
Question ID : **264330134691**
Option 1 ID : **264330527719**
Option 2 ID : **264330527721**
Option 3 ID : **264330527722**
Option 4 ID : **264330527720**
Status : **Answered**
Chosen Option : **2**

Join Telegram Group "HaryanaJobs.in"

Q.20 केंद्र ने 2019 में संविधान के अनुच्छेद 370 को रद्द कर दिया। इस अनुच्छेद ने _____ को विशेष राज्य का दर्जा दिया था।

Ans
✔ 1. जम्मू और कश्मीर
✘ 2. हिमाचल प्रदेश
✘ 3. पंजाब
✘ 4. उत्तरप्रदेश

Question Type : **MCQ**
Question ID : **264330134690**
Option 1 ID : **264330527715**
Option 2 ID : **264330527716**
Option 3 ID : **264330527718**
Option 4 ID : **264330527717**
Status : **Answered**
Chosen Option : **1**

Q.21 2011 की जनगणना के अनुसार, भारत का जनसंख्या घनत्व कितना है?

Ans
✘ 1. 356 व्यक्ति प्रति वर्ग किलोमीटर
✔ 2. 382 व्यक्ति प्रति वर्ग किलोमीटर
✘ 3. 482 व्यक्ति प्रति वर्ग किलोमीटर
✘ 4. 495 व्यक्ति प्रति वर्ग किलोमीटर

Question Type : **MCQ**
Question ID : **264330137930**
Option 1 ID : **264330540329**
Option 2 ID : **264330540327**
Option 3 ID : **264330540330**
Option 4 ID : **264330540328**
Status : **Answered**
Chosen Option : **2**

Q.22 'लॉन्ग वॉक टू फ्रीडम (Long Walk to Freedom)' _____ की आत्मकथा है।

Ans
✘ 1. बेंजामिन फ्रैंकलिन
✔ 2. नेल्सन मंडेला
✘ 3. जवाहर लाल नेहरू
✘ 4. महात्मा गांधी

Question Type : **MCQ**
Question ID : **264330134661**
Option 1 ID : **264330527602**
Option 2 ID : **264330527600**
Option 3 ID : **264330527601**
Option 4 ID : **264330527599**
Status : **Answered**
Chosen Option : **4**

Join Telegram Group "HaryanaJobs.in"

Q.23 2022 के शीतकालीन ओलंपिक खेल बीजिंग में _____ के महीने में आयोजित किए गए थे।

Ans
1. अप्रैल
2. फ़रवरी
3. जनवरी
4. मार्च

Question Type : **MCQ**
Question ID : **264330135507**
Option 1 ID : **264330530938**
Option 2 ID : **264330530936**
Option 3 ID : **264330530935**
Option 4 ID : **264330530937**
Status : **Not Answered**
Chosen Option : **--**

Q.24 भारतीय राष्ट्रीय कांग्रेस का विभाजन सन् _____ में हुआ।

Ans
1. 1907
2. 1903
3. 1905
4. 1901

Question Type : **MCQ**
Question ID : **264330138345**
Option 1 ID : **264330541990**
Option 2 ID : **264330541988**
Option 3 ID : **264330541989**
Option 4 ID : **264330541987**
Status : **Answered**
Chosen Option : **1**

Q.25 केंद्रीय बैंक द्वारा देश के आर्थिक हित में बैंकों को ऋण (credit) देने के लिए प्रोत्साहित करने के लिए अपनाई जाने वाली एक विधि को _____ कहते हैं।

Ans
1. ऋण-राशि-नियतन (Credit Rationing)
2. सीमांत स्थायी सुविधा (Marginal Standing Facility)
3. नैतिक दबाव (Moral Suasion)
4. सीमा अनिवार्यता (Margin Requirements)

Question Type : **MCQ**
Question ID : **264330134668**
Option 1 ID : **264330527628**
Option 2 ID : **264330527627**
Option 3 ID : **264330527630**
Option 4 ID : **264330527629**
Status : **Answered**
Chosen Option : **1**

Section : **English Language and Comprehension**

Join Telegram Group "HaryanaJobs.in"

Q.1 Find the part of the given sentence that has an error in it. If there is no error, choose 'No error'.

We don't know exactly when first stars formed.

Ans

✗ 1. stars formed.

✗ 2. We don't know

✓ 3. exactly when first

✗ 4. No error

Question Type : **MCQ**
Question ID : **264330135309**
Option 1 ID : **264330530149**
Option 2 ID : **264330530147**
Option 3 ID : **264330530148**
Option 4 ID : **264330530150**
Status : **Answered**
Chosen Option : **1**

Q.2 A sentence has been given with a blank to be filled with an appropriate option. Choose the correct alternative.

I did not _____ everyone all at once.

Ans

✗ 1. losing

✓ 2. lose

✗ 3. loose

✗ 4. lost

Question Type : **MCQ**
Question ID : **264330134803**
Option 1 ID : **264330528158**
Option 2 ID : **264330528155**
Option 3 ID : **264330528157**
Option 4 ID : **264330528156**
Status : **Answered**
Chosen Option : **2**

Q.3 A sentence has been given with a blank to be filled with an appropriate option. Choose the correct alternative.

Nigeria _____ restrictions in place since 2015 in a bid to boost local production.

Ans

✓ 1. has had

✗ 2. had has

✗ 3. have had

✗ 4. have has

Question Type : **MCQ**
Question ID : **264330136776**
Option 1 ID : **264330535809**
Option 2 ID : **264330535808**
Option 3 ID : **264330535807**
Option 4 ID : **264330535810**
Status : **Answered**
Chosen Option : **3**

Join Telegram Group "HaryanaJobs.in"

Q.4 Choose the incorrectly spelt word.

Ans
✗ 1. Serious
✓ 2. Positon
✗ 3. Continue
✗ 4. Source

Question Type : **MCQ**
Question ID : **264330134819**
Option 1 ID : **264330528215**
Option 2 ID : **264330528216**
Option 3 ID : **264330528218**
Option 4 ID : **264330528217**
Status : **Answered**
Chosen Option : **2**

Q.5 Select the most appropriate option to substitute the bracketed segment in the given sentence. If there is no need to substitute it, select 'no substitution required'.

We were asked by (Jane's aunt where she was last night.)

Ans
✗ 1. Jane's aunt where was she was last night?
✗ 2. Jane's aunt where was she last night.
✓ 3. No substitution required
✗ 4. Jane aunt's where she was last night?

Question Type : **MCQ**
Question ID : **264330136294**
Option 1 ID : **264330533957**
Option 2 ID : **264330533955**
Option 3 ID : **264330533958**
Option 4 ID : **264330533956**
Status : **Answered**
Chosen Option : **2**

Q.6 Choose the word that can substitute the given group of words.

Liable to catch fire easily

Ans
✗ 1. Venial
✗ 2. Agnostic
✓ 3. Inflammable
✗ 4. Incombustible

Question Type : **MCQ**
Question ID : **264330134812**
Option 1 ID : **264330528190**
Option 2 ID : **264330528187**
Option 3 ID : **264330528188**
Option 4 ID : **264330528189**
Status : **Answered**
Chosen Option : **3**

Join Telegram Group "HaryanaJobs.in"

Q.7 Find the part of the given sentence that has an error in it. If there is no error, choose 'No error'.

Until few decades ago, researchers believed the moon was completely dry.

Ans

1. No error
2. ✓ Until few decades ago,
3. researchers believed the moon
4. was completely dry.

Question Type : **MCQ**
Question ID : **264330134799**
Option 1 ID : **264330528142**
Option 2 ID : **264330528139**
Option 3 ID : **264330528140**
Option 4 ID : **264330528141**
Status : **Answered**
Chosen Option : **2**

Q.8 In the following question, out of the given four alternatives, select the alternative which best expresses the meaning of the Idiom/Phrase.

To mind one's P's and Q's

Ans

1. ✓ To be polite and careful in one's behaviour and speech
2. To supervise something carefully
3. To make amends after a fight
4. To write English alphabets accurately

Question Type : **MCQ**
Question ID : **264330135276**
Option 1 ID : **264330530021**
Option 2 ID : **264330530022**
Option 3 ID : **264330530019**
Option 4 ID : **264330530020**
Status : **Answered**
Chosen Option : **1**

Q.9 Identify the segment that contains a grammatical error. If there is no error, select 'No error'

Droughts effect water supply in Southern/ Spain, which is increasingly turning towards/ seawater desalination to meet its water needs.

Ans

1. ✓ Droughts effect water supply in Southern
2. No error
3. seawater desalination to meet its water needs.
4. Spain, which is increasingly turning towards

Question Type : **MCQ**
Question ID : **264330136291**
Option 1 ID : **264330533943**
Option 2 ID : **264330533946**
Option 3 ID : **264330533945**
Option 4 ID : **264330533944**
Status : **Answered**
Chosen Option : **3**

Join Telegram Group "HaryanaJobs.in"

Q.10 Fill in the blank with the most appropriate option.

Then Bheeshma entered their lives with his _____ lion's laugh.

Ans
1. elephantine ✗
2. narrow ✗
3. moment ✗
4. large ✓

Question Type : **MCQ**
Question ID : **264330136715**
Option 1 ID : **264330535574**
Option 2 ID : **264330535571**
Option 3 ID : **264330535573**
Option 4 ID : **264330535572**
Status : **Answered**
Chosen Option : **4**

Q.11 Select the appropriate antonym for the underlined word.

We will brush out the damp hair.

Ans
1. droughty ✓
2. saturated ✗
3. moist ✗
4. sticky ✗

Question Type : **MCQ**
Question ID : **264330134816**
Option 1 ID : **264330528205**
Option 2 ID : **264330528206**
Option 3 ID : **264330528204**
Option 4 ID : **264330528203**
Status : **Answered**
Chosen Option : **2**

Q.12 Select the appropriate synonym for the underlined word.

Photosynthesis can be hindered by extreme temperatures.

Ans
1. discouraged ✓
2. tolerated ✗
3. gained ✗
4. revert ✗

Question Type : **MCQ**
Question ID : **264330134813**
Option 1 ID : **264330528192**
Option 2 ID : **264330528194**
Option 3 ID : **264330528191**
Option 4 ID : **264330528193**
Status : **Answered**
Chosen Option : **4**

Join Telegram Group "HaryanaJobs.in"

Q.13 Improve the underlined part of the sentence. Choose 'No improvement' as an answer if the sentence is grammatically correct.

This has sharp decreased the cases of water-borne diseases.

Ans

✗ 1. sharper decreases

✗ 2. No improvement

✓ 3. sharply decreased

✗ 4. sharp decrease

Question Type : **MCQ**
Question ID : **264330134828**
Option 1 ID : **264330528253**
Option 2 ID : **264330528254**
Option 3 ID : **264330528252**
Option 4 ID : **264330528251**
Status : **Answered**
Chosen Option : **3**

Q.14 Four sentences are given, out of which three have spelling errors. Choose the sentence with all correctly spelt words.

Ans

✗ 1.
Never interupt an earnest or apparently interesting conversation.

✓ 2.
The person who received the alert doesn't know when it happened.

✗ 3. Life is complicated, and there's a lot to be gratful for.

✗ 4.
The goal of this endeiavor is to create significant ties for your city.

Question Type : **MCQ**
Question ID : **264330136714**
Option 1 ID : **264330535567**
Option 2 ID : **264330535568**
Option 3 ID : **264330535570**
Option 4 ID : **264330535569**
Status : **Answered**
Chosen Option : **2**

Q.15 Improve the underlined part of the sentence. Choose 'No improvement' as an answer if the sentence is grammatically correct.
The loft is fill in hay for the winter.

Ans

✗ 1. No improvement

✓ 2. filled with

✗ 3. fills with

✗ 4. fill with

Question Type : **MCQ**
Question ID : **264330134454**
Option 1 ID : **264330526790**
Option 2 ID : **264330526788**
Option 3 ID : **264330526789**
Option 4 ID : **264330526787**
Status : **Answered**
Chosen Option : **4**

Join Telegram Group "HaryanaJobs.in"

Q.16 Select the most appropriate option to fill in the blank.

Some health experts optimistically argue that disinfecting indoor spaces with light could be a _____.

Ans

✔ 1. game-changer

✘ 2. interchanger

✘ 3. hand over

✘ 4. roundabout

Question Type : **MCQ**
Question ID : **264330134822**
Option 1 ID : **264330528230**
Option 2 ID : **264330528228**
Option 3 ID : **264330528229**
Option 4 ID : **264330528227**
Status : **Answered**
Chosen Option : **1**

Q.17 Choose the word that can substitute the given group of words.

A ground where the last funeral rites are performed

Ans

✘ 1. Mortuary

✘ 2. Barracks

✔ 3. Crematorium

✘ 4. Tomb

Question Type : **MCQ**
Question ID : **264330135270**
Option 1 ID : **264330529996**
Option 2 ID : **264330529995**
Option 3 ID : **264330529997**
Option 4 ID : **264330529998**
Status : **Answered**
Chosen Option : **1**

Q.18 Select the most appropriate synonym to substitute the bracketed word in the given sentence.

So can our community leaders come up with a plan of action to help (alleviate) this problem?

Ans

✘ 1. Aggravate

✘ 2. Falter

✘ 3. Altruistic

✔ 4. Diminish

Question Type : **MCQ**
Question ID : **264330136734**
Option 1 ID : **264330535646**
Option 2 ID : **264330535644**
Option 3 ID : **264330535643**
Option 4 ID : **264330535645**
Status : **Answered**
Chosen Option : **3**

Join Telegram Group "HaryanaJobs.in"

Q.19 Choose the word that is opposite in meaning to the given word.

Absorb

Ans
1. Permit
2. Dwindle
3. Dismiss
4. Reconcile

Question Type : **MCQ**
Question ID : **264330136865**
Option 1 ID : **264330536147**
Option 2 ID : **264330536150**
Option 3 ID : **264330536149**
Option 4 ID : **264330536148**
Status : **Answered**
Chosen Option : **3**

Q.20 In the following question, out of the given four alternatives, select the alternative which best expresses the meaning of the Idiom/Phrase.

Hard/tough nut to crack

Ans
1. A difficult person, problem or situation
2. Not being able to enjoy oneself
3. To understand clearly
4. Good for nothing

Question Type : **MCQ**
Question ID : **264330134818**
Option 1 ID : **264330528211**
Option 2 ID : **264330528213**
Option 3 ID : **264330528214**
Option 4 ID : **264330528212**
Status : **Answered**
Chosen Option : **1**

Join Telegram Group "HaryanaJobs.in"

Comprehension:

In the following passage some of the words have been deleted. Read the passage carefully and select the correct answer for the given blank out of the four alternatives.

Gardenia is one of the most (1) _____ flowers, producing one of the most beloved scents in the garden world. Fall or spring is the best time to (2) _____ this shrub in warmer climates. It also (3) _____ a fragrant houseplant, though it can be fussy about indoor humidity. Container plants can be (4) _____ outdoors during summer and returned to moderate indoor temperatures in the (5) _____.

SubQuestion No : 21

Q.21 Select the most appropriate option to fill in the blank No. 1.

Ans

✗ 1. polluted

✓ 2. fragrant

✗ 3. stenchy

✗ 4. soluble

Question Type : **MCQ**
Question ID : **264330136856**
Option 1 ID : **264330536114**
Option 2 ID : **264330536113**
Option 3 ID : **264330536111**
Option 4 ID : **264330536112**
Status : **Answered**
Chosen Option : **2**

Comprehension:

In the following passage some of the words have been deleted. Read the passage carefully and select the correct answer for the given blank out of the four alternatives.

Gardenia is one of the most (1) _____ flowers, producing one of the most beloved scents in the garden world. Fall or spring is the best time to (2) _____ this shrub in warmer climates. It also (3) _____ a fragrant houseplant, though it can be fussy about indoor humidity. Container plants can be (4) _____ outdoors during summer and returned to moderate indoor temperatures in the (5) _____.

SubQuestion No : 22

Q.22 Select the most appropriate option to fill in the blank No. 2.

Ans

✓ 1. plant

✗ 2. train

✗ 3. host

✗ 4. stamp

Question Type : **MCQ**
Question ID : **264330136857**
Option 1 ID : **264330536118**
Option 2 ID : **264330536115**
Option 3 ID : **264330536116**
Option 4 ID : **264330536117**
Status : **Answered**
Chosen Option : **1**

Join Telegram Group "HaryanaJobs.in"

Comprehension:

In the following passage some of the words have been deleted. Read the passage carefully and select the correct answer for the given blank out of the four alternatives.

Gardenia is one of the most (1) _____ flowers, producing one of the most beloved scents in the garden world. Fall or spring is the best time to (2) _____ this shrub in warmer climates. It also (3) _____ a fragrant houseplant, though it can be fussy about indoor humidity. Container plants can be (4) _____ outdoors during summer and returned to moderate indoor temperatures in the (5) _____.

SubQuestion No : 23

Q.23 Select the most appropriate option to fill in the blank No. 3.

Ans

✗ 1. make

✓ 2. makes

✗ 3. made

✗ 4. making

Question Type : **MCQ**
Question ID : **264330136858**
Option 1 ID : **264330536119**
Option 2 ID : **264330536122**
Option 3 ID : **264330536120**
Option 4 ID : **264330536121**
Status : **Answered**
Chosen Option : **2**

Comprehension:

In the following passage some of the words have been deleted. Read the passage carefully and select the correct answer for the given blank out of the four alternatives.

Gardenia is one of the most (1) _____ flowers, producing one of the most beloved scents in the garden world. Fall or spring is the best time to (2) _____ this shrub in warmer climates. It also (3) _____ a fragrant houseplant, though it can be fussy about indoor humidity. Container plants can be (4) _____ outdoors during summer and returned to moderate indoor temperatures in the (5) _____.

SubQuestion No : 24

Q.24 Select the most appropriate option to fill in the blank No. 4.

Ans

✗ 1. classified

✗ 2. sorted

✗ 3. sailed

✓ 4. placed

Question Type : **MCQ**
Question ID : **264330136859**
Option 1 ID : **264330536126**
Option 2 ID : **264330536125**
Option 3 ID : **264330536123**
Option 4 ID : **264330536124**
Status : **Answered**
Chosen Option : **4**

Join Telegram Group "HaryanaJobs.in"

Comprehension:

In the following passage some of the words have been deleted. Read the passage carefully and select the correct answer for the given blank out of the four alternatives.

Gardenia is one of the most (1) _____ flowers, producing one of the most beloved scents in the garden world. Fall or spring is the best time to (2) _____ this shrub in warmer climates. It also (3) _____ a fragrant houseplant, though it can be fussy about indoor humidity. Container plants can be (4) _____ outdoors during summer and returned to moderate indoor temperatures in the (5) _____.

SubQuestion No : 25

Q.25 Select the most appropriate option to fill in the blank No. 5.

Ans

✔ 1. fall

✘ 2. tropics

✘ 3. arena

✘ 4. climate

Question Type : **MCQ**
Question ID : **264330136860**
Option 1 ID : **264330536130**
Option 2 ID : **264330536127**
Option 3 ID : **264330536129**
Option 4 ID : **264330536128**
Status : **Answered**
Chosen Option : **4**

Join Telegram Group "HaryanaJobs.in"

Multi Tasking Non Technical Staff and Havaldar CBIC and CBN Examination 2022

Roll Number	HaryanaJobs.in
Candidate Name	HaryanaJobs.in
Venue Name	iON Digital Zone iDZ Laxman Nagar
Exam Date	18/05/2023
Exam Time	9:00 AM - 10:30 AM
Subject	MTS Non Tech Havaldar CBIC and CBN Examination 2022

Section : **Numerical and Mathematical Ability**

Q.1 A ने क्रमशः Rs.400 और Rs.600 में दो वस्तुएँ खरीदीं और क्रमशः 10% और 20% के लाभ पर बेच दीं। उसका कुल लाभ प्रतिशत कितना था?

Ans

✗ 1. 15%

✗ 2. 18%

✗ 3. 20%

✓ 4. 16%

Question Type : **MCQ**
Question ID : **264330133782**
Option 1 ID : **264330524151**
Option 2 ID : **264330524153**
Option 3 ID : **264330524154**
Option 4 ID : **264330524152**
Status : **Answered**
Chosen Option : **4**

Q.2 एक वस्तु को 14% की हानि पर बेचा गया। यदि इसे Rs. 756 अधिक में बेचा जाता, तो 7% का लाभ होता। वस्तु का क्रय मूल्य ज्ञात कीजिए।

Ans

✓ 1. Rs.3600

✗ 2. Rs.3000

✗ 3. Rs.2300

✗ 4. Rs.5000

Question Type : **MCQ**
Question ID : **264330135375**
Option 1 ID : **264330530407**
Option 2 ID : **264330530410**
Option 3 ID : **264330530408**
Option 4 ID : **264330530409**
Status : **Answered**
Chosen Option : **1**

Join Telegram Group "HaryanaJobs.in"

Q.3 एक खेत में 8 श्रमिक एक कार्य को 22 दिनों में पूरा करते हैं। यदि इस कार्य को 44 दिनों में पूरा करना हो, तो कितने श्रमिकों की आवश्यकता होगी?

Ans
✔ 1. 4
✘ 2. 5
✘ 3. 2
✘ 4. 3

Question Type : **MCQ**
Question ID : **264330135405**
Option 1 ID : **264330530528**
Option 2 ID : **264330530529**
Option 3 ID : **264330530530**
Option 4 ID : **264330530527**
Status : **Answered**
Chosen Option : **1**

Q.4 यदि एक रेफ्रिजरेटर का क्रय मूल्य Rs.17200 है और हानि प्रतिशत 8% है, तो रेफ्रिजरेटर का विक्रय मूल्य (Rs. में)क्या है?

Ans
✘ 1. Rs.14444
✘ 2. Rs.14564
✔ 3. Rs.15824
✘ 4. Rs.15500

Question Type : **MCQ**
Question ID : **264330133783**
Option 1 ID : **264330524155**
Option 2 ID : **264330524158**
Option 3 ID : **264330524157**
Option 4 ID : **264330524156**
Status : **Answered**
Chosen Option : **3**

Q.5 14 + [100 ÷ {60 ÷ (18 ÷ 6)}] of 400 का मान है:

Ans
✘ 1. 2020
✔ 2. 2014
✘ 3. 2015
✘ 4. 2000

Question Type : **MCQ**
Question ID : **264330133776**
Option 1 ID : **264330524130**
Option 2 ID : **264330524128**
Option 3 ID : **264330524129**
Option 4 ID : **264330524127**
Status : **Answered**
Chosen Option : **2**

Join Telegram Group "HaryanaJobs.in"

Q.6 X अकेले किसी कार्य को 18 दिनों में पूरा कर सकता है, Y अकेले उसी कार्य को 9 दिनों में पूरा कर सकता है। यदि X, Y और Z मिलकर उसी कार्य को 4 दिनों में पूरा कर सकते हैं, तो Z अकेले उस कार्य को कितने दिनों में पूरा कर सकता है?

Ans

✔ 1. 12 दिन

✘ 2. 16 दिन

✘ 3. 14 दिन

✘ 4. 10 दिन

Question Type : **MCQ**
Question ID : **264330138740**
Option 1 ID : **264330543568**
Option 2 ID : **264330543570**
Option 3 ID : **264330543569**
Option 4 ID : **264330543567**
Status : **Answered**
Chosen Option : **1**

Q.7 अधिक कोण त्रिभुज की सबसे लंबी भुजा 7 cm है और त्रिभुज की अन्य दो भुजाएँ 4 cm और 5 cm हैं। त्रिभुज का क्षेत्रफल ज्ञात कीजिए।

Ans

✔ 1. $4\sqrt{6}\ \text{cm}^2$

✘ 2. $1\sqrt{3}\ \text{cm}^2$

✘ 3. $3\sqrt{2}\ \text{cm}^2$

✘ 4. $6\sqrt{3}\ \text{cm}^2$

Question Type : **MCQ**
Question ID : **264330135409**
Option 1 ID : **264330530543**
Option 2 ID : **264330530546**
Option 3 ID : **264330530545**
Option 4 ID : **264330530544**
Status : **Answered**
Chosen Option : **1**

Join Telegram Group "HaryanaJobs.in"

Q.8 निम्नलिखित दंड आलेख में वर्ष 2018 और 2019 में 5 विभिन्न विषयों में एक छात्र के प्राप्तांकों को दर्शाया गया है। वर्ष 2018 के कुल प्राप्तांकों और वर्ष 2019 के कुल प्राप्तांकों का अनुपात ज्ञात कीजिए।

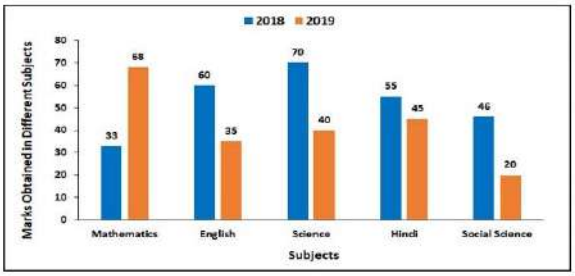

Marks Obtained in Different Subjects = विभिन्न विषयों में प्राप्त अंक, Mathematics = गणित, English = अंग्रेज़ी, Science = विज्ञान, Hindi = हिन्दी, Social Science = सामाजिक विज्ञान, Subjects = विषय

Ans

✔ 1. 33 : 26

✘ 2. 66 : 23

✘ 3. 44 : 15

✘ 4. 80 : 3

Question Type : **MCQ**
Question ID : **264330133792**
Option 1 ID : **264330524191**
Option 2 ID : **264330524193**
Option 3 ID : **264330524192**
Option 4 ID : **264330524194**
Status : **Answered**
Chosen Option : **1**

Q.9 संख्या 15 और 30 का तृतीय समानुपाती क्या है?

Ans

✘ 1. 45

✘ 2. 40

✔ 3. 60

✘ 4. 50

Question Type : **MCQ**
Question ID : **264330133785**
Option 1 ID : **264330524165**
Option 2 ID : **264330524163**
Option 3 ID : **264330524166**
Option 4 ID : **264330524164**
Status : **Answered**
Chosen Option : **3**

Join Telegram Group "HaryanaJobs.in"

Q.10 यदि A का वेतन B के वेतन से 60% कम है, तो B का वेतन A के वेतन से कितने प्रतिशत अधिक है?

Ans
1. 40% ✗
2. 150% ✓
3. 120% ✗
4. 60% ✗

Question Type : **MCQ**
Question ID : **264330133780**
Option 1 ID : **264330524144**
Option 2 ID : **264330524146**
Option 3 ID : **264330524143**
Option 4 ID : **264330524145**
Status : **Answered**
Chosen Option : **2**

Q.11 $2[3.5 \times 3.5 + 2.5 \times 2.5]$ का मान क्या है?

Ans
1. 38 ✗
2. 39 ✗
3. 37 ✓
4. 36 ✗

Question Type : **MCQ**
Question ID : **264330137891**
Option 1 ID : **264330540173**
Option 2 ID : **264330540174**
Option 3 ID : **264330540172**
Option 4 ID : **264330540171**
Status : **Answered**
Chosen Option : **3**

Q.12 दो संख्याओं के लघुत्तम समापवर्त्य (LCM) और महत्तम समापवर्तक (HCF) का गुणनफल 2028 है। यदि एक संख्या 78 है, तो दूसरी संख्या क्या है?

Ans
1. 26 ✓
2. 13 ✗
3. 52 ✗
4. 39 ✗

Question Type : **MCQ**
Question ID : **264330138348**
Option 1 ID : **264330542000**
Option 2 ID : **264330541999**
Option 3 ID : **264330542002**
Option 4 ID : **264330542001**
Status : **Answered**
Chosen Option : **1**

Join Telegram Group "HaryanaJobs.in"

Q.13 एक बस की चाल 108 km/hr है। बस द्वारा 2 सेकंड में तय की गई दूरी ज्ञात कीजिए।

Ans
1. 20 m
2. 60 m
3. 30 m
4. 16 m

Question Type : **MCQ**
Question ID : **264330133788**
Option 1 ID : **264330524178**
Option 2 ID : **264330524177**
Option 3 ID : **264330524175**
Option 4 ID : **264330524176**
Status : **Answered**
Chosen Option : **2**

Q.14 एक ऑटो रिक्शा बिंदु P से Q तक 20 km और फिर Q से R तक 25 km की यात्रा करता है। इस यात्रा में कुल 1 घंटा 30 मिनट का समय लगा। ऑटो रिक्शा की औसत चाल क्या थी?

Ans
1. 15 km/hr
2. 45 km/hr
3. 60 km/hr
4. 30 km/hr

Question Type : **MCQ**
Question ID : **264330138729**
Option 1 ID : **264330543525**
Option 2 ID : **264330543524**
Option 3 ID : **264330543526**
Option 4 ID : **264330543523**
Status : **Answered**
Chosen Option : **4**

Q.15 Rs. 11064 की धनराशि 5% वार्षिक साधारण ब्याज दर पर x वर्षों में Rs. 2766 का ब्याज देती है। x का मान क्या होगा?

Ans
1. 2
2. 3
3. 4
4. 5

Question Type : **MCQ**
Question ID : **264330138402**
Option 1 ID : **264330542217**
Option 2 ID : **264330542216**
Option 3 ID : **264330542215**
Option 4 ID : **264330542218**
Status : **Answered**
Chosen Option : **4**

Join Telegram Group "HaryanaJobs.in"

Q.16 तीन संख्याएँ 4 : 5 : 7 के अनुपात में हैं। सबसे छोटी और सबसे बड़ी संख्या का योग 44 है। दूसरी सबसे छोटी संख्या कौनसी है?

Ans

1. ✗ 32
2. ✗ 28
3. ✓ 20
4. ✗ 24

Question Type : **MCQ**
Question ID : **264330133784**
Option 1 ID : **264330524160**
Option 2 ID : **264330524162**
Option 3 ID : **264330524159**
Option 4 ID : **264330524161**
Status : **Answered**
Chosen Option : **3**

Q.17 नीचे दी गई तालिका में विभिन्न कंपनियों द्वारा किए गए टेलीविज़न और फ्रिज के उत्पादन को दर्शाया गया है।

कंपनियाँ	टेलीविज़न	फ्रिज
P	80	100
Q	70	50
R	60	40
S	50	70
T	90	55

निम्नलिखित में से कौन-सा कथन सही नहीं है?

I. R द्वारा किए गए टेलीविज़न और फ्रिज के औसत उत्पादन और S द्वारा किए गए टेलीविज़न और फ्रिज के औसत उत्पादन के बीच का अंतर 10 है।

II. P द्वारा किया गया टेलीविज़न और फ्रिज का उत्पादन, T द्वारा किए गए टेलीविज़न के उत्पादन का 20 प्रतिशत है।

Ans

1. ✗ I और II दोनों
2. ✗ केवल I
3. ✗ न तो I और न ही II
4. ✓ केवल II

Question Type : **MCQ**
Question ID : **264330137892**
Option 1 ID : **264330540177**
Option 2 ID : **264330540175**
Option 3 ID : **264330540178**
Option 4 ID : **264330540176**
Status : **Answered**
Chosen Option : **4**

Join Telegram Group "HaryanaJobs.in"

Q.18 प्रत्येक 125 cm^3 आयतन वाले 2 घनों को एक सिरे से दूसरे सिरे तक जोड़ा जाता है। परिणामी घनाभ का पृष्ठीय क्षेत्रफल कितना है?

Ans

✗ 1. 125 cm^2

✗ 2. 325 cm^2

✓ 3. 250 cm^2

✗ 4. 350 cm^2

Question Type : **MCQ**
Question ID : **264330138745**
Option 1 ID : **264330543587**
Option 2 ID : **264330543589**
Option 3 ID : **264330543588**
Option 4 ID : **264330543590**
Status : **Answered**
Chosen Option : **3**

Q.19 Rs.7500 की धनराशि वार्षिक रूप से संयोजित चक्रवृद्धि ब्याज पर दो वर्ष में Rs.15000 हो जाती है। चार वर्ष में Rs.7500 की धनराशि कितनी हो जाएगी?

Ans

✓ 1. Rs.30000

✗ 2. Rs.60000

✗ 3. Rs.45000

✗ 4. Rs.50000

Question Type : **MCQ**
Question ID : **264330133787**
Option 1 ID : **264330524171**
Option 2 ID : **264330524173**
Option 3 ID : **264330524172**
Option 4 ID : **264330524174**
Status : **Answered**
Chosen Option : **3**

Q.20 एक छात्र ने पाँच विषयों में 100 में से 77, 80, 88, 73 और 62 अंक प्राप्त किए। उसके अंकों का औसत कितना है?

Ans

✗ 1. 74

✓ 2. 76

✗ 3. 75

✗ 4. 78

Question Type : **MCQ**
Question ID : **264330133778**
Option 1 ID : **264330524135**
Option 2 ID : **264330524137**
Option 3 ID : **264330524138**
Option 4 ID : **264330524136**
Status : **Answered**
Chosen Option : **2**

Section : **Reasoning Ability and Problem Solving**

Join Telegram Group "HaryanaJobs.in"

Q.1 एक निश्चित कूट भाषा में, 'NATURE' को 'MASUQE' लिखा जाता है। उस कूट भाषा में 'POTATO' को कैसे लिखा जाएगा?

Ans
1. OSPAOS
2. OOSASO
3. OPSAOS
4. OSSASO

Question Type : **MCQ**
Question ID : **264330137541**
Option 1 ID : **264330538771**
Option 2 ID : **264330538774**
Option 3 ID : **264330538772**
Option 4 ID : **264330538773**
Status : **Answered**
Chosen Option : **2**

Q.2 पाँच मित्रों अल्फा, बीटा, गामा, रो और थीटा को एक पंक्ति में उत्तर की ओर मुख करके बैठाया गया है, परंतु जरूरी नहीं है कि वे इसी क्रम में बैठे हैं। बीटा पंक्ति के बाएँ छोर पर बैठा है। अल्फा और गामा के बीच केवल दो मित्र बैठे हैं। अल्फा, बीटा के ठीक बगल में बैठा है और रो, बीटा के दाएँ से दूसरे स्थान पर बैठा है। रो और गामा के बीच कौन बैठा है?

Ans
1. अल्फा
2. कोई भी नहीं
3. बीटा
4. थीटा

Question Type : **MCQ**
Question ID : **264330133492**
Option 1 ID : **264330523002**
Option 2 ID : **264330523000**
Option 3 ID : **264330522999**
Option 4 ID : **264330523001**
Status : **Answered**
Chosen Option : **4**

Q.3 पाँच लड़कियों अनीता, बबीता, चम्मा, डायना और एरिका की उम्र अलग-अलग है, अनीता केवल डायना और एरिका से छोटी है। एरिका डायना से छोटी है। चम्मा सबसे छोटी है। समूह में चौथी सबसे बड़ी कौन है?

Ans
1. एरिका
2. बबीता
3. डायना
4. चम्मा

Question Type : **MCQ**
Question ID : **264330133494**
Option 1 ID : **264330523008**
Option 2 ID : **264330523007**
Option 3 ID : **264330523010**
Option 4 ID : **264330523009**
Status : **Answered**
Chosen Option : **2**

Join Telegram Group "HaryanaJobs.in"

Q.4 Select the option that is related to the third word in the same way as the second word is related to the first word.
Cricket : Pitch :: Golf : ?

Ans
1. Arena
2. Court
3. Track
4. Course

Question Type : **MCQ**
Question ID : **264330133488**
Option 1 ID : **264330522984**
Option 2 ID : **264330522985**
Option 3 ID : **264330522986**
Option 4 ID : **264330522983**
Status : **Answered**
Chosen Option : **4**

Q.5 नीचे दिए गए समीकरण में कौन-से गणितीय चिन्हों को आपस में बदला जाना चाहिए जिससे यह समीकरण गणितीय रूप से सही हो जाएगा?
4 ÷ 32 + 8 × 9 - 5 = 35

Ans
1. ÷ और ×
2. ÷ और +
3. × और +
4. × और -

Question Type : **MCQ**
Question ID : **264330133501**
Option 1 ID : **264330523035**
Option 2 ID : **264330523036**
Option 3 ID : **264330523037**
Option 4 ID : **264330523038**
Status : **Answered**
Chosen Option : **2**

Join Telegram Group "HaryanaJobs.in"

Q.6 उस विकल्प आकृति को चुनिए जो नीचे दी गई आकृति में पैटर्न को पूरा करने के लिए प्रश्न चिन्ह (?) के स्थान पर आएगी।
(घूर्णन की अनुमति नहीं है)।

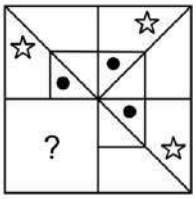

Ans

✗ 1.
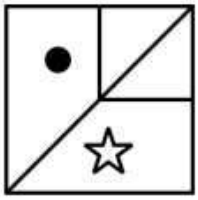

✗ 2.
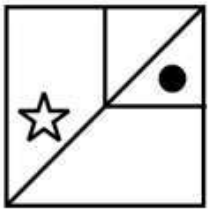

✗ 3.
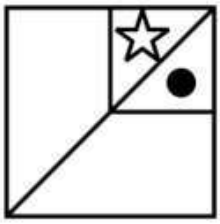

✓ 4.
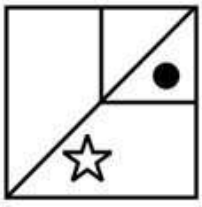

Question Type : **MCQ**
Question ID : **264330133505**
Option 1 ID : **264330523051**
Option 2 ID : **264330523052**
Option 3 ID : **264330523054**
Option 4 ID : **264330523053**
Status : **Answered**
Chosen Option : **4**

Join Telegram Group "HaryanaJobs.in"

Q.7 दी गई श्रृंखला में निम्नलिखित में से कौन-सा अक्षर-समूह प्रश्न चिन्ह (?) के स्थान पर आएगा?
ND, KA, HX, EU, ?

Ans
1. BT
2. AR
3. BS
4. BR

Question Type : **MCQ**
Question ID : **264330133486**
Option 1 ID : **264330522978**
Option 2 ID : **264330522977**
Option 3 ID : **264330522975**
Option 4 ID : **264330522976**
Status : **Answered**
Chosen Option : **4**

Q.8 दो कथन दिए गए हैं और दो निष्कर्ष I और II दिए गए हैं। कथनों को सत्य मानते हुए, चाहे वे सामान्यतः ज्ञात तथ्यों से अलग प्रतीत होते हों, निश्चय कीजिए कि कौन-सा निष्कर्ष तार्किक रूप से कथनों के अनुसार है।
कथन:
कोई अंतरिक्ष यात्री, लंबा नहीं है।
कुछ लंबे, नीले हैं।

निष्कर्ष:
I. कुछ अंतरिक्ष यात्री, नीले हैं।
II. कोई लंबा, अंतरिक्ष यात्री नहीं है।

Ans
1. सिर्फ निष्कर्ष I कथनों के अनुसार है
2. सिर्फ निष्कर्ष II कथनों के अनुसार है
3. निष्कर्ष I और II में से कोई भी कथनों के अनुसार नहीं है
4. दोनों निष्कर्ष I और II कथनों के अनुसार है

Question Type : **MCQ**
Question ID : **264330133495**
Option 1 ID : **264330523011**
Option 2 ID : **264330523012**
Option 3 ID : **264330523014**
Option 4 ID : **264330523013**
Status : **Answered**
Chosen Option : **2**

Join Telegram Group "HaryanaJobs.in"

Q.9 दी गई श्रृंखला में निम्नलिखित में से कौन-सी संख्या प्रश्न चिन्ह (?) के स्थान पर आएगी?
47, 48, 44, 53, 37, ?

Ans
1. 55
2. 52
3. 64
4. 62

Question Type : **MCQ**
Question ID : **264330133498**
Option 1 ID : **264330523025**
Option 2 ID : **264330523023**
Option 3 ID : **264330523026**
Option 4 ID : **264330523024**
Status : **Answered**
Chosen Option : **4**

Q.10 उस समुच्चय को चुनिए जिसमें संख्याएँ ठीक उसी प्रकार से संबंधित हैं जिस प्रकार निम्नलिखित समुच्चयों की संख्याएँ संबंधित हैं। (ध्यान दें: संख्याओं को उनके घटक अंकों में अलग-अलग किए बिना, पूर्ण संख्याओं पर संक्रियाएँ की जानी चाहिए। उदा. 13 - 13 पर संक्रियाएँ जैसे 13 को जोड़ना /घटाना/गुणा करना आदि किया जा सकता है। 13 को 1 और 3 में अलग-अलग करने की और फिर 1 और 3 पर गणितीय संक्रियाएँ करने की अनुमति नहीं है)

(13, 28, 58)
(16, 34, 70)

Ans
1. (15, 32, 64)
2. (18, 36, 110)
3. (12, 26, 56)
4. (11, 24, 50)

Question Type : **MCQ**
Question ID : **264330133500**
Option 1 ID : **264330523031**
Option 2 ID : **264330523032**
Option 3 ID : **264330523034**
Option 4 ID : **264330523033**
Status : **Answered**
Chosen Option : **4**

Q.11 एक परीक्षा भवन में सात छात्र अदिति, सिंडी, जेनी, कीर्ति, नीति, प्रीति और स्वीटी एक पंक्ति में उत्तर की ओर मुख करके बैठे हैं, परंतु जरूरी नहीं है कि वे इसी क्रम में बैठे हैं। सिंडी, स्वीटी के दाएँ से तीसरे स्थान पर बैठी है। अदिति और प्रीति, सिंडी की निकटतम पड़ोसी हैं। प्रीति और स्वीटी के बीच दो से अधिक छात्र बैठे हैं। जेनी नीति की इकलौती पड़ोसी है। जेनी अदिति के दाएँ पर बैठी है। कीर्ति के स्थान के अनुसार नीति का स्थान क्या है?

Ans
1. दाएँ से पाँचवाँ
2. बाएँ से पाँचवाँ
3. दाएँ से तीसरा
4. बाएँ से तीसरा

Question Type : **MCQ**
Question ID : **264330133493**
Option 1 ID : **264330523004**
Option 2 ID : **264330523006**
Option 3 ID : **264330523003**
Option 4 ID : **264330523005**
Status : **Answered**
Chosen Option : **1**

Join Telegram Group "HaryanaJobs.in"

Q.12 दो कथन दिए गए हैं और दो निष्कर्ष I और II दिए गए हैं। कथनों को सत्य मानते हुए, चाहे वे सामान्यतः ज्ञात तथ्यों से अलग प्रतीत होते हों, निश्चय कीजिए कि कौन-सा निष्कर्ष तार्किक रूप से कथनों के अनुसार है।

कथन:

सभी मोबाइल, विद्युत उपकरण हैं।

कुछ टेलीफोन विद्युत उपकरण हैं।

निष्कर्ष:

I. कोई मोबाइल टेलीफोन नहीं है।

II. कुछ मोबाइल टेलीफोन हैं।

Ans

✗ 1. सिर्फ निष्कर्ष II कथनों के अनुसार है

✓ 2. न तो निष्कर्ष I और न ही निष्कर्ष II में से कोई भी कथनों के अनुसार है

✗ 3. दोनों निष्कर्ष I और II कथनों के अनुसार है

✗ 4. सिर्फ निष्कर्ष I कथनों के अनुसार है

Question Type : **MCQ**
Question ID : **264330133496**
Option 1 ID : **264330523016**
Option 2 ID : **264330523018**
Option 3 ID : **264330523017**
Option 4 ID : **264330523015**
Status : **Answered**
Chosen Option : **4**

Q.13 उस विकल्प को चुनिए जो तीसरे शब्द से ठीक उसी तरह संबंधित है जिस तरह दूसरा शब्द पहले शब्द से संबंधित है।

भालू : गुर्राना:: हाथी : ?

Ans

✗ 1. दहाड़ना (Roar)

✗ 2. फुफकारना (Hiss)

✗ 3. रेंकना (Bray)

✓ 4. चिंघाड़ना (Trumpet)

Question Type : **MCQ**
Question ID : **264330133487**
Option 1 ID : **264330522981**
Option 2 ID : **264330522982**
Option 3 ID : **264330522979**
Option 4 ID : **264330522980**
Status : **Answered**
Chosen Option : **4**

Join Telegram Group "HaryanaJobs.in"

Q.14 उस विकल्प को चुनिए जो तीसरी संख्या से ठीक उसी तरह संबंधित है जिस तरह दूसरी संख्या पहली संख्या से संबंधित है।

8 : 514 :: 6 : ?

Ans

1. 238
2. 218 ✔
3. 208
4. 228

Question Type : **MCQ**
Question ID : **264330133499**
Option 1 ID : **264330523030**
Option 2 ID : **264330523027**
Option 3 ID : **264330523028**
Option 4 ID : **264330523029**
Status : **Answered**
Chosen Option : **2**

Q.15 दी गई आकृति के उस सही दर्पण प्रतिबिंब को चुनिए, जो दर्पण MN को आकृति के दाईं ओर रखने पर बनेगा।

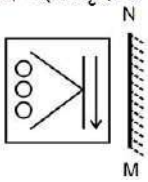

Ans

1. 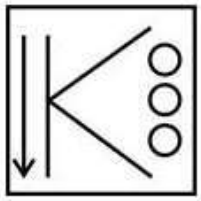 ✔
2. 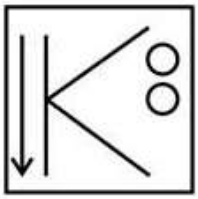
3. 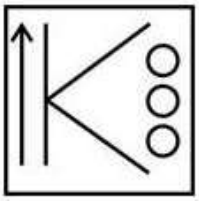
4. 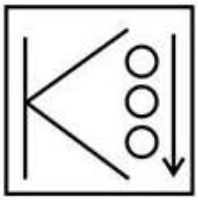

Question Type : **MCQ**
Question ID : **264330137806**
Option 1 ID : **264330539834**
Option 2 ID : **264330539831**
Option 3 ID : **264330539832**
Option 4 ID : **264330539833**
Status : **Answered**
Chosen Option : **1**

Join Telegram Group "HaryanaJobs.in"

Q.16 एक निश्चित कूट भाषा में, 'FINGER' को '69147518' लिखा जाता है और 'DOG' को '4157' लिखा जाता है। उस कूट भाषा में 'FOREST' को कैसे लिखा जाएगा?

Ans

1. 6151851921 ✗
2. 6151851820 ✗
3. 6151751920 ✗
4. 6151851920 ✓

Question Type : **MCQ**
Question ID : **264330137349**
Option 1 ID : **264330538024**
Option 2 ID : **264330538025**
Option 3 ID : **264330538026**
Option 4 ID : **264330538023**
Status : **Answered**
Chosen Option : **4**

Q.17 किसी एक खास कूट भाषा में, 'TYPE' को 'SXOD' लिखा जाता है। उस भाषा में 'SING' को कैसे लिखा जाएगा?

Ans

1. RFHM ✗
2. RMHF ✗
3. MRHF ✗
4. RHMF ✓

Question Type : **MCQ**
Question ID : **264330133390**
Option 1 ID : **264330522593**
Option 2 ID : **264330522592**
Option 3 ID : **264330522594**
Option 4 ID : **264330522591**
Status : **Answered**
Chosen Option : **4**

Q.18 दी गई श्रृंखला में निम्नलिखित में से कौन-सी संख्या प्रश्न चिन्ह (?) के स्थान पर आएगी?
46, 36, 28, 22, 18, ?

Ans

1. 14 ✗
2. 13 ✗
3. 16 ✓
4. 15 ✗

Question Type : **MCQ**
Question ID : **264330133497**
Option 1 ID : **264330523022**
Option 2 ID : **264330523021**
Option 3 ID : **264330523019**
Option 4 ID : **264330523020**
Status : **Answered**
Chosen Option : **4**

Join Telegram Group "HaryanaJobs.in"

Q.19 दी गई दो संख्याओं को आपस में बदलने पर निम्नलिखित में से कौन-सा समीकरण सही नहीं होगा?

9 और 3

I. 7 × 4 ÷ 2 - 9 + 3 = 22

II. 9 + 4 - 6 × 3 ÷ 2 = -10

Ans

1. I और II दोनों
2. न तो I और न ही II
3. केवल II
4. केवल I

Question Type : **MCQ**
Question ID : **264330138515**
Option 1 ID : **264330542669**
Option 2 ID : **264330542670**
Option 3 ID : **264330542668**
Option 4 ID : **264330542667**
Status : **Answered**
Chosen Option : **1**

Join Telegram Group "HaryanaJobs.in"

Q.20 उस विकल्प आकृति को चुनिए जिसमें दी गई आकृति (X) उसके भाग के रूप में निहित है (घूर्णन की अनुमति नहीं है)।

X

Ans

✗ 1.

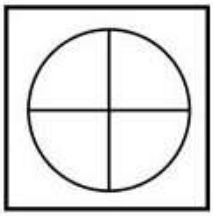

✗ 2.

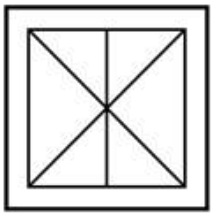

✓ 3.

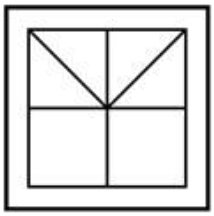

✗ 4.

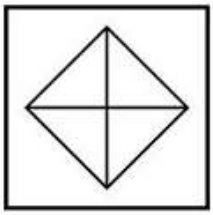

Question Type : **MCQ**
Question ID : **264330137805**
Option 1 ID : **264330539829**
Option 2 ID : **264330539827**
Option 3 ID : **264330539830**
Option 4 ID : **264330539828**
Status : **Answered**
Chosen Option : **3**

Section : **General Awareness**

Join Telegram Group "HaryanaJobs.in"

Q.1 Panthi dance form is associated with _____ state of India.

Ans
1. Maharashtra ✗
2. Kerala ✗
3. Chhattisgarh ✓
4. Punjab ✗

Question Type : **MCQ**
Question ID : **264330133958**
Option 1 ID : **264330524858**
Option 2 ID : **264330524856**
Option 3 ID : **264330524857**
Option 4 ID : **264330524855**
Status : **Answered**
Chosen Option : **3**

Q.2 "बॉम्बे" जयश्री रामनाथ भारत की एक प्रसिद्ध _____ गायिका हैं।

Ans
1. कर्नाटक (Carnatic) ✓
2. जैज़ (Jazz) ✗
3. लोक (Folk) ✗
4. हिप हॉप (Hip-hop) ✗

Question Type : **MCQ**
Question ID : **264330133974**
Option 1 ID : **264330524922**
Option 2 ID : **264330524920**
Option 3 ID : **264330524919**
Option 4 ID : **264330524921**
Status : **Answered**
Chosen Option : **1**

Q.3 किस विदेशी आक्रमणकारी ने अपने प्रदेश चंद्रगुप्त मौर्य को सौंप दिए थे?

Ans
1. मेनान्डर(Menander) ✗
2. गोंडोफर्नीज (Gondophernes) ✗
3. सेल्यूकस निकेटर (Seleucus Nicator) ✓
4. डेमोस्थनीज (Demosthenes) ✗

Question Type : **MCQ**
Question ID : **264330137907**
Option 1 ID : **264330540236**
Option 2 ID : **264330540238**
Option 3 ID : **264330540237**
Option 4 ID : **264330540235**
Status : **Answered**
Chosen Option : **3**

Join Telegram Group "HaryanaJobs.in"

Q.4 निम्नलिखित में से किसे सामान्यतः ब्लड थिनर (blood thinner) के नाम से जाना जाता है?

Ans
1. पिंडन निरोधक कारक (Anticaking agent)
2. प्रतिजैविक (Antibiotics)
3. रोग-प्रतिकारक (Antibodies)
4. स्कंदनरोधी (Anticoagulants)

Question Type : **MCQ**
Question ID : **264330133963**
Option 1 ID : **264330524875**
Option 2 ID : **264330524877**
Option 3 ID : **264330524878**
Option 4 ID : **264330524876**
Status : **Answered**
Chosen Option : **1**

Q.5 भारतीय संविधान का भाग XVI _____ से संबंधित है।

Ans
1. नगर निगम से संबंधित विशेष प्रावधान
2. कुछ वर्गों से संबंधित विशेष प्रावधान
3. चुनाव
4. संवैधानिक संशोधन

Question Type : **MCQ**
Question ID : **264330133976**
Option 1 ID : **264330524928**
Option 2 ID : **264330524927**
Option 3 ID : **264330524930**
Option 4 ID : **264330524929**
Status : **Answered**
Chosen Option : **2**

Q.6 निम्नलिखित में से कौन-सी फसल खरीफ फसल का एक उदाहरण है?

Ans
1. गेहूँ
2. चावल
3. सरसों
4. जौ

Question Type : **MCQ**
Question ID : **264330137070**
Option 1 ID : **264330536924**
Option 2 ID : **264330536923**
Option 3 ID : **264330536926**
Option 4 ID : **264330536925**
Status : **Answered**
Chosen Option : **2**

Join Telegram Group "HaryanaJobs.in"

Q.7 भारत में दिल्ली शहर के लिए अक्टूबर 2022 में SAMRIDDHI (अवसंरचना विकास के लिए नगर निगम के राजस्व का सुदृढ़ीकरण और संवर्धन (Strengthening and Augmentation of Municipal Revenue for Infrastructure Development)) योजना की शुरुआत किसने की है?

Ans
1. भारत के प्रधानमंत्री (Prime Minister of India)
2. दिल्ली के मुख्यमंत्री (Chief Minister of Delhi)
3. भारत के राष्ट्रपति (President of India)
4. दिल्ली के उपराज्यपाल (Lieutenant Governor)

Question Type : **MCQ**
Question ID : **264330133956**
Option 1 ID : **264330524847**
Option 2 ID : **264330524850**
Option 3 ID : **264330524848**
Option 4 ID : **264330524849**
Status : **Answered**
Chosen Option : **2**

Q.8 कौन-सा त्यौहार राक्षस राजा महिषासुर पर देवी दुर्गा की विजय का प्रतीक है?

Ans
1. जन्माष्टमी
2. होली
3. नवरात्रि
4. दिवाली

Question Type : **MCQ**
Question ID : **264330137897**
Option 1 ID : **264330540198**
Option 2 ID : **264330540195**
Option 3 ID : **264330540196**
Option 4 ID : **264330540197**
Status : **Answered**
Chosen Option : **3**

Q.9 "एंड देन वन डे: ए मेमॉयर (And then One Day: A Memoir)" निम्नलिखित में से किस बॉलीवुड कलाकार की आत्मकथा है?

Ans
1. प्रियंका चोपड़ा
2. करण जौहर
3. नसीरुद्दीन शाह
4. शाहरुख खान

Question Type : **MCQ**
Question ID : **264330137078**
Option 1 ID : **264330536958**
Option 2 ID : **264330536955**
Option 3 ID : **264330536957**
Option 4 ID : **264330536956**
Status : **Answered**
Chosen Option : **1**

Join Telegram Group "HaryanaJobs.in"

Q.10 2011 की जनगणना के अनुसार, भारत में कुल साक्षरता दर (लगभग) कितनी है?

Ans
1. 81%
2. 74%
3. 62%
4. 65%

Question Type : **MCQ**
Question ID : **264330137722**
Option 1 ID : **264330539497**
Option 2 ID : **264330539496**
Option 3 ID : **264330539495**
Option 4 ID : **264330539498**
Status : **Answered**
Chosen Option : **2**

Q.11 कलामंडलम कल्याणिकुट्टी अम्मा (Kalamandalam Kalyanikutty Amma) को _____ नृत्य शैली की रूपात्मक संरचना और अलंकरण तैयार करने के लिए जाना जाता है।

Ans
1. कथकली
2. भरतनाट्यम
3. मोहिनीअट्टम
4. कुचिपुड़ी

Question Type : **MCQ**
Question ID : **264330137080**
Option 1 ID : **264330536966**
Option 2 ID : **264330536965**
Option 3 ID : **264330536964**
Option 4 ID : **264330536963**
Status : **Answered**
Chosen Option : **2**

Q.12 सोहम घेंघा (goitre) रोग से पीड़ित है। किसकी कमी इसका सबसे आम कारण है?

Ans
1. आयरन की कमी
2. प्रोटीन की कमी
3. विटामिन ए की कमी
4. आयोडीन की कमी

Question Type : **MCQ**
Question ID : **264330133962**
Option 1 ID : **264330524874**
Option 2 ID : **264330524873**
Option 3 ID : **264330524871**
Option 4 ID : **264330524872**
Status : **Answered**
Chosen Option : **4**

Join Telegram Group "HaryanaJobs.in"

Q.13 निम्नलिखित में से कौन-सा कथन गलत है?

Ans
✗ 1.
नकद आरक्षित अनुपात (Cash Reserve Ratio) जितना अधिक होगा, बैंकिंग प्रणाली में तरलता उतनी ही कम होगी।

✗ 2.
सांविधिक चलनिधि अनुपात (Statutory Liquidity Ratio) जितना कम होगा, बैंकिंग प्रणाली में तरलता उतनी ही अधिक होगी।

✗ 3. बैंक दर में वृद्धि से मुद्रा आपूर्ति में कमी आएगी।

✓ 4.
नकद आरक्षित अनुपात (Cash Reserve Ratio) जितना कम होगा, बैंकिंग प्रणाली में तरलता उतनी ही कम होगी।

Question Type : **MCQ**
Question ID : **264330137085**
Option 1 ID : **264330536983**
Option 2 ID : **264330536985**
Option 3 ID : **264330536986**
Option 4 ID : **264330536984**
Status : **Answered**
Chosen Option : **4**

Q.14 भारत के कितने प्राकृतिक विश्व धरोहर स्थल यूनेस्को (UNESCO) में सूचीबद्ध हैं?

Ans
✓ 1. सात
✗ 2. पाँच
✗ 3. छः
✗ 4. चार

Question Type : **MCQ**
Question ID : **264330138273**
Option 1 ID : **264330541702**
Option 2 ID : **264330541700**
Option 3 ID : **264330541701**
Option 4 ID : **264330541699**
Status : **Answered**
Chosen Option : **1**

Q.15 निम्नलिखित में से कौन-सा एक सहसंयोजक यौगिक है?

Ans
✓ 1. हाइड्रोजन क्लोराइड
✗ 2. सोडियम क्लोराइड
✗ 3. कैल्शियम कार्बोनेट
✗ 4. मैग्नीशियम हाइड्रॉक्साइड

Question Type : **MCQ**
Question ID : **264330133961**
Option 1 ID : **264330524868**
Option 2 ID : **264330524867**
Option 3 ID : **264330524869**
Option 4 ID : **264330524870**
Status : **Answered**
Chosen Option : **4**

Join Telegram Group "HaryanaJobs.in"

Q.16 निम्नलिखित में से कौन दक्षिण भारत के पांड्य वंश का प्रसिद्ध शासक था?

Ans
1. करिकाल
2. अशोक
3. नेदुंज चेलियन द्वितीय
4. निज़ाम शाह

Question Type : **MCQ**
Question ID : **264330133970**
Option 1 ID : **264330524903**
Option 2 ID : **264330524905**
Option 3 ID : **264330524906**
Option 4 ID : **264330524904**
Status : **Answered**
Chosen Option : **3**

Q.17 नगर पालिकाओं के सभी चुनावों का अधीक्षण, नियंत्रण और संचालन _____ की जिम्मेदारी है।

Ans
1. राज्य निर्वाचन आयोग
2. राज्य के गृह मंत्रालय
3. राज्य के राज्यपाल
4. भारत निर्वाचन आयोग

Question Type : **MCQ**
Question ID : **264330138282**
Option 1 ID : **264330541736**
Option 2 ID : **264330541737**
Option 3 ID : **264330541738**
Option 4 ID : **264330541735**
Status : **Answered**
Chosen Option : **1**

Q.18 नवंबर 2022 तक लोकसभा के अध्यक्ष (Speaker) कौन हैं?

Ans
1. ओम बिरला
2. अमित शाह
3. द्रौपदी मुर्मू
4. नरेंद्र मोदी

Question Type : **MCQ**
Question ID : **264330133977**
Option 1 ID : **264330524934**
Option 2 ID : **264330524931**
Option 3 ID : **264330524933**
Option 4 ID : **264330524932**
Status : **Answered**
Chosen Option : **1**

Join Telegram Group "HaryanaJobs.in"

Q.19 धर्म सभा के संस्थापक कौन थे?

Ans
✔ 1. राधाकांत देब
✘ 2. दादोबा पांडुरंग
✘ 3. आर.जी. भंडारकर
✘ 4. राजा राम मोहन राय

Question Type : **MCQ**
Question ID : **264330137910**
Option 1 ID : **264330540250**
Option 2 ID : **264330540249**
Option 3 ID : **264330540248**
Option 4 ID : **264330540247**
Status : **Answered**
Chosen Option : **3**

Q.20 किस भारतीय क्रिकेटर को 'द वॉल (The Wall)' के नाम से भी जाना जाता है?

Ans
✘ 1. सचिन तेंडुलकर
✘ 2. कपिल देव
✔ 3. राहुल द्रविड़
✘ 4. महेन्द्र सिंह धोनी

Question Type : **MCQ**
Question ID : **264330133979**
Option 1 ID : **264330524941**
Option 2 ID : **264330524940**
Option 3 ID : **264330524939**
Option 4 ID : **264330524942**
Status : **Answered**
Chosen Option : **3**

Q.21 _____ दुनिया का सबसे बड़ा उष्णकटिबंधीय वर्षावन है।

Ans
✘ 1. कांगो (Congo)
✘ 2. प्रेयरी (Prairies)
✔ 3. अमेज़न (Amazon)
✘ 4. डैनट्री (Daintree)

Question Type : **MCQ**
Question ID : **264330133964**
Option 1 ID : **264330524880**
Option 2 ID : **264330524879**
Option 3 ID : **264330524881**
Option 4 ID : **264330524882**
Status : **Answered**
Chosen Option : **3**

Join Telegram Group "HaryanaJobs.in"

Q.22 बनारस में हिंदू कॉलेज की स्थापना _____ में हुई थी।

Ans
✗ 1. 1784
✗ 2. 1786
✓ 3. 1791
✗ 4. 1785

Question Type : **MCQ**
Question ID : **264330138294**
Option 1 ID : **264330541786**
Option 2 ID : **264330541784**
Option 3 ID : **264330541785**
Option 4 ID : **264330541783**
Status : **Answered**
Chosen Option : **1**

Q.23 भागीरथी नदी की प्रमुख सहायक नदी कौन-सी है?

Ans
✗ 1. पिंडर (Pindar)
✗ 2. धौलीगंगा (Dhauliganga)
✗ 3. बिशनगंगा (Bishenganga)
✓ 4. भीलांगना (Bhilangna)

Question Type : **MCQ**
Question ID : **264330133966**
Option 1 ID : **264330524888**
Option 2 ID : **264330524889**
Option 3 ID : **264330524890**
Option 4 ID : **264330524887**
Status : **Answered**
Chosen Option : **2**

Q.24 _____ के खेल में, पाँच-पाँच खिलाड़ियों की दो टीमें गेंद को जमीन से 10 फीट ऊपर मौजूद हूप्स में डालकर स्कोर करने का प्रयास करती हैं।

Ans
✗ 1. रग्बी
✓ 2. बास्केटबॉल
✗ 3. बैडमिंटन
✗ 4. लॉन टेनिस

Question Type : **MCQ**
Question ID : **264330133978**
Option 1 ID : **264330524938**
Option 2 ID : **264330524936**
Option 3 ID : **264330524935**
Option 4 ID : **264330524937**
Status : **Answered**
Chosen Option : **2**

Join Telegram Group "HaryanaJobs.in"

Q.25 मानव भूगोल के संदर्भ में, TFR का अर्थ _____ है।

Ans
1. टोटल फ़ाइनेंस रेट (Total Finance Rate)
2. टोटल फॉल रेट (Total Fall Rate)
3. टोटल फ़र्टिलिटी रेट (Total Fertility Rate)
4. टोटल फ़ीमेल रेश्यो (Total Female Ratio)

Question Type : **MCQ**
Question ID : **264330134680**
Option 1 ID : **264330527675**
Option 2 ID : **264330527678**
Option 3 ID : **264330527677**
Option 4 ID : **264330527676**
Status : **Answered**
Chosen Option : **3**

Section : **English Language and Comprehension**

Q.1 **Find the part of the given sentence that has an error in it. If there is no error, choose 'No error'.**
Tax dispute settlement might not work out in the desired scale.

Ans
1. Tax dispute settlement
2. might not work out in
3. No error
4. the desired scale.

Question Type : **MCQ**
Question ID : **264330134426**
Option 1 ID : **264330526679**
Option 2 ID : **264330526680**
Option 3 ID : **264330526682**
Option 4 ID : **264330526681**
Status : **Answered**
Chosen Option : **1**

Q.2 **Select the most appropriate option to fill in the blank.**
Participate in a mock interview to prepare for _____ on your feet and formulating answers under pressure.

Ans
1. cursing
2. building
3. thinking
4. blocking

Question Type : **MCQ**
Question ID : **264330134449**
Option 1 ID : **264330526768**
Option 2 ID : **264330526770**
Option 3 ID : **264330526767**
Option 4 ID : **264330526769**
Status : **Answered**
Chosen Option : **2**

Join Telegram Group "HaryanaJobs.in"

Q.3 **Choose the incorrectly spelt word.**

Ans
✔ 1. Insigt
✘ 2. Supply
✘ 3. Optical
✘ 4. Cares

Question Type : **MCQ**
Question ID : **264330134446**
Option 1 ID : **264330526758**
Option 2 ID : **264330526755**
Option 3 ID : **264330526756**
Option 4 ID : **264330526757**
Status : **Answered**
Chosen Option : **1**

Q.4 **In the following question, out of the given four alternatives, select the alternative which best expresses the meaning of the Idiom/Phrase.**
Rolling in cash

Ans
✔ 1. Have a large quantity of money
✘ 2. A business magnate
✘ 3. To borrow a costly attire
✘ 4. Buying things on interest

Question Type : **MCQ**
Question ID : **264330134444**
Option 1 ID : **264330526748**
Option 2 ID : **264330526750**
Option 3 ID : **264330526749**
Option 4 ID : **264330526747**
Status : **Answered**
Chosen Option : **1**

Q.5 **A sentence has been given with a blank to be filled with an appropriate option. Choose the correct alternative.**
Farms are increasingly turning to automation for _____ reasons.

Ans
✘ 1. much
✘ 2. most
✘ 3. little
✔ 4. many

Question Type : **MCQ**
Question ID : **264330134430**
Option 1 ID : **264330526698**
Option 2 ID : **264330526696**
Option 3 ID : **264330526695**
Option 4 ID : **264330526697**
Status : **Answered**
Chosen Option : **4**

Join Telegram Group "HaryanaJobs.in"

Q.6 Select the most appropriate option to substitute the bracketed segment in the given sentence. If there is no need to substitute it, select 'no substitution required'.
(Beside myself, the only English people) there were Keith and Doreen.

Ans
✗ 1. Besides I, the only English speaking people
✗ 2. Beside me, the only English people
✗ 3. No substitution required
✓ 4. Besides myself, the only English people

Question Type : **MCQ**
Question ID : **264330136060**
Option 1 ID : **264330533056**
Option 2 ID : **264330533055**
Option 3 ID : **264330533058**
Option 4 ID : **264330533057**
Status : **Answered**
Chosen Option : **1**

Q.7 Select the most appropriate synonym to substitute the bracketed word in the given sentence.

Confession had always rested on a clear distinction between mortal and (venial) sins.

Ans
✗ 1. Intolerable
✗ 2. Major
✓ 3. Pardonable
✗ 4. Genial

Question Type : **MCQ**
Question ID : **264330136308**
Option 1 ID : **264330534008**
Option 2 ID : **264330534007**
Option 3 ID : **264330534009**
Option 4 ID : **264330534010**
Status : **Answered**
Chosen Option : **3**

Q.8 **Improve the underlined part of the sentence. Choose 'No improvement' as an answer if the sentence is grammatically correct.**
Cell phones keeps loved ones and those nearly them well connected.

Ans
✓ 1. keep loved ones and those near
✗ 2. keeping loved and nearly
✗ 3. kept love and near
✗ 4. No improvement

Question Type : **MCQ**
Question ID : **264330134429**
Option 1 ID : **264330526693**
Option 2 ID : **264330526692**
Option 3 ID : **264330526691**
Option 4 ID : **264330526694**
Status : **Answered**
Chosen Option : **1**

Join Telegram Group "HaryanaJobs.in"

Q.9 **Improve the underlined part of the sentence. Choose 'No improvement' as an answer if the sentence is grammatically correct.**
She blew out the candle and gone to sleepy.

Ans
✗ 1. go to sleep
✗ 2. No improvement
✗ 3. went to sleeps
✓ 4. went to sleep

Question Type : **MCQ**
Question ID : **264330134350**
Option 1 ID : **264330526389**
Option 2 ID : **264330526390**
Option 3 ID : **264330526387**
Option 4 ID : **264330526388**
Status : **Answered**
Chosen Option : **4**

Q.10 **In the following question, out of the given four alternatives, select the alternative which best expresses the meaning of the Idiom/Phrase.**
At all costs

Ans
✓ 1. Whatever is needed to achieve something
✗ 2. An expensive purchase
✗ 3. Not to be trifled with
✗ 4. To be master of

Question Type : **MCQ**
Question ID : **264330134445**
Option 1 ID : **264330526752**
Option 2 ID : **264330526751**
Option 3 ID : **264330526753**
Option 4 ID : **264330526754**
Status : **Answered**
Chosen Option : **1**

Q.11 Fill in the blank with the most appropriate option.

He had moved about two inches when several things happened in very _____ succession.

Ans
✗ 1. brief
✗ 2. absurd
✓ 3. quick
✗ 4. desperate

Question Type : **MCQ**
Question ID : **264330136263**
Option 1 ID : **264330533837**
Option 2 ID : **264330533838**
Option 3 ID : **264330533836**
Option 4 ID : **264330533835**
Status : **Answered**
Chosen Option : **1**

Join Telegram Group "HaryanaJobs.in"

Q.12 **Choose the word that can substitute the given group of words.**
A unit to measure light

Ans
1. Watt
2. Lumen
3. Horse-power
4. Ampere

Question Type : **MCQ**
Question ID : **264330134439**
Option 1 ID : **264330526728**
Option 2 ID : **264330526729**
Option 3 ID : **264330526730**
Option 4 ID : **264330526727**
Status : **Answered**
Chosen Option : **1**

Q.13 **Select the appropriate antonym for the underlined word.**
The peach-tree is most productive when the roots are kept near the surface.

Ans
1. potent
2. lush
3. futile
4. fertile

Question Type : **MCQ**
Question ID : **264330134443**
Option 1 ID : **264330526745**
Option 2 ID : **264330526744**
Option 3 ID : **264330526746**
Option 4 ID : **264330526743**
Status : **Answered**
Chosen Option : **3**

Q.14 **Select the appropriate synonym for the underlined word.**
I didn't have time to give them proof.

Ans
1. snap
2. guess
3. evidence
4. charge

Question Type : **MCQ**
Question ID : **264330134440**
Option 1 ID : **264330526732**
Option 2 ID : **264330526731**
Option 3 ID : **264330526734**
Option 4 ID : **264330526733**
Status : **Answered**
Chosen Option : **3**

Join Telegram Group "HaryanaJobs.in"

Q.15 Four sentences are given, out of which three have spelling errors. Choose the sentence with all correctly spelt words.

Ans

✗ 1. I don't know weather to eat it or rubb it on.

✗ 2. Goodbye untill later now, foks. Have a good night.

✓ 3. Had I known what was coming, I could have prepared myself better.

✗ 4. She always says something humerous.

Question Type : **MCQ**
Question ID : **264330136262**
Option 1 ID : **264330533832**
Option 2 ID : **264330533834**
Option 3 ID : **264330533833**
Option 4 ID : **264330533831**
Status : **Answered**
Chosen Option : **3**

Q.16 Find the part of the given sentence that has an error in it. If there is no error, choose 'No error'.

The benefits of rebuilding healthy, fertile soil are clear.

Ans

✓ 1. No error

✗ 2. healthy, fertile soil

✗ 3. The benefits of rebuilding

✗ 4. are clear.

Question Type : **MCQ**
Question ID : **264330135204**
Option 1 ID : **264330529746**
Option 2 ID : **264330529744**
Option 3 ID : **264330529743**
Option 4 ID : **264330529745**
Status : **Answered**
Chosen Option : **2**

Q.17 Select the most appropriate antonym of the given word.

Discreet

Ans

✓ 1. Open

✗ 2. Release

✗ 3. Lose

✗ 4. Zenith

Question Type : **MCQ**
Question ID : **264330136657**
Option 1 ID : **264330535348**
Option 2 ID : **264330535350**
Option 3 ID : **264330535347**
Option 4 ID : **264330535349**
Status : **Answered**
Chosen Option : **4**

Join Telegram Group "HaryanaJobs.in"

Q.18 **Choose the word that can substitute the given group of words.**
Destruction of a fetus

Ans
✗ 1. Ellipse
✗ 2. Abhor
✗ 3. Fratricide
✓ 4. Feticide

Question Type : **MCQ**
Question ID : **264330134438**
Option 1 ID : **264330526726**
Option 2 ID : **264330526723**
Option 3 ID : **264330526725**
Option 4 ID : **264330526724**
Status : **Answered**
Chosen Option : **4**

Q.19 Identify the segment that contains a grammatical error. If there is no error, select 'No error'.
Rapid climate warming in / the tundra biome have been linked / to increasing shrub dominance.

Ans
✗ 1. Rapid climate warming in
✗ 2. No error
✓ 3. the tundra biome have been linked
✗ 4. to increasing shrub dominance.

Question Type : **MCQ**
Question ID : **264330136057**
Option 1 ID : **264330533043**
Option 2 ID : **264330533046**
Option 3 ID : **264330533044**
Option 4 ID : **264330533045**
Status : **Answered**
Chosen Option : **4**

Q.20 Fill in the blank with the most appropriate option.

Sam knew who those people were; the figure in front was _____ his cousin.

Ans
✗ 1. at mistake
✓ 2. unmistakeably
✗ 3. mistaken of
✗ 4. by mistake

Question Type : **MCQ**
Question ID : **264330136391**
Option 1 ID : **264330534331**
Option 2 ID : **264330534333**
Option 3 ID : **264330534332**
Option 4 ID : **264330534334**
Status : **Answered**
Chosen Option : **3**

Join Telegram Group "HaryanaJobs.in"

Comprehension:

In the following passage some words have been deleted. Fill in the blanks with the help of the alternatives given. Select the most appropriate option for each number.

By the (1) _____ we reach puberty, the world has reached us and (2) _____ us to a greater extent than we realize. (3) _____ family, friends, school, and society in general (4) _____ -by word and example-how to be. But people (5) _____ leaders at that moment when they decide for themselves how to be.

SubQuestion No : 21

Q.21 Select the most appropriate option to fill in blank number 1.

Ans

✗ 1. age

✓ 2. time

✗ 3. era

✗ 4. moment

Question Type : **MCQ**
Question ID : **264330136648**
Option 1 ID : **264330535313**
Option 2 ID : **264330535312**
Option 3 ID : **264330535311**
Option 4 ID : **264330535314**
Status : **Answered**
Chosen Option : **1**

Comprehension:

In the following passage some words have been deleted. Fill in the blanks with the help of the alternatives given. Select the most appropriate option for each number.

By the (1) _____ we reach puberty, the world has reached us and (2) _____ us to a greater extent than we realize. (3) _____ family, friends, school, and society in general (4) _____ -by word and example-how to be. But people (5) _____ leaders at that moment when they decide for themselves how to be.

SubQuestion No : 22

Q.22 Select the most appropriate option to fill in blank number 2.

Ans

✗ 1. formats

✗ 2. contours

✗ 3. shapes

✓ 4. shaped

Question Type : **MCQ**
Question ID : **264330136649**
Option 1 ID : **264330535317**
Option 2 ID : **264330535316**
Option 3 ID : **264330535315**
Option 4 ID : **264330535318**
Status : **Answered**
Chosen Option : **3**

Join Telegram Group "HaryanaJobs.in"

Comprehension:

In the following passage some words have been deleted. Fill in the blanks with the help of the alternatives given. Select the most appropriate option for each number.

By the (1) _____ we reach puberty, the world has reached us and (2) _____ us to a greater extent than we realize. (3) _____ family, friends, school, and society in general (4) _____ -by word and example-how to be. But people (5) _____ leaders at that moment when they decide for themselves how to be.

SubQuestion No : 23

Q.23 Select the most appropriate option to fill in blank number 3.

Ans

✗ 1. Their

✓ 2. Our

✗ 3. Her

✗ 4. There

Question Type : **MCQ**
Question ID : **264330136650**
Option 1 ID : **264330535321**
Option 2 ID : **264330535319**
Option 3 ID : **264330535320**
Option 4 ID : **264330535322**
Status : **Answered**
Chosen Option : **2**

Comprehension:

In the following passage some words have been deleted. Fill in the blanks with the help of the alternatives given. Select the most appropriate option for each number.

By the (1) _____ we reach puberty, the world has reached us and (2) _____ us to a greater extent than we realize. (3) _____ family, friends, school, and society in general (4) _____ -by word and example-how to be. But people (5) _____ leaders at that moment when they decide for themselves how to be.

SubQuestion No : 24

Q.24 Select the most appropriate option to fill in blank number 4.

Ans

✗ 1. have tell us

✗ 2. has told us

✓ 3. have told us

✗ 4. have been told us

Question Type : **MCQ**
Question ID : **264330136651**
Option 1 ID : **264330535326**
Option 2 ID : **264330535323**
Option 3 ID : **264330535325**
Option 4 ID : **264330535324**
Status : **Answered**
Chosen Option : **1**

Join Telegram Group "HaryanaJobs.in"

Comprehension:

In the following passage some words have been deleted. Fill in the blanks with the help of the alternatives given. Select the most appropriate option for each number.

By the (1) _____ we reach puberty, the world has reached us and (2) _____ us to a greater extent than we realize. (3) _____ family, friends, school, and society in general (4) _____ -by word and example-how to be. But people (5) _____ leaders at that moment when they decide for themselves how to be.

SubQuestion No : 25

Q.25 Select the most appropriate option to fill in blank number 5.

Ans

✔ 1. begin to become

✘ 2. onset to became

✘ 3. start to became

✘ 4. began to become

Question Type : **MCQ**
Question ID : **264330136652**
Option 1 ID : **264330535328**
Option 2 ID : **264330535330**
Option 3 ID : **264330535329**
Option 4 ID : **264330535327**
Status : **Answered**
Chosen Option : **1**

Join Telegram Group "HaryanaJobs.in"

Multi Tasking Non Technical Staff and Havaldar CBIC and CBN Examination 2022

Roll Number	HaryanaJobs.in
Candidate Name	HaryanaJobs.in
Venue Name	iON Digital Zone iDZ Karsua
Exam Date	18/05/2023
Exam Time	12:00 PM - 2:00 PM
Subject	MTS Non Tech Havaldar CBIC and CBN Examination 2022

Section : **Numerical and Mathematical Ability**

Q.1 6, 18, 20 और 32 से विभाज्य सबसे छोटी संख्या कौन-सी है?

Ans
- ✗ 1. 360
- ✗ 2. 108
- ✓ 3. 1440
- ✗ 4. 640

Question Type : **MCQ**
Question ID : **264330140996**
Option 1 ID : **264330552332**
Option 2 ID : **264330552331**
Option 3 ID : **264330552334**
Option 4 ID : **264330552333**
Status : **Answered**
Chosen Option : **3**

Q.2 12 cm त्रिज्या और 14 cm तिर्यक ऊँचाई वाले शंकु का वक्र पृष्ठीय क्षेत्रफल ज्ञात कीजिए।
(π = 3.14 का प्रयोग करें)

Ans
- ✓ 1. $527.52\ cm^2$
- ✗ 2. $5436.6\ cm^2$
- ✗ 3. $4325.5\ cm^2$
- ✗ 4. $501.54\ cm^2$

Question Type : **MCQ**
Question ID : **264330135107**
Option 1 ID : **264330529364**
Option 2 ID : **264330529366**
Option 3 ID : **264330529365**
Option 4 ID : **264330529363**
Status : **Answered**
Chosen Option : **1**

Join Telegram Group "HaryanaJobs.in"

Q.3 जब एक दुकानदार ने Rs. 24500 प्रति एसी (AC) के अंकित मूल्य वाले 40 एसी का ऑर्डर दिया, तो एसी कंपनी के वितरक ने 5% का बट्टा दिया। चालान (invoice) का कुल मूल्य कितना होगा?

Ans
1. Rs. 890000
2. Rs. 931000
3. Rs. 980000
4. Rs. 964000

Question Type : **MCQ**
Question ID : **264330138733**
Option 1 ID : **264330543540**
Option 2 ID : **264330543541**
Option 3 ID : **264330543539**
Option 4 ID : **264330543542**
Status : **Answered**
Chosen Option : **2**

Q.4 Rs. 980 के मूलधन पर 12 प्रतिशत वार्षिक दर से 4 वर्षों के लिए साधारण ब्याज कितना होगा?

Ans
1. Rs. 460.4
2. Rs. 470.4
3. Rs. 380.4
4. Rs. 430.4

Question Type : **MCQ**
Question ID : **264330137675**
Option 1 ID : **264330539308**
Option 2 ID : **264330539310**
Option 3 ID : **264330539307**
Option 4 ID : **264330539309**
Status : **Answered**
Chosen Option : **2**

Q.5 एक विक्रेता अपने क्रय मूल्य पर 15% लाभ की अपेक्षा करता है। यदि एक माह में उसकी बिक्री Rs.138000 थी, तो उसका लाभ कितना था?

Ans
1. Rs. 18000
2. Rs. 15500
3. Rs. 13800
4. Rs. 12000

Question Type : **MCQ**
Question ID : **264330141023**
Option 1 ID : **264330552441**
Option 2 ID : **264330552442**
Option 3 ID : **264330552440**
Option 4 ID : **264330552439**
Status : **Answered**
Chosen Option : **1**

Join Telegram Group "HaryanaJobs.in"

Q.6 एक बेलन के आधार की परिधि 28π cm है। यदि बेलन की ऊँचाई 17 cm है, तो बेलन का वक्र पृष्ठीय क्षेत्रफल कितना होगा?

Ans

✗ 1. $524\pi \text{ cm}^2$

✗ 2. $436\pi \text{ cm}^2$

✗ 3. $372\pi \text{ cm}^2$

✓ 4. $476\pi \text{ cm}^2$

Question Type : **MCQ**
Question ID : **264330137188**
Option 1 ID : **264330537398**
Option 2 ID : **264330537396**
Option 3 ID : **264330537395**
Option 4 ID : **264330537397**
Status : **Answered**
Chosen Option : **4**

Q.7 किसी संख्या के 40 प्रतिशत का 60 प्रतिशत 150 के बराबर है। उस संख्या का 20 प्रतिशत क्या है?

Ans

✓ 1. 125

✗ 2. 200

✗ 3. 145

✗ 4. 175

Question Type : **MCQ**
Question ID : **264330137670**
Option 1 ID : **264330539288**
Option 2 ID : **264330539287**
Option 3 ID : **264330539289**
Option 4 ID : **264330539290**
Status : **Answered**
Chosen Option : **1**

Q.8 180 km/hr की चाल से चल रही एक रेलगाड़ी, 108 km/hr की चाल से चल रही एक कार से 5 सेकंड में आगे निकल जाती है। रेलगाड़ी की लंबाई कितनी है?

Ans

✓ 1. 100 मीटर

✗ 2. 120 मीटर

✗ 3. 150 मीटर

✗ 4. 200 मीटर

Question Type : **MCQ**
Question ID : **264330138738**
Option 1 ID : **264330543562**
Option 2 ID : **264330543559**
Option 3 ID : **264330543561**
Option 4 ID : **264330543560**
Status : **Answered**
Chosen Option : **1**

Join Telegram Group "HaryanaJobs.in"

Q.9 नीचे दी गई तालिका में वर्ष 2013 से 2016 में एक शोरूम द्वारा बेचे गए एसी (AC) की संख्या को दर्शाया गया है।
वर्ष 2014 में शोरूम B द्वारा बेचे गए एसी, वर्ष 2016 में शोरूम D द्वारा बेचे गए एसी से कितने प्रतिशत कम हैं?

Showroom	Years			
	2013	2014	2015	2016
A	100	54	98	72
B	180	92	105	88
C	120	122	100	140
D	60	152	80	100

Ans
✗ 1. 12%
✓ 2. 8%
✗ 3. 10%
✗ 4. 14%

Question Type : **MCQ**
Question ID : **264330133596**
Option 1 ID : **264330523409**
Option 2 ID : **264330523407**
Option 3 ID : **264330523408**
Option 4 ID : **264330523410**
Status : **Answered**
Chosen Option : **2**

Q.10 एक कॉलेज में, लड़के और लड़कियों की संख्या का अनुपात 3:8 है। यदि लड़को की संख्या 180 है, तो कॉलेज में कितनी लड़कियाँ हैं?

Ans
✗ 1. 420
✓ 2. 480
✗ 3. 380
✗ 4. 660

Question Type : **MCQ**
Question ID : **264330138735**
Option 1 ID : **264330543550**
Option 2 ID : **264330543548**
Option 3 ID : **264330543549**
Option 4 ID : **264330543547**
Status : **Answered**
Chosen Option : **2**

Q.11 $P = (8 + 8) \times (8 \div 8) \times (8 \times 8)$
P का मान ज्ञात कीजिए।

Ans
✓ 1. 1024
✗ 2. 512
✗ 3. 1440
✗ 4. 1120

Question Type : **MCQ**
Question ID : **264330138724**
Option 1 ID : **264330543504**
Option 2 ID : **264330543503**
Option 3 ID : **264330543505**
Option 4 ID : **264330543506**
Status : **Answered**
Chosen Option : **1**

Join Telegram Group "HaryanaJobs.in"

Q.12 दूध और पानी के 255 लीटर मिश्रण में दूध और पानी का अनुपात 4:1 है। दूध और पानी का अनुपात 4:3 बनाने के लिए पानी की आवश्यक मात्रा ज्ञात कीजिए।

Ans
1. 94 लीटर
2. 51 लीटर
3. 55 लीटर
4. 102 लीटर

Question Type : **MCQ**
Question ID : **264330135134**
Option 1 ID : **264330529472**
Option 2 ID : **264330529471**
Option 3 ID : **264330529474**
Option 4 ID : **264330529473**
Status : **Answered**
Chosen Option : **4**

Q.13 $3 \times [\{(11 - 3) \div (1/2) \text{ of } 8\} + 15 \div 3]$ का मान है:

Ans
1. 21
2. 19
3. 15
4. 30

Question Type : **MCQ**
Question ID : **264330133582**
Option 1 ID : **264330523352**
Option 2 ID : **264330523354**
Option 3 ID : **264330523353**
Option 4 ID : **264330523351**
Status : **Answered**
Chosen Option : **1**

Q.14 63 पुरुष एक कार्य को 30 दिनों में पूरा कर सकते हैं। उसी कार्य को 21 पुरुष कितने दिनों में पूरा करेंगे?

Ans
1. 70 दिनों में
2. 90 दिनों में
3. 88 दिनों में
4. 85 दिनों में

Question Type : **MCQ**
Question ID : **264330138427**
Option 1 ID : **264330542315**
Option 2 ID : **264330542318**
Option 3 ID : **264330542316**
Option 4 ID : **264330542317**
Status : **Answered**
Chosen Option : **2**

Join Telegram Group "HaryanaJobs.in"

Q.15 A किसी कार्य को 6 दिनों में कर सकता है, जिसे B अकेले 8 दिनों में कर सकता है। दोनों मिलकर इसे कितने दिनों में कर सकते हैं?

Ans

✗ 1. $\frac{25}{7}$ दिन

✗ 2. $\frac{22}{3}$ दिन

✗ 3. $\frac{27}{4}$ दिन

✓ 4. $\frac{24}{7}$ दिन

Question Type : **MCQ**
Question ID : **264330135102**
Option 1 ID : **264330529344**
Option 2 ID : **264330529345**
Option 3 ID : **264330529346**
Option 4 ID : **264330529343**
Status : **Answered**
Chosen Option : **4**

Q.16 एक डिब्बे में 45 बल्ब हैं, जिनमें से 12 बल्ब खराब पाए गए। डिब्बे में अच्छे बल्बों और कुल बल्बों का अनुपात कितना है?

Ans

✗ 1. 8:13

✗ 2. 5:8

✓ 3. 11:15

✗ 4. 7:11

Question Type : **MCQ**
Question ID : **264330138734**
Option 1 ID : **264330543545**
Option 2 ID : **264330543546**
Option 3 ID : **264330543543**
Option 4 ID : **264330543544**
Status : **Answered**
Chosen Option : **3**

Join Telegram Group "HaryanaJobs.in"

Q.17 निम्नलिखित दंड आलेख में वर्ष 2018 से 2022 के दौरान एक देश में कंप्यूटर और स्मार्टफोन की बिक्री (करोड़ में) को दर्शाया गया है। इन वर्षों के दौरान कंप्यूटर की औसत बिक्री और स्मार्टफोन की औसत बिक्री के बीच कितना अंतर है?

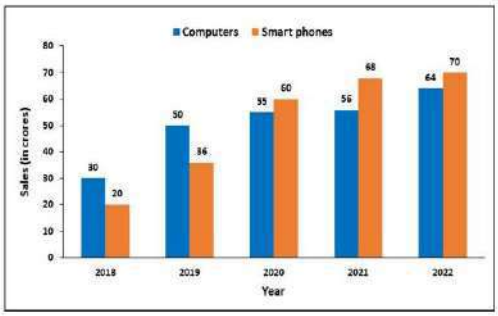

Sales (in crores) - बिक्री (करोड़ में), Computers - कंप्यूटर, Smart phones - स्मार्टफोन, Year - वर्ष

Ans
1. 0.5 करोड़
2. 1 करोड़
3. 0.8 करोड़
4. 0.2 करोड़

Question Type : **MCQ**
Question ID : **264330138742**
Option 1 ID : **264330543576**
Option 2 ID : **264330543577**
Option 3 ID : **264330543578**
Option 4 ID : **264330543575**
Status : **Not Answered**
Chosen Option : **--**

Q.18 एक समलंब की समानांतर भुजाएँ 14 cm और 18 cm हैं तथा समानांतर भुजाओं के बीच की दूरी 15 cm है। समलंब का क्षेत्रफल ज्ञात कीजिए।

Ans
1. $240\ cm^2$
2. $300\ cm^2$
3. $310\ cm^2$
4. $220\ cm^2$

Question Type : **MCQ**
Question ID : **264330138431**
Option 1 ID : **264330542332**
Option 2 ID : **264330542334**
Option 3 ID : **264330542333**
Option 4 ID : **264330542331**
Status : **Answered**
Chosen Option : **1**

Join Telegram Group "HaryanaJobs.in"

Q.19 एक वस्तु को Rs. 41275 में बेचने पर सुमन को 35% की हानि हुई। वस्तु का क्रय मूल्य क्या था?

Ans
1. Rs. 48675
2. Rs. 54020
3. Rs. 63500
4. Rs. 45910

Question Type : **MCQ**
Question ID : **264330138732**
Option 1 ID : **264330543538**
Option 2 ID : **264330543537**
Option 3 ID : **264330543535**
Option 4 ID : **264330543536**
Status : **Answered**
Chosen Option : **3**

Q.20 Rs. 2400 की धनराशि 10 प्रतिशत वार्षिक दर पर ऋण पर दी जाती है। निम्नलिखित में से कौन-सा/से कथन सही है/हैं?

I. 3 वर्षों के लिए चक्रवृद्धि ब्याज (वार्षिक रूप से संयोजित) Rs.794.4 है।

II. 3 वर्षों के बाद साधारण ब्याज और चक्रवृद्धि ब्याज (वार्षिक रूप से संयोजित) के बीच का अंतर Rs.75.8 है।

Ans
1. केवल कथन I सही है
2. कोई भी कथन सही नहीं है
3. कथन I और II दोनों सही हैं
4. केवल कथन II सही है

Question Type : **MCQ**
Question ID : **264330137676**
Option 1 ID : **264330539311**
Option 2 ID : **264330539314**
Option 3 ID : **264330539313**
Option 4 ID : **264330539312**
Status : **Not Answered**
Chosen Option : **--**

Section : **Reasoning Ability and Problem Solving**

Q.1 निम्नलिखित प्रश्न में, दी गई श्रृंखला में लुप्त संख्या को चुनिए ।

144, 140, 132, 116, 84,?

Ans
1. 29
2. 20
3. 25
4. 30

Question Type : **MCQ**
Question ID : **264330138595**
Option 1 ID : **264330542989**
Option 2 ID : **264330542987**
Option 3 ID : **264330542988**
Option 4 ID : **264330542990**
Status : **Answered**
Chosen Option : **2**

Join Telegram Group "HaryanaJobs.in"

Q.2 एक निश्चित कूट भाषा में, 'MOTION' को 'NNUHPM' लिखा जाता है। उस कूट भाषा में 'NORMAL' को कैसे लिखा जाएगा?

Ans
1. ONTLCK
2. ONSLBK
3. ONSLBL
4. ONSLCK

Question Type : **MCQ**
Question ID : **264330137090**
Option 1 ID : **264330537006**
Option 2 ID : **264330537003**
Option 3 ID : **264330537005**
Option 4 ID : **264330537004**
Status : **Answered**
Chosen Option : **2**

Q.3 किन दो चिन्हों को आपस में बदलने पर, दिए गए समीकरण का मान '1' होगा?

3 ÷ 1 + 6 × 2 − 5

Ans
1. ÷ और +
2. ÷ और ×
3. × और −
4. + और −

Question Type : **MCQ**
Question ID : **264330138598**
Option 1 ID : **264330543000**
Option 2 ID : **264330543002**
Option 3 ID : **264330543001**
Option 4 ID : **264330542999**
Status : **Answered**
Chosen Option : **2**

Join Telegram Group "HaryanaJobs.in"

Q.4 कौन-सी उत्तर आकृति प्रश्न आकृति में दिए गए पैटर्न को पूरा करेगी?

Ans

✗ 1.

✗ 2.

✓ 3.

✗ 4. 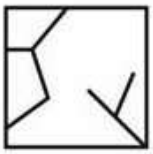

Question Type : **MCQ**
Question ID : **264330138602**
Option 1 ID : **264330543015**
Option 2 ID : **264330543017**
Option 3 ID : **264330543016**
Option 4 ID : **264330543018**
Status : **Answered**
Chosen Option : **3**

Join Telegram Group "HaryanaJobs.in"

Q.5 छः लड़कियाँ प्रिया, मुस्कान, रानी, सिरजाना, टीना और लक्ष्मी एक पंक्ति में दक्षिण की ओर मुख करके बैठी हैं(परंतु जरूरी नहीं वे कि इसी क्रम में बैठीं हों)। मुस्कान, टीना के दाईं ओर से दूसरे स्थान पर है। सिरजाना, टीना के बाईं ओर से दूसरे स्थान पर है। लक्ष्मी, रानी के बाईं ओर से दूसरे स्थान पर है। रानी, मुस्कान के ठीक दाईं ओर है। प्रिया के ठीक दाईं ओर कौन बैठा है?

Ans
1. मुस्कान
2. लक्ष्मी
3. सिरजाना
4. टीना

Question Type : **MCQ**
Question ID : **264330138590**
Option 1 ID : **264330542967**
Option 2 ID : **264330542968**
Option 3 ID : **264330542970**
Option 4 ID : **264330542969**
Status : **Answered**
Chosen Option : **3**

Q.6 दी गई श्रृंखला में निम्नलिखित में से कौन-सी संख्या प्रश्न चिन्ह (?) के स्थान पर आएगी?
85, 105, 126, 148, 171, 195, ?

Ans
1. 420
2. 280
3. 220
4. 530

Question Type : **MCQ**
Question ID : **264330137594**
Option 1 ID : **264330538983**
Option 2 ID : **264330538984**
Option 3 ID : **264330538985**
Option 4 ID : **264330538986**
Status : **Answered**
Chosen Option : **3**

Join Telegram Group "HaryanaJobs.in"

Q.7 निम्नलिखित प्रश्न में कुछ कथन दिए गए हैं और उन कथनों के आधार पर कुछ निष्कर्ष दिए गए हैं। आपको मानना है कि दिए गए कथन सत्य हैं चाहे वे सामान्यतः ज्ञात तथ्यों से अलग प्रतीत होते हों। सभी निष्कर्षों को पढ़िए और फिर निश्चय कीजिए कि दिए गए निष्कर्षों में से कौन-सा निष्कर्ष तार्किक रूप से दिए गए कथनों के अनुसार है।

कथन:

I. सभी P, M हैं।

II. कोई भी P, R नहीं है।

निष्कर्ष:

I. कुछ R, P नहीं हैं।

II. कुछ M, R नहीं हैं।

Ans

1. केवल निष्कर्ष II कथनों के अनुसार है
2. दोनों निष्कर्ष I और II कथनों के अनुसार हैं
3. कोई भी निष्कर्ष कथनों के अनुसार नहीं है
4. केवल निष्कर्ष I कथनों के अनुसार है

Question Type : **MCQ**
Question ID : **264330138592**
Option 1 ID : **264330542976**
Option 2 ID : **264330542977**
Option 3 ID : **264330542978**
Option 4 ID : **264330542975**
Status : **Answered**
Chosen Option : **3**

Q.8 एक निश्चित कूट भाषा में, 'FANS' को 'JERW' लिखा जाता है। उस कूट भाषा में 'HERO' को कैसे लिखा जाएगा?

Ans

1. LIWS
2. LJVS
3. LIVT
4. LIVS

Question Type : **MCQ**
Question ID : **264330138523**
Option 1 ID : **264330542700**
Option 2 ID : **264330542699**
Option 3 ID : **264330542701**
Option 4 ID : **264330542702**
Status : **Answered**
Chosen Option : **4**

Join Telegram Group "HaryanaJobs.in"

Q.9 उस विकल्प को चुनिए जो तीसरी संख्या से ठीक उसी प्रकार संबंधित है जिस प्रकार दूसरी संख्या पहली संख्या से संबंधित है।

12 : 132 :: 16 : ?

Ans

1. 135 ✗
2. 215 ✗
3. 167 ✗
4. 176 ✓

Question Type : **MCQ**
Question ID : **264330137596**
Option 1 ID : **264330538991**
Option 2 ID : **264330538993**
Option 3 ID : **264330538994**
Option 4 ID : **264330538992**
Status : **Answered**
Chosen Option : **4**

Q.10 उस विकल्प को चुनिए जो पाँचवें पद से ठीक उसी प्रकार संबंधित है जिस प्रकार दूसरा पद पहले पद से संबंधित है और चौथा पद तीसरे पद से संबंधित है।

KIT : PNY :: PFC : UKH :: ANG : ?

Ans

1. ESL ✗
2. FSL ✓
3. ESK ✗
4. FSK ✗

Question Type : **MCQ**
Question ID : **264330138584**
Option 1 ID : **264330542945**
Option 2 ID : **264330542946**
Option 3 ID : **264330542943**
Option 4 ID : **264330542944**
Status : **Answered**
Chosen Option : **2**

Q.11 उस विकल्प को चुनिए जो पाँचवें पद से ठीक उसी प्रकार संबंधित है जिस प्रकार दूसरा पद पहले पद से संबंधित है और चौथा पद तीसरे पद से संबंधित है।

TBA : SZX :: KRB : JPY :: GOT :?

Ans

1. FNR ✗
2. FMR ✗
3. FNQ ✗
4. FMQ ✓

Question Type : **MCQ**
Question ID : **264330138585**
Option 1 ID : **264330542948**
Option 2 ID : **264330542950**
Option 3 ID : **264330542949**
Option 4 ID : **264330542947**
Status : **Answered**
Chosen Option : **4**

Join Telegram Group "HaryanaJobs.in"

Q.12 निम्नलिखित प्रश्न में कुछ कथन दिए गए हैं और उन कथनों के आधार पर कुछ निष्कर्ष दिए गए हैं। आपको मानना है कि दिए गए कथन सत्य हैं चाहे वे समान्यतः ज्ञात तथ्यों से अलग प्रतीत होते हों। सभी निष्कर्षों को पढ़िए और फिर निश्चय कीजिए कि दिए गए निष्कर्षों में से कौन-सा निष्कर्ष तार्किक रूप से दिए गए कथनों के अनुसार है।

कथन:

I. कुछ L, G हैं।

II. सभी M, L हैं।

निष्कर्ष:

I. सभी L, M हैं।

II. कुछ G, M नहीं हैं।

III. कोई M, G नहीं है।

Ans

✗ 1. दोनों निष्कर्ष II और III कथनों के अनुसार हैं

✗ 2. दोनों निष्कर्ष I और II कथनों के अनुसार हैं

✗ 3. दोनों निष्कर्ष I और III कथनों के अनुसार हैं

✓ 4. कोई भी निष्कर्ष कथनों के अनुसार नहीं है

Question Type : **MCQ**
Question ID : **264330138593**
Option 1 ID : **264330542981**
Option 2 ID : **264330542982**
Option 3 ID : **264330542980**
Option 4 ID : **264330542979**
Status : **Answered**
Chosen Option : **4**

Q.13 एक श्रृंखला दी गई है जिसमें एक पद लुप्त है। दिए गए विकल्पों में से उस सही विकल्प को चुनिए जो श्रृंखला को पूरा करेगा।

MCHQ, LYGM, KUFI,?, IMDA

Ans

✓ 1. JQEE

✗ 2. JRFF

✗ 3. JREF

✗ 4. JQFE

Question Type : **MCQ**
Question ID : **264330138582**
Option 1 ID : **264330542937**
Option 2 ID : **264330542938**
Option 3 ID : **264330542935**
Option 4 ID : **264330542936**
Status : **Answered**
Chosen Option : **1**

Join Telegram Group "HaryanaJobs.in"

Q.14 उस विकल्प आकृति को चुनिए जिसमें दी गई आकृति (X) उसके भाग के रूप में निहित है। (घूर्णन की अनुमति नहीं है)।

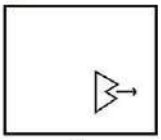

X

Ans

✗ 1.

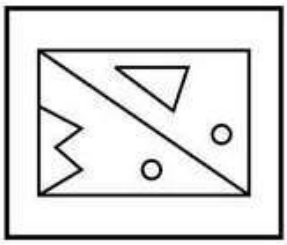

✓ 2.

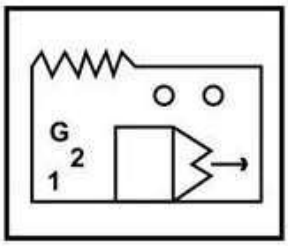

✗ 3.

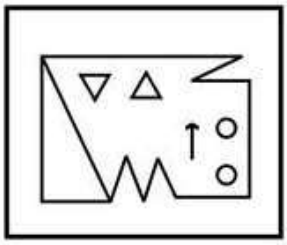

✗ 4.

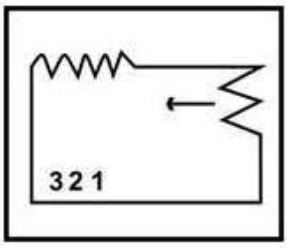

Question Type : **MCQ**
Question ID : **264330133337**
Option 1 ID : **264330522386**
Option 2 ID : **264330522383**
Option 3 ID : **264330522385**
Option 4 ID : **264330522384**
Status : **Answered**
Chosen Option : **2**

Join Telegram Group "HaryanaJobs.in"

Q.15 एक निश्चित कूट भाषा में, 'HORN' को '8695' लिखा जाता है और 'LURP' को '3397' लिखा जाता है। उस भाषा में 'BLUE' को कैसे लिखा जाएगा?

Ans

1. 2553
2. 5223
3. 2335
4. 2365

Question Type : **MCQ**
Question ID : **264330135027**
Option 1 ID : **264330529043**
Option 2 ID : **264330529045**
Option 3 ID : **264330529046**
Option 4 ID : **264330529044**
Status : **Answered**
Chosen Option : **3**

Join Telegram Group "HaryanaJobs.in"

Q.16 दी गई आकृति के उस सही दर्पण प्रतिबिंब को चुनिए, जो नीचे दर्शाए गए अनुसार दर्पण को AB पर रखने पर बनेगा।

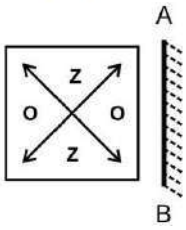

Ans

✗ 1.

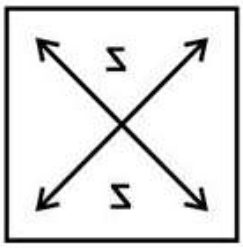

✗ 2.

✓ 3.

✗ 4.

Question Type :	**MCQ**
Question ID :	**264330133338**
Option 1 ID :	**264330522390**
Option 2 ID :	**264330522387**
Option 3 ID :	**264330522389**
Option 4 ID :	**264330522388**
Status :	**Answered**
Chosen Option :	**3**

Join Telegram Group "HaryanaJobs.in"

Q.17 यदि A का अर्थ 'जोड़', B का अर्थ 'गुणा', C का अर्थ 'घटाव' और D का अर्थ 'भाग' हो, तो निम्नलिखित समीकरण का मान क्या होगा?
7 C 8 A (6 D 3) = ?

Ans
✔ 1. 1
✘ 2. 5
✘ 3. 3
✘ 4. 7

Question Type : **MCQ**
Question ID : **264330137599**
Option 1 ID : **264330539004**
Option 2 ID : **264330539003**
Option 3 ID : **264330539006**
Option 4 ID : **264330539005**
Status : **Answered**
Chosen Option : **1**

Q.18 पाँच कारों C1, C2, C3, C4 और C5 की कीमतों की तुलना की जाती है। C1 की कीमत सबसे कम है। कोई भी दो कारों की कीमत समान नहीं है। C3 की कीमत C5, C2 और C4 से कम है। न तो C5 और न ही C2 की कीमत सबसे अधिक है। C5 की कीमत C2 से कम है। कितनी कारों की कीमत C4 की कीमत से अधिक है?

Ans
✘ 1. 4
✔ 2. 0
✘ 3. 1
✘ 4. 2

Question Type : **MCQ**
Question ID : **264330138591**
Option 1 ID : **264330542974**
Option 2 ID : **264330542973**
Option 3 ID : **264330542971**
Option 4 ID : **264330542972**
Status : **Answered**
Chosen Option : **2**

Q.19 एक निश्चित कूट भाषा में, 'ROYAL' को 'HWUKN' लिखा जाता है। उस कूट भाषा में 'SEEMS' को कैसे लिखा जाएगा?

Ans
✘ 1. OIBBO
✘ 2. OJAAO
✘ 3. OIAAP
✔ 4. OIAAO

Question Type : **MCQ**
Question ID : **264330138483**
Option 1 ID : **264330542542**
Option 2 ID : **264330542540**
Option 3 ID : **264330542539**
Option 4 ID : **264330542541**
Status : **Not Answered**
Chosen Option : **--**

Join Telegram Group "HaryanaJobs.in"

Q.20 उस विकल्प को चुनिए जो तीसरे शब्द से ठीक उसी प्रकार संबंधित है जिस प्रकार दूसरा शब्द पहले शब्द से संबंधित है।
क्षेत्राधिकार : अधिकार :: असमंजस : ?

Ans
1. प्रतिभूति
2. दुविधा
3. निर्णायक
4. निश्चित

Question Type : **MCQ**
Question ID : **264330135021**
Option 1 ID : **264330529020**
Option 2 ID : **264330529019**
Option 3 ID : **264330529022**
Option 4 ID : **264330529021**
Status : **Answered**
Chosen Option : **2**

Section : **General Awareness**

Q.1 दिल्ली में लाल किला किसने बनवाया था?

Ans
1. शाहजहाँ
2. जहाँगीर
3. बाबर
4. हुमायूँ

Question Type : **MCQ**
Question ID : **264330137775**
Option 1 ID : **264330539708**
Option 2 ID : **264330539710**
Option 3 ID : **264330539709**
Option 4 ID : **264330539707**
Status : **Answered**
Chosen Option : **1**

Q.2 समस्थानिकों की विशेषता क्या है?

Ans
1. समान न्यूट्रॉन संख्या और समान प्रोटॉन संख्या
2. समान न्यूट्रॉन संख्या और अलग-अलग प्रोटॉन संख्या
3. समान परमाणु संख्या और अलग-अलग द्रव्यमान संख्या
4. समान परमाणु संख्या और समान द्रव्यमान संख्या

Question Type : **MCQ**
Question ID : **264330137766**
Option 1 ID : **264330539674**
Option 2 ID : **264330539673**
Option 3 ID : **264330539672**
Option 4 ID : **264330539671**
Status : **Answered**
Chosen Option : **3**

Join Telegram Group "HaryanaJobs.in"

Q.3 सरोगेसी (विनियमन) विधेयक, 2016 क्या प्रतिबंधित करता है?

Ans
1. सरोगेट (किराए की कोख) के रूप में 23 से 50 वर्ष की महिलाएँ
2. व्यावसायिक (कमर्शियल) सरोगेसी
3. सरोगेट के रूप में विवाहित महिलाएँ
4. सरोगेट के रूप में तलाकशुदा महिलाएँ

Question Type : **MCQ**
Question ID : **264330137762**
Option 1 ID : **264330539655**
Option 2 ID : **264330539656**
Option 3 ID : **264330539657**
Option 4 ID : **264330539658**
Status : **Answered**
Chosen Option : **2**

Q.4 निम्नलिखित में से किसे मणिपुर के महाराजा द्वारा प्रदान की गई 'नृत्याचार्य (Nrityacharya)' की प्रतिष्ठित उपाधि से सम्मानित किया गया था?

Ans
1. रुक्मिणी देवी
2. गुरु केलुचरण महापात्र
3. गुरु बिपिन सिंह
4. उदय शंकर

Question Type : **MCQ**
Question ID : **264330138253**
Option 1 ID : **264330541621**
Option 2 ID : **264330541619**
Option 3 ID : **264330541620**
Option 4 ID : **264330541622**
Status : **Not Answered**
Chosen Option : **--**

Q.5 धनगर नृत्य _____ के धनगर समुदाय से संबंधित है।

Ans
1. तमिलनाडु
2. गुजरात
3. आंध्रप्रदेश
4. गोवा

Question Type : **MCQ**
Question ID : **264330138649**
Option 1 ID : **264330543203**
Option 2 ID : **264330543205**
Option 3 ID : **264330543204**
Option 4 ID : **264330543206**
Status : **Answered**
Chosen Option : **2**

Join Telegram Group "HaryanaJobs.in"

Q.6 निम्नलिखित में से कौन-सा महासागर विश्व में सबसे छोटा है?

Ans
✔ 1. आर्कटिक महासागर
✘ 2. हिंद महासागर
✘ 3. प्रशांत महासागर
✘ 4. अटलांटिक महासागर

Question Type : **MCQ**
Question ID : **264330137769**
Option 1 ID : **264330539683**
Option 2 ID : **264330539686**
Option 3 ID : **264330539684**
Option 4 ID : **264330539685**
Status : **Answered**
Chosen Option : **4**

Q.7 भारतीय संविधान का निम्नलिखित में से कौन-सा अनुच्छेद "ग्राम पंचायतों के संगठन" से संबंधित है?

Ans
✘ 1. अनुच्छेद 41
✘ 2. अनुच्छेद 42
✘ 3. अनुच्छेद 43
✔ 4. अनुच्छेद 40

Question Type : **MCQ**
Question ID : **264330138661**
Option 1 ID : **264330543252**
Option 2 ID : **264330543253**
Option 3 ID : **264330543254**
Option 4 ID : **264330543251**
Status : **Answered**
Chosen Option : **4**

Q.8 पानीपत का तीसरा युद्ध _____ के बीच लड़ा गया था।

Ans
✘ 1. मराठा और मुगल
✘ 2. अफगान और मुगल
✔ 3. मराठा और अफगान
✘ 4. अफगान और तुर्क

Question Type : **MCQ**
Question ID : **264330137776**
Option 1 ID : **264330539712**
Option 2 ID : **264330539713**
Option 3 ID : **264330539711**
Option 4 ID : **264330539714**
Status : **Answered**
Chosen Option : **3**

Join Telegram Group "HaryanaJobs.in"

Q.9 प्रसिद्ध एथलीट ज्वाला गुट्टा किस खेल से संबंधित हैं?

Ans
✔ 1. बैडमिंटन (Badminton)
✘ 2. स्क्वाश (Squash)
✘ 3. लॉन टेनिस (Lawn Tennis)
✘ 4. टेबल टेनिस (Table Tennis)

Question Type : **MCQ**
Question ID : **264330137784**
Option 1 ID : **264330539744**
Option 2 ID : **264330539743**
Option 3 ID : **264330539745**
Option 4 ID : **264330539746**
Status : **Answered**
Chosen Option : **1**

Q.10 वॉलीबॉल खेल दो टीमों के बीच खेला जाता है जिसमें प्रत्येक टीम में _____ खिलाड़ी होते हैं।

Ans
✘ 1. पाँच
✘ 2. सात
✔ 3. छः
✘ 4. आठ

Question Type : **MCQ**
Question ID : **264330138652**
Option 1 ID : **264330543215**
Option 2 ID : **264330543217**
Option 3 ID : **264330543216**
Option 4 ID : **264330543218**
Status : **Answered**
Chosen Option : **1**

Q.11 किसने भारत के पंजाब में भगवान के निरंकार (निराकार) रूप की पूजा को बढ़ावा दिया?

Ans
✘ 1. महाराजा रणजीत सिंह
✘ 2. बाबा राम सिंह
✔ 3. बाबा दयाल दास
✘ 4. गुरु गोबिंद सिंह

Question Type : **MCQ**
Question ID : **264330133664**
Option 1 ID : **264330523682**
Option 2 ID : **264330523680**
Option 3 ID : **264330523679**
Option 4 ID : **264330523681**
Status : **Answered**
Chosen Option : **3**

Join Telegram Group "HaryanaJobs.in"

Q.12 "भुगतान विज़न 2025 (Payments Vision 2025)" नाम की एक रिपोर्ट किस संस्था द्वारा जारी की गई है?

Ans
✔ 1. भारतीय रिज़र्व बैंक
✘ 2. नीति आयोग
✘ 3. वित्त मंत्रालय
✘ 4. कॉर्पोरेट मामलों के मंत्रालय

Question Type : **MCQ**
Question ID : **264330138658**
Option 1 ID : **264330543241**
Option 2 ID : **264330543242**
Option 3 ID : **264330543239**
Option 4 ID : **264330543240**
Status : **Answered**
Chosen Option : **1**

Q.13 सजीवों का शरीर सूक्ष्म इकाइयों से बनता है जो _____ कहलाती हैं।

Ans
✘ 1. कलिकाएँ (buds)
✘ 2. जीन (genes)
✘ 3. तारक केन्द्र (centrioles)
✔ 4. कोशिकाएँ (cells)

Question Type : **MCQ**
Question ID : **264330138662**
Option 1 ID : **264330543255**
Option 2 ID : **264330543256**
Option 3 ID : **264330543257**
Option 4 ID : **264330543258**
Status : **Answered**
Chosen Option : **4**

Q.14 किसी फर्म की माल-सूची में परिवर्तन को _____ के रूप में समझा जाता है।

Ans
✔ 1. निवेश
✘ 2. देयता
✘ 3. परिसंपत्तियों
✘ 4. विनिवेश

Question Type : **MCQ**
Question ID : **264330138256**
Option 1 ID : **264330541632**
Option 2 ID : **264330541631**
Option 3 ID : **264330541633**
Option 4 ID : **264330541634**
Status : **Answered**
Chosen Option : **4**

Join Telegram Group "HaryanaJobs.in"

Q.15 किस प्रकार की कृषि कृषक परिवार की आवश्यकताओं को पूरा करने के लिए की जाती है?

Ans
1. वाणिज्यिक कृषि
2. मत्स्यपालन
3. रेशम उत्पादन
4. निर्वाह कृषि

Question Type : **MCQ**
Question ID : **264330138263**
Option 1 ID : **264330541659**
Option 2 ID : **264330541662**
Option 3 ID : **264330541660**
Option 4 ID : **264330541661**
Status : **Answered**
Chosen Option : **4**

Q.16 राष्ट्रीय जनसंख्या नीति (NPP) 2000 का दीर्घकालीन उद्देश्य वर्ष _____ तक स्थायी आर्थिक विकास, सामाजिक विकास और पर्यावरण संरक्षण के साथ देश की आबादी को स्थिर बनाए रखना है।

Ans
1. 2045
2. 2025
3. 2055
4. 2035

Question Type : **MCQ**
Question ID : **264330138891**
Option 1 ID : **264330544173**
Option 2 ID : **264330544171**
Option 3 ID : **264330544174**
Option 4 ID : **264330544172**
Status : **Answered**
Chosen Option : **1**

Q.17 हाल ही में संयुक्त राष्ट्र शरणार्थी पुरस्कार (UN refugee prize) पाने वाली एंजेला मर्केल (Angela Merkel) _____ हैं।

Ans
1. शरणार्थियों के लिए संयुक्त राष्ट्र की उच्चायुक्त
2. संयुक्त राष्ट्र की महासचिव
3. यूक्रेन की राष्ट्रपति
4. पूर्व जर्मन चांसलर

Question Type : **MCQ**
Question ID : **264330138657**
Option 1 ID : **264330543237**
Option 2 ID : **264330543238**
Option 3 ID : **264330543236**
Option 4 ID : **264330543235**
Status : **Answered**
Chosen Option : **4**

Join Telegram Group "HaryanaJobs.in"

Q.18 निम्नलिखित में से कौन एक सारंगी वादक हैं?

Ans
✔ 1. उस्ताद शकूर खान
✘ 2. अनुराधा पौडवाल
✘ 3. संदीप दास
✘ 4. पंडित कृष्ण महाराज

Question Type : **MCQ**
Question ID : **264330138655**
Option 1 ID : **264330543227**
Option 2 ID : **264330543229**
Option 3 ID : **264330543228**
Option 4 ID : **264330543230**
Status : **Not Answered**
Chosen Option : **--**

Q.19 'द रेस ऑफ माई लाइफ: एन ऑटोबायोग्राफी (The Race of My Life: An Autobiography)' किस प्रसिद्ध एथलीट द्वारा लिखी गई है?

Ans
✘ 1. पी.वी. सिंधु
✘ 2. राजविंदर कौर
✔ 3. मिल्खा सिंह
✘ 4. नितेंदर रावत

Question Type : **MCQ**
Question ID : **264330138251**
Option 1 ID : **264330541611**
Option 2 ID : **264330541613**
Option 3 ID : **264330541614**
Option 4 ID : **264330541612**
Status : **Answered**
Chosen Option : **3**

Q.20 अक्टूबर-नवंबर के दौरान, सूर्य की आभासी गति _____ की तरफ होती है।

Ans
✘ 1. उत्तर-पश्चिम
✘ 2. उत्तर-पूर्व
✔ 3. दक्षिण
✘ 4. उत्तर

Question Type : **MCQ**
Question ID : **264330138667**
Option 1 ID : **264330543277**
Option 2 ID : **264330543278**
Option 3 ID : **264330543276**
Option 4 ID : **264330543275**
Status : **Not Answered**
Chosen Option : **--**

Join Telegram Group "HaryanaJobs.in"

Q.21 बस्तर दशहरा भारत के _____ राज्य का एक प्रसिद्ध त्योहार है।

Ans
1. बिहार ✗
2. छत्तीसगढ़ ✓
3. अरुणाचल प्रदेश ✗
4. मणिपुर ✗

Question Type : **MCQ**
Question ID : **264330133651**
Option 1 ID : **264330523629**
Option 2 ID : **264330523627**
Option 3 ID : **264330523628**
Option 4 ID : **264330523630**
Status : **Answered**
Chosen Option : **1**

Q.22 हौज़-ए-सुल्तानी (Hauz-i-Sultani) का निर्माण _____ ने करवाया था।

Ans
1. बाबर ✗
2. सिकंदर लोदी ✗
3. इल्तुतमिश ✓
4. अकबर ✗

Question Type : **MCQ**
Question ID : **264330137765**
Option 1 ID : **264330539667**
Option 2 ID : **264330539669**
Option 3 ID : **264330539668**
Option 4 ID : **264330539670**
Status : **Answered**
Chosen Option : **2**

Q.23 2011 की जनगणना के अनुसार भारत के किस राज्य की जनसंख्या सबसे कम है?

Ans
1. छत्तीसगढ़ ✗
2. बिहार ✗
3. सिक्किम ✓
4. केरल ✗

Question Type : **MCQ**
Question ID : **264330133659**
Option 1 ID : **264330523659**
Option 2 ID : **264330523662**
Option 3 ID : **264330523661**
Option 4 ID : **264330523660**
Status : **Answered**
Chosen Option : **3**

Join Telegram Group "HaryanaJobs.in"

Q.24 कौटिल्य की सहायता से किसने अंतिम नंद शासक धनानंद को पराजित किया था?

Ans
1. अशोक
2. चंद्रगुप्त मौर्य
3. अकबर
4. कालाशोक

Question Type : **MCQ**
Question ID : **264330133661**
Option 1 ID : **264330523667**
Option 2 ID : **264330523669**
Option 3 ID : **264330523668**
Option 4 ID : **264330523670**
Status : **Answered**
Chosen Option : **2**

Q.25 पेट की अम्लता को उदासीन करने के लिए निम्नलिखित में से किसका उपयोग प्रतिअम्ल (antacid) के रूप में किया जाता है?

Ans
1. मॉर्फीन (Morphine)
2. क्लोरीन (Chlorine)
3. मैग्नीशियम हाइड्रॉक्साइड (Magnesium Hydroxide)
4. आयोडोफार्म (Iodoform)

Question Type : **MCQ**
Question ID : **264330137768**
Option 1 ID : **264330539681**
Option 2 ID : **264330539680**
Option 3 ID : **264330539679**
Option 4 ID : **264330539682**
Status : **Answered**
Chosen Option : **3**

Section : **English Language and Comprehension**

Q.1 Improve the underlined part of the sentence. Choose 'No improvement' as an answer if the sentence is grammatically correct.

You can't bought anything with one cent anymore.

Ans
1. could not buying anything
2. No improvement
3. can't buy anything
4. should not bought anything

Question Type : **MCQ**
Question ID : **264330136800**
Option 1 ID : **264330535899**
Option 2 ID : **264330535902**
Option 3 ID : **264330535901**
Option 4 ID : **264330535900**
Status : **Answered**
Chosen Option : **3**

Join Telegram Group "HaryanaJobs.in"

Q.2 Choose the incorrectly spelt word.

Ans
1. Booking ✗
2. Rubing ✓
3. Shocker ✗
4. Tram ✗

Question Type : **MCQ**
Question ID : **264330136791**
Option 1 ID : **264330535865**
Option 2 ID : **264330535863**
Option 3 ID : **264330535864**
Option 4 ID : **264330535866**
Status : **Answered**
Chosen Option : **2**

Q.3 Improve the underlined part of the sentence. Choose 'No improvement' as an answer if the sentence is grammatically correct.

It's going to rain today whether you like it or not.

Ans
1. you liked it ✗
2. you likes it ✗
3. you likened it ✗
4. No improvement ✓

Question Type : **MCQ**
Question ID : **264330136825**
Option 1 ID : **264330535996**
Option 2 ID : **264330535995**
Option 3 ID : **264330535997**
Option 4 ID : **264330535998**
Status : **Answered**
Chosen Option : **4**

Q.4 Select the most appropriate antonym of the given word.

Maladroit

Ans
1. Inept ✗
2. Arrogant ✗
3. Awkward ✗
4. Skilful ✓

Question Type : **MCQ**
Question ID : **264330136231**
Option 1 ID : **264330533713**
Option 2 ID : **264330533714**
Option 3 ID : **264330533712**
Option 4 ID : **264330533711**
Status : **Answered**
Chosen Option : **4**

Join Telegram Group "HaryanaJobs.in"

Q.5 **A sentence has been given with a blank to be filled with an appropriate option. Choose the correct alternative.**
I don't remember exactly when the clouds rolled in and _____ you from me.

Ans
✗ 1. stealing
✗ 2. steal
✗ 3. stolen
✓ 4. stole

Question Type : **MCQ**
Question ID : **264330134301**
Option 1 ID : **264330526199**
Option 2 ID : **264330526202**
Option 3 ID : **264330526201**
Option 4 ID : **264330526200**
Status : **Answered**
Chosen Option : **2**

Q.6 Select the most appropriate word for the given group of words.

To forbid something, especially by law

Ans
✗ 1. Propound
✗ 2. Quarantine
✓ 3. Proscribe
✗ 4. Quench

Question Type : **MCQ**
Question ID : **264330136227**
Option 1 ID : **264330533697**
Option 2 ID : **264330533695**
Option 3 ID : **264330533698**
Option 4 ID : **264330533696**
Status : **Answered**
Chosen Option : **3**

Q.7 Find the part of the given sentence that has an error in it. If there is no error, choose 'No error'.

It's your carelessness that makes me went crazy all the time.

Ans
✗ 1. crazy all the time.
✗ 2. No error
✗ 3. It's your carelessness
✓ 4. that makes me went

Question Type : **MCQ**
Question ID : **264330134772**
Option 1 ID : **264330528037**
Option 2 ID : **264330528038**
Option 3 ID : **264330528035**
Option 4 ID : **264330528036**
Status : **Answered**
Chosen Option : **4**

Join Telegram Group "HaryanaJobs.in"

Q.8 In the following question, out of the given four alternatives, select the alternative which best expresses the meaning of the Idiom/Phrase.
Bark up the wrong tree

Ans
1. To reach at a wrong address
2. To scold someone for the mistake they have not done
3. To waste one's energy or effort by pursuing the wrong thing
4. To invest one's money in wrong business

Question Type : **MCQ**
Question ID : **264330136790**
Option 1 ID : **264330535860**
Option 2 ID : **264330535862**
Option 3 ID : **264330535859**
Option 4 ID : **264330535861**
Status : **Answered**
Chosen Option : **3**

Q.9 Choose the word that can substitute the given group of words.

Impossible to change or reverse

Ans
1. Order
2. Coerce
3. Irrevocable
4. Intimidate

Question Type : **MCQ**
Question ID : **264330136784**
Option 1 ID : **264330535836**
Option 2 ID : **264330535837**
Option 3 ID : **264330535838**
Option 4 ID : **264330535835**
Status : **Answered**
Chosen Option : **3**

Q.10 Select the most appropriate meaning of the given idiom.

Queer somebody's pitch

Ans
1. To come out successfully
2. To make an exaggerated statement
3. A secret plan
4. Upset someone's plans

Question Type : **MCQ**
Question ID : **264330136233**
Option 1 ID : **264330533719**
Option 2 ID : **264330533722**
Option 3 ID : **264330533721**
Option 4 ID : **264330533720**
Status : **Answered**
Chosen Option : **4**

Join Telegram Group "HaryanaJobs.in"

Q.11 Find the part of the given sentence that has an error in it. If there is no error, choose 'No error'.
When you're chatting on the phone, do it in the living room instead off the kitchen.

Ans
1. No error ✗
2. instead off the kitchen. ✓
3. the phone, do it in the living room ✗
4. When you're chatting on ✗

Question Type : **MCQ**
Question ID : **264330136822**
Option 1 ID : **264330535986**
Option 2 ID : **264330535985**
Option 3 ID : **264330535984**
Option 4 ID : **264330535983**
Status : **Answered**
Chosen Option : **2**

Q.12 **Select the most appropriate option to fill in the blank.**
"The Boarded Window" is a horror story about a man who has to _____ with his wife's death.

Ans
1. deed ✗
2. drill ✗
3. dwell ✗
4. deal ✓

Question Type : **MCQ**
Question ID : **264330134318**
Option 1 ID : **264330526266**
Option 2 ID : **264330526264**
Option 3 ID : **264330526265**
Option 4 ID : **264330526263**
Status : **Answered**
Chosen Option : **4**

Q.13 Find the part of the given sentence that has an error in it. If there is no error, choose 'No error'.
The government have a rudimentary plan for an ecosystem for defence startups to fast-forward innovation.

Ans
1. an ecosystem for defence startups ✗
2. No error ✗
3. to fast-forward innovation. ✗
4. The government have a rudimentary plan for ✓

Question Type : **MCQ**
Question ID : **264330136771**
Option 1 ID : **264330535788**
Option 2 ID : **264330535790**
Option 3 ID : **264330535789**
Option 4 ID : **264330535787**
Status : **Answered**
Chosen Option : **4**

Join Telegram Group "HaryanaJobs.in"

Q.14 Select the most appropriate option to fill in the blank.

_____ food consumption can affect our bodies' immune systems.

Ans

✗ 1. Nutritious

✗ 2. Sanitary

✓ 3. Unhygienic

✗ 4. Unwise

Question Type : **MCQ**
Question ID : **264330136794**
Option 1 ID : **264330535876**
Option 2 ID : **264330535878**
Option 3 ID : **264330535877**
Option 4 ID : **264330535875**
Status : **Answered**
Chosen Option : **3**

Q.15 **Choose the sentence with no spelling error.**

Ans

✗ 1. Sneha caught it and frownned.

✗ 2. Sneha caught it and frouned.

✓ 3. Sneha caught it and frowned.

✗ 4. Sneha cuaght it and frowned.

Question Type : **MCQ**
Question ID : **264330134317**
Option 1 ID : **264330526259**
Option 2 ID : **264330526262**
Option 3 ID : **264330526261**
Option 4 ID : **264330526260**
Status : **Answered**
Chosen Option : **3**

Q.16 Select the appropriate antonym for the underlined word.

We frequently congratulate people on their accomplishment in becoming famous, but we seldom ever talk about the price of fame.

Ans

✗ 1. Triumph

✗ 2. Execution

✓ 3. Fiasco

✗ 4. Feat

Question Type : **MCQ**
Question ID : **264330136788**
Option 1 ID : **264330535853**
Option 2 ID : **264330535854**
Option 3 ID : **264330535852**
Option 4 ID : **264330535851**
Status : **Answered**
Chosen Option : **1**

Join Telegram Group "HaryanaJobs.in"

Q.17 Select the appropriate synonym for the underlined word.

The physics of laser-driven fusion is very <u>complex</u>.

Ans
✔ 1. Convoluted
✘ 2. Modest
✘ 3. Simplified
✘ 4. Streamline

Question Type : **MCQ**
Question ID : **264330136785**
Option 1 ID : **264330535840**
Option 2 ID : **264330535842**
Option 3 ID : **264330535841**
Option 4 ID : **264330535839**
Status : **Answered**
Chosen Option : **1**

Q.18 Improve the underlined part of the sentence. Choose 'No improvement' as an answer if the sentence is grammatically correct.

Many restaurants <u>serving compliment</u> bread with the meal.

Ans
✔ 1. serve complimentary
✘ 2. No improvement
✘ 3. serve compliment
✘ 4. serves complimentary

Question Type : **MCQ**
Question ID : **264330135285**
Option 1 ID : **264330530056**
Option 2 ID : **264330530058**
Option 3 ID : **264330530055**
Option 4 ID : **264330530057**
Status : **Answered**
Chosen Option : **1**

Q.19 **Choose the word that means the same as the given word.**
Upsetting

Ans
✔ 1. Perturbing
✘ 2. Amusing
✘ 3. Aware
✘ 4. Dreamy

Question Type : **MCQ**
Question ID : **264330134337**
Option 1 ID : **264330526335**
Option 2 ID : **264330526336**
Option 3 ID : **264330526337**
Option 4 ID : **264330526338**
Status : **Answered**
Chosen Option : **2**

Join Telegram Group "HaryanaJobs.in"

Q.20 A sentence has been given with a blank to be filled with an appropriate option. Choose the correct alternative.
Sam was 24 years old when he _____ to California.

Ans

✗ 1. movement

✗ 2. moving

✓ 3. moved

✗ 4. moves

Question Type : **MCQ**
Question ID : **264330136775**
Option 1 ID : **264330535806**
Option 2 ID : **264330535803**
Option 3 ID : **264330535805**
Option 4 ID : **264330535804**
Status : **Answered**
Chosen Option : **3**

Comprehension:

In the following passage some words have been deleted. Fill in the blanks with the help of the alternatives given. Select the most appropriate option for each number.

One of the myths (1) _____ with the Great Wall of China is that it is the only man-made (2) _____ that can be seen from the moon with the naked eye. The (3) _____ originated in Richard Halliburton's 1938 book Second Book of Marvels. However, this myth is simply not true. Richard Halliburton's claim was contradicted (4) _____ astronauts Neil Armstrongby and Yang Liwei. A more (5) _____ assumption would be to say that the Great Wall can be visible from a low orbit of the earth which is not unique in this regard as many other artificial constructions can be seen from that height.

SubQuestion No : 21

Q.21 Select the most appropriate option to fill in blank number 1.

Ans

✗ 1. organized

✓ 2. associated

✗ 3. depreciated

✗ 4. disassociated

Question Type : **MCQ**
Question ID : **264330136222**
Option 1 ID : **264330533676**
Option 2 ID : **264330533678**
Option 3 ID : **264330533675**
Option 4 ID : **264330533677**
Status : **Answered**
Chosen Option : **2**

Join Telegram Group "HaryanaJobs.in"

Comprehension:

In the following passage some words have been deleted. Fill in the blanks with the help of the alternatives given. Select the most appropriate option for each number.

One of the myths (1) _____ with the Great Wall of China is that it is the only man-made (2) _____ that can be seen from the moon with the naked eye. The (3) _____ originated in Richard Halliburton's 1938 book Second Book of Marvels. However, this myth is simply not true. Richard Halliburton's claim was contradicted (4) _____ astronauts Neil Armstrongby and Yang Liwei. A more (5) _____ assumption would be to say that the Great Wall can be visible from a low orbit of the earth which is not unique in this regard as many other artificial constructions can be seen from that height.

SubQuestion No : 22

Q.22 Select the most appropriate option to fill in blank number 2.

Ans

✔ 1. structure

✘ 2. sculpture

✘ 3. contracture

✘ 4. conjecture

Question Type : **MCQ**
Question ID : **264330136223**
Option 1 ID : **264330533679**
Option 2 ID : **264330533680**
Option 3 ID : **264330533681**
Option 4 ID : **264330533682**
Status : **Answered**
Chosen Option : **1**

Comprehension:

In the following passage some words have been deleted. Fill in the blanks with the help of the alternatives given. Select the most appropriate option for each number.

One of the myths (1) _____ with the Great Wall of China is that it is the only man-made (2) _____ that can be seen from the moon with the naked eye. The (3) _____ originated in Richard Halliburton's 1938 book Second Book of Marvels. However, this myth is simply not true. Richard Halliburton's claim was contradicted (4) _____ astronauts Neil Armstrongby and Yang Liwei. A more (5) _____ assumption would be to say that the Great Wall can be visible from a low orbit of the earth which is not unique in this regard as many other artificial constructions can be seen from that height.

SubQuestion No : 23

Q.23 Select the most appropriate option to fill in blank number 3.

Ans

✘ 1. verity

✔ 2. legend

✘ 3. candour

✘ 4. lagend

Question Type : **MCQ**
Question ID : **264330136224**
Option 1 ID : **264330533683**
Option 2 ID : **264330533685**
Option 3 ID : **264330533686**
Option 4 ID : **264330533684**
Status : **Answered**
Chosen Option : **1**

Join Telegram Group "HaryanaJobs.in"

Comprehension:

In the following passage some words have been deleted. Fill in the blanks with the help of the alternatives given. Select the most appropriate option for each number.

One of the myths (1) _____ with the Great Wall of China is that it is the only man-made (2) _____ that can be seen from the moon with the naked eye. The (3) _____ originated in Richard Halliburton's 1938 book Second Book of Marvels. However, this myth is simply not true. Richard Halliburton's claim was contradicted (4) _____ astronauts Neil Armstrongby and Yang Liwei. A more (5) _____ assumption would be to say that the Great Wall can be visible from a low orbit of the earth which is not unique in this regard as many other artificial constructions can be seen from that height.

SubQuestion No : 24

Q.24 Select the most appropriate option to fill in blank number 4.

Ans

✗ 1. in

✓ 2. by

✗ 3. from

✗ 4. under

Question Type : **MCQ**
Question ID : **264330136225**
Option 1 ID : **264330533687**
Option 2 ID : **264330533688**
Option 3 ID : **264330533689**
Option 4 ID : **264330533690**
Status : **Answered**
Chosen Option : **2**

Comprehension:

In the following passage some words have been deleted. Fill in the blanks with the help of the alternatives given. Select the most appropriate option for each number.

One of the myths (1) _____ with the Great Wall of China is that it is the only man-made (2) _____ that can be seen from the moon with the naked eye. The (3) _____ originated in Richard Halliburton's 1938 book Second Book of Marvels. However, this myth is simply not true. Richard Halliburton's claim was contradicted (4) _____ astronauts Neil Armstrongby and Yang Liwei. A more (5) _____ assumption would be to say that the Great Wall can be visible from a low orbit of the earth which is not unique in this regard as many other artificial constructions can be seen from that height.

SubQuestion No : 25

Q.25 Select the most appropriate option to fill in blank number 5.

Ans

✗ 1. accessible

✗ 2. apprehensible

✗ 3. permissible

✓ 4. plausible

Question Type : **MCQ**
Question ID : **264330136226**
Option 1 ID : **264330533691**
Option 2 ID : **264330533693**
Option 3 ID : **264330533692**
Option 4 ID : **264330533694**
Status : **Answered**
Chosen Option : **4**

Join Telegram Group "HaryanaJobs.in"

Multi Tasking Non Technical Staff and Havaldar CBIC and CBN Examination 2022

Roll Number	HaryanaJobs.in
Candidate Name	HaryanaJobs.in
Venue Name	Tech Testing Solution
Exam Date	18/05/2023
Exam Time	3:30 PM - 5:00 PM
Subject	MTS Non Tech Havaldar CBIC and CBN Examination 2022

Section : **Numerical and Mathematical Ability**

Q.1 225 और 425 का महत्तम समापवर्तक (HCF) क्या है?

Ans
1. 17 ✗
2. 25 ✓
3. 5 ✗
4. 9 ✗

Question Type : **MCQ**
Question ID : **264330138726**
Option 1 ID : **264330543513**
Option 2 ID : **264330543512**
Option 3 ID : **264330543511**
Option 4 ID : **264330543514**
Status : **Answered**
Chosen Option : **2**

Join Telegram Group "HaryanaJobs.in"

Q.2 नीचे दी गई तालिका में सात वर्षों में दो कंपनियों P और Q की आय को दर्शाया गया है।

वर्ष	P	Q
Y1	200	250
Y2	350	150
Y3	500	650
Y4	650	450
Y5	600	550
Y6	450	700
Y7	400	500

निम्नलिखित में से कौन-सा कथन सही **नहीं** है?

I. वर्ष Y1 में P की आय, वर्ष Y1 में Q की आय से 20 प्रतिशत कम है।

II. सभी वर्षों में P की कुल आय और Q की कुल आय का अनुपात 63 : 64 है।

Ans
1. केवल II
2. I और II दोनों
3. न तो I और न ही II
4. केवल I

Question Type : **MCQ**
Question ID : **264330137663**
Option 1 ID : **264330539260**
Option 2 ID : **264330539261**
Option 3 ID : **264330539262**
Option 4 ID : **264330539259**
Status : **Answered**
Chosen Option : **1**

Q.3 If the diagonal of a square is 18.4 cm, then the area of that square is:

Ans
1. 338.56 cm^2
2. 84.64 cm^2
3. 169.28 cm^2
4. 324.42 cm^2

Question Type : **MCQ**
Question ID : **264330138743**
Option 1 ID : **264330543580**
Option 2 ID : **264330543582**
Option 3 ID : **264330543581**
Option 4 ID : **264330543579**
Status : **Answered**
Chosen Option : **3**

Join Telegram Group "HaryanaJobs.in"

Q.4 तीन संख्याओं का योग 126 है। यदि पहली और तीसरी का अनुपात 3:7 है और दूसरी और तीसरी का अनुपात 4:7 है, तो दूसरी संख्या क्या है?

Ans

✔ 1. 36

✘ 2. 56

✘ 3. 27

✘ 4. 63

Question Type : **MCQ**
Question ID : **264330134089**
Option 1 ID : **264330525381**
Option 2 ID : **264330525382**
Option 3 ID : **264330525379**
Option 4 ID : **264330525380**
Status : **Answered**
Chosen Option : **1**

Q.5 2[1.5 × 1.5 + 0.5 × 0.5] का मान क्या है?

Ans

✘ 1. 4

✔ 2. 5

✘ 3. 4.5

✘ 4. 10

Question Type : **MCQ**
Question ID : **264330137662**
Option 1 ID : **264330539255**
Option 2 ID : **264330539257**
Option 3 ID : **264330539256**
Option 4 ID : **264330539258**
Status : **Answered**
Chosen Option : **4**

Q.6 A अकेले 12 दिनों में कार्य का 1/4 भाग पूरा कर सकता है। B अकेले 4 दिनों में कार्य का 1/5 भाग कर सकता है। A और B मिलकर समान कार्य को कितने दिनों में कर सकते हैं?

Ans

✔ 1. 240/17 दिनों में

✘ 2. 255/7 दिनों में

✘ 3. 330/13 दिनों में

✘ 4. 210/4 दिनों में

Question Type : **MCQ**
Question ID : **264330135384**
Option 1 ID : **264330530444**
Option 2 ID : **264330530443**
Option 3 ID : **264330530445**
Option 4 ID : **264330530446**
Status : **Answered**
Chosen Option : **1**

Join Telegram Group "HaryanaJobs.in"

Q.7 66 cm त्रिज्या वाली एक ठोस गोलाकार गेंद से प्रत्येक 33 cm त्रिज्या वाली कितनी ठोस गोलाकार गेंदें बनाई जा सकती हैं?

Ans

1. ✗ 4
2. ✗ 7
3. ✓ 8
4. ✗ 3

Question Type : **MCQ**
Question ID : **264330135389**
Option 1 ID : **264330530465**
Option 2 ID : **264330530466**
Option 3 ID : **264330530464**
Option 4 ID : **264330530463**
Status : **Answered**
Chosen Option : **3**

Q.8 P, Q और R अकेले किसी कार्य को क्रमशः 30 घंटे, 10 घंटे और 15 घंटे में पूरा कर सकते हैं। यदि वे साथ मिलकर कार्य करें, तो वे कितने समय में इस कार्य को पूरा करेंगे?

Ans

1. ✗ 4 घंटे
2. ✗ 10 घंटे
3. ✓ 5 घंटे
4. ✗ 8 घंटे

Question Type : **MCQ**
Question ID : **264330138739**
Option 1 ID : **264330543564**
Option 2 ID : **264330543565**
Option 3 ID : **264330543563**
Option 4 ID : **264330543566**
Status : **Answered**
Chosen Option : **3**

Q.9 Rs. 21000 की राशि पर 6 माह के लिए 10% वार्षिक दर पर अर्धवार्षिक रूप से संयोजित चक्रवृद्धि ब्याज कितना होगा?

Ans

1. ✗ Rs. 1250
2. ✗ Rs. 1680
3. ✗ Rs. 1850
4. ✓ Rs. 1050

Question Type : **MCQ**
Question ID : **264330138737**
Option 1 ID : **264330543558**
Option 2 ID : **264330543557**
Option 3 ID : **264330543556**
Option 4 ID : **264330543555**
Status : **Answered**
Chosen Option : **4**

Join Telegram Group "HaryanaJobs.in"

Q.10 कबीर और विक्की के वेतन का अनुपात 5:2 है। यदि उनके वेतन में क्रमशः 20% और 12% की वृद्धि की जाती है, तो उनके वेतन का नया अनुपात क्या होगा?

Ans

1. 91:25 ✗
2. 81:28 ✗
3. 75:28 ✓
4. 25:73 ✗

Question Type : **MCQ**
Question ID : **264330134090**
Option 1 ID : **264330525386**
Option 2 ID : **264330525385**
Option 3 ID : **264330525383**
Option 4 ID : **264330525384**
Status : **Answered**
Chosen Option : **3**

Q.11 एक वस्तु के मूल्य में 15% और 40% की दो क्रमागत वृद्धि, किस एकल मूल्य वृद्धि के बराबर है?

Ans

1. 55% ✗
2. 52% ✗
3. 61% ✓
4. 60% ✗

Question Type : **MCQ**
Question ID : **264330138730**
Option 1 ID : **264330543528**
Option 2 ID : **264330543530**
Option 3 ID : **264330543529**
Option 4 ID : **264330543527**
Status : **Answered**
Chosen Option : **3**

Q.12 मीना एक यात्रा 33 घंटों में पूरी करती है। वह यात्रा की एक-चौथाई दूरी 60 km/hr की चाल से और शेष दूरी 40 km/hr की चाल से तय करती है। km में कुल तय की गई दूरी कितनी है?

Ans

1. 1440 km ✓
2. 480 km ✗
3. 1220 km ✗
4. 680 km ✗

Question Type : **MCQ**
Question ID : **264330134093**
Option 1 ID : **264330525398**
Option 2 ID : **264330525395**
Option 3 ID : **264330525397**
Option 4 ID : **264330525396**
Status : **Not Answered**
Chosen Option : **--**

Join Telegram Group "HaryanaJobs.in"

Q.13 P, Q और R की औसत आयु 19 वर्ष है और P और Q की औसत आयु 20 वर्ष है। R की वर्तमान आयु है:

Ans

✔ 1. 17 वर्ष

✘ 2. 20 वर्ष

✘ 3. 22 वर्ष

✘ 4. 15 वर्ष

Question Type : **MCQ**
Question ID : **264330134083**
Option 1 ID : **264330525357**
Option 2 ID : **264330525355**
Option 3 ID : **264330525356**
Option 4 ID : **264330525358**
Status : **Answered**
Chosen Option : **1**

Q.14 साधारण ब्याज पर एक धनराशि 3 वर्ष में Rs. 14,400 और 4 वर्ष में Rs. 15,500 हो जाती है। वह धनराशि ज्ञात कीजिए।

Ans

✘ 1. Rs. 20,000

✘ 2. Rs. 10,000

✘ 3. Rs. 10,080

✔ 4. Rs. 11,100

Question Type : **MCQ**
Question ID : **264330138380**
Option 1 ID : **264330542130**
Option 2 ID : **264330542128**
Option 3 ID : **264330542127**
Option 4 ID : **264330542129**
Status : **Answered**
Chosen Option : **4**

Q.15 रोहित Rs. 1280 में एक पुराना बल्ला खरीदता है और उसकी मरम्मत पर Rs. 120 खर्च करता है। यदि वह इसे Rs. 1050 में बेचता है, तो उसका हानि प्रतिशत क्या है?

Ans

✔ 1. 25 प्रतिशत

✘ 2. 20 प्रतिशत

✘ 3. 40 प्रतिशत

✘ 4. 30 प्रतिशत

Question Type : **MCQ**
Question ID : **264330137159**
Option 1 ID : **264330537281**
Option 2 ID : **264330537282**
Option 3 ID : **264330537279**
Option 4 ID : **264330537280**
Status : **Answered**
Chosen Option : **1**

Join Telegram Group "HaryanaJobs.in"

Q.16 $\{\frac{3}{4}$ of $60 \div 9\} \times 0.02$ का मान है:

Ans
✔ 1. 0.10
✘ 2. 0.05
✘ 3. 0.20
✘ 4. 0.02

Question Type : **MCQ**
Question ID : **264330134081**
Option 1 ID : **264330525349**
Option 2 ID : **264330525348**
Option 3 ID : **264330525350**
Option 4 ID : **264330525347**
Status : **Answered**
Chosen Option : **1**

Q.17 एक रेफ्रिजरेटर और एक वॉशिंग मशीन को Rs. 24000 प्रति मूल्य पर बेचा गया। यदि रेफ्रिजरेटर को 20% के लाभ पर और वॉशिंग मशीन को 20% की हानि पर बेचा गया, तो पूरे लेन-देन में कुल लाभ या हानि प्रतिशत कितना है?

Ans
✘ 1. 5% हानि
✘ 2. 5% लाभ
✘ 3. 4% लाभ
✔ 4. 4% हानि

Question Type : **MCQ**
Question ID : **264330134087**
Option 1 ID : **264330525374**
Option 2 ID : **264330525372**
Option 3 ID : **264330525371**
Option 4 ID : **264330525373**
Status : **Answered**
Chosen Option : **4**

Join Telegram Group "HaryanaJobs.in"

Q.18 नीचे दिए गए दंड आलेख में वर्ष 2015-2016 में देशों द्वारा किए गए विदेशी व्यापार को दर्शाया गया है।

न्यूनतम व्यापार और अधिकतम व्यापार का अनुपात कितना था?

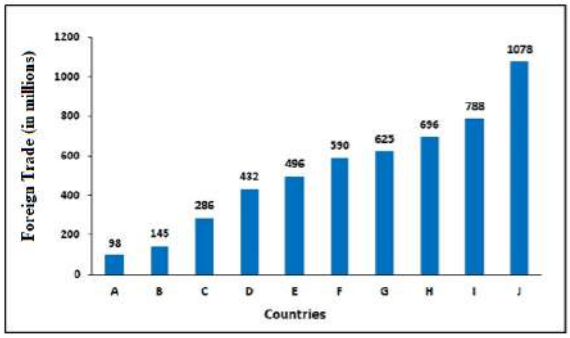

Foreign trade (in millions)- विदेशी व्यापार (मिलियन में), Countries- देश

Ans
1. 8:5
2. 3:14
3. 4:11
4. 1:11

Question Type : **MCQ**
Question ID : **264330134097**
Option 1 ID : **264330525413**
Option 2 ID : **264330525411**
Option 3 ID : **264330525412**
Option 4 ID : **264330525414**
Status : **Answered**
Chosen Option : **4**

Q.19 Rs. 10000 के एक बिल पर मिले 20% के एक बट्टे और 16% और 4% के दो क्रमागत बट्टों के बीच का अंतर है:

Ans
1. Rs. 72
2. Rs. 19.36
3. Rs. 22.32
4. Rs. 64

Question Type : **MCQ**
Question ID : **264330134088**
Option 1 ID : **264330525378**
Option 2 ID : **264330525375**
Option 3 ID : **264330525377**
Option 4 ID : **264330525376**
Status : **Answered**
Chosen Option : **2**

Join Telegram Group "HaryanaJobs.in"

Q.20 एक ट्रक पहले घंटे में 40 km और दूसरे घंटे में 50 km की यात्रा करता है। ट्रक की औसत चाल क्या है?

Ans
1. 48 km/hr
2. 45 km/hr
3. 50 km/hr
4. 40 km/hr

Question Type : **MCQ**
Question ID : **264330138439**
Option 1 ID : **264330542365**
Option 2 ID : **264330542366**
Option 3 ID : **264330542364**
Option 4 ID : **264330542363**
Status : **Answered**
Chosen Option : **2**

Section : **Reasoning Ability and Problem Solving**

Q.1 दिए गए समीकरण को सही करने के लिए किन दो संख्याओं को आपस में बदला जाना चाहिए?
12 ÷ 72 × 3 − 13 = 5

Ans
1. 13 और 5
2. 12 और 3
3. 12 और 72
4. 13 और 3

Question Type : **MCQ**
Question ID : **264330133711**
Option 1 ID : **264330523867**
Option 2 ID : **264330523868**
Option 3 ID : **264330523869**
Option 4 ID : **264330523870**
Status : **Answered**
Chosen Option : **3**

Join Telegram Group "HaryanaJobs.in"

Q.2 उस विकल्प आकृति को चुनिए जो नीचे दी गई आकृति में पैटर्न को पूरा करने के लिए प्रश्न चिन्ह (?) के स्थान पर आएगी। (**घूर्णन की अनुमति नहीं है**)।

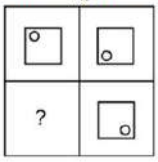

Ans

✗ 1. 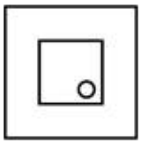

✓ 2. 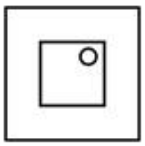

✗ 3.

✗ 4. 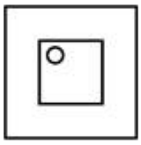

Question Type : **MCQ**
Question ID : **264330133715**
Option 1 ID : **264330523883**
Option 2 ID : **264330523886**
Option 3 ID : **264330523885**
Option 4 ID : **264330523884**
Status : **Answered**
Chosen Option : **2**

Q.3 M, N, O, P, Q, और R एक वृत्ताकार मेज पर एक-दूसरे की ओर मुख करके बैठे हैं। O, R के ठीक बाईं ओर बैठा है और N, O की बाईं ओर, दूसरे स्थान पर बैठा है। M, Q की बाईं ओर, दूसरे स्थान पर बैठा है। R और M के ठीक मध्य में कौन बैठा है?

Ans

✗ 1. Q

✗ 2. O

✓ 3. P

✗ 4. N

Question Type : **MCQ**
Question ID : **264330133703**
Option 1 ID : **264330523837**
Option 2 ID : **264330523836**
Option 3 ID : **264330523835**
Option 4 ID : **264330523838**
Status : **Answered**
Chosen Option : **3**

Join Telegram Group "HaryanaJobs.in"

Q.4 पाँच पुरुष अंकित, बिशाल, चैंडलर , दक्ष और जॉय एक मेज पर उत्तर की ओर मुख करके बैठे हैं। अंकित, दक्ष के ठीक बाईं ओर बैठा है, जो कोने पर नहीं बैठा है। जॉय, बिशाल और चैंडलर के ठीक मध्य में बैठा है। सबसे बाएँ छोर पर कौन बैठा है?

Ans

✗ 1. जॉय

✗ 2. चैंडलर

✗ 3. बिशाल

✓ 4. अंकित

Question Type : **MCQ**
Question ID : **264330133702**
Option 1 ID : **264330523833**
Option 2 ID : **264330523834**
Option 3 ID : **264330523832**
Option 4 ID : **264330523831**
Status : **Answered**
Chosen Option : **4**

Q.5 निम्नलिखित प्रश्न में, दी गई श्रृंखला में लुप्त संख्या को चुनिए ।

200, 174, 148, 122, 96,?

Ans

✗ 1. 80

✓ 2. 70

✗ 3. 74

✗ 4. 71

Question Type : **MCQ**
Question ID : **264330138594**
Option 1 ID : **264330542985**
Option 2 ID : **264330542984**
Option 3 ID : **264330542983**
Option 4 ID : **264330542986**
Status : **Answered**
Chosen Option : **2**

Q.6 उस विकल्प को चुनिए जो तीसरे शब्द से ठीक उसी तरह संबंधित है जिस तरह दूसरा शब्द पहले शब्द से संबंधित है।
हैदराबाद : तेलंगाना :: गंगटोक : ?

Ans

✗ 1. केरल

✓ 2. सिक्किम

✗ 3. उत्तराखंड

✗ 4. गोवा

Question Type : **MCQ**
Question ID : **264330133697**
Option 1 ID : **264330523811**
Option 2 ID : **264330523813**
Option 3 ID : **264330523814**
Option 4 ID : **264330523812**
Status : **Answered**
Chosen Option : **2**

Join Telegram Group "HaryanaJobs.in"

Q.7 सुबह की सभा के दौरान सात छात्र M, N, O, P, Q, R और S अपने कद के आरोही क्रम में खड़े हैं। सबसे छोटे कद वाला छात्र सभा की लाइन में सबसे आगे खड़ा है और सबसे ऊँचे कद वाला छात्र लाइन में सबसे पीछे खड़ा है। M, Q के ठीक पीछे और P के ठीक सामने खड़ा है। R और S के बीच केवल दो छात्र खड़े हैं। N केवल एक छात्र से लंबा है। R सबसे छोटा नहीं है। सबसे लंबा छात्र कौन है?

Ans
1. ✗ R
2. ✗ O
3. ✗ M
4. ✓ P

Question Type : **MCQ**
Question ID : **264330133704**
Option 1 ID : **264330523840**
Option 2 ID : **264330523842**
Option 3 ID : **264330523841**
Option 4 ID : **264330523839**
Status : **Answered**
Chosen Option : **1**

Q.8 दी गई श्रृंखला में निम्नलिखित में से कौन-सी संख्या प्रश्न चिन्ह (?) के स्थान पर आएगी?
46, 50, 58, 70, 86, 106, ?

Ans
1. ✗ 140
2. ✗ 280
3. ✗ 150
4. ✓ 130

Question Type : **MCQ**
Question ID : **264330133708**
Option 1 ID : **264330523855**
Option 2 ID : **264330523856**
Option 3 ID : **264330523857**
Option 4 ID : **264330523858**
Status : **Answered**
Chosen Option : **4**

Q.9 उस विकल्प को चुनिए जो तीसरे शब्द से ठीक उसी तरह संबंधित है जिस तरह दूसरा शब्द पहले शब्द से संबंधित है।
हाइड्रोजन : तत्व :: कार्बन डाइऑक्साइड : ?

Ans
1. ✗ द्रव (Liquid)
2. ✗ फल (Fruit)
3. ✓ यौगिक (Compound)
4. ✗ अंग (Organ)

Question Type : **MCQ**
Question ID : **264330133698**
Option 1 ID : **264330523818**
Option 2 ID : **264330523817**
Option 3 ID : **264330523815**
Option 4 ID : **264330523816**
Status : **Answered**
Chosen Option : **3**

Join Telegram Group "HaryanaJobs.in"

Q.10 एक निश्चित कूट भाषा में, 'UKSH' को '8TL21' लिखा जाता है। उस कूट भाषा में 'GAIN' को कैसे लिखा जाएगा?

Ans

✗ 1. 15JB7

✗ 2. 14J7B

✗ 3. 14JB8

✓ 4. 14JB7

Question Type : **MCQ**
Question ID : **264330137792**
Option 1 ID : **264330539778**
Option 2 ID : **264330539776**
Option 3 ID : **264330539777**
Option 4 ID : **264330539775**
Status : **Answered**
Chosen Option : **4**

Q.11 Two Statements are given followed by two conclusions numbered I and II. Assuming the statements to be true, even if they seem to be at variance with commonly known facts, decide which of the conclusions logically follow (s) from the statements.
Statements:
Some pens are black.
No black is blue.
Conclusions:
I. No pen is blue.
II. Some pens are not black.

Ans

✗ 1. Only conclusion II follows

✗ 2. Both conclusions I and II follow

✗ 3. Only conclusion I follows

✓ 4. Neither conclusion I nor II follows

Question Type : **MCQ**
Question ID : **264330133705**
Option 1 ID : **264330523844**
Option 2 ID : **264330523845**
Option 3 ID : **264330523843**
Option 4 ID : **264330523846**
Status : **Answered**
Chosen Option : **4**

Q.12 दिए गए दो चिन्हों को आपस में बदलने पर, समीकरण (I) और (II) के क्रमशः मान क्या होंगे?
+ और -
I. 18 ÷ 3 + 6 × 2 - 8
II. 15 × 3 - 45 ÷ 5 + 30

Ans

✗ 1. 3 और 25

✓ 2. 2 और 24

✗ 3. 24 और 2

✗ 4. 2 और 66

Question Type : **MCQ**
Question ID : **264330138494**
Option 1 ID : **264330542586**
Option 2 ID : **264330542584**
Option 3 ID : **264330542585**
Option 4 ID : **264330542583**
Status : **Answered**
Chosen Option : **2**

Join Telegram Group "HaryanaJobs.in"

Q.13 दी गई आकृति के उस सही दर्पण प्रतिबिंब को चुनिए, जो दर्पण MN को आकृति के दाईं ओर रखने पर बनेगा।

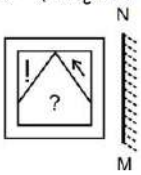

Ans

✗ 1.

✗ 2. 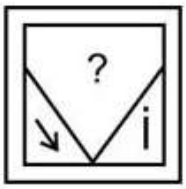

✓ 3.

✗ 4. 

Question Type : **MCQ**
Question ID : **264330137579**
Option 1 ID : **264330538925**
Option 2 ID : **264330538923**
Option 3 ID : **264330538924**
Option 4 ID : **264330538926**
Status : **Answered**
Chosen Option : **3**

Q.14 एक निश्चित कूट भाषा में, 'COSTLY' को '3P19U12Z' लिखा जाता है। उस कूट भाषा में 'EXTEND' को कैसे लिखा जाएगा?

Ans

✗ 1. 5X20F14E

✗ 2. 5Y20G14E

✗ 3. 5Y30F14E

✓ 4. 5Y20F14E

Question Type : **MCQ**
Question ID : **264330138813**
Option 1 ID : **264330543862**
Option 2 ID : **264330543860**
Option 3 ID : **264330543859**
Option 4 ID : **264330543861**
Status : **Answered**
Chosen Option : **4**

Join Telegram Group "HaryanaJobs.in"

Q.15 उस विकल्प को चुनिए जो पाँचवीं संख्या से ठीक उसी प्रकार संबंधित है जिस प्रकार दूसरी संख्या पहली संख्या से संबंधित है और चौथी संख्या तीसरी संख्या से संबंधित है।

18 : 190 :: 20 : 210 :: 22 :?

Ans
✔ 1. 230
✘ 2. 190
✘ 3. 200
✘ 4. 210

Question Type : **MCQ**
Question ID : **264330138596**
Option 1 ID : **264330542993**
Option 2 ID : **264330542994**
Option 3 ID : **264330542991**
Option 4 ID : **264330542992**
Status : **Answered**
Chosen Option : **1**

Q.16 दी गई श्रृंखला में निम्नलिखित में से कौन-सा अक्षर प्रश्न चिन्ह (?) के स्थान पर आएगा?

E, J, O, T, Y, D, ?

Ans
✔ 1. I
✘ 2. M
✘ 3. O
✘ 4. R

Question Type : **MCQ**
Question ID : **264330133696**
Option 1 ID : **264330523808**
Option 2 ID : **264330523807**
Option 3 ID : **264330523809**
Option 4 ID : **264330523810**
Status : **Answered**
Chosen Option : **1**

Q.17 दिए गए पैटर्न का ध्यानपूर्वक अध्ययन कीजिए और उस संख्या को चुनिए जो इस पैटर्न में प्रश्न चिन्ह (?) के स्थान पर आ सकती है?

प्रथम पंक्ति- 11, 19, 27
द्वितीय पंक्ति- 17, 25, 33
तृतीय पंक्ति- 23, 31, ?

Ans
✘ 1. 33
✔ 2. 39
✘ 3. 14
✘ 4. 40

Question Type : **MCQ**
Question ID : **264330133710**
Option 1 ID : **264330523866**
Option 2 ID : **264330523864**
Option 3 ID : **264330523865**
Option 4 ID : **264330523863**
Status : **Answered**
Chosen Option : **2**

Join Telegram Group "HaryanaJobs.in"

Q.18 किसी एक खास कूट भाषा में, 'RIVER' को 'SJWFS' लिखा जाता है और 'BROWN' को 'CSPXO' लिखा जाता है। उस कूट भाषा में 'PRESS' को कैसे लिखा जाएगा?

Ans

✗ 1. QSGTT

✗ 2. QSFUU

✗ 3. GSFRR

✓ 4. QSFTT

Question Type : **MCQ**
Question ID : **264330133470**
Option 1 ID : **264330522912**
Option 2 ID : **264330522913**
Option 3 ID : **264330522914**
Option 4 ID : **264330522911**
Status : **Answered**
Chosen Option : **4**

Q.19 Three Statements are given followed by two conclusions numbered I and II. Assuming the statements to be true, even if they seem to be at variance with commonly known facts, decide which of the conclusions logically follow (s) from the statements.
Statements:
Some nachos are patties.
Some patties are pastries.
No pastry is a chocolate.
Conclusions:
I. No nacho is a chocolate.
II. Some nachos are pastries.

Ans

✗ 1. Both conclusions I and II follow

✗ 2. Only conclusion I follows

✓ 3. Neither conclusion I nor II follows

✗ 4. Only conclusion II follows

Question Type : **MCQ**
Question ID : **264330133706**
Option 1 ID : **264330523849**
Option 2 ID : **264330523847**
Option 3 ID : **264330523850**
Option 4 ID : **264330523848**
Status : **Answered**
Chosen Option : **3**

Join Telegram Group "HaryanaJobs.in"

Q.20 उस विकल्प आकृति को चुनिए जिसमें दी गई आकृति (X) उसके भाग के रूप में निहित है (घूर्णन की अनुमति नहीं है)।

(X)

Ans

✗ 1. 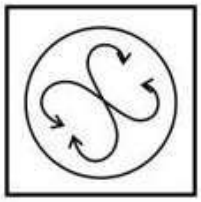

✗ 2. 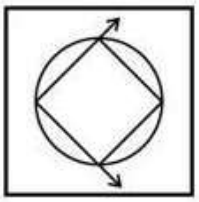

✓ 3. 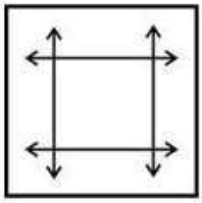

✗ 4. 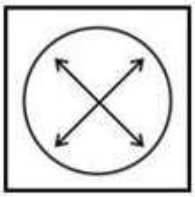

Question Type : **MCQ**
Question ID : **264330137578**
Option 1 ID : **264330538920**
Option 2 ID : **264330538921**
Option 3 ID : **264330538922**
Option 4 ID : **264330538919**
Status : **Answered**
Chosen Option : **3**

Section : **General Awareness**

Join Telegram Group "HaryanaJobs.in"

Q.1 पादप कोशिका में एक बड़ी केन्द्रीय _____ होती है जबकि जंतु कोशिका में अनेक छोटी-छोटी _____ होती हैं।

Ans
1. कोशिका भित्ति, कोशिका भित्तियाँ
2. ऊतक, ऊतक
3. कोशिका झिल्ली, कोशिका झिल्लियाँ
4. रिक्तिका, रिक्तिकाएँ

Question Type : **MCQ**
Question ID : **264330138663**
Option 1 ID : **264330543261**
Option 2 ID : **264330543259**
Option 3 ID : **264330543262**
Option 4 ID : **264330543260**
Status : **Answered**
Chosen Option : **3**

Q.2 According to Census 2011, which among the following has the minimum population density?

Ans
1. Andhra Pradesh
2. Arunachal Pradesh
3. Chandigarh
4. Sikkim

Question Type : **MCQ**
Question ID : **264330134655**
Option 1 ID : **264330527577**
Option 2 ID : **264330527575**
Option 3 ID : **264330527576**
Option 4 ID : **264330527578**
Status : **Answered**
Chosen Option : **2**

Q.3 The basic unit of speed of an object is _____.

Ans
1. metre per km (m/km)
2. metre per minute (m/m)
3. metre per hour (m/h)
4. metre per second (m/s)

Question Type : **MCQ**
Question ID : **264330138665**
Option 1 ID : **264330543270**
Option 2 ID : **264330543268**
Option 3 ID : **264330543269**
Option 4 ID : **264330543267**
Status : **Answered**
Chosen Option : **4**

Join Telegram Group "HaryanaJobs.in"

Q.4 1540 में कन्नौज के युद्ध में निम्नलिखित में से किसकी हार हुई थी?

Ans
1. हेमू
2. हुमायूँ
3. अकबर
4. शेरशाह

Question Type : **MCQ**
Question ID : **264330137749**
Option 1 ID : **264330539603**
Option 2 ID : **264330539604**
Option 3 ID : **264330539605**
Option 4 ID : **264330539606**
Status : **Answered**
Chosen Option : **2**

Q.5 एनी बेसेंट ने 1898 में _____ में सेंट्रल हिंदू कॉलेज की नींव रखी जहाँ हिंदू धर्म (Hindu religion) और पश्चिमी वैज्ञानिक विषय (Western scientific subjects) दोनों पढ़ाए जाते थे।

Ans
1. चेन्नई
2. पुणे
3. बनारस
4. कोलकाता

Question Type : **MCQ**
Question ID : **264330137752**
Option 1 ID : **264330539617**
Option 2 ID : **264330539618**
Option 3 ID : **264330539616**
Option 4 ID : **264330539615**
Status : **Answered**
Chosen Option : **4**

Q.6 निम्न में से कौन-सा विटामिन जल में विलेय है?

Ans
1. विटामिन डी (Vitamin-D)
2. विटामिन सी (Vitamin-C)
3. विटामिन ए (Vitamin-A)
4. विटामिन ई (Vitamin-E)

Question Type : **MCQ**
Question ID : **264330134062**
Option 1 ID : **264330525273**
Option 2 ID : **264330525271**
Option 3 ID : **264330525272**
Option 4 ID : **264330525274**
Status : **Answered**
Chosen Option : **2**

Join Telegram Group "HaryanaJobs.in"

Q.7 A temporary alliance of groups or parties is called a _____.

Ans
✗ 1. Federalism
✗ 2. Constituency
✗ 3. Veto
✓ 4. Coalition

Question Type : **MCQ**
Question ID : **264330138257**
Option 1 ID : **264330541636**
Option 2 ID : **264330541637**
Option 3 ID : **264330541638**
Option 4 ID : **264330541635**
Status : **Answered**
Chosen Option : **4**

Q.8 शतरंज की बिसात पर कितने सफ़ेद वर्ग होते हैं?

Ans
✓ 1. 32
✗ 2. 22
✗ 3. 64
✗ 4. 204

Question Type : **MCQ**
Question ID : **264330134078**
Option 1 ID : **264330525335**
Option 2 ID : **264330525337**
Option 3 ID : **264330525336**
Option 4 ID : **264330525338**
Status : **Answered**
Chosen Option : **2**

Q.9 एलीफेंटा की गुफाएँ किस राज्य में स्थित हैं?

Ans
✓ 1. महाराष्ट्र
✗ 2. राजस्थान
✗ 3. गुजरात
✗ 4. कर्नाटक

Question Type : **MCQ**
Question ID : **264330138248**
Option 1 ID : **264330541601**
Option 2 ID : **264330541599**
Option 3 ID : **264330541600**
Option 4 ID : **264330541602**
Status : **Answered**
Chosen Option : **1**

Join Telegram Group "HaryanaJobs.in"

Q.10 सुल्तान मुहम्मद गोरी ने सन् _____ में पृथ्वीराज तृतीय को हराया था।

Ans
1. 1191
2. 1195
3. 1211
4. 1192

Question Type : **MCQ**
Question ID : **264330138671**
Option 1 ID : **264330543291**
Option 2 ID : **264330543293**
Option 3 ID : **264330543294**
Option 4 ID : **264330543292**
Status : **Answered**
Chosen Option : **4**

Q.11 संयुक्त राष्ट्र की एक रिपोर्ट के अनुसार, भारत 2023 तक _____ को पीछे छोड़कर दुनिया का सर्वाधिक आबादी वाला देश बन जाएगा।

Ans
1. पाकिस्तान
2. चीन
3. संयुक्त राज्य अमेरिका
4. इंडोनेशिया

Question Type : **MCQ**
Question ID : **264330137772**
Option 1 ID : **264330539697**
Option 2 ID : **264330539696**
Option 3 ID : **264330539695**
Option 4 ID : **264330539698**
Status : **Answered**
Chosen Option : **2**

Q.12 कुचिपुड़ी किस राज्य का शास्त्रीय नृत्य है?

Ans
1. केरल
2. बिहार
3. आंध्रप्रदेश
4. तमिलनाडु

Question Type : **MCQ**
Question ID : **264330134058**
Option 1 ID : **264330525255**
Option 2 ID : **264330525256**
Option 3 ID : **264330525258**
Option 4 ID : **264330525257**
Status : **Answered**
Chosen Option : **3**

Join Telegram Group "HaryanaJobs.in"

Q.13 Among the following, which of these are an example of capital receipt?

Ans
1. Commission and dividend received ✗
2. Rent and commission received ✗
3. Borrowings and loan recovery ✓
4. Sale of goods and rent ✗

Question Type : **MCQ**
Question ID : **264330137918**
Option 1 ID : **264330540282**
Option 2 ID : **264330540281**
Option 3 ID : **264330540279**
Option 4 ID : **264330540280**
Status : **Not Answered**
Chosen Option : **--**

Q.14 'खिचड़ी (Kicheri)', एक फसल कटाई उत्सव है जिसमें अनुष्ठानिक स्नान किया जाता है, यह मुख्य रूप से _____ में मनाया जाता है।

Ans
1. मध्यप्रदेश ✗
2. उत्तरप्रदेश ✓
3. गुजरात ✗
4. हरियाणा ✗

Question Type : **MCQ**
Question ID : **264330137739**
Option 1 ID : **264330539563**
Option 2 ID : **264330539564**
Option 3 ID : **264330539566**
Option 4 ID : **264330539565**
Status : **Answered**
Chosen Option : **2**

Q.15 The Himalayan Mountain range was formed by the collision of _____ .

Ans
1. Indian Plate and Eurasian Plate ✓
2. African Plate and Australian Plate ✗
3. Eurasian Plate and African Plate ✗
4. Indian Plate and African Plate ✗

Question Type : **MCQ**
Question ID : **264330134066**
Option 1 ID : **264330525288**
Option 2 ID : **264330525287**
Option 3 ID : **264330525290**
Option 4 ID : **264330525289**
Status : **Answered**
Chosen Option : **1**

Join Telegram Group "HaryanaJobs.in"

Q.16 "प्लेइंग इट माई वे" _____ की आत्मकथा है।

Ans
1. राहुल द्रविड़
2. युवराज सिंह
3. सचिन तेंदुलकर
4. एम एस धोनी

Question Type : **MCQ**
Question ID : **264330137911**
Option 1 ID : **264330540252**
Option 2 ID : **264330540253**
Option 3 ID : **264330540254**
Option 4 ID : **264330540251**
Status : **Answered**
Chosen Option : **3**

Q.17 राज्य सभा में राष्ट्रपति द्वारा मनोनीत किए जाने वाले _____ सदस्य होते हैं।

Ans
1. दस
2. छः
3. बारह
4. पाँच

Question Type : **MCQ**
Question ID : **264330134077**
Option 1 ID : **264330525332**
Option 2 ID : **264330525334**
Option 3 ID : **264330525333**
Option 4 ID : **264330525331**
Status : **Answered**
Chosen Option : **2**

Q.18 सचिन तेंदुलकर को "भारत रत्न पुरस्कार" किस वर्ष मिला था?

Ans
1. 2012
2. 2011
3. 2013
4. 2014

Question Type : **MCQ**
Question ID : **264330138653**
Option 1 ID : **264330543220**
Option 2 ID : **264330543219**
Option 3 ID : **264330543221**
Option 4 ID : **264330543222**
Status : **Answered**
Chosen Option : **4**

Join Telegram Group "HaryanaJobs.in"

Q.19 किस कथक नर्तकी को पद्म श्री और संगीत नाटक अकादमी पुरस्कार से सम्मानित किया गया था?

Ans
1. हेमा मालिनी
2. कौशल्या रेड्डी
3. श्रीदेवी
4. सितारा देवी

Question Type : **MCQ**
Question ID : **264330137913**
Option 1 ID : **264330540260**
Option 2 ID : **264330540262**
Option 3 ID : **264330540261**
Option 4 ID : **264330540259**
Status : **Answered**
Chosen Option : **4**

Q.20 भारतीय संविधान के अनुच्छेद 356 और 360 _____ पर आधारित अनुच्छेद हैं।

Ans
1. क्षेत्रीय भाषाओं
2. निर्वाचनों
3. आपातकालीन प्रावधानों
4. संविधान संशोधन

Question Type : **MCQ**
Question ID : **264330134076**
Option 1 ID : **264330525330**
Option 2 ID : **264330525328**
Option 3 ID : **264330525327**
Option 4 ID : **264330525329**
Status : **Answered**
Chosen Option : **3**

Q.21 निम्नलिखित में से किस भारतीय गायक ने ग्रैमी (Grammy) पुरस्कार जीता है?

Ans
1. मोहम्मद रफ़ी(Mohammed Rafi)
2. कुमार सानू(Kumar Sanu)
3. अरिजीत सिंह(Arijit Singh)
4. ए. आर. रहमान (A R Rahman)

Question Type : **MCQ**
Question ID : **264330134074**
Option 1 ID : **264330525322**
Option 2 ID : **264330525321**
Option 3 ID : **264330525320**
Option 4 ID : **264330525319**
Status : **Answered**
Chosen Option : **4**

Join Telegram Group "HaryanaJobs.in"

Q.22 The breaking up of the rocks on the earth's surface is called as _____.

Ans
✔ 1. weathering
✘ 2. stacking
✘ 3. meandering
✘ 4. sorting

Question Type : **MCQ**
Question ID : **264330138664**
Option 1 ID : **264330543264**
Option 2 ID : **264330543266**
Option 3 ID : **264330543263**
Option 4 ID : **264330543265**
Status : **Answered**
Chosen Option : **2**

Q.23 In 1600, the East India company acquired a charter from _____.

Ans
✔ 1. Queen Elizabeth I
✘ 2. Queen Victoria
✘ 3. King Henry IV
✘ 4. King Edward VI

Question Type : **MCQ**
Question ID : **264330138269**
Option 1 ID : **264330541683**
Option 2 ID : **264330541685**
Option 3 ID : **264330541686**
Option 4 ID : **264330541684**
Status : **Answered**
Chosen Option : **1**

Q.24 मनरेगा (MGNREGA) योजना के संदर्भ में, ग्रामीण अकुशल श्रमिकों को कितने दिनों का गारंटीयुक्त मजदूरी रोजगार उपलब्ध कराया जाता है?

Ans
✘ 1. 150
✔ 2. 100
✘ 3. 120
✘ 4. 90

Question Type : **MCQ**
Question ID : **264330134056**
Option 1 ID : **264330525250**
Option 2 ID : **264330525248**
Option 3 ID : **264330525249**
Option 4 ID : **264330525247**
Status : **Not Answered**
Chosen Option : **--**

Join Telegram Group "HaryanaJobs.in"

Q.25 निम्नलिखित में से सिंचाई की किस विधि में जल बूँद-बूँद करके सीधे पौधों की जड़ों में गिरता है?

Ans
✗ 1. हस्त-सिंचाई (Manual irrigation)
✗ 2. छिड़काव तंत्र(Sprinkler system)
✓ 3. ड्रिप तंत्र (Drip system)
✗ 4. लेटरल मूव इरीगेशन (Lateral move irrigation)

Question Type : **MCQ**
Question ID : **264330137903**
Option 1 ID : **264330540220**
Option 2 ID : **264330540221**
Option 3 ID : **264330540222**
Option 4 ID : **264330540219**
Status : **Answered**
Chosen Option : **3**

Section : **English Language and Comprehension**

Q.1 **In the following question, out of the given four alternatives, select the alternative which best expresses the meaning of the Idiom/Phrase.**
To go a long way

Ans
✗ 1. To avoid short cuts
✓ 2. To become successful in life
✗ 3. To join a foreign company
✗ 4. To go on a long drive

Question Type : **MCQ**
Question ID : **264330134549**
Option 1 ID : **264330527154**
Option 2 ID : **264330527151**
Option 3 ID : **264330527152**
Option 4 ID : **264330527153**
Status : **Answered**
Chosen Option : **2**

Q.2 Improve the underlined part of the sentence. Choose 'No improvement' as an answer if the sentence is grammatically correct.

There has been a spate of some unfortunately events in Madurai.

Ans
✗ 1. unfortunate some events
✓ 2. unfortunate events
✗ 3. unfortunately event
✗ 4. No improvement

Question Type : **MCQ**
Question ID : **264330134724**
Option 1 ID : **264330527853**
Option 2 ID : **264330527851**
Option 3 ID : **264330527852**
Option 4 ID : **264330527854**
Status : **Answered**
Chosen Option : **2**

Join Telegram Group "HaryanaJobs.in"

Q.3 Select the most appropriate synonym to substitute the bracketed word in the given sentence.

They have also tested fully (autonomous) landings and semi-autonomous take-offs for the gas-powered rotorcraft.

Ans

✔ 1. Independent

✘ 2. Unanimous

✘ 3. Obstruct

✘ 4. Occlude

Question Type : **MCQ**
Question ID : **264330136230**
Option 1 ID : **264330533710**
Option 2 ID : **264330533708**
Option 3 ID : **264330533707**
Option 4 ID : **264330533709**
Status : **Answered**
Chosen Option : **1**

Q.4 In the following question, out of the given four alternatives, select the alternative which best expresses the meaning of the Idiom/Phrase.
Get the ball rolling

Ans

✔ 1. Set an activity in motion

✘ 2. Behave in a crazy manner

✘ 3. Get everyone's vote

✘ 4. Collect one's belongings

Question Type : **MCQ**
Question ID : **264330136789**
Option 1 ID : **264330535855**
Option 2 ID : **264330535857**
Option 3 ID : **264330535856**
Option 4 ID : **264330535858**
Status : **Answered**
Chosen Option : **1**

Q.5 Select the most appropriate antonym of the given word.

Administer

Ans

✘ 1. Entertaining

✔ 2. Forego

✘ 3. Pictural

✘ 4. Steady

Question Type : **MCQ**
Question ID : **264330136631**
Option 1 ID : **264330535248**
Option 2 ID : **264330535249**
Option 3 ID : **264330535250**
Option 4 ID : **264330535247**
Status : **Not Answered**
Chosen Option : **--**

Join Telegram Group "HaryanaJobs.in"

Q.6 Identify the segment that contains a grammatical error. If there is no error, select 'No error'

Do not be put of by the/ mathematical equation, because/ this is really not very complicated.

Ans

✗ 1. mathematical equation, because

✗ 2. No error

✓ 3. Do not be put of by the

✗ 4. this is really not very complicated.

Question Type : **MCQ**
Question ID : **264330136213**
Option 1 ID : **264330533644**
Option 2 ID : **264330533646**
Option 3 ID : **264330533643**
Option 4 ID : **264330533645**
Status : **Answered**
Chosen Option : **3**

Q.7 **Choose the word that can substitute the given group of words.**
A man who is womanish in his habits

Ans

✗ 1. Henpecked

✗ 2. Fastidious

✗ 3. Stoic

✓ 4. Effeminate

Question Type : **MCQ**
Question ID : **264330134543**
Option 1 ID : **264330527128**
Option 2 ID : **264330527127**
Option 3 ID : **264330527130**
Option 4 ID : **264330527129**
Status : **Answered**
Chosen Option : **4**

Q.8 **Select the appropriate synonym for the underlined word.**
They have no reason to <u>trust</u> you.

Ans

✓ 1. believe

✗ 2. doubt

✗ 3. dispute

✗ 4. condemn

Question Type : **MCQ**
Question ID : **264330134544**
Option 1 ID : **264330527132**
Option 2 ID : **264330527134**
Option 3 ID : **264330527133**
Option 4 ID : **264330527131**
Status : **Answered**
Chosen Option : **1**

Join Telegram Group "HaryanaJobs.in"

Q.9 Find the part of the given sentence that has an error in it. If there is no error, choose 'No error'.

All of the farmers I interviewed shared three things on common.

Ans

1. All of the farmers I ✗
2. things on common. ✓
3. No error ✗
4. interviewed shared three ✗

Question Type : **MCQ**
Question ID : **264330135179**
Option 1 ID : **264330529647**
Option 2 ID : **264330529649**
Option 3 ID : **264330529650**
Option 4 ID : **264330529648**
Status : **Answered**
Chosen Option : **2**

Q.10 Select the most appropriate option to fill in the blank.

Without vision, the process of conceptualisation can become _____ task for any individual.

Ans

1. a gregarious ✗
2. an onerous ✓
3. a contrarious ✗
4. a lively ✗

Question Type : **MCQ**
Question ID : **264330136107**
Option 1 ID : **264330533235**
Option 2 ID : **264330533238**
Option 3 ID : **264330533237**
Option 4 ID : **264330533236**
Status : **Not Answered**
Chosen Option : **--**

Q.11 **Select the most appropriate option to fill in the blank.**
Although she has used the typewriter since she was eleven years old, she is rather _____ than rapid.

Ans

1. heedless ✗
2. hasty ✗
3. energetic ✗
4. careful ✓

Question Type : **MCQ**
Question ID : **264330134553**
Option 1 ID : **264330527169**
Option 2 ID : **264330527168**
Option 3 ID : **264330527167**
Option 4 ID : **264330527170**
Status : **Answered**
Chosen Option : **4**

Join Telegram Group "HaryanaJobs.in"

Q.12 **Improve the underlined part of the sentence. Choose 'No improvement' as an answer if the sentence is grammatically correct.**
Your parcel should <u>arrived at three</u> days.

Ans
✗ 1. arrive in third
✗ 2. arrive in the third
✓ 3. arrive in three
✗ 4. No improvement

Question Type : **MCQ**
Question ID : **264330134402**
Option 1 ID : **264330526587**
Option 2 ID : **264330526588**
Option 3 ID : **264330526589**
Option 4 ID : **264330526590**
Status : **Answered**
Chosen Option : **3**

Q.13 Fill in the blank with the most appropriate option.
Earlier I'd thought that it was for my sake, but then I learnt _____ Arjun the power to resist her.

Ans
✗ 1. what has gave
✗ 2. what gives
✓ 3. what gave
✗ 4. what give

Question Type : **MCQ**
Question ID : **264330136246**
Option 1 ID : **264330533774**
Option 2 ID : **264330533772**
Option 3 ID : **264330533773**
Option 4 ID : **264330533771**
Status : **Answered**
Chosen Option : **3**

Q.14 Select the most appropriate option to substitute the bracketed segment in the given sentence. If there is no need to substitute it, select 'no substitution required'.

(I wouldn't date him if I was you), he doesn't seem like a good person.

Ans
✗ 1. No substitution required
✗ 2. I will not date him if I were you, not
✗ 3. I wouldn't has dated him if I were you,
✓ 4. I wouldn't have dated him if I were you,

Question Type : **MCQ**
Question ID : **264330136216**
Option 1 ID : **264330533658**
Option 2 ID : **264330533657**
Option 3 ID : **264330533656**
Option 4 ID : **264330533655**
Status : **Answered**
Chosen Option : **4**

Join Telegram Group "HaryanaJobs.in"

Q.15 **A sentence has been given with a blank to be filled with an appropriate option. Choose the correct alternative.**
The victim was _____ in the back of his head.

Ans
✔ 1. shot
✘ 2. shooted
✘ 3. shoot
✘ 4. shooting

Question Type : **MCQ**
Question ID : **264330134534**
Option 1 ID : **264330527098**
Option 2 ID : **264330527095**
Option 3 ID : **264330527097**
Option 4 ID : **264330527096**
Status : **Answered**
Chosen Option : **1**

Q.16 **Choose the incorrectly spelt word.**

Ans
✔ 1. Friying
✘ 2. Addition
✘ 3. Hazard
✘ 4. Common

Question Type : **MCQ**
Question ID : **264330134550**
Option 1 ID : **264330527158**
Option 2 ID : **264330527156**
Option 3 ID : **264330527157**
Option 4 ID : **264330527155**
Status : **Answered**
Chosen Option : **1**

Q.17 **Select the appropriate antonym for the underlined word.**
Sam was looking gloomy and downcast, and Meg in tears.

Ans
✘ 1. sullen
✘ 2. plain
✔ 3. buoyant
✘ 4. morose

Question Type : **MCQ**
Question ID : **264330134547**
Option 1 ID : **264330527146**
Option 2 ID : **264330527144**
Option 3 ID : **264330527143**
Option 4 ID : **264330527145**
Status : **Answered**
Chosen Option : **3**

Join Telegram Group "HaryanaJobs.in"

Q.18 Select the wrongly spelt word.

Ans
1. Enclosed ✗
2. Sizeable ✗
3. Disgsting ✓
4. Contradictory ✗

Question Type : **MCQ**
Question ID : **264330136106**
Option 1 ID : **264330533233**
Option 2 ID : **264330533232**
Option 3 ID : **264330533231**
Option 4 ID : **264330533234**
Status : **Answered**
Chosen Option : **3**

Q.19 **Find the part of the given sentence that has an error in it. If there is no error, choose 'No error'.**
You will get a discount on this products, if you buy one more outfit.

Ans
1. you buy one more outfit. ✗
2. No error ✗
3. You will get a discount ✗
4. on this products, if ✓

Question Type : **MCQ**
Question ID : **264330134530**
Option 1 ID : **264330527081**
Option 2 ID : **264330527082**
Option 3 ID : **264330527079**
Option 4 ID : **264330527080**
Status : **Answered**
Chosen Option : **4**

Q.20 Choose the word that can substitute the given group of words.

A circular house made of blocks of hard snow

Ans
1. Igloo ✓
2. Hut ✗
3. Nest ✗
4. Hutch ✗

Question Type : **MCQ**
Question ID : **264330136783**
Option 1 ID : **264330535831**
Option 2 ID : **264330535832**
Option 3 ID : **264330535833**
Option 4 ID : **264330535834**
Status : **Answered**
Chosen Option : **1**

Join Telegram Group "HaryanaJobs.in"

Comprehension:

In the following passage some words have been deleted. Fill in the blanks with the help of the alternatives given. Select the most appropriate option for each number.

It was this (1) _____ that made John so particularly unusual, even for a wizard. This scar was (2) _____ hint of John's very mysterious past, of the reason (3) _____ the Samuel's doorstep eleven years (4) _____. At the age of one, John (5) _____ a curse from the greatest Dark sorcerer of all time.

SubQuestion No : 21

Q.21 Select the most appropriate option to fill in blank number 1.

Ans

✗ 1. defect

✓ 2. scar

✗ 3. blister

✗ 4. scab

Question Type : **MCQ**
Question ID : **264330136622**
Option 1 ID : **264330535211**
Option 2 ID : **264330535213**
Option 3 ID : **264330535212**
Option 4 ID : **264330535214**
Status : **Answered**
Chosen Option : **2**

Comprehension:

In the following passage some words have been deleted. Fill in the blanks with the help of the alternatives given. Select the most appropriate option for each number.

It was this (1) _____ that made John so particularly unusual, even for a wizard. This scar was (2) _____ hint of John's very mysterious past, of the reason (3) _____ the Samuel's doorstep eleven years (4) _____. At the age of one, John (5) _____ a curse from the greatest Dark sorcerer of all time.

SubQuestion No : 22

Q.22 Select the most appropriate option to fill in blank number 2.

Ans

✓ 1. the only

✗ 2. the alone

✗ 3. that only

✗ 4. that individual

Question Type : **MCQ**
Question ID : **264330136623**
Option 1 ID : **264330535215**
Option 2 ID : **264330535218**
Option 3 ID : **264330535216**
Option 4 ID : **264330535217**
Status : **Answered**
Chosen Option : **1**

Join Telegram Group "HaryanaJobs.in"

Comprehension:

In the following passage some words have been deleted. Fill in the blanks with the help of the alternatives given. Select the most appropriate option for each number.

It was this (1) _____ that made John so particularly unusual, even for a wizard. This scar was (2) _____ hint of John's very mysterious past, of the reason (3) _____ the Samuel's doorstep eleven years (4) _____. At the age of one, John (5) _____ a curse from the greatest Dark sorcerer of all time.

SubQuestion No : 23

Q.23 Select the most appropriate option to fill in blank number 3.

Ans

✗ 1. he had been left up

✗ 2. he have been left on

✗ 3. he was been left in

✓ 4. he had been left on

Question Type : **MCQ**
Question ID : **264330136624**
Option 1 ID : **264330535219**
Option 2 ID : **264330535220**
Option 3 ID : **264330535222**
Option 4 ID : **264330535221**
Status : **Answered**
Chosen Option : **4**

Comprehension:

In the following passage some words have been deleted. Fill in the blanks with the help of the alternatives given. Select the most appropriate option for each number.

It was this (1) _____ that made John so particularly unusual, even for a wizard. This scar was (2) _____ hint of John's very mysterious past, of the reason (3) _____ the Samuel's doorstep eleven years (4) _____. At the age of one, John (5) _____ a curse from the greatest Dark sorcerer of all time.

SubQuestion No : 24

Q.24 Select the most appropriate option to fill in blank number 4.

Ans

✗ 1. sooner

✗ 2. before

✗ 3. prior

✓ 4. ago

Question Type : **MCQ**
Question ID : **264330136625**
Option 1 ID : **264330535223**
Option 2 ID : **264330535225**
Option 3 ID : **264330535224**
Option 4 ID : **264330535226**
Status : **Answered**
Chosen Option : **4**

Join Telegram Group "HaryanaJobs.in"

Comprehension:

In the following passage some words have been deleted. Fill in the blanks with the help of the alternatives given. Select the most appropriate option for each number.

It was this (1) _____ that made John so particularly unusual, even for a wizard. This scar was (2) _____ hint of John's very mysterious past, of the reason (3) _____ the Samuel's doorstep eleven years (4) _____. At the age of one, John (5) _____ a curse from the greatest Dark sorcerer of all time.

SubQuestion No : 25

Q.25 Select the most appropriate option to fill in blank number 5.

Ans

✗ 1. have somehow survived

✓ 2. had somehow survived

✗ 3. had somehow existed through

✗ 4. has had someway survived

Question Type : **MCQ**
Question ID : **264330136626**
Option 1 ID : **264330535229**
Option 2 ID : **264330535228**
Option 3 ID : **264330535227**
Option 4 ID : **264330535230**
Status : **Answered**
Chosen Option : **2**

Join Telegram Group "HaryanaJobs.in"

Multi Tasking Non Technical Staff and Havaldar CBIC and CBN Examination 2022

Roll Number	HaryanaJobs.in
Candidate Name	HaryanaJobs.in
Venue Name	R K Digital Computer Centre 2
Exam Date	19/05/2023
Exam Time	9:00 AM - 10:30 AM
Subject	MTS Non Tech Havaldar CBIC and CBN Examination 2022

Section : **Numerical and Mathematical Ability**

Q.1 Rs.56,000 की धनराशि पर दो वर्षों के लिए 15% वार्षिक दर पर चक्रवृद्धि ब्याज (वार्षिक रूप से संयोजित) और साधारण ब्याज के बीच अंतर ज्ञात कीजिए।

Ans

1. ✗ Rs. 1300
2. ✓ Rs. 1260
3. ✗ Rs. 1100
4. ✗ Rs. 2410

Question Type : **MCQ**
Question ID : **264330133767**
Option 1 ID : **264330524092**
Option 2 ID : **264330524091**
Option 3 ID : **264330524094**
Option 4 ID : **264330524093**
Status : **Answered**
Chosen Option : **2**

Q.2 दो संख्याओं का गुणनफल 38025 है और उनका महत्तम समापवर्तक 65 है। इन संख्याओं का लघुत्तम समापवर्त्य क्या है?

Ans

1. ✗ 435
2. ✗ 455
3. ✓ 585
4. ✗ 715

Question Type : **MCQ**
Question ID : **264330137338**
Option 1 ID : **264330537982**
Option 2 ID : **264330537980**
Option 3 ID : **264330537981**
Option 4 ID : **264330537979**
Status : **Answered**
Chosen Option : **3**

Join Telegram Group "HaryanaJobs.in"

Q.3 एक कार्यालय में 70% कर्मचारी पुरुष हैं, 70% पुरुषों और 30% महिलाओं ने अनुज को मत दिया। अनुज को मत देने वाले लोगों का प्रतिशत ज्ञात कीजिए।

Ans
1. 52%
2. 56%
3. 54%
4. 58%

Question Type : **MCQ**
Question ID : **264330133760**
Option 1 ID : **264330524066**
Option 2 ID : **264330524063**
Option 3 ID : **264330524064**
Option 4 ID : **264330524065**
Status : **Answered**
Chosen Option : **4**

Q.4 A अकेले किसी कार्य को 16 दिनों में पूरा कर सकता है और B अकेले उसी कार्य को 96 दिनों में पूरा कर सकता है। A और B दोनों मिलकर इसी कार्य को कितने दिनों में पूरा कर सकते हैं?

Ans
1. 88/13 दिन
2. 96/7 दिन
3. 96/13 दिन
4. 88/14 दिन

Question Type : **MCQ**
Question ID : **264330135145**
Option 1 ID : **264330529517**
Option 2 ID : **264330529515**
Option 3 ID : **264330529516**
Option 4 ID : **264330529518**
Status : **Answered**
Chosen Option : **2**

Q.5 एक व्यक्ति एक कार को 8 प्रतिशत के बट्टे पर बेचता है। यदि वह 4 प्रतिशत का बट्टा देता है, तो उसे 8 प्रतिशत के बट्टे की तुलना में Rs.7200 अधिक प्राप्त होते हैं। कार का अंकित मूल्य क्या है?

Ans
1. Rs. 180000
2. Rs. 160000
3. Rs. 150000
4. Rs. 110000

Question Type : **MCQ**
Question ID : **264330137334**
Option 1 ID : **264330537964**
Option 2 ID : **264330537965**
Option 3 ID : **264330537963**
Option 4 ID : **264330537966**
Status : **Answered**
Chosen Option : **1**

Join Telegram Group "HaryanaJobs.in"

Q.6 मोहित और सुनील की वर्तमान आयु का अनुपात 4:5 है। मोहित, सुनील से 7 वर्ष छोटा है। 7 वर्षों के बाद मोहित की आयु और सुनील की आयु का अनुपात क्या होगा?

Ans
1. 5 : 6 ✔
2. 8 : 9 ✘
3. 6 : 7 ✘
4. 7 : 8 ✘

Question Type : **MCQ**
Question ID : **264330137330**
Option 1 ID : **264330537950**
Option 2 ID : **264330537949**
Option 3 ID : **264330537947**
Option 4 ID : **264330537948**
Status : **Answered**
Chosen Option : **1**

Q.7 दो स्टेशन L और M एक-दूसरे से 720 km की दूरी पर हैं। एक रेलगाड़ी L से M की ओर जाती है और उसी समय एक दूसरी रेलगाड़ी M से L की ओर जाती है। दोनों रेलगाड़ियाँ 24 घंटों के बाद मिलती हैं। यदि पहली रेलगाड़ी की चाल दूसरी रेलगाड़ी से 10 km/hr अधिक है, तो धीमी गति से चल रही रेलगाड़ी की चाल क्या है?

Ans
1. 20 km/hr ✘
2. 10 km/hr ✔
3. 14 km/hr ✘
4. 16 km/hr ✘

Question Type : **MCQ**
Question ID : **264330137323**
Option 1 ID : **264330537922**
Option 2 ID : **264330537921**
Option 3 ID : **264330537920**
Option 4 ID : **264330537919**
Status : **Answered**
Chosen Option : **2**

Q.8 यदि (1/2) of 20 + (1/4) of 28 - (1/3) of x = 10, तो X का मान क्या है?

Ans
1. 21 ✔
2. 10 ✘
3. 28 ✘
4. 7 ✘

Question Type : **MCQ**
Question ID : **264330133628**
Option 1 ID : **264330523535**
Option 2 ID : **264330523537**
Option 3 ID : **264330523538**
Option 4 ID : **264330523536**
Status : **Answered**
Chosen Option : **1**

Join Telegram Group "HaryanaJobs.in"

Q.9 एक घन का आयतन 2.197 cm^3 है। घन की भुजा ज्ञात कीजिए।

Ans
1. 1.2 cm ✗
2. 1.1 cm ✗
3. 1.3 cm ✓
4. 1.4 cm ✗

Question Type : **MCQ**
Question ID : **264330135149**
Option 1 ID : **264330529534**
Option 2 ID : **264330529533**
Option 3 ID : **264330529532**
Option 4 ID : **264330529531**
Status : **Answered**
Chosen Option : **3**

Q.10 अजय Rs. 7560 में एक स्कूटर खरीदता है और उसकी मरम्मत पर Rs. 540 खर्च करता है। वह इसे Rs. 9000 में बेच देता है। उसका लाभ प्रतिशत कितना है?

Ans
1. 6.25% ✗
2. 11.11% ✓
3. 9.09% ✗
4. 8.33% ✗

Question Type : **MCQ**
Question ID : **264330138375**
Option 1 ID : **264330542109**
Option 2 ID : **264330542107**
Option 3 ID : **264330542108**
Option 4 ID : **264330542110**
Status : **Answered**
Chosen Option : **2**

Q.11 एक थैले में 2 रुपए, 5 रुपए और 10 रुपए के सिक्कों के रूप में Rs.840 हैं। 2 रुपए, 5 रुपए और 10 रुपए के सिक्कों की संख्या 5 : 7 : 6 के अनुपात में है। थैले में सिक्कों की कुल संख्या कितनी है?

Ans
1. 132 ✗
2. 158 ✗
3. 102 ✗
4. 144 ✓

Question Type : **MCQ**
Question ID : **264330137331**
Option 1 ID : **264330537951**
Option 2 ID : **264330537952**
Option 3 ID : **264330537953**
Option 4 ID : **264330537954**
Status : **Answered**
Chosen Option : **4**

Join Telegram Group "HaryanaJobs.in"

Q.12 एक रेलगाड़ी 85 km/hr की औसत चाल से चलती है। 1275 km की दूरी तय करने में रेलगाड़ी द्वारा लिया गया समय ज्ञात कीजिए।

Ans

1. ✗ 14 घंटे
2. ✗ 17 घंटे
3. ✓ 15 घंटे
4. ✗ 12 घंटे

Question Type : **MCQ**
Question ID : **264330135069**
Option 1 ID : **264330529212**
Option 2 ID : **264330529213**
Option 3 ID : **264330529214**
Option 4 ID : **264330529211**
Status : **Answered**
Chosen Option : **3**

Q.13 शिवम ने दो घड़ियाँ खरीदीं, पहली Rs.12000 में और दूसरी Rs.10000 में। उसने दोनों घड़ियों को बेच दिया, पहली को 10 प्रतिशत के लाभ पर और दूसरी को 10 प्रतिशत की हानि पर। उसे कुल कितना लाभ या हानि हुई?

Ans

1. ✗ 0.909 प्रतिशत हानि
2. ✓ 0.909 प्रतिशत लाभ
3. ✗ 2.25 प्रतिशत लाभ
4. ✗ 2.25 प्रतिशत हानि

Question Type : **MCQ**
Question ID : **264330137329**
Option 1 ID : **264330537945**
Option 2 ID : **264330537946**
Option 3 ID : **264330537944**
Option 4 ID : **264330537943**
Status : **Answered**
Chosen Option : **3**

Q.14 A और B मिलकर एक कार्य को 7.2 घंटों में पूरा कर सकते हैं। यदि B अकेले उसी कार्य को 18 घंटों में पूरा कर सकता है, तो A अकेले उस कार्य को कितने घंटों में कर सकता है?

Ans

1. ✗ 18 घंटों में
2. ✗ 10 घंटों में
3. ✓ 12 घंटों में
4. ✗ 15 घंटों में

Question Type : **MCQ**
Question ID : **264330138450**
Option 1 ID : **264330542407**
Option 2 ID : **264330542408**
Option 3 ID : **264330542409**
Option 4 ID : **264330542410**
Status : **Answered**
Chosen Option : **3**

Join Telegram Group "HaryanaJobs.in"

Q.15 यदि एक बेलन का आयतन 5000 m^3 है और इसकी त्रिज्या 10 m है, तो बेलन का अनुमानित वक्र पृष्ठीय क्षेत्रफल कितना है? (π = 3.14)

Ans

✗ 1. $1024\,m^2$

✗ 2. $954\,m^2$

✓ 3. $1000\,m^2$

✗ 4. $968\,m^2$

Question Type : **MCQ**
Question ID : **264330138455**
Option 1 ID : **264330542428**
Option 2 ID : **264330542430**
Option 3 ID : **264330542427**
Option 4 ID : **264330542429**
Status : **Answered**
Chosen Option : **3**

Q.16 Rs.14400 की राशि पर 12 महीनों के लिए 11% वार्षिक ब्याज दर पर साधारण ब्याज कितना है?

Ans

✗ 1. Rs. 1440

✓ 2. Rs. 1584

✗ 3. Rs. 1331

✗ 4. Rs. 1680

Question Type : **MCQ**
Question ID : **264330138047**
Option 1 ID : **264330540796**
Option 2 ID : **264330540795**
Option 3 ID : **264330540797**
Option 4 ID : **264330540798**
Status : **Answered**
Chosen Option : **2**

Q.17 दो संख्याएँ 9 : 7 के अनुपात में हैं। यदि उनका महत्तम समापवर्तक (HCF) 6 है, तो उनका लघुत्तम समापवर्त्य (LCM) ज्ञात कीजिए।

Ans

✗ 1. 252

✗ 2. 189

✓ 3. 378

✗ 4. 126

Question Type : **MCQ**
Question ID : **264330135414**
Option 1 ID : **264330530566**
Option 2 ID : **264330530565**
Option 3 ID : **264330530564**
Option 4 ID : **264330530563**
Status : **Answered**
Chosen Option : **3**

Join Telegram Group "HaryanaJobs.in"

Q.18 नीचे दिए गए वृत्त आलेख में 7 अलग-अलग कंपनियों की बिक्री को दर्शाया गया है। इन सभी 7 कंपनियों की कुल बिक्री 1080 है। एक कंपनी की बिक्री को इन सभी 7 कंपनियों की कुल बिक्री के सापेक्ष डिग्री में दर्शाया गया है।

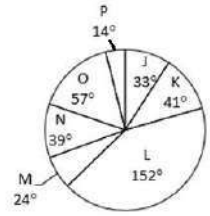

J, L, M और N की कुल बिक्री और K, N, O और P की कुल बिक्री का अनुपात कितना है?

Ans

1. ✗ 129 : 252
2. ✗ 151 : 248
3. ✓ 248 : 151
4. ✗ 231 : 149

Question Type : **MCQ**
Question ID : **264330137342**
Option 1 ID : **264330537998**
Option 2 ID : **264330537995**
Option 3 ID : **264330537997**
Option 4 ID : **264330537996**
Status : **Answered**
Chosen Option : **3**

Q.19 निम्नलिखित तालिका में दिए गए वर्षों में एक कंपनी द्वारा किए गए वार्षिक व्यय को (लाख रुपये में) दर्शाया गया है। इन वर्षों में परिवहन (transport) पर किए गए कुल व्यय और वेतन (salary) पर किए गए कुल व्यय के बीच कितना अंतर है?

Year	Item of Expenditure			
	Fuel	Transport	Salary	Tax
2011	100	150	400	60
2012	92	140	380	64
2013	84	145	420	74
2014	102	155	450	78
2015	110	158	490	84

Year = वर्ष

Item of Expenditure = व्यय के प्रयोजन

Fuel = ईंधन, Transport = परिवहन, Salary = वेतन, Tax = कर

Ans

1. ✗ Rs.2140 लाख
2. ✗ Rs.748 लाख
3. ✓ Rs.1392 लाख
4. ✗ Rs.896 लाख

Question Type : **MCQ**
Question ID : **264330133642**
Option 1 ID : **264330523593**
Option 2 ID : **264330523594**
Option 3 ID : **264330523591**
Option 4 ID : **264330523592**
Status : **Answered**
Chosen Option : **3**

Join Telegram Group "HaryanaJobs.in"

Q.20 A, B और C का औसत भार 40 kg है। यदि A और B का औसत भार 35 kg है और B और C का औसत भार 31 kg है, तो B का भार कितना है?

Ans

✗ 1. 50 kg

✗ 2. 24 kg

✓ 3. 12 kg

✗ 4. 36 kg

Question Type : **MCQ**
Question ID : **264330137324**
Option 1 ID : **264330537924**
Option 2 ID : **264330537926**
Option 3 ID : **264330537923**
Option 4 ID : **264330537925**
Status : **Answered**
Chosen Option : **3**

Section : **Reasoning Ability and Problem Solving**

Q.1 एक निश्चित कूट भाषा में, 'AGEING' को '1H23OH' लिखा जाता है। उस भाषा में 'UTOPIA' को कैसे लिखा जाएगा?

Ans

✗ 1. 54UQ31

✗ 2. 5U4R31

✗ 3. 5S4R31

✓ 4. 5U4Q31

Question Type : **MCQ**
Question ID : **264330134937**
Option 1 ID : **264330528684**
Option 2 ID : **264330528685**
Option 3 ID : **264330528686**
Option 4 ID : **264330528683**
Status : **Answered**
Chosen Option : **4**

Q.2 उस विकल्प को चुनिए जो तीसरी संख्या से ठीक उसी प्रकार संबंधित है जिस प्रकार दूसरी संख्या पहली संख्या से संबंधित है।
434 : 33 :: 125 : ?

Ans

✗ 1. 21

✗ 2. 27

✓ 3. 24

✗ 4. 30

Question Type : **MCQ**
Question ID : **264330133479**
Option 1 ID : **264330522947**
Option 2 ID : **264330522949**
Option 3 ID : **264330522948**
Option 4 ID : **264330522950**
Status : **Answered**
Chosen Option : **3**

Join Telegram Group "HaryanaJobs.in"

Q.3 उस विकल्प को चुनिए जो पाँचवे पद से ठीक उसी प्रकार संबंधित है जिस प्रकार दूसरा पद पहले पद से संबंधित है और चौथा पद तीसरे पद से संबंधित है।

AF14 : FO28 :: RH13 : WQ27 :: LC26 : ?

Ans

✗ 1. QM40

✓ 2. QL40

✗ 3. QL54

✗ 4. QM54

Question Type : **MCQ**
Question ID : **264330137368**
Option 1 ID : **264330538101**
Option 2 ID : **264330538100**
Option 3 ID : **264330538102**
Option 4 ID : **264330538099**
Status : **Answered**
Chosen Option : **2**

Q.4 उस विकल्प को चुनिए जो पाँचवे पद से ठीक उसी प्रकार संबंधित है जिस प्रकार दूसरा पद पहले पद से संबंधित है और चौथा पद तीसरे पद से संबंधित है।

NP3 : PS27 :: AQ4 : CT64 :: FE5 : ?

Ans

✓ 1. HH125

✗ 2. II125

✗ 3. HI125

✗ 4. IH125

Question Type : **MCQ**
Question ID : **264330137367**
Option 1 ID : **264330538097**
Option 2 ID : **264330538095**
Option 3 ID : **264330538098**
Option 4 ID : **264330538096**
Status : **Answered**
Chosen Option : **1**

Join Telegram Group "HaryanaJobs.in"

Q.5 दी गई आकृति के उस सही दर्पण प्रतिबिंब को चुनिए, जो नीचे दर्शाए गए अनुसार दर्पण को AB पर रखने पर बनेगा।

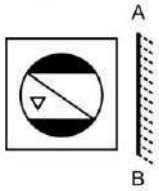

Ans

✗ 1.

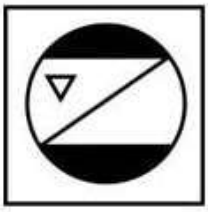

✗ 2.

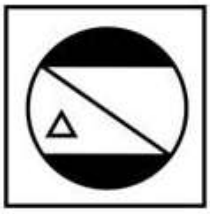

✗ 3.

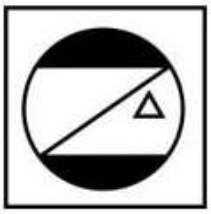

✓ 4.

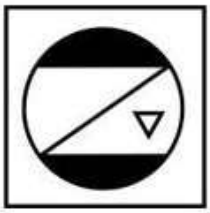

Question Type : **MCQ**
Question ID : **264330133384**
Option 1 ID : **264330522567**
Option 2 ID : **264330522570**
Option 3 ID : **264330522568**
Option 4 ID : **264330522569**
Status : **Answered**
Chosen Option : **4**

Join Telegram Group "HaryanaJobs.in"

Q.6 निम्नलिखित प्रश्न में, दी गई श्रृंखला में लुप्त संख्या को चुनिए ।

36, 73, 147, 295, 591, ?

Ans
1. 1163
2. 1188
3. 1197
4. 1183 ✔

Question Type : **MCQ**
Question ID : **264330137379**
Option 1 ID : **264330538146**
Option 2 ID : **264330538144**
Option 3 ID : **264330538145**
Option 4 ID : **264330538143**
Status : **Answered**
Chosen Option : **4**

Q.7 एक श्रृंखला दी गई है जिसमें एक पद लुप्त है। दिए गए विकल्पों में से उस सही विकल्प को चुनिए जो श्रृंखला को पूरा करेगा।

RAQ, TCS, VEU, ?, ZIY

Ans
1. XGX
2. XHX
3. XGW ✔
4. XHW

Question Type : **MCQ**
Question ID : **264330137365**
Option 1 ID : **264330538089**
Option 2 ID : **264330538090**
Option 3 ID : **264330538087**
Option 4 ID : **264330538088**
Status : **Answered**
Chosen Option : **3**

Q.8 यदि A का अर्थ 'जोड़', B का अर्थ 'गुणा', C का अर्थ 'घटाव' और D का अर्थ 'भाग' हो, तो निम्नलिखित समीकरण का मान क्या होगा?
15 C 9 A 7 B 2 = ?

Ans
1. 15
2. 36
3. 20 ✔
4. 45

Question Type : **MCQ**
Question ID : **264330137848**
Option 1 ID : **264330540002**
Option 2 ID : **264330540001**
Option 3 ID : **264330540000**
Option 4 ID : **264330539999**
Status : **Answered**
Chosen Option : **3**

Join Telegram Group "HaryanaJobs.in"

Q.9 आठ खिलाड़ी अनिल, कमल, राम, संजय, आकाश, विवेक, राहुल और रामू एक वृत्ताकार मेज के चारों ओर केंद्र की ओर मुख करके बैठे हैं (परंतु जरूरी नहीं कि वे इसी क्रम में बैठे हों)। संजय, अनिल के बाईं ओर से दूसरे स्थान पर है। राहुल, अनिल के दाईं ओर से चौथे स्थान पर है। राम, राहुल या संजय का निकटतम पड़ोसी नहीं है। आकाश, राम के दाईं ओर से दूसरे स्थान पर है। कमल, विवेक के दाईं ओर से दूसरे स्थान पर है। रामू के दाईं ओर से तीसरे स्थान पर कौन है?

Ans

✗ 1. कमल

✗ 2. संजय

✓ 3. विवेक

✗ 4. राहुल

Question Type : **MCQ**
Question ID : **264330137373**
Option 1 ID : **264330538119**
Option 2 ID : **264330538121**
Option 3 ID : **264330538120**
Option 4 ID : **264330538122**
Status : **Answered**
Chosen Option : **3**

Q.10 उस विकल्प को चुनिए जिसमें समुच्चय की संख्याएँ वही संबंध साझा करती हैं जो दिए गए समुच्चय में संख्याओं द्वारा साझा किया जाता है। (ध्यान दें: संख्याओं को उनके घटक अंकों में अलग-अलग किए बिना, पूर्ण संख्याओं पर संक्रियाएँ की जानी चाहिए। उदा. 13 - 13 पर संक्रियाएँ जैसे 13 को जोड़ना /घटाना /गुणा करना आदि किया जा सकता है। 13 को 1 और 3 में अलग-अलग करने की और फिर 1 और 3 पर गणितीय संक्रियाएँ करने की अनुमति नहीं है)

(15, 25, 35)

(45, 55, 65)

Ans

✗ 1. (55, 60, 70)

✗ 2. (45, 55, 70)

✗ 3. (55, 75, 85)

✓ 4. (55, 65, 75)

Question Type : **MCQ**
Question ID : **264330137381**
Option 1 ID : **264330538151**
Option 2 ID : **264330538153**
Option 3 ID : **264330538152**
Option 4 ID : **264330538154**
Status : **Answered**
Chosen Option : **4**

Q.11 एक निश्चित कूट भाषा में, 'SOWHF' को 'PLTEC' लिखा जाता है। उस भाषा में 'TQMGD' को कैसे लिखा जाएगा?

Ans

✓ 1. QNJDA

✗ 2. QNDJD

✗ 3. QNJDE

✗ 4. QJNDD

Question Type : **MCQ**
Question ID : **264330133531**
Option 1 ID : **264330523156**
Option 2 ID : **264330523157**
Option 3 ID : **264330523155**
Option 4 ID : **264330523158**
Status : **Answered**
Chosen Option : **1**

Join Telegram Group "HaryanaJobs.in"

Q.12 दिए गए दो चिन्हों को आपस में बदलने पर दिए गए समीकरण का मान क्या होगा?

× और ÷ ; 68 × 17 + 34 ÷ 2 - 18

Ans
1. 54
2. 46
3. 35
4. 60

Question Type : **MCQ**
Question ID : **264330137382**
Option 1 ID : **264330538155**
Option 2 ID : **264330538157**
Option 3 ID : **264330538158**
Option 4 ID : **264330538156**
Status : **Answered**
Chosen Option : **1**

Join Telegram Group "HaryanaJobs.in"

Q.13 Select the option figure in which the given figure (X) is embedded as its part (rotation is NOT allowed).

X

Ans

✗ 1.

✗ 2.

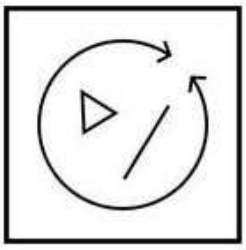

✓ 3.

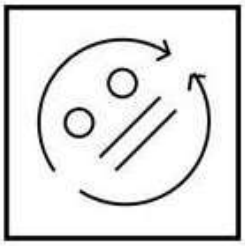

✗ 4.

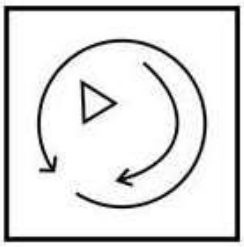

Question Type : **MCQ**
Question ID : **264330133383**
Option 1 ID : **264330522564**
Option 2 ID : **264330522563**
Option 3 ID : **264330522566**
Option 4 ID : **264330522565**
Status : **Answered**
Chosen Option : **3**

Join Telegram Group "HaryanaJobs.in"

Q.14 पाँच लड़कियों मानसी, काजल, ऋतु , टीना और रिया के अंकों की तुलना की जाती है। रिया के अंक मानसी से कम लेकिन टीना से अधिक हैं। ऋतु के अंक टीना, रिया और मानसी से कम हैं। काजल के अंक ऋतु से कम हैं। कितनी लड़कियों के अंक टीना के अंकों से कम हैं?

Ans

✔ 1. 2

✘ 2. 1

✘ 3. 4

✘ 4. 3

Question Type : **MCQ**
Question ID : **264330137375**
Option 1 ID : **264330538130**
Option 2 ID : **264330538129**
Option 3 ID : **264330538128**
Option 4 ID : **264330538127**
Status : **Answered**
Chosen Option : **1**

Join Telegram Group "HaryanaJobs.in"

Q.15 कौन-सी उत्तर आकृति प्रश्न आकृति में दिए गए पैटर्न को पूरा करेगी?



Ans

✗ 1.

✗ 2.

✗ 3.

✓ 4.

Question Type : **MCQ**
Question ID : **264330137386**
Option 1 ID : **264330538172**
Option 2 ID : **264330538173**
Option 3 ID : **264330538174**
Option 4 ID : **264330538171**
Status : **Answered**
Chosen Option : **4**

Join Telegram Group "HaryanaJobs.in"

Q.16 एक निश्चित कूट भाषा में, 'HED' को '160' लिखा जाता है, 'FBG' को '84' लिखा जाता है। उस कूट भाषा में 'BEJ' को कैसे लिखा जाएगा?

Ans
1. 80
2. 60
3. 120
4. 100

Question Type : **MCQ**
Question ID : **264330137520**
Option 1 ID : **264330538689**
Option 2 ID : **264330538688**
Option 3 ID : **264330538687**
Option 4 ID : **264330538690**
Status : **Answered**
Chosen Option : **4**

Q.17 दी गई श्रृंखला में निम्नलिखित में से कौन-सी संख्या प्रश्न चिन्ह (?) के स्थान पर आएगी?
59, 63, 71, 83, 99, ?

Ans
1. 117
2. 118
3. 119
4. 121

Question Type : **MCQ**
Question ID : **264330133477**
Option 1 ID : **264330522939**
Option 2 ID : **264330522942**
Option 3 ID : **264330522940**
Option 4 ID : **264330522941**
Status : **Answered**
Chosen Option : **3**

Join Telegram Group "HaryanaJobs.in"

Q.18 निम्नलिखित प्रश्न में कुछ कथन दिए गए हैं और उन कथनों के आधार पर कुछ निष्कर्ष दिए गए हैं। आपको यह मानना है कि दिए गए कथन सत्य हैं चाहे वे समान्यतः ज्ञात तथ्यों से अलग प्रतीत होते हों। सभी निष्कर्षों को पढ़िए और फिर निश्चय कीजिए कि दिए गए निष्कर्षों में से कौन-सा निष्कर्ष तार्किक रूप से दिए गए कथनों के अनुसार है।

कथन:

I. सभी S, F हैं।

II. कुछ S, H हैं।

निष्कर्ष:

I. कुछ F, S नहीं हैं।

II. कुछ H, S हैं।

Ans

✗ 1. केवल निष्कर्ष I कथनों के अनुसार है

✗ 2. दोनों निष्कर्ष I और II कथनों के अनुसार हैं

✗ 3. कोई भी निष्कर्ष कथनों के अनुसार नहीं है

✓ 4. केवल निष्कर्ष II कथनों के अनुसार है

Question Type : **MCQ**
Question ID : **264330137376**
Option 1 ID : **264330538131**
Option 2 ID : **264330538133**
Option 3 ID : **264330538134**
Option 4 ID : **264330538132**
Status : **Answered**
Chosen Option : **4**

Q.19 आठ लड़के अनिल, कमल, राम, संजय, आकाश, विवेक, राहुल और रामू एक वृत्ताकार मेज के चारों ओर केंद्र के विपरीत दिशा में मुख करके बैठे हैं (परंतु जरूरी नहीं कि वे इसी क्रम में बैठे हों)। राम, रामू और अनिल दोनों का निकटतम पड़ोसी है। संजय, रामू के दाईं ओर से तीसरे स्थान पर है। रामू, अनिल के दाईं ओर से दूसरे स्थान पर है। राम, कमल के बाईं ओर से दूसरे स्थान पर है। विवेक, अनिल का निकटतम पड़ोसी नहीं है। आकाश, रामू के दाईं ओर से दूसरे स्थान पर है। विवेक के दाईं ओर से दूसरे स्थान पर कौन है?

Ans

✗ 1. आकाश

✗ 2. संजय

✗ 3. राहुल

✓ 4. अनिल

Question Type : **MCQ**
Question ID : **264330137374**
Option 1 ID : **264330538125**
Option 2 ID : **264330538123**
Option 3 ID : **264330538124**
Option 4 ID : **264330538126**
Status : **Answered**
Chosen Option : **4**

Join Telegram Group "HaryanaJobs.in"

Q.20 निम्नलिखित प्रश्न में कुछ कथन दिए गए हैं और उन कथनों के आधार पर कुछ निष्कर्ष दिए गए हैं। आपको यह मानना है कि दिए गए कथन सत्य हैं चाहे वे समान्यतः ज्ञात तथ्यों से अलग प्रतीत होते हों। सभी निष्कर्षों को पढ़िए और फिर निश्चय कीजिए कि दिए गए निष्कर्षों में से कौन-सा निष्कर्ष तार्किक रूप से दिए गए कथनों के अनुसार है।

कथन:

I. कुछ M, N हैं।

II कोई J, N नहीं है।

निष्कर्ष:

I. कोई N, J नहीं है।

II कुछ N, M हैं।

III सभी J, M हैं।

Ans

✗ 1. दोनों निष्कर्ष I और III कथनों के अनुसार हैं

✗ 2. दोनों निष्कर्ष II और III कथनों के अनुसार हैं

✓ 3. दोनों निष्कर्ष I और II कथनों के अनुसार हैं

✗ 4. केवल निष्कर्ष II कथनों के अनुसार है

Question Type : **MCQ**
Question ID : **264330137377**
Option 1 ID : **264330538138**
Option 2 ID : **264330538136**
Option 3 ID : **264330538137**
Option 4 ID : **264330538135**
Status : **Answered**
Chosen Option : **1**

Section : **General Awareness**

Q.1 असद अली ख़ाँ एक भारतीय संगीतकार थे जो _____ के वादक थे।

Ans

✗ 1. सितार

✗ 2. संतूर

✓ 3. रुद्र वीणा

✗ 4. बाँसुरी

Question Type : **MCQ**
Question ID : **264330137393**
Option 1 ID : **264330538201**
Option 2 ID : **264330538202**
Option 3 ID : **264330538199**
Option 4 ID : **264330538200**
Status : **Answered**
Chosen Option : **2**

Join Telegram Group "HaryanaJobs.in"

Q.2 निम्नलिखित में से किसे व्यापक रूप से संगीत, नाट्य प्रदर्शन, भाषा और 'सत्रिया' नृत्य के नए रूपों को पेश करने का श्रेय दिया जाता है?

Ans
1. उदय शंकर (Uday Shankar)
2. शोवना नारायण (Shovana Narayan)
3. श्रीमंत शंकरदेव (Srimanta Sankardev)
4. पद्मा सुब्रह्मण्यम (Padma Subrahmanyam)

Question Type : **MCQ**
Question ID : **264330134025**
Option 1 ID : **264330525126**
Option 2 ID : **264330525124**
Option 3 ID : **264330525123**
Option 4 ID : **264330525125**
Status : **Answered**
Chosen Option : **3**

Q.3 2022 में लोकसभा में पारित कौन-सा विधेयक भारत के एक राज्य /केंद्र शासित प्रदेश के तीन नगर निगमों के एकीकरण से संबंधित है?

Ans
1. दिल्ली नगर निगम (संशोधन) विधेयक
2. कर्नाटक नगर निगम (संशोधन) विधेयक
3. पुडुचेरी नगर निगम (संशोधन) विधेयक
4. चंडीगढ़ नगर निगम (संशोधन) विधेयक

Question Type : **MCQ**
Question ID : **264330137945**
Option 1 ID : **264330540387**
Option 2 ID : **264330540389**
Option 3 ID : **264330540388**
Option 4 ID : **264330540390**
Status : **Answered**
Chosen Option : **1**

Q.4 "मेजर ध्यानचंद खेल रत्न पुरस्कार 2021" जीतने वाले एकमात्र क्रिकेट खिलाड़ी कौन हैं?

Ans
1. विराट कोहली
2. रोहित शर्मा
3. हरमनप्रीत कौर
4. मिताली राज

Question Type : **MCQ**
Question ID : **264330137390**
Option 1 ID : **264330538188**
Option 2 ID : **264330538187**
Option 3 ID : **264330538190**
Option 4 ID : **264330538189**
Status : **Answered**
Chosen Option : **4**

Join Telegram Group "HaryanaJobs.in"

Q.5 Which among the following is a public sector bank?

Ans
1. Yes Bank
2. ICICI Bank
3. Bank of Baroda
4. Axis Bank

Question Type : **MCQ**
Question ID : **264330134030**
Option 1 ID : **264330525146**
Option 2 ID : **264330525145**
Option 3 ID : **264330525143**
Option 4 ID : **264330525144**
Status : **Not Answered**
Chosen Option : **--**

Q.6 निम्नलिखित में से किस अवधि को भारत में जनसंख्या विस्फोट की अवधि के रूप में जाना जाता है?

Ans
1. वर्ष 1951 - 1981
2. वर्ष 1921 - 1951
3. वर्ष 1901 - 1921
4. वर्ष 1981 के बाद से अब तक

Question Type : **MCQ**
Question ID : **264330138265**
Option 1 ID : **264330541669**
Option 2 ID : **264330541668**
Option 3 ID : **264330541667**
Option 4 ID : **264330541670**
Status : **Answered**
Chosen Option : **2**

Q.7 पृथ्वी पर सबसे बड़ा महासागर _____ है।

Ans
1. अटलांटिक महासागर
2. हिंद महासागर
3. प्रशांत महासागर
4. आर्कटिक महासागर

Question Type : **MCQ**
Question ID : **264330133939**
Option 1 ID : **264330524779**
Option 2 ID : **264330524782**
Option 3 ID : **264330524780**
Option 4 ID : **264330524781**
Status : **Answered**
Chosen Option : **2**

Join Telegram Group "HaryanaJobs.in"

Q.8 फाइनेंशियल एक्शन टास्क फोर्स (FATF) ने अक्टूबर 2022 में किस देश को आतंकी वित्तपोषण और मनी लॉन्ड्रिंग पर वैश्विक निगरानी संस्था (global watchdog) की ग्रे सूची (grey list) से बाहर कर दिया है?

Ans
✔ 1. पाकिस्तान
✘ 2. चीन
✘ 3. उत्तर कोरिया
✘ 4. बांग्लादेश

Question Type : **MCQ**
Question ID : **264330137396**
Option 1 ID : **264330538213**
Option 2 ID : **264330538214**
Option 3 ID : **264330538211**
Option 4 ID : **264330538212**
Status : **Answered**
Chosen Option : **1**

Q.9 निम्नलिखित में से कौन-सा प्राचीन स्थल भारत में स्थित नहीं है?

Ans
✘ 1. हल्लूर (Hallur)
✔ 2. मेहरगढ़ (Mehrgarh)
✘ 3. इनामगाँव (Inamgaon)
✘ 4. हुँस्गी (Hunsgi)

Question Type : **MCQ**
Question ID : **264330133877**
Option 1 ID : **264330524532**
Option 2 ID : **264330524533**
Option 3 ID : **264330524531**
Option 4 ID : **264330524534**
Status : **Not Answered**
Chosen Option : **--**

Q.10 निम्न में से कौन-सा देश भारत के साथ समुद्री सीमा रेखा साझा करता है?

Ans
✔ 1. मालदीव
✘ 2. पाकिस्तान
✘ 3. फिलीपींस
✘ 4. फ़िजी

Question Type : **MCQ**
Question ID : **264330133660**
Option 1 ID : **264330523666**
Option 2 ID : **264330523664**
Option 3 ID : **264330523665**
Option 4 ID : **264330523663**
Status : **Answered**
Chosen Option : **1**

Join Telegram Group "HaryanaJobs.in"

Q.11 भारतीय संविधान का अनुच्छेद 40 _____ से संबंधित है।

Ans
1. ✗ नागरिकों के लिए समान नागरिक संहिता
2. ✓ ग्राम पंचायतों के संगठन
3. ✗ जीवन संरक्षण
4. ✗ धार्मिक मामलों के प्रबंधन की स्वतंत्रता

Question Type : **MCQ**
Question ID : **264330137399**
Option 1 ID : **264330538224**
Option 2 ID : **264330538223**
Option 3 ID : **264330538225**
Option 4 ID : **264330538226**
Status : **Answered**
Chosen Option : **2**

Q.12 क्षेत्रफल की दृष्टि से भारत विश्व का _____ सबसे बड़ा देश है।

Ans
1. ✓ सातवाँ
2. ✗ तीसरा
3. ✗ नौवाँ
4. ✗ छठा

Question Type : **MCQ**
Question ID : **264330137405**
Option 1 ID : **264330538249**
Option 2 ID : **264330538247**
Option 3 ID : **264330538248**
Option 4 ID : **264330538250**
Status : **Answered**
Chosen Option : **1**

Q.13 जब किसी वस्तु पर धनात्मक आवेश होता है तो इसका क्या अर्थ है?

Ans
1. ✗ इसमें प्रोटॉन की तुलना में न्यूट्रॉन अधिक होते हैं
2. ✓ इसमें इलेक्ट्रॉन की तुलना में प्रोटॉन अधिक होते हैं
3. ✗ इसमें इलेक्ट्रॉन की तुलना में न्यूट्रॉन अधिक होते हैं
4. ✗ इसमें प्रोटॉन की तुलना में इलेक्ट्रॉन अधिक होते हैं

Question Type : **MCQ**
Question ID : **264330133936**
Option 1 ID : **264330524768**
Option 2 ID : **264330524769**
Option 3 ID : **264330524770**
Option 4 ID : **264330524767**
Status : **Answered**
Chosen Option : **2**

Join Telegram Group "HaryanaJobs.in"

Q.14 निम्नलिखित में से "फ्लड ऑफ फायर (Flood of Fire)" के लेखक कौन हैं?

Ans
✔ 1. अमिताव घोष
✘ 2. तरुण खन्ना
✘ 3. ट्विंकल खन्ना
✘ 4. अरुणिमा सिन्हा

Question Type : **MCQ**
Question ID : **264330134023**
Option 1 ID : **264330525115**
Option 2 ID : **264330525118**
Option 3 ID : **264330525117**
Option 4 ID : **264330525116**
Status : **Not Attempted and Marked For Review**
Chosen Option : **--**

Q.15 Which of the following is a tertiary consumer?

Ans
✘ 1. Grasshopper
✔ 2. Snake
✘ 3. Grass
✘ 4. Frog

Question Type : **MCQ**
Question ID : **264330133938**
Option 1 ID : **264330524776**
Option 2 ID : **264330524778**
Option 3 ID : **264330524775**
Option 4 ID : **264330524777**
Status : **Answered**
Chosen Option : **2**

Q.16 सूर्य का प्रकाश पर्याप्त मात्रा में न मिलने से किस विटामिन की कमी हो जाती है?

Ans
✘ 1. विटामिन C
✔ 2. विटामिन D
✘ 3. विटामिन E और K
✘ 4. विटामिन A

Question Type : **MCQ**
Question ID : **264330137400**
Option 1 ID : **264330538228**
Option 2 ID : **264330538230**
Option 3 ID : **264330538229**
Option 4 ID : **264330538227**
Status : **Answered**
Chosen Option : **2**

Join Telegram Group "HaryanaJobs.in"

Q.17 लगभग 2000 साल पहले _____ कुषाणों की दूसरी राजधानी बनी।

Ans
1. मथुरा
2. मदुरै
3. पाटलिपुत्र
4. वैशाली

Question Type : **MCQ**
Question ID : **264330133945**
Option 1 ID : **264330524803**
Option 2 ID : **264330524804**
Option 3 ID : **264330524806**
Option 4 ID : **264330524805**
Status : **Answered**
Chosen Option : **3**

Q.18 मणिपुरी नृत्य का प्रमुख विषय _____ है।

Ans
1. भक्ति
2. देश प्रेम
3. युद्ध
4. वीरता

Question Type : **MCQ**
Question ID : **264330137387**
Option 1 ID : **264330538177**
Option 2 ID : **264330538175**
Option 3 ID : **264330538176**
Option 4 ID : **264330538178**
Status : **Answered**
Chosen Option : **1**

Q.19 मकर संक्रांति का त्योहार निम्नलिखित में से किस देवता को समर्पित है?

Ans
1. विष्णु
2. शिव
3. सूर्य
4. इंद्र

Question Type : **MCQ**
Question ID : **264330133857**
Option 1 ID : **264330524452**
Option 2 ID : **264330524451**
Option 3 ID : **264330524454**
Option 4 ID : **264330524453**
Status : **Answered**
Chosen Option : **3**

Join Telegram Group "HaryanaJobs.in"

Q.20 ब्रिटिश संसद के किस अधिनियम को ईस्ट इंडिया कंपनी अधिनियम 1793 के नाम से भी जाना जाता था?

Ans
✗ 1. रेगुलेटिंग एक्ट, 1793
✗ 2. भारत सरकार अधिनियम, 1793
✗ 3. भारतीय परिषद अधिनियम, 1793
✓ 4. चार्टर अधिनियम, 1793

Question Type : **MCQ**
Question ID : **264330137959**
Option 1 ID : **264330540446**
Option 2 ID : **264330540445**
Option 3 ID : **264330540444**
Option 4 ID : **264330540443**
Status : **Answered**
Chosen Option : **1**

Q.21 साइमन कमीशन का उद्देश्य _____ था।

Ans
✗ 1. भारत का आर्थिक भविष्य निर्धारित करना
✗ 2. भारत का धार्मिक भविष्य निर्धारित करना
✗ 3. भारत का शैक्षिक भविष्य निर्धारित करना
✓ 4. भारत का राजनीतिक भविष्य निर्धारित करना

Question Type : **MCQ**
Question ID : **264330133880**
Option 1 ID : **264330524543**
Option 2 ID : **264330524546**
Option 3 ID : **264330524545**
Option 4 ID : **264330524544**
Status : **Answered**
Chosen Option : **4**

Q.22 बौद्ध वास्तुकला में, निम्नलिखित में से कौन-सा एक ध्यान कक्ष और भिक्षुओं के रहने का स्थान है?

Ans
✓ 1. विहार (Viharas)
✗ 2. स्तूप (Stupas)
✗ 3. चैत्य गृह(Chaitya Grihas)
✗ 4. पितरा-दूरा (Pietra dura)

Question Type : **MCQ**
Question ID : **264330137948**
Option 1 ID : **264330540401**
Option 2 ID : **264330540400**
Option 3 ID : **264330540399**
Option 4 ID : **264330540402**
Status : **Answered**
Chosen Option : **2**

Join Telegram Group "HaryanaJobs.in"

Q.23 निम्नलिखित में से कौन भारत का एक प्रसिद्ध ट्रैक और फील्ड धावक है/था?

Ans
1. महेश भूपति
2. टी. सी. योहानन
3. मिल्खा सिंह
4. मेजर ध्यानचंद

Question Type : **MCQ**
Question ID : **264330133954**
Option 1 ID : **264330524840**
Option 2 ID : **264330524842**
Option 3 ID : **264330524839**
Option 4 ID : **264330524841**
Status : **Answered**
Chosen Option : **3**

Q.24 मोरमुगाओ (Mormugao) बंदरगाह निम्नलिखित में से किस राज्य में स्थित है?

Ans
1. महाराष्ट्र
2. तमिलनाडु
3. गोवा
4. पश्चिम बंगाल

Question Type : **MCQ**
Question ID : **264330134015**
Option 1 ID : **264330525084**
Option 2 ID : **264330525083**
Option 3 ID : **264330525085**
Option 4 ID : **264330525086**
Status : **Answered**
Chosen Option : **3**

Q.25 _____ ने 9 नवंबर 2022 को भारत के 50वें मुख्य न्यायाधीश के रूप में शपथ ली।

Ans
1. न्यायमूर्ति डी.वाई. चंद्रचूड़
2. न्यायमूर्ति एन. वी. रमना
3. न्यायमूर्ति यू.यू. ललित
4. न्यायमूर्ति रंजन गोगोई

Question Type : **MCQ**
Question ID : **264330137395**
Option 1 ID : **264330538207**
Option 2 ID : **264330538209**
Option 3 ID : **264330538208**
Option 4 ID : **264330538210**
Status : **Answered**
Chosen Option : **1**

Section : **English Language and Comprehension**

Join Telegram Group "HaryanaJobs.in"

Q.1 Identify the segment that contains a grammatical error. If there is no error, select 'No error'.
He consolidated control over all the / provinces of the Great Britain and some / of northern Gaul while Maximian dealt with other uprisings.

Ans
1. ✗ No Error
2. ✓ provinces of the Great Britain and some
3. ✗ He consolidated control over all the
4. ✗
of northern Gaul while Maximian dealt with other uprisings.

Question Type : **MCQ**
Question ID : **264330135795**
Option 1 ID : **264330532058**
Option 2 ID : **264330532056**
Option 3 ID : **264330532055**
Option 4 ID : **264330532057**
Status : **Answered**
Chosen Option : **4**

Q.2 Select the most appropriate meaning of the bracketed idiom in the given sentence.
Did you know David went to school with my brother? It's (a small world), isn't it?

Ans
1. ✓ Meeting someone not expected to be at a certain place
2. ✗ Overwhelmed by what is happening in the moment
3. ✗ A two-person conflict where both people are at fault
4. ✗ An aggressive and bold confrontation

Question Type : **MCQ**
Question ID : **264330135814**
Option 1 ID : **264330532127**
Option 2 ID : **264330532130**
Option 3 ID : **264330532128**
Option 4 ID : **264330532129**
Status : **Answered**
Chosen Option : **4**

Q.3 Identify the segment that contains a grammatical error. If there is no error, select 'No error'.

Police could not catch / the gunman as he ran off / so very fastly into the woods.

Ans
1. ✗ the gunman as he ran off
2. ✗ No error
3. ✗ Police could not catch
4. ✓ so very fastly into the woods.

Question Type : **MCQ**
Question ID : **264330136613**
Option 1 ID : **264330535180**
Option 2 ID : **264330535182**
Option 3 ID : **264330535179**
Option 4 ID : **264330535181**
Status : **Answered**
Chosen Option : **4**

Join Telegram Group "HaryanaJobs.in"

Q.4 **Select the most appropriate option to fill in the blank.**
The technical vocabulary and foreign words make this text a little more _____.

Ans
✗ 1. stagnant
✗ 2. feasible
✓ 3. difficult
✗ 4. futile

Question Type : **MCQ**
Question ID : **264330134344**
Option 1 ID : **264330526365**
Option 2 ID : **264330526366**
Option 3 ID : **264330526364**
Option 4 ID : **264330526363**
Status : **Answered**
Chosen Option : **3**

Q.5 Select the most appropriate antonym to substitute the (bracketed) word in the given sentence.
The negotiations have gotten nowhere, and I see no reason to (continue) with this pointless exercise.

Ans
✗ 1. vivacious
✗ 2. agitate
✓ 3. halt
✗ 4. coagulate

Question Type : **MCQ**
Question ID : **264330135812**
Option 1 ID : **264330532122**
Option 2 ID : **264330532119**
Option 3 ID : **264330532121**
Option 4 ID : **264330532120**
Status : **Answered**
Chosen Option : **3**

Q.6 Select the most appropriate option to substitute the bracketed segment in the given sentence. If there is no need to substitute it, select 'no substitution required'.
(Plots to dispose him came) to nothing.

Ans
✓ 1. Plots to dispose of him came
✗ 2. Plots which dispose him came
✗ 3. Plots to dispose off him comes
✗ 4. No substitution required

Question Type : **MCQ**
Question ID : **264330136036**
Option 1 ID : **264330532963**
Option 2 ID : **264330532965**
Option 3 ID : **264330532964**
Option 4 ID : **264330532966**
Status : **Answered**
Chosen Option : **1**

Join Telegram Group "HaryanaJobs.in"

Q.7 Select the most appropriate option to fill in the blank.
If someone does not stop the political _____ in that country, a civil war is likely to break out soon.

Ans
✔ 1. rhetoric
✘ 2. aleatoric
✘ 3. historic
✘ 4. anaphoric

Question Type : **MCQ**
Question ID : **264330135799**
Option 1 ID : **264330532074**
Option 2 ID : **264330532073**
Option 3 ID : **264330532072**
Option 4 ID : **264330532071**
Status : **Answered**
Chosen Option : **1**

Q.8 Select the most appropriate word for the given group of words.
The action or offence of speaking sacrilegiously about God or sacred things; profane talk

Ans
✔ 1. Blasphemy
✘ 2. Ephemeral
✘ 3. Crusade
✘ 4. Extempore

Question Type : **MCQ**
Question ID : **264330135808**
Option 1 ID : **264330532103**
Option 2 ID : **264330532106**
Option 3 ID : **264330532104**
Option 4 ID : **264330532105**
Status : **Answered**
Chosen Option : **1**

Q.9 Fill in the blank with the most appropriate choice.
Hard to believe that these people can justify and _____ such sickening behaviour!

Ans
✘ 1. scandalize
✔ 2. rationalize
✘ 3. essentialize
✘ 4. tantalize

Question Type : **MCQ**
Question ID : **264330135818**
Option 1 ID : **264330532144**
Option 2 ID : **264330532146**
Option 3 ID : **264330532145**
Option 4 ID : **264330532143**
Status : **Answered**
Chosen Option : **2**

Join Telegram Group "HaryanaJobs.in"

Q.10 **Choose the word that can substitute the given group of words.**
The science of foretelling events by mapping stars

Ans
1. Astrobiology ✗
2. Astrology ✓
3. Astrophysics ✗
4. Astronomy ✗

Question Type : **MCQ**
Question ID : **264330134412**
Option 1 ID : **264330526626**
Option 2 ID : **264330526624**
Option 3 ID : **264330526625**
Option 4 ID : **264330526623**
Status : **Answered**
Chosen Option : **2**

Q.11 **A sentence has been given with a blank to be filled with an appropriate option. Choose the correct alternative.**
I was always greeted _____ wherever I went in the country.

Ans
1. warm ✗
2. warmly ✓
3. warmth ✗
4. warming ✗

Question Type : **MCQ**
Question ID : **264330134327**
Option 1 ID : **264330526300**
Option 2 ID : **264330526301**
Option 3 ID : **264330526299**
Option 4 ID : **264330526302**
Status : **Answered**
Chosen Option : **2**

Q.12 Find the part of the given sentence that has an error in it. If there is no error, choose 'No error'.

Fires in California is sounding alarm bells that cannot be ignored.

Ans
1. that cannot be ignored. ✗
2. No error ✗
3. Fires in California is ✓
4. sounding alarm bells ✗

Question Type : **MCQ**
Question ID : **264330134823**
Option 1 ID : **264330528233**
Option 2 ID : **264330528234**
Option 3 ID : **264330528231**
Option 4 ID : **264330528232**
Status : **Answered**
Chosen Option : **3**

Join Telegram Group "HaryanaJobs.in"

Q.13 **Choose the sentence with no spelling error.**

Ans
✗ 1. Take it up, and write your own storry.
✗ 2. Take it up, and wrrite your own story.
✗ 3. Take it up, and writte your on story.
✓ 4. Take it up, and write your own story.

Question Type : **MCQ**
Question ID : **264330134343**
Option 1 ID : **264330526362**
Option 2 ID : **264330526360**
Option 3 ID : **264330526361**
Option 4 ID : **264330526359**
Status : **Answered**
Chosen Option : **4**

Q.14 **Choose the word that means the same as the given word.**
Appropriate

Ans
✓ 1. Competent
✗ 2. Polarize
✗ 3. Gentle
✗ 4. Informal

Question Type : **MCQ**
Question ID : **264330134363**
Option 1 ID : **264330526437**
Option 2 ID : **264330526438**
Option 3 ID : **264330526435**
Option 4 ID : **264330526436**
Status : **Answered**
Chosen Option : **1**

Q.15 Select the most appropriate synonym of the given word.

Contrite

Ans
✗ 1. persistent
✓ 2. remorseful
✗ 3. advertent
✗ 4. renitent

Question Type : **MCQ**
Question ID : **264330135809**
Option 1 ID : **264330532107**
Option 2 ID : **264330532110**
Option 3 ID : **264330532108**
Option 4 ID : **264330532109**
Status : **Answered**
Chosen Option : **2**

Join Telegram Group "HaryanaJobs.in"

Q.16 **In the following question, out of the given four alternatives, select the alternative which best expresses the meaning of the Idiom/Phrase.**
Pros and cons

Ans
✗ 1. Doubtful
✗ 2. To advance in harmony
✗ 3. Undecided on a topic
✓ 4. Arguments for and against something

Question Type : **MCQ**
Question ID : **264330134418**
Option 1 ID : **264330526647**
Option 2 ID : **264330526649**
Option 3 ID : **264330526648**
Option 4 ID : **264330526650**
Status : **Answered**
Chosen Option : **4**

Q.17 Select the most appropriate antonym of the given word.

Tangle

Ans
✗ 1. Coil
✓ 2. Simple
✗ 3. Jam
✗ 4. Labyrinth

Question Type : **MCQ**
Question ID : **264330136402**
Option 1 ID : **264330534372**
Option 2 ID : **264330534373**
Option 3 ID : **264330534374**
Option 4 ID : **264330534371**
Status : **Answered**
Chosen Option : **2**

Q.18 Select the correctly spelt word.

Ans
✗ 1. Minsculee
✗ 2. Manscule
✗ 3. Minusulle
✓ 4. Minuscule

Question Type : **MCQ**
Question ID : **264330135815**
Option 1 ID : **264330532133**
Option 2 ID : **264330532132**
Option 3 ID : **264330532134**
Option 4 ID : **264330532131**
Status : **Answered**
Chosen Option : **4**

Join Telegram Group "HaryanaJobs.in"

Q.19 Select the word segment that substitutes (replaces) the bracketed word segment correctly and completes the sentence meaningfully. Select the option 'no correction required' if the sentence is correct as given.

I received word that you (were attempting) to contact me.

Ans

✔ 1. No correction required

✘ 2. has attempting

✘ 3. was attempting

✘ 4. were strike

Question Type : **MCQ**
Question ID : **264330136616**
Option 1 ID : **264330535194**
Option 2 ID : **264330535193**
Option 3 ID : **264330535191**
Option 4 ID : **264330535192**
Status : **Answered**
Chosen Option : **1**

Q.20 Improve the underlined part of the sentence. Choose 'No improvement' as an answer if the sentence is grammatically correct.

The candidate win the voting by a narrow margin.

Ans

✘ 1. No improvement

✘ 2. win a vote

✔ 3. won the vote

✘ 4. wins the voted

Question Type : **MCQ**
Question ID : **264330134723**
Option 1 ID : **264330527850**
Option 2 ID : **264330527847**
Option 3 ID : **264330527848**
Option 4 ID : **264330527849**
Status : **Answered**
Chosen Option : **3**

Comprehension:

In the following passage some words have been deleted. Fill in the blanks with the help of the alternatives given. Select the most appropriate option for each number.

Were the stories we told each (1) _____ true? Who knows? At the best of (2) _____, a story is a slippery thing. (3) _____ no one had told us this (4) _____ one, though it was the tale we most (5) _____ to know.

SubQuestion No : 21

Q.21 Select the most appropriate option to fill in blank number 1.

Ans

✘ 1. of us

✘ 2. another

✔ 3. other

✘ 4. one other

Question Type : **MCQ**
Question ID : **264330136393**
Option 1 ID : **264330534335**
Option 2 ID : **264330534337**
Option 3 ID : **264330534336**
Option 4 ID : **264330534338**
Status : **Answered**
Chosen Option : **3**

Join Telegram Group "HaryanaJobs.in"

Comprehension:

In the following passage some words have been deleted. Fill in the blanks with the help of the alternatives given. Select the most appropriate option for each number.

Were the stories we told each (1) _____ true? Who knows? At the best of (2) _____, a story is a slippery thing. (3) _____ no one had told us this (4) _____ one, though it was the tale we most (5) _____ to know.

SubQuestion No : 22

Q.22 Select the most appropriate option to fill in blank number 2.

Ans

✔ 1. times

✘ 2. clock

✘ 3. schedule

✘ 4. time

Question Type : **MCQ**
Question ID : **264330136394**
Option 1 ID : **264330534342**
Option 2 ID : **264330534341**
Option 3 ID : **264330534340**
Option 4 ID : **264330534339**
Status : **Answered**
Chosen Option : **1**

Comprehension:

In the following passage some words have been deleted. Fill in the blanks with the help of the alternatives given. Select the most appropriate option for each number.

Were the stories we told each (1) _____ true? Who knows? At the best of (2) _____, a story is a slippery thing. (3) _____ no one had told us this (4) _____ one, though it was the tale we most (5) _____ to know.

SubQuestion No : 23

Q.23 Select the most appropriate option to fill in blank number 3.

Ans

✘ 1. Might be

✘ 2. May by

✘ 3. Could be

✔ 4. Certainly

Question Type : **MCQ**
Question ID : **264330136395**
Option 1 ID : **264330534346**
Option 2 ID : **264330534344**
Option 3 ID : **264330534345**
Option 4 ID : **264330534343**
Status : **Answered**
Chosen Option : **4**

Join Telegram Group "HaryanaJobs.in"

Comprehension:

In the following passage some words have been deleted. Fill in the blanks with the help of the alternatives given. Select the most appropriate option for each number.

Were the stories we told each (1) _____ true? Who knows? At the best of (2) _____, a story is a slippery thing. (3) _____ no one had told us this (4) _____ one, though it was the tale we most (5) _____ to know.

SubQuestion No : 24

Q.24 Select the most appropriate option to fill in blank number 4.

Ans

✗ 1. accurate

✗ 2. especial

✗ 3. in particular

✓ 4. particular

Question Type : **MCQ**
Question ID : **264330136396**
Option 1 ID : **264330534348**
Option 2 ID : **264330534350**
Option 3 ID : **264330534347**
Option 4 ID : **264330534349**
Status : **Answered**
Chosen Option : **4**

Comprehension:

In the following passage some words have been deleted. Fill in the blanks with the help of the alternatives given. Select the most appropriate option for each number.

Were the stories we told each (1) _____ true? Who knows? At the best of (2) _____, a story is a slippery thing. (3) _____ no one had told us this (4) _____ one, though it was the tale we most (5) _____ to know.

SubQuestion No : 25

Q.25 Select the most appropriate option to fill in blank number 5.

Ans

✗ 1. require

✓ 2. needed

✗ 3. concern

✗ 4. had

Question Type : **MCQ**
Question ID : **264330136397**
Option 1 ID : **264330534352**
Option 2 ID : **264330534353**
Option 3 ID : **264330534354**
Option 4 ID : **264330534351**
Status : **Answered**
Chosen Option : **4**

Join Telegram Group "HaryanaJobs.in"

Multi Tasking Non Technical Staff and Havaldar CBIC and CBN Examination 2022

Roll Number	HaryanaJobs.in
Candidate Name	HaryanaJobs.in
Venue Name	iON Digital Zone iDZ Kuberpur
Exam Date	19/05/2023
Exam Time	12:00 PM - 2:00 PM
Subject	MTS Non Tech Havaldar CBIC and CBN Examination 2022

Section : **Numerical and Mathematical Ability**

Q.1 A woman drives a car. During her journey, she travels 20 minutes at a speed of 60 km/hr, another 30 minutes at a speed of 40 km/hr and 1 hour at a speed of 50 km/hr. The average speed of the car is:

Ans

✗ 1. 630/11 kmph

✗ 2. 100/11 kmph

✗ 3. 90/11 kmph

✓ 4. 540/11 kmph

Question Type : **MCQ**
Question ID : **264330138360**
Option 1 ID : **264330542050**
Option 2 ID : **264330542049**
Option 3 ID : **264330542048**
Option 4 ID : **264330542047**
Status : **Answered**
Chosen Option : **4**

Q.2 एक वस्तु का विक्रय मूल्य Rs.520 है। यदि हानि प्रतिशत 20 प्रतिशत है, तो वस्तु का क्रय मूल्य क्या है?

Ans

✗ 1. Rs.700

✓ 2. Rs.650

✗ 3. Rs.720

✗ 4. Rs.600

Question Type : **MCQ**
Question ID : **264330139082**
Option 1 ID : **264330544938**
Option 2 ID : **264330544936**
Option 3 ID : **264330544937**
Option 4 ID : **264330544935**
Status : **Answered**
Chosen Option : **2**

Join Telegram Group "HaryanaJobs.in"

Q.3 पानी की एक निश्चित मात्रा को Rs. 48 प्रति लीटर मूल्य वाले दूध के साथ मिलाया जाता है। इस मिश्रण का मूल्य Rs. 30 प्रति लीटर है। नए मिश्रण में पानी और दूध का अनुपात _____ है।(पानी मुफ्त में उपलब्ध है)

Ans
✗ 1. 2:3
✗ 2. 3:2
✗ 3. 2:5
✓ 4. 3:5

Question Type : **MCQ**
Question ID : **264330135112**
Option 1 ID : **264330529385**
Option 2 ID : **264330529383**
Option 3 ID : **264330529384**
Option 4 ID : **264330529386**
Status : **Answered**
Chosen Option : **4**

Q.4 एक फल विक्रेता फलों के 2/5 भाग को 10% के लाभ पर और शेष को 5% की हानि पर बेचता है। यदि कुल लाभ Rs. 1850 है, तो फलों का कुल क्रय मूल्य कितना है?

Ans
✗ 1. Rs.176000
✓ 2. Rs.185000
✗ 3. Rs.198000
✗ 4. Rs.205000

Question Type : **MCQ**
Question ID : **264330138354**
Option 1 ID : **264330542026**
Option 2 ID : **264330542023**
Option 3 ID : **264330542025**
Option 4 ID : **264330542024**
Status : **Answered**
Chosen Option : **2**

Q.5 निम्नलिखित तालिका में चार वर्षों में विभिन्न देशों में इंजीनियरों की संख्या (सैकड़ों में) को दर्शाया गया है।

दिए गए वर्षों में कनाडा में इंजीनियरों की औसत संख्या ज्ञात कीजिए।

Year	China	Canada	India
2019	210	120	240
2020	420	320	360
2021	540	180	540
2022	620	280	340

Year - वर्ष, China - चीन, Canada - कनाडा, India - भारत

Ans
✗ 1. 23000
✗ 2. 25000
✗ 3. 24500
✓ 4. 22500

Question Type : **MCQ**
Question ID : **264330138385**
Option 1 ID : **264330542149**
Option 2 ID : **264330542147**
Option 3 ID : **264330542150**
Option 4 ID : **264330542148**
Status : **Answered**
Chosen Option : **4**

Join Telegram Group "HaryanaJobs.in"

Q.6 P अकेले एक कार्य को 25 दिनों में पूरा कर सकता है और Q अकेले उसी कार्य को 50 दिनों में पूरा कर सकता है। यदि वे दोनों साथ मिलकर कार्य करें, तो 12 दिनों में कुल कार्य का कितना प्रतिशत कार्य पूरा होगा?

Ans

✗ 1. 60 प्रतिशत

✓ 2. 72 प्रतिशत

✗ 3. 48 प्रतिशत

✗ 4. 80 प्रतिशत

Question Type : **MCQ**
Question ID : **264330138015**
Option 1 ID : **264330540670**
Option 2 ID : **264330540669**
Option 3 ID : **264330540667**
Option 4 ID : **264330540668**
Status : **Answered**
Chosen Option : **2**

Q.7 निम्नलिखित दंड आलेख में पाँच अलग-अलग विद्यालयों से एक परीक्षा में बैठने वाले छात्रों की कुल संख्या को दर्शाया गया है। परीक्षा में बैठने वाले कुल छात्रों में से लगभग कितने प्रतिशत अनुत्तीर्ण हुए हैं?

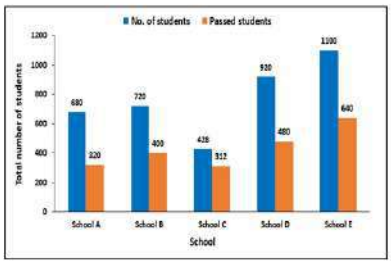

total number of students - छात्रों की कुल संख्या

number of students - छात्रों की संख्या

School - विद्यालय

Ans

✗ 1. 57%

✗ 2. 54%

✗ 3. 47%

✓ 4. 44%

Question Type : **MCQ**
Question ID : **264330138364**
Option 1 ID : **264330542066**
Option 2 ID : **264330542065**
Option 3 ID : **264330542064**
Option 4 ID : **264330542063**
Status : **Answered**
Chosen Option : **4**

Join Telegram Group "HaryanaJobs.in"

Q.8 Rs. 900 की धनराशि को दो भागों में इस प्रकार बाँटा जाता है कि पहले भाग पर 4% वार्षिक साधारण ब्याज और दूसरे भाग पर 2% वार्षिक साधारण ब्याज दर समान है। एक वर्ष में प्रत्येक भाग पर संचित ब्याज कितना है?

Ans
✔ 1. Rs. 12
✘ 2. Rs. 6
✘ 3. Rs. 20
✘ 4. Rs. 18

Question Type : **MCQ**
Question ID : **264330135120**
Option 1 ID : **264330529416**
Option 2 ID : **264330529415**
Option 3 ID : **264330529417**
Option 4 ID : **264330529418**
Status : **Answered**
Chosen Option : **1**

Q.9 एक शंकु और एक बेलन की ऊँचाई समान है और शंकु की त्रिज्या बेलन की त्रिज्या की दोगुनी है। शंकु के आयतन और बेलन के आयतन का अनुपात कितना है?

Ans
✔ 1. 4:3
✘ 2. 4:5
✘ 3. 2:5
✘ 4. 3:2

Question Type : **MCQ**
Question ID : **264330133815**
Option 1 ID : **264330524285**
Option 2 ID : **264330524283**
Option 3 ID : **264330524284**
Option 4 ID : **264330524286**
Status : **Answered**
Chosen Option : **1**

Q.10 $(9^2 + 4^3 \div 8) \times 5$ का मान ज्ञात कीजिए।

Ans
✘ 1. 400
✔ 2. 445
✘ 3. 450
✘ 4. 420

Question Type : **MCQ**
Question ID : **264330138369**
Option 1 ID : **264330542085**
Option 2 ID : **264330542084**
Option 3 ID : **264330542083**
Option 4 ID : **264330542086**
Status : **Answered**
Chosen Option : **2**

Join Telegram Group "HaryanaJobs.in"

Q.11 यदि एक रेलगाड़ी बैंगलोर से मुंबई तक 1000 km की यात्रा करती है और इस यात्रा में 10 घंटे लगते हैं, तो किलोमीटर प्रति घंटे (km per hour) में रेलगाड़ी की औसत चाल क्या है?

Ans
1. 90 km/hr
2. 120 km/hr
3. 80 km/hr
4. 100 km/hr

Question Type : **MCQ**
Question ID : **264330140997**
Option 1 ID : **264330552338**
Option 2 ID : **264330552335**
Option 3 ID : **264330552337**
Option 4 ID : **264330552336**
Status : **Answered**
Chosen Option : **4**

Q.12 विहान, मयूर से दोगुना कुशल है और मयूर से 14 दिन कम में किसी कार्य को पूरा कर सकता है। मयूर इस कार्य को कितने दिनों में पूरा कर सकता है?

Ans
1. 28 दिन
2. 21 दिन
3. 7 दिन
4. 14 दिन

Question Type : **MCQ**
Question ID : **264330133810**
Option 1 ID : **264330524265**
Option 2 ID : **264330524266**
Option 3 ID : **264330524264**
Option 4 ID : **264330524263**
Status : **Answered**
Chosen Option : **1**

Q.13 $(92 + 14) \div (2 \times 53) - 8 + 16$ का मान ज्ञात कीजिए।

Ans
1. 9
2. 17
3. 11
4. 8

Question Type : **MCQ**
Question ID : **264330138346**
Option 1 ID : **264330541992**
Option 2 ID : **264330541994**
Option 3 ID : **264330541993**
Option 4 ID : **264330541991**
Status : **Answered**
Chosen Option : **1**

Join Telegram Group "HaryanaJobs.in"

Q.14 दो संख्याओं का गुणनफल 6552 और उनका महत्तम समापवर्तक (HCF) 6 है। उन संख्याओं का लघुत्तम समापवर्त्य (LCM) कितना है?

Ans

✗ 1. 1024
✗ 2. 1224
✗ 3. 1084
✓ 4. 1092

Question Type : **MCQ**
Question ID : **264330138701**
Option 1 ID : **264330543413**
Option 2 ID : **264330543414**
Option 3 ID : **264330543411**
Option 4 ID : **264330543412**
Status : **Answered**
Chosen Option : **4**

Q.15 35 और एक निश्चित संख्या N के बीच का मध्यानुपाती, 14 और 30 के बीच के मध्यानुपाती का चार गुना है। संख्या N है:

Ans

✗ 1. 75
✓ 2. 192
✗ 3. 124
✗ 4. 92

Question Type : **MCQ**
Question ID : **264330138357**
Option 1 ID : **264330542035**
Option 2 ID : **264330542038**
Option 3 ID : **264330542037**
Option 4 ID : **264330542036**
Status : **Answered**
Chosen Option : **2**

Q.16 यदि एक कक्षा में लड़कों और लड़कियों का अनुपात 8:5 है, तो निम्न में से कौन-सा विकल्प उस कक्षा में छात्रों की कुल संख्या को दर्शाता है?

Ans

✓ 1. 78
✗ 2. 57
✗ 3. 66
✗ 4. 81

Question Type : **MCQ**
Question ID : **264330138356**
Option 1 ID : **264330542031**
Option 2 ID : **264330542034**
Option 3 ID : **264330542032**
Option 4 ID : **264330542033**
Status : **Answered**
Chosen Option : **1**

Join Telegram Group "HaryanaJobs.in"

Q.17 यदि एक पुस्तक के मूल्य में पहले 18% की वृद्धि की गई और फिर 18% की कमी की गई, तो पुस्तक के मूल्य में निवल परिवर्तन कितना हुआ?

Ans

✗ 1. 18% की कमी

✗ 2. कोई परिवर्तन नहीं हुआ

✗ 3. 18% की वृद्धि

✓ 4. 3.24% की कमी

Question Type : **MCQ**
Question ID : **264330135396**
Option 1 ID : **264330530492**
Option 2 ID : **264330530491**
Option 3 ID : **264330530494**
Option 4 ID : **264330530493**
Status : **Answered**
Chosen Option : **4**

Q.18 20 प्रेक्षणों का माध्य 42 था। बाद में यह पाया गया कि एक प्रेक्षण 54 को गलती से 45 मान लिया गया था। संशोधित नया माध्य है:

Ans

✗ 1. 45.42

✗ 2. 44.25

✓ 3. 42.45

✗ 4. 43.5

Question Type : **MCQ**
Question ID : **264330138349**
Option 1 ID : **264330542003**
Option 2 ID : **264330542006**
Option 3 ID : **264330542005**
Option 4 ID : **264330542004**
Status : **Answered**
Chosen Option : **3**

Q.19 Rs. X पर 7.5% वार्षिक दर पर 2 वर्षों के लिए चक्रवृद्धि ब्याज और साधारण ब्याज के बीच का अंतर Rs. 22.50 है। X का मान ज्ञात कीजिए।

Ans

✓ 1. Rs. 4000

✗ 2. Rs. 1900

✗ 3. Rs. 2000

✗ 4. Rs. 5000

Question Type : **MCQ**
Question ID : **264330135403**
Option 1 ID : **264330530521**
Option 2 ID : **264330530520**
Option 3 ID : **264330530519**
Option 4 ID : **264330530522**
Status : **Answered**
Chosen Option : **1**

Join Telegram Group "HaryanaJobs.in"

Q.20 पवन ने एक शर्ट खरीदी जिसका अंकित मूल्य Rs. 2200 है। शर्ट पर दिया जा रहा बट्टा 8% है। पवन को शर्ट का कितना मूल्य देना होगा?

Ans

✔ 1. Rs.2024

✗ 2. Rs.2099

✗ 3. Rs.2120

✗ 4. Rs.1999

Question Type : **MCQ**
Question ID : **264330138355**
Option 1 ID : **264330542028**
Option 2 ID : **264330542030**
Option 3 ID : **264330542027**
Option 4 ID : **264330542029**
Status : **Answered**
Chosen Option : **1**

Section : **Reasoning Ability and Problem Solving**

Q.1 निम्नलिखित प्रश्न में कुछ कथन दिए गए हैं और उन कथनों के आधार पर कुछ निष्कर्ष दिए गए हैं। आपको यह मानना है कि दिए गए कथन सत्य हैं चाहे वे समान्यतः ज्ञात तथ्यों से अलग प्रतीत होते हों। सभी निष्कर्षों को पढ़िए और फिर निश्चय कीजिए कि दिए गए निष्कर्षों में से कौन-सा निष्कर्ष तार्किक रूप से दिए गए कथनों के अनुसार है।

कथन:

I. सभी A, G हैं।

II. कुछ M, G हैं।

निष्कर्ष:

I. कुछ G, A हैं।

II. कुछ G, M हैं।

III. सभी M, A हैं।

Ans

✗ 1. दोनों निष्कर्ष I और III कथनों के अनुसार हैं

✗ 2. सभी निष्कर्ष कथनों के अनुसार हैं

✗ 3. केवल निष्कर्ष II कथनों के अनुसार है

✔ 4. दोनों निष्कर्ष I और II कथनों के अनुसार हैं

Question Type : **MCQ**
Question ID : **264330138467**
Option 1 ID : **264330542477**
Option 2 ID : **264330542476**
Option 3 ID : **264330542475**
Option 4 ID : **264330542478**
Status : **Answered**
Chosen Option : **4**

Join Telegram Group "HaryanaJobs.in"

Q.2 एक निश्चित कूट भाषा में, 'KG' को 'MJ' लिखा जाता है। उस भाषा में 'EI' को कैसे लिखा जाएगा?

Ans
1. JS
2. RS
3. GL
4. RJ

Question Type : **MCQ**
Question ID : **264330137587**
Option 1 ID : **264330538956**
Option 2 ID : **264330538958**
Option 3 ID : **264330538957**
Option 4 ID : **264330538955**
Status : **Answered**
Chosen Option : **3**

Q.3 एक निश्चित कूट भाषा में, 'MOVIES' को 'PRYFBP' लिखा जाता है। उस भाषा में 'JACKSY' को कैसे लिखा जाएगा?

Ans
1. MFDHPV
2. MDFHVP
3. MDFHPV
4. MDFVPH

Question Type : **MCQ**
Question ID : **264330137835**
Option 1 ID : **264330539948**
Option 2 ID : **264330539947**
Option 3 ID : **264330539950**
Option 4 ID : **264330539949**
Status : **Answered**
Chosen Option : **3**

Q.4 एक श्रृंखला दी गई है जिसमें एक पद लुप्त है। दिए गए विकल्पों में से उस सही विकल्प को चुनिए जो श्रृंखला को पूरा करेगा।

PAKC, NDIF, LGGI, JJEL, ?

Ans
1. HNCO
2. HMCP
3. IMLO
4. HMCO

Question Type : **MCQ**
Question ID : **264330138456**
Option 1 ID : **264330542433**
Option 2 ID : **264330542434**
Option 3 ID : **264330542431**
Option 4 ID : **264330542432**
Status : **Answered**
Chosen Option : **4**

Join Telegram Group "HaryanaJobs.in"

Q.5 उस विकल्प को चुनिए जो पाँचवें पद से ठीक उसी प्रकार संबंधित है जिस प्रकार दूसरा पद पहले पद से संबंधित है और चौथा पद तीसरे पद से संबंधित है।

MOL : TIQ :: FIG : MCL :: HAK : ?

Ans
✗ 1. PVP
✗ 2. OVP
✗ 3. PUQ
✓ 4. OUP

Question Type : **MCQ**
Question ID : **264330138459**
Option 1 ID : **264330542446**
Option 2 ID : **264330542444**
Option 3 ID : **264330542443**
Option 4 ID : **264330542445**
Status : **Answered**
Chosen Option : **4**

Q.6 उस विकल्प को चुनिए जो पाँचवें पद से ठीक उसी प्रकार संबंधित है जिस प्रकार दूसरा पद पहले पद से संबंधित है और चौथा पद तीसरे पद से संबंधित है।

HER : GCM :: TOP : SMK :: PIT : ?

Ans
✗ 1. OHO
✗ 2. QGP
✗ 3. OGQ
✓ 4. OGO

Question Type : **MCQ**
Question ID : **264330138458**
Option 1 ID : **264330542440**
Option 2 ID : **264330542439**
Option 3 ID : **264330542441**
Option 4 ID : **264330542442**
Status : **Answered**
Chosen Option : **4**

Join Telegram Group "HaryanaJobs.in"

Q.7 कौन-सी उत्तर आकृति प्रश्न आकृति में दिए गए पैटर्न को पूरा करेगी?

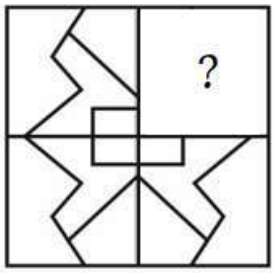

Ans

✗ 1.

✓ 2.

✗ 3.

✗ 4.

Question Type : **MCQ**
Question ID : **264330138476**
Option 1 ID : **264330542514**
Option 2 ID : **264330542513**
Option 3 ID : **264330542512**
Option 4 ID : **264330542511**
Status : **Answered**
Chosen Option : **2**

Join Telegram Group "HaryanaJobs.in"

Q.8 उस विकल्प को चुनिए जिसमें समुच्चय की संख्याएँ वही संबंध साझा करती हैं जो दिए गए समुच्चय में संख्याओं द्वारा साझा किया जाता है। (ध्यान दें: संख्याओं को उनके घटक अंकों में अलग-अलग किए बिना, पूर्ण संख्याओं पर संक्रियाएँ की जानी चाहिए। उदा. 13 - 13 पर संक्रियाएँ जैसे 13 को जोड़ना /घटाना /गुणा करना आदि किया जा सकता है। 13 को 1 और 3 में अलग-अलग करने की और फिर 1 और 3 पर गणितीय संक्रियाएँ करने की अनुमति नहीं है)

(80, 5, 16)

(90, 9, 10)

Ans

✔ 1. (140, 7, 20)

✘ 2. (40, 3, 10)

✘ 3. (200, 20, 25)

✘ 4. (50, 5, 20)

Question Type : **MCQ**
Question ID : **264330138471**
Option 1 ID : **264330542493**
Option 2 ID : **264330542491**
Option 3 ID : **264330542494**
Option 4 ID : **264330542492**
Status : **Answered**
Chosen Option : **1**

Join Telegram Group "HaryanaJobs.in"

Q.9 उस विकल्प आकृति को चुनिए जिसमें दी गई आकृति निहित है। (घूर्णन की अनुमति नहीं है)

Ans

✔ 1. 

✘ 2. 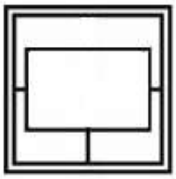

✘ 3.

✘ 4. 

Question Type : **MCQ**
Question ID : **264330138495**
Option 1 ID : **264330542587**
Option 2 ID : **264330542590**
Option 3 ID : **264330542589**
Option 4 ID : **264330542588**
Status : **Answered**
Chosen Option : **1**

Q.10 दी गई दो संख्याओं को आपस में बदलने पर, दिए गए समीकरण का मान क्या होगा?

2 और 3 ; 5 - 3 ÷ 1 × 2 + 7

Ans

✘ 1. 8

✔ 2. 6

✘ 3. 11

✘ 4. 9

Question Type : **MCQ**
Question ID : **264330138472**
Option 1 ID : **264330542496**
Option 2 ID : **264330542495**
Option 3 ID : **264330542498**
Option 4 ID : **264330542497**
Status : **Answered**
Chosen Option : **2**

Join Telegram Group "HaryanaJobs.in"

Q.11 यदि A का अर्थ 'जोड़', B का अर्थ 'गुणा', C का अर्थ 'घटाव' और D का अर्थ 'भाग'है, तो निम्नलिखित समीकरण का मान क्या होगा?
(46 D 23) A 17 C 13 = ?

Ans
1. 9
2. 13
3. 5
4. 6

Question Type : **MCQ**
Question ID : **264330135016**
Option 1 ID : **264330529002**
Option 2 ID : **264330529001**
Option 3 ID : **264330528999**
Option 4 ID : **264330529000**
Status : **Answered**
Chosen Option : **4**

Q.12 निम्नलिखित प्रश्न में, दी गई श्रृंखला में लुप्त संख्या को चुनिए।

9, 18, 36, 72, 144, ?

Ans
1. 290
2. 310
3. 280
4. 288

Question Type : **MCQ**
Question ID : **264330135606**
Option 1 ID : **264330531324**
Option 2 ID : **264330531325**
Option 3 ID : **264330531326**
Option 4 ID : **264330531323**
Status : **Answered**
Chosen Option : **4**

Q.13 सात शिक्षक अनिल, कमल, राम, संजय, आकाश, विवेक और राहुल एक वृत्ताकार मेज के चारों ओर केंद्र के विपरीत दिशा की ओर मुख करके बैठे हैं(परंतु जरूरी नहीं कि वे इसी क्रम में बैठें हों)। संजय, अनिल के ठीक दाईं ओर है। अनिल, राहुल के दाईं ओर से तीसरे स्थान पर है। विवेक, आकाश का निकटतम पड़ोसी नहीं है। कमल, विवेक के दाईं ओर से दूसरे स्थान पर है। अनिल के दाईं ओर से दूसरे स्थान पर कौन है?

Ans
1. कमल
2. संजय
3. विवेक
4. राम

Question Type : **MCQ**
Question ID : **264330138464**
Option 1 ID : **264330542463**
Option 2 ID : **264330542465**
Option 3 ID : **264330542466**
Option 4 ID : **264330542464**
Status : **Answered**
Chosen Option : **4**

Join Telegram Group "HaryanaJobs.in"

Q.14 उस विकल्प को चुनिए जो पाँचवी संख्या से ठीक उसी प्रकार संबंधित है जिस प्रकार दूसरी संख्या पहली संख्या से संबंधित है और चौथी संख्या तीसरी संख्या से संबंधित है।

9 : 727 :: 8 : 510 :: 4 : ?

Ans
1. 58
2. 60
3. 62
4. 67

Question Type : **MCQ**
Question ID : **264330135608**
Option 1 ID : **264330531331**
Option 2 ID : **264330531332**
Option 3 ID : **264330531333**
Option 4 ID : **264330531334**
Status : **Answered**
Chosen Option : **3**

Q.15 एक निश्चित कूट भाषा में, 'GLOBAL' को 'EJMZYJ' लिखा जाता है। उस कूट भाषा में 'HONEST' को कैसे लिखा जाएगा?

Ans
1. FMLDQR
2. FNLCQR
3. FMLCQR
4. FMLCQS

Question Type : **MCQ**
Question ID : **264330135565**
Option 1 ID : **264330531160**
Option 2 ID : **264330531159**
Option 3 ID : **264330531162**
Option 4 ID : **264330531161**
Status : **Answered**
Chosen Option : **3**

Q.16 छः बाइक T1, T2, T3, T4, T5 और T6 की चाल की तुलना की जाती है। T6 की चाल सिर्फ तीन बाइक से अधिक है। कोई भी दो बाइक की चाल समान नहीं है। T4 की चाल T2 से अधिक लेकिन T6 से कम है। T3 की चाल T5 से कम नहीं है। T2 की चाल सबसे कम नहीं है। किन बाइकों की चाल T4 से अधिक हो सकती है?

I. T3

II. T1

Ans
1. केवल II
2. I और II दोनों
3. केवल I
4. न तो I और न ही II

Question Type : **MCQ**
Question ID : **264330138465**
Option 1 ID : **264330542468**
Option 2 ID : **264330542469**
Option 3 ID : **264330542467**
Option 4 ID : **264330542470**
Status : **Answered**
Chosen Option : **2**

Join Telegram Group "HaryanaJobs.in"

Q.17 आठ लड़कियाँ मानसी, श्वेता, मोनिका, पायल, आरती, काजल, लक्ष्मी और रानी एक वृत्ताकार मेज के चारों ओर केंद्र की ओर मुख करके बैठी हैं(परंतु जरूरी नहीं कि वे इसी क्रम में बैठीं हों)। मानसी, श्वेता के दाईं ओर से तीसरे स्थान पर है। श्वेता, रानी के दाईं ओर से दूसरे स्थान पर है। काजल, पायल के दाईं ओर से चौथे स्थान पर है। पायल, रानी के ठीक बाईं ओर है। लक्ष्मी, रानी के बाईं ओर से दूसरे स्थान पर है। मोनिका, रानी और श्वेता दोनों की निकटतम पड़ोसी है। मोनिका के बाईं ओर से तीसरे स्थान पर कौन है?

Ans
✔ 1. लक्ष्मी
✘ 2. काजल
✘ 3. आरती
✘ 4. श्वेता

Question Type : **MCQ**
Question ID : **264330138463**
Option 1 ID : **264330542462**
Option 2 ID : **264330542461**
Option 3 ID : **264330542459**
Option 4 ID : **264330542460**
Status : **Answered**
Chosen Option : **1**

Q.18 निम्नलिखित प्रश्न में, दी गई श्रृंखला में लुप्त संख्या को चुनिए।

5, 9, 17, 33, 65, ?

Ans
✘ 1. 128
✘ 2. 140
✔ 3. 129
✘ 4. 130

Question Type : **MCQ**
Question ID : **264330138469**
Option 1 ID : **264330542484**
Option 2 ID : **264330542486**
Option 3 ID : **264330542485**
Option 4 ID : **264330542483**
Status : **Answered**
Chosen Option : **3**

Join Telegram Group "HaryanaJobs.in"

Q.19 यदि एक दर्पण को रेखा AB पर रखा जाए, तो दी गई विकल्प आकृतियों में से कौन-सी आकृति प्रश्न आकृति का सही प्रतिबिम्ब होगी?

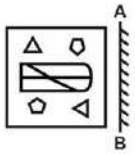

Ans

✗ 1.
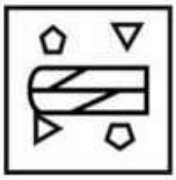

✗ 2.

✗ 3.

✓ 4.

Question Type : **MCQ**
Question ID : **264330138496**
Option 1 ID : **264330542594**
Option 2 ID : **264330542592**
Option 3 ID : **264330542593**
Option 4 ID : **264330542591**
Status : **Answered**
Chosen Option : **4**

Join Telegram Group "HaryanaJobs.in"

Q.20 निम्नलिखित प्रश्न में कुछ कथन दिए गए हैं और उन कथनों के आधार पर कुछ निष्कर्ष दिए गए हैं। आपको यह मानना है कि दिए गए कथन सत्य हैं चाहे वे समान्यतः ज्ञात तथ्यों से अलग प्रतीत होते हों। सभी निष्कर्षों को पढ़िए और फिर निश्चय कीजिए कि दिए गए निष्कर्षों में से कौन-सा निष्कर्ष तार्किक रूप से दिए गए कथनों के अनुसार है।

कथन:

I. कुछ R, Q हैं।

II. सभी Q, G हैं।

निष्कर्ष:

I. सभी G, R हैं।

II. कोई Q, R नहीं है।

Ans

✔ 1. कोई भी निष्कर्ष कथनों के अनुसार नहीं है

✘ 2. केवल निष्कर्ष I कथनों के अनुसार है

✘ 3. दोनों निष्कर्ष I और II कथनों के अनुसार हैं

✘ 4. केवल निष्कर्ष II कथनों के अनुसार है

Question Type : **MCQ**
Question ID : **264330138466**
Option 1 ID : **264330542474**
Option 2 ID : **264330542471**
Option 3 ID : **264330542473**
Option 4 ID : **264330542472**
Status : **Answered**
Chosen Option : **1**

Section : **General Awareness**

Q.1 किस नर्तक को प्राचीन नृत्य शैली 'सादिर (Sathir)' के लिए कला वर्ग में पद्म श्री से सम्मानित किया गया था?

Ans

✘ 1. तृप्ति तिवारी (Tripti Tiwari)

✘ 2. कौशल्या रेड्डी (Kaushalya Reddy)

✘ 3. मंजम्मा जोगती (Manjamma Jogati)

✔ 4. आर मुथुकन्नमल (R Muthukannamal)

Question Type : **MCQ**
Question ID : **264330137780**
Option 1 ID : **264330539729**
Option 2 ID : **264330539727**
Option 3 ID : **264330539730**
Option 4 ID : **264330539728**
Status : **Not Answered**
Chosen Option : **--**

Join Telegram Group "HaryanaJobs.in"

Q.2 निम्नलिखित में से किस राज्य के मुख्यमंत्री ने किसानों के लिए ऋण सुविधा आसान बनाने के लिए सामान्य क्रेडिट पोर्टल - सिम्प्लिफाइड एप्लीकेशन फॉर एग्रीकल्चरल लोन्स (Simplified Application for Agricultural Loans - SAFAL) की शुरूआत की है?

Ans
1. महाराष्ट्र ✗
2. उड़ीसा ✓
3. बिहार ✗
4. पश्चिम बंगाल ✗

Question Type : **MCQ**
Question ID : **264330138221**
Option 1 ID : **264330541491**
Option 2 ID : **264330541492**
Option 3 ID : **264330541493**
Option 4 ID : **264330541494**
Status : **Not Answered**
Chosen Option : **--**

Q.3 संस्कृत भाषा _____ भाषा-परिवार का हिस्सा है।

Ans
1. भारत-तिब्बती (Indo-Tibetan) ✗
2. भारत-द्रविड़ (Indo-Dravadian) ✗
3. भारत-एशियाई (Indo-Asian) ✗
4. भारत- यूरोपीय (Indo-European) ✓

Question Type : **MCQ**
Question ID : **264330138267**
Option 1 ID : **264330541678**
Option 2 ID : **264330541677**
Option 3 ID : **264330541676**
Option 4 ID : **264330541675**
Status : **Answered**
Chosen Option : **2**

Q.4 भारतीय संविधान का अनुच्छेद 19-22 निम्नलिखित में से किस मौलिक अधिकार से संबंधित है?

Ans
1. स्वतंत्रता का अधिकार ✓
2. धार्मिक स्वतंत्रता का अधिकार ✗
3. समानता का अधिकार ✗
4. शोषण के विरुद्ध अधिकार ✗

Question Type : **MCQ**
Question ID : **264330138241**
Option 1 ID : **264330541572**
Option 2 ID : **264330541574**
Option 3 ID : **264330541571**
Option 4 ID : **264330541573**
Status : **Answered**
Chosen Option : **1**

Join Telegram Group "HaryanaJobs.in"

Q.5 डेटा संरक्षण विधेयक 2021 किस मौलिक अधिकार को सुनिश्चित करता है?

Ans
1. शिक्षा के अधिकार
2. सूचना प्रौद्योगिकी के अधिकार
3. गोपनीयता के अधिकार
4. अभिव्यक्ति की आजादी के अधिकार

Question Type : **MCQ**
Question ID : **264330134670**
Option 1 ID : **264330527635**
Option 2 ID : **264330527637**
Option 3 ID : **264330527636**
Option 4 ID : **264330527638**
Status : **Answered**
Chosen Option : **3**

Q.6 इल्बर्ट बिल (Ilbert Bill) में, _____ का प्रावधान किया गया था ।

Ans
1. राष्ट्रवादी को कड़ी सजा
2. शिक्षा प्रणाली में सुधार
3. सैन्य प्रणाली में सुधार
4. ब्रिटिश और भारतीय न्यायाधीशों के बीच समानता

Question Type : **MCQ**
Question ID : **264330138270**
Option 1 ID : **264330541687**
Option 2 ID : **264330541689**
Option 3 ID : **264330541690**
Option 4 ID : **264330541688**
Status : **Answered**
Chosen Option : **2**

Q.7 भारत अपनी अधिकांश पश्चिमी सीमा किस पड़ोसी देश के साथ साझा करता है?

Ans
1. पाकिस्तान
2. भूटान
3. चीन
4. म्यांमार

Question Type : **MCQ**
Question ID : **264330135446**
Option 1 ID : **264330530691**
Option 2 ID : **264330530692**
Option 3 ID : **264330530693**
Option 4 ID : **264330530694**
Status : **Answered**
Chosen Option : **4**

Join Telegram Group "HaryanaJobs.in"

Q.8 कोबी ब्रायंट _____ खेल के प्रसिद्ध खिलाड़ी थे।

Ans
1. बास्केटबॉल ✔
2. लॉन टेनिस ✘
3. क्रिकेट ✘
4. रग्बी ✘

Question Type : **MCQ**
Question ID : **264330135482**
Option 1 ID : **264330530838**
Option 2 ID : **264330530837**
Option 3 ID : **264330530835**
Option 4 ID : **264330530836**
Status : **Not Answered**
Chosen Option : **--**

Q.9 मध्यप्रदेश का गांधीसागर बांध निम्नलिखित में से किस नदी पर बना है?

Ans
1. कावेरी ✘
2. चंबल ✔
3. बनास ✘
4. रावि ✘

Question Type : **MCQ**
Question ID : **264330138231**
Option 1 ID : **264330541533**
Option 2 ID : **264330541532**
Option 3 ID : **264330541534**
Option 4 ID : **264330541531**
Status : **Answered**
Chosen Option : **2**

Q.10 केलुचरण महापात्र निम्नलिखित में से किस नृत्य शैली से संबंधित एक जानी-मानी शख़्सियत हैं?

Ans
1. मणिपुरी ✘
2. ओडिसी ✔
3. कथक ✘
4. छऊ ✘

Question Type : **MCQ**
Question ID : **264330138223**
Option 1 ID : **264330541501**
Option 2 ID : **264330541499**
Option 3 ID : **264330541502**
Option 4 ID : **264330541500**
Status : **Answered**
Chosen Option : **2**

Join Telegram Group "HaryanaJobs.in"

Q.11 निम्नलिखित में से कौन-सा वनस्पति जगत, लिवरवर्ट (liverworts) और मॉस (mosses) में विभाजित हैं?

Ans
1. स्पर्मटोफाइटा (Spermatophyta)
2. स्फीनोप्सिडा (Sphenopsida)
3. टेरिडोफाइटा (Pteridophytes)
4. ब्रायोफ्राइटा (Bryophytes)

Question Type : **MCQ**
Question ID : **264330138227**
Option 1 ID : **264330541517**
Option 2 ID : **264330541518**
Option 3 ID : **264330541516**
Option 4 ID : **264330541515**
Status : **Answered**
Chosen Option : **4**

Q.12 Which among the following occur when two tectonic plates are moving past each other with different speeds?

Ans
1. Blizzard
2. Drought
3. Hurricane
4. Earthquake

Question Type : **MCQ**
Question ID : **264330135467**
Option 1 ID : **264330530778**
Option 2 ID : **264330530777**
Option 3 ID : **264330530776**
Option 4 ID : **264330530775**
Status : **Answered**
Chosen Option : **4**

Q.13 निम्न में से कौन ओलंपिक पदक जीतने वाला पहला भारतीय और एशियाई टेनिस खिलाड़ी था?

Ans
1. लिएंडर पेस
2. पीवी सिंधु
3. पूरव राजा
4. अंकिता रैना

Question Type : **MCQ**
Question ID : **264330138243**
Option 1 ID : **264330541580**
Option 2 ID : **264330541579**
Option 3 ID : **264330541581**
Option 4 ID : **264330541582**
Status : **Answered**
Chosen Option : **2**

Join Telegram Group "HaryanaJobs.in"

Q.14 भारत के किसी राज्य के राज्यपाल के रूप में नियुक्त होने के इच्छुक व्यक्ति की न्यूनतम आयु कितनी होनी चाहिए?

Ans
1. 28 साल
2. 30 साल
3. 40 साल
4. 35 साल

Question Type : **MCQ**
Question ID : **264330138242**
Option 1 ID : **264330541577**
Option 2 ID : **264330541576**
Option 3 ID : **264330541578**
Option 4 ID : **264330541575**
Status : **Answered**
Chosen Option : **4**

Q.15 नाबार्ड (NABARD), 1982 में भारत सरकार द्वारा स्थापित एक शीर्ष वित्त संस्थान है। NABARD में 'R' का क्या अर्थ है?

Ans
1. रैंक (Rank)
2. रूरल (Rural)
3. रेगुलेटरी (Regulatory)
4. राईट (Right)

Question Type : **MCQ**
Question ID : **264330137785**
Option 1 ID : **264330539747**
Option 2 ID : **264330539748**
Option 3 ID : **264330539749**
Option 4 ID : **264330539750**
Status : **Answered**
Chosen Option : **2**

Q.16 एक आवेशित वस्तु द्वारा किसी दूसरी आवेशित अथवा अनावेशित वस्तु पर लगाया गया बल _____ कहलाता है।

Ans
1. स्थिरवैद्युत बल
2. दाब
3. कोणीय बल
4. पेशीय बल

Question Type : **MCQ**
Question ID : **264330135464**
Option 1 ID : **264330530763**
Option 2 ID : **264330530766**
Option 3 ID : **264330530765**
Option 4 ID : **264330530764**
Status : **Answered**
Chosen Option : **1**

Join Telegram Group "HaryanaJobs.in"

Q.17 निम्नलिखित में से कौन-सी वास्तुकला औरंगजेब की पत्नी दिलरास बानो बेगम का स्मारक है?

Ans
1. ताजमहल
2. जामा मस्जिद
3. शाह बेगम का मकबरा
4. बीबी का मकबरा

Question Type : **MCQ**
Question ID : **264330134673**
Option 1 ID : **264330527647**
Option 2 ID : **264330527648**
Option 3 ID : **264330527649**
Option 4 ID : **264330527650**
Status : **Answered**
Chosen Option : **4**

Q.18 बृजभूषण काबरा का संबंध निम्नलिखित में से किस वाद्य यंत्र से है?

Ans
1. गिटार
2. वायलिन
3. बाँसुरी
4. शहनाई

Question Type : **MCQ**
Question ID : **264330138239**
Option 1 ID : **264330541564**
Option 2 ID : **264330541563**
Option 3 ID : **264330541566**
Option 4 ID : **264330541565**
Status : **Not Answered**
Chosen Option : **--**

Q.19 "ए ब्रीफ हिस्ट्री ऑफ टाइम (A Brief History of Time)" पुस्तक किसने लिखी है?

Ans
1. स्टीफन हॉकिंग (Stephen Hawking)
2. जॉन वाटसन (John Watson)
3. अल्बर्ट आइंस्टीन (Albert Einstein)
4. नील डेग्रसे टायसन (Neil Degrasse Tyson)

Question Type : **MCQ**
Question ID : **264330137778**
Option 1 ID : **264330539721**
Option 2 ID : **264330539720**
Option 3 ID : **264330539719**
Option 4 ID : **264330539722**
Status : **Answered**
Chosen Option : **1**

Join Telegram Group "HaryanaJobs.in"

Q.20 भारत का कौन-सा शहर चाय उद्योग से जुड़ा है?

Ans
1. मदुरै, तमिलनाडु
2. दार्जिलिंग, पश्चिम बंगाल
3. पानीपत, हरियाणा
4. अहमदाबाद, गुजरात

Question Type : **MCQ**
Question ID : **264330137770**
Option 1 ID : **264330539690**
Option 2 ID : **264330539688**
Option 3 ID : **264330539689**
Option 4 ID : **264330539687**
Status : **Answered**
Chosen Option : **2**

Q.21 अलीवर्दी खान के बाद _____ बंगाल का नवाब बना।

Ans
1. सरफराज़ खान
2. सिराजुद्दौला
3. शुजा-उद-दौला
4. मुर्शिद कुली खां

Question Type : **MCQ**
Question ID : **264330135473**
Option 1 ID : **264330530801**
Option 2 ID : **264330530800**
Option 3 ID : **264330530802**
Option 4 ID : **264330530799**
Status : **Answered**
Chosen Option : **2**

Q.22 निम्नलिखित में से कौन कोशिकाओं की खोज करने वाला पहला जीववैज्ञानी था?

Ans
1. रॉबर्ट हुक (Robert Hooke)
2. ग्रेगर मेंडल (Gregor Mendel)
3. चार्ल्स डार्विन (Charles Darwin)
4. रॉसलिंड फ्रेंक्लिन (Rosalind Franklin)

Question Type : **MCQ**
Question ID : **264330135466**
Option 1 ID : **264330530771**
Option 2 ID : **264330530773**
Option 3 ID : **264330530772**
Option 4 ID : **264330530774**
Status : **Answered**
Chosen Option : **1**

Join Telegram Group "HaryanaJobs.in"

Q.23 निम्नलिखित में से कौन-से कारक जनसंख्या के वितरण को प्रभावित करते हैं?

I. जलवायु (Climate)

II. मृदा (Soil)

III. भौगोलिक स्थिति (Topography)

IV. जल (Water)

Ans
✔ 1. I, II, III, और IV
✘ 2. I, III और IV
✘ 3. II और IV
✘ 4. I और III

Question Type : **MCQ**
Question ID : **264330138644**
Option 1 ID : **264330543186**
Option 2 ID : **264330543185**
Option 3 ID : **264330543184**
Option 4 ID : **264330543183**
Status : **Answered**
Chosen Option : **1**

Q.24 किस स्वतंत्रता संग्राम आंदोलन के दौरान महात्मा गांधी जी ने "करो या मरो (Do or Die)" का नारा दिया था?

Ans
✘ 1. असहयोग आंदोलन
✔ 2. भारत छोड़ो आंदोलन
✘ 3. खिलाफ़त आंदोलन
✘ 4. दांडी मार्च

Question Type : **MCQ**
Question ID : **264330134684**
Option 1 ID : **264330527693**
Option 2 ID : **264330527691**
Option 3 ID : **264330527692**
Option 4 ID : **264330527694**
Status : **Answered**
Chosen Option : **2**

Join Telegram Group "HaryanaJobs.in"

Q.25 हैलोवीन(Halloween) हर वर्ष _____ को मनाया जाता है।

Ans
1. 24 नवंबर
2. 1 अक्टूबर
3. 25 दिसंबर
4. 31 अक्टूबर

Question Type : **MCQ**
Question ID : **264330138247**
Option 1 ID : **264330541598**
Option 2 ID : **264330541597**
Option 3 ID : **264330541596**
Option 4 ID : **264330541595**
Status : **Answered**
Chosen Option : **3**

Section : **English Language and Comprehension**

Q.1 Select the most appropriate option to fill in the blank.

I often feel I am an _____, that I would be more at home at the turn of the century than today.

Ans
1. apathy
2. analogous
3. avarice
4. anachronism

Question Type : **MCQ**
Question ID : **264330136672**
Option 1 ID : **264330535409**
Option 2 ID : **264330535407**
Option 3 ID : **264330535410**
Option 4 ID : **264330535408**
Status : **Answered**
Chosen Option : **3**

Q.2 The statement below has been given with bracketed text. Select the option with correct Idiom for the bracketed text.

History certainly gives you (something to think about), doesn't it?

Ans
1. golden handshake
2. cup of Joe
3. food for thought
4. forty winks

Question Type : **MCQ**
Question ID : **264330136608**
Option 1 ID : **264330535160**
Option 2 ID : **264330535162**
Option 3 ID : **264330535161**
Option 4 ID : **264330535159**
Status : **Answered**
Chosen Option : **1**

Join Telegram Group "HaryanaJobs.in"

Q.3 Select the most appropriate word for the given group of words.

An inscription on or at a tomb or a grave

Ans
1. Ode ✗
2. Epitaph ✓
3. Imprint ✗
4. Carving ✗

Question Type : **MCQ**
Question ID : **264330136602**
Option 1 ID : **264330535135**
Option 2 ID : **264330535137**
Option 3 ID : **264330535136**
Option 4 ID : **264330535138**
Status : **Answered**
Chosen Option : **2**

Q.4 Identify the segment that contains a grammatical error. If there is no error, select 'No error'.

Sorry I will be late as a flight / has been delayed due / to bad weather.

Ans
1. Sorry I will be late as a flight ✓
2. No error ✗
3. to bad weather. ✗
4. has been delayed due ✗

Question Type : **MCQ**
Question ID : **264330136589**
Option 1 ID : **264330535087**
Option 2 ID : **264330535090**
Option 3 ID : **264330535089**
Option 4 ID : **264330535088**
Status : **Answered**
Chosen Option : **1**

Q.5 Fill in the blank with the most appropriate option.

Even the rules for spelling can cause you to _____.

Ans
1. happen a mistake ✗
2. have a mistake ✗
3. do a mistake ✗
4. make a mistake ✓

Question Type : **MCQ**
Question ID : **264330136637**
Option 1 ID : **264330535272**
Option 2 ID : **264330535274**
Option 3 ID : **264330535271**
Option 4 ID : **264330535273**
Status : **Answered**
Chosen Option : **4**

Join Telegram Group "HaryanaJobs.in"

Q.6 Select the most appropriate option to substitute the bracketed segment in the given sentence. If there is no need to substitute it, select 'no substitution required'.

The Bank of New York has increased (interest rates four times from last January.)

Ans

✗ 1. interest rates from last January, four times.

✗ 2. No substitution required

✗ 3. the interest rates four time from last January.

✓ 4. interest rates four times since last January.

Question Type : **MCQ**
Question ID : **264330136721**
Option 1 ID : **264330535597**
Option 2 ID : **264330535598**
Option 3 ID : **264330535595**
Option 4 ID : **264330535596**
Status : **Answered**
Chosen Option : **2**

Q.7 Four sentences are given, out of which three have spelling errors. Choose the sentence with all correctly spelt words.

Ans

✗ 1. He was arrested for drunkeness on his way to the football ground.

✗ 2. A dumbbell is a short bar with weigts on either side.

✓ 3. His performance exceeded all expectations.

✗ 4. He was quite humorus, and I liked that about him

Question Type : **MCQ**
Question ID : **264330136636**
Option 1 ID : **264330535267**
Option 2 ID : **264330535269**
Option 3 ID : **264330535268**
Option 4 ID : **264330535270**
Status : **Answered**
Chosen Option : **3**

Q.8 Improve the underlined part of the sentence. Choose 'No improvement' as an answer if the sentence is grammatically correct.

The dress is <u>too tights</u> around the waist.

Ans

✗ 1. too tightly

✗ 2. No improvement

✗ 3. too tightest

✓ 4. too tight

Question Type : **MCQ**
Question ID : **264330135181**
Option 1 ID : **264330529657**
Option 2 ID : **264330529658**
Option 3 ID : **264330529655**
Option 4 ID : **264330529656**
Status : **Answered**
Chosen Option : **4**

Join Telegram Group "HaryanaJobs.in"

Q.9 **Find the part of the given sentence that has an error in it. If there is no error, choose 'No error'.**
There were a time when scientists took this myth seriously.

Ans
✗ 1. No error
✗ 2. when scientists took
✗ 3. this myth seriously.
✓ 4. There were a time

Question Type : **MCQ**
Question ID : **264330134451**
Option 1 ID : **264330526778**
Option 2 ID : **264330526776**
Option 3 ID : **264330526777**
Option 4 ID : **264330526775**
Status : **Answered**
Chosen Option : **4**

Q.10 In the following question, out of the given four alternatives, select the alternative which best expresses the meaning of the Idiom/Phrase.

In ones and twos

Ans
✗ 1. Large margin
✓ 2. In small numbers
✗ 3. By unfair means
✗ 4. To count resources

Question Type : **MCQ**
Question ID : **264330135224**
Option 1 ID : **264330529821**
Option 2 ID : **264330529822**
Option 3 ID : **264330529819**
Option 4 ID : **264330529820**
Status : **Answered**
Chosen Option : **2**

Q.11 Select the word from the options which is similar in meaning to the bracketed word given in the sentence below.

He maliciously (damaged) a car with a baseball bat.

Ans
✓ 1. Marred
✗ 2. Loaded
✗ 3. Corrupted
✗ 4. Mended

Question Type : **MCQ**
Question ID : **264330136656**
Option 1 ID : **264330535344**
Option 2 ID : **264330535345**
Option 3 ID : **264330535343**
Option 4 ID : **264330535346**
Status : **Answered**
Chosen Option : **4**

Join Telegram Group "HaryanaJobs.in"

Q.12 Identify the segment that contains a grammatical error. If there is no error, select 'No error'.
Here, in truth, lies / the crux of the / great problem of all.

Ans
✔ 1. great problem of all.
✘ 2. No error
✘ 3. the crux of the
✘ 4. Here, in truth, lies

Question Type : **MCQ**
Question ID : **264330136718**
Option 1 ID : **264330535585**
Option 2 ID : **264330535586**
Option 3 ID : **264330535584**
Option 4 ID : **264330535583**
Status : **Answered**
Chosen Option : **1**

Q.13 Select the word from the options which is exactly opposite in meaning to the bracketed word given in the sentence below.

Having an (active) youngster around the house can be quite wearing.

Ans
✘ 1. Streaming
✘ 2. Progressive
✔ 3. Abeyant
✘ 4. Bustling

Question Type : **MCQ**
Question ID : **264330136606**
Option 1 ID : **264330535152**
Option 2 ID : **264330535151**
Option 3 ID : **264330535153**
Option 4 ID : **264330535154**
Status : **Answered**
Chosen Option : **3**

Q.14 Four words are given, out of which only one word is spelt correctly. Choose the correctly spelt word.

Ans
✔ 1. APPARENT
✘ 2. PLEGE
✘ 3. AQUIRE
✘ 4. CALENDER

Question Type : **MCQ**
Question ID : **264330136609**
Option 1 ID : **264330535164**
Option 2 ID : **264330535166**
Option 3 ID : **264330535163**
Option 4 ID : **264330535165**
Status : **Answered**
Chosen Option : **2**

Join Telegram Group "HaryanaJobs.in"

Q.15 Choose the word that is opposite in meaning to the given word.

Hyped

Ans

✗ 1. Upped

✓ 2. Reduced

✗ 3. Dilate

✗ 4. Parlayed

Question Type : **MCQ**
Question ID : **264330134815**
Option 1 ID : **264330528199**
Option 2 ID : **264330528200**
Option 3 ID : **264330528202**
Option 4 ID : **264330528201**
Status : **Answered**
Chosen Option : **2**

Q.16 Fill in the blank with the most appropriate option.

She is _____, always submits her assignments on time.

Ans

✗ 1. tardy

✗ 2. scheduled

✗ 3. late

✓ 4. punctual

Question Type : **MCQ**
Question ID : **264330136612**
Option 1 ID : **264330535175**
Option 2 ID : **264330535176**
Option 3 ID : **264330535178**
Option 4 ID : **264330535177**
Status : **Answered**
Chosen Option : **4**

Q.17 Select the word segment that substitutes (replaces) the bracketed word segment correctly and completes the sentence meaningfully. Select the option 'no correction required' if the sentence is correct as given.

(Those Mount Everests) is Earth's highest mountain above sea level, located in the sub-range of the Himalayas.

Ans

✓ 1. Mount Everest

✗ 2. No correction required

✗ 3. The Mount Everest

✗ 4. A Mount Everest

Question Type : **MCQ**
Question ID : **264330136618**
Option 1 ID : **264330535199**
Option 2 ID : **264330535202**
Option 3 ID : **264330535200**
Option 4 ID : **264330535201**
Status : **Answered**
Chosen Option : **1**

Join Telegram Group "HaryanaJobs.in"

Q.18 Fill in the blank with the most appropriate option.

The story _____ me to make up fancy names for myself.

Ans
1. told
2. activated
3. inspired
4. declared

Question Type : **MCQ**
Question ID : **264330136593**
Option 1 ID : **264330535105**
Option 2 ID : **264330535106**
Option 3 ID : **264330535104**
Option 4 ID : **264330535103**
Status : **Answered**
Chosen Option : **3**

Q.19 Select the most appropriate synonym of the given word.

Opposite

Ans
1. Conspicuous
2. Noticeable
3. Similar
4. Antagonistic

Question Type : **MCQ**
Question ID : **264330136603**
Option 1 ID : **264330535141**
Option 2 ID : **264330535142**
Option 3 ID : **264330535140**
Option 4 ID : **264330535139**
Status : **Answered**
Chosen Option : **4**

Q.20 Choose the word that can substitute the given group of words.

A place for wrestling

Ans
1. Arena
2. Premise
3. Hangar
4. Cemetery

Question Type : **MCQ**
Question ID : **264330135218**
Option 1 ID : **264330529796**
Option 2 ID : **264330529798**
Option 3 ID : **264330529797**
Option 4 ID : **264330529795**
Status : **Answered**
Chosen Option : **1**

Join Telegram Group "HaryanaJobs.in"

Comprehension:

In the following passage some of the words have been deleted. Read the passage carefully and select the correct answer for the given blank out of the four alternatives.

Workers' compensation benefits in Pennsylvania should pay for your medical (1) _____ and a portion of your lost wages. However, you cannot be (2) _____ for pain and suffering or other non-financial damages that your illness or injury may (3) _____ you. A personal injury or wrongful death lawsuit, on the other hand, (4) _____ compensation for the ill worker or surviving family members. If someone (5) _____ your employer or a co-worker was to blame for your illness, you could pursue such a claim.

SubQuestion No : 21

Q.21 Select the most appropriate option to fill in blank number 1.

Ans

✔ 1. bills

✘ 2. rules

✘ 3. states

✘ 4. regulations

Question Type : **MCQ**
Question ID : **264330134806**
Option 1 ID : **264330528163**
Option 2 ID : **264330528165**
Option 3 ID : **264330528164**
Option 4 ID : **264330528166**
Status : **Answered**
Chosen Option : **1**

Comprehension:

In the following passage some of the words have been deleted. Read the passage carefully and select the correct answer for the given blank out of the four alternatives.

Workers' compensation benefits in Pennsylvania should pay for your medical (1) _____ and a portion of your lost wages. However, you cannot be (2) _____ for pain and suffering or other non-financial damages that your illness or injury may (3) _____ you. A personal injury or wrongful death lawsuit, on the other hand, (4) _____ compensation for the ill worker or surviving family members. If someone (5) _____ your employer or a co-worker was to blame for your illness, you could pursue such a claim.

SubQuestion No : 22

Q.22 Select the most appropriate option to fill in blank number 2.

Ans

✘ 1. signed

✘ 2. repudiated

✔ 3. paid

✘ 4. stiffed

Question Type : **MCQ**
Question ID : **264330134807**
Option 1 ID : **264330528169**
Option 2 ID : **264330528170**
Option 3 ID : **264330528168**
Option 4 ID : **264330528167**
Status : **Answered**
Chosen Option : **3**

Join Telegram Group "HaryanaJobs.in"

Comprehension:

In the following passage some of the words have been deleted. Read the passage carefully and select the correct answer for the given blank out of the four alternatives.

Workers' compensation benefits in Pennsylvania should pay for your medical (1) _____ and a portion of your lost wages. However, you cannot be (2) _____ for pain and suffering or other non-financial damages that your illness or injury may (3) _____ you. A personal injury or wrongful death lawsuit, on the other hand, (4) _____ compensation for the ill worker or surviving family members. If someone (5) _____ your employer or a co-worker was to blame for your illness, you could pursue such a claim.

SubQuestion No : 23

Q.23 Select the most appropriate option to fill in blank number 3.

Ans

✗ 1. has caused

✗ 2. causing

✓ 3. have caused

✗ 4. cause

Question Type : **MCQ**
Question ID : **264330134808**
Option 1 ID : **264330528172**
Option 2 ID : **264330528174**
Option 3 ID : **264330528173**
Option 4 ID : **264330528171**
Status : **Answered**
Chosen Option : **3**

Comprehension:

In the following passage some of the words have been deleted. Read the passage carefully and select the correct answer for the given blank out of the four alternatives.

Workers' compensation benefits in Pennsylvania should pay for your medical (1) _____ and a portion of your lost wages. However, you cannot be (2) _____ for pain and suffering or other non-financial damages that your illness or injury may (3) _____ you. A personal injury or wrongful death lawsuit, on the other hand, (4) _____ compensation for the ill worker or surviving family members. If someone (5) _____ your employer or a co-worker was to blame for your illness, you could pursue such a claim.

SubQuestion No : 24

Q.24 Select the most appropriate option to fill in blank number 4.

Ans

✗ 1. hovers

✓ 2. allows

✗ 3. boasts

✗ 4. hosts

Question Type : **MCQ**
Question ID : **264330134809**
Option 1 ID : **264330528175**
Option 2 ID : **264330528178**
Option 3 ID : **264330528176**
Option 4 ID : **264330528177**
Status : **Answered**
Chosen Option : **2**

Join Telegram Group "HaryanaJobs.in"

Comprehension:

In the following passage some of the words have been deleted. Read the passage carefully and select the correct answer for the given blank out of the four alternatives.

Workers' compensation benefits in Pennsylvania should pay for your medical (1) _____ and a portion of your lost wages. However, you cannot be (2) _____ for pain and suffering or other non-financial damages that your illness or injury may (3) _____ you. A personal injury or wrongful death lawsuit, on the other hand, (4) _____ compensation for the ill worker or surviving family members. If someone (5) _____ your employer or a co-worker was to blame for your illness, you could pursue such a claim.

SubQuestion No : 25

Q.25 Select the most appropriate option to fill in blank number 5.

Ans

✗ 1. beside

✗ 2. beyond

✗ 3. along

✓ 4. besides

Question Type : **MCQ**
Question ID : **264330134810**
Option 1 ID : **264330528179**
Option 2 ID : **264330528182**
Option 3 ID : **264330528180**
Option 4 ID : **264330528181**
Status : **Answered**
Chosen Option : **4**

Join Telegram Group "HaryanaJobs.in"

Multi Tasking Non Technical Staff and Havaldar CBIC and CBN Examination 2022

Roll Number	HaryanaJobs.in
Candidate Name	HaryanaJobs.in
Venue Name	Jaipur Engineering College
Exam Date	19/05/2023
Exam Time	3:30 PM - 5:00 PM
Subject	MTS Non Tech Havaldar CBIC and CBN Examination 2022

Section : **Numerical and Mathematical Ability**

Q.1 एक व्यक्ति 8 km/hr की चाल से चलते हुए एक निश्चित दूरी को 5 घंटे 30 मिनट में तय करता है। यदि वह समान दूरी साइकिल से 4 घंटे में तय करता है, तो साइकिल की चाल क्या है?

Ans

✔ 1. 11 km/hr

✘ 2. 15 km/hr

✘ 3. 9 km/hr

✘ 4. 8 km/hr

Question Type : **MCQ**
Question ID : **264330137625**
Option 1 ID : **264330539109**
Option 2 ID : **264330539110**
Option 3 ID : **264330539107**
Option 4 ID : **264330539108**
Status : **Answered**
Chosen Option : **1**

Join Telegram Group "HaryanaJobs.in"

Q.2 नीचे दिए गए वृत्त आलेख में 6 अलग-अलग वस्तुओं के मूल्य को दर्शाया गया है। इन सभी 6 वस्तुओं का कुल मूल्य Rs. 5760 है। इनमें से किसी एक विशिष्ट वस्तु के मूल्य को इन सभी 6 वस्तुओं के कुल मूल्य के सापेक्ष में डिग्री के रूप में दर्शाया गया है।

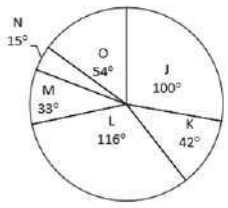

P1 = K और L के औसत मूल्य और J और N के औसत मूल्य के बीच का अंतर।

P2 = J, M, N और O का कुल मूल्य।

(P1 + P2) का मान क्या है?

Ans

✔ 1. 3576

✘ 2. 5426

✘ 3. 3232

✘ 4. 2426

Question Type : **MCQ**
Question ID : **264330137644**
Option 1 ID : **264330539185**
Option 2 ID : **264330539184**
Option 3 ID : **264330539183**
Option 4 ID : **264330539186**
Status : **Answered**
Chosen Option : **1**

Q.3 एक व्यक्ति ने अपनी बाइक 55% लाभ पर Rs. 18,600 में बेची। बाइक को किस मूल्य पर बेचने पर उसे 10% की हानि होगी?

Ans

✘ 1. Rs. 11,200

✘ 2. Rs. 15,000

✔ 3. Rs. 10,800

✘ 4. Rs. 16,600

Question Type : **MCQ**
Question ID : **264330138419**
Option 1 ID : **264330542285**
Option 2 ID : **264330542284**
Option 3 ID : **264330542283**
Option 4 ID : **264330542286**
Status : **Answered**
Chosen Option : **3**

Join Telegram Group "HaryanaJobs.in"

Q.4 एक व्यक्ति एक वस्तु को Rs. 325 में बेचकर 30 प्रतिशत का लाभ अर्जित करता है। 40 प्रतिशत का लाभ अर्जित करने के लिए उसे अपने विक्रय मूल्य में कितने प्रतिशत की वृद्धि करनी होगी?

Ans

✔ 1. 7.69 प्रतिशत

✘ 2. 6.66 प्रतिशत

✘ 3. 8.25 प्रतिशत

✘ 4. 5.25 प्रतिशत

Question Type : **MCQ**
Question ID : **264330137631**
Option 1 ID : **264330539133**
Option 2 ID : **264330539132**
Option 3 ID : **264330539134**
Option 4 ID : **264330539131**
Status : **Answered**
Chosen Option : **1**

Q.5 X और Y मिलकर किसी कार्य को 10 दिनों में कर सकते हैं। Y और Z मिलकर उसी कार्य को 15 दिनों में कर सकते हैं। Z और X मिलकर उसी कार्य को 12 दिनों में कर सकते हैं। Z अकेले उसी कार्य को कितने दिनों में कर सकता है?

Ans

✘ 1. 50 दिन

✘ 2. 80 दिन

✘ 3. 60 दिन

✔ 4. 40 दिन

Question Type : **MCQ**
Question ID : **264330137175**
Option 1 ID : **264330537346**
Option 2 ID : **264330537343**
Option 3 ID : **264330537345**
Option 4 ID : **264330537344**
Status : **Answered**
Chosen Option : **2**

Join Telegram Group "HaryanaJobs.in"

Q.6 नीचे दी गई तालिका में पाँच वस्तुओं की माँग और उत्पादन को दर्शाया गया है।

वस्तुएँ	माँग	उत्पादन
P	400	500
Q	450	650
R	250	550
S	150	850
T	850	1050

निम्नलिखित में से कौन-सा कथन सही है?

I. सभी वस्तुओं की औसत माँग का मान 420 है।

II. P और Q का कुल उत्पादन, S और T के कुल उत्पादन का 52.60 प्रतिशत है।

Ans
1. I और II दोनों
2. न तो I और न ही II
3. केवल I
4. केवल II

Question Type : **MCQ**
Question ID : **264330137643**
Option 1 ID : **264330539181**
Option 2 ID : **264330539182**
Option 3 ID : **264330539179**
Option 4 ID : **264330539180**
Status : **Answered**
Chosen Option : **3**

Q.7 $\frac{2.5\times2.5+0.3\times0.3+5\times0.3}{1.6\times1.6+0.6\times0.6-1.2\times1.6}$ का मान क्या है?

Ans
1. 7.64
2. 7.84
3. 8.64
4. 2.8

Question Type : **MCQ**
Question ID : **264330137642**
Option 1 ID : **264330539176**
Option 2 ID : **264330539178**
Option 3 ID : **264330539175**
Option 4 ID : **264330539177**
Status : **Answered**
Chosen Option : **2**

Join Telegram Group "HaryanaJobs.in"

Q.8 एक आयताकार फर्श का क्षेत्रफल 600 वर्ग फुट (square feet) है। यदि फर्श की लंबाई 30 फुट है, तो फर्श की चौड़ाई कितनी है?

Ans

✔ 1. 20 फीट

✘ 2. 60 फीट

✘ 3. 10 फीट

✘ 4. 30 फीट

Question Type : **MCQ**
Question ID : **264330133599**
Option 1 ID : **264330523419**
Option 2 ID : **264330523421**
Option 3 ID : **264330523422**
Option 4 ID : **264330523420**
Status : **Answered**
Chosen Option : **1**

Q.9 एक आयत की लंबाई और चौड़ाई के बीच का अंतर 40 मीटर है। यदि इसका परिमाप 96 मीटर है, तो आयत का क्षेत्रफल कितना होगा?

Ans

✔ 1. 176 $metre^2$

✘ 2. 254 $metre^2$

✘ 3. 110 $metre^2$

✘ 4. 152 $metre^2$

Question Type : **MCQ**
Question ID : **264330137190**
Option 1 ID : **264330537403**
Option 2 ID : **264330537406**
Option 3 ID : **264330537405**
Option 4 ID : **264330537404**
Status : **Answered**
Chosen Option : **4**

Q.10 सोनू और मोनू किसी काम को क्रमशः 8 दिनों और 12 दिनों में कर सकते हैं। यदि काम पूरा होने पर उन्हें Rs.8400 मिले, तो उसमें सोनू का हिस्सा कितना है?

Ans

✔ 1. Rs.5040

✘ 2. Rs.3480

✘ 3. Rs.2360

✘ 4. Rs.1680

Question Type : **MCQ**
Question ID : **264330133594**
Option 1 ID : **264330523401**
Option 2 ID : **264330523402**
Option 3 ID : **264330523400**
Option 4 ID : **264330523399**
Status : **Answered**
Chosen Option : **1**

Join Telegram Group "HaryanaJobs.in"

Q.11 तीन अंकों की वह सबसे छोटी संख्या कौन-सी है जिसे 2, 3 और 4 से भाग देने पर प्रत्येक स्थिति में शेषफल 1 बचता है?

Ans

1. 101 ✗
2. 109 ✓
3. 111 ✗
4. 105 ✗

Question Type : **MCQ**
Question ID : **264330137640**
Option 1 ID : **264330539168**
Option 2 ID : **264330539169**
Option 3 ID : **264330539167**
Option 4 ID : **264330539170**
Status : **Answered**
Chosen Option : **2**

Q.12 यदि प्याज की कीमत Rs.60/kg से बढ़कर Rs.75/kg हो जाती है, तो एक परिवार को प्याज की खपत में कितने प्रतिशत की कमी करनी होगी ताकि उनका खर्च अपरिवर्तित रहे?

Ans

1. 40 प्रतिशत ✗
2. 30 प्रतिशत ✗
3. 25 प्रतिशत ✗
4. 20 प्रतिशत ✓

Question Type : **MCQ**
Question ID : **264330139081**
Option 1 ID : **264330544934**
Option 2 ID : **264330544933**
Option 3 ID : **264330544931**
Option 4 ID : **264330544932**
Status : **Answered**
Chosen Option : **4**

Q.13 एक राशि साधारण ब्याज पर 4 प्रतिशत वार्षिक दर से 2 वर्ष में Rs.12960 हो जाती है। वह राशि क्या है?

Ans

1. Rs.11600 ✗
2. Rs.10000 ✗
3. Rs.12200 ✗
4. Rs.12000 ✓

Question Type : **MCQ**
Question ID : **264330139086**
Option 1 ID : **264330544952**
Option 2 ID : **264330544951**
Option 3 ID : **264330544954**
Option 4 ID : **264330544953**
Status : **Answered**
Chosen Option : **4**

Join Telegram Group "HaryanaJobs.in"

Q.14 दो संख्याओं का महत्तम समापवर्तक (HCF) और लघुत्तम समापवर्त्य (LCM) क्रमशः 20 और 2880 है। यदि उनमें से एक संख्या 180 है, तो दूसरी संख्या ज्ञात कीजिए?

Ans
1. 350
2. 300
3. 320
4. 660

Question Type : **MCQ**
Question ID : **264330141016**
Option 1 ID : **264330552411**
Option 2 ID : **264330552413**
Option 3 ID : **264330552414**
Option 4 ID : **264330552412**
Status : **Answered**
Chosen Option : **3**

Q.15 यदि a : b : c = 5 : 6 : 4, तो (a + b + c) : (3a + b - c) का मान क्या है?

Ans
1. 15 : 17
2. 18 : 19
3. 25 : 23
4. 18 : 23

Question Type : **MCQ**
Question ID : **264330137632**
Option 1 ID : **264330539135**
Option 2 ID : **264330539136**
Option 3 ID : **264330539137**
Option 4 ID : **264330539138**
Status : **Answered**
Chosen Option : **1**

Q.16 एक कार की औसत चाल 1500 मीटर/मिनट है। एक धावक (sprinter) 30 सेकंड में 200 मीटर की दूरी तय करता है। कार की चाल और धावक की चाल में कितना अंतर है?

Ans
1. (65/3) m/s
2. (54/11) m/s
3. (55/3) m/s
4. (64/3) m/s

Question Type : **MCQ**
Question ID : **264330138417**
Option 1 ID : **264330542278**
Option 2 ID : **264330542276**
Option 3 ID : **264330542275**
Option 4 ID : **264330542277**
Status : **Answered**
Chosen Option : **3**

Join Telegram Group "HaryanaJobs.in"

Q.17 एक व्यापारी ने Rs. 1800 के अंकित मूल्य वाले ट्रॉली बैग पर 30 प्रतिशत की छूट दी और 20 प्रतिशत का लाभ अर्जित किया। ट्रॉली बैग का क्रय मूल्य क्या है?

Ans

1. ✗ Rs. 1440
2. ✓ Rs. 1050
3. ✗ Rs. 1230
4. ✗ Rs. 1160

Question Type : **MCQ**
Question ID : **264330137636**
Option 1 ID : **264330539154**
Option 2 ID : **264330539151**
Option 3 ID : **264330539153**
Option 4 ID : **264330539152**
Status : **Answered**
Chosen Option : **2**

Q.18 5 और 29 के बीच की सभी सम संख्याओं का औसत क्या होगा?

Ans

1. ✗ 19
2. ✗ 14
3. ✓ 17
4. ✗ 22

Question Type : **MCQ**
Question ID : **264330137626**
Option 1 ID : **264330539112**
Option 2 ID : **264330539114**
Option 3 ID : **264330539113**
Option 4 ID : **264330539111**
Status : **Answered**
Chosen Option : **3**

Q.19 64 लीटर मिश्रण में ऐल्कोहॉल (alcohol) और पानी का अनुपात क्रमशः 1 : 3 है। इसमें से 32 लीटर मिश्रण को निकालकर उसके स्थान पर 16 लीटर पानी डाल दिया जाता है। ऐल्कोहॉल और पानी का नया अनुपात क्रमशः क्या है?

Ans

1. ✗ 5 : 12
2. ✗ 3 : 10
3. ✗ 2 : 7
4. ✓ 1 : 5

Question Type : **MCQ**
Question ID : **264330137633**
Option 1 ID : **264330539139**
Option 2 ID : **264330539140**
Option 3 ID : **264330539141**
Option 4 ID : **264330539142**
Status : **Answered**
Chosen Option : **4**

Join Telegram Group "HaryanaJobs.in"

Q.20 सुमित ने राम को Rs.5000, 2 वर्ष के लिए और मयूर को Rs.8000, 3 वर्ष के लिए समान ब्याज दर पर साधारण ब्याज पर ऋण पर दिए और उन दोनों से ब्याज के रूप में कुल Rs.1700 प्राप्त किए। वार्षिक ब्याज की दर क्या है?

Ans

✗ 1. 8% प्रति वर्ष

✓ 2. 5% प्रति वर्ष

✗ 3. 10% प्रति वर्ष

✗ 4. 4% प्रति वर्ष

Question Type : **MCQ**
Question ID : **264330133591**
Option 1 ID : **264330523388**
Option 2 ID : **264330523387**
Option 3 ID : **264330523390**
Option 4 ID : **264330523389**
Status : **Answered**
Chosen Option : **2**

Section : **Reasoning Ability and Problem Solving**

Q.1 तीन कथन दिए गए हैं और दो निष्कर्ष I और II दिए गए हैं। कथनों को सत्य मानते हुए, चाहे वे सामान्यतः ज्ञात तथ्यों से अलग प्रतीत होते हों, निश्चय कीजिए कि कौन-सा निष्कर्ष तार्किक रूप से कथनों के अनुसार है।

कथन:

सभी ईंटें, दीवार हैं।

कुछ सड़कें, दीवार हैं।

सभी पत्थर, दीवार हैं।

निष्कर्ष:

I. कुछ पत्थर, दीवारें हैं।

II. कुछ दीवारें, ईंटें हैं।

Ans

✓ 1. दोनों निष्कर्ष I और II कथनों के अनुसार हैं

✗ 2. सिर्फ निष्कर्ष I कथनों के अनुसार है

✗ 3. सिर्फ निष्कर्ष II कथनों के अनुसार है

✗ 4. निष्कर्ष I और II में से कोई भी कथनों के अनुसार नहीं है

Question Type : **MCQ**
Question ID : **264330137549**
Option 1 ID : **264330538805**
Option 2 ID : **264330538803**
Option 3 ID : **264330538804**
Option 4 ID : **264330538806**
Status : **Answered**
Chosen Option : **1**

Join Telegram Group "HaryanaJobs.in"

Q.2 दिए गए समीकरण को सही करने के लिए किन दो संख्याओं को आपस में बदला जाना चाहिए?
15 − 24 + 63 ÷ 7 × 2 = 9

Ans
1. 63 और 9
2. 24 और 9
3. 7 और 63
4. 63 और 24

Question Type : **MCQ**
Question ID : **264330137554**
Option 1 ID : **264330538825**
Option 2 ID : **264330538826**
Option 3 ID : **264330538823**
Option 4 ID : **264330538824**
Status : **Answered**
Chosen Option : **2**

Q.3 एक निश्चित कूट भाषा में, 'LORD' को '5409' लिखा जाता है, 'MODE' को '4685' लिखा जाता है, 'LOAD' को '5047' लिखा जाता है। उस कूट भाषा में 'M' को कैसे लिखा जाएगा?

Ans
1. 6
2. 5
3. 7
4. 4

Question Type : **MCQ**
Question ID : **264330138855**
Option 1 ID : **264330544028**
Option 2 ID : **264330544029**
Option 3 ID : **264330544030**
Option 4 ID : **264330544027**
Status : **Answered**
Chosen Option : **1**

Q.4 उस विकल्प को चुनिए जो तीसरे शब्द से ठीक उसी तरह संबंधित है जिस तरह दूसरा शब्द पहले शब्द से संबंधित है।
शिशु हत्या : शिशु :: पितृहत्या : ?

Ans
1. पति
2. माँ
3. पत्नी
4. पिता

Question Type : **MCQ**
Question ID : **264330137540**
Option 1 ID : **264330538770**
Option 2 ID : **264330538768**
Option 3 ID : **264330538769**
Option 4 ID : **264330538767**
Status : **Answered**
Chosen Option : **4**

Join Telegram Group "HaryanaJobs.in"

Q.5 छः व्यक्ति P, Q, R, S, T और U दो समानांतर पंक्तियों में इस प्रकार बैठे हैं कि उनमें से तीन उत्तर की ओर मुख करके एक पंक्ति में बैठे हैं और अन्य तीन दक्षिण की ओर मुख करके दूसरी पंक्ति में बैठे हैं। P का मुख दक्षिण की ओर है। U, R के सम्मुख बैठा है। R का मुख P के समान दिशा की ओर है। S का मुख दक्षिण की ओर नहीं है। T उत्तर की ओर मुख करके बैठा है लेकिन P के सम्मुख नहीं बैठा है। T के सम्मुख कौन बैठा है?

Ans
1. R ✗
2. S ✗
3. Q ✓
4. P ✗

Question Type : **MCQ**
Question ID : **264330137545**
Option 1 ID : **264330538788**
Option 2 ID : **264330538790**
Option 3 ID : **264330538789**
Option 4 ID : **264330538787**
Status : **Answered**
Chosen Option : **3**

Q.6 उस विकल्प को चुनिए जो छठी संख्या से ठीक उसी प्रकार संबंधित है जिस प्रकार पहली संख्या दूसरी संख्या से संबंधित है और तीसरी संख्या चौथी संख्या से संबंधित है।
8 : 72 :: 10 : 110 :: ? : 210

Ans
1. 14 ✓
2. 18 ✗
3. 12 ✗
4. 16 ✗

Question Type : **MCQ**
Question ID : **264330138864**
Option 1 ID : **264330544064**
Option 2 ID : **264330544066**
Option 3 ID : **264330544063**
Option 4 ID : **264330544065**
Status : **Answered**
Chosen Option : **1**

Q.7 निम्नलिखित प्रश्न में, दी गई श्रृंखला में लुप्त संख्या को चुनिए।
110, 131, 153, 176, 200, ?

Ans
1. 218 ✗
2. 224 ✗
3. 220 ✗
4. 225 ✓

Question Type : **MCQ**
Question ID : **264330138862**
Option 1 ID : **264330544057**
Option 2 ID : **264330544058**
Option 3 ID : **264330544055**
Option 4 ID : **264330544056**
Status : **Answered**
Chosen Option : **4**

Join Telegram Group "HaryanaJobs.in"

Q.8 दिए गए समीकरण को सही करने के लिए किन दो चिन्हों को आपस में बदला जाना चाहिए?

5 × 6 - 7 + 24 ÷ 12 = 35

Ans
1. + और =
2. + और -
3. × और -
4. = और -

Question Type : **MCQ**
Question ID : **264330133336**
Option 1 ID : **264330522379**
Option 2 ID : **264330522381**
Option 3 ID : **264330522382**
Option 4 ID : **264330522380**
Status : **Answered**
Chosen Option : **2**

Q.9 दो कथन दिए गए हैं और दो निष्कर्ष I और II दिए गए हैं। कथनों को सत्य मानते हुए, चाहे वे सामान्यतः ज्ञात तथ्यों से अलग प्रतीत होते हों, निश्चय कीजिए कि कौन-सा निष्कर्ष तार्किक रूप से कथनों के अनुसार है।

कथन:

कुछ फल, मीठे हैं।

सभी मीठे, खट्टे हैं।

निष्कर्ष:

I. कुछ फल, खट्टे हैं।

II. कुछ मीठे, फल नहीं हैं।

Ans
1. निष्कर्ष I और II में से कोई भी कथनों के अनुसार नहीं है
2. दोनों निष्कर्ष I और II कथनों के अनुसार हैं
3. सिर्फ निष्कर्ष I कथनों के अनुसार है
4. सिर्फ निष्कर्ष II कथनों के अनुसार है

Question Type : **MCQ**
Question ID : **264330137548**
Option 1 ID : **264330538802**
Option 2 ID : **264330538801**
Option 3 ID : **264330538799**
Option 4 ID : **264330538800**
Status : **Answered**
Chosen Option : **3**

Join Telegram Group "HaryanaJobs.in"

Q.10 छः मित्र अंशु, अमन, आदर्श, आकाश, अर्पित और अंकित एक पंक्ति में दक्षिण की ओर मुख करके बैठे हैं। अर्पित, आदर्श के ठीक दाईं ओर बैठा है। अंशु, अर्पित के दाईं ओर चौथे स्थान पर बैठा है। आकाश, अमन के बाईं ओर दूसरे स्थान पर बैठा है। अंशु के बाईं ओर दूसरे स्थान पर कौन बैठा है?

Ans
1. ✗ अमन
2. ✓ अंकित
3. ✗ आकाश
4. ✗ आदर्श

Question Type : **MCQ**
Question ID : **264330137546**
Option 1 ID : **264330538791**
Option 2 ID : **264330538793**
Option 3 ID : **264330538794**
Option 4 ID : **264330538792**
Status : **Answered**
Chosen Option : **2**

Q.11 एक निश्चित कूट भाषा में, 'BOIL' को '152' और 'HOT' को '129' लिखा जाता है। उस भाषा में 'HEATING' को कैसे लिखा जाएगा ?

Ans
1. ✗ 844
2. ✗ 484
3. ✗ 488
4. ✓ 448

Question Type : **MCQ**
Question ID : **264330134959**
Option 1 ID : **264330528774**
Option 2 ID : **264330528771**
Option 3 ID : **264330528772**
Option 4 ID : **264330528773**
Status : **Answered**
Chosen Option : **4**

Q.12 सात लड़कों M, N, O, P, Q, R और S के कद निम्न प्रकार दिए गए हैं। केवल एक लड़के का कद Q से छोटा है। S सबसे लंबा है। R, P से लंबा है लेकिन O से छोटा है। P का कद सबसे छोटा नहीं है। N का कद केवल एक लड़के से छोटा है। लड़कों में तीसरा सबसे लंबा कौन है?

Ans
1. ✓ O
2. ✗ R
3. ✗ P
4. ✗ N

Question Type : **MCQ**
Question ID : **264330137547**
Option 1 ID : **264330538796**
Option 2 ID : **264330538798**
Option 3 ID : **264330538795**
Option 4 ID : **264330538797**
Status : **Answered**
Chosen Option : **1**

Join Telegram Group "HaryanaJobs.in"

Q.13 उस विकल्प आकृति को चुनिए जिसमें दी गई आकृति इसके भाग के रूप में निहित है। (घूर्णन की अनुमति नहीं है)

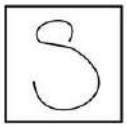

Ans

✗ 1. 

✗ 2. 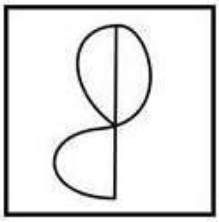

✗ 3. 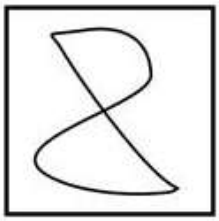

✓ 4. 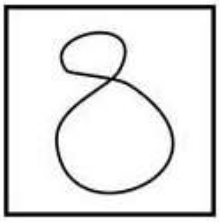

Question Type : **MCQ**
Question ID : **264330137556**
Option 1 ID : **264330538832**
Option 2 ID : **264330538834**
Option 3 ID : **264330538833**
Option 4 ID : **264330538831**
Status : **Answered**
Chosen Option : **4**

Q.14 एक निश्चित कूट भाषा में, 'ENERGY' को 'ZGSEOE' लिखा जाता है। उस कूट भाषा में 'FORMAL' को कैसे लिखा जाएगा?

Ans

✓ 1. MANRPF

✗ 2. BMAPRF

✗ 3. NFRPFL

✗ 4. NAMRPF

Question Type : **MCQ**
Question ID : **264330138567**
Option 1 ID : **264330542876**
Option 2 ID : **264330542877**
Option 3 ID : **264330542878**
Option 4 ID : **264330542875**
Status : **Answered**
Chosen Option : **1**

Join Telegram Group "HaryanaJobs.in"

Q.15 दी गई आकृति के उस सही दर्पण प्रतिबिंब को चुनिए, जो नीचे दर्शाए गए अनुसार दर्पण को AB पर रखने पर बनेगा।

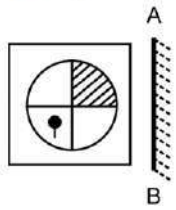

Ans

✗ 1.

✗ 2.

✓ 3.

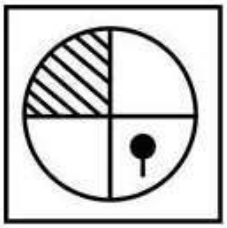

✗ 4.

Question Type : **MCQ**
Question ID : **264330137557**
Option 1 ID : **264330538835**
Option 2 ID : **264330538837**
Option 3 ID : **264330538836**
Option 4 ID : **264330538838**
Status : **Answered**
Chosen Option : **3**

Join Telegram Group "HaryanaJobs.in"

Q.16 दी गई श्रृंखला में निम्नलिखित में से कौन-सी संख्या प्रश्न चिन्ह (?) के स्थान पर आएगी?
38, 17, -2, -19, -34, -47, -58, ?

Ans
1. -72
2. -60
3. -74
4. -67

Question Type : **MCQ**
Question ID : **264330137551**
Option 1 ID : **264330538811**
Option 2 ID : **264330538813**
Option 3 ID : **264330538814**
Option 4 ID : **264330538812**
Status : **Answered**
Chosen Option : **4**

Q.17 दिए गए पैटर्न का ध्यानपूर्वक अध्ययन कीजिए और उस संख्या को चुनिए जो इसमें प्रश्न चिन्ह (?) के स्थान पर आ सकती है?
प्रथम पंक्ति- 38, 43, 48
द्वितीय पंक्ति- 76, 81, 86
तृतीय पंक्ति- 69, 74, ?

Ans
1. 70
2. 84
3. 75
4. 79

Question Type : **MCQ**
Question ID : **264330137553**
Option 1 ID : **264330538819**
Option 2 ID : **264330538821**
Option 3 ID : **264330538822**
Option 4 ID : **264330538820**
Status : **Answered**
Chosen Option : **4**

Q.18 उस विकल्प को चुनिए जो तीसरे अक्षर-समूह से ठीक उसी तरह संबंधित है जिस तरह दूसरा अक्षर-समूह पहले अक्षर-समूह से संबंधित है।
MEJ : PFK :: SQK : ?

Ans
1. VRL
2. VTL
3. SLV
4. LSV

Question Type : **MCQ**
Question ID : **264330137539**
Option 1 ID : **264330538764**
Option 2 ID : **264330538766**
Option 3 ID : **264330538763**
Option 4 ID : **264330538765**
Status : **Answered**
Chosen Option : **1**

Join Telegram Group "HaryanaJobs.in"

Q.19 दी गई श्रृंखला में निम्नलिखित में से कौन-सा अक्षर प्रश्न चिन्ह (?) के स्थान पर आएगा?
U, R, O, L, I, F, ?

Ans
1. D
2. F
3. A
4. C

Question Type : **MCQ**
Question ID : **264330137537**
Option 1 ID : **264330538756**
Option 2 ID : **264330538757**
Option 3 ID : **264330538758**
Option 4 ID : **264330538755**
Status : **Answered**
Chosen Option : **4**

Q.20 उस विकल्प आकृति को चुनिए जो नीचे दी गई आकृति में पैटर्न को पूरा करने के लिए प्रश्न चिन्ह (?) के स्थान पर आएगी। (घूर्णन की अनुमति नहीं है)।

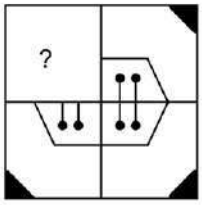

Ans
1. 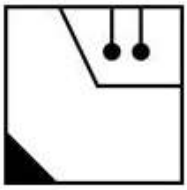
2. 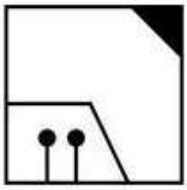
3. 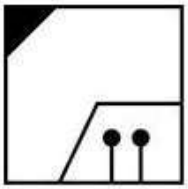
4. 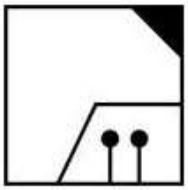

Question Type : **MCQ**
Question ID : **264330137558**
Option 1 ID : **264330538842**
Option 2 ID : **264330538840**
Option 3 ID : **264330538839**
Option 4 ID : **264330538841**
Status : **Answered**
Chosen Option : **3**

Join Telegram Group "HaryanaJobs.in"

Section : **General Awareness**

Q.1 निम्नलिखित में से कौन-सा उपन्यास विक्रम सेठ के उल्लेखनीय कार्यों में से एक है?

Ans

✗ 1. शो बिज़नेस (Show Business)

✗ 2. द ग्लास पैलेस (The Glass Palace)

✗ 3. एंशिएंट इंडिया (Ancient India)

✓ 4. अ सूटेबल बॉय (A Suitable Boy)

Question Type : **MCQ**
Question ID : **264330138629**
Option 1 ID : **264330543124**
Option 2 ID : **264330543125**
Option 3 ID : **264330543123**
Option 4 ID : **264330543126**
Status : **Answered**
Chosen Option : **4**

Q.2 निम्नलिखित में से किस अनुच्छेद में, "मौलिक अधिकारों के साथ असंगत या उनका अल्पीकरण करने वाले क़ानूनों" का उल्लेख किया गया है?

Ans

✗ 1. अनुच्छेद 14

✗ 2. अनुच्छेद 12

✓ 3. अनुच्छेद 13

✗ 4. अनुच्छेद 15

Question Type : **MCQ**
Question ID : **264330134631**
Option 1 ID : **264330527481**
Option 2 ID : **264330527479**
Option 3 ID : **264330527480**
Option 4 ID : **264330527482**
Status : **Answered**
Chosen Option : **3**

Q.3 _____ के शक्तिशाली गुरुत्वाकर्षण बल के कारण पृथ्वी की सतह पर ज्वार-भाटे आते हैं।

Ans

✗ 1. सूर्य, चंद्रमा और अन्य ग्रह

✓ 2. केवल सूर्य एवं चंद्रमा

✗ 3. केवल सूर्य

✗ 4. केवल चंद्रमा

Question Type : **MCQ**
Question ID : **264330138936**
Option 1 ID : **264330544354**
Option 2 ID : **264330544353**
Option 3 ID : **264330544351**
Option 4 ID : **264330544352**
Status : **Answered**
Chosen Option : **2**

Join Telegram Group "HaryanaJobs.in"

Q.4 लड़कों में बढ़ता हुआ 'स्वरयंत्र' गले के सामने की ओर सुस्पष्ट उभरे भाग के रूप में दिखाई देता है, जिसे _____ कहते हैं।

Ans
1. कॉर्न (Corn)
2. एड्रिनेलिन (Adrenalin)
3. ग्रसिका (Gullet)
4. कंठमणि (Adam's apple)

Question Type : **MCQ**
Question ID : **264330138935**
Option 1 ID : **264330544349**
Option 2 ID : **264330544347**
Option 3 ID : **264330544350**
Option 4 ID : **264330544348**
Status : **Answered**
Chosen Option : **4**

Q.5 निम्नलिखित में से कौन-सा ज्वलनशील पदार्थ का एक उदाहरण नहीं है?

Ans
1. एलपीजी (LPG)
2. पेट्रोल (Petrol)
3. काँच (Glass)
4. ऐल्कोहॉल (Alcohol)

Question Type : **MCQ**
Question ID : **264330138937**
Option 1 ID : **264330544357**
Option 2 ID : **264330544355**
Option 3 ID : **264330544356**
Option 4 ID : **264330544358**
Status : **Answered**
Chosen Option : **3**

Q.6 वर्ष 2011 की जनगणना के अनुसार, 2001-11 के बीच ऋणात्मक दशकीय जनसंख्या वृद्धि दर वाला एकमात्र भारतीय राज्य _____ है।

Ans
1. सिक्किम
2. उत्तराखंड
3. नागालैंड
4. गोवा

Question Type : **MCQ**
Question ID : **264330138290**
Option 1 ID : **264330541769**
Option 2 ID : **264330541770**
Option 3 ID : **264330541767**
Option 4 ID : **264330541768**
Status : **Answered**
Chosen Option : **1**

Join Telegram Group "HaryanaJobs.in"

Q.7 निम्नलिखित में से कौन-सी नृत्य शैली छत्तीसगढ़ से संबंधित नहीं है?

Ans
1. पंथी
2. राउत नाचा
3. गेड़ी
4. कजरी

Question Type : **MCQ**
Question ID : **264330137713**
Option 1 ID : **264330539461**
Option 2 ID : **264330539462**
Option 3 ID : **264330539459**
Option 4 ID : **264330539460**
Status : **Answered**
Chosen Option : **3**

Q.8 मुद्रा गुणक (Money multiplier) की गणना के लिए निम्नलिखित में से किस मौद्रिक लिखत का उपयोग किया जाता है?

Ans
1. आरक्षित नकदी निधि अनुपात
2. रिवर्स रेपो दर
3. रेपो दर
4. बैंक दर

Question Type : **MCQ**
Question ID : **264330138634**
Option 1 ID : **264330543144**
Option 2 ID : **264330543145**
Option 3 ID : **264330543143**
Option 4 ID : **264330543146**
Status : **Answered**
Chosen Option : **3**

Q.9 अक्टूबर 2022 में प्रधानमंत्री भारतीय जन उर्वरक परियोजना- "एक देश-एक उर्वरक (One Nation One Fertiliser)" का शुभारंभ किसने किया?

Ans
1. नरेंद्र सिंह तोमर
2. स्मृति ईरानी
3. अमित शाह
4. नरेंद्र मोदी

Question Type : **MCQ**
Question ID : **264330137711**
Option 1 ID : **264330539454**
Option 2 ID : **264330539453**
Option 3 ID : **264330539452**
Option 4 ID : **264330539451**
Status : **Answered**
Chosen Option : **1**

Join Telegram Group "HaryanaJobs.in"

Q.10 भारतीय संविधान का अनुच्छेद 23-24 निम्नलिखित में से किस मौलिक अधिकार से संबंधित है?

Ans
1. स्वतंत्रता का अधिकार
2. समानता का अधिकार
3. शोषण के विरुद्ध अधिकार
4. संवैधानिक उपचारों का अधिकार

Question Type : **MCQ**
Question ID : **264330137731**
Option 1 ID : **264330539534**
Option 2 ID : **264330539532**
Option 3 ID : **264330539533**
Option 4 ID : **264330539531**
Status : **Answered**
Chosen Option : **3**

Q.11 राष्ट्रीय डोपिंग-रोधी विधेयक (National Anti-Doping Bill), 2021 भारत के _____ क्षेत्र को लक्षित करता है।

Ans
1. कृषि
2. वित्त
3. खेल
4. सैन्य

Question Type : **MCQ**
Question ID : **264330133649**
Option 1 ID : **264330523619**
Option 2 ID : **264330523621**
Option 3 ID : **264330523620**
Option 4 ID : **264330523622**
Status : **Answered**
Chosen Option : **3**

Q.12 विधवा पुनर्विवाह संघ (1861) के संस्थापक कौन थे?

Ans
1. राजा राममोहन राय
2. आर.जी. भंडारकर
3. आत्माराम पांडुरंग
4. महादेव गोविंद रानाडे

Question Type : **MCQ**
Question ID : **264330137727**
Option 1 ID : **264330539515**
Option 2 ID : **264330539518**
Option 3 ID : **264330539517**
Option 4 ID : **264330539516**
Status : **Answered**
Chosen Option : **1**

Join Telegram Group "HaryanaJobs.in"

Q.13 वर्ष 2015 के साल्ज़बर्ग महोत्सव (Salzburg Festival) में नृत्य प्रदर्शन करने के लिए किसे एक राजसी भारतीय शास्त्रीय नर्तक के रूप में जाना जाता है?

Ans
1. कुमारी कमला
2. वी.सत्यनारायण सरमा
3. तंजौर बालासरस्वती
4. अलारमेल वल्ली

Question Type : **MCQ**
Question ID : **264330138631**
Option 1 ID : **264330543133**
Option 2 ID : **264330543131**
Option 3 ID : **264330543134**
Option 4 ID : **264330543132**
Status : **Not Answered**
Chosen Option : **--**

Q.14 अनेक वर्षों तक भटकने के बाद बाबर ने सन् _____ में काबुल पर कब्ज़ा कर लिया।

Ans
1. 1501
2. 1503
3. 1504
4. 1502

Question Type : **MCQ**
Question ID : **264330138943**
Option 1 ID : **264330544379**
Option 2 ID : **264330544381**
Option 3 ID : **264330544382**
Option 4 ID : **264330544380**
Status : **Answered**
Chosen Option : **4**

Q.15 _____ के सदस्य सामान्यतः लाल शैवाल कहलाते हैं।

Ans
1. क्लोरोफाइसी (chlorophyceae)
2. रोडोफाइसी (rhodophyceae)
3. फीयोफाइसी (phaeophyceae)
4. पोएसी (poaceae)

Question Type : **MCQ**
Question ID : **264330137717**
Option 1 ID : **264330539476**
Option 2 ID : **264330539477**
Option 3 ID : **264330539475**
Option 4 ID : **264330539478**
Status : **Not Answered**
Chosen Option : **--**

Join Telegram Group "HaryanaJobs.in"

Q.16 निम्नलिखित में से कौन-सा "कृषि आधारित उद्योगों (agro based industries)" का एक उदाहरण नहीं है?

Ans
1. वनस्पति तेल उद्योग
2. लोहा एवं इस्पात उद्योग
3. चमड़ा उद्योग
4. सूती वस्त्र उद्योग

Question Type : **MCQ**
Question ID : **264330138641**
Option 1 ID : **264330543171**
Option 2 ID : **264330543173**
Option 3 ID : **264330543174**
Option 4 ID : **264330543172**
Status : **Answered**
Chosen Option : **2**

Q.17 1770 में भारत के बंगाल में किस घटना के परिणामस्वरूप एक तिहाई आबादी की मृत्यु हो गई थी?

Ans
1. नरसंहार
2. गुलामी
3. अकाल
4. रासायनिक विस्फोट

Question Type : **MCQ**
Question ID : **264330133663**
Option 1 ID : **264330523676**
Option 2 ID : **264330523678**
Option 3 ID : **264330523675**
Option 4 ID : **264330523677**
Status : **Answered**
Chosen Option : **3**

Q.18 कुश्ती मैट की मोटाई _____ सेंटीमीटर के बीच होनी चाहिए।

Ans
1. 5 से 7
2. 3 से 5
3. 9 से 11
4. 7 से 9

Question Type : **MCQ**
Question ID : **264330138925**
Option 1 ID : **264330544308**
Option 2 ID : **264330544307**
Option 3 ID : **264330544310**
Option 4 ID : **264330544309**
Status : **Answered**
Chosen Option : **4**

Join Telegram Group "HaryanaJobs.in"

Q.19 कर्नाटक का अलमट्टी बाँध निम्नलिखित में से किस नदी पर बना है?

Ans
1. सतलुज
2. पेरियार
3. कावेरी
4. कृष्णा

Question Type : **MCQ**
Question ID : **264330137721**
Option 1 ID : **264330539493**
Option 2 ID : **264330539494**
Option 3 ID : **264330539491**
Option 4 ID : **264330539492**
Status : **Answered**
Chosen Option : **2**

Q.20 दिल्ली में खिलजी वंश के किस स्मारक में लाल बलुआ पत्थर का उपयोग हुआ है?

Ans
1. विक्टोरिया मेमोरियल
2. अलाई-दरवाजा
3. मोती मस्जिद
4. चारमीनार

Question Type : **MCQ**
Question ID : **264330133652**
Option 1 ID : **264330523634**
Option 2 ID : **264330523631**
Option 3 ID : **264330523632**
Option 4 ID : **264330523633**
Status : **Answered**
Chosen Option : **2**

Q.21 निम्नलिखित में से किसने फीफा अंडर-17 महिला विश्व कप 2022 जीता?

Ans
1. जापान
2. न्यूज़ीलैंड
3. कोलंबिया
4. स्पेन

Question Type : **MCQ**
Question ID : **264330137733**
Option 1 ID : **264330539542**
Option 2 ID : **264330539541**
Option 3 ID : **264330539539**
Option 4 ID : **264330539540**
Status : **Answered**
Chosen Option : **4**

Join Telegram Group "HaryanaJobs.in"

Q.22 गंगूबाई हंगल, हिंदुस्तानी शास्त्रीय संगीत की ख्याल (Khayal) शैली की _____ राज्य की एक भारतीय गायिका थीं, जो अपनी गहरी और दमदार आवाज के लिए जानी जाती थीं।

Ans
✗ 1. तमिलनाडु
✗ 2. केरल
✗ 3. आंध्रप्रदेश
✓ 4. कर्नाटक

Question Type : **MCQ**
Question ID : **264330137729**
Option 1 ID : **264330539523**
Option 2 ID : **264330539525**
Option 3 ID : **264330539526**
Option 4 ID : **264330539524**
Status : **Not Answered**
Chosen Option : **--**

Q.23 निम्नलिखित में से कौन चंद्रगुप्त मौर्य की मृत्यु के बाद मौर्य साम्राज्य के सिंहासन पर बैठा?

Ans
✗ 1. अशोक
✓ 2. बिन्दुसार
✗ 3. दशरथ
✗ 4. चंद्रगुप्त - द्वितीय

Question Type : **MCQ**
Question ID : **264330137724**
Option 1 ID : **264330539503**
Option 2 ID : **264330539504**
Option 3 ID : **264330539506**
Option 4 ID : **264330539505**
Status : **Answered**
Chosen Option : **2**

Q.24 त्रिपुरा की "खारची पूजा (Kharchi Pooja)" एक हिंदू त्योहार है जिसमें पृथ्वी सहित _____ हिंदू देवताओं की पूजा की जाती है।

Ans
✓ 1. 14
✗ 2. 12
✗ 3. 8
✗ 4. 5

Question Type : **MCQ**
Question ID : **264330137714**
Option 1 ID : **264330539463**
Option 2 ID : **264330539464**
Option 3 ID : **264330539465**
Option 4 ID : **264330539466**
Status : **Answered**
Chosen Option : **1**

Join Telegram Group "HaryanaJobs.in"

Q.25 राज्यसभा द्वारा एक धन विधेयक को _____ दिनों के भीतर या तो सिफारिशों के साथ या सिफारिशों के बिना लोकसभा में वापस भेजना अनिवार्य होता है।

Ans
1. 8 ✗
2. 10 ✗
3. 14 ✓
4. 21 ✗

Question Type : **MCQ**
Question ID : **264330137732**
Option 1 ID : **264330539536**
Option 2 ID : **264330539537**
Option 3 ID : **264330539538**
Option 4 ID : **264330539535**
Status : **Answered**
Chosen Option : **3**

Section : **English Language and Comprehension**

Q.1 Select the most appropriate option to fill in the blank.
Computers would replace the _____ technique of creating an image on paper, transferring it to transparent cells and again onto film.

Ans
1. audacious ✗
2. austere ✗
3. archaic ✓
4. assuage ✗

Question Type : **MCQ**
Question ID : **264330136063**
Option 1 ID : **264330533070**
Option 2 ID : **264330533069**
Option 3 ID : **264330533067**
Option 4 ID : **264330533068**
Status : **Answered**
Chosen Option : **3**

Q.2 Identify the segment that contains a grammatical error. If there is no error, select 'No error'
An appeasements policies / were all but a sham to misdirect / the local groups.

Ans
1. An appeasements policies ✓
2. the local groups. ✗
3. were all but a sham to misdirect ✗
4. No error ✗

Question Type : **MCQ**
Question ID : **264330136059**
Option 1 ID : **264330533051**
Option 2 ID : **264330533053**
Option 3 ID : **264330533052**
Option 4 ID : **264330533054**
Status : **Answered**
Chosen Option : **1**

Join Telegram Group "HaryanaJobs.in"

Q.3 Select the most appropriate meaning of the bracketed idiom in the given sentence.
That were remarks made (in the heat of the moment).

Ans

✗ 1. To be dismissed from your job

✗ 2. To exert all efforts

✓ 3. At time when you cannot think carefully

✗ 4. To present a counter argument

Question Type : **MCQ**
Question ID : **264330136078**
Option 1 ID : **264330533126**
Option 2 ID : **264330533124**
Option 3 ID : **264330533125**
Option 4 ID : **264330533123**
Status : **Answered**
Chosen Option : **2**

Q.4 Select the most appropriate option to substitute the bracketed segment in the given sentence. If there is no need to substitute it, select 'no substitution required'.
(Because he has been in custody from last July,) Pickard will now be released in four months.

Ans

✗ 1. Because he had been under custody from last July,

✗ 2. No substitution required

✗ 3. Because he had been in custody from last July,

✓ 4. Because he has been in custody since last July,

Question Type : **MCQ**
Question ID : **264330136088**
Option 1 ID : **264330533165**
Option 2 ID : **264330533166**
Option 3 ID : **264330533163**
Option 4 ID : **264330533164**
Status : **Answered**
Chosen Option : **4**

Q.5 **Choose the word that is opposite in meaning to the given word.**
Desert

Ans

✗ 1. Bereft

✗ 2. Forlorn

✗ 3. Migrate

✓ 4. Populate

Question Type : **MCQ**
Question ID : **264330134312**
Option 1 ID : **264330526240**
Option 2 ID : **264330526239**
Option 3 ID : **264330526242**
Option 4 ID : **264330526241**
Status : **Answered**
Chosen Option : **4**

Join Telegram Group "HaryanaJobs.in"

Q.6 Select the most appropriate antonym to substitute the bracketed word in the given sentence.
She ventured to go back to the tree of the (tryst), the mulberry with the shining white fruit.

Ans
✔ 1. Separation
✘ 2. Rendezvous
✘ 3. Engagement
✘ 4. Date

Question Type : **MCQ**
Question ID : **264330136076**
Option 1 ID : **264330533116**
Option 2 ID : **264330533117**
Option 3 ID : **264330533118**
Option 4 ID : **264330533115**
Status : **Answered**
Chosen Option : **3**

Q.7 Choose the word that can substitute the given group of words.
A person holding conversational belief especially in matter of religion

Ans
✘ 1. Prudent
✔ 2. Orthodox
✘ 3. Compere
✘ 4. Arsonist

Question Type : **MCQ**
Question ID : **264330136887**
Option 1 ID : **264330536234**
Option 2 ID : **264330536233**
Option 3 ID : **264330536232**
Option 4 ID : **264330536231**
Status : **Answered**
Chosen Option : **2**

Q.8 Select the most appropriate option to fill in the blank.
Her notoriety increased after she single- _____ shot down a Rhodesian army helicopter.

Ans
✔ 1. handedly
✘ 2. stranded
✘ 3. dose
✘ 4. plainly

Question Type : **MCQ**
Question ID : **264330136082**
Option 1 ID : **264330533142**
Option 2 ID : **264330533140**
Option 3 ID : **264330533139**
Option 4 ID : **264330533141**
Status : **Answered**
Chosen Option : **1**

Join Telegram Group "HaryanaJobs.in"

Q.9 In the following question, out of the given four alternatives, select the alternative which best expresses the meaning of the Idiom/Phrase.
A blessing in disguise

Ans
1. ✗ Hear a good news after a long time
2. ✓ A misfortune that unexpectedly turns into good fortune
3. ✗ To have a dispute with someone
4. ✗ To go from being very poor to being very wealthy

Question Type : **MCQ**
Question ID : **264330136893**
Option 1 ID : **264330536258**
Option 2 ID : **264330536255**
Option 3 ID : **264330536257**
Option 4 ID : **264330536256**
Status : **Answered**
Chosen Option : **2**

Q.10 Select the most appropriate option to fill in the blank.
There's plenty here to trap the unwary and baffle even the _____ gambler!

Ans
1. ✗ exenterate
2. ✗ reiterate
3. ✓ inveterate
4. ✗ alliterate

Question Type : **MCQ**
Question ID : **264330136081**
Option 1 ID : **264330533138**
Option 2 ID : **264330533135**
Option 3 ID : **264330533136**
Option 4 ID : **264330533137**
Status : **Not Answered**
Chosen Option : **--**

Q.11 Select the most appropriate option to fill in the blank.
Since these people used tobacco to _____ their deities, the herb itself was one of the instruments of godless, false religions.

Ans
1. ✗ trace
2. ✓ propitiate
3. ✗ expatiate
4. ✗ militate

Question Type : **MCQ**
Question ID : **264330136090**
Option 1 ID : **264330533174**
Option 2 ID : **264330533173**
Option 3 ID : **264330533171**
Option 4 ID : **264330533172**
Status : **Answered**
Chosen Option : **2**

Join Telegram Group "HaryanaJobs.in"

Q.12 Select the correctly spelt word.

Ans
1. Aposire
2. Apositte
3. Apposite
4. Aposite

Question Type : **MCQ**
Question ID : **264330136079**
Option 1 ID : **264330533127**
Option 2 ID : **264330533130**
Option 3 ID : **264330533128**
Option 4 ID : **264330533129**
Status : **Answered**
Chosen Option : **3**

Q.13 **Find the part of the given sentence that has an error in it. If there is no error, choose 'No error'.**
I am thirty-two years old and my sister are fifteen.

Ans
1. I am thirty-two
2. years old and
3. my sister are fifteen.
4. No error

Question Type : **MCQ**
Question ID : **264330134294**
Option 1 ID : **264330526171**
Option 2 ID : **264330526172**
Option 3 ID : **264330526173**
Option 4 ID : **264330526174**
Status : **Answered**
Chosen Option : **3**

Q.14 Select the most appropriate synonym of the given word.
Enervate

Ans
1. Devitalize
2. Arouse
3. Boost
4. Invigorate

Question Type : **MCQ**
Question ID : **264330136073**
Option 1 ID : **264330533106**
Option 2 ID : **264330533105**
Option 3 ID : **264330533103**
Option 4 ID : **264330533104**
Status : **Answered**
Chosen Option : **1**

Join Telegram Group "HaryanaJobs.in"

Q.15 Select the most appropriate synonym to substitute the bracketed word in the given sentence.

It broke Eleanora's heart to see her daughter become that (wraith) of her former self.

Ans

1. ✗ Yore
2. ✓ Spirit
3. ✗ Being
4. ✗ Wail

Question Type : **MCQ**
Question ID : **264330136100**
Option 1 ID : **264330533207**
Option 2 ID : **264330533208**
Option 3 ID : **264330533209**
Option 4 ID : **264330533210**
Status : **Answered**
Chosen Option : **3**

Q.16 Select the word segment that substitutes (replaces) the bracketed word segment correctly and completes the sentence meaningfully. Select the option 'no correction required' if the sentence is correct as given.

The dessert was not just extremely hot but (also to sweet as well).

Ans

1. ✗ No correction required
2. ✗ also being too sweet.
3. ✓ also too sweet.
4. ✗ besides too sweet as well.

Question Type : **MCQ**
Question ID : **264330136642**
Option 1 ID : **264330535294**
Option 2 ID : **264330535292**
Option 3 ID : **264330535291**
Option 4 ID : **264330535293**
Status : **Answered**
Chosen Option : **3**

Q.17 Select the wrongly spelt word.

Ans

1. ✗ Activity
2. ✓ Protesion
3. ✗ Inactivity
4. ✗ Unshielded

Question Type : **MCQ**
Question ID : **264330136080**
Option 1 ID : **264330533131**
Option 2 ID : **264330533132**
Option 3 ID : **264330533134**
Option 4 ID : **264330533133**
Status : **Answered**
Chosen Option : **2**

Join Telegram Group "HaryanaJobs.in"

Q.18 Identify the segment that contains a grammatical error. If there is no error, select 'No error'.

Ram ran back to the / window to see the bars dangling / a few feet before the ground.

Ans

1. ✗ window to see the bars dangling
2. ✗ No error
3. ✓ a few feet before the ground.
4. ✗ Ram ran back to the

Question Type : **MCQ**
Question ID : **264330136639**
Option 1 ID : **264330535280**
Option 2 ID : **264330535282**
Option 3 ID : **264330535281**
Option 4 ID : **264330535279**
Status : **Answered**
Chosen Option : **3**

Q.19 Improve the underlined part of the sentence. Choose 'No improvement' as an answer if the sentence is grammatically correct.

Drive two blocks and turn right at the traffic lights.

Ans

1. ✗ turn right in
2. ✓ No improvement
3. ✗ turns right at
4. ✗ turn rightly at

Question Type : **MCQ**
Question ID : **264330134749**
Option 1 ID : **264330527947**
Option 2 ID : **264330527950**
Option 3 ID : **264330527949**
Option 4 ID : **264330527948**
Status : **Answered**
Chosen Option : **2**

Q.20 Select the most appropriate word for the given group of words.

Quiet and peaceful

Ans

1. ✗ Inundate
2. ✗ Incessant
3. ✗ Introvert
4. ✓ Tranquil

Question Type : **MCQ**
Question ID : **264330136072**
Option 1 ID : **264330533099**
Option 2 ID : **264330533101**
Option 3 ID : **264330533100**
Option 4 ID : **264330533102**
Status : **Answered**
Chosen Option : **4**

Join Telegram Group "HaryanaJobs.in"

Comprehension:

In the following passage some of the words have been deleted. Read the passage carefully and select the correct answer for the given blank out of the four alternatives.
You may wonder if anyone would (1) _____ to be diagnosed before they are even aware they have Alzheimer's (2) _____? A recent survey shows that, indeed, they would. (3) _____ three-quarters of the respondents said they would want (4) _____ if they had Alzheimer's disease, even if they were not yet experiencing (5) _____.

SubQuestion No : 21

Q.21 Select the most appropriate option to fill in blank number 1.

Ans

✔ 1. want

✘ 2. surrender

✘ 3. got

✘ 4. drop

Question Type : **MCQ**
Question ID : **264330134303**
Option 1 ID : **264330526204**
Option 2 ID : **264330526203**
Option 3 ID : **264330526205**
Option 4 ID : **264330526206**
Status : **Answered**
Chosen Option : **1**

Comprehension:

In the following passage some of the words have been deleted. Read the passage carefully and select the correct answer for the given blank out of the four alternatives.
You may wonder if anyone would (1) _____ to be diagnosed before they are even aware they have Alzheimer's (2) _____? A recent survey shows that, indeed, they would. (3) _____ three-quarters of the respondents said they would want (4) _____ if they had Alzheimer's disease, even if they were not yet experiencing (5) _____.

SubQuestion No : 22

Q.22 Select the most appropriate option to fill in blank number 2.

Ans

✔ 1. disease

✘ 2. health

✘ 3. contamination

✘ 4. bug

Question Type : **MCQ**
Question ID : **264330134304**
Option 1 ID : **264330526209**
Option 2 ID : **264330526210**
Option 3 ID : **264330526208**
Option 4 ID : **264330526207**
Status : **Answered**
Chosen Option : **1**

Join Telegram Group "HaryanaJobs.in"

Comprehension:

In the following passage some of the words have been deleted. Read the passage carefully and select the correct answer for the given blank out of the four alternatives.
You may wonder if anyone would (1) _____ to be diagnosed before they are even aware they have Alzheimer's (2) _____? A recent survey shows that, indeed, they would. (3) _____ three-quarters of the respondents said they would want (4) _____ if they had Alzheimer's disease, even if they were not yet experiencing (5) _____.

SubQuestion No : 23

Q.23 Select the most appropriate option to fill in blank number 3.

Ans

✗ 1. Casually

✗ 2. Totally

✓ 3. Nearly

✗ 4. Firmly

Question Type : **MCQ**
Question ID : **264330134305**
Option 1 ID : **264330526214**
Option 2 ID : **264330526212**
Option 3 ID : **264330526211**
Option 4 ID : **264330526213**
Status : **Answered**
Chosen Option : **3**

Comprehension:

In the following passage some of the words have been deleted. Read the passage carefully and select the correct answer for the given blank out of the four alternatives.
You may wonder if anyone would (1) _____ to be diagnosed before they are even aware they have Alzheimer's (2) _____? A recent survey shows that, indeed, they would. (3) _____ three-quarters of the respondents said they would want (4) _____ if they had Alzheimer's disease, even if they were not yet experiencing (5) _____.

SubQuestion No : 24

Q.24 Select the most appropriate option to fill in blank number 4.

Ans

✗ 1. known

✗ 2. knowing

✗ 3. knows

✓ 4. to know

Question Type : **MCQ**
Question ID : **264330134306**
Option 1 ID : **264330526216**
Option 2 ID : **264330526217**
Option 3 ID : **264330526215**
Option 4 ID : **264330526218**
Status : **Answered**
Chosen Option : **4**

Join Telegram Group "HaryanaJobs.in"

Comprehension:

In the following passage some of the words have been deleted. Read the passage carefully and select the correct answer for the given blank out of the four alternatives.
You may wonder if anyone would (1) _____ to be diagnosed before they are even aware they have Alzheimer's (2) _____? A recent survey shows that, indeed, they would. (3) _____ three-quarters of the respondents said they would want (4) _____ if they had Alzheimer's disease, even if they were not yet experiencing (5) _____.

SubQuestion No : 25

Q.25 Select the most appropriate option to fill in blank number 5.

Ans

✗ 1. indexes

✓ 2. symptoms

✗ 3. evidences

✗ 4. marks

Question Type : **MCQ**
Question ID : **264330134307**
Option 1 ID : **264330526222**
Option 2 ID : **264330526219**
Option 3 ID : **264330526221**
Option 4 ID : **264330526220**
Status : **Answered**
Chosen Option : **2**

Join Telegram Group "HaryanaJobs.in"

Multi Tasking Non Technical Staff and Havaldar CBIC and CBN Examination 2022

Roll Number	HaryanaJobs.in
Candidate Name	HaryanaJobs.in
Venue Name	Khwaja Gharib Nawaz College of Nursing
Exam Date	13/06/2023
Exam Time	9:00 AM - 10:30 AM
Subject	MTS Non Tech Havaldar CBIC and CBN Examination 2022

Section : **Numerical and Mathematical Ability**

Q.1 एक नाव स्थिर जल में 15 km/hr की चाल से चल सकती है। यदि धारा की चाल 5 km/hr है, तो नाव द्वारा धारा के अनुकूल 80 km जाने में लिया गया समय ज्ञात कीजिए।

Ans

1. 3 hr ✗
2. 4 hr ✓
3. 6 hr ✗
4. 5 hr ✗

Question Type : **MCQ**
Question ID : **264330140812**
Option 1 ID : **264330551595**
Option 2 ID : **264330551596**
Option 3 ID : **264330551598**
Option 4 ID : **264330551597**
Status : **Answered**
Chosen Option : **2**

Q.2 एक किसान की भूमि एक समलंब के आकार की है जिसकी समानांतर भुजाएँ 7.58 गज और 6.42 गज हैं और समानांतर भुजाओं के बीच की दूरी 6.50 गज है। भूमि की जुताई की लागत Rs. 2000 प्रति वर्ग गज है। पूरी भूमि को जोतने के लिए कितनी राशि खर्च करनी होगी?

Ans

1. Rs. 72000 ✗
2. Rs. 102000 ✗
3. Rs. 85000 ✗
4. Rs. 91000 ✓

Question Type : **MCQ**
Question ID : **264330140227**
Option 1 ID : **264330549288**
Option 2 ID : **264330549287**
Option 3 ID : **264330549290**
Option 4 ID : **264330549289**
Status : **Answered**
Chosen Option : **4**

Join Telegram Group "HaryanaJobs.in"

Q.3 एक घड़ी का क्रय मूल्य Rs.750 है। यदि हानि प्रतिशत 40 प्रतिशत है, तो हानि का मान क्या है?

Ans
✔ 1. Rs. 300
✘ 2. Rs. 420
✘ 3. Rs. 280
✘ 4. Rs. 220

Question Type : **MCQ**
Question ID : **264330139897**
Option 1 ID : **264330547969**
Option 2 ID : **264330547968**
Option 3 ID : **264330547970**
Option 4 ID : **264330547967**
Status : **Answered**
Chosen Option : **1**

Q.4 एक कलम का अंकित मूल्य Rs.5000 है। दुकानदार ग्राहक को 15 प्रतिशत और b प्रतिशत के दो क्रमागत बट्टे देता है। यदि ग्राहक कलम के लिए Rs.4080 का भुगतान करता है, तो b का मान क्या है?

Ans
✘ 1. 3 प्रतिशत
✘ 2. 7.5 प्रतिशत
✔ 3. 4 प्रतिशत
✘ 4. 5 प्रतिशत

Question Type : **MCQ**
Question ID : **264330140251**
Option 1 ID : **264330549383**
Option 2 ID : **264330549386**
Option 3 ID : **264330549384**
Option 4 ID : **264330549385**
Status : **Answered**
Chosen Option : **3**

Q.5 135 kg मिश्रधातु A को 72 kg मिश्रधातु B के साथ मिलाने पर एक नई मिश्रधातु प्राप्त होती है। यदि मिश्रधातु A में जिंक और कॉपर का अनुपात 4 : 5 है और मिश्रधातु B में जिंक और कॉपर का अनुपात 7 : 5 है, तो नई मिश्रधातु में जिंक का भार कितना है?

Ans
✔ 1. 102 kg
✘ 2. 85 kg
✘ 3. 115 kg
✘ 4. 92 kg

Question Type : **MCQ**
Question ID : **264330140640**
Option 1 ID : **264330550910**
Option 2 ID : **264330550908**
Option 3 ID : **264330550909**
Option 4 ID : **264330550907**
Status : **Answered**
Chosen Option : **1**

Join Telegram Group "HaryanaJobs.in"

Q.6 एक संख्या में 30% की वृद्धि की जाती है और फिर बढ़ी हुई संख्या में 30% की कमी की जाती है। संख्या में निवल वृद्धि या कमी है:

Ans

✗ 1. 12% की वृद्धि

✗ 2. 30% की वृद्धि

✓ 3. 9% की कमी

✗ 4. 15% की कमी

Question Type : **MCQ**
Question ID : **264330140826**
Option 1 ID : **264330551654**
Option 2 ID : **264330551651**
Option 3 ID : **264330551653**
Option 4 ID : **264330551652**
Status : **Answered**
Chosen Option : **3**

Q.7 L, P और Q ने एक साथ मिलकर एक कार्य को पूरा किया। L और P ने मिलकर कार्य का 50 प्रतिशत भाग पूरा किया और P और Q ने मिलकर कार्य का 60 प्रतिशत भाग पूरा किया। तीनों में से कौन सबसे कुशल है?

Ans

✗ 1. L

✓ 2. Q

✗ 3. सभी समान रूप से कुशल हैं

✗ 4. P

Question Type : **MCQ**
Question ID : **264330139017**
Option 1 ID : **264330544675**
Option 2 ID : **264330544677**
Option 3 ID : **264330544678**
Option 4 ID : **264330544676**
Status : **Answered**
Chosen Option : **4**

Q.8 रोहित और मोहित एक कार्य को 4 दिनों में कर सकते हैं, जबकि राम और श्याम उसी कार्य को 12 दिनों में कर सकते हैं। रोहित, मोहित, राम और श्याम मिलकर इसे कितने दिनों में करेंगे?

Ans

✗ 1. 5 दिन

✗ 2. 2 दिन

✗ 3. 4 दिन

✓ 4. 3 दिन

Question Type : **MCQ**
Question ID : **264330140814**
Option 1 ID : **264330551606**
Option 2 ID : **264330551603**
Option 3 ID : **264330551605**
Option 4 ID : **264330551604**
Status : **Answered**
Chosen Option : **4**

Join Telegram Group "HaryanaJobs.in"

Q.9 $\frac{12 \times 4 \div 3 \text{ of } 16 + 24 - 5}{46 \div 23 \times 2}$ का मान क्या है?

Ans
1. 3
2. 4
3. 5
4. 6

Question Type : **MCQ**
Question ID : **264330139947**
Option 1 ID : **264330548168**
Option 2 ID : **264330548167**
Option 3 ID : **264330548170**
Option 4 ID : **264330548169**
Status : **Answered**
Chosen Option : **3**

Q.10 नीचे दिए गए वृत्त आलेख में पाँच विश्वविद्यालयों में शिक्षकों की संख्या को दर्शाया गया है। इन सभी पाँच विश्वविद्यालयों में कुल शिक्षक 720 हैं। इनमें से किसी एक विशिष्ट विश्वविद्यालय में शिक्षकों की संख्या को इन सभी पाँच विश्वविद्यालयों में शिक्षकों की कुल संख्या के सापेक्ष डिग्री में दर्शाया गया है।

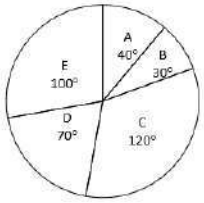

J1 = B और C में शिक्षकों की औसत संख्या का मान।

J2 = A और E में शिक्षकों की औसत संख्या का मान।

(J2 + J1) का मान क्या है?

Ans
1. 290
2. 250
3. 210
4. 240

Question Type : **MCQ**
Question ID : **264330139930**
Option 1 ID : **264330548100**
Option 2 ID : **264330548099**
Option 3 ID : **264330548102**
Option 4 ID : **264330548101**
Status : **Answered**
Chosen Option : **1**

Join Telegram Group "HaryanaJobs.in"

Q.11 नीचे दी गई तालिका में 6 वर्षों में एक विद्यालय में लड़के और लड़कियों की संख्या को दर्शाया गया है।

वर्ष	लड़के	लड़कियाँ
Y1	90	80
Y2	70	60
Y3	130	110
Y4	110	150
Y5	170	50
Y6	100	90

निम्नलिखित में से कौन-सा कथन सही नहीं है?

I. वर्ष Y6 में लड़कियों की संख्या, वर्ष Y6 में लड़कों की संख्या का 9 प्रतिशत है।

II. वर्ष Y1 और Y2 में लड़कों की औसत संख्या 80 है।

Ans

✔ 1. केवल I

✘ 2. न तो I और ना ही II

✘ 3. I और II दोनों

✘ 4. केवल II

Question Type : **MCQ**
Question ID : **264330139646**
Option 1 ID : **264330546999**
Option 2 ID : **264330547002**
Option 3 ID : **264330547001**
Option 4 ID : **264330547000**
Status : **Answered**
Chosen Option : **4**

Q.12 एक व्यक्ति द्वारा 15 वर्षों में Rs.6000 के मूलधन पर प्राप्त साधारण ब्याज मूलधन का 150 प्रतिशत है। वार्षिक ब्याज दर क्या है?

Ans

✘ 1. 25 प्रतिशत

✘ 2. 30 प्रतिशत

✔ 3. 10 प्रतिशत

✘ 4. 20 प्रतिशत

Question Type : **MCQ**
Question ID : **264330140621**
Option 1 ID : **264330550831**
Option 2 ID : **264330550832**
Option 3 ID : **264330550834**
Option 4 ID : **264330550833**
Status : **Answered**
Chosen Option : **3**

Join Telegram Group "HaryanaJobs.in"

Q.13 24 प्रेक्षणों का औसत 41 है। पहले 9 प्रेक्षणों का औसत 42 है। अंतिम 16 प्रेक्षणों का औसत 39 है। 9वें प्रेक्षण का मान क्या है?

Ans

✔ 1. 18

✘ 2. 24

✘ 3. 14

✘ 4. 20

Question Type : **MCQ**
Question ID : **264330140587**
Option 1 ID : **264330550702**
Option 2 ID : **264330550701**
Option 3 ID : **264330550700**
Option 4 ID : **264330550699**
Status : **Answered**
Chosen Option : **1**

Q.14 $\sqrt{0.52 \times 0.52 + 0.31 \times 0.31 + 0.62 \times 0.52}$ का मान क्या है?

Ans

✘ 1. 0.63

✘ 2. 0.93

✔ 3. 0.83

✘ 4. 0.73

Question Type : **MCQ**
Question ID : **264330140550**
Option 1 ID : **264330550558**
Option 2 ID : **264330550556**
Option 3 ID : **264330550557**
Option 4 ID : **264330550555**
Status : **Answered**
Chosen Option : **3**

Q.15 एक दुकानदार एक पुस्तक को 60 प्रतिशत की हानि पर बेचता है। यदि उसने पुस्तक को Rs. 150 अधिक में बेचा होता, तो उसे 30 प्रतिशत की हानि होती। 20 प्रतिशत का लाभ कमाने के लिए पुस्तक का विक्रय मूल्य कितना होना चाहिए?

Ans

✔ 1. Rs. 600

✘ 2. Rs. 700

✘ 3. Rs. 550

✘ 4. Rs. 650

Question Type : **MCQ**
Question ID : **264330140638**
Option 1 ID : **264330550900**
Option 2 ID : **264330550901**
Option 3 ID : **264330550902**
Option 4 ID : **264330550899**
Status : **Answered**
Chosen Option : **1**

Join Telegram Group "HaryanaJobs.in"

Q.16 एक गोले का व्यास 14.7 मीटर है। गोले का आयतन क्या है?

Ans
1. $1693.563\ m^3$ ✗
2. $1783.723\ m^3$ ✗
3. $1873.487\ m^3$ ✗
4. $1663.893\ m^3$ ✓

Question Type : **MCQ**
Question ID : **264330138454**
Option 1 ID : **264330542424**
Option 2 ID : **264330542423**
Option 3 ID : **264330542425**
Option 4 ID : **264330542426**
Status : **Answered**
Chosen Option : **4**

Q.17 Rs.50 प्रति लीटर (per litre) मूल्य वाले दूध में पानी को किस अनुपात में मिलाया जाए कि Rs.35 प्रति लीटर मूल्य का मिश्रण प्राप्त हो? (पानी मुफ्त में उपलब्ध है)

Ans
1. 3:7 ✓
2. 2:7 ✗
3. 3:5 ✗
4. 7:5 ✗

Question Type : **MCQ**
Question ID : **264330133839**
Option 1 ID : **264330524381**
Option 2 ID : **264330524382**
Option 3 ID : **264330524379**
Option 4 ID : **264330524380**
Status : **Answered**
Chosen Option : **1**

Q.18 यदि X : Y = 2 : 3 और Y : Z = 6 : 7 है, तो (X + Z) : Y का मान क्या है?

Ans
1. 11 : 8 ✗
2. 17 : 15 ✗
3. 17 : 14 ✗
4. 11 : 6 ✓

Question Type : **MCQ**
Question ID : **264330139596**
Option 1 ID : **264330546800**
Option 2 ID : **264330546802**
Option 3 ID : **264330546799**
Option 4 ID : **264330546801**
Status : **Answered**
Chosen Option : **4**

Join Telegram Group "HaryanaJobs.in"

Q.19 तीन अंकों की वह सबसे छोटी संख्या कौन-सी है जिसमें 5 की वृद्धि करने पर, वह 2 और 3 दोनों से भाज्य होती है?

Ans
1. 105 ✗
2. 103 ✓
3. 108 ✗
4. 102 ✗

Question Type : **MCQ**
Question ID : **264330140598**
Option 1 ID : **264330550744**
Option 2 ID : **264330550743**
Option 3 ID : **264330550745**
Option 4 ID : **264330550746**
Status : **Answered**
Chosen Option : **1**

Q.20 एक राशि का (वार्षिक रूप से संयोजित) चक्रवृद्धि ब्याज की एक योजना में निवेश करने पर, वह 2 वर्षों में Rs.33800 और 3 वर्षों में Rs.43,940 हो जाती है। यदि उसी योजना में 2 वर्षों के लिए दोगुनी राशि का निवेश किया जाए, तो 2 वर्ष के अंत में प्राप्त होने वाली राशि कितनी होगी?

Ans
1. Rs. 67,600 ✓
2. Rs. 71,240 ✗
3. Rs. 60,420 ✗
4. Rs. 62,480 ✗

Question Type : **MCQ**
Question ID : **264330140574**
Option 1 ID : **264330550650**
Option 2 ID : **264330550649**
Option 3 ID : **264330550647**
Option 4 ID : **264330550648**
Status : **Not Answered**
Chosen Option : **--**

Section : **Reasoning Ability and Problem Solving**

Q.1 एक निश्चित कूट भाषा में, 'BECOME' को 'HPRFHE' लिखा जाता है। उस कूट भाषा में 'ACTIVE' को कैसे लिखा जाएगा?

Ans
1. HYLWFC ✗
2. HYLWDD ✗
3. HYLVFD ✗
4. HYLWFD ✓

Question Type : **MCQ**
Question ID : **264330139553**
Option 1 ID : **264330546630**
Option 2 ID : **264330546628**
Option 3 ID : **264330546629**
Option 4 ID : **264330546627**
Status : **Answered**
Chosen Option : **4**

Join Telegram Group "HaryanaJobs.in"

Q.2 आठ लड़के राम, सुमित, सुनील, राहुल, राज, अमन, अमित और अनिल एक वृत्ताकार मेज के चारों ओर केंद्र के विपरीत दिशा की ओर मुख करके बैठे हैं (परंतु जरूरी नहीं कि वे इसी क्रम में बैठें हों)। सुनील, राम के ठीक बाईं ओर बैठा है। राम, राहुल के बाईं ओर से चौथे स्थान पर है। अमित, राज के दाईं ओर से चौथे स्थान पर है। राज, राम के दाईं ओर से दूसरे स्थान पर है। अनिल, सुमित के बाईं ओर से दूसरे स्थान पर है। अमन, सुमित के दाईं ओर से दूसरे स्थान पर है। सुनील के दाईं ओर से दूसरे स्थान पर कौन है?

Ans

✗ 1. अमन

✓ 2. अनिल

✗ 3. राहुल

✗ 4. राज

Question Type : **MCQ**
Question ID : **264330140060**
Option 1 ID : **264330548620**
Option 2 ID : **264330548619**
Option 3 ID : **264330548621**
Option 4 ID : **264330548622**
Status : **Answered**
Chosen Option : **2**

Join Telegram Group "HaryanaJobs.in"

Q.3 उस विकल्प आकृति को चुनिए जो नीचे दी गई आकृति में पैटर्न को पूरा करने के लिए प्रश्न चिन्ह (?) के स्थान पर आएगी। (घूर्णन की अनुमति नहीं है)।

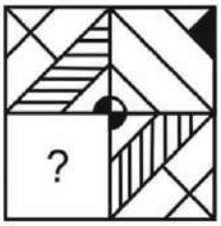

Ans

✗ 1.

✗ 2.

✗ 3.

✓ 4.

Question Type : **MCQ**
Question ID : **264330140471**
Option 1 ID : **264330550266**
Option 2 ID : **264330550265**
Option 3 ID : **264330550263**
Option 4 ID : **264330550264**
Status : **Answered**
Chosen Option : **3**

Join Telegram Group "HaryanaJobs.in"

Q.4 दी गई श्रृंखला में निम्नलिखित में से कौन-सी संख्या प्रश्न चिन्ह (?) के स्थान पर आएगी?
48, 50, 53, 58, 65, 76, 89, ?

Ans
1. 106
2. 203
3. 195
4. 150

Question Type : **MCQ**
Question ID : **264330140145**
Option 1 ID : **264330548959**
Option 2 ID : **264330548960**
Option 3 ID : **264330548962**
Option 4 ID : **264330548961**
Status : **Answered**
Chosen Option : **1**

Q.5 एक निश्चित कूट भाषा में, 'XIWG' को 'HXJY' लिखा जाता है। उस कूट भाषा में 'MSOE' को कैसे लिखा जाएगा?

Ans
1. FPTN
2. FNTP
3. FPTT
4. FTPN

Question Type : **MCQ**
Question ID : **264330140136**
Option 1 ID : **264330548925**
Option 2 ID : **264330548924**
Option 3 ID : **264330548926**
Option 4 ID : **264330548923**
Status : **Answered**
Chosen Option : **1**

Q.6 यदि A का अर्थ 'जोड़', B का अर्थ 'गुणा', C का अर्थ 'घटाव' और D का अर्थ 'भाग' हो, तो निम्नलिखित समीकरण का मान क्या होगा?
7 B 5 A 31 C (48 D 6) = ?

Ans
1. 58
2. 62
3. 38
4. 46

Question Type : **MCQ**
Question ID : **264330140006**
Option 1 ID : **264330548404**
Option 2 ID : **264330548406**
Option 3 ID : **264330548405**
Option 4 ID : **264330548403**
Status : **Answered**
Chosen Option : **1**

Join Telegram Group "HaryanaJobs.in"

Q.7 एक निश्चित कूट भाषा में, 'MANAGE' को '629023', 'NARAT' को '52342', 'TENM' को '3695' लिखा जाता है। उस कूट भाषा में 'R' को कैसे लिखा जाएगा?

Ans
1. 2
2. 5
3. 4
4. 3

Question Type : **MCQ**
Question ID : **264330140980**
Option 1 ID : **264330552268**
Option 2 ID : **264330552267**
Option 3 ID : **264330552269**
Option 4 ID : **264330552270**
Status : **Answered**
Chosen Option : **3**

Q.8 निम्नलिखित प्रश्न में, दी गई श्रृंखला में लुप्त संख्या को चुनिए।

10, -18, -46, -74, -102, ?

Ans
1. -140
2. -130
3. -133
4. -150

Question Type : **MCQ**
Question ID : **264330140967**
Option 1 ID : **264330552216**
Option 2 ID : **264330552215**
Option 3 ID : **264330552217**
Option 4 ID : **264330552218**
Status : **Answered**
Chosen Option : **2**

Join Telegram Group "HaryanaJobs.in"

Q.9 दो कथन दिए गए हैं और दो निष्कर्ष I और II दिए गए हैं। कथनों को सत्य मानते हुए, चाहे वे सामान्यतः ज्ञात तथ्यों से अलग प्रतीत होते हों, निश्चय कीजिए कि कौन-सा निष्कर्ष तार्किक रूप से कथनों के अनुसार है।

कथन:

कुछ चींटियाँ, चमगादड़ हैं।

कुछ चमगादड़, बिल्लियाँ हैं।

निष्कर्ष:

I. कुछ चींटियाँ, बिल्लियाँ हैं।

II. सभी चमगादड़ कभी भी बिल्लियाँ नहीं हो सकते।

Ans

✗ 1. केवल निष्कर्ष I कथनों के अनुसार है।

✗ 2. केवल निष्कर्ष II कथनों के अनुसार है।

✗ 3. दोनों निष्कर्ष I और II कथनों के अनुसार हैं।

✓ 4. न तो निष्कर्ष I और न ही II कथनों के अनुसार है।

Question Type : **MCQ**
Question ID : **264330140103**
Option 1 ID : **264330548791**
Option 2 ID : **264330548792**
Option 3 ID : **264330548793**
Option 4 ID : **264330548794**
Status : **Answered**
Chosen Option : **4**

Q.10 उस विकल्प को चुनिए जो पाँचवें पद से ठीक उसी प्रकार संबंधित है जिस प्रकार दूसरा पद पहले पद से संबंधित है और चौथा पद तीसरे पद से संबंधित है।

TRA : FNW :: MNG : LJP :: FOK : ?

Ans

✗ 1. PKJ

✗ 2. PLJ

✗ 3. PLI

✓ 4. PKI

Question Type : **MCQ**
Question ID : **264330140978**
Option 1 ID : **264330552260**
Option 2 ID : **264330552259**
Option 3 ID : **264330552262**
Option 4 ID : **264330552261**
Status : **Answered**
Chosen Option : **4**

Join Telegram Group "HaryanaJobs.in"

Q.11 पाँच लड़कियाँ बबीता, लिता, मीता, रीता और टीना एक खेल खेल रही हैं। वे एक पंक्ति में उत्तर की ओर मुख करके बैठी हैं। मीता पश्चिम छोर पर बैठी है और टीना पूर्वी छोर पर बैठी है। लिता और रीता एक-दूसरे के बगल में बैठी हैं। बबीता, लिता के ठीक बाईं ओर तथा मीता के दाईं ओर बैठी है। पूर्वी छोर से दूसरे स्थान पर कौन बैठा है?

Ans

✗ 1. टीना

✗ 2. बबीता

✗ 3. लिता

✓ 4. रीता

Question Type : **MCQ**
Question ID : **264330140099**
Option 1 ID : **264330548777**
Option 2 ID : **264330548778**
Option 3 ID : **264330548775**
Option 4 ID : **264330548776**
Status : **Answered**
Chosen Option : **4**

Q.12 दी गई आकृति के उस सही दर्पण प्रतिबिंब को चुनिए, जो नीचे दर्शाए गए अनुसार दर्पण को MN पर रखने पर बनेगा।

REPLACE M N

Ans

✗ 1.

✓ 2.

✗ 3.

✗ 4. 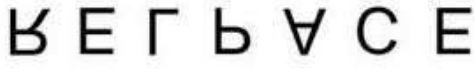

Question Type : **MCQ**
Question ID : **264330140470**
Option 1 ID : **264330550262**
Option 2 ID : **264330550261**
Option 3 ID : **264330550260**
Option 4 ID : **264330550259**
Status : **Answered**
Chosen Option : **2**

Join Telegram Group "HaryanaJobs.in"

Q.13 उस समुच्चय को चुनिए जिसमें दी गई संख्याएँ ठीक उसी प्रकार संबंधित हैं जिस प्रकार निम्नलिखित समुच्चयों की संख्याएँ संबंधित हैं। (ध्यान दें: संख्याओं को उनके घटक अंकों में अलग-अलग किए बिना, पूर्ण संख्याओं पर संक्रियाएँ की जानी चाहिए। उदा. 13 – 13 पर संक्रियाएँ जैसे 13 को जोड़ना /घटाना /गुणा करना आदि किया जा सकता है। 13 को 1 और 3 में अलग-अलग करने की और फिर 1 और 3 पर गणितीय संक्रियाएँ करने की अनुमति नहीं है)
(4, 6, 72)
(5, 7, 105)

Ans
1. (3, 6, 36) ✗
2. (2, 5, 40) ✗
3. (6, 8, 144) ✓
4. (6, 9, 108) ✗

Question Type : **MCQ**
Question ID : **264330140486**
Option 1 ID : **264330550323**
Option 2 ID : **264330550324**
Option 3 ID : **264330550325**
Option 4 ID : **264330550326**
Status : **Answered**
Chosen Option : **3**

Q.14 उस विकल्प को चुनिए जो तीसरे अक्षर-समूह से ठीक उसी प्रकार संबंधित है जिस प्रकार दूसरा अक्षर-समूह पहले अक्षर-समूह से संबंधित है।
BAG : ACZBFH : : DOG : ?

Ans
1. CNEFHH ✗
2. CNEPFH ✗
3. CENPHF ✗
4. CENPFH ✓

Question Type : **MCQ**
Question ID : **264330140074**
Option 1 ID : **264330548675**
Option 2 ID : **264330548678**
Option 3 ID : **264330548676**
Option 4 ID : **264330548677**
Status : **Answered**
Chosen Option : **4**

Q.15 उस विकल्प को चुनिए जो तीसरी संख्या से ठीक उसी तरह संबंधित है जिस तरह दूसरी संख्या पहली संख्या से संबंधित है।
529 : 577 :: 841 : ?

Ans
1. 902 ✗
2. 899 ✗
3. 911 ✗
4. 901 ✓

Question Type : **MCQ**
Question ID : **264330140465**
Option 1 ID : **264330550242**
Option 2 ID : **264330550239**
Option 3 ID : **264330550241**
Option 4 ID : **264330550240**
Status : **Answered**
Chosen Option : **2**

Join Telegram Group "HaryanaJobs.in"

Q.16 दो कथन दिए गए हैं और दो निष्कर्ष I और II दिए गए हैं। कथनों को सत्य मानते हुए, चाहे वे सामान्यतः ज्ञात तथ्यों से अलग प्रतीत होते हों, निश्चय कीजिए कि कौन-सा निष्कर्ष तार्किक रूप से कथनों के अनुसार है।

कथन:

कुछ चाय, कॉफ़ी हैं।

सभी कॉफ़ी, मीठी हैं।

निष्कर्ष:

I. सभी मीठी, कॉफ़ी हैं।

II. कुछ मीठी, चाय हैं।

Ans

1. दोनों निष्कर्ष I और II कथनों के अनुसार हैं
2. सिर्फ निष्कर्ष II कथनों के अनुसार है
3. निष्कर्ष I और II में से कोई भी कथनों के अनुसार नहीं है
4. सिर्फ निष्कर्ष I कथनों के अनुसार है

Question Type : **MCQ**
Question ID : **264330140461**
Option 1 ID : **264330550225**
Option 2 ID : **264330550224**
Option 3 ID : **264330550226**
Option 4 ID : **264330550223**
Status : **Answered**
Chosen Option : **2**

Join Telegram Group "HaryanaJobs.in"

Q.17 उस विकल्प आकृति को चुनिए जिसमें दी गई आकृति (X) उसके भाग के रूप में निहित है (घूर्णन की अनुमति नहीं है)।

(X)

Ans

✗ 1. 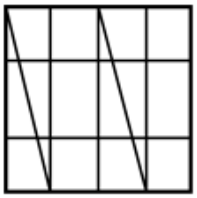

✗ 2. 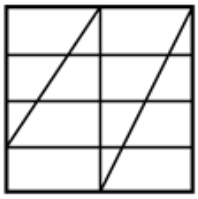

✗ 3. 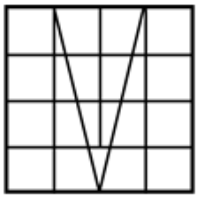

✓ 4. 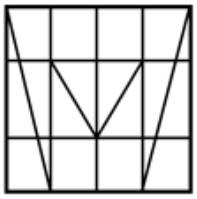

Question Type : **MCQ**
Question ID : **264330140110**
Option 1 ID : **264330548819**
Option 2 ID : **264330548821**
Option 3 ID : **264330548822**
Option 4 ID : **264330548820**
Status : **Answered**
Chosen Option : **4**

Q.18 दिए गए समीकरण को सही करने के लिए किन दो संख्याओं को आपस में बदला जाना चाहिए?
192 ÷ 12 × 6 + 16 - 18 = 66

Ans

✗ 1. 16 और 18

✗ 2. 6 और 18

✗ 3. 16 और 6

✓ 4. 16 और 12

Question Type : **MCQ**
Question ID : **264330140448**
Option 1 ID : **264330550172**
Option 2 ID : **264330550174**
Option 3 ID : **264330550171**
Option 4 ID : **264330550173**
Status : **Answered**
Chosen Option : **4**

Join Telegram Group "HaryanaJobs.in"

Q.19 एक श्रृंखला दी गई है जिसमें एक पद लुप्त है। दिए गए विकल्पों में से उस सही विकल्प को चुनिए जो श्रृंखला को पूरा करेगा।

GRAM, JUDP, MXGS, ?, SDMY

Ans

✗ 1. PAKV

✓ 2. PAJV

✗ 3. PBKV

✗ 4. PAJU

Question Type : **MCQ**
Question ID : **264330139548**
Option 1 ID : **264330546610**
Option 2 ID : **264330546609**
Option 3 ID : **264330546607**
Option 4 ID : **264330546608**
Status : **Answered**
Chosen Option : **2**

Q.20 राहुल, हार्दिक, सूर्या, मोहन और कमल के कद की तुलना की जाती है। राहुल की लंबाई केवल तीन व्यक्तियों से कम है। सूर्या की लंबाई राहुल की लंबाई से न तो अधिक है और न ही कम है। कमल की लंबाई मोहन से अधिक लेकिन हार्दिक से कम है। कितने व्यक्तियों की लंबाई सूर्या से अधिक लेकिन हार्दिक से कम है?

Ans

✗ 1. 0

✗ 2. 3

✗ 3. 1

✓ 4. 2

Question Type : **MCQ**
Question ID : **264330139556**
Option 1 ID : **264330546641**
Option 2 ID : **264330546639**
Option 3 ID : **264330546640**
Option 4 ID : **264330546642**
Status : **Answered**
Chosen Option : **2**

Section : **General Awareness**

Q.1 पंजाब के प्रसिद्ध शीश महल का निर्माण निम्नलिखित में से किस शासक ने करवाया था?

Ans

✗ 1. राणा कुंभ

✗ 2. राजा मानसिंह प्रथम

✗ 3. महाराजा सवाई प्रताप सिंह

✓ 4. महाराजा नरिंदर सिंह

Question Type : **MCQ**
Question ID : **264330140935**
Option 1 ID : **264330552090**
Option 2 ID : **264330552089**
Option 3 ID : **264330552087**
Option 4 ID : **264330552088**
Status : **Answered**
Chosen Option : **4**

Join Telegram Group "HaryanaJobs.in"

Q.2 पंथी नृत्य शैली भारत के _____ राज्य से संबंधित है।

Ans
1. पंजाब
2. महाराष्ट्र
3. केरल
4. छत्तीसगढ़

Question Type : **MCQ**
Question ID : **264330140728**
Option 1 ID : **264330551259**
Option 2 ID : **264330551262**
Option 3 ID : **264330551260**
Option 4 ID : **264330551261**
Status : **Answered**
Chosen Option : **4**

Q.3 सौर मंडल का सबसे बड़ा ग्रह कौनसा है?

Ans
1. वरुण (Neptune)
2. बृहस्पति
3. अरुण (Uranus)
4. पृथ्वी

Question Type : **MCQ**
Question ID : **264330139738**
Option 1 ID : **264330547370**
Option 2 ID : **264330547368**
Option 3 ID : **264330547369**
Option 4 ID : **264330547367**
Status : **Answered**
Chosen Option : **2**

Q.4 निम्नलिखित में से किस खेल में 'शटलकॉक (Shuttlecock)' का इस्तेमाल किया जाता है?

Ans
1. बिलियर्ड्स (Billiards)
2. बेसबॉल
3. बैडमिंटन
4. बास्केटबॉल

Question Type : **MCQ**
Question ID : **264330140364**
Option 1 ID : **264330549838**
Option 2 ID : **264330549837**
Option 3 ID : **264330549835**
Option 4 ID : **264330549836**
Status : **Answered**
Chosen Option : **3**

Join Telegram Group "HaryanaJobs.in"

Q.5 शिव नारायण अग्निहोत्री ने लाहौर में देव समाज की स्थापना कब की थी?

Ans
1. 1863
2. 1892
3. 1887
4. 1876

Question Type : **MCQ**
Question ID : **264330140358**
Option 1 ID : **264330549811**
Option 2 ID : **264330549814**
Option 3 ID : **264330549813**
Option 4 ID : **264330549812**
Status : **Not Answered**
Chosen Option : **--**

Q.6 "लाइफ ऑफ पाई (Life of Pi)" उपन्यास किसने लिखा था?

Ans
1. यान मार्टेल (Yann Martel)
2. जोनाथन सफ़रन फ़ॉयर (Jonathan Safran Foer)
3. कैरल बर्च (Carol Birch)
4. खालिद हुसैनी (Khaled Hosseini)

Question Type : **MCQ**
Question ID : **264330140668**
Option 1 ID : **264330551019**
Option 2 ID : **264330551021**
Option 3 ID : **264330551020**
Option 4 ID : **264330551022**
Status : **Not Answered**
Chosen Option : **--**

Q.7 संगम कविताओं में एक तमिल शब्द 'मुवेन्दार (Muvendar)' की चर्चा मिलती है जिसका अर्थ _____ है।

Ans
1. तीन घोड़े
2. तीन बंदरगाह
3. तीन मुखिया
4. तीन कर

Question Type : **MCQ**
Question ID : **264330140288**
Option 1 ID : **264330549533**
Option 2 ID : **264330549531**
Option 3 ID : **264330549532**
Option 4 ID : **264330549534**
Status : **Not Answered**
Chosen Option : **--**

Join Telegram Group "HaryanaJobs.in"

Q.8 "स्वामी दयानंद सरस्वती" द्वारा स्थापित "आर्य समाज" का उद्देश्य क्या था?

Ans
1. निरंकुश शासन स्थापित करना
2. वस्तु विनिमय व्यापार की प्रथा को प्रोत्साहित करना
3. अंग्रेजों के खिलाफ उठ खड़े होना
4. हिंदू धर्म में सुधार करना

Question Type : **MCQ**
Question ID : **264330138969**
Option 1 ID : **264330544484**
Option 2 ID : **264330544483**
Option 3 ID : **264330544486**
Option 4 ID : **264330544485**
Status : **Answered**
Chosen Option : **4**

Q.9 जिन प्रदेशों में कृषक केवल सब्जियाँ पैदा करता है, वहाँ इसको _____ का नाम दिया जाता है।

Ans
1. दुग्ध कृषि
2. पशुपालन कृषि
3. मिश्रित कृषि
4. ट्रक कृषि

Question Type : **MCQ**
Question ID : **264330139743**
Option 1 ID : **264330547390**
Option 2 ID : **264330547387**
Option 3 ID : **264330547388**
Option 4 ID : **264330547389**
Status : **Answered**
Chosen Option : **4**

Q.10 वह प्रक्रिया जिसमें दो अमिश्रणीय द्रव, इस प्रकार मिश्रित होते हैं कि एक द्रव पदार्थ दूसरे द्रव पदार्थ में छोटी-छोटी बूंदों के रूप में परिक्षेपित होता है, _____ कहलाती है।

Ans
1. पृथक्करण
2. पायसीकरण (Emulsification)
3. फ़िल्टरीकरण
4. कैरामेलीकरण (Caramelisation)

Question Type : **MCQ**
Question ID : **264330140733**
Option 1 ID : **264330551282**
Option 2 ID : **264330551279**
Option 3 ID : **264330551280**
Option 4 ID : **264330551281**
Status : **Answered**
Chosen Option : **2**

Join Telegram Group "HaryanaJobs.in"

Q.11 जनवरी 2022 में, एस. सोमनाथ को _____ के दसवें अध्यक्ष के रूप में नियुक्त किया गया है।

Ans
1. आरबीआई (RBI) ✗
2. डीआरडीओ (DRDO) ✗
3. सेबी (SEBI) ✗
4. इसरो (ISRO) ✓

Question Type : **MCQ**
Question ID : **264330139681**
Option 1 ID : **264330547139**
Option 2 ID : **264330547140**
Option 3 ID : **264330547142**
Option 4 ID : **264330547141**
Status : **Answered**
Chosen Option : **4**

Q.12 बुद्ध _____ नामक एक छोटे से गण से संबंधित थे।

Ans
1. पांचाल गण ✗
2. शाक्य गण ✓
3. कुरु गण ✗
4. अवंती गण ✗

Question Type : **MCQ**
Question ID : **264330140902**
Option 1 ID : **264330551958**
Option 2 ID : **264330551956**
Option 3 ID : **264330551955**
Option 4 ID : **264330551957**
Status : **Answered**
Chosen Option : **2**

Q.13 तनन या संपीडन प्रतिबल को _____ भी कहा जा सकता है।

Ans
1. जलीय प्रतिबल ✗
2. अपरूपण प्रतिबल ✗
3. अनुदैर्ध्य प्रतिबल ✓
4. स्पर्शी प्रतिबल ✗

Question Type : **MCQ**
Question ID : **264330140322**
Option 1 ID : **264330549670**
Option 2 ID : **264330549667**
Option 3 ID : **264330549668**
Option 4 ID : **264330549669**
Status : **Not Answered**
Chosen Option : **--**

Join Telegram Group "HaryanaJobs.in"

Q.14 'फीयरलेस गवर्नेंस (Fearless Governance)' नामक पुस्तक के लेखक कौन हैं?

Ans
1. अनुज धर ✗
2. अमिताव घोष ✗
3. अनिरुद्ध सूरी ✗
4. किरण बेदी ✓

Question Type : **MCQ**
Question ID : **264330138976**
Option 1 ID : **264330544512**
Option 2 ID : **264330544511**
Option 3 ID : **264330544514**
Option 4 ID : **264330544513**
Status : **Answered**
Chosen Option : **4**

Q.15 निम्नलिखित में से किस भारतीय ओलंपियन का संबंध कुश्ती के खेल से है?

Ans
1. अदिति अशोक ✗
2. नीरज चोपड़ा ✗
3. साक्षी मलिक ✓
4. अभिनव बिंद्रा ✗

Question Type : **MCQ**
Question ID : **264330140929**
Option 1 ID : **264330552065**
Option 2 ID : **264330552064**
Option 3 ID : **264330552066**
Option 4 ID : **264330552063**
Status : **Answered**
Chosen Option : **3**

Q.16 Which of the following referred to as 'paper taxes'?
I. Wealth tax
II. Gift tax

Ans
1. Neither I nor II ✗
2. Only I ✗
3. Both I and II ✓
4. Only II ✗

Question Type : **MCQ**
Question ID : **264330139876**
Option 1 ID : **264330547886**
Option 2 ID : **264330547883**
Option 3 ID : **264330547885**
Option 4 ID : **264330547884**
Status : **Answered**
Chosen Option : **4**

Join Telegram Group "HaryanaJobs.in"

Q.17 संविधान (अनुसूचित जाति और अनुसूचित जनजाति)आदेश विधेयक 2022 को भारत के _____ राज्य में पेश किया गया था।

Ans
1. राजस्थान
2. पंजाब
3. झारखंड
4. केरल

Question Type : **MCQ**
Question ID : **264330140726**
Option 1 ID : **264330551253**
Option 2 ID : **264330551251**
Option 3 ID : **264330551254**
Option 4 ID : **264330551252**
Status : **Answered**
Chosen Option : **4**

Q.18 जयंती कुमारेश _____ की सर्वश्रेष्ठ वादकों में से एक हैं।

Ans
1. संतूर
2. वीणा
3. सितार
4. तबला

Question Type : **MCQ**
Question ID : **264330140273**
Option 1 ID : **264330549474**
Option 2 ID : **264330549473**
Option 3 ID : **264330549472**
Option 4 ID : **264330549471**
Status : **Not Answered**
Chosen Option : **--**

Q.19 अकबर के शासनकाल का इतिहास, जिसका शीर्षक "अकबर नामा (Akbar Nama)" है, _____ द्वारा लिखा गया है।

Ans
1. मोहम्मद खान
2. अब्बास खान शेरवानी
3. अब्द अल-क़ादिर बदायुनी
4. अबुल फजल

Question Type : **MCQ**
Question ID : **264330139745**
Option 1 ID : **264330547398**
Option 2 ID : **264330547397**
Option 3 ID : **264330547396**
Option 4 ID : **264330547395**
Status : **Answered**
Chosen Option : **4**

Join Telegram Group "HaryanaJobs.in"

Q.20 शैवाल के किस वर्ग को प्रायः भूरा शैवाल कहा जाता है?

Ans
1. क्लोरोफाइसी (Chlorophyceae)
2. क्राइसोफाइसी (Chrysophyceae)
3. फीयोफाइसी (Phaeophyceae)
4. रोडोफाइसी (Rhodophyceae)

Question Type : **MCQ**
Question ID : **264330140732**
Option 1 ID : **264330551275**
Option 2 ID : **264330551277**
Option 3 ID : **264330551276**
Option 4 ID : **264330551278**
Status : **Not Answered**
Chosen Option : **--**

Q.21 बराकर (Barakar) निम्नलिखित में से किस नदी की सहायक नदी है?

Ans
1. दामोदर
2. कृष्णा
3. रावी
4. कावेरी

Question Type : **MCQ**
Question ID : **264330140352**
Option 1 ID : **264330549787**
Option 2 ID : **264330549789**
Option 3 ID : **264330549788**
Option 4 ID : **264330549790**
Status : **Answered**
Chosen Option : **1**

Q.22 छठ पूजा उत्सव _____ भगवान को समर्पित होता है।

Ans
1. सूर्य
2. ब्रह्मा
3. इंद्र
4. विष्णु

Question Type : **MCQ**
Question ID : **264330140345**
Option 1 ID : **264330549762**
Option 2 ID : **264330549759**
Option 3 ID : **264330549761**
Option 4 ID : **264330549760**
Status : **Answered**
Chosen Option : **1**

Join Telegram Group "HaryanaJobs.in"

Q.23 2011 की जनगणना के अनुसार, पुरुष साक्षरता दर कितनी है?

Ans
✔ 1. 82.14%
✗ 2. 65.14%
✗ 3. 71.14%
✗ 4. 75.14%

Question Type : **MCQ**
Question ID : **264330140303**
Option 1 ID : **264330549591**
Option 2 ID : **264330549594**
Option 3 ID : **264330549593**
Option 4 ID : **264330549592**
Status : **Answered**
Chosen Option : **4**

Q.24 भारतीय संविधान का अनुच्छेद _____ चुनाव आयोग में निहित निर्वाचनों के अधीक्षण, निर्देशन और नियंत्रण का प्रावधान करता है।

Ans
✔ 1. 324
✗ 2. 338
✗ 3. 336
✗ 4. 330

Question Type : **MCQ**
Question ID : **264330140278**
Option 1 ID : **264330549491**
Option 2 ID : **264330549494**
Option 3 ID : **264330549493**
Option 4 ID : **264330549492**
Status : **Answered**
Chosen Option : **1**

Q.25 जलोढ़ मृदाओं का रंग _____ जैसा होता है।

Ans
✗ 1. नारंगी से लाल
✗ 2. हल्के नारंगी से गहरा नारंगी
✔ 3. हल्के धूसर से राख धूसर
✗ 4. हल्के सफेद से चमकीला सफेद

Question Type : **MCQ**
Question ID : **264330140351**
Option 1 ID : **264330549783**
Option 2 ID : **264330549785**
Option 3 ID : **264330549784**
Option 4 ID : **264330549786**
Status : **Answered**
Chosen Option : **3**

Section : **English Language and Comprehension**

Join Telegram Group "HaryanaJobs.in"

Q.1 The statement below has been given with bracketed text. Select the option with correct Idiom for the bracketed text.

He (made an irreversible change, that will greatly impact his life) when he got that huge tattoo on his back!

Ans

1. ✗ became the devil's advocate
2. ✗ put a rose on his nose
3. ✗ beat the dead horse
4. ✓ crossed the Rubicon

Question Type : **MCQ**
Question ID : **264330135762**
Option 1 ID : **264330531929**
Option 2 ID : **264330531930**
Option 3 ID : **264330531927**
Option 4 ID : **264330531928**
Status : **Answered**
Chosen Option : **4**

Q.2 Four sentences are given, out of which three have spelling errors. Choose the sentence with all correctly spelt words.

Ans

1. ✓ I got selected in D category.
2. ✗ What was the begining of the dispute?
3. ✗ There is no comparision between the two books.
4. ✗ She handlled the situation cooly.

Question Type : **MCQ**
Question ID : **264330136433**
Option 1 ID : **264330534492**
Option 2 ID : **264330534494**
Option 3 ID : **264330534493**
Option 4 ID : **264330534491**
Status : **Answered**
Chosen Option : **1**

Q.3 Select the most appropriate antonym to substitute the bracketed word in the given sentence.

Similarly Sirius, the most (luminous) star in all the heavens, actually has a faint companion.

Ans

1. ✗ excited
2. ✓ gloomy
3. ✗ serious
4. ✗ miserable

Question Type : **MCQ**
Question ID : **264330136554**
Option 1 ID : **264330534951**
Option 2 ID : **264330534954**
Option 3 ID : **264330534953**
Option 4 ID : **264330534952**
Status : **Answered**
Chosen Option : **2**

Join Telegram Group "HaryanaJobs.in"

Q.4 Select the word segment that substitutes (replaces) the bracketed word segment correctly and completes the sentence meaningfully. Select the option 'no correction required' if the sentence is correct as given.

He lost his temper (by a driver) flashed her headlights as he overtook.

Ans

1. ✗ afterwards a driver
2. ✗ considering a driver
3. ✓ after a driver
4. ✗ No correction required

Question Type : **MCQ**
Question ID : **264330136564**
Option 1 ID : **264330534991**
Option 2 ID : **264330534993**
Option 3 ID : **264330534992**
Option 4 ID : **264330534994**
Status : **Answered**
Chosen Option : **1**

Q.5 Fill in the blank with the most appropriate option.

'Well, that was _____ good,' said Harper.

Ans

1. ✓ pretty
2. ✗ gorgeous
3. ✗ beautiful
4. ✗ pleasing

Question Type : **MCQ**
Question ID : **264330136133**
Option 1 ID : **264330533336**
Option 2 ID : **264330533338**
Option 3 ID : **264330533335**
Option 4 ID : **264330533337**
Status : **Answered**
Chosen Option : **1**

Q.6 Choose the incorrectly spelt word.

Ans

1. ✗ Blame
2. ✗ Leaf
3. ✓ Staringg
4. ✗ Grave

Question Type : **MCQ**
Question ID : **264330141188**
Option 1 ID : **264330553092**
Option 2 ID : **264330553091**
Option 3 ID : **264330553093**
Option 4 ID : **264330553094**
Status : **Answered**
Chosen Option : **3**

Join Telegram Group "HaryanaJobs.in"

Q.7 Identify the segment that contains a grammatical error. If there is no error, select 'No error'.
Although people had been on watch and / the watchkeepers were very, very tired, / everyone were up and buzzing.

Ans

1. the watchkeepers were very, very tired,
2. everyone were up and buzzing.
3. No Error
4. Although people had been on watch and

Question Type : **MCQ**
Question ID : **264330135821**
Option 1 ID : **264330532156**
Option 2 ID : **264330532157**
Option 3 ID : **264330532158**
Option 4 ID : **264330532155**
Status : **Answered**
Chosen Option : **4**

Q.8 Identify the segment that contains a grammatical error. If there is no error, select 'No error'

Your body will respond by/ getting more muscular and/ strong before you know it.

Ans

1. No error
2. Your body will respond by
3. getting more muscular and
4. strong before you know it.

Question Type : **MCQ**
Question ID : **264330135664**
Option 1 ID : **264330531554**
Option 2 ID : **264330531551**
Option 3 ID : **264330531552**
Option 4 ID : **264330531553**
Status : **Answered**
Chosen Option : **2**

Q.9 Select the most appropriate word for the given group of words.
Information, especially of a biased or misleading nature, used to promote a political cause or point of view

Ans

1. Orchard
2. Propaganda
3. Welter
4. Potable

Question Type : **MCQ**
Question ID : **264330136758**
Option 1 ID : **264330535738**
Option 2 ID : **264330535735**
Option 3 ID : **264330535736**
Option 4 ID : **264330535737**
Status : **Answered**
Chosen Option : **2**

Join Telegram Group "HaryanaJobs.in"

Q.10 Fill in the blank with the most appropriate option.

Sulochana, whose _____ I had so admired during the festival, seemed a different person.

Ans

✗ 1. crudeness

✗ 2. shadow

✗ 3. polish

✓ 4. grace

Question Type : **MCQ**
Question ID : **264330136568**
Option 1 ID : **264330535008**
Option 2 ID : **264330535010**
Option 3 ID : **264330535007**
Option 4 ID : **264330535009**
Status : **Answered**
Chosen Option : **4**

Q.11 Select the appropriate synonym for the underlined word.

You look around and you see green, happy plants.

Ans

✗ 1. nascent

✗ 2. gloomy

✗ 3. mourning

✓ 4. blissful

Question Type : **MCQ**
Question ID : **264330141196**
Option 1 ID : **264330553119**
Option 2 ID : **264330553120**
Option 3 ID : **264330553121**
Option 4 ID : **264330553122**
Status : **Answered**
Chosen Option : **1**

Q.12 In the following question, out of the given four alternatives, select the alternative which best expresses the meaning of the Idiom/Phrase.
Fairly and squarely

Ans

✗ 1. Rigorously

✗ 2. Wholly

✗ 3. Suddenly

✓ 4. Honestly

Question Type : **MCQ**
Question ID : **264330135555**
Option 1 ID : **264330531122**
Option 2 ID : **264330531120**
Option 3 ID : **264330531121**
Option 4 ID : **264330531119**
Status : **Answered**
Chosen Option : **4**

Join Telegram Group "HaryanaJobs.in"

Q.13 Select the most appropriate option to substitute the bracketed segment in the given sentence. If there is no need to substitute it, select 'no substitution required'.
(There's many a good tunes) played on an old violin.

Ans
✗ 1. There are many a good tunes
✓ 2. There are many good tunes
✗ 3. There's many good tune
✗ 4. No substitution required

Question Type : **MCQ**
Question ID : **264330135824**
Option 1 ID : **264330532169**
Option 2 ID : **264330532168**
Option 3 ID : **264330532167**
Option 4 ID : **264330532170**
Status : **Answered**
Chosen Option : **2**

Q.14 Select the most appropriate antonym of the given word.

Crude

Ans
✗ 1. Stubble
✗ 2. Intense
✓ 3. Ripe
✗ 4. Beastly

Question Type : **MCQ**
Question ID : **264330136205**
Option 1 ID : **264330533612**
Option 2 ID : **264330533611**
Option 3 ID : **264330533613**
Option 4 ID : **264330533614**
Status : **Answered**
Chosen Option : **3**

Q.15 Select the appropriate synonym for the underlined word.

Don't sound so excited

Ans
✗ 1. composed
✗ 2. casual
✓ 3. eager
✗ 4. tired

Question Type : **MCQ**
Question ID : **264330135525**
Option 1 ID : **264330531006**
Option 2 ID : **264330531005**
Option 3 ID : **264330531004**
Option 4 ID : **264330531003**
Status : **Answered**
Chosen Option : **3**

Join Telegram Group "HaryanaJobs.in"

Q.16 Choose the word that can substitute the given group of words.

A container for housing honeybees

Ans
1. Colonies ✗
2. Hive ✓
3. Pack ✗
4. Shoal ✗

Question Type : **MCQ**
Question ID : **264330141186**
Option 1 ID : **264330553085**
Option 2 ID : **264330553086**
Option 3 ID : **264330553083**
Option 4 ID : **264330553084**
Status : **Answered**
Chosen Option : **2**

Q.17 Select the most appropriate option to fill in the blank.

She has a large, _____ sympathy and absolute fairness of temper.

Ans
1. thrifty ✗
2. generous ✓
3. mean ✗
4. sparing ✗

Question Type : **MCQ**
Question ID : **264330135560**
Option 1 ID : **264330531141**
Option 2 ID : **264330531140**
Option 3 ID : **264330531139**
Option 4 ID : **264330531142**
Status : **Answered**
Chosen Option : **1**

Q.18 Improve the underlined part of the sentence. Choose 'No improvement' as an answer if the sentence is grammatically correct.

Even in time of natural disasters, the farmers had to pay their share of taxes.

Ans
1. times of natural ✓
2. timer of natural ✗
3. No improvement ✗
4. times of naturally ✗

Question Type : **MCQ**
Question ID : **264330141182**
Option 1 ID : **264330553067**
Option 2 ID : **264330553068**
Option 3 ID : **264330553070**
Option 4 ID : **264330553069**
Status : **Answered**
Chosen Option : **1**

Join Telegram Group "HaryanaJobs.in"

Q.19 Identify the segment that contains a grammatical error. If there is no error, select 'No error'.
Fred and George had / bewitched there trunks to fly downstairs to / save the bother of carrying them.

Ans
1. save the bother of carrying them. ✗
2. bewitched there trunks to fly downstairs to ✓
3. No error ✗
4. Fred and George had ✗

Question Type : **MCQ**
Question ID : **264330136135**
Option 1 ID : **264330533345**
Option 2 ID : **264330533344**
Option 3 ID : **264330533346**
Option 4 ID : **264330533343**
Status : **Answered**
Chosen Option : **1**

Q.20 A sentence has been given with a blank to be filled with an appropriate option. Choose the correct alternative.

Your presence _____ both my brother and sister.

Ans
1. effects ✗
2. effect ✗
3. affects ✓
4. affecting ✗

Question Type : **MCQ**
Question ID : **264330135158**
Option 1 ID : **264330529567**
Option 2 ID : **264330529570**
Option 3 ID : **264330529568**
Option 4 ID : **264330529569**
Status : **Answered**
Chosen Option : **3**

Comprehension:

In the following passage some words have been deleted. Fill in the blanks with the help of the alternatives given. Select the most appropriate option for each number.

He (1) _____ his eyes. Moonlight was shining (2) _____ the bars on the window. And (3) _____ was goggling through the (4) _____ at him: a freckle-faced, red-haired, long-nosed someone. Ron Weasley was outside Harry's (5) _____.

SubQuestion No : 21

Q.21 Select the most appropriate option to fill in the blank No. 1.

Ans
1. close ✗
2. opened ✓
3. open ✗
4. expanded ✗

Question Type : **MCQ**
Question ID : **264330135698**
Option 1 ID : **264330531681**
Option 2 ID : **264330531679**
Option 3 ID : **264330531680**
Option 4 ID : **264330531682**
Status : **Answered**
Chosen Option : **2**

Join Telegram Group "HaryanaJobs.in"

Comprehension:

In the following passage some words have been deleted. Fill in the blanks with the help of the alternatives given. Select the most appropriate option for each number.

He (1) _____ his eyes. Moonlight was shining (2) _____ the bars on the window. And (3) _____ was goggling through the (4) _____ at him: a freckle-faced, red-haired, long-nosed someone. Ron Weasley was outside Harry's (5) _____.

SubQuestion No : 22

Q.22 Select the most appropriate option to fill in the blank No. 2.

Ans

✗ 1. complete

✓ 2. through

✗ 3. in

✗ 4. though

Question Type : **MCQ**
Question ID : **264330135699**
Option 1 ID : **264330531685**
Option 2 ID : **264330531684**
Option 3 ID : **264330531686**
Option 4 ID : **264330531683**
Status : **Answered**
Chosen Option : **2**

Comprehension:

In the following passage some words have been deleted. Fill in the blanks with the help of the alternatives given. Select the most appropriate option for each number.

He (1) _____ his eyes. Moonlight was shining (2) _____ the bars on the window. And (3) _____ was goggling through the (4) _____ at him: a freckle-faced, red-haired, long-nosed someone. Ron Weasley was outside Harry's (5) _____.

SubQuestion No : 23

Q.23 Select the most appropriate option to fill in the blank No. 3.

Ans

✗ 1. sometimes

✗ 2. somewhat

✓ 3. someone

✗ 4. somewhere

Question Type : **MCQ**
Question ID : **264330135700**
Option 1 ID : **264330531690**
Option 2 ID : **264330531688**
Option 3 ID : **264330531687**
Option 4 ID : **264330531689**
Status : **Answered**
Chosen Option : **3**

Join Telegram Group "HaryanaJobs.in"

Comprehension:

In the following passage some words have been deleted. Fill in the blanks with the help of the alternatives given. Select the most appropriate option for each number.

He (1) _____ his eyes. Moonlight was shining (2) _____ the bars on the window. And (3) _____ was goggling through the (4) _____ at him: a freckle-faced, red-haired, long-nosed someone. Ron Weasley was outside Harry's (5) _____.

SubQuestion No : 24

Q.24 Select the most appropriate option to fill in the blank No. 4.

Ans

✔ 1. bars

✘ 2. horizontals

✘ 3. grills

✘ 4. verticals

Question Type : **MCQ**
Question ID : **264330135701**
Option 1 ID : **264330531692**
Option 2 ID : **264330531694**
Option 3 ID : **264330531691**
Option 4 ID : **264330531693**
Status : **Answered**
Chosen Option : **1**

Comprehension:

In the following passage some words have been deleted. Fill in the blanks with the help of the alternatives given. Select the most appropriate option for each number.

He (1) _____ his eyes. Moonlight was shining (2) _____ the bars on the window. And (3) _____ was goggling through the (4) _____ at him: a freckle-faced, red-haired, long-nosed someone. Ron Weasley was outside Harry's (5) _____.

SubQuestion No : 25

Q.25 Select the most appropriate option to fill in the blank No. 5.

Ans

✘ 1. cupboard

✔ 2. window

✘ 3. toilet

✘ 4. suitcase

Question Type : **MCQ**
Question ID : **264330135702**
Option 1 ID : **264330531697**
Option 2 ID : **264330531695**
Option 3 ID : **264330531698**
Option 4 ID : **264330531696**
Status : **Answered**
Chosen Option : **2**

Join Telegram Group "HaryanaJobs.in"

Multi Tasking Non Technical Staff and Havaldar CBIC and CBN Examination 2022

Roll Number	HaryanaJobs.in
Candidate Name	HaryanaJobs.in
Venue Name	iON Digital Zone iDZ Green Park
Exam Date	13/06/2023
Exam Time	12:00 PM - 2:00 PM
Subject	MTS Non Tech Havaldar CBIC and CBN Examination 2022

Section : **Numerical and Mathematical Ability**

Q.1 U, V और W साथ मिलकर एक कार्य को 10 दिनों में पूरा कर सकते हैं। यदि U, V से तीन गुना अधिक तेजी से कार्य कर सकता है और V, W से दोगुना अधिक तेजी से कार्य कर सकता है, तो W अकेले उसी कार्य को कितने दिनों में पूरा कर सकता है?

Ans

✗ 1. 45 दिनों में

✗ 2. 100 दिनों में

✓ 3. 90 दिनों में

✗ 4. 63 दिनों में

Question Type : **MCQ**
Question ID : **264330139892**
Option 1 ID : **264330547950**
Option 2 ID : **264330547947**
Option 3 ID : **264330547948**
Option 4 ID : **264330547949**
Status : **Answered**
Chosen Option : **3**

Q.2 Rs.1080 पर 48 प्रतिशत का एकल बट्टा दिया गया। यदि 25 प्रतिशत और 20 प्रतिशत के दो क्रमागत बट्टे दिए जाते हैं, तो दोनों विक्रय मूल्यों के बीच कितना अंतर होगा?

Ans

✗ 1. Rs. 72.5

✓ 2. Rs. 86.4

✗ 3. Rs. 65.8

✗ 4. Rs. 80.8

Question Type : **MCQ**
Question ID : **264330140575**
Option 1 ID : **264330550653**
Option 2 ID : **264330550652**
Option 3 ID : **264330550654**
Option 4 ID : **264330550651**
Status : **Answered**
Chosen Option : **2**

Join Telegram Group "HaryanaJobs.in"

Q.3 $\frac{96 \text{ of } 2 \div 24 \div 92}{10 \times 10 \div 10}$ का मान क्या है?

Ans
1. 10
2. 50
3. 1
4. 100

Question Type : **MCQ**
Question ID : **264330140209**
Option 1 ID : **264330549216**
Option 2 ID : **264330549218**
Option 3 ID : **264330549215**
Option 4 ID : **264330549217**
Status : **Answered**
Chosen Option : **1**

Q.4 एक गिलास का विक्रय मूल्य Rs.1287 है और हानि प्रतिशत 22 प्रतिशत है। यदि विक्रय मूल्य Rs.1848 है, तो लाभ प्रतिशत क्या होगा?

Ans
1. 12 प्रतिशत
2. 15 प्रतिशत
3. 10 प्रतिशत
4. 8 प्रतिशत

Question Type : **MCQ**
Question ID : **264330139615**
Option 1 ID : **264330546876**
Option 2 ID : **264330546875**
Option 3 ID : **264330546877**
Option 4 ID : **264330546878**
Status : **Answered**
Chosen Option : **1**

Q.5 छात्रों के एक समूह का औसत भार 42 kg है। 48 kg भार वाला एक छात्र समूह छोड़ देता है और 44 kg भार वाला एक अन्य छात्र समूह में शामिल हो जाता है। यदि नया औसत भार 41.6 kg हो जाता है, तो समूह में कितने छात्र हैं?

Ans
1. 15
2. 8
3. 10
4. 12

Question Type : **MCQ**
Question ID : **264330140615**
Option 1 ID : **264330550810**
Option 2 ID : **264330550807**
Option 3 ID : **264330550808**
Option 4 ID : **264330550809**
Status : **Answered**
Chosen Option : **3**

Join Telegram Group "HaryanaJobs.in"

Q.6 विकास ने 3 परीक्षाएँ दीं। उसके द्वारा तीन परीक्षाओं में प्राप्त अंकों का क्रमशः अनुपात 3 : 5 : 6 है। तीन परीक्षाओं के अधिकतम अंकों का क्रमशः अनुपात 7 : 11 : 10 है। यदि उसने कुल मिलाकर 50 प्रतिशत अंक प्राप्त किए हैं, तो कितनी परीक्षाओं में उसने 50 प्रतिशत से अधिक अंक प्राप्त किए हैं?

Ans

✗ 1. 2

✓ 2. 1

✗ 3. किसी में नहीं

✗ 4. 3

Question Type : **MCQ**
Question ID : **264330140248**
Option 1 ID : **264330549373**
Option 2 ID : **264330549372**
Option 3 ID : **264330549371**
Option 4 ID : **264330549374**
Status : **Answered**
Chosen Option : **1**

Q.7 किसी राशि पर 8 प्रतिशत वार्षिक दर से प्राप्त साधारण ब्याज, उस राशि का 2/5 है। समय अवधि क्या है?

Ans

✓ 1. 5 वर्ष

✗ 2. 7.5 वर्ष

✗ 3. 6 वर्ष

✗ 4. 4 वर्ष

Question Type : **MCQ**
Question ID : **264330140543**
Option 1 ID : **264330550527**
Option 2 ID : **264330550530**
Option 3 ID : **264330550528**
Option 4 ID : **264330550529**
Status : **Answered**
Chosen Option : **1**

Q.8 5 cm त्रिज्या और 30 cm तिर्यक ऊँचाई वाले शंकु का वक्र पृष्ठीय क्षेत्रफल क्या होगा? (π = 3.14 का प्रयोग करें)

Ans

✗ 1. 715 m^2

✗ 2. 543 m^2

✓ 3. 471 cm^2

✗ 4. 234 m^2

Question Type : **MCQ**
Question ID : **264330140795**
Option 1 ID : **264330551529**
Option 2 ID : **264330551528**
Option 3 ID : **264330551527**
Option 4 ID : **264330551530**
Status : **Answered**
Chosen Option : **3**

Join Telegram Group "HaryanaJobs.in"

Q.9 Rs.10 प्रति किलोग्राम मूल्य वाली चाय को Rs.15 प्रति किलोग्राम मूल्य वाली चाय के साथ किस अनुपात में मिलाया जाए कि परिणामी मिश्रण का मूल्य Rs.12 प्रति किलोग्राम हो?

Ans
1. ✗ 3 : 5
2. ✓ 3 : 2
3. ✗ 2 : 5
4. ✗ 2 : 3

Question Type : **MCQ**
Question ID : **264330133584**
Option 1 ID : **264330523360**
Option 2 ID : **264330523359**
Option 3 ID : **264330523361**
Option 4 ID : **264330523362**
Status : **Answered**
Chosen Option : **2**

Q.10 एक पुरुष ने एक संख्या का 5/8 के स्थान पर 8/5 से गुणा किया। गणना में प्रतिशत त्रुटि कितनी है?

Ans
1. ✗ 162%
2. ✗ 124%
3. ✓ 156%
4. ✗ 100%

Question Type : **MCQ**
Question ID : **264330139041**
Option 1 ID : **264330544774**
Option 2 ID : **264330544772**
Option 3 ID : **264330544773**
Option 4 ID : **264330544771**
Status : **Answered**
Chosen Option : **3**

Q.11 दो बेलनों के आयतन का अनुपात 13 : 1 है और उनकी ऊँचाइयों का अनुपात 13 : 9 है। यदि दूसरे बेलन के आधार का क्षेत्रफल 154 cm^2 है, तो पहले बेलन की त्रिज्या क्या होगी?

Ans
1. ✗ 42 cm
2. ✗ 28 cm
3. ✗ 14 cm
4. ✓ 21 cm

Question Type : **MCQ**
Question ID : **264330140644**
Option 1 ID : **264330550926**
Option 2 ID : **264330550925**
Option 3 ID : **264330550924**
Option 4 ID : **264330550923**
Status : **Answered**
Chosen Option : **4**

Join Telegram Group "HaryanaJobs.in"

Q.12 निम्नलिखित तालिका में वर्ष 2018 से 2022 तक एक कंपनी द्वारा किए गए व्यय को दर्शाया गया है। इस अवधि के दौरान कंपनी द्वारा प्रति वर्ष भुगतान किए गए कर की औसत धनराशि कितनी है?

Year	Expenditure(in lakh)				
	Fuel and Transport	Taxes	Bonus	Interest on loans	Salary
2018	98	100	1.5	25.5	325
2019	120	105	2.4	36.6	400
2020	114	102	3.8	42.8	422
2021	128	98	3.9	38.4	425
2022	140	92	4.2	48.5	440

Expenditure (in lakh) - खर्च (लाख में), Year - वर्ष, Fuel and Transport - ईंधन और परिवहन, taxes - कर, Bonus - बोनस, Interest on loans - ऋण पर ब्याज, Salary - वेतन

Ans

✗ 1. 90.2 लाख

✓ 2. 99.4 लाख

✗ 3. 92.5 लाख

✗ 4. 91.4 लाख

Question Type : **MCQ**
Question ID : **264330140837**
Option 1 ID : **264330551698**
Option 2 ID : **264330551697**
Option 3 ID : **264330551695**
Option 4 ID : **264330551696**
Status : **Answered**
Chosen Option : **1**

Q.13 नीचे दिए गए वृत्त आलेख में एक वर्ष में सात कंपनियों द्वारा की गई बचत को दर्शाया गया है। इन सभी कंपनियों की कुल बचत 12000 है। इनमें से किसी एक विशिष्ट कंपनी की बचत को इन सभी सात कंपनियों की कुल बचत के प्रतिशत के रूप में दर्शाया गया है।

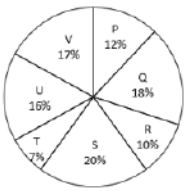

निम्नलिखित में से कौन-सा कथन सही है?

I. Q की बचत और U की बचत का अनुपात 8 : 9 है।

II. त्रिज्यखंड R द्वारा बनने वाला केंद्रीय कोण 36° है।

III. P की बचत, S की बचत का 60 प्रतिशत है।

Ans

✗ 1. I और II

✗ 2. I और III

✓ 3. II और III

✗ 4. I, II और III

Question Type : **MCQ**
Question ID : **264330139910**
Option 1 ID : **264330548019**
Option 2 ID : **264330548021**
Option 3 ID : **264330548020**
Option 4 ID : **264330548022**
Status : **Answered**
Chosen Option : **3**

Join Telegram Group "HaryanaJobs.in"

Q.14 2 वर्ष पहले, X और Y की आयु का अनुपात 7:5 था और 2 वर्ष बाद उनकी आयु का अनुपात 9:7 हो जाएगा। Y की वर्तमान आयु कितनी है?

Ans

1. 18 वर्ष
2. 12 वर्ष
3. 14 वर्ष
4. 16 वर्ष

Question Type : **MCQ**
Question ID : **264330140181**
Option 1 ID : **264330549106**
Option 2 ID : **264330549103**
Option 3 ID : **264330549105**
Option 4 ID : **264330549104**
Status : **Answered**
Chosen Option : **2**

Q.15 यदि विक्रय मूल्य का 2 गुना, क्रय मूल्य के 3 गुना के बराबर है, तो लाभ प्रतिशत क्या है??

Ans

1. 40 प्रतिशत
2. 50 प्रतिशत
3. 4 प्रतिशत
4. 25 प्रतिशत

Question Type : **MCQ**
Question ID : **264330140569**
Option 1 ID : **264330550630**
Option 2 ID : **264330550629**
Option 3 ID : **264330550627**
Option 4 ID : **264330550628**
Status : **Answered**
Chosen Option : **2**

Q.16 एक रेलगाड़ी मुंबई से 3:00 pm पर निकलती है और 20 km/hr की चाल से अहमदाबाद की ओर चलती है। एक दूसरी रेलगाड़ी अहमदाबाद से 8 pm पर निकलती है और 60 km/hr की चाल से मुंबई की ओर चलती है। यदि मुंबई और अहमदाबाद के बीच की दूरी 600 km है, तो दोनों रेलगाड़ियाँ किस समय मिलेंगी?

Ans

1. 2:15 am
2. 1:30 am
3. 12:30 am
4. 2:00 am

Question Type : **MCQ**
Question ID : **264330140613**
Option 1 ID : **264330550799**
Option 2 ID : **264330550800**
Option 3 ID : **264330550801**
Option 4 ID : **264330550802**
Status : **Answered**
Chosen Option : **1**

Join Telegram Group "HaryanaJobs.in"

Q.17 यदि समयावधि को 5 वर्ष बढ़ा दिया जाए, तो Rs. 6000 की धनराशि पर साधारण ब्याज Rs. 3600 बढ़ जाता है। वार्षिक ब्याज दर क्या है?

Ans
✔ 1. 12 प्रतिशत
✘ 2. 15 प्रतिशत
✘ 3. 10 प्रतिशत
✘ 4. 12.5 प्रतिशत

Question Type : **MCQ**
Question ID : **264330139027**
Option 1 ID : **264330544716**
Option 2 ID : **264330544717**
Option 3 ID : **264330544715**
Option 4 ID : **264330544718**
Status : **Answered**
Chosen Option : **1**

Q.18 12, 24 और 36 के लघुत्तम समपवर्त्य और महत्तम समापवर्तक का अनुपात क्या होगा?

Ans
✘ 1. 4 : 1
✘ 2. 2 : 1
✘ 3. 3 : 1
✔ 4. 6 : 1

Question Type : **MCQ**
Question ID : **264330140578**
Option 1 ID : **264330550664**
Option 2 ID : **264330550665**
Option 3 ID : **264330550663**
Option 4 ID : **264330550666**
Status : **Answered**
Chosen Option : **4**

Q.19 49 ÷ 7 - 343 ÷ 7 - 243 ÷ 27 + 729 ÷ 27 + 152 ÷ 19 का मान क्या है?

Ans
✘ 1. 16
✘ 2. -32
✘ 3. 32
✔ 4. -16

Question Type : **MCQ**
Question ID : **264330139033**
Option 1 ID : **264330544739**
Option 2 ID : **264330544740**
Option 3 ID : **264330544741**
Option 4 ID : **264330544742**
Status : **Answered**
Chosen Option : **4**

Join Telegram Group "HaryanaJobs.in"

Q.20 मोहित और रोहित ने Rs.2200 में एक कार्य हाथ में लिया। मोहित अकेले उस कार्य को 10 दिनों में कर सकता है और रोहित उसी कार्य को अकेले 12 दिनों में कर सकता है। यदि वे साथ मिलकर कार्य करते हैं, तो उन्हें प्राप्त होने वाली राशि में कितना अंतर होगा?

Ans

✗ 1. Rs. 400

✗ 2. Rs. 600

✓ 3. Rs. 200

✗ 4. Rs. 500

Question Type : **MCQ**
Question ID : **264330140153**
Option 1 ID : **264330548991**
Option 2 ID : **264330548994**
Option 3 ID : **264330548992**
Option 4 ID : **264330548993**
Status : **Answered**
Chosen Option : **3**

Section : **Reasoning Ability and Problem Solving**

Q.1 नीचे दिए गए समीकरण में कौन-से गणितीय चिन्हों को आपस में बदला जाना चाहिए जिससे यह समीकरण गणितीय रूप से सही हो जाएगा?

72 ÷ 4 × 64 + 8 - 24 = 80

Ans

✗ 1. - और ×

✗ 2. ÷ और ×

✓ 3. ÷ और +

✗ 4. - और +

Question Type : **MCQ**
Question ID : **264330140487**
Option 1 ID : **264330550330**
Option 2 ID : **264330550327**
Option 3 ID : **264330550328**
Option 4 ID : **264330550329**
Status : **Answered**
Chosen Option : **3**

Join Telegram Group "HaryanaJobs.in"

Q.2 दी गई आकृति के उस सही दर्पण प्रतिबिंब को चुनिए जो दर्पण को नीचे दर्शाए गए अनुसार MN पर रखने पर बनेगा।

Ans

✗ 1. 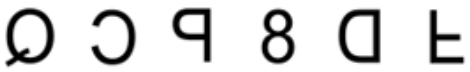

✗ 2. 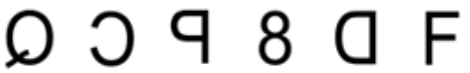

✓ 3. 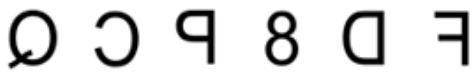

✗ 4. 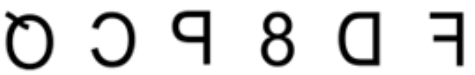

Question Type : **MCQ**
Question ID : **264330140111**
Option 1 ID : **264330548824**
Option 2 ID : **264330548823**
Option 3 ID : **264330548826**
Option 4 ID : **264330548825**
Status : **Answered**
Chosen Option : **3**

Q.3 एक स्कूल के सात छात्रों, E, F, G, H, I, J, और K सभी ने अलग-अलग अंक प्राप्त किए हैं। E के अंक केवल एक छात्र से कम थे। K ने केवल एक छात्र से अधिक अंक प्राप्त किए। H के अंक I से अधिक लेकिन E से कम थे। न तो F और न ही G को सबसे कम अंक प्राप्त हुए। I के अंक K से अधिक थे। सबसे कम अंक किसने प्राप्त किए?

Ans

✗ 1. I

✗ 2. F

✓ 3. J

✗ 4. E

Question Type : **MCQ**
Question ID : **264330139999**
Option 1 ID : **264330548377**
Option 2 ID : **264330548378**
Option 3 ID : **264330548375**
Option 4 ID : **264330548376**
Status : **Answered**
Chosen Option : **1**

Join Telegram Group "HaryanaJobs.in"

Q.4 उस समुच्चय को चुनिए जिसमें संख्याएँ ठीक उसी प्रकार संबंधित हैं जिस प्रकार निम्नलिखित समुच्चयों की संख्याएँ संबंधित हैं। (ध्यान दें: संख्याओं को उनके घटक अंकों में अलग-अलग किए बिना, पूर्ण संख्याओं पर संक्रियाएँ की जानी चाहिए। उदा. 13 - 13 पर संक्रियाएँ जैसे 13 को जोड़ना/घटाना/गुणा करना आदि किया जा सकता है। 13 को 1 और 3 में अलग-अलग करने की और फिर 1 और 3 पर गणितीय संक्रियाएँ करने की अनुमति नहीं है)
(27, 9, 3)
(125, 25, 5)

Ans
1. (739, 81, 9)
2. (243, 49, 7)
3. (512, 64, 8)
4. (206, 36, 6)

Question Type : **MCQ**
Question ID : **264330140446**
Option 1 ID : **264330550165**
Option 2 ID : **264330550164**
Option 3 ID : **264330550166**
Option 4 ID : **264330550163**
Status : **Answered**
Chosen Option : **3**

Q.5 छः व्यक्ति आकाश, नमन, दिव्या, राकेश, पंकज और रमेश दो समानांतर पंक्तियों में इस प्रकार बैठे हैं कि प्रत्येक पंक्ति में तीन व्यक्ति एक-दूसरे की ओर मुख करके बैठे हैं। आकाश का मुख नमन की ओर है जो दिव्या के ठीक बाईं ओर बैठा है। दिव्या, रमेश के सम्मुख बैठी है जिसका मुख दक्षिण दिशा की ओर है। पंकज, रमेश के ठीक बाईं ओर बैठा है। उनमें से कौन उत्तर की ओर मुख करके बैठा है और किसी भी कोने पर नहीं बैठा है?

Ans
1. नमन
2. आकाश
3. दिव्या
4. राकेश

Question Type : **MCQ**
Question ID : **264330140080**
Option 1 ID : **264330548702**
Option 2 ID : **264330548701**
Option 3 ID : **264330548699**
Option 4 ID : **264330548700**
Status : **Answered**
Chosen Option : **2**

Q.6 एक निश्चित कूट भाषा में, 'MYNB' को '2468' लिखा जाता है, 'ZNBA' को '5687' लिखा जाता है, 'QRMA' को '1253' लिखा जाता है। उस कूट भाषा में 'Z' को कैसे लिखा जाएगा?

Ans
1. 8
2. 6
3. 7
4. 5

Question Type : **MCQ**
Question ID : **264330140057**
Option 1 ID : **264330548607**
Option 2 ID : **264330548609**
Option 3 ID : **264330548610**
Option 4 ID : **264330548608**
Status : **Answered**
Chosen Option : **3**

Join Telegram Group "HaryanaJobs.in"

Q.7 सात लड़कियाँ मानसी, श्वेता, मोनिका, पायल, आरती, काजल और लक्ष्मी एक वृत्ताकार मेज के चारों ओर केंद्र की ओर मुख करके बैठी हैं (परंतु जरूरी नहीं कि वे इसी क्रम में बैठीं हो)। पायल, मानसी के ठीक बाईं ओर है। मानसी, लक्ष्मी के बाईं ओर से तीसरे स्थान पर है। काजल, आरती की निकटतम पड़ोसी नहीं है। श्वेता, काजल के बाईं ओर से दूसरे स्थान पर है। मोनिका के बाईं ओर से तीसरे स्थान पर कौन बैठा है?

Ans

✗ 1. पायल

✗ 2. काजल

✓ 3. श्वेता

✗ 4. आरती

Question Type : **MCQ**
Question ID : **264330139554**
Option 1 ID : **264330546633**
Option 2 ID : **264330546631**
Option 3 ID : **264330546634**
Option 4 ID : **264330546632**
Status : **Not Answered**
Chosen Option : **--**

Q.8 दी गई श्रृंखला में निम्नलिखित में से कौन-सा अक्षर-समूह प्रश्न चिन्ह (?) के स्थान पर आएगा?
DH, EJ, FL, GN, ?

Ans

✗ 1. HN

✗ 2. PH

✗ 3. GM

✓ 4. HP

Question Type : **MCQ**
Question ID : **264330140412**
Option 1 ID : **264330550028**
Option 2 ID : **264330550029**
Option 3 ID : **264330550030**
Option 4 ID : **264330550027**
Status : **Answered**
Chosen Option : **4**

Join Telegram Group "HaryanaJobs.in"

Q.9 कौन-सी उत्तर आकृति प्रश्न आकृति में पैटर्न को पूरा करेगी?

Ans

✗ 1.

✓ 2.

✗ 3.

✗ 4.

Question Type : **MCQ**
Question ID : **264330140995**
Option 1 ID : **264330552329**
Option 2 ID : **264330552328**
Option 3 ID : **264330552330**
Option 4 ID : **264330552327**
Status : **Answered**
Chosen Option : **2**

Q.10 एक निश्चित कूट भाषा में, 'DMCGH' को 'CKZCC' लिखा जाता है। उस भाषा में 'TLFUP' को कैसे लिखा जाएगा?

Ans

✗ 1. SCJQK

✗ 2. SJCQQ

✗ 3. SJCKQ

✓ 4. SJCQK

Question Type : **MCQ**
Question ID : **264330140078**
Option 1 ID : **264330548691**
Option 2 ID : **264330548693**
Option 3 ID : **264330548692**
Option 4 ID : **264330548694**
Status : **Answered**
Chosen Option : **4**

Join Telegram Group "HaryanaJobs.in"

Q.11 निम्नलिखित प्रश्न में, दी गई श्रृंखला में लुप्त संख्या को चुनिए ।

300, 271, 242, 213, 184, ?

Ans
✔ 1. 155
✘ 2. 150
✘ 3. 160
✘ 4. 153

Question Type : **MCQ**
Question ID : **264330140987**
Option 1 ID : **264330552295**
Option 2 ID : **264330552296**
Option 3 ID : **264330552298**
Option 4 ID : **264330552297**
Status : **Answered**
Chosen Option : **1**

Q.12 उस विकल्प को चुनिए जो तीसरे अक्षर-समूह से ठीक उसी तरह संबंधित है जिस तरह दूसरा अक्षर-समूह पहले अक्षर-समूह से संबंधित है।
AP : CN :: RT : ?

Ans
✘ 1. RT
✘ 2. TS
✘ 3. SR
✔ 4. TR

Question Type : **MCQ**
Question ID : **264330138768**
Option 1 ID : **264330543679**
Option 2 ID : **264330543682**
Option 3 ID : **264330543681**
Option 4 ID : **264330543680**
Status : **Answered**
Chosen Option : **4**

Join Telegram Group "HaryanaJobs.in"

Q.13 In the following question below are given some statements followed by some conclusions based on those statements. Taking the given statements to be true even if they seem to be at variance from commonly known facts. Read all the conclusions and then decide which of the given conclusion logically follows the given statements.

Statements:

I. Some pencil are paper.

II. No book is paper.

Conclusion:

I. Some pencil are not book.

II. All book are pencil.

III. Some paper are pencil.

Ans

✔ 1. Both conclusions I and III follows

✘ 2. Both conclusions II and III follows

✘ 3. All conclusion follows

✘ 4. Only conclusion II follows

Question Type : **MCQ**
Question ID : **264330139558**
Option 1 ID : **264330546648**
Option 2 ID : **264330546650**
Option 3 ID : **264330546649**
Option 4 ID : **264330546647**
Status : **Answered**
Chosen Option : **1**

Q.14 दिए गए समीकरण को सही करने के लिए किन दो चिन्हों को आपस में बदला जाना चाहिए?
68 ÷ 2 − 42 + 108 × 12 = 103

Ans

✘ 1. = और -

✔ 2. ÷ और ×

✘ 3. ÷ और +

✘ 4. + और -

Question Type : **MCQ**
Question ID : **264330140007**
Option 1 ID : **264330548408**
Option 2 ID : **264330548407**
Option 3 ID : **264330548409**
Option 4 ID : **264330548410**
Status : **Not Answered**
Chosen Option : **--**

Join Telegram Group "HaryanaJobs.in"

Q.15 उस विकल्प को चुनिए जो छठी संख्या से ठीक उसी प्रकार संबंधित है जिस प्रकार पहली संख्या दूसरी संख्या से संबंधित है और तीसरी संख्या चौथी संख्या से संबंधित है।

22 : 484 :: 23 : 529 :: ? : 729

Ans
1. 29
2. 26
3. 31
4. 27

Question Type : **MCQ**
Question ID : **264330139984**
Option 1 ID : **264330548316**
Option 2 ID : **264330548317**
Option 3 ID : **264330548315**
Option 4 ID : **264330548318**
Status : **Answered**
Chosen Option : **4**

Join Telegram Group "HaryanaJobs.in"

Q.16 उस विकल्प आकृति को चुनिए जिसमें दी गई आकृति निहित है।(घूर्णन की अनुमति नहीं है)

Ans

✗ 1.

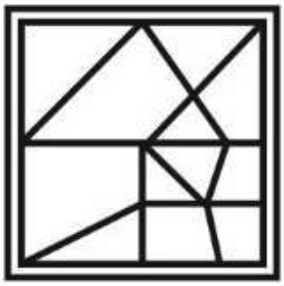

✓ 2.

✗ 3.

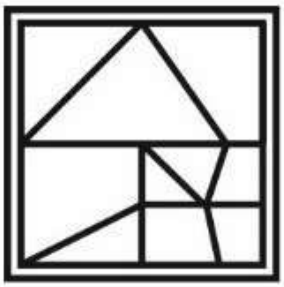

✗ 4.

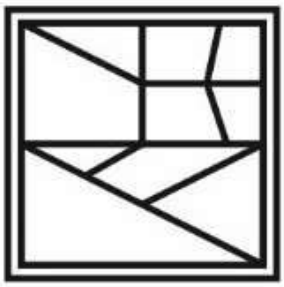

Question Type : **MCQ**
Question ID : **264330139545**
Option 1 ID : **264330546598**
Option 2 ID : **264330546597**
Option 3 ID : **264330546596**
Option 4 ID : **264330546595**
Status : **Answered**
Chosen Option : **2**

Join Telegram Group "HaryanaJobs.in"

Q.17 एक निश्चित कूट भाषा में, 'FOUR' को 'ENTQ' लिखा जाता है और 'LIKE' को 'KHJD' लिखा जाता है। उस कूट भाषा में 'DOWN' को कैसे लिखा जाएगा?

Ans

✗ 1. CNUM

✗ 2. CMVM

✗ 3. CNVO

✓ 4. CNVM

Question Type : **MCQ**
Question ID : **264330140037**
Option 1 ID : **264330548530**
Option 2 ID : **264330548529**
Option 3 ID : **264330548528**
Option 4 ID : **264330548527**
Status : **Answered**
Chosen Option : **4**

Q.18 Two statements are given followed by two conclusions numbered I and II. Assuming the statements to be true, even if they seem to be at variance with commonly known facts, decide which of the conclusions logically follow(s) from the statements.

Statements:
All beds are pillows.
No pillow is a blanket.

Conclusions:
I. Some pillows are beds.
II. No bed is a blanket.

Ans

✗ 1. Only conclusion I follows

✗ 2. Neither conclusion I nor II follows

✗ 3. Only conclusion II follows

✓ 4. Both conclusions I and II follow

Question Type : **MCQ**
Question ID : **264330140021**
Option 1 ID : **264330548463**
Option 2 ID : **264330548466**
Option 3 ID : **264330548464**
Option 4 ID : **264330548465**
Status : **Answered**
Chosen Option : **4**

Join Telegram Group "HaryanaJobs.in"

Q.19 निम्नलिखित प्रश्न में, दी गई श्रृंखला में लुप्त संख्या को चुनिए।

500, 497, 488, 461, 380, ?

Ans
1. 137
2. 130
3. 141
4. 140

Question Type : **MCQ**
Question ID : **264330140968**
Option 1 ID : **264330552220**
Option 2 ID : **264330552219**
Option 3 ID : **264330552222**
Option 4 ID : **264330552221**
Status : **Answered**
Chosen Option : **1**

Q.20 (::) के बाईं ओर दिए गए शब्द आपस में किसी तर्क/नियम/संबंध द्वारा संबंधित हैं। समान तर्क/नियम/संबंध के आधार पर दिए गए विकल्पों में से (::) के दाईं ओर लुप्त शब्द/शब्द युग्म को चुनिए।

क्लर्क(Clerk) : कार्यालय :: ?

Ans
1. योद्धा : युद्ध का मैदान
2. दुकान : किराना व्यापारी
3. गैराज : मैकेनिक
4. अस्पताल: किसान

Question Type : **MCQ**
Question ID : **264330140958**
Option 1 ID : **264330552179**
Option 2 ID : **264330552180**
Option 3 ID : **264330552181**
Option 4 ID : **264330552182**
Status : **Answered**
Chosen Option : **1**

Section : **General Awareness**

Join Telegram Group "HaryanaJobs.in"

Q.1 निम्न में से कौन-सी स्वतंत्रता संग्राम सेनानी उत्तरप्रदेश राज्य की राज्यपाल बनने वाली पहली महिला भी थी?

Ans
1. रानी लक्ष्मीबाई
2. राजकुमारी अमृत कौर
3. कस्तूरबा गांधी
4. सरोजिनी नायडू

Question Type : **MCQ**
Question ID : **264330140766**
Option 1 ID : **264330551412**
Option 2 ID : **264330551411**
Option 3 ID : **264330551414**
Option 4 ID : **264330551413**
Status : **Answered**
Chosen Option : **4**

Q.2 भारत में बैडमिंटन के लिए शासी निकाय कौन-सा है?

Ans
1. इंडियन बैडमिंटन एसोसिएशन (Indian Badminton Association)
2. बैडमिंटन एजेंसी ऑफ इंडिया (Badminton Agency of India)
3. बैडमिंटन एसोसिएशन ऑफ इंडिया (Badminton Association of India)
4. इंडियन बैडमिंटन एजेंसी (Indian Badminton Agency)

Question Type : **MCQ**
Question ID : **264330138975**
Option 1 ID : **264330544509**
Option 2 ID : **264330544508**
Option 3 ID : **264330544507**
Option 4 ID : **264330544510**
Status : **Answered**
Chosen Option : **1**

Q.3 फरवरी 2022 में कर्मचारी चयन आयोग (SSC) का अध्यक्ष किसे नियुक्त किया गया है?

Ans
1. एस. किशोर
2. राकेश शर्मा
3. के.एस. मणि
4. विनीत जोशी

Question Type : **MCQ**
Question ID : **264330139731**
Option 1 ID : **264330547339**
Option 2 ID : **264330547341**
Option 3 ID : **264330547340**
Option 4 ID : **264330547342**
Status : **Answered**
Chosen Option : **1**

Join Telegram Group "HaryanaJobs.in"

Q.4 निम्नलिखित में से कौन-सा संयुक्त क्षेत्र के उद्योग का एक उदाहरण है?

Ans
1. आनंद मिल्क यूनियन लिमिटेड
2. मारुति उद्योग लिमिटेड
3. हिंदुस्तान एरोनॉटिक्स लिमिटेड
4. स्टील ऑथॉरिटी ऑफ इंडिया लिमिटेड

Question Type : **MCQ**
Question ID : **264330140326**
Option 1 ID : **264330549686**
Option 2 ID : **264330549685**
Option 3 ID : **264330549684**
Option 4 ID : **264330549683**
Status : **Answered**
Chosen Option : **1**

Q.5 निम्नलिखित में से किस क्षेत्र में चक्रवात को "टाइफून (Typhoon)" के नाम से जाना जाता है?

Ans
1. कनाडा
2. जापान
3. भारत
4. ब्राज़ील

Question Type : **MCQ**
Question ID : **264330139688**
Option 1 ID : **264330547167**
Option 2 ID : **264330547170**
Option 3 ID : **264330547169**
Option 4 ID : **264330547168**
Status : **Answered**
Chosen Option : **2**

Q.6 दर्पण एकेडमी ऑफ़ परफॉर्मिंग आर्ट्स (Darpana Academy of Performing Arts)के संस्थापक और संचालक रह चुके किस प्रसिद्ध भारतीय नर्तक/नर्तकी को 1965 में पद्म श्री पुरस्कार मिला था?

Ans
1. रुक्मिणी देवी अरुंडेल
2. प्रभु देवा
3. मृणालिनी साराभाई
4. पंडित बिरजू महाराज

Question Type : **MCQ**
Question ID : **264330140770**
Option 1 ID : **264330551429**
Option 2 ID : **264330551428**
Option 3 ID : **264330551427**
Option 4 ID : **264330551430**
Status : **Answered**
Chosen Option : **1**

Join Telegram Group "HaryanaJobs.in"

Q.7 _____ के पुत्र और उत्तराधिकारी, कुमारगुप्त प्रथम का शासनकाल शांति व्यवस्था और सापेक्षिक निष्क्रियता (relative inactivity) का काल था।

Ans
1. चंद्रगुप्त प्रथम
2. स्कन्दगुप्त
3. समुद्रगुप्त
4. चंद्रगुप्त द्वितीय

Question Type : **MCQ**
Question ID : **264330140330**
Option 1 ID : **264330549699**
Option 2 ID : **264330549702**
Option 3 ID : **264330549700**
Option 4 ID : **264330549701**
Status : **Not Answered**
Chosen Option : **--**

Q.8 भारत का संविधान अपने _____ को वोट डालने का अधिकार देता है।

Ans
1. सभी पुरुष नागरिकों
2. सभी नागरिक और गैर-नागरिकों
3. सभी करदाताओं
4. सभी वयस्क नागरिकों

Question Type : **MCQ**
Question ID : **264330140279**
Option 1 ID : **264330549496**
Option 2 ID : **264330549498**
Option 3 ID : **264330549495**
Option 4 ID : **264330549497**
Status : **Answered**
Chosen Option : **4**

Q.9 दुखद कहानी "ओथेलो (Othello)" के लेखक कौन हैं?

Ans
1. विलियम वर्ड्सवर्थ (William Wordsworth)
2. जोहान्स गुटेनबर्ग (Johannes Gutenberg)
3. विलियम शेक्सपियर (William Shakespeare)
4. चार्ल्स डिकेन्स (Charles Dickens)

Question Type : **MCQ**
Question ID : **264330140693**
Option 1 ID : **264330551119**
Option 2 ID : **264330551121**
Option 3 ID : **264330551120**
Option 4 ID : **264330551122**
Status : **Not Answered**
Chosen Option : **--**

Join Telegram Group "HaryanaJobs.in"

Q.10 निम्नलिखित में से कौन-सा मिट्टी द्वारा प्रदत्त किए जाने वाले सूक्ष्म पोषक तत्व का एक उदाहरण है?

Ans
1. सल्फ़र
2. कैल्शियम
3. पोटैशियम
4. आयरन

Question Type : **MCQ**
Question ID : **264330139686**
Option 1 ID : **264330547162**
Option 2 ID : **264330547159**
Option 3 ID : **264330547160**
Option 4 ID : **264330547161**
Status : **Answered**
Chosen Option : **3**

Q.11 खेलों के संबंध में, NADA का पूर्णरूप _____ है।

Ans
1. नेशनल ऑटोनोमस डोपिंग असोशिएशन (National Autonomous Doping Association)
2. नेशनल ऑटोनोमस डोपिंग एजेंसी (National Autonomous Doping Agency)
3. नेशनल एंटि-डोपिंग एजेंसी (National Anti-Doping Agency)
4. नेशनल एंटि-डोपिंग असोशिएशन (National Anti-Doping Association)

Question Type : **MCQ**
Question ID : **264330139726**
Option 1 ID : **264330547319**
Option 2 ID : **264330547321**
Option 3 ID : **264330547320**
Option 4 ID : **264330547322**
Status : **Answered**
Chosen Option : **3**

Q.12 निम्नलिखित में से कौन-सा RBI द्वारा उपयोग किया जाने वाला एक मौद्रिक नीति-साधन है?

Ans
1. आधार दर
2. बैंक दर
3. बट्टा दर
4. कॉल दर

Question Type : **MCQ**
Question ID : **264330141070**
Option 1 ID : **264330552628**
Option 2 ID : **264330552627**
Option 3 ID : **264330552630**
Option 4 ID : **264330552629**
Status : **Answered**
Chosen Option : **2**

Join Telegram Group "HaryanaJobs.in"

Q.13 पश्चिमी घाट और पूर्वी घाट का मिलन स्थल क्या है?

Ans
1. नल्लामाला (Nallamala) पहाड़ियाँ
2. नीलगिरी पहाड़ियाँ
3. पालकोंडा पहाड़ियाँ
4. इलायची पहाड़ियाँ

Question Type : **MCQ**
Question ID : **264330140761**
Option 1 ID : **264330551391**
Option 2 ID : **264330551394**
Option 3 ID : **264330551392**
Option 4 ID : **264330551393**
Status : **Answered**
Chosen Option : **1**

Q.14 भारत की सीमा पश्चिम बंगाल के पूर्व में निम्नलिखित में से किस देश से लगती है?

Ans
1. चीन
2. बांग्लादेश
3. पाकिस्तान
4. अफ़ग़ानिस्तान

Question Type : **MCQ**
Question ID : **264330141058**
Option 1 ID : **264330552581**
Option 2 ID : **264330552582**
Option 3 ID : **264330552579**
Option 4 ID : **264330552580**
Status : **Answered**
Chosen Option : **2**

Q.15 वर्ष 1526 में पानीपत के प्रथम युद्ध में बाबर ने किस सुल्तान को पराजित किया था?

Ans
1. इब्राहिम लोदी
2. सिकंदर लोदी
3. बहलोल लोदी
4. महमूद लोदी

Question Type : **MCQ**
Question ID : **264330138968**
Option 1 ID : **264330544481**
Option 2 ID : **264330544480**
Option 3 ID : **264330544479**
Option 4 ID : **264330544482**
Status : **Answered**
Chosen Option : **1**

Join Telegram Group "HaryanaJobs.in"

Q.16 _____ में स्थित गणेश रथ मंदिर सबसे बेहतरीन एकाश्मक मंदिरों में से एक है।

Ans
1. नागपुर
2. सोमनाथ
3. महाबलीपुरम
4. वाराणसी

Question Type : **MCQ**
Question ID : **264330140705**
Option 1 ID : **264330551168**
Option 2 ID : **264330551169**
Option 3 ID : **264330551167**
Option 4 ID : **264330551170**
Status : **Answered**
Chosen Option : **3**

Q.17 बदरुद्दीन तैयबजी ने सन् _____ में अध्यक्ष के रूप में कांग्रेस को संबोधित किया था।

Ans
1. 1886
2. 1888
3. 1887
4. 1885

Question Type : **MCQ**
Question ID : **264330139697**
Option 1 ID : **264330547204**
Option 2 ID : **264330547206**
Option 3 ID : **264330547205**
Option 4 ID : **264330547203**
Status : **Answered**
Chosen Option : **2**

Q.18 अली अकबर खाँ का संबंध इनमें से किस वाद्ययंत्र से है?

Ans
1. तबला
2. सितार
3. शहनाई
4. सरोद

Question Type : **MCQ**
Question ID : **264330139679**
Option 1 ID : **264330547132**
Option 2 ID : **264330547131**
Option 3 ID : **264330547133**
Option 4 ID : **264330547134**
Status : **Answered**
Chosen Option : **1**

Join Telegram Group "HaryanaJobs.in"

Q.19 कौन-सा मंत्रालय "डीप ओशन मिशन" से संबंधित है?

Ans
✗ 1. पर्यावरण, वन और जलवायु परिवर्तन मंत्रालय
✗ 2. खान मंत्रालय
✗ 3. रक्षा मंत्रालय
✓ 4. पृथ्वी विज्ञान मंत्रालय

Question Type : **MCQ**
Question ID : **264330138980**
Option 1 ID : **264330544529**
Option 2 ID : **264330544528**
Option 3 ID : **264330544527**
Option 4 ID : **264330544530**
Status : **Answered**
Chosen Option : **1**

Q.20 होलिका दहन का त्योहार _____ का प्रतीक है।

Ans
✗ 1. बुआई के मौसम (sowing season) की शुरुआत
✗ 2. महिषासुर पर देवी दुर्गा की विजय
✓ 3. बुराई पर अच्छाई की जीत
✗ 4. नववर्ष की शुरुआत

Question Type : **MCQ**
Question ID : **264330140679**
Option 1 ID : **264330551065**
Option 2 ID : **264330551064**
Option 3 ID : **264330551066**
Option 4 ID : **264330551063**
Status : **Answered**
Chosen Option : **1**

Q.21 राष्ट्रीय साक्षरता मिशन (National Literacy Mission (एनएलएम NLM)) का गठन सन् _____ में किया गया था।

Ans
✗ 1. 1971
✗ 2. 1998
✓ 3. 1988
✗ 4. 1982

Question Type : **MCQ**
Question ID : **264330140917**
Option 1 ID : **264330552016**
Option 2 ID : **264330552018**
Option 3 ID : **264330552017**
Option 4 ID : **264330552015**
Status : **Not Answered**
Chosen Option : **--**

Join Telegram Group "HaryanaJobs.in"

Q.22 किस भारतीय मंत्रालय ने कृषि कानून निरसन विधेयक (Farm Laws Repeal Bill), 2021 पेश किया?

Ans
1. वित्त मत्रांलय
2. कृषि और किसान कल्याण मंत्रालय
3. पंचायती राज मंत्रालय
4. ग्रामीण विकास मंत्रालय

Question Type : **MCQ**
Question ID : **264330140677**
Option 1 ID : **264330551056**
Option 2 ID : **264330551055**
Option 3 ID : **264330551058**
Option 4 ID : **264330551057**
Status : **Answered**
Chosen Option : **2**

Q.23 निम्नलिखित में से कौन-सा खनिज थायरॉइड हार्मोन (थायरॉक्सिन) के संश्लेषण के लिए अनिवार्य है?

Ans
1. आयोडीन
2. सिलीनियम
3. क्रोमियम
4. आयरन

Question Type : **MCQ**
Question ID : **264330140324**
Option 1 ID : **264330549675**
Option 2 ID : **264330549677**
Option 3 ID : **264330549678**
Option 4 ID : **264330549676**
Status : **Answered**
Chosen Option : **1**

Q.24 लिटमस विलयन जब न तो अम्लीय होता है और न ही क्षारकीय होता है, तब यह _____ रंग का होता है।

Ans
1. नीला
2. लाल
3. हरा
4. बैंगनी

Question Type : **MCQ**
Question ID : **264330138962**
Option 1 ID : **264330544455**
Option 2 ID : **264330544458**
Option 3 ID : **264330544456**
Option 4 ID : **264330544457**
Status : **Not Answered**
Chosen Option : **--**

Join Telegram Group "HaryanaJobs.in"

Q.25 _____ की मुद्राओं को चिदंबरम मंदिर (तमिलनाडु) के गोपुरम (gopurams) पर चित्रित किया गया है।

Ans
1. मोहिनीअट्टम
2. भरतनाट्यम
3. कथक
4. कथकली

Question Type : **MCQ**
Question ID : **264330140933**
Option 1 ID : **264330552082**
Option 2 ID : **264330552079**
Option 3 ID : **264330552080**
Option 4 ID : **264330552081**
Status : **Answered**
Chosen Option : **2**

Section : **English Language and Comprehension**

Q.1 Select the most appropriate synonym to substitute the bracketed word in the given sentence.

Unfortunately he is merely the head of a rabble of warlords who are (firmly) rooted in the past.

Ans
1. Feebly
2. Impotently
3. Stiffly
4. Languidly

Question Type : **MCQ**
Question ID : **264330136204**
Option 1 ID : **264330533608**
Option 2 ID : **264330533610**
Option 3 ID : **264330533607**
Option 4 ID : **264330533609**
Status : **Answered**
Chosen Option : **3**

Q.2 Select the word segment that substitutes (replaces) the bracketed word segment correctly and completes the sentence meaningfully. Select the option 'no correction required' if the sentence is correct as given.

They (are waiting) for the bus when the accident happened.

Ans
1. were waiting
2. No correction required
3. have waited
4. have been waiting

Question Type : **MCQ**
Question ID : **264330136566**
Option 1 ID : **264330535000**
Option 2 ID : **264330535002**
Option 3 ID : **264330535001**
Option 4 ID : **264330534999**
Status : **Answered**
Chosen Option : **1**

Join Telegram Group "HaryanaJobs.in"

Q.3 Select the word from the options which is exactly opposite in meaning to the bracketed word given in the sentence below.

Ruffin is seeking that (harmony) of humour in truth-telling amid despair.

Ans

✔ 1. Discord

✗ 2. Determination

✗ 3. Sectional

✗ 4. Conformity

Question Type : **MCQ**
Question ID : **264330136284**
Option 1 ID : **264330533918**
Option 2 ID : **264330533916**
Option 3 ID : **264330533917**
Option 4 ID : **264330533915**
Status : **Answered**
Chosen Option : **1**

Q.4 Improve the underlined part of the sentence. Choose 'No improvement' as an answer if the sentence is grammatically correct.

You have exactly one hour to completes the exam.

Ans

✔ 1. hour to complete

✗ 2. hour to completed

✗ 3. hourly to complete

✗ 4. No improvement

Question Type : **MCQ**
Question ID : **264330141168**
Option 1 ID : **264330553015**
Option 2 ID : **264330553016**
Option 3 ID : **264330553017**
Option 4 ID : **264330553018**
Status : **Answered**
Chosen Option : **1**

Q.5 Select the word segment that substitutes (replaces) the bracketed word segment correctly and completes the sentence meaningfully. Select the option 'no correction required' if the sentence is correct as given.

Christian turned round and (strided off into) the blackness and I got into my car.

Ans

✗ 1. strided of

✔ 2. strode off

✗ 3. No correction required

✗ 4. strode of

Question Type : **MCQ**
Question ID : **264330135745**
Option 1 ID : **264330531863**
Option 2 ID : **264330531865**
Option 3 ID : **264330531866**
Option 4 ID : **264330531864**
Status : **Answered**
Chosen Option : **3**

Join Telegram Group "HaryanaJobs.in"

Q.6 Select the most appropriate word for the given group of words.

Ethically good behaviour one has

Ans
1. Belief ✗
2. Virtue ✓
3. Values ✗
4. Virtual ✗

Question Type : **MCQ**
Question ID : **264330136424**
Option 1 ID : **264330534458**
Option 2 ID : **264330534457**
Option 3 ID : **264330534456**
Option 4 ID : **264330534455**
Status : **Answered**
Chosen Option : **2**

Q.7 Select the most appropriate option to fill in the blank.

_____ in biotechnology and medicine have resulted in higher expectancy rate and lower mortality rate.

Ans
1. Advancements ✓
2. Saturation ✗
3. Aversions ✗
4. Arrogate ✗

Question Type : **MCQ**
Question ID : **264330136767**
Option 1 ID : **264330535773**
Option 2 ID : **264330535772**
Option 3 ID : **264330535774**
Option 4 ID : **264330535771**
Status : **Answered**
Chosen Option : **1**

Q.8 Select the most appropriate option to fill in the blank.

After the first defeats he had to _____ from France with the empress.

Ans
1. Fleet ✗
2. Flea ✗
3. Fling ✗
4. Flee ✓

Question Type : **MCQ**
Question ID : **264330141215**
Option 1 ID : **264330553196**
Option 2 ID : **264330553197**
Option 3 ID : **264330553198**
Option 4 ID : **264330553195**
Status : **Answered**
Chosen Option : **1**

Join Telegram Group "HaryanaJobs.in"

Q.9 In the following question, out of the given four alternatives, select the alternative which best expresses the meaning of the Idiom/Phrase.

Bite the bullet

Ans

1. ✗ To ruin oneself
2. ✓ Decide to do something that is difficult
3. ✗ Peace talking
4. ✗ To bring harm to someone

Question Type : **MCQ**
Question ID : **264330135658**
Option 1 ID : **264330531528**
Option 2 ID : **264330531530**
Option 3 ID : **264330531527**
Option 4 ID : **264330531529**
Status : **Answered**
Chosen Option : **2**

Q.10 Find the part of the given sentence that has an error in it. If there is no error, choose 'No error'.
Humans are drawn to foods that is fatty, sweet, rich and complex.

Ans

1. ✗ Humans are drawn to
2. ✗ sweet, rich and complex.
3. ✓ foods that is fatty,
4. ✗ No error

Question Type : **MCQ**
Question ID : **264330141211**
Option 1 ID : **264330553179**
Option 2 ID : **264330553181**
Option 3 ID : **264330553180**
Option 4 ID : **264330553182**
Status : **Answered**
Chosen Option : **3**

Q.11 Select the most appropriate option to fill in the blank.

Someone thinks Charles should _____ the British throne and come out here instead.

Ans

1. ✗ reciprocate
2. ✗ decorticate
3. ✗ authenticate
4. ✓ abdicate

Question Type : **MCQ**
Question ID : **264330135669**
Option 1 ID : **264330531573**
Option 2 ID : **264330531574**
Option 3 ID : **264330531571**
Option 4 ID : **264330531572**
Status : **Answered**
Chosen Option : **4**

Join Telegram Group "HaryanaJobs.in"

Q.12 Select the most appropriate option to fill in the blank.

Inclusive of private packs it is difficult to _____ more than an overall total of 60 drag and/or bloodhound packs.

Ans

✗ 1. package

✗ 2. haemorrhage

✓ 3. envisage

✗ 4. discourage

Question Type : **MCQ**
Question ID : **264330136369**
Option 1 ID : **264330534243**
Option 2 ID : **264330534245**
Option 3 ID : **264330534246**
Option 4 ID : **264330534244**
Status : **Answered**
Chosen Option : **3**

Q.13 Identify the segment that contains a grammatical error. If there is no error, select 'No error'.

Far, far at the top of them, / a shower of bright red sparks / had flared among the stars.

Ans

✗ 1. a shower of bright red sparks

✗ 2. had flared among the stars.

✗ 3. No error

✓ 4. Far, far at the top of them,

Question Type : **MCQ**
Question ID : **264330136109**
Option 1 ID : **264330533244**
Option 2 ID : **264330533245**
Option 3 ID : **264330533246**
Option 4 ID : **264330533243**
Status : **Answered**
Chosen Option : **4**

Q.14 Select the most appropriate meaning of the given idiom.

Ethnic Cleansing

Ans

✗ 1. One who was previously unknown and is now prominent

✓ 2.
Killing of a certain ethnic or religious group on a massive scale

✗ 3.
Worshiping of a certain ethnic or religious group on a massive scale

✗ 4. A large number of people either falling ill or dying

Question Type : **MCQ**
Question ID : **264330135839**
Option 1 ID : **264330532223**
Option 2 ID : **264330532226**
Option 3 ID : **264330532225**
Option 4 ID : **264330532224**
Status : **Answered**
Chosen Option : **1**

Join Telegram Group "HaryanaJobs.in"

Q.15 Select the most appropriate synonym of the given word.

Contradict

Ans
1. Verify ✗
2. Contravene ✓
3. Permit ✗
4. Vouch ✗

Question Type : **MCQ**
Question ID : **264330135757**
Option 1 ID : **264330531908**
Option 2 ID : **264330531909**
Option 3 ID : **264330531907**
Option 4 ID : **264330531910**
Status : **Answered**
Chosen Option : **2**

Q.16 Choose the incorrectly spelt word.

Ans
1. Graviety ✓
2. Pattern ✗
3. Sober ✗
4. Major ✗

Question Type : **MCQ**
Question ID : **264330135174**
Option 1 ID : **264330529630**
Option 2 ID : **264330529629**
Option 3 ID : **264330529628**
Option 4 ID : **264330529627**
Status : **Answered**
Chosen Option : **1**

Q.17 Select the wrongly spelt word.

Ans
1. paneche ✓
2. palatial ✗
3. scurvy ✗
4. oblique ✗

Question Type : **MCQ**
Question ID : **264330135686**
Option 1 ID : **264330531637**
Option 2 ID : **264330531636**
Option 3 ID : **264330531635**
Option 4 ID : **264330531638**
Status : **Answered**
Chosen Option : **1**

Join Telegram Group "HaryanaJobs.in"

Q.18 Select the most appropriate antonym of the given word.

Abundant

Ans
✔ 1. Meagre
✗ 2. Unreliable
✗ 3. Indefinite
✗ 4. Unconscious

Question Type : **MCQ**
Question ID : **264330136501**
Option 1 ID : **264330534747**
Option 2 ID : **264330534749**
Option 3 ID : **264330534750**
Option 4 ID : **264330534748**
Status : **Answered**
Chosen Option : **1**

Q.19 Select the most appropriate word for the given group of words.
A person who has money especially invested in business

Ans
✔ 1. Capitalist
✗ 2. Leftist
✗ 3. Minimalist
✗ 4. Industrialist

Question Type : **MCQ**
Question ID : **264330136150**
Option 1 ID : **264330533399**
Option 2 ID : **264330533401**
Option 3 ID : **264330533400**
Option 4 ID : **264330533402**
Status : **Answered**
Chosen Option : **1**

Q.20 Identify the segment that contains a grammatical error. If there is no error, select 'No error'.
I could not make out what / it is, for the wind was / rustling the corn-shocks.

Ans
✗ 1. I could not make out what
✔ 2. it is, for the wind was
✗ 3. No error
✗ 4. rustling the corn-shocks.

Question Type : **MCQ**
Question ID : **264330135691**
Option 1 ID : **264330531655**
Option 2 ID : **264330531656**
Option 3 ID : **264330531658**
Option 4 ID : **264330531657**
Status : **Answered**
Chosen Option : **2**

Join Telegram Group "HaryanaJobs.in"

Comprehension:

In the following passage some words have been deleted. Fill in the blanks with the help of the alternatives given. Select the most appropriate option for each number.

I wished I (1) _____ teach this to Dhri as well, but I feared it was too (2) _____. Already he had started thinking like the men (3) _____ him, embracing the world of the court with open arms. And I? Each day I thought less and (4) _____ like the women around me. Each day I moved further from them (5) _____ a dusky solitude.

SubQuestion No : 21

Q.21 Select the most appropriate option to fill in blank number 1.

Ans

✗ 1. can

✗ 2. may

✗ 3. would

✓ 4. could

Question Type : **MCQ**
Question ID : **264330136170**
Option 1 ID : **264330533477**
Option 2 ID : **264330533478**
Option 3 ID : **264330533475**
Option 4 ID : **264330533476**
Status : **Answered**
Chosen Option : **4**

Comprehension:

In the following passage some words have been deleted. Fill in the blanks with the help of the alternatives given. Select the most appropriate option for each number.

I wished I (1) _____ teach this to Dhri as well, but I feared it was too (2) _____. Already he had started thinking like the men (3) _____ him, embracing the world of the court with open arms. And I? Each day I thought less and (4) _____ like the women around me. Each day I moved further from them (5) _____ a dusky solitude.

SubQuestion No : 22

Q.22 Select the most appropriate option to fill in blank number 2.

Ans

✓ 1. late

✗ 2. last minute

✗ 3. early

✗ 4. later

Question Type : **MCQ**
Question ID : **264330136171**
Option 1 ID : **264330533482**
Option 2 ID : **264330533481**
Option 3 ID : **264330533479**
Option 4 ID : **264330533480**
Status : **Answered**
Chosen Option : **1**

Join Telegram Group "HaryanaJobs.in"

Comprehension:

In the following passage some words have been deleted. Fill in the blanks with the help of the alternatives given. Select the most appropriate option for each number.

I wished I (1) _____ teach this to Dhri as well, but I feared it was too (2) _____. Already he had started thinking like the men (3) _____ him, embracing the world of the court with open arms. And I? Each day I thought less and (4) _____ like the women around me. Each day I moved further from them (5) _____ a dusky solitude.

SubQuestion No : 23

Q.23 Select the most appropriate option to fill in blank number 3.

Ans

✔ 1. around

✘ 2. surmounting

✘ 3. rotating

✘ 4. revolving

Question Type : **MCQ**
Question ID : **264330136172**
Option 1 ID : **264330533483**
Option 2 ID : **264330533486**
Option 3 ID : **264330533485**
Option 4 ID : **264330533484**
Status : **Answered**
Chosen Option : **1**

Comprehension:

In the following passage some words have been deleted. Fill in the blanks with the help of the alternatives given. Select the most appropriate option for each number.

I wished I (1) _____ teach this to Dhri as well, but I feared it was too (2) _____. Already he had started thinking like the men (3) _____ him, embracing the world of the court with open arms. And I? Each day I thought less and (4) _____ like the women around me. Each day I moved further from them (5) _____ a dusky solitude.

SubQuestion No : 24

Q.24 Select the most appropriate option to fill in blank number 4.

Ans

✘ 1. little

✔ 2. less

✘ 3. more

✘ 4. limited

Question Type : **MCQ**
Question ID : **264330136173**
Option 1 ID : **264330533488**
Option 2 ID : **264330533489**
Option 3 ID : **264330533487**
Option 4 ID : **264330533490**
Status : **Answered**
Chosen Option : **4**

Join Telegram Group "HaryanaJobs.in"

Comprehension:

In the following passage some words have been deleted. Fill in the blanks with the help of the alternatives given. Select the most appropriate option for each number.

I wished I (1) _____ teach this to Dhri as well, but I feared it was too (2) _____. Already he had started thinking like the men (3) _____ him, embracing the world of the court with open arms. And I? Each day I thought less and (4) _____ like the women around me. Each day I moved further from them (5) _____ a dusky solitude.

SubQuestion No : 25

Q.25 Select the most appropriate option to fill in blank number 5.

Ans

✗ 1. inner

✗ 2. on to

✗ 3. up to

✓ 4. into

Question Type : **MCQ**
Question ID : **264330136174**
Option 1 ID : **264330533492**
Option 2 ID : **264330533491**
Option 3 ID : **264330533494**
Option 4 ID : **264330533493**
Status : **Answered**
Chosen Option : **4**

Join Telegram Group "HaryanaJobs.in"

Multi Tasking Non Technical Staff and Havaldar CBIC and CBN Examination 2022

Roll Number	HaryanaJobs.in
Candidate Name	HaryanaJobs.in
Venue Name	New Age Technologies
Exam Date	13/06/2023
Exam Time	3:30 PM - 5:00 PM
Subject	MTS Non Tech Havaldar CBIC and CBN Examination 2022

Section : **Numerical and Mathematical Ability**

Q.1 एक व्यक्ति साधारण ब्याज पर 5 प्रतिशत वार्षिक दर पर एक निश्चित धनराशि ऋण पर देता है। 4 वर्षों में, ब्याज की राशि Rs. 800 हो जाती है। ऋण पर दी गई राशि क्या है?

Ans

✗ 1. Rs. 3200

✗ 2. Rs. 2000

✓ 3. Rs. 4000

✗ 4. Rs. 1600

Question Type : **MCQ**
Question ID : **264330140249**
Option 1 ID : **264330549378**
Option 2 ID : **264330549375**
Option 3 ID : **264330549377**
Option 4 ID : **264330549376**
Status : **Answered**
Chosen Option : **3**

Q.2 दो प्रकार के चावलों का मूल्य Rs. 60 प्रति किलोग्राम (per kg) और Rs. 84 प्रति किलोग्राम है। यदि दोनों चावलों को एक साथ 1:1 के अनुपात में मिला दिया जाए, तो मिश्रित किस्म के चावल का प्रति किलोग्राम मूल्य क्या होना चाहिए?

Ans

✗ 1. Rs. 76 प्रति किलोग्राम

✓ 2. Rs. 72 प्रति किलोग्राम

✗ 3. Rs. 68 प्रति किलोग्राम

✗ 4. Rs. 80 प्रति किलोग्राम

Question Type : **MCQ**
Question ID : **264330134084**
Option 1 ID : **264330525361**
Option 2 ID : **264330525360**
Option 3 ID : **264330525359**
Option 4 ID : **264330525362**
Status : **Answered**
Chosen Option : **2**

Join Telegram Group "HaryanaJobs.in"

Q.3 यदि ब्याज अर्धवार्षिक रूप से संयोजित हो रहा है और ब्याज की दर 20 प्रतिशत वार्षिक है, तो कितने समय में Rs.15000 की राशि चक्रवृद्धि ब्याज पर Rs.19965 हो जाएगी?

Ans
1. 30 माह में ✗
2. 12 माह में ✗
3. 18 माह में ✓
4. 24 माह में ✗

Question Type : **MCQ**
Question ID : **264330140250**
Option 1 ID : **264330549382**
Option 2 ID : **264330549380**
Option 3 ID : **264330549379**
Option 4 ID : **264330549381**
Status : **Answered**
Chosen Option : **3**

Q.4 24 cm त्रिज्या वाले एक अर्धगोले को पिघलाकर 6 cm त्रिज्या वाली कितनी गोलाकार गेंदें बनाई जा सकती हैं?

Ans
1. 32 ✓
2. 64 ✗
3. 96 ✗
4. 24 ✗

Question Type : **MCQ**
Question ID : **264330140166**
Option 1 ID : **264330549045**
Option 2 ID : **264330549046**
Option 3 ID : **264330549043**
Option 4 ID : **264330549044**
Status : **Answered**
Chosen Option : **2**

Q.5 एक आदमी एक निश्चित दूरी का आधा भाग 15 km/hr की चाल से तय करता है। वह शेष दूरी का 40 प्रतिशत भाग 12 km/hr की चाल से तय करता है और शेष दूरी 21 km/hr की चाल से तय करता है। पूरी यात्रा में उसकी औसत चाल क्या है?

Ans
1. 164/9 km/hr ✗
2. 139/9 km/hr ✗
3. 140/9 km/hr ✓
4. 15 km/hr ✗

Question Type : **MCQ**
Question ID : **264330140217**
Option 1 ID : **264330549249**
Option 2 ID : **264330549247**
Option 3 ID : **264330549248**
Option 4 ID : **264330549250**
Status : **Answered**
Chosen Option : **3**

Join Telegram Group "HaryanaJobs.in"

Q.6 नीचे दी गई तालिका में पाँच कंपनियों की आय और व्यय को दर्शाया गया है।

कंपनियाँ	आय	व्यय
A	55	50
B	50	40
C	35	32
D	40	35
E	60	50

सभी कंपनियों की औसत आय और औसत व्यय के बीच कितना अंतर है?

Ans
✔ 1. 6.6
✘ 2. 2.6
✘ 3. 4.2
✘ 4. 8.4

Question Type : **MCQ**
Question ID : **264330139949**
Option 1 ID : **264330548176**
Option 2 ID : **264330548178**
Option 3 ID : **264330548175**
Option 4 ID : **264330548177**
Status : **Answered**
Chosen Option : **1**

Q.7 कुछ लड़कियाँ किसी कार्य को 10 दिनों में कर सकती हैं। इन लड़कियों से दोगुनी लड़कियाँ समान कार्य का चार गुना कार्य कितने समय में पूरा करेंगी?

Ans
✘ 1. 25 दिनों में
✘ 2. 30 दिनों में
✘ 3. 10 दिनों में
✔ 4. 20 दिनों में

Question Type : **MCQ**
Question ID : **264330140611**
Option 1 ID : **264330550792**
Option 2 ID : **264330550794**
Option 3 ID : **264330550791**
Option 4 ID : **264330550793**
Status : **Answered**
Chosen Option : **4**

Join Telegram Group "HaryanaJobs.in"

Q.8 नीलम और रजनी की वर्तमान आयु का अनुपात 6 : 5 है। छः वर्ष बाद, उनकी आयु का अनुपात 13 : 11 होगा। रजनी की वर्तमान आयु कितनी है?

Ans
1. 30 वर्ष
2. 75 वर्ष
3. 45 वर्ष
4. 60 वर्ष

Question Type : **MCQ**
Question ID : **264330140201**
Option 1 ID : **264330549183**
Option 2 ID : **264330549186**
Option 3 ID : **264330549185**
Option 4 ID : **264330549184**
Status : **Answered**
Chosen Option : **4**

Q.9 $\sqrt{0.33 \times 0.33 + 0.6 \times 0.6 + 1.2 \times 0.33}$ का मान क्या है?

Ans
1. 0.69
2. 0.93
3. 0.39
4. 0.73

Question Type : **MCQ**
Question ID : **264330140230**
Option 1 ID : **264330549301**
Option 2 ID : **264330549302**
Option 3 ID : **264330549299**
Option 4 ID : **264330549300**
Status : **Answered**
Chosen Option : **2**

Q.10 यदि कुल वस्तुओं का 80 प्रतिशत, 25 प्रतिशत की हानि पर बेचा जाता है और शेष वस्तुओं को 20 प्रतिशत के लाभ पर बेचा जाता है, तो कुल हानि प्रतिशत क्या होगा?

Ans
1. 18 प्रतिशत
2. 22 प्रतिशत
3. 20 प्रतिशत
4. 16 प्रतिशत

Question Type : **MCQ**
Question ID : **264330139918**
Option 1 ID : **264330548053**
Option 2 ID : **264330548051**
Option 3 ID : **264330548052**
Option 4 ID : **264330548054**
Status : **Answered**
Chosen Option : **4**

Join Telegram Group "HaryanaJobs.in"

Q.11 धारा के प्रतिकूल एक नाव की चाल 8 km/hr है और धारा की चाल 4 km/hr है। नाव धारा के प्रतिकूल x किमी और धारा के अनुकूल x किमी की दूरी तय करती है। यदि नाव द्वारा लिया गया कुल समय 9 घंटे है, तो x का मान क्या है?

Ans

1. ✗ 60 km
2. ✓ 48 km
3. ✗ 72 km
4. ✗ 36 km

Question Type : **MCQ**
Question ID : **264330139933**
Option 1 ID : **264330548114**
Option 2 ID : **264330548113**
Option 3 ID : **264330548111**
Option 4 ID : **264330548112**
Status : **Answered**
Chosen Option : **2**

Q.12 शिवम, विवेक से 20 प्रतिशत कम कुशल है। यदि विवेक 12 दिनों में एक हेलमेट बना सकता है, तो शिवम उसी हेलमेट को कितने दिनों में बना सकता है?

Ans

1. ✗ 18 दिनों में
2. ✗ 12 दिनों में
3. ✓ 15 दिनों में
4. ✗ 14 दिनों में

Question Type : **MCQ**
Question ID : **264330139891**
Option 1 ID : **264330547943**
Option 2 ID : **264330547945**
Option 3 ID : **264330547944**
Option 4 ID : **264330547946**
Status : **Answered**
Chosen Option : **3**

Q.13 एक पेन का अंकित मूल्य Rs. 20 है। 5% के बट्टे के बाद ऐसे 5 पेन का कुल विक्रय मूल्य क्या होगा?

Ans

1. ✗ Rs. 90
2. ✓ Rs. 95
3. ✗ Rs. 105
4. ✗ Rs. 100

Question Type : **MCQ**
Question ID : **264330140806**
Option 1 ID : **264330551572**
Option 2 ID : **264330551571**
Option 3 ID : **264330551574**
Option 4 ID : **264330551573**
Status : **Answered**
Chosen Option : **2**

Join Telegram Group "HaryanaJobs.in"

Q.14 एक व्यापारी ने एक वस्तु को 20% की हानि पर बेचा। यदि उसने इसे Rs. 390 अधिक में बेचा होता, तो क्रय मूल्य पर 6% का लाभ होता। वस्तु का क्रय मूल्य क्या है?

Ans

✗ 1. Rs. 1200
✓ 2. Rs. 1500
✗ 3. Rs. 2600
✗ 4. Rs. 1800

Question Type : **MCQ**
Question ID : **264330139042**
Option 1 ID : **264330544778**
Option 2 ID : **264330544777**
Option 3 ID : **264330544775**
Option 4 ID : **264330544776**
Status : **Answered**
Chosen Option : **2**

Q.15 यदि किसी संख्या के 30 प्रतिशत में से 60 घटाया जाए, तो परिणाम 120 आता है। संख्या का मान क्या है?

Ans

✓ 1. 600
✗ 2. 700
✗ 3. 630
✗ 4. 550

Question Type : **MCQ**
Question ID : **264330140588**
Option 1 ID : **264330550703**
Option 2 ID : **264330550706**
Option 3 ID : **264330550705**
Option 4 ID : **264330550704**
Status : **Answered**
Chosen Option : **1**

Q.16 तीन साझेदारों P, Q और R ने एक व्यवसाय में कुल Rs.52,000 का निवेश किया। वर्ष के अंत में लाभ के हिस्से के रूप में, P को Rs.1430, Q को Rs.1870 और R को Rs.2420 मिले। Q ने व्यवसाय में कितनी राशि का निवेश किया?

Ans

✗ 1. Rs. 15300
✗ 2. Rs. 18700
✓ 3. Rs. 17000
✗ 4. Rs. 20400

Question Type : **MCQ**
Question ID : **264330139900**
Option 1 ID : **264330547979**
Option 2 ID : **264330547982**
Option 3 ID : **264330547980**
Option 4 ID : **264330547981**
Status : **Answered**
Chosen Option : **3**

Join Telegram Group "HaryanaJobs.in"

Q.17 नीचे दिए गए वृत्त आलेख में एक छात्र द्वारा 6 अलग-अलग विषयों में प्राप्त किए गए अंकों को दर्शाया गया है। छात्र द्वारा प्राप्त कुल अंक 500 हैं। इनमें से किसी एक विशिष्ट विषय में प्राप्त अंकों को इन सभी 6 विषयों में प्राप्त कुल अंकों के प्रतिशत के रूप में दर्शाया गया है।

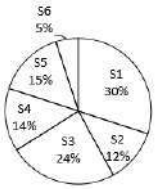

S3 में प्राप्त अंकों और S4 में प्राप्त अंकों का अनुपात क्या है?

Ans

✗ 1. 12 : 5

✗ 2. 2 : 1

✗ 3. 5 : 6

✓ 4. 12 : 7

Question Type : **MCQ**
Question ID : **264330140602**
Option 1 ID : **264330550761**
Option 2 ID : **264330550759**
Option 3 ID : **264330550760**
Option 4 ID : **264330550762**
Status : **Answered**
Chosen Option : **4**

Q.18 एक समलंब की दो समानांतर भुजाओं की लंबाई 25 मीटर और 30 मीटर है। यदि इसकी ऊँचाई 20 मीटर है, तो समलंब का क्षेत्रफल कितना है?

Ans

✓ 1. 550 metre^2

✗ 2. 420 metre^2

✗ 3. 350 metre^2

✗ 4. 590 metre^2

Question Type : **MCQ**
Question ID : **264330140207**
Option 1 ID : **264330549210**
Option 2 ID : **264330549208**
Option 3 ID : **264330549207**
Option 4 ID : **264330549209**
Status : **Answered**
Chosen Option : **1**

Q.19 $\frac{99\div33+44\div11of4}{24\div12-4+3}$ का मान क्या है?

Ans

✗ 1. 6

✗ 2. 1

✗ 3. 8

✓ 4. 4

Question Type : **MCQ**
Question ID : **264330139907**
Option 1 ID : **264330548009**
Option 2 ID : **264330548007**
Option 3 ID : **264330548010**
Option 4 ID : **264330548008**
Status : **Answered**
Chosen Option : **4**

Join Telegram Group "HaryanaJobs.in"

Q.20 3/8 और 4/9 का महत्तम समापवर्तक क्या है?

Ans
1. 1/18
2. 1/108
3. 1/36
4. 1/72

Question Type : **MCQ**
Question ID : **264330140188**
Option 1 ID : **264330549133**
Option 2 ID : **264330549134**
Option 3 ID : **264330549132**
Option 4 ID : **264330549131**
Status : **Answered**
Chosen Option : **4**

Section : **Reasoning Ability and Problem Solving**

Q.1 दिए गए समीकरण को सही करने के लिए किन दो संख्याओं को आपस में बदला जाना चाहिए?
4 + 40 × 5 - 16 ÷ 8 = 79

Ans
1. 40 और 16
2. 4 और40
3. 16 और 4
4. 5 और 16

Question Type : **MCQ**
Question ID : **264330140049**
Option 1 ID : **264330548577**
Option 2 ID : **264330548575**
Option 3 ID : **264330548578**
Option 4 ID : **264330548576**
Status : **Answered**
Chosen Option : **1**

Join Telegram Group "HaryanaJobs.in"

Q.2 निम्नलिखित प्रश्न में कुछ कथन दिए गए हैं और उन कथनों के आधार पर कुछ निष्कर्ष दिए गए हैं। आपको मानना है कि दिए गए कथन सत्य हैं चाहे वे समान्यतः ज्ञात तथ्यों से अलग प्रतीत होते हों। सभी निष्कर्षों को पढ़िए और फिर निश्चय कीजिए कि दिए गए निष्कर्षों में से कौन-सा निष्कर्ष तार्किक रूप से दिए गए कथनों के अनुसार है।

कथन:

I. सभी J, Y हैं।

II. कोई X, Y नहीं है।

निष्कर्ष:

I. कुछ X, Y नहीं हैं।

II. कुछ J, X नहीं हैं।

Ans

✗ 1. केवल निष्कर्ष II कथनों के अनुसार है

✗ 2. केवल निष्कर्ष I कथनों के अनुसार है

✓ 3. दोनों निष्कर्ष I और II कथनों के अनुसार हैं

✗ 4. कोई भी निष्कर्ष कथनों के अनुसार नहीं है

Question Type : **MCQ**
Question ID : **264330140062**
Option 1 ID : **264330548628**
Option 2 ID : **264330548627**
Option 3 ID : **264330548629**
Option 4 ID : **264330548630**
Status : **Answered**
Chosen Option : **3**

Q.3 एक निश्चित कूट भाषा में, 'RAUGHT' को 'TYWEJR' लिखा जाता है और 'DOMINE' को 'FMOGPC' लिखा जाता है। उस कूट भाषा में 'BACKER' को कैसे लिखा जाएगा?

Ans

✗ 1. DYEKGP

✗ 2. DYEIHP

✓ 3. DYEIGP

✗ 4. DYEJIP

Question Type : **MCQ**
Question ID : **264330140476**
Option 1 ID : **264330550283**
Option 2 ID : **264330550285**
Option 3 ID : **264330550284**
Option 4 ID : **264330550286**
Status : **Answered**
Chosen Option : **3**

Q.4 एक निश्चित कूट भाषा में, 'BURN' को 'CVS14' लिखा जाता है। उस कूट भाषा में 'GOLD' को कैसे लिखा जाएगा?

Ans

✗ 1. HP4M

✗ 2. PHM4

✗ 3. HMP4

✓ 4. HPM4

Question Type : **MCQ**
Question ID : **264330138770**
Option 1 ID : **264330543688**
Option 2 ID : **264330543690**
Option 3 ID : **264330543687**
Option 4 ID : **264330543689**
Status : **Answered**
Chosen Option : **4**

Join Telegram Group "HaryanaJobs.in"

Q.5 उस विकल्प को चुनिए जो तीसरी संख्या से ठीक उसी प्रकार संबंधित है जिस प्रकार दूसरी संख्या पहली संख्या से संबंधित है।
236 : 33 :: 325 : ?

Ans
1. 30
2. 27
3. 63
4. 33

Question Type : **MCQ**
Question ID : **264330140106**
Option 1 ID : **264330548804**
Option 2 ID : **264330548805**
Option 3 ID : **264330548803**
Option 4 ID : **264330548806**
Status : **Answered**
Chosen Option : **1**

Q.6 उस विकल्प को चुनिए जो तीसरे शब्द से ठीक उसी प्रकार संबंधित है जिस प्रकार दूसरा शब्द पहले शब्द से संबंधित है।
गठिया : जोड़ :: दमा : ?

Ans
1. यकृत
2. हृदय
3. मस्तिष्क
4. फेफड़े

Question Type : **MCQ**
Question ID : **264330140094**
Option 1 ID : **264330548758**
Option 2 ID : **264330548755**
Option 3 ID : **264330548756**
Option 4 ID : **264330548757**
Status : **Answered**
Chosen Option : **4**

Q.7 दी गई श्रृंखला में निम्नलिखित में से कौन-सी संख्या प्रश्न चिन्ह (?) के स्थान पर आएगी?
89, 170, 219, 244, 253, ?

Ans
1. 254
2. 255
3. 256
4. 257

Question Type : **MCQ**
Question ID : **264330140125**
Option 1 ID : **264330548879**
Option 2 ID : **264330548880**
Option 3 ID : **264330548881**
Option 4 ID : **264330548882**
Status : **Answered**
Chosen Option : **1**

Join Telegram Group "HaryanaJobs.in"

Q.8 दो कथन दिए गए हैं और दो निष्कर्ष I और II दिए गए हैं। कथनों को सत्य मानते हुए, चाहे वे सामान्यतः ज्ञात तथ्यों से अलग प्रतीत होते हों, निश्चय कीजिए कि कौन-सा निष्कर्ष तार्किक रूप से कथनों के अनुसार है।

कथन:

कुछ पॉपकॉर्न, चाइनीज़ हैं।

सभी पास्ता, चाइनीज़ हैं।

निष्कर्ष:

I. सभी चाइनीज़, पास्ता हैं।

II. कुछ पॉपकॉर्न, पास्ता हैं।

Ans

✗ 1. सिर्फ निष्कर्ष I कथनों के अनुसार है

✓ 2. निष्कर्ष I और II में से कोई भी कथनों के अनुसार नहीं है

✗ 3. दोनों निष्कर्ष I और II कथनों के अनुसार हैं

✗ 4. सिर्फ निष्कर्ष II कथनों के अनुसार है

Question Type : **MCQ**
Question ID : **264330140462**
Option 1 ID : **264330550227**
Option 2 ID : **264330550230**
Option 3 ID : **264330550229**
Option 4 ID : **264330550228**
Status : **Answered**
Chosen Option : **2**

Q.9 उस विकल्प को चुनिए जिसमें समुच्चय की संख्याएँ वही संबंध साझा करती हैं जो दिए गए समुच्चय में संख्याओं द्वारा साझा किया जाता है। (ध्यान दें: संख्याओं को उनके घटक अंकों में अलग-अलग किए बिना, पूर्ण संख्याओं पर संक्रियाएँ की जानी चाहिए। उदा. 13 - 13 पर संक्रियाएँ जैसे 13 को जोड़ना /घटाना /गुणा करना आदि किया जा सकता है। 13 को 1 और 3 में अलग-अलग करने और फिर 1 और 3 पर गणितीय संक्रियाएँ करने की अनुमति नहीं है)

(12, 22, 34)

(14, 15, 29)

Ans

✗ 1. (10, 20, 24)

✗ 2. (14, 15, 19)

✗ 3. (8, 9, 15)

✓ 4. (16, 17, 33)

Question Type : **MCQ**
Question ID : **264330139562**
Option 1 ID : **264330546666**
Option 2 ID : **264330546663**
Option 3 ID : **264330546665**
Option 4 ID : **264330546664**
Status : **Answered**
Chosen Option : **4**

Join Telegram Group "HaryanaJobs.in"

Q.10 दी गई श्रृंखला में निम्नलिखित में से कौन-सा अक्षर-समूह प्रश्न चिन्ह (?) के स्थान पर आएगा?
DMF, FKG, HIH, JGI, LEJ, ?

Ans
✔ 1. NCK
✘ 2. NDJ
✘ 3. KDN
✘ 4. MDK

Question Type : **MCQ**
Question ID : **264330135346**
Option 1 ID : **264330530292**
Option 2 ID : **264330530294**
Option 3 ID : **264330530291**
Option 4 ID : **264330530293**
Status : **Answered**
Chosen Option : **1**

Q.11 U, V, W, X और Y एक वृत्ताकार मेज के चारों ओर केंद्र से बाहर की ओर मुख करके बैठे हैं। U, W के ठीक बाईं ओर बैठा है। X, V और Y के ठीक बीच में बैठा है। W और V एक-दूसरे के बगल में बैठे हैं। U के ठीक बाईं ओर कौन बैठा है?

Ans
✘ 1. W
✔ 2. Y
✘ 3. X
✘ 4. V

Question Type : **MCQ**
Question ID : **264330135354**
Option 1 ID : **264330530324**
Option 2 ID : **264330530326**
Option 3 ID : **264330530325**
Option 4 ID : **264330530323**
Status : **Answered**
Chosen Option : **2**

Q.12 उस विकल्प को चुनिए जो तीसरे शब्द से ठीक उसी तरह संबंधित है जिस तरह दूसरा शब्द पहले शब्द से संबंधित है।
अफ़गानिस्तान : काबुल :: ऑस्ट्रेलिया : ?

Ans
✘ 1. सिडनी
✘ 2. मेलबर्न
✘ 3. वेलिंग्टन
✔ 4. कैनबरा

Question Type : **MCQ**
Question ID : **264330140115**
Option 1 ID : **264330548840**
Option 2 ID : **264330548841**
Option 3 ID : **264330548839**
Option 4 ID : **264330548842**
Status : **Answered**
Chosen Option : **4**

Join Telegram Group "HaryanaJobs.in"

Q.13 दिए गए समीकरण को सही करने के लिए किन दो चिन्हों को आपस में बदला जाना चाहिए?

2 ÷ 9 × 18 + 7 - 4 = 1

Ans

1. × और +
2. - और +
3. = और -
4. = और ×

Question Type : **MCQ**
Question ID : **264330140427**
Option 1 ID : **264330550090**
Option 2 ID : **264330550087**
Option 3 ID : **264330550088**
Option 4 ID : **264330550089**
Status : **Answered**
Chosen Option : **2**

Q.14 उस विकल्प आकृति को चुनिए जिसमें दी गई आकृति निहित है।(घूर्णन की अनुमति नहीं है)

Ans

1. 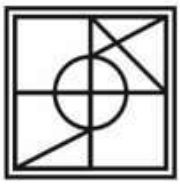
2.
3.
4. 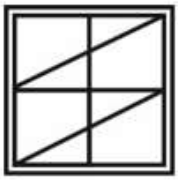

Question Type : **MCQ**
Question ID : **264330140993**
Option 1 ID : **264330552319**
Option 2 ID : **264330552321**
Option 3 ID : **264330552322**
Option 4 ID : **264330552320**
Status : **Answered**
Chosen Option : **1**

Join Telegram Group "HaryanaJobs.in"

Q.15 पाँच बैग C1, C2, C3, C4 और C5 के भारों की तुलना की गई है। C4 का भार C1 से अधिक और C2 से कम है। C5 का भार C3 से अधिक है। C2 का भार C3 से कम है। कितने बैगों (bags) का भार C2 से कम है?

Ans

✗ 1. 1

✗ 2. 4

✓ 3. 2

✗ 4. 3

Question Type : **MCQ**
Question ID : **264330140984**
Option 1 ID : **264330552284**
Option 2 ID : **264330552286**
Option 3 ID : **264330552283**
Option 4 ID : **264330552285**
Status : **Answered**
Chosen Option : **3**

Q.16 एक निश्चित कूट भाषा में, '231' का अर्थ 'Flower is Green' है, '307' का अर्थ 'A Green Tree' है और '781' का अर्थ 'Tree and flower' है। 'is' के लिए कूट ज्ञात कीजिए।

Ans

✗ 1. 0

✗ 2. 1

✗ 3. 8

✓ 4. 2

Question Type : **MCQ**
Question ID : **264330140098**
Option 1 ID : **264330548772**
Option 2 ID : **264330548773**
Option 3 ID : **264330548774**
Option 4 ID : **264330548771**
Status : **Answered**
Chosen Option : **4**

Q.17 दी गई श्रृंखला में निम्नलिखित में से कौन-सी संख्या प्रश्न चिन्ह (?) के स्थान पर आएगी?
81, 92, 101, 108, 113, ?

Ans

✓ 1. 116

✗ 2. 117

✗ 3. 118

✗ 4. 114

Question Type : **MCQ**
Question ID : **264330140463**
Option 1 ID : **264330550231**
Option 2 ID : **264330550232**
Option 3 ID : **264330550234**
Option 4 ID : **264330550233**
Status : **Answered**
Chosen Option : **1**

Join Telegram Group "HaryanaJobs.in"

Q.18 आठ लड़के अनिल, कमल, राम, संजय, आकाश, विवेक, राहुल और रामू एक वृत्ताकार मेज के चारों ओर केंद्र की ओर मुख करके बैठे हैं (परंतु जरूरी नहीं कि वे इसी क्रम में बैठे हों)। विवेक, कमल के दाईं ओर से तीसरे स्थान पर है। कमल, संजय के दाईं ओर से दूसरे स्थान पर है। राम, अनिल के दाईं ओर से दूसरे स्थान पर है। अनिल, विवेक के दाईं ओर से दूसरे स्थान पर है। राहुल, आकाश के दाईं ओर से तीसरे स्थान पर है। अनिल के बाईं ओर से तीसरे स्थान पर कौन है?

Ans

✗ 1. विवेक

✗ 2. आकाश

✗ 3. कमल

✓ 4. रामू

Question Type : **MCQ**
Question ID : **264330139978**
Option 1 ID : **264330548294**
Option 2 ID : **264330548293**
Option 3 ID : **264330548291**
Option 4 ID : **264330548292**
Status : **Answered**
Chosen Option : **4**

Q.19 यदि एक दर्पण को रेखा AB पर रखा जाए, तो दी गई विकल्प आकृतियों में से कौन-सी आकृति प्रश्न आकृति का सही प्रतिबिम्ब होगी?

Ans

✗ 1.

✗ 2.

✓ 3.

✗ 4.

Question Type : **MCQ**
Question ID : **264330140071**
Option 1 ID : **264330548666**
Option 2 ID : **264330548664**
Option 3 ID : **264330548663**
Option 4 ID : **264330548665**
Status : **Answered**
Chosen Option : **3**

Join Telegram Group "HaryanaJobs.in"

Q.20 कौन-सी उत्तर आकृति प्रश्न आकृति में पैटर्न को पूरा करेगी?

Ans

✔ 1.

✘ 2.

✘ 3.

✘ 4.

Question Type : **MCQ**
Question ID : **264330140975**
Option 1 ID : **264330552249**
Option 2 ID : **264330552248**
Option 3 ID : **264330552247**
Option 4 ID : **264330552250**
Status : **Answered**
Chosen Option : **1**

Section : **General Awareness**

Q.1 कृषि कानून निरसन विधेयक, 2021 के तहत कितने कानूनों को निरस्त किया गया?

Ans

✘ 1. चार

✘ 2. दो

✘ 3. एक

✔ 4. तीन

Question Type : **MCQ**
Question ID : **264330140727**
Option 1 ID : **264330551258**
Option 2 ID : **264330551256**
Option 3 ID : **264330551255**
Option 4 ID : **264330551257**
Status : **Answered**
Chosen Option : **4**

Join Telegram Group "HaryanaJobs.in"

Q.2 प्रसिद्ध फिल्म "थ्री इडियट्स (3 idiots)" उपन्यास "फाइव पॉइंट समवन (Five Point Someone)" पर आधारित है जो भारतीय लेखक _____ द्वारा लिखा गया है।

Ans
1. नोवोनील चक्रबर्ती
2. चेतन भगत
3. दुर्जोय दत्ता
4. खुशवंत सिंह

Question Type : **MCQ**
Question ID : **264330140334**
Option 1 ID : **264330549716**
Option 2 ID : **264330549717**
Option 3 ID : **264330549715**
Option 4 ID : **264330549718**
Status : **Answered**
Chosen Option : **2**

Q.3 निम्नलिखित में से कौन-सा त्योहार तेलुगू नववर्ष की शुरुआत का प्रतीक है?

Ans
1. ओणम
2. उगादि
3. गुड़ी पड़वा
4. पोंगल

Question Type : **MCQ**
Question ID : **264330140704**
Option 1 ID : **264330551164**
Option 2 ID : **264330551163**
Option 3 ID : **264330551166**
Option 4 ID : **264330551165**
Status : **Answered**
Chosen Option : **4**

Q.4 निम्नलिखित में से कौन-सा शासकीय अधिकारी राज्य सभा का पदेन सभापति (ex officio chairman) होता है?

Ans
1. भारत के उपराष्ट्रपति
2. भारत के मुख्य न्यायाधीश
3. भारत के राष्ट्रपति
4. भारत के प्रधानमंत्री

Question Type : **MCQ**
Question ID : **264330140388**
Option 1 ID : **264330549932**
Option 2 ID : **264330549934**
Option 3 ID : **264330549931**
Option 4 ID : **264330549933**
Status : **Answered**
Chosen Option : **1**

Join Telegram Group "HaryanaJobs.in"

Q.5 "हम राष्ट्र को जगाने के लिए मर भी जाएंगे (We shall die to awaken the nation)" का नारा _____ द्वारा दिया गया था।

Ans
1. बीर टिकेंद्रजीत सिंह (Bir Tikendrajit Singh)
2. सूर्य सेन (Surya Sen)
3. पिंगली वेंकैया (Pingali Venkayya)
4. बाघा जतीन (Bagha Jatin)

Question Type : **MCQ**
Question ID : **264330140947**
Option 1 ID : **264330552136**
Option 2 ID : **264330552135**
Option 3 ID : **264330552138**
Option 4 ID : **264330552137**
Status : **Not Answered**
Chosen Option : **--**

Q.6 सुपर बाउल, फुटबॉल का एक वार्षिक चैम्पियनशिप खेल _____ में आयोजित किया जाता है।

Ans
1. कनाडा
2. संयुक्त राज्य अमेरिका
3. मेक्सिको
4. पेरू

Question Type : **MCQ**
Question ID : **264330140724**
Option 1 ID : **264330551244**
Option 2 ID : **264330551243**
Option 3 ID : **264330551245**
Option 4 ID : **264330551246**
Status : **Answered**
Chosen Option : **2**

Q.7 यकृत ग्रंथि _____ स्रावित करती है, जो पित्ताशय नामक एक थैली में संग्रहित होता है।

Ans
1. श्लेष्मल
2. हाइड्रोक्लोरिक अम्ल
3. एस्ट्रोजन
4. पित्त रस

Question Type : **MCQ**
Question ID : **264330138984**
Option 1 ID : **264330544546**
Option 2 ID : **264330544545**
Option 3 ID : **264330544543**
Option 4 ID : **264330544544**
Status : **Answered**
Chosen Option : **4**

Join Telegram Group "HaryanaJobs.in"

Q.8 निम्नलिखित में से कौन-सा ग्रह अन्य ग्रहों की तुलना में विपरीत दिशा में घूर्णन (rotate) करता है?

Ans
✔ 1. शुक्र
✘ 2. बुध
✘ 3. शनि
✘ 4. बृहस्पति

Question Type : **MCQ**
Question ID : **264330140939**
Option 1 ID : **264330552105**
Option 2 ID : **264330552104**
Option 3 ID : **264330552106**
Option 4 ID : **264330552103**
Status : **Answered**
Chosen Option : **1**

Q.9 किस प्रक्रिया के अंतर्गत जल-विलेय अकार्बनिक पोषक भूमि मृदासंस्तर में प्रविष्ट कर जाते हैं और अनुपलब्ध लवण के रूप में अवक्षेपित हो जाते हैं?

Ans
✘ 1. खंडन (Fragmentation)
✘ 2. अपघटन (Decomposition)
✔ 3. निक्षालन (Leaching)
✘ 4. ह्यूमस भवन (Humification)

Question Type : **MCQ**
Question ID : **264330140913**
Option 1 ID : **264330552001**
Option 2 ID : **264330552002**
Option 3 ID : **264330551999**
Option 4 ID : **264330552000**
Status : **Answered**
Chosen Option : **3**

Q.10 नवंबर 2022 तक, भारत के पड़ोसी देश चीन की राजभाषा क्या है ?

Ans
✘ 1. सिंहली
✘ 2. बर्मी
✔ 3. मैंडरिन
✘ 4. बंगाली

Question Type : **MCQ**
Question ID : **264330140763**
Option 1 ID : **264330551399**
Option 2 ID : **264330551400**
Option 3 ID : **264330551401**
Option 4 ID : **264330551402**
Status : **Answered**
Chosen Option : **3**

Join Telegram Group "HaryanaJobs.in"

Q.11 उस्ताद अमजद अली खान निम्नलिखित में से किस वाद्ययंत्र के लिए जाने जाते हैं?

Ans
1. शहनाई
2. सरोद
3. गिटार
4. संतूर

Question Type : **MCQ**
Question ID : **264330140310**
Option 1 ID : **264330549622**
Option 2 ID : **264330549621**
Option 3 ID : **264330549619**
Option 4 ID : **264330549620**
Status : **Answered**
Chosen Option : **2**

Q.12 निम्नलिखित में से कौन-सा राज्य भारत में कोयले का उत्पादन **नहीं** करता है?

Ans
1. छत्तीसगढ़
2. उड़ीसा
3. झारखंड
4. गुजरात

Question Type : **MCQ**
Question ID : **264330140735**
Option 1 ID : **264330551290**
Option 2 ID : **264330551288**
Option 3 ID : **264330551287**
Option 4 ID : **264330551289**
Status : **Answered**
Chosen Option : **4**

Q.13 वर्ष 2019 में, भारत सरकार ने इटली में जन्मी कथकली नर्तकी, मिलिना साल्विनी (Milena Salvini) को निम्नलिखित में से किस पुरस्कार से सम्मानित किया था?

Ans
1. पद्म श्री
2. पद्म भूषण
3. पद्म विभूषण
4. भारत रत्न

Question Type : **MCQ**
Question ID : **264330140386**
Option 1 ID : **264330549924**
Option 2 ID : **264330549925**
Option 3 ID : **264330549926**
Option 4 ID : **264330549923**
Status : **Answered**
Chosen Option : **1**

Join Telegram Group "HaryanaJobs.in"

Q.14 कच्छ का रण भारत के _____ क्षेत्र में पड़ता है।

Ans
1. तटीय मैदानी
2. पूर्वी घाट
3. थार के रेगिस्तानी
4. उत्तर मैदानी

Question Type : **MCQ**
Question ID : **264330140916**
Option 1 ID : **264330552014**
Option 2 ID : **264330552012**
Option 3 ID : **264330552013**
Option 4 ID : **264330552011**
Status : **Answered**
Chosen Option : **1**

Q.15 _____ ग्रामीण आजीविका मिशन की UMEED योजना केंद्र शासित प्रदेश में आर्थिक रूप से सक्षम होने की इच्छा रखने वाली ग्रामीण महिलाओं की महत्वाकांक्षाओं को सहायता प्रदान कर रही है।

Ans
1. दमन और दीव
2. अंडमान एवं निकोबार द्वीपसमूह
3. लक्षद्वीप
4. जम्मू और कश्मीर

Question Type : **MCQ**
Question ID : **264330140931**
Option 1 ID : **264330552073**
Option 2 ID : **264330552074**
Option 3 ID : **264330552072**
Option 4 ID : **264330552071**
Status : **Answered**
Chosen Option : **4**

Q.16 जनवरी 2022 में, RBI के पूर्व गवर्नर, उर्जित पटेल को निवेश कार्यों के लिए _____ का उपाध्यक्ष नियुक्त किया गया है।

Ans
1. एशियन इन्फ्रास्ट्रक्चर इन्वेस्टमेंट बैंक
2. न्यू डेवलपमेंट बैंक
3. अंतर्राष्ट्रीय मुद्रा कोष
4. विश्व बैंक

Question Type : **MCQ**
Question ID : **264330139756**
Option 1 ID : **264330547442**
Option 2 ID : **264330547440**
Option 3 ID : **264330547441**
Option 4 ID : **264330547439**
Status : **Answered**
Chosen Option : **1**

Join Telegram Group "HaryanaJobs.in"

Q.17 वह न्यूनतम दर जिसके नीचे बैंकों को धन ऋण पर देने की अनुमति नहीं है, (भारतीय रिजर्व बैंक द्वारा निर्दिष्ट कुछ मामलों को छोड़कर) _____ कहलाती है।

Ans
✗ 1. उलट रेपो दर (reverse repo rate)
✓ 2. आधार दर (base rate)
✗ 3. रेपो दर (repo rate)
✗ 4. कैश रेट (cash rate)

Question Type : **MCQ**
Question ID : **264330140366**
Option 1 ID : **264330549845**
Option 2 ID : **264330549843**
Option 3 ID : **264330549844**
Option 4 ID : **264330549846**
Status : **Answered**
Chosen Option : **2**

Q.18 एक आवेशित वस्तु द्वारा किसी दूसरी आवेशित अथवा अनावेशित वस्तु पर लगाया गया बल _____ कहलाता है।

Ans
✗ 1. दाब बल
✗ 2. घर्षण बल
✗ 3. गुरुत्वाकर्षण बल
✓ 4. स्थिरविद्युत बल

Question Type : **MCQ**
Question ID : **264330139882**
Option 1 ID : **264330547910**
Option 2 ID : **264330547909**
Option 3 ID : **264330547908**
Option 4 ID : **264330547907**
Status : **Answered**
Chosen Option : **4**

Q.19 1873 में "गुलामगिरी (Gulamgiri)" नामक किताब किसने लिखी थी?

Ans
✗ 1. देबेंद्रनाथ टैगोर
✓ 2. ज्योतिबा फुले
✗ 3. ईश्वरचंद्र विद्यासागर
✗ 4. दयानंद सरस्वती

Question Type : **MCQ**
Question ID : **264330139746**
Option 1 ID : **264330547402**
Option 2 ID : **264330547399**
Option 3 ID : **264330547401**
Option 4 ID : **264330547400**
Status : **Answered**
Chosen Option : **2**

Join Telegram Group "HaryanaJobs.in"

Q.20 अनंग पाल किस राजवंश के शासक थे?

Ans
1. गुर्जर-प्रतिहार राजवंश
2. राजपूत राजवंश
3. पल्लव राजवंश
4. खिलजी राजवंश

Question Type : **MCQ**
Question ID : **264330139720**
Option 1 ID : **264330547296**
Option 2 ID : **264330547297**
Option 3 ID : **264330547298**
Option 4 ID : **264330547295**
Status : **Answered**
Chosen Option : **2**

Q.21 बेरोजगारी दर ज्ञात करने का सूत्र _____ है।

Ans
1. (बेरोजगार पुरुष श्रमिक / कुल श्रम बल) × 1000
2. (रोजगार प्राप्त श्रमिक / कुल श्रम बल) × 100
3. (रोजगार प्राप्त श्रमिक / पुरुष श्रम बल) × 100
4. (बेरोजगार श्रमिक / कुल श्रम बल) × 100

Question Type : **MCQ**
Question ID : **264330140287**
Option 1 ID : **264330549529**
Option 2 ID : **264330549528**
Option 3 ID : **264330549530**
Option 4 ID : **264330549527**
Status : **Answered**
Chosen Option : **4**

Q.22 स्थापत्यकला की प्रोविडा (Provida) शैली किस साम्राज्य से संबंधित है?

Ans
1. मौर्य साम्राज्य
2. विजयनगर साम्राज्य
3. बहमनी साम्राज्य
4. गुप्त साम्राज्य

Question Type : **MCQ**
Question ID : **264330140296**
Option 1 ID : **264330549564**
Option 2 ID : **264330549563**
Option 3 ID : **264330549566**
Option 4 ID : **264330549565**
Status : **Answered**
Chosen Option : **4**

Join Telegram Group "HaryanaJobs.in"

Q.23 वर्ल्ड गेम्स 2022, संयुक्त राज्य अमेरिका के _____ शहर में आयोजित किए गए थे।

Ans
1. ऑस्टिन (Austin)
2. बर्मिंघम (Birmingham)
3. वाशिंगटन (Washington)
4. न्यू ऑर्लेअंस (New Orleans)

Question Type : **MCQ**
Question ID : **264330140773**
Option 1 ID : **264330551440**
Option 2 ID : **264330551439**
Option 3 ID : **264330551441**
Option 4 ID : **264330551442**
Status : **Answered**
Chosen Option : **1**

Q.24 निम्नलिखित में से किस भारतीय नृत्य शैली का संबंध राजस्थान से है?

Ans
1. भरतनाट्यम
2. ओडिसी
3. घूमर
4. चरकुला

Question Type : **MCQ**
Question ID : **264330140753**
Option 1 ID : **264330551361**
Option 2 ID : **264330551359**
Option 3 ID : **264330551362**
Option 4 ID : **264330551360**
Status : **Answered**
Chosen Option : **3**

Q.25 मोहनजोदड़ो निम्नलिखित में से किस सभ्यता से संबंधित है?

Ans
1. सिंधु घाटी सभ्यता
2. माया (Maya) सभ्यता
3. मेसोपोटामिया (Mesopotamian) की सभ्यता
4. मिस्र की सभ्यता

Question Type : **MCQ**
Question ID : **264330140305**
Option 1 ID : **264330549599**
Option 2 ID : **264330549602**
Option 3 ID : **264330549600**
Option 4 ID : **264330549601**
Status : **Answered**
Chosen Option : **1**

Section : **English Language and Comprehension**

Join Telegram Group "HaryanaJobs.in"

Q.1 Identify the segment that contains a grammatical error. If there is no error, select 'No error'.
It's good to travel and / work, most beautiful than going / to the same office each day.

Ans
1. It's good to travel and
2. to the same office each day.
3. No error
4. work, most beautiful than going

Question Type : **MCQ**
Question ID : **264330135742**
Option 1 ID : **264330531851**
Option 2 ID : **264330531853**
Option 3 ID : **264330531854**
Option 4 ID : **264330531852**
Status : **Answered**
Chosen Option : **4**

Q.2 Select the most appropriate synonym of the given word.
Wealthy

Ans
1. Affluent
2. Lacking
3. Poor
4. Depressed

Question Type : **MCQ**
Question ID : **264330136151**
Option 1 ID : **264330533404**
Option 2 ID : **264330533405**
Option 3 ID : **264330533403**
Option 4 ID : **264330533406**
Status : **Answered**
Chosen Option : **1**

Q.3 Select the most appropriate meaning of the given idiom.
In fits and starts

Ans
1. Summary
2. Be in difficulty
3. Irregularly
4. Everywhere

Question Type : **MCQ**
Question ID : **264330136763**
Option 1 ID : **264330535755**
Option 2 ID : **264330535756**
Option 3 ID : **264330535757**
Option 4 ID : **264330535758**
Status : **Answered**
Chosen Option : **3**

Join Telegram Group "HaryanaJobs.in"

Q.4 Select the most appropriate option to substitute the bracketed segment in the given sentence. If there is no need to substitute it, select 'no substitution required'.

If the dog (is allow complete freedom), it can assume that any toy is acceptable for play.

Ans

✗ 1. allowed completely freedom

✗ 2. No substitution required

✓ 3. is allowed complete freedom

✗ 4. are allowed complete free

Question Type : **MCQ**
Question ID : **264330136748**
Option 1 ID : **264330535700**
Option 2 ID : **264330535702**
Option 3 ID : **264330535699**
Option 4 ID : **264330535701**
Status : **Answered**
Chosen Option : **3**

Q.5 A sentence has been given with a blank to be filled with an appropriate option. Choose the correct alternative.

Social media is _____ to market products.

Ans

✗ 1. using

✗ 2. uses

✗ 3. use

✓ 4. used

Question Type : **MCQ**
Question ID : **264330135236**
Option 1 ID : **264330529868**
Option 2 ID : **264330529867**
Option 3 ID : **264330529870**
Option 4 ID : **264330529869**
Status : **Answered**
Chosen Option : **4**

Q.6 Select the wrongly spelt word.

Ans

✓ 1. Pausity

✗ 2. Philistine

✗ 3. Phlegmatic

✗ 4. Philanthropy

Question Type : **MCQ**
Question ID : **264330136558**
Option 1 ID : **264330534970**
Option 2 ID : **264330534968**
Option 3 ID : **264330534969**
Option 4 ID : **264330534967**
Status : **Answered**
Chosen Option : **2**

Join Telegram Group "HaryanaJobs.in"

Q.7 Select the word segment that substitutes (replaces) the bracketed word segment correctly and completes the sentence meaningfully. Select the option 'no correction required' if the sentence is correct as given.

How (can a book such as) be written before I'd lived the incidents it described?

Ans

1. ✗ may such a book
2. ✗ No correction required
3. ✗ must so a book
4. ✓ could such a book

Question Type : **MCQ**
Question ID : **264330136414**
Option 1 ID : **264330534420**
Option 2 ID : **264330534422**
Option 3 ID : **264330534421**
Option 4 ID : **264330534419**
Status : **Answered**
Chosen Option : **4**

Q.8 Select the most appropriate word for the given group of words.

A calculated move to gain an advantage

Ans

1. ✓ Gambit
2. ✗ Grunt
3. ✗ Bonsai
4. ✗ Profit

Question Type : **MCQ**
Question ID : **264330136280**
Option 1 ID : **264330533902**
Option 2 ID : **264330533899**
Option 3 ID : **264330533901**
Option 4 ID : **264330533900**
Status : **Answered**
Chosen Option : **1**

Q.9 Select the most appropriate option to fill in the blank.

Slightly _____ bitter oranges to remove the red color which covers their skins.

Ans

1. ✗ grade
2. ✗ great
3. ✓ grate
4. ✗ grace

Question Type : **MCQ**
Question ID : **264330141216**
Option 1 ID : **264330553199**
Option 2 ID : **264330553201**
Option 3 ID : **264330553200**
Option 4 ID : **264330553202**
Status : **Answered**
Chosen Option : **2**

Join Telegram Group "HaryanaJobs.in"

Q.10 Select the most appropriate word for the given group of words.

Urging or requesting (someone) solemnly or earnestly to do something

Ans
✔ 1. Adjure
✘ 2. Armada
✘ 3. Arrears
✘ 4. Arena

Question Type : **MCQ**
Question ID : **264330136497**
Option 1 ID : **264330534732**
Option 2 ID : **264330534733**
Option 3 ID : **264330534731**
Option 4 ID : **264330534734**
Status : **Answered**
Chosen Option : **4**

Q.11 Choose the incorrectly spelt word.

Ans
✘ 1. Shopping
✘ 2. Wave
✔ 3. Forciing
✘ 4. Trust

Question Type : **MCQ**
Question ID : **264330135557**
Option 1 ID : **264330531129**
Option 2 ID : **264330531128**
Option 3 ID : **264330531127**
Option 4 ID : **264330531130**
Status : **Answered**
Chosen Option : **3**

Q.12 Choose the word that is opposite in meaning to the given word.

Plain

Ans
✘ 1. Stupid
✘ 2. Mean
✔ 3. Fancy
✘ 4. Crazy

Question Type : **MCQ**
Question ID : **264330135527**
Option 1 ID : **264330531014**
Option 2 ID : **264330531013**
Option 3 ID : **264330531012**
Option 4 ID : **264330531011**
Status : **Answered**
Chosen Option : **4**

Join Telegram Group "HaryanaJobs.in"

Q.13 Identify the segment that contains a grammatical error. If there is no error, select 'No error'.

It would be neat and / cleanest, a home worthy of / spending our lives together.

Ans

✔ 1. cleanest, a home worthy of

✘ 2. spending our lives together.

✘ 3. It would be neat and

✘ 4. No error

Question Type : **MCQ**
Question ID : **264330136266**
Option 1 ID : **264330533848**
Option 2 ID : **264330533849**
Option 3 ID : **264330533847**
Option 4 ID : **264330533850**
Status : **Answered**
Chosen Option : **1**

Q.14 Fill in the blank with the most appropriate option.

Can we reschedule the meeting? I _____.

Ans

✘ 1. give a headache

✘ 2. get a headache

✘ 3. take a headache

✔ 4. have a headache

Question Type : **MCQ**
Question ID : **264330135739**
Option 1 ID : **264330531839**
Option 2 ID : **264330531840**
Option 3 ID : **264330531841**
Option 4 ID : **264330531842**
Status : **Answered**
Chosen Option : **4**

Q.15 Improve the underlined part of the sentence. Choose 'No improvement' as an answer if the sentence is grammatically correct.

We was installing wood flooring throughout our house.

Ans

✘ 1. No improvement

✘ 2. installs wooden

✔ 3. installed wood

✘ 4. installs wood

Question Type : **MCQ**
Question ID : **264330135233**
Option 1 ID : **264330529858**
Option 2 ID : **264330529856**
Option 3 ID : **264330529855**
Option 4 ID : **264330529857**
Status : **Answered**
Chosen Option : **3**

Join Telegram Group "HaryanaJobs.in"

Q.16 Identify the segment that contains a grammatical error. If there is no error, select 'No error'.

I had been angry the whole / evening, so she rubs brahmi / oil into my scalp to cool my brain.

Ans

1. ✗ oil into my scalp to cool my brain.
2. ✗ No error
3. ✗ I had been angry the whole
4. ✓ evening, so she rubs brahmi

Question Type : **MCQ**
Question ID : **264330135743**
Option 1 ID : **264330531857**
Option 2 ID : **264330531858**
Option 3 ID : **264330531855**
Option 4 ID : **264330531856**
Status : **Answered**
Chosen Option : **4**

Q.17 Select the most appropriate option to fill in the blank.

What customs officials are asking for are not things that _____ their own personal titles.

Ans

1. ✗ advocate
2. ✗ accede
3. ✗ acerbic
4. ✓ aggrandize

Question Type : **MCQ**
Question ID : **264330135670**
Option 1 ID : **264330531575**
Option 2 ID : **264330531577**
Option 3 ID : **264330531578**
Option 4 ID : **264330531576**
Status : **Answered**
Chosen Option : **4**

Q.18 Select the word from the options which is exactly opposite in meaning to the bracketed word given in the sentence below.

She relished our (arguments), most of which she won.

Ans

1. ✗ negotiations
2. ✗ altercation
3. ✓ agreements
4. ✗ feud

Question Type : **MCQ**
Question ID : **264330135734**
Option 1 ID : **264330531822**
Option 2 ID : **264330531820**
Option 3 ID : **264330531821**
Option 4 ID : **264330531819**
Status : **Answered**
Chosen Option : **1**

Join Telegram Group "HaryanaJobs.in"

Q.19 Select the most appropriate meaning of the bracketed idiom in the given sentence.

He is (a wolf in sheep's clothing), outwardly kind but inwardly vicious!

Ans

1. ✗ Verbally scold someone
2. ✓ A dangerous person pretending harmless
3. ✗ Angry today about something that occurred in the past
4. ✗ A situation involving a narrow escape from danger

Question Type : **MCQ**
Question ID : **264330136556**
Option 1 ID : **264330534960**
Option 2 ID : **264330534959**
Option 3 ID : **264330534961**
Option 4 ID : **264330534962**
Status : **Answered**
Chosen Option : **2**

Q.20 Select the word from the options which is similar in meaning to the bracketed word given in the sentence below.
There is widespread (prejudice) against workers over 45.

Ans

1. ✗ Misfortune
2. ✗ Concern
3. ✗ Temperament
4. ✓ Intolerance

Question Type : **MCQ**
Question ID : **264330135758**
Option 1 ID : **264330531913**
Option 2 ID : **264330531911**
Option 3 ID : **264330531914**
Option 4 ID : **264330531912**
Status : **Answered**
Chosen Option : **2**

Comprehension:

In the following passage some words have been deleted. Fill in the blanks with the help of the alternatives given. Select the most appropriate option for each number.

At the core of the (1) _____ lies the fierce (2) _____ between two branches of the Kuru dynasty, the Pandavas and the Kauravas. The lifelong struggle (3) _____ the cousins for the throne of Hastinapur culminates (4) _____ bloody battle of Kurukshetra, in which (5) _____ kings of that period participated and perished.

SubQuestion No : 21

Q.21 Select the most appropriate option to fill in the blank No. 1.

Ans

1. ✓ epic
2. ✗ bright
3. ✗ dull
4. ✗ exercise

Question Type : **MCQ**
Question ID : **264330135724**
Option 1 ID : **264330531782**
Option 2 ID : **264330531779**
Option 3 ID : **264330531781**
Option 4 ID : **264330531780**
Status : **Answered**
Chosen Option : **1**

Join Telegram Group "HaryanaJobs.in"

Comprehension:

In the following passage some words have been deleted. Fill in the blanks with the help of the alternatives given. Select the most appropriate option for each number.

At the core of the (1) _____ lies the fierce (2) _____ between two branches of the Kuru dynasty, the Pandavas and the Kauravas. The lifelong struggle (3) _____ the cousins for the throne of Hastinapur culminates (4) _____ bloody battle of Kurukshetra, in which (5) _____ kings of that period participated and perished.

SubQuestion No : 22

Q.22 Select the most appropriate option to fill in the blank No. 2.

Ans

✗ 1. hostile

✗ 2. friendship

✓ 3. rivalry

✗ 4. commute

Question Type : **MCQ**
Question ID : **264330135725**
Option 1 ID : **264330531786**
Option 2 ID : **264330531783**
Option 3 ID : **264330531785**
Option 4 ID : **264330531784**
Status : **Answered**
Chosen Option : **1**

Comprehension:

In the following passage some words have been deleted. Fill in the blanks with the help of the alternatives given. Select the most appropriate option for each number.

At the core of the (1) _____ lies the fierce (2) _____ between two branches of the Kuru dynasty, the Pandavas and the Kauravas. The lifelong struggle (3) _____ the cousins for the throne of Hastinapur culminates (4) _____ bloody battle of Kurukshetra, in which (5) _____ kings of that period participated and perished.

SubQuestion No : 23

Q.23 Select the most appropriate option to fill in the blank No. 3.

Ans

✗ 1. inside

✗ 2. along

✗ 3. amongst

✓ 4. between

Question Type : **MCQ**
Question ID : **264330135726**
Option 1 ID : **264330531789**
Option 2 ID : **264330531790**
Option 3 ID : **264330531787**
Option 4 ID : **264330531788**
Status : **Answered**
Chosen Option : **4**

Join Telegram Group "HaryanaJobs.in"

Comprehension:

In the following passage some words have been deleted. Fill in the blanks with the help of the alternatives given. Select the most appropriate option for each number.

At the core of the (1) _____ lies the fierce (2) _____ between two branches of the Kuru dynasty, the Pandavas and the Kauravas. The lifelong struggle (3) _____ the cousins for the throne of Hastinapur culminates (4) _____ bloody battle of Kurukshetra, in which (5) _____ kings of that period participated and perished.

SubQuestion No : 24

Q.24 Select the most appropriate option to fill in the blank No. 4.

Ans

✗ 1. inside

✓ 2. in the

✗ 3. in to

✗ 4. in that

Question Type : **MCQ**
Question ID : **264330135727**
Option 1 ID : **264330531794**
Option 2 ID : **264330531791**
Option 3 ID : **264330531793**
Option 4 ID : **264330531792**
Status : **Answered**
Chosen Option : **2**

Comprehension:

In the following passage some words have been deleted. Fill in the blanks with the help of the alternatives given. Select the most appropriate option for each number.

At the core of the (1) _____ lies the fierce (2) _____ between two branches of the Kuru dynasty, the Pandavas and the Kauravas. The lifelong struggle (3) _____ the cousins for the throne of Hastinapur culminates (4) _____ bloody battle of Kurukshetra, in which (5) _____ kings of that period participated and perished.

SubQuestion No : 25

Q.25 Select the most appropriate option to fill in the blank No. 5.

Ans

✗ 1. almost

✗ 2. each

✗ 3. total

✓ 4. most

Question Type : **MCQ**
Question ID : **264330135728**
Option 1 ID : **264330531795**
Option 2 ID : **264330531797**
Option 3 ID : **264330531798**
Option 4 ID : **264330531796**
Status : **Answered**
Chosen Option : **1**

Join Telegram Group "HaryanaJobs.in"

Multi Tasking Non Technical Staff and Havaldar CBIC and CBN Examination 2022

Roll Number	HaryanaJobs.in
Candidate Name	HaryanaJobs.in
Venue Name	iON Digital Zone iDZ Purnea
Exam Date	14/06/2023
Exam Time	9:00 AM - 10:30 AM
Subject	MTS Non Tech Havaldar CBIC and CBN Examination 2022

Section : **Numerical and Mathematical Ability**

Q.1 A, 10 km/hr की चाल से चलता है और उसके 20 घंटे बाद, B, 15 km/hr की चाल से उसके पीछे अपनी साइकिल पर चलना शुरू करता है। प्रारंभिक बिंदु से कितनी दूरी पर B, A से मिलेगा?

Ans
- ✔ 1. 600 km
- ✘ 2. 1000 km
- ✘ 3. 800 km
- ✘ 4. 700 km

Question Type : **MCQ**
Question ID : **264330139893**
Option 1 ID : **264330547952**
Option 2 ID : **264330547951**
Option 3 ID : **264330547954**
Option 4 ID : **264330547953**
Status : **Answered**
Chosen Option : **3**

Q.2 यदि 10 आदमी किसी कार्य को 10 दिन में कर सकते हैं, तो 2 आदमी उसी कार्य को कितने दिन में करेंगे?

Ans
- ✘ 1. 75 दिन
- ✘ 2. 25 दिन
- ✔ 3. 50 दिन
- ✘ 4. 60 दिन

Question Type : **MCQ**
Question ID : **264330140583**
Option 1 ID : **264330550685**
Option 2 ID : **264330550684**
Option 3 ID : **264330550686**
Option 4 ID : **264330550683**
Status : **Answered**
Chosen Option : **3**

Join Telegram Group "HaryanaJobs.in"

Q.3 23 मेजों का मूल्य Rs. 52840 है। Rs. 1690880 में ऐसी कितनी मेजें खरीदी जा सकती हैं?

Ans
✔ 1. 736
✘ 2. 690
✘ 3. 590
✘ 4. 528

Question Type : **MCQ**
Question ID : **264330140831**
Option 1 ID : **264330551673**
Option 2 ID : **264330551671**
Option 3 ID : **264330551674**
Option 4 ID : **264330551672**
Status : **Answered**
Chosen Option : **2**

Q.4 जब किसी संख्या का 20 प्रतिशत 160 में जोड़ा जाता है, तो परिणाम वही संख्या होती है। उस संख्या का मान क्या है?

Ans
✘ 1. 240
✘ 2. 160
✘ 3. 150
✔ 4. 200

Question Type : **MCQ**
Question ID : **264330139021**
Option 1 ID : **264330544694**
Option 2 ID : **264330544692**
Option 3 ID : **264330544691**
Option 4 ID : **264330544693**
Status : **Answered**
Chosen Option : **4**

Q.5 25, 40 और 60 का महत्तम समापवर्तक क्या है?

Ans
✘ 1. 12
✘ 2. 8
✘ 3. 10
✔ 4. 5

Question Type : **MCQ**
Question ID : **264330140168**
Option 1 ID : **264330549054**
Option 2 ID : **264330549053**
Option 3 ID : **264330549051**
Option 4 ID : **264330549052**
Status : **Answered**
Chosen Option : **4**

Join Telegram Group "HaryanaJobs.in"

Q.6 यदि क्रय मूल्य, विक्रय मूल्य का 40% है, तो लाभ प्रतिशत क्या है?

Ans
1. 50%
2. 200%
3. 100%
4. 150%

Question Type : **MCQ**
Question ID : **264330139043**
Option 1 ID : **264330544780**
Option 2 ID : **264330544781**
Option 3 ID : **264330544779**
Option 4 ID : **264330544782**
Status : **Answered**
Chosen Option : **4**

Q.7 नीचे दिए गए वृत्त आलेख में 8 अलग-अलग कंपनियों द्वारा बेची गई बाइक की संख्या को दर्शाया गया है। इन सभी 8 अलग-अलग कंपनियों द्वारा बेची गई बाइक की कुल संख्या 15000 है। इनमें से किसी एक विशिष्ट कंपनी द्वारा बेची गई बाइक की संख्या को इन सभी 8 अलग-अलग कंपनियों द्वारा बेची गई बाइक की कुल संख्या के प्रतिशत के रूप में दर्शाया गया है।

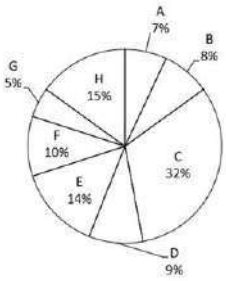

निम्नलिखित में से कौन-सा कथन सही नहीं है?

I. वृत्तखंड A, C और D द्वारा मिलकर बनाए गए केंद्रीय कोण का मान 170.8° है।

II. वृत्तखंड B, E, F और H द्वारा मिलकर बनाए गए केंद्रीय कोण का मान 169.2° है।

Ans
1. केवल II
2. न तो I और न ही II
3. I और II दोनों
4. केवल I

Question Type : **MCQ**
Question ID : **264330140232**
Option 1 ID : **264330549308**
Option 2 ID : **264330549310**
Option 3 ID : **264330549309**
Option 4 ID : **264330549307**
Status : **Answered**
Chosen Option : **2**

Join Telegram Group "HaryanaJobs.in"

Q.8 यदि किसी बेलन की त्रिज्या में 12 प्रतिशत की कमी कर दी जाए, तो उसकी ऊँचाई में कितने प्रतिशत की वृद्धि करनी होगी, ताकि बेलन का आयतन वही रहे?

Ans
1. 34.27 प्रतिशत ✗
2. 21.78 प्रतिशत ✗
3. 42.56 प्रतिशत ✗
4. 29.13 प्रतिशत ✓

Question Type : **MCQ**
Question ID : **264330140252**
Option 1 ID : **264330549388**
Option 2 ID : **264330549390**
Option 3 ID : **264330549389**
Option 4 ID : **264330549387**
Status : **Not Answered**
Chosen Option : **--**

Q.9 एक आदमी एक निश्चित दूरी का आधा भाग 35 km/hr की चाल से तय करता है। वह शेष दूरी का 40 प्रतिशत 8 km/hr की चाल से तय करता है और शेष दूरी को 18 km/hr की चाल से तय करता है। पूरी यात्रा में उसकी औसत चाल क्या है?

Ans
1. 840/47 km/hr ✓
2. 760/47 km/hr ✗
3. 920/47 km/hr ✗
4. 680/47 km/hr ✗

Question Type : **MCQ**
Question ID : **264330139935**
Option 1 ID : **264330548121**
Option 2 ID : **264330548120**
Option 3 ID : **264330548122**
Option 4 ID : **264330548119**
Status : **Answered**
Chosen Option : **2**

Q.10 Rs.6000 की धनराशि को दो भागों में बाँटा जाता है। पहले भाग पर 10 प्रतिशत वार्षिक दर पर प्राप्त वार्षिक साधारण ब्याज, दूसरे भाग पर 15 प्रतिशत वार्षिक दर पर प्राप्त वार्षिक साधारण ब्याज के बराबर है। एक वर्ष के लिए प्रत्येक भाग पर कितना ब्याज है?

Ans
1. Rs.420 ✗
2. Rs.360 ✓
3. Rs.330 ✗
4. Rs.300 ✗

Question Type : **MCQ**
Question ID : **264330139962**
Option 1 ID : **264330548230**
Option 2 ID : **264330548227**
Option 3 ID : **264330548228**
Option 4 ID : **264330548229**
Status : **Answered**
Chosen Option : **4**

Join Telegram Group "HaryanaJobs.in"

Q.11 55 लीटर के एक मिश्रण में, अम्ल का क्षार से अनुपात 7:4 है, मिश्रण का अनुपात 4:3 करने के लिए क्षार की कितनी मात्रा मिलानी होगी?

Ans
1. 5.85 लीटर
2. 6.25 लीटर
3. 5.50 लीटर
4. 4.45 लीटर

Question Type : **MCQ**
Question ID : **264330138728**
Option 1 ID : **264330543521**
Option 2 ID : **264330543522**
Option 3 ID : **264330543520**
Option 4 ID : **264330543519**
Status : **Answered**
Chosen Option : **1**

Q.12 नीचे दी गई तालिका में एक परीक्षा में पाँच छात्रों द्वारा प्राप्त किए गए अंकों को दर्शाया गया है।

छात्र	अंक
A	400
B	300
C	150
D	350
E	200

D द्वारा प्राप्त किए गए अंकों और E द्वारा प्राप्त किए गए अंकों का अनुपात क्या है?

Ans
1. 5 : 3
2. 7 : 4
3. 7 : 3
4. 5 : 4

Question Type : **MCQ**
Question ID : **264330140581**
Option 1 ID : **264330550675**
Option 2 ID : **264330550677**
Option 3 ID : **264330550678**
Option 4 ID : **264330550676**
Status : **Answered**
Chosen Option : **2**

Q.13 $13 \times 12 \div 26 - 5 \times 24 \div 10 + 4 \times 4 - 8$ का मान क्या है?

Ans
1. 2
2. -2
3. 0
4. -4

Question Type : **MCQ**
Question ID : **264330139604**
Option 1 ID : **264330546831**
Option 2 ID : **264330546833**
Option 3 ID : **264330546832**
Option 4 ID : **264330546834**
Status : **Answered**
Chosen Option : **1**

Join Telegram Group "HaryanaJobs.in"

Q.14 $\frac{28}{21} \times \frac{96}{4} \div \frac{125}{5} \times \frac{42}{192} + \frac{297}{125} \times \frac{875}{3} \div \frac{99}{4} \times \frac{6}{25}$ का मान क्या है?

Ans
1. 7/25
2. 11
3. 7
4. 9/25

Question Type : **MCQ**
Question ID : **264330139645**
Option 1 ID : **264330546996**
Option 2 ID : **264330546995**
Option 3 ID : **264330546997**
Option 4 ID : **264330546998**
Status : **Answered**
Chosen Option : **3**

Q.15 एक वस्तु को Rs. 600 में खरीदा जाता है और Rs. 900 में बेचा जाता है। लाभ प्रतिशत ज्ञात कीजिए।

Ans
1. 45%
2. 40%
3. 55%
4. 50%

Question Type : **MCQ**
Question ID : **264330140782**
Option 1 ID : **264330551477**
Option 2 ID : **264330551476**
Option 3 ID : **264330551478**
Option 4 ID : **264330551475**
Status : **Answered**
Chosen Option : **4**

Q.16 राशि अकेले किसी कार्य को 10 घंटों में, गोपी अकेले 8 घंटों में और मंजू अकेले 12 घंटों में पूरा कर सकती है। यदि वे एक साथ मिलकर काम करें, तो इस कार्य को पूरा करने में उन्हें कितना समय लगेगा?

Ans
1. $3\frac{9}{37}$ घंटे
2. $3\frac{11}{37}$ घंटे
3. $4\frac{3}{37}$ घंटे
4. $4\frac{7}{37}$ घंटे

Question Type : **MCQ**
Question ID : **264330139051**
Option 1 ID : **264330544811**
Option 2 ID : **264330544813**
Option 3 ID : **264330544814**
Option 4 ID : **264330544812**
Status : **Answered**
Chosen Option : **1**

Join Telegram Group "HaryanaJobs.in"

Q.17 यदि दो बेलनों के आयतनों का अनुपात 7 : 5 है और उनकी ऊँचाइयों का अनुपात 5 : 7 है, तो उनकी त्रिज्याओं का अनुपात क्या है?

Ans
1. 4 : 5
2. 5 : 9
3. 7 : 5 ✔
4. 3 : 4

Question Type : **MCQ**
Question ID : **264330140624**
Option 1 ID : **264330550846**
Option 2 ID : **264330550844**
Option 3 ID : **264330550845**
Option 4 ID : **264330550843**
Status : **Answered**
Chosen Option : **3**

Q.18 साधारण ब्याज की वह दर क्या है जिस पर कोई धनराशि 36 वर्षों में स्वयं की तीन गुनी हो जाती है?

Ans
1. 5.55 प्रतिशत ✔
2. 7.28 प्रतिशत
3. 6.28 प्रतिशत
4. 6.86 प्रतिशत

Question Type : **MCQ**
Question ID : **264330140183**
Option 1 ID : **264330549114**
Option 2 ID : **264330549112**
Option 3 ID : **264330549113**
Option 4 ID : **264330549111**
Status : **Answered**
Chosen Option : **3**

Q.19 मनीष और पंकज की आय का अनुपात 13 : 7 है। यदि पंकज को मनीष से Rs. 6000 कम मिलते हैं, तो मनीष और पंकज की कुल आय कितनी है?

Ans
1. Rs. 20000 ✔
2. Rs. 22500
3. Rs. 24000
4. Rs. 25000

Question Type : **MCQ**
Question ID : **264330139939**
Option 1 ID : **264330548136**
Option 2 ID : **264330548137**
Option 3 ID : **264330548135**
Option 4 ID : **264330548138**
Status : **Answered**
Chosen Option : **1**

Join Telegram Group "HaryanaJobs.in"

Q.20 एक घड़ी को अंकित मूल्य के 5/6 भाग पर बेचने पर 10 प्रतिशत की हानि होती है। घड़ी के अंकित मूल्य और क्रय मूल्य का अनुपात क्या होगा?

Ans

✗ 1. 25 : 22

✗ 2. 29 : 25

✓ 3. 27 : 25

✗ 4. 28 : 27

Question Type : **MCQ**
Question ID : **264330139943**
Option 1 ID : **264330548153**
Option 2 ID : **264330548154**
Option 3 ID : **264330548152**
Option 4 ID : **264330548151**
Status : **Answered**
Chosen Option : **3**

Section : **Reasoning Ability and Problem Solving**

Q.1 राजेश, रमेश, सुरेश, मुकेश और प्रीतेश पाँच मित्र हैं, जिन्होंने एक परीक्षा में अलग-अलग अंक प्राप्त किए हैं। राजेश और मुकेश के बीच दो मित्रों ने अंक प्राप्त किए हैं। रमेश ने सर्वाधिक अंक प्राप्त किए हैं। प्रीतेश ने सुरेश से अधिक अंक प्राप्त किए हैं। चौथे स्थान पर सर्वाधिक अंक किसने प्राप्त किए हैं?

Ans

✗ 1. मुकेश

✗ 2. रमेश

✓ 3. सुरेश

✗ 4. राजेश

Question Type : **MCQ**
Question ID : **264330140460**
Option 1 ID : **264330550222**
Option 2 ID : **264330550220**
Option 3 ID : **264330550221**
Option 4 ID : **264330550219**
Status : **Answered**
Chosen Option : **3**

Q.2 उस विकल्प को चुनिए जो तीसरे शब्द से ठीक उसी प्रकार संबंधित है जिस प्रकार दूसरा शब्द पहले शब्द से संबंधित है।
मुंबई : महाराष्ट्र :: चेन्नई : ?

Ans

✗ 1. राजस्थान

✗ 2. महाराष्ट्र

✗ 3. हरियाणा

✓ 4. तमिलनाडु

Question Type : **MCQ**
Question ID : **264330140014**
Option 1 ID : **264330548435**
Option 2 ID : **264330548436**
Option 3 ID : **264330548437**
Option 4 ID : **264330548438**
Status : **Answered**
Chosen Option : **4**

Join Telegram Group "HaryanaJobs.in"

Q.3 निम्नलिखित प्रश्न में कुछ कथन दिए गए हैं और उन कथनों के आधार पर कुछ निष्कर्ष दिए गए हैं। आपको मानना है कि दिए गए कथन सत्य हैं चाहे वे समान्यतः ज्ञात तथ्यों से अलग प्रतीत होते हों। सभी निष्कर्षों को पढ़िए और फिर निश्चय कीजिए कि दिए गए निष्कर्षों में से कौनसा निष्कर्ष तार्किक रूप से दिए गए कथनों के अनुसार है।

कथन:

I. सभी लाल, पक्षी हैं।

II. सभी पक्षी, कुत्ते हैं।

निष्कर्ष:

I. कुछ पक्षी, कुत्ते हैं।

II. कुछ कुत्ते, लाल नहीं हैं।

Ans
1. कोई निष्कर्ष कथनों के अनुसार नहीं है
2. केवल निष्कर्ष II कथनों के अनुसार है
3. केवल निष्कर्ष I कथनों के अनुसार है
4. दोनों निष्कर्ष I और II कथनों के अनुसार हैं

Question Type : **MCQ**
Question ID : **264330139577**
Option 1 ID : **264330546726**
Option 2 ID : **264330546724**
Option 3 ID : **264330546723**
Option 4 ID : **264330546725**
Status : **Answered**
Chosen Option : **3**

Q.4 एक निश्चित कूट भाषा में, 'BEARD' को '30597' लिखा जाता है, 'BOWEL' को '17832' लिखा जाता है, 'AWARD' को '05209' लिखा जाता है। उस कूट भाषा में 'O' को कैसे लिखा जाएगा?

Ans
1. 2
2. 8
3. 3
4. 7

Question Type : **MCQ**
Question ID : **264330140960**
Option 1 ID : **264330552190**
Option 2 ID : **264330552188**
Option 3 ID : **264330552189**
Option 4 ID : **264330552187**
Status : **Answered**
Chosen Option : **3**

Join Telegram Group "HaryanaJobs.in"

Q.5 दिए गए समीकरण को सही करने के लिए किन दो चिन्हों को आपस में बदला जाना चाहिए?

5 ÷ 4 × 8 = 7 - 3

Ans
1. ÷ और =
2. ÷ और -
3. = और -
4. × और -

Question Type : **MCQ**
Question ID : **264330140407**
Option 1 ID : **264330550010**
Option 2 ID : **264330550008**
Option 3 ID : **264330550009**
Option 4 ID : **264330550007**
Status : **Answered**
Chosen Option : **3**

Q.6 उस समुच्चय को चुनिए जिसमें संख्याएँ ठीक उसी प्रकार संबंधित हैं जिस प्रकार निम्नलिखित समुच्चयों की संख्याएँ संबंधित हैं। (ध्यान दें: संख्याओं को उनके घटक अंकों में अलग-अलग किए बिना, पूर्ण संख्याओं पर संक्रियाएँ की जानी चाहिए। उदा. 13 - 13 पर संक्रियाएँ जैसे 13 को जोड़ना/घटाना/गुणा करना आदि किया जा सकता है। 13 को 1 और 3 में अलग-अलग करने की और फिर 1 और 3 पर गणितीय संक्रियाएँ करने की अनुमति नहीं है)

(19, 37, 72)
(15, 29, 56)

Ans
1. (18, 35, 69)
2. (16, 30, 62)
3. (12, 25, 50)
4. (11, 21, 40)

Question Type : **MCQ**
Question ID : **264330140047**
Option 1 ID : **264330548568**
Option 2 ID : **264330548567**
Option 3 ID : **264330548570**
Option 4 ID : **264330548569**
Status : **Answered**
Chosen Option : **4**

Q.7 A, N, E, H और S एक बेंच पर उत्तर की ओर मुख करके बैठे हैं। A, S के ठीक दाईं ओर बैठा है और S किसी एक कोने पर बैठा है। E, H के दाईं ओर बैठा है, और N के बाईं ओर बैठा है। H के ठीक बाईं ओर कौन बैठा है?

Ans
1. A
2. E
3. S
4. N

Question Type : **MCQ**
Question ID : **264330140140**
Option 1 ID : **264330548939**
Option 2 ID : **264330548940**
Option 3 ID : **264330548942**
Option 4 ID : **264330548941**
Status : **Answered**
Chosen Option : **1**

Join Telegram Group "HaryanaJobs.in"

Q.8 दी गई श्रृंखला में निम्नलिखित में से कौन-सी संख्या प्रश्न चिन्ह (?) के स्थान पर आएगी?
27, 31, 35, 39, 43, 47, ?

Ans
1. 59 ✗
2. 50 ✗
3. 51 ✓
4. 46 ✗

Question Type : **MCQ**
Question ID : **264330138779**
Option 1 ID : **264330543725**
Option 2 ID : **264330543726**
Option 3 ID : **264330543724**
Option 4 ID : **264330543723**
Status : **Answered**
Chosen Option : **3**

Q.9 यदि A का अर्थ 'जोड़', B का अर्थ 'गुणा', C का अर्थ 'घटाव' और D का अर्थ 'भाग' हो, तो निम्नलिखित समीकरण का मान क्या होगा?
11 C 5 A (9 D 3) B 2 = ?

Ans
1. 12 ✓
2. 10 ✗
3. 7 ✗
4. 9 ✗

Question Type : **MCQ**
Question ID : **264330138783**
Option 1 ID : **264330543741**
Option 2 ID : **264330543739**
Option 3 ID : **264330543740**
Option 4 ID : **264330543742**
Status : **Answered**
Chosen Option : **1**

Q.10 उस विकल्प को चुनिए जो तीसरे शब्द से ठीक उसी प्रकार संबंधित है जिस प्रकार दूसरा शब्द पहले शब्द से संबंधित है।
तर्कसंगत : अतार्किक :: अल्प : ?

Ans
1. कम ✗
2. सिर हिलाना ✗
3. गतिमान ✗
4. प्रचुर ✓

Question Type : **MCQ**
Question ID : **264330141201**
Option 1 ID : **264330553139**
Option 2 ID : **264330553140**
Option 3 ID : **264330553142**
Option 4 ID : **264330553141**
Status : **Answered**
Chosen Option : **4**

Join Telegram Group "HaryanaJobs.in"

Q.11 दी गई आकृति के उस सही दर्पण प्रतिबिंब को चुनिए, जो नीचे दर्शाए गए अनुसार दर्पण को MN पर रखने पर बनेगा।

Ans
1. 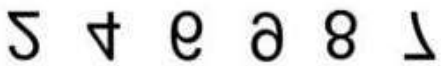
2. 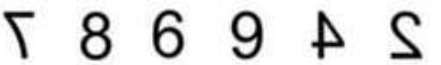
3. 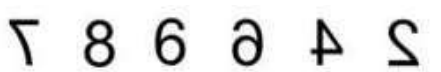
4. 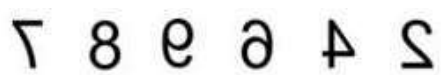

Question Type : **MCQ**
Question ID : **264330140131**
Option 1 ID : **264330548906**
Option 2 ID : **264330548903**
Option 3 ID : **264330548904**
Option 4 ID : **264330548905**
Status : **Answered**
Chosen Option : **4**

Q.12 निम्नलिखित प्रश्न में, दी गई श्रृंखला में लुप्त संख्या को चुनिए।

1, 3, 9, 27, 81, ?

Ans
1. 313
2. 283
3. 243
4. 343

Question Type : **MCQ**
Question ID : **264330139982**
Option 1 ID : **264330548307**
Option 2 ID : **264330548309**
Option 3 ID : **264330548308**
Option 4 ID : **264330548310**
Status : **Answered**
Chosen Option : **3**

Q.13 एक निश्चित कूट भाषा में, 'DRINK' को 'ETLRP' लिखा जाता है। उस कूट भाषा में 'ABOVE' को कैसे लिखा जाएगा?

Ans
1. BDRYJ
2. BDRZJ
3. BRDXJ
4. BDRJX

Question Type : **MCQ**
Question ID : **264330135352**
Option 1 ID : **264330530318**
Option 2 ID : **264330530317**
Option 3 ID : **264330530315**
Option 4 ID : **264330530316**
Status : **Answered**
Chosen Option : **2**

Join Telegram Group "HaryanaJobs.in"

Q.14 उस विकल्प आकृति को चुनिए जो नीचे दी गई आकृति में पैटर्न को पूरा करने के लिए प्रश्न चिन्ह (?) के स्थान पर आएगी। (घूर्णन की अनुमति नहीं है)।

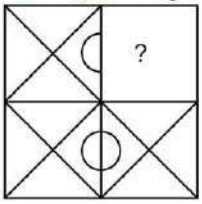

Ans

✗ 1.

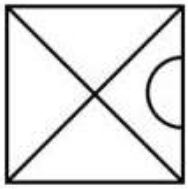

✗ 2.

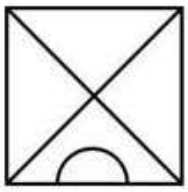

✓ 3.

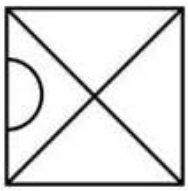

✗ 4.

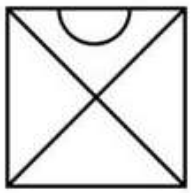

Question Type : **MCQ**
Question ID : **264330140411**
Option 1 ID : **264330550023**
Option 2 ID : **264330550024**
Option 3 ID : **264330550025**
Option 4 ID : **264330550026**
Status : **Answered**
Chosen Option : **3**

Join Telegram Group "HaryanaJobs.in"

Q.15 निम्नलिखित प्रश्न में कुछ कथन दिए गए हैं और उन कथनों के आधार पर कुछ निष्कर्ष दिए गए हैं। आपको मानना है कि दिए गए कथन सत्य हैं चाहे वे समान्यतः ज्ञात तथ्यों से अलग प्रतीत होते हों। सभी निष्कर्षों को पढ़िए और फिर निश्चय कीजिए कि दिए गए निष्कर्षों में से कौन-सा निष्कर्ष तार्किक रूप से दिए गए कथनों के अनुसार है।

कथन:

I. कुछ T, M हैं।

II. कोई T, Y नहीं है।

निष्कर्ष:

I. कुछ M, Y नहीं हैं।

II. कुछ M, T हैं।

III. सभी M, Y हैं।

Ans

✗ 1. दोनों निष्कर्ष I और III कथनों के अनुसार हैं

✗ 2. कोई भी निष्कर्ष कथनों के अनुसार नहीं है

✗ 3. दोनों निष्कर्ष II और III कथनों के अनुसार हैं

✓ 4. दोनों निष्कर्ष I और II कथनों के अनुसार हैं

Question Type : **MCQ**
Question ID : **264330139538**
Option 1 ID : **264330546567**
Option 2 ID : **264330546570**
Option 3 ID : **264330546568**
Option 4 ID : **264330546569**
Status : **Answered**
Chosen Option : **4**

Join Telegram Group "HaryanaJobs.in"

Q.16 उस विकल्प आकृति को चुनिए जिसमें दी गई आकृति (X) उसके भाग के रूप में निहित है (घूर्णन की अनुमति नहीं है)।

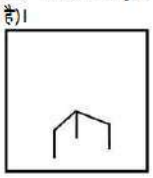

X

Ans

✗ 1.

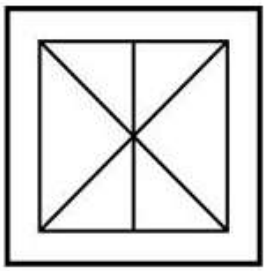

✓ 2.

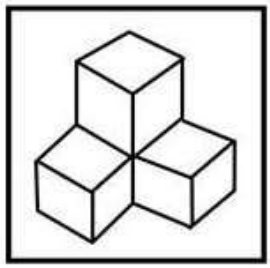

✗ 3.

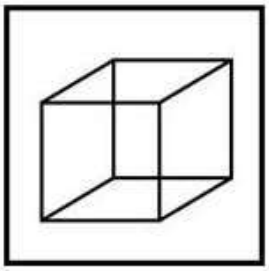

✗ 4.

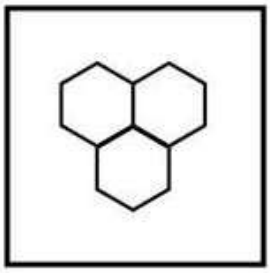

Question Type : **MCQ**
Question ID : **264330140150**
Option 1 ID : **264330548982**
Option 2 ID : **264330548980**
Option 3 ID : **264330548981**
Option 4 ID : **264330548979**
Status : **Answered**
Chosen Option : **2**

Join Telegram Group "HaryanaJobs.in"

Q.17 उस विकल्प को चुनिए जो तीसरी संख्या से ठीक उसी प्रकार संबंधित है जिस प्रकार दूसरी संख्या पहली संख्या से संबंधित है।
42 : 56 : : 24 : ?

Ans
1. 16 ✗
2. 32 ✓
3. 48 ✗
4. 40 ✗

Question Type : **MCQ**
Question ID : **264330140086**
Option 1 ID : **264330548726**
Option 2 ID : **264330548724**
Option 3 ID : **264330548725**
Option 4 ID : **264330548723**
Status : **Answered**
Chosen Option : **2**

Q.18 आठ मित्र राहुल, राम, रमेश, सोहन, साहिल, अनिल, सोनू और मोनू एक वृत्ताकार मेज के चारों ओर केंद्र की ओर मुख करके बैठे हैं (परंतु जरूरी नहीं कि वे इसी क्रम में बैठें हों)। मोनू, साहिल के ठीक दाईं ओर है। सोनू, साहिल के बाईं ओर से तीसरे स्थान पर है। राम, अनिल के दाईं ओर से तीसरे स्थान पर है। सोहन, मोनू के दाईं ओर से दूसरे स्थान पर है। मोनू के दाईं ओर से चौथे स्थान पर कौन है?

Ans
1. साहिल ✗
2. राम ✗
3. राहुल ✗
4. सोनू ✓

Question Type : **MCQ**
Question ID : **264330140059**
Option 1 ID : **264330548618**
Option 2 ID : **264330548616**
Option 3 ID : **264330548617**
Option 4 ID : **264330548615**
Status : **Answered**
Chosen Option : **4**

Q.19 दी गई श्रृंखला में निम्नलिखित में से कौन-सा अक्षर-समूह प्रश्न चिन्ह (?) के स्थान पर आएगा?
VC, WD, XE, YF, ZG, AH, ?

Ans
1. BI ✓
2. IB ✗
3. ID ✗
4. BJ ✗

Question Type : **MCQ**
Question ID : **264330140392**
Option 1 ID : **264330549947**
Option 2 ID : **264330549948**
Option 3 ID : **264330549950**
Option 4 ID : **264330549949**
Status : **Answered**
Chosen Option : **1**

Join Telegram Group "HaryanaJobs.in"

Q.20 एक निश्चित कूट भाषा में, 'BROWN' को 'CSPXO' लिखा जाता है और 'CHAIR' को 'DIBJS' लिखा जाता है। उस कूट भाषा में 'COACH' को कैसे लिखा जाएगा?

Ans
1. DPBDJ ✗
2. DPBDI ✓
3. DPBDK ✗
4. DPCDJ ✗

Question Type : **MCQ**
Question ID : **264330140436**
Option 1 ID : **264330550124**
Option 2 ID : **264330550123**
Option 3 ID : **264330550126**
Option 4 ID : **264330550125**
Status : **Answered**
Chosen Option : **1**

Section : **General Awareness**

Q.1 किसी पूँजीगत वस्तु की टूट-फूट के लिए वार्षिक भत्ता _____ कहलाता है।

Ans
1. मूल्यह्रास ✓
2. अवमूल्यन ✗
3. सकल निवेश ✗
4. विनिवेश ✗

Question Type : **MCQ**
Question ID : **264330139658**
Option 1 ID : **264330547048**
Option 2 ID : **264330547047**
Option 3 ID : **264330547049**
Option 4 ID : **264330547050**
Status : **Answered**
Chosen Option : **2**

Q.2 भारत में अहोम साम्राज्य _____ में स्थित था।

Ans
1. विंध्य ✗
2. तटीय उड़ीसा ✗
3. छोटा नागपुर के पठार ✗
4. ब्रह्मपुत्र घाटी ✓

Question Type : **MCQ**
Question ID : **264330139695**
Option 1 ID : **264330547196**
Option 2 ID : **264330547198**
Option 3 ID : **264330547195**
Option 4 ID : **264330547197**
Status : **Answered**
Chosen Option : **4**

Join Telegram Group "HaryanaJobs.in"

Q.3 दिवाली उस दिन का प्रतीक है जब भगवान राम, राजा रावण को पराजित कर _____ वर्षों के वनवास के बाद अयोध्या लौटे थे।

Ans
✔ 1. 14
✘ 2. 12
✘ 3. 11
✘ 4. 7

Question Type : **MCQ**
Question ID : **264330139724**
Option 1 ID : **264330547314**
Option 2 ID : **264330547313**
Option 3 ID : **264330547312**
Option 4 ID : **264330547311**
Status : **Answered**
Chosen Option : **1**

Q.4 चंद्रमा लगभग _____ दिनों में पृथ्वी का चक्कर लगाता है।

Ans
✘ 1. 25
✘ 2. 21
✘ 3. 23
✔ 4. 27

Question Type : **MCQ**
Question ID : **264330138989**
Option 1 ID : **264330544565**
Option 2 ID : **264330544563**
Option 3 ID : **264330544564**
Option 4 ID : **264330544566**
Status : **Answered**
Chosen Option : **4**

Q.5 मणिपुरी शास्त्रीय नृत्य के लिए किस प्रसिद्ध महिला को पद्म श्री पुरस्कार से सम्मानित किया गया?

Ans
✘ 1. कलाबती देवी (Kalabati Devi)
✘ 2. देवयानी चालिया (Devyani Chalia)
✔ 3. एलम इंदिरा देवी (Elam Endira Devi)
✘ 4. चारु माथुर (Charu Mathur)

Question Type : **MCQ**
Question ID : **264330140695**
Option 1 ID : **264330551128**
Option 2 ID : **264330551129**
Option 3 ID : **264330551127**
Option 4 ID : **264330551130**
Status : **Answered**
Chosen Option : **4**

Join Telegram Group "HaryanaJobs.in"

Q.6 विज्ञान की आवर्त सारणी में "Mn" किस रासायनिक तत्व का प्रतीक है?

Ans
✔ 1. मैंगनीज़ (Manganese)
✘ 2. मैग्नीशियम (Magnesium)
✘ 3. मेण्डेलीवियम (Mendelevium)
✘ 4. मोलिब्डेनम (Molybdenum)

Question Type : **MCQ**
Question ID : **264330140706**
Option 1 ID : **264330551174**
Option 2 ID : **264330551173**
Option 3 ID : **264330551172**
Option 4 ID : **264330551171**
Status : **Answered**
Chosen Option : **1**

Q.7 अर्चना भारत में लोकसभा चुनाव लड़ना चाहती हैं। वह अधिकतम कितने निर्वाचन क्षेत्रों से चुनाव लड़ सकती है?

Ans
✘ 1. एक
✘ 2. तीन
✘ 3. चार
✔ 4. दो

Question Type : **MCQ**
Question ID : **264330140722**
Option 1 ID : **264330551235**
Option 2 ID : **264330551237**
Option 3 ID : **264330551238**
Option 4 ID : **264330551236**
Status : **Answered**
Chosen Option : **4**

Q.8 राज्य के नीति निर्देशक सिद्धांत भारतीय संविधान के किस भाग के अंतर्गत आते हैं?

Ans
✔ 1. भाग IV
✘ 2. भाग III
✘ 3. भाग II
✘ 4. भाग I

Question Type : **MCQ**
Question ID : **264330140312**
Option 1 ID : **264330549628**
Option 2 ID : **264330549630**
Option 3 ID : **264330549627**
Option 4 ID : **264330549629**
Status : **Answered**
Chosen Option : **1**

Join Telegram Group "HaryanaJobs.in"

Q.9 आगरा के एक बैंकर शिव दयाल साहब ने _____ में राधा स्वामी सत्संग (Radha Soami Satsang) की स्थापना की थी।

Ans
1. 1875
2. 1842
3. 1861
4. 1880

Question Type : **MCQ**
Question ID : **264330141062**
Option 1 ID : **264330552597**
Option 2 ID : **264330552595**
Option 3 ID : **264330552596**
Option 4 ID : **264330552598**
Status : **Not Answered**
Chosen Option : **--**

Q.10 निम्नलिखित में से कौन-सा पेशा मौसमी बेरोज़गारी का एक प्रकार है?

Ans
1. किसान
2. सूचना प्रौद्योगिकी पेशेवर (Information Technology professional)
3. चिकित्सक
4. लेखाकार (Accountants)

Question Type : **MCQ**
Question ID : **264330140663**
Option 1 ID : **264330551001**
Option 2 ID : **264330551000**
Option 3 ID : **264330550999**
Option 4 ID : **264330551002**
Status : **Answered**
Chosen Option : **1**

Q.11 किस देश ने क्रिकेट महिला एशिया कप 2022 जीता?

Ans
1. श्रीलंका
2. बांग्लादेश
3. भारत
4. पाकिस्तान

Question Type : **MCQ**
Question ID : **264330140698**
Option 1 ID : **264330551139**
Option 2 ID : **264330551140**
Option 3 ID : **264330551141**
Option 4 ID : **264330551142**
Status : **Answered**
Chosen Option : **3**

Join Telegram Group "HaryanaJobs.in"

Q.12 भारत की 2011 की जनगणना के अनुसार, भारत के किस राज्य का लिंगानुपात सबसे कम है?

Ans
✔ 1. हरियाणा
✘ 2. बिहार
✘ 3. झारखंड
✘ 4. पंजाब

Question Type : **MCQ**
Question ID : **264330140687**
Option 1 ID : **264330551097**
Option 2 ID : **264330551096**
Option 3 ID : **264330551095**
Option 4 ID : **264330551098**
Status : **Answered**
Chosen Option : **1**

Q.13 नाहिद सिद्दीकी को अक्टूबर 2017 में मिलापफेस्ट के लाइफटाइम अचीवमेंट अवार्ड (Milapfest's Lifetime Achievement Award) से सम्मानित किया गया। वह किस नृत्य शैली के लिए जानी जाती हैं?

Ans
✔ 1. कथक
✘ 2. ओडिसी
✘ 3. कुचिपुड़ी
✘ 4. सत्त्रिया नृत्य

Question Type : **MCQ**
Question ID : **264330139705**
Option 1 ID : **264330547237**
Option 2 ID : **264330547235**
Option 3 ID : **264330547236**
Option 4 ID : **264330547238**
Status : **Answered**
Chosen Option : **1**

Q.14 भारतीय संविधान का निम्नलिखित में से कौन-सा अनुच्छेद "राष्ट्रीय अनुसूचित जाति आयोग" का प्रावधान करता है?

Ans
✘ 1. अनुच्छेद 344
✔ 2. अनुच्छेद 338
✘ 3. अनुच्छेद 337
✘ 4. अनुच्छेद 343

Question Type : **MCQ**
Question ID : **264330139877**
Option 1 ID : **264330547890**
Option 2 ID : **264330547888**
Option 3 ID : **264330547887**
Option 4 ID : **264330547889**
Status : **Answered**
Chosen Option : **2**

Join Telegram Group "HaryanaJobs.in"

Q.15 गुरु बिपिन सिंह का संबंध भारत की _____ नृत्य शैली से है।

Ans
1. कथक
2. कालबेलिया
3. मणिपुरी
4. बचाता

Question Type : **MCQ**
Question ID : **264330140703**
Option 1 ID : **264330551160**
Option 2 ID : **264330551161**
Option 3 ID : **264330551159**
Option 4 ID : **264330551162**
Status : **Answered**
Chosen Option : **3**

Q.16 टोक्यो ओलंपिक 2020 (2021 में खेले गए) में भारत ने कितने रजत पदक जीते हैं?

Ans
1. 1
2. 4
3. 2
4. 3

Question Type : **MCQ**
Question ID : **264330139652**
Option 1 ID : **264330547023**
Option 2 ID : **264330547026**
Option 3 ID : **264330547024**
Option 4 ID : **264330547025**
Status : **Answered**
Chosen Option : **4**

Q.17 लोमस ऋषि (Lomas Rishi) गुफाएँ निम्नलिखित में से किस पहाड़ी पर स्थित हैं?

Ans
1. सतपुड़ा पर्वतमाला
2. अरावली पर्वतमाला
3. बराबर पहाड़ियाँ
4. विंध्याचल पर्वतमाला

Question Type : **MCQ**
Question ID : **264330139750**
Option 1 ID : **264330547417**
Option 2 ID : **264330547416**
Option 3 ID : **264330547415**
Option 4 ID : **264330547418**
Status : **Answered**
Chosen Option : **3**

Join Telegram Group "HaryanaJobs.in"

Q.18 रवींद्रनाथ टैगोर ने _____ में शांतिनिकेतन संस्थान शुरू किया।

Ans
1. 1899
2. 1901
3. 1903
4. 1905

Question Type : **MCQ**
Question ID : **264330139721**
Option 1 ID : **264330547299**
Option 2 ID : **264330547300**
Option 3 ID : **264330547301**
Option 4 ID : **264330547302**
Status : **Answered**
Chosen Option : **2**

Q.19 चूना पत्थर _____ का एक प्रकार है।

Ans
1. कायांतरित शैल
2. ज्वालामुखीय शैल
3. अवसादी शैल
4. आग्नेय शैल

Question Type : **MCQ**
Question ID : **264330140300**
Option 1 ID : **264330549581**
Option 2 ID : **264330549582**
Option 3 ID : **264330549580**
Option 4 ID : **264330549579**
Status : **Answered**
Chosen Option : **3**

Q.20 भारतीय संविधान का अनुच्छेद 51A _____ का प्रावधान करता है।

Ans
1. मौलिक कर्तव्यों
2. संघीय कार्यपालिका
3. मौलिक अधिकारों
4. राज्य के नीति निर्देशक तत्वों

Question Type : **MCQ**
Question ID : **264330138958**
Option 1 ID : **264330544440**
Option 2 ID : **264330544442**
Option 3 ID : **264330544439**
Option 4 ID : **264330544441**
Status : **Answered**
Chosen Option : **4**

Join Telegram Group "HaryanaJobs.in"

Q.21 किस राजा को उसके सिक्कों पर वीणा बजाते हुए दिखाया गया है?

Ans
1. चंद्रगुप्त मौर्य
2. समुद्रगुप्त
3. चंद्रगुप्त प्रथम
4. अशोक

Question Type : **MCQ**
Question ID : **264330139887**
Option 1 ID : **264330547930**
Option 2 ID : **264330547928**
Option 3 ID : **264330547929**
Option 4 ID : **264330547927**
Status : **Answered**
Chosen Option : **2**

Q.22 इंदौर घराना भारतीय शास्त्रीय संगीत के प्रमुख मुखर घरानों में से एक है। इसकी स्थापना _____ ने की थी।

Ans
1. दोराइस्वामी वी. आयंगर
2. डॉ लक्ष्मीनारायण सुब्रमण्यम
3. उस्ताद अमीर खान
4. उस्ताद बुंदू खान

Question Type : **MCQ**
Question ID : **264330139729**
Option 1 ID : **264330547332**
Option 2 ID : **264330547334**
Option 3 ID : **264330547333**
Option 4 ID : **264330547331**
Status : **Not Answered**
Chosen Option : **--**

Q.23 निम्नलिखित में से कौन-सा "जरायुज" जंतु का एक उदाहरण नहीं है?

Ans
1. बिल्ली
2. पक्षी
3. गाय
4. कुत्ता

Question Type : **MCQ**
Question ID : **264330139712**
Option 1 ID : **264330547263**
Option 2 ID : **264330547266**
Option 3 ID : **264330547265**
Option 4 ID : **264330547264**
Status : **Answered**
Chosen Option : **2**

Join Telegram Group "HaryanaJobs.in"

Q.24 ऐतिहासिक शेर-शाह सूरी मार्ग _____ के बीच से होकर गुजरता है।

Ans
✔ 1. दिल्ली और अमृतसर
✘ 2. लखनऊ और कोलकाता
✘ 3. कानपुर और कन्याकुमारी
✘ 4. दिल्ली और मनाली

Question Type : **MCQ**
Question ID : **264330140915**
Option 1 ID : **264330552007**
Option 2 ID : **264330552008**
Option 3 ID : **264330552010**
Option 4 ID : **264330552009**
Status : **Answered**
Chosen Option : **1**

Q.25 कुछ विशेष परिवर्तनों के साथ टैडपोल का वयस्क में रूपांतरण _____ कहलाता है।

Ans
✘ 1. स्थानांतरण (shifting)
✘ 2. उभार (bulging)
✔ 3. कायांतरण (metamorphosis)
✘ 4. मुकुलन (budding)

Question Type : **MCQ**
Question ID : **264330139761**
Option 1 ID : **264330547461**
Option 2 ID : **264330547462**
Option 3 ID : **264330547460**
Option 4 ID : **264330547459**
Status : **Answered**
Chosen Option : **3**

Section : **English Language and Comprehension**

Q.1 Fill in the blank with the most appropriate option.

Pay attention to what's happening and make _____ adjustments based on your personal experience.

Ans
✘ 1. impartial
✘ 2. honest
✘ 3. placid
✔ 4. reasonable

Question Type : **MCQ**
Question ID : **264330136586**
Option 1 ID : **264330535076**
Option 2 ID : **264330535075**
Option 3 ID : **264330535078**
Option 4 ID : **264330535077**
Status : **Answered**
Chosen Option : **4**

Join Telegram Group "HaryanaJobs.in"

Q.2 Identify the segment that contains a grammatical error. If there is no error, select 'No error'.

Eddie just panics/ when it gets close/ nearer the end.

Ans
1. when it gets close
2. Eddie just panics
3. nearer the end.
4. No error

Question Type : **MCQ**
Question ID : **264330136536**
Option 1 ID : **264330534884**
Option 2 ID : **264330534883**
Option 3 ID : **264330534885**
Option 4 ID : **264330534886**
Status : **Answered**
Chosen Option : **3**

Q.3 Fill in the blank with the most appropriate option.

The only one _____ shattered their monotony by his visits was Krishna.

Ans
1. which ever
2. whom ever
3. who ever
4. whatever

Question Type : **MCQ**
Question ID : **264330136416**
Option 1 ID : **264330534428**
Option 2 ID : **264330534427**
Option 3 ID : **264330534430**
Option 4 ID : **264330534429**
Status : **Answered**
Chosen Option : **3**

Q.4 Select the most appropriate word for the given group of words.

A violent wind that has a circular movement

Ans
1. Tsunami
2. Drought
3. Deluge
4. Hurricane

Question Type : **MCQ**
Question ID : **264330136576**
Option 1 ID : **264330535035**
Option 2 ID : **264330535037**
Option 3 ID : **264330535038**
Option 4 ID : **264330535036**
Status : **Answered**
Chosen Option : **4**

Join Telegram Group "HaryanaJobs.in"

Q.5 Select the correctly spelt word.

Ans

✔ 1. Contribute

✘ 2. Contrribute

✘ 3. Contribuet

✘ 4. Contribbute

Question Type : **MCQ**
Question ID : **264330136209**
Option 1 ID : **264330533630**
Option 2 ID : **264330533629**
Option 3 ID : **264330533627**
Option 4 ID : **264330533628**
Status : **Answered**
Chosen Option : **1**

Q.6 Select the most appropriate option to substitute the bracketed segment in the given sentence. If there is no need to substitute it, select 'no substitution required'.

(Neither of the political factions have had much) interest in environmental intent.

Ans

✘ 1. No substitution required

✘ 2. Neither of the political faction has have much

✘ 3. Neither of the political factions have had any

✔ 4. Neither of the political factions has had much

Question Type : **MCQ**
Question ID : **264330136539**
Option 1 ID : **264330534898**
Option 2 ID : **264330534895**
Option 3 ID : **264330534896**
Option 4 ID : **264330534897**
Status : **Answered**
Chosen Option : **3**

Q.7 Improve the underlined part of the sentence. Choose 'No improvement' as an answer if the sentence is grammatically correct.

I try to eat less meat and more vegetables.

Ans

✘ 1. to eat lesser

✔ 2. No improvement

✘ 3. to ate less

✘ 4. to eats less

Question Type : **MCQ**
Question ID : **264330141212**
Option 1 ID : **264330553183**
Option 2 ID : **264330553186**
Option 3 ID : **264330553185**
Option 4 ID : **264330553184**
Status : **Answered**
Chosen Option : **2**

Join Telegram Group "HaryanaJobs.in"

Q.8 Select the most appropriate option to substitute the bracketed segment in the given sentence. If there is no need to substitute it, select 'no substitution required'.
(Many a opportunities came and went while) he laid wasted.

Ans

✔ 1. Many an opportunity came and went while

✘ 2. Many opportunities come and went as

✘ 3. No substitution required

✘ 4. Many an opportunities came and gone while

Question Type : **MCQ**
Question ID : **264330136746**
Option 1 ID : **264330535691**
Option 2 ID : **264330535693**
Option 3 ID : **264330535694**
Option 4 ID : **264330535692**
Status : **Answered**
Chosen Option : **1**

Q.9 Select the most appropriate antonym of the given word.

Irreverent

Ans

✘ 1. Restoration

✘ 2. Relevant

✔ 3. Respectful

✘ 4. Dormant

Question Type : **MCQ**
Question ID : **264330135863**
Option 1 ID : **264330532316**
Option 2 ID : **264330532318**
Option 3 ID : **264330532315**
Option 4 ID : **264330532317**
Status : **Answered**
Chosen Option : **3**

Q.10 Four sentences are given, out of which three have spelling errors. Choose the sentence with all correctly spelt words.

Ans

✔ 1. The job of the artist is to make the revolution perceptible.

✘ 2.
Except that it'll be rooted in awkard, funny and compelling reality.

✘ 3.
Microsoft announced plans to make bids to accquire Byte Dance.

✘ 4. She used the 14th Amendment to acheive equality.

Question Type : **MCQ**
Question ID : **264330136158**
Option 1 ID : **264330533433**
Option 2 ID : **264330533431**
Option 3 ID : **264330533432**
Option 4 ID : **264330533434**
Status : **Answered**
Chosen Option : **1**

Join Telegram Group "HaryanaJobs.in"

Q.11 In the following question, out of the given four alternatives, select the alternative which best expresses the meaning of the Idiom/Phrase.
In the nick of time

Ans
✔ 1. Only just in time
✘ 2. Every time
✘ 3. Frequently
✘ 4. Meantime

Question Type : **MCQ**
Question ID : **264330141166**
Option 1 ID : **264330553008**
Option 2 ID : **264330553009**
Option 3 ID : **264330553010**
Option 4 ID : **264330553007**
Status : **Answered**
Chosen Option : **4**

Q.12 Identify the segment that contains a grammatical error. If there is no error, select 'No error'.

The NCGG has been/ set up to assist in / bring about governance reforms through studies.

Ans
✔ 1. bring about governance reforms through studies.
✘ 2. set up to assist in
✘ 3. The NCGG has been
✘ 4. No error

Question Type : **MCQ**
Question ID : **264330136563**
Option 1 ID : **264330534989**
Option 2 ID : **264330534988**
Option 3 ID : **264330534987**
Option 4 ID : **264330534990**
Status : **Answered**
Chosen Option : **1**

Q.13 Select the most appropriate option to fill in the blank.

Lumber has many _____ beyond home building.

Ans
✔ 1. uses
✘ 2. pluses
✘ 3. loses
✘ 4. trunks

Question Type : **MCQ**
Question ID : **264330136368**
Option 1 ID : **264330534242**
Option 2 ID : **264330534240**
Option 3 ID : **264330534239**
Option 4 ID : **264330534241**
Status : **Answered**
Chosen Option : **1**

Join Telegram Group "HaryanaJobs.in"

Q.14 Select the most appropriate antonym to substitute the bracketed word in the given sentence.

He is (frank) about what he sees as the shortcomings of his great predecessors.

Ans

✔ 1. evasive

✘ 2. assisting

✘ 3. fortunate

✘ 4. cheerful

Question Type : **MCQ**
Question ID : **264330136502**
Option 1 ID : **264330534752**
Option 2 ID : **264330534754**
Option 3 ID : **264330534753**
Option 4 ID : **264330534751**
Status : **Answered**
Chosen Option : **1**

Q.15 Select the most appropriate word for the given group of words.

One who hates or discriminates against women.

Ans

✔ 1. Misogynist

✘ 2. Atheist

✘ 3. Feminist

✘ 4. Pessimist

Question Type : **MCQ**
Question ID : **264330135859**
Option 1 ID : **264330532300**
Option 2 ID : **264330532302**
Option 3 ID : **264330532299**
Option 4 ID : **264330532301**
Status : **Answered**
Chosen Option : **1**

Q.16 Find the part of the given sentence that has an error in it. If there is no error, choose 'No error'.

The participants responds to a series of statements at the dance competition.

Ans

✘ 1. at the dance competition.

✔ 2. The participants responds

✘ 3. to a series of statements

✘ 4. No error

Question Type : **MCQ**
Question ID : **264330135536**
Option 1 ID : **264330531049**
Option 2 ID : **264330531047**
Option 3 ID : **264330531048**
Option 4 ID : **264330531050**
Status : **Answered**
Chosen Option : **2**

Join Telegram Group "HaryanaJobs.in"

Q.17 Select the appropriate synonym for the underlined word.

I am parched, dehydrated to the point of pain.

Ans
1. Washed
2. Braced
3. Moistened
4. Drained

Question Type : **MCQ**
Question ID : **264330141213**
Option 1 ID : **264330553187**
Option 2 ID : **264330553189**
Option 3 ID : **264330553188**
Option 4 ID : **264330553190**
Status : **Answered**
Chosen Option : **4**

Q.18 Select the most appropriate synonym of the given word.

Golden

Ans
1. Dull
2. Dark
3. Gloomy
4. Shining

Question Type : **MCQ**
Question ID : **264330136177**
Option 1 ID : **264330533503**
Option 2 ID : **264330533504**
Option 3 ID : **264330533505**
Option 4 ID : **264330533506**
Status : **Answered**
Chosen Option : **4**

Q.19 The statement below has been given with bracketed text. Select the option with correct idiom for the bracketed text.

Don't start to think we've (won this game certainly), gentlemen.

Ans
1. got this game in the bag
2. have skin in the game
3. swallowed the bitter truth
4. held our horses

Question Type : **MCQ**
Question ID : **264330135866**
Option 1 ID : **264330532327**
Option 2 ID : **264330532329**
Option 3 ID : **264330532328**
Option 4 ID : **264330532330**
Status : **Answered**
Chosen Option : **4**

Join Telegram Group "HaryanaJobs.in"

Q.20 Select the most appropriate option to fill in the blank.

Many people may not find the rewards _____ with the time and effort required.

Ans
1. coffer
2. collude
3. commensurate
4. capable

Question Type : **MCQ**
Question ID : **264330136490**
Option 1 ID : **264330534710**
Option 2 ID : **264330534708**
Option 3 ID : **264330534707**
Option 4 ID : **264330534709**
Status : **Answered**
Chosen Option : **3**

Comprehension:

In the following passage some of the words have been deleted. Read the passage carefully and select the correct answer for the given blank out of the four alternatives.

The figure of Arthur first appeared in Welsh poetry in the (1) _____ sixth and early seventh centuries, a hero who was (2) _____ lead the Britons in battle against Saxon invaders. But it wasn't (3) _____ the 12th century that he was first tied to this dramatic headland, known as Tintagel.

The timeless popularity of the Arthur legend has overshadowed a central, unresolved (4) _____: Was there really a King Arthur, or at least a historical prototype upon whom Geoffrey's hero is (5) _____?

SubQuestion No : 21

Q.21 Select the most appropriate option to fill in blank number 1.

Ans
1. latest
2. least
3. latter
4. late

Question Type : **MCQ**
Question ID : **264330135239**
Option 1 ID : **264330529878**
Option 2 ID : **264330529875**
Option 3 ID : **264330529877**
Option 4 ID : **264330529876**
Status : **Answered**
Chosen Option : **4**

Join Telegram Group "HaryanaJobs.in"

Comprehension:

In the following passage some of the words have been deleted. Read the passage carefully and select the correct answer for the given blank out of the four alternatives.

The figure of Arthur first appeared in Welsh poetry in the (1) _____ sixth and early seventh centuries, a hero who was (2) _____ lead the Britons in battle against Saxon invaders. But it wasn't (3) _____ the 12th century that he was first tied to this dramatic headland, known as Tintagel.
The timeless popularity of the Arthur legend has overshadowed a central, unresolved (4) _____: Was there really a King Arthur, or at least a historical prototype upon whom Geoffrey's hero is (5) _____?

SubQuestion No : 22

Q.22 Select the most appropriate option to fill in blank number 2.

Ans

✔ 1. said to
✘ 2. told
✘ 3. brought to
✘ 4. tamed to

Question Type : **MCQ**
Question ID : **264330135240**
Option 1 ID : **264330529881**
Option 2 ID : **264330529880**
Option 3 ID : **264330529879**
Option 4 ID : **264330529882**
Status : **Answered**
Chosen Option : **3**

Comprehension:

In the following passage some of the words have been deleted. Read the passage carefully and select the correct answer for the given blank out of the four alternatives.

The figure of Arthur first appeared in Welsh poetry in the (1) _____ sixth and early seventh centuries, a hero who was (2) _____ lead the Britons in battle against Saxon invaders. But it wasn't (3) _____ the 12th century that he was first tied to this dramatic headland, known as Tintagel.
The timeless popularity of the Arthur legend has overshadowed a central, unresolved (4) _____: Was there really a King Arthur, or at least a historical prototype upon whom Geoffrey's hero is (5) _____?

SubQuestion No : 23

Q.23 Select the most appropriate option to fill in blank number 3.

Ans

✘ 1. none
✔ 2. until
✘ 3. beyond
✘ 4. unless

Question Type : **MCQ**
Question ID : **264330135241**
Option 1 ID : **264330529883**
Option 2 ID : **264330529886**
Option 3 ID : **264330529885**
Option 4 ID : **264330529884**
Status : **Answered**
Chosen Option : **3**

Join Telegram Group "HaryanaJobs.in"

Comprehension:

In the following passage some of the words have been deleted. Read the passage carefully and select the correct answer for the given blank out of the four alternatives.

The figure of Arthur first appeared in Welsh poetry in the (1) _____ sixth and early seventh centuries, a hero who was (2) _____ lead the Britons in battle against Saxon invaders. But it wasn't (3) _____ the 12th century that he was first tied to this dramatic headland, known as Tintagel.
The timeless popularity of the Arthur legend has overshadowed a central, unresolved (4) _____: Was there really a King Arthur, or at least a historical prototype upon whom Geoffrey's hero is (5) _____?

SubQuestion No : 24

Q.24 Select the most appropriate option to fill in blank number 4.

Ans

✗ 1. mess

✗ 2. commotion

✓ 3. question

✗ 4. establishment

Question Type : **MCQ**
Question ID : **264330135242**
Option 1 ID : **264330529890**
Option 2 ID : **264330529889**
Option 3 ID : **264330529888**
Option 4 ID : **264330529887**
Status : **Answered**
Chosen Option : **4**

Comprehension:

In the following passage some of the words have been deleted. Read the passage carefully and select the correct answer for the given blank out of the four alternatives.

The figure of Arthur first appeared in Welsh poetry in the (1) _____ sixth and early seventh centuries, a hero who was (2) _____ lead the Britons in battle against Saxon invaders. But it wasn't (3) _____ the 12th century that he was first tied to this dramatic headland, known as Tintagel.
The timeless popularity of the Arthur legend has overshadowed a central, unresolved (4) _____: Was there really a King Arthur, or at least a historical prototype upon whom Geoffrey's hero is (5) _____?

SubQuestion No : 25

Q.25 Select the most appropriate option to fill in blank number 5.

Ans

✗ 1. caged

✓ 2. based

✗ 3. hanged

✗ 4. found

Question Type : **MCQ**
Question ID : **264330135243**
Option 1 ID : **264330529892**
Option 2 ID : **264330529893**
Option 3 ID : **264330529894**
Option 4 ID : **264330529891**
Status : **Not Answered**
Chosen Option : **--**

Join Telegram Group "HaryanaJobs.in"

Multi Tasking Non Technical Staff and Havaldar CBIC and CBN Examination 2022

Roll Number	HaryanaJobs.in
Candidate Name	HaryanaJobs.in
Venue Name	S.P. Education Institute of IT & Management
Exam Date	14/06/2023
Exam Time	12:00 PM - 2:00 PM
Subject	MTS Non Tech Havaldar CBIC and CBN Examination 2022

Section : **Numerical and Mathematical Ability**

Q.1 6400 कर्मचारियों की एक कंपनी में पुरुष और महिला कर्मचारियों का अनुपात 5:3 है। कंपनी में पुरुष कर्मचारियों की संख्या कितनी होगी?

Ans

✗ 1. 4500

✓ 2. 4000

✗ 3. 3500

✗ 4. 3000

Question Type : **MCQ**
Question ID : **264330133744**
Option 1 ID : **264330524000**
Option 2 ID : **264330523999**
Option 3 ID : **264330524002**
Option 4 ID : **264330524001**
Status : **Answered**
Chosen Option : **2**

Q.2 $\frac{(55+88)\div[(3\times5+4)-64\div8]}{28\times7\div56\times4\text{ of }(91-78)}$ का मान क्या है?

Ans

✗ 1. 1/13

✗ 2. 1/12

✓ 3. 1/14

✗ 4. 1/11

Question Type : **MCQ**
Question ID : **264330137340**
Option 1 ID : **264330537988**
Option 2 ID : **264330537989**
Option 3 ID : **264330537987**
Option 4 ID : **264330537990**
Status : **Answered**
Chosen Option : **3**

Join Telegram Group "HaryanaJobs.in"

Q.3 यदि आशीष कार्य का 2/3 भाग 22 दिनों में पूरा कर सकता है। तो वह पूरा कार्य कितने दिनों में करेगा?

Ans
1. 30 दिन
2. 15 दिन
3. 22 दिन
4. 33 दिन

Question Type : **MCQ**
Question ID : **264330138406**
Option 1 ID : **264330542234**
Option 2 ID : **264330542233**
Option 3 ID : **264330542232**
Option 4 ID : **264330542231**
Status : **Answered**
Chosen Option : **4**

Q.4 यदि 2 + 4 ÷ (A + 6) × 2 = 16/7 है, तो A का मान क्या होगा?

Ans
1. 20
2. 23
3. 21
4. 22

Question Type : **MCQ**
Question ID : **264330133736**
Option 1 ID : **264330523970**
Option 2 ID : **264330523967**
Option 3 ID : **264330523969**
Option 4 ID : **264330523968**
Status : **Answered**
Chosen Option : **4**

Q.5 एक परीक्षा में, उपस्थित छात्रों की कुल संख्या में से 87 प्रतिशत छात्र उत्तीर्ण हुए, और 3250 छात्र अनुत्तीर्ण हुए। परीक्षा में उपस्थित छात्रों की कुल संख्या कितनी है?

Ans
1. 22500
2. 26800
3. 28000
4. 25000

Question Type : **MCQ**
Question ID : **264330137327**
Option 1 ID : **264330537936**
Option 2 ID : **264330537935**
Option 3 ID : **264330537937**
Option 4 ID : **264330537938**
Status : **Answered**
Chosen Option : **4**

Join Telegram Group "HaryanaJobs.in"

Q.6 राहुल अपना कार्य 7 दिनों में पूरा कर सकता है और राज 4 दिनों में कार्य पूरा कर सकता है। साथ मिलकर कार्य को पूरा करने में उन्हें कुल कितने दिन लगेंगे?

Ans

✗ 1. $\frac{28}{13}$ दिन

✓ 2. $\frac{28}{11}$ दिन

✗ 3. $\frac{15}{11}$ दिन

✗ 4. $\frac{14}{11}$ दिन

Question Type : **MCQ**
Question ID : **264330135101**
Option 1 ID : **264330529340**
Option 2 ID : **264330529339**
Option 3 ID : **264330529342**
Option 4 ID : **264330529341**
Status : **Answered**
Chosen Option : **2**

Q.7 एक लड़के की औसत चाल ज्ञात कीजिए यदि वह कुल दूरी का 1/6 भाग 5 km/hr की चाल से तय करता है और शेष दूरी को 25 km/hr की चाल से तय करने के लिए बाइक चलाता है। कुल दूरी 60 km है।

Ans

✗ 1. 20 km/hr

✓ 2. 15 km/hr

✗ 3. 12 km/hr

✗ 4. 13 km/hr

Question Type : **MCQ**
Question ID : **264330138373**
Option 1 ID : **264330542100**
Option 2 ID : **264330542099**
Option 3 ID : **264330542102**
Option 4 ID : **264330542101**
Status : **Answered**
Chosen Option : **2**

Q.8 एक वस्तु को Rs. 1600 में खरीदकर Rs. 3200 में बेच दिया गया। लाभ प्रतिशत ज्ञात कीजिए।

Ans

✗ 1. 90%

✓ 2. 100%

✗ 3. 75%

✗ 4. 50%

Question Type : **MCQ**
Question ID : **264330133742**
Option 1 ID : **264330523991**
Option 2 ID : **264330523994**
Option 3 ID : **264330523992**
Option 4 ID : **264330523993**
Status : **Answered**
Chosen Option : **2**

Join Telegram Group "HaryanaJobs.in"

Q.9 नीचे दी गई तालिका में 6 वर्षों में दो कंपनियों द्वारा किए गए बाइक के उत्पादन को दर्शाया गया है।

वर्ष	A	B
P	300	550
Q	150	400
R	250	300
S	500	100
T	350	50
U	200	150

J1 = वर्ष P, Q, R और S में A द्वारा किए गए बाइक के औसत उत्पादन का मान।

J2 = वर्ष T और U में B द्वारा किए गए बाइक के औसत उत्पादन का मान।

(J1/J2) का मान क्या है?

Ans

✔ 1. 3

✘ 2. 1

✘ 3. 2

✘ 4. 4

Question Type : **MCQ**
Question ID : **264330137341**
Option 1 ID : **264330537994**
Option 2 ID : **264330537992**
Option 3 ID : **264330537991**
Option 4 ID : **264330537993**
Status : **Answered**
Chosen Option : **1**

Q.10 50 वस्तुओं को बेचने पर, एक दुकानदार 10 वस्तुओं के विक्रय मूल्य के बराबर लाभ अर्जित करता है। उसका लाभ प्रतिशत क्या है?

Ans

✔ 1. 25%

✘ 2. 10%

✘ 3. 40%

✘ 4. 15%

Question Type : **MCQ**
Question ID : **264330135115**
Option 1 ID : **264330529395**
Option 2 ID : **264330529396**
Option 3 ID : **264330529397**
Option 4 ID : **264330529398**
Status : **Answered**
Chosen Option : **1**

Join Telegram Group "HaryanaJobs.in"

Q.11 दो संख्याओं 6 और 24 का तृतीय समानुपाती ज्ञात कीजिए।

Ans
✗ 1. 94
✗ 2. 84
✗ 3. 86
✓ 4. 96

Question Type : **MCQ**
Question ID : **264330133745**
Option 1 ID : **264330524006**
Option 2 ID : **264330524005**
Option 3 ID : **264330524003**
Option 4 ID : **264330524004**
Status : **Answered**
Chosen Option : **4**

Q.12 11 संख्याओं का योग 660 है। उनका औसत ज्ञात कीजिए।

Ans
✓ 1. 60
✗ 2. 80
✗ 3. 66
✗ 4. 10

Question Type : **MCQ**
Question ID : **264330133738**
Option 1 ID : **264330523975**
Option 2 ID : **264330523977**
Option 3 ID : **264330523976**
Option 4 ID : **264330523978**
Status : **Answered**
Chosen Option : **1**

Q.13 यदि चक्रवृद्धि ब्याज पर एक निश्चित धनराशि 5 वर्षों में स्वयं की 2 गुनी हो जाती है, तो कितने वर्षों में वह स्वयं की 8 गुनी हो जाएगी?

Ans
✓ 1. 15 वर्ष
✗ 2. 18 वर्ष
✗ 3. 12 वर्ष
✗ 4. 20 वर्ष

Question Type : **MCQ**
Question ID : **264330137332**
Option 1 ID : **264330537958**
Option 2 ID : **264330537956**
Option 3 ID : **264330537955**
Option 4 ID : **264330537957**
Status : **Answered**
Chosen Option : **1**

Join Telegram Group "HaryanaJobs.in"

Q.14 Rs.30000 की धनराशि 3 वर्षों के लिए चक्रवृद्धि ब्याज (वार्षिक रूप से संयोजित) पर ऋण पर दी जाती है। यदि पहले वर्ष के लिए ब्याज की दर 10 प्रतिशत, दूसरे वर्ष के लिए 20 प्रतिशत और तीसरे वर्ष के लिए 30 प्रतिशत है, तो कुल चक्रवृद्धि ब्याज कितना होगा?

Ans

✗ 1. Rs. 20560

✗ 2. Rs. 22580

✓ 3. Rs. 21480

✗ 4. Rs. 19270

Question Type : **MCQ**
Question ID : **264330137656**
Option 1 ID : **264330539233**
Option 2 ID : **264330539234**
Option 3 ID : **264330539232**
Option 4 ID : **264330539231**
Status : **Answered**
Chosen Option : **3**

Q.15 रीना द्वारा प्राप्त किए गए अंकों को आलेख में दर्शाया गया है। गणना कीजिए कि उसने विज्ञान में हिंदी की तुलना में कितने अधिक अंक प्राप्त किए?

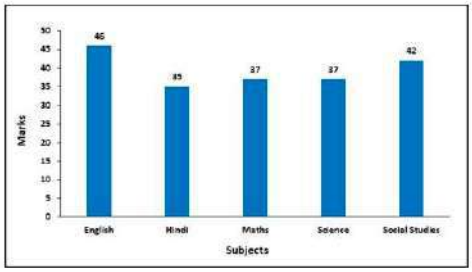

Marks = अंक

English = अंग्रेज़ी, Hindi = हिन्दी, Maths = गणित, Science = विज्ञान, Social Studies = सामाजिक विज्ञान

Subjects = विषय

Ans

✗ 1. 4

✓ 2. 2

✗ 3. 3

✗ 4. 5

Question Type : **MCQ**
Question ID : **264330133752**
Option 1 ID : **264330524033**
Option 2 ID : **264330524031**
Option 3 ID : **264330524032**
Option 4 ID : **264330524034**
Status : **Answered**
Chosen Option : **2**

Join Telegram Group "HaryanaJobs.in"

Q.16 30 kmph की चाल से चल रही 1800 m लंबी एक रेलगाड़ी एक सिग्नल के खंबे को कितने समय में पार कर लेगी?

Ans

✔ 1. 216 सेकंड

✘ 2. 250 सेकंड

✘ 3. 200 सेकंड

✘ 4. 220 सेकंड

Question Type : **MCQ**
Question ID : **264330133748**
Option 1 ID : **264330524015**
Option 2 ID : **264330524017**
Option 3 ID : **264330524018**
Option 4 ID : **264330524016**
Status : **Answered**
Chosen Option : **1**

Q.17 दुकानदार ने Rs. 3500 अंकित मूल्य वाली वस्तु पर 30% का बट्टा दिया। वस्तु का विक्रय मूल्य क्या होगा?

Ans

✘ 1. Rs.3000

✘ 2. Rs.1500

✘ 3. Rs.2400

✔ 4. Rs.2450

Question Type : **MCQ**
Question ID : **264330133743**
Option 1 ID : **264330523997**
Option 2 ID : **264330523998**
Option 3 ID : **264330523995**
Option 4 ID : **264330523996**
Status : **Answered**
Chosen Option : **4**

Q.18 एक लम्बवृत्तीय बेलन की त्रिज्या 7 cm है। बेलन की ऊँचाई उसकी त्रिज्या की तीन गुनी है। बेलन का वक्र पृष्ठीय क्षेत्रफल कितना है?

Ans

✔ 1. 924 cm^2

✘ 2. 666 cm^2

✘ 3. 264 cm^2

✘ 4. 724 cm^2

Question Type : **MCQ**
Question ID : **264330138411**
Option 1 ID : **264330542252**
Option 2 ID : **264330542253**
Option 3 ID : **264330542251**
Option 4 ID : **264330542254**
Status : **Answered**
Chosen Option : **1**

Join Telegram Group "HaryanaJobs.in"

Q.19 45 m भुजा वाले घन का कुल पृष्ठीय क्षेत्रफल ज्ञात कीजिए।

Ans
1. $2341\ m^2$ ✗
2. $12150\ m^2$ ✓
3. $1342\ m^2$ ✗
4. $1213\ m^2$ ✗

Question Type : **MCQ**
Question ID : **264330135105**
Option 1 ID : **264330529357**
Option 2 ID : **264330529355**
Option 3 ID : **264330529356**
Option 4 ID : **264330529358**
Status : **Answered**
Chosen Option : **2**

Q.20 54 और 48 का लघुत्तम समापवर्त्य (LCM) क्या होगा?

Ans
1. 423 ✗
2. 412 ✗
3. 432 ✓
4. 456 ✗

Question Type : **MCQ**
Question ID : **264330138762**
Option 1 ID : **264330543656**
Option 2 ID : **264330543655**
Option 3 ID : **264330543657**
Option 4 ID : **264330543658**
Status : **Answered**
Chosen Option : **3**

Section : **Reasoning Ability and Problem Solving**

Q.1 छः व्यक्ति एक वृत्ताकार मेज के चारों ओर केंद्र की ओर मुख करके बैठे हैं। P और S के बीच केवल D बैठा है। M और L के बीच केवल X बैठा है। S, M के ठीक दाएँ पर बैठा है। P के ठीक दाएँ पर कौन बैठा है?

Ans
1. L ✓
2. D ✗
3. M ✗
4. S ✗

Question Type : **MCQ**
Question ID : **264330133452**
Option 1 ID : **264330522841**
Option 2 ID : **264330522839**
Option 3 ID : **264330522840**
Option 4 ID : **264330522842**
Status : **Answered**
Chosen Option : **1**

Join Telegram Group "HaryanaJobs.in"

Q.2 दी गई श्रृंखला में निम्नलिखित में से कौन-सी संख्या प्रश्न चिन्ह (?) के स्थान पर आएगी?
85, 84, 82, 79, 75, 70, 64, ?

Ans
1. 59 ✗
2. 57 ✓
3. 76 ✗
4. 82 ✗

Question Type : **MCQ**
Question ID : **264330133458**
Option 1 ID : **264330522863**
Option 2 ID : **264330522864**
Option 3 ID : **264330522865**
Option 4 ID : **264330522866**
Status : **Answered**
Chosen Option : **2**

Q.3 दिए गए पैटर्न का ध्यानपूर्वक अध्ययन कीजिए और उस संख्या को चुनिए जो इसमें प्रश्न चिन्ह(?)के स्थान पर आ सकती है।
प्रथम पंक्ति- 74, 85, 96
द्वितीय पंक्ति- 67, 78, 89
तृतीय पंक्ति- 84, 95, ?

Ans
1. 112 ✗
2. 106 ✓
3. 246 ✗
4. 124 ✗

Question Type : **MCQ**
Question ID : **264330133460**
Option 1 ID : **264330522874**
Option 2 ID : **264330522872**
Option 3 ID : **264330522873**
Option 4 ID : **264330522871**
Status : **Answered**
Chosen Option : **2**

Q.4 उस विकल्प को चुनिए जो छठवे पद से ठीक उसी प्रकार संबंधित है जिस प्रकार पहला पद दूसरे पद से संबंधित है और तीसरा पद चौथे पद से संबंधित है।

FGH : GJM :: AKC : BNH :: ? : UUV

Ans
1. TTQ ✗
2. TRR ✗
3. TSQ ✗
4. TRQ ✓

Question Type : **MCQ**
Question ID : **264330137516**
Option 1 ID : **264330538674**
Option 2 ID : **264330538673**
Option 3 ID : **264330538672**
Option 4 ID : **264330538671**
Status : **Answered**
Chosen Option : **4**

Join Telegram Group "HaryanaJobs.in"

Q.5 एक निश्चित कूट भाषा में, 'SPEEDS' को 'URGGFU' लिखा जाता है। उस कूट भाषा में 'SPOKEN' को कैसे लिखा जाएगा?

Ans
1. URQNGP
2. URQNGQ
3. URQMGP
4. URPNGP

Question Type : **MCQ**
Question ID : **264330138481**
Option 1 ID : **264330542534**
Option 2 ID : **264330542532**
Option 3 ID : **264330542531**
Option 4 ID : **264330542533**
Status : **Answered**
Chosen Option : **3**

Join Telegram Group "HaryanaJobs.in"

Q.6 उस विकल्प आकृति को चुनिए जो नीचे दी गई आकृति में पैटर्न को पूरा करने के लिए प्रश्न चिन्ह (?) के स्थान पर आएगी। (घूर्णन की अनुमति नहीं है)



Ans

✗ 1.



✗ 2.

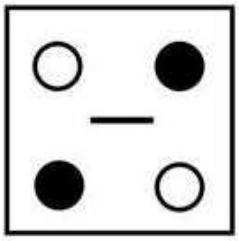

✓ 3.

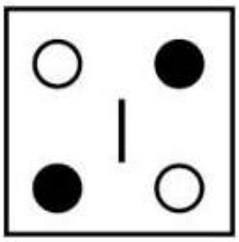

✗ 4.

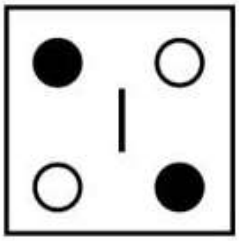

Question Type : **MCQ**
Question ID : **264330133465**
Option 1 ID : **264330522891**
Option 2 ID : **264330522892**
Option 3 ID : **264330522893**
Option 4 ID : **264330522894**
Status : **Answered**
Chosen Option : **3**

Join Telegram Group "HaryanaJobs.in"

Q.7 दिए गए समीकरण को सही करने के लिए किन दो संख्याओं को आपस में बदला जाना चाहिए?
8 × 3 − 12 ÷ 6 + 18 = 33

Ans
1. 8 और 3
2. 18 और 33
3. 12 और 18
4. 12 और 33

Question Type : **MCQ**
Question ID : **264330133461**
Option 1 ID : **264330522877**
Option 2 ID : **264330522876**
Option 3 ID : **264330522875**
Option 4 ID : **264330522878**
Status : **Answered**
Chosen Option : **3**

Q.8 यदि एक दर्पण को रेखा AB पर रखा जाए, तो दी गई विकल्प आकृतियों में से कौन-सी आकृति प्रश्न आकृति का सही प्रतिबिम्ब होगी?

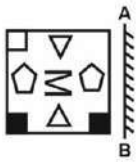

Ans
1.
2.
3.
4.

Question Type : **MCQ**
Question ID : **264330137385**
Option 1 ID : **264330538167**
Option 2 ID : **264330538170**
Option 3 ID : **264330538168**
Option 4 ID : **264330538169**
Status : **Answered**
Chosen Option : **2**

Join Telegram Group "HaryanaJobs.in"

Q.9 उस विकल्प को चुनिए जो तीसरे अक्षर-समूह से ठीक उसी प्रकार संबंधित है जिस प्रकार दूसरा अक्षर-समूह पहले अक्षर-समूह से संबंधित है।

HSFM : KPIJ :: QDRC : ?

Ans

✔ 1. TAUZ

✘ 2. TAZU

✘ 3. TZAU

✘ 4. TUAZ

Question Type : **MCQ**
Question ID : **264330133447**
Option 1 ID : **264330522821**
Option 2 ID : **264330522822**
Option 3 ID : **264330522820**
Option 4 ID : **264330522819**
Status : **Answered**
Chosen Option : **1**

Q.10 सात व्यक्ति P, R, S, T, U, V, और W एक सीधी पंक्ति में उत्तर दिशा की ओर मुख करके खड़े हैं। R, T के बाएँ से दूसरे स्थान पर खड़ा है। T, W के बाएँ से तीसरे स्थान पर खड़ा है। R और S दोनों में से किसी भी कोने पर नहीं खड़े हैं। U, V का निकटतम पड़ोसी है। V दाएँ कोने से दूसरे स्थान पर खड़ा है। R के ठीक बाएँ पर कौन खड़ा है?

Ans

✔ 1. P

✘ 2. S

✘ 3. U

✘ 4. V

Question Type : **MCQ**
Question ID : **264330133453**
Option 1 ID : **264330522845**
Option 2 ID : **264330522843**
Option 3 ID : **264330522844**
Option 4 ID : **264330522846**
Status : **Answered**
Chosen Option : **1**

Q.11 एक निश्चित कूट भाषा में, 'RUE' को 'IFV' लिखा जाता है। उस कूट भाषा में 'WRY' को कैसे लिखा जाएगा?

Ans

✘ 1. DJB

✘ 2. DIC

✘ 3. BID

✔ 4. DIB

Question Type : **MCQ**
Question ID : **264330137814**
Option 1 ID : **264330539866**
Option 2 ID : **264330539865**
Option 3 ID : **264330539863**
Option 4 ID : **264330539864**
Status : **Answered**
Chosen Option : **4**

Join Telegram Group "HaryanaJobs.in"

Q.12 उस विकल्प को चुनिए जो छठवीं संख्या से ठीक उसी प्रकार संबंधित है जिस प्रकार पहली संख्या दूसरी संख्या से संबंधित है और तीसरी संख्या चौथी संख्या से संबंधित है।

4 : 63 :: 7 : 342 :: ? : 728

Ans

✔ 1. 9

✘ 2. 13

✘ 3. 11

✘ 4. 8

Question Type : **MCQ**
Question ID : **264330137380**
Option 1 ID : **264330538148**
Option 2 ID : **264330538150**
Option 3 ID : **264330538149**
Option 4 ID : **264330538147**
Status : **Answered**
Chosen Option : **1**

Q.13 दो कथन दिए गए हैं और उनके बाद दो निष्कर्ष I और II दिए गए हैं। कथनों को सत्य मानते हुए, चाहे वे सामान्यतः ज्ञात तथ्यों से अलग प्रतीत होते हों, निश्चय कीजिए कि कौन-सा निष्कर्ष तार्किक रूप से कथनों के अनुसार है।

कथन:

अधिकांश लाल, पीले हैं।

कुछ पीले, हरे हैं।

निष्कर्ष:

I. कुछ हरे, पीले हैं।

II. कुछ हरे, लाल हैं।

Ans

✔ 1. केवल निष्कर्ष I कथनों के अनुसार है।

✘ 2. न तो निष्कर्ष I और न ही II कथनों के अनुसार है।

✘ 3. निष्कर्ष I और II दोनों कथनों के अनुसार हैं।

✘ 4. केवल निष्कर्ष II कथनों के अनुसार है।

Question Type : **MCQ**
Question ID : **264330133456**
Option 1 ID : **264330522855**
Option 2 ID : **264330522858**
Option 3 ID : **264330522857**
Option 4 ID : **264330522856**
Status : **Answered**
Chosen Option : **1**

Join Telegram Group "HaryanaJobs.in"

Q.14 उस विकल्प आकृति को चुनिए जिसमें दी गई आकृति निहित है।(घूर्णन की अनुमति नहीं है)

Ans

✗ 1.

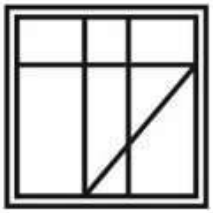

✓ 2.

✗ 3.



✗ 4.



Question Type : **MCQ**
Question ID : **264330137384**
Option 1 ID : **264330538165**
Option 2 ID : **264330538164**
Option 3 ID : **264330538166**
Option 4 ID : **264330538163**
Status : **Answered**
Chosen Option : **2**

Q.15 निम्नलिखित प्रश्न में, दी गई श्रृंखला में लुप्त संख्या को चुनिए ।

2, 20, 38, 56, 74, ?

Ans

✗ 1. 90

✗ 2. 91

✗ 3. 88

✓ 4. 92

Question Type : **MCQ**
Question ID : **264330137378**
Option 1 ID : **264330538140**
Option 2 ID : **264330538142**
Option 3 ID : **264330538141**
Option 4 ID : **264330538139**
Status : **Answered**
Chosen Option : **4**

Join Telegram Group "HaryanaJobs.in"

Q.16 दी गई श्रृंखला में निम्नलिखित में से कौन-सा अक्षर प्रश्न चिन्ह (?) के स्थान पर आएगा?
F, G, I, L, P, U, A, ?

Ans
✗ 1. I
✗ 2. J
✗ 3. G
✓ 4. H

Question Type : **MCQ**
Question ID : **264330133446**
Option 1 ID : **264330522815**
Option 2 ID : **264330522817**
Option 3 ID : **264330522818**
Option 4 ID : **264330522816**
Status : **Answered**
Chosen Option : **4**

Q.17 एक परीक्षा में सात मित्रों प्रदीप, आशु, ऋषि, सैम, टीना, उमा और विक्की के प्राप्तांक दिए गए हैं। किसी भी दो विद्यार्थियों के अंक समान नहीं हैं। प्रदीप ने विक्की से कम परंतु आशु से अधिक अंक प्राप्त किए। ऋषि और टीना ने सबसे अधिक और सबसे कम अंक प्राप्त किए लेकिन जरूरी नहीं कि इसी क्रम में। उमा के प्राप्तांक केवल ऋषि के प्राप्तांकों से कम थे। सैम द्वारा प्राप्त अंक केवल एक मित्र से अधिक थे। किसके प्राप्तांक आशु और टीना के प्राप्तांकों के बीच में थे?

Ans
✓ 1. सैम
✗ 2. विक्की
✗ 3. प्रदीप
✗ 4. उमा

Question Type : **MCQ**
Question ID : **264330133454**
Option 1 ID : **264330522849**
Option 2 ID : **264330522850**
Option 3 ID : **264330522848**
Option 4 ID : **264330522847**
Status : **Answered**
Chosen Option : **1**

Join Telegram Group "HaryanaJobs.in"

Q.18 दो कथन दिए गए हैं और उनके बाद दो निष्कर्ष I और II दिए गए हैं। कथनों को सत्य मानते हुए, चाहे वे सामान्यतः ज्ञात तथ्यों से अलग प्रतीत होते हों, निश्चय कीजिए कि कौन-सा निष्कर्ष तार्किक रूप से कथनों के अनुसार है।

कथन:

कुछ शो, अच्छे हैं।

कुछ फिल्में, अच्छी हैं।

निष्कर्ष:

I. कुछ अच्छी, फिल्में हैं।

II. कुछ अच्छे, शो हैं।

Ans

✗ 1. न तो निष्कर्ष I और न ही II कथनों के अनुसार है।

✗ 2. केवल निष्कर्ष I कथनों के अनुसार है।

✓ 3. निष्कर्ष I और II दोनों कथनों के अनुसार हैं।

✗ 4. केवल निष्कर्ष II कथनों के अनुसार है।

Question Type : **MCQ**
Question ID : **264330133455**
Option 1 ID : **264330522854**
Option 2 ID : **264330522851**
Option 3 ID : **264330522853**
Option 4 ID : **264330522852**
Status : **Answered**
Chosen Option : **3**

Q.19 यदि A का अर्थ 'जोड़', B का अर्थ 'गुणा', C का अर्थ 'घटाव' और D का अर्थ 'भाग' हो, तो निम्नलिखित समीकरण का मान क्या होगा?

(16 D 4) A 7 C 5 =?

Ans

✗ 1. 8

✓ 2. 6

✗ 3. 5

✗ 4. 3

Question Type : **MCQ**
Question ID : **264330137577**
Option 1 ID : **264330538918**
Option 2 ID : **264330538917**
Option 3 ID : **264330538915**
Option 4 ID : **264330538916**
Status : **Answered**
Chosen Option : **2**

Join Telegram Group "HaryanaJobs.in"

Q.20 किसी एक खास कूट भाषा में, 'DMQPD' को 'ENQQE' लिखा जाता है। उस कूट भाषा में 'XAGIV' को कैसे लिखा जाएगा?

Ans
1. YBWJG
2. YBGJW
3. YBGIW
4. YJBGW

Question Type : **MCQ**
Question ID : **264330133370**
Option 1 ID : **264330522514**
Option 2 ID : **264330522513**
Option 3 ID : **264330522512**
Option 4 ID : **264330522511**
Status : **Answered**
Chosen Option : **2**

Section : **General Awareness**

Q.1 कजरी (Kajari) भारत की एक लोक गीत और नृत्य शैली है। इसकी उत्पत्ति _____ में हुई है ।

Ans
1. पंजाब
2. पश्चिम बंगाल
3. उत्तर प्रदेश
4. केरल

Question Type : **MCQ**
Question ID : **264330133908**
Option 1 ID : **264330524657**
Option 2 ID : **264330524655**
Option 3 ID : **264330524656**
Option 4 ID : **264330524658**
Status : **Answered**
Chosen Option : **3**

Q.2 इस्लामी चंद्र कैलेंडर (Islamic lunar calendar) में पहला महीना कौन-सा है?

Ans
1. मुहर्रम
2. सफ़र
3. शव्वाल
4. रमज़ान

Question Type : **MCQ**
Question ID : **264330137388**
Option 1 ID : **264330538179**
Option 2 ID : **264330538180**
Option 3 ID : **264330538182**
Option 4 ID : **264330538181**
Status : **Answered**
Chosen Option : **4**

Join Telegram Group "HaryanaJobs.in"

Q.3 गांधी-इरविन समझौता कब हुआ था?

Ans
1. 1929
2. 1931
3. 1935
4. 1928

Question Type : **MCQ**
Question ID : **264330137751**
Option 1 ID : **264330539611**
Option 2 ID : **264330539613**
Option 3 ID : **264330539612**
Option 4 ID : **264330539614**
Status : **Answered**
Chosen Option : **2**

Q.4 निम्नलिखित में से किस अनुच्छेद में "गिरफ्तारी और निरोध से संरक्षण" का उल्लेख है?

Ans
1. अनुच्छेद 24
2. अनुच्छेद 22
3. अनुच्छेद 20
4. अनुच्छेद 18

Question Type : **MCQ**
Question ID : **264330134606**
Option 1 ID : **264330527382**
Option 2 ID : **264330527380**
Option 3 ID : **264330527381**
Option 4 ID : **264330527379**
Status : **Answered**
Chosen Option : **2**

Q.5 The British Parliament passed the Regulating Act in _____.

Ans
1. 1773
2. 1775
3. 1877
4. 1876

Question Type : **MCQ**
Question ID : **264330137411**
Option 1 ID : **264330538274**
Option 2 ID : **264330538271**
Option 3 ID : **264330538273**
Option 4 ID : **264330538272**
Status : **Answered**
Chosen Option : **1**

Join Telegram Group "HaryanaJobs.in"

Q.6 2011 की जनगणना के अनुसार, महिला साक्षरता दर लगभग कितने प्रतिशत है?

Ans
1. 95%
2. 55%
3. 65%
4. 85%

Question Type : **MCQ**
Question ID : **264330137697**
Option 1 ID : **264330539395**
Option 2 ID : **264330539397**
Option 3 ID : **264330539398**
Option 4 ID : **264330539396**
Status : **Answered**
Chosen Option : **3**

Q.7 क्रिकेट में, गेंद को हवा में ऐसे मरना की गेंद बाउंड्री के पार हो जाए, यह _____ रन के बराबर होता है।

Ans
1. 2
2. 3
3. 4
4. 6

Question Type : **MCQ**
Question ID : **264330133928**
Option 1 ID : **264330524735**
Option 2 ID : **264330524736**
Option 3 ID : **264330524737**
Option 4 ID : **264330524738**
Status : **Answered**
Chosen Option : **4**

Q.8 कृष्णा नदी भारत के _____ राज्य से होकर बहती है।

Ans
1. उड़ीसा
2. कर्नाटक
3. तमिलनाडु
4. केरल

Question Type : **MCQ**
Question ID : **264330133916**
Option 1 ID : **264330524690**
Option 2 ID : **264330524688**
Option 3 ID : **264330524689**
Option 4 ID : **264330524687**
Status : **Answered**
Chosen Option : **3**

Join Telegram Group "HaryanaJobs.in"

Q.9 नई दिल्ली अंतर्राष्ट्रीय मध्यस्थता केंद्र (संशोधन) विधेयक (New Delhi International Arbitration Centre (Amendment) Bill), 2022 द्वारा , नई दिल्ली अंतर्राष्ट्रीय मध्यस्थता केंद्र अधिनियम, 2019 को लागू करने में आने वाली किसी भी कठिनाई को दूर करने के लिए केंद्र सरकार को दी गई समयावधि को इस अधिनियम के प्रारंभ होने की तारीख से _____ वर्ष तक बढ़ा दिया गया है।

Ans
1. 3 ✗
2. 6 ✗
3. 5 ✓
4. 4 ✗

Question Type : **MCQ**
Question ID : **264330137737**
Option 1 ID : **264330539555**
Option 2 ID : **264330539558**
Option 3 ID : **264330539557**
Option 4 ID : **264330539556**
Status : **Not Answered**
Chosen Option : **--**

Q.10 सामूहिक विनाश के हथियार और उनकी वितरण प्रणाली (गैरकानूनी गतिविधियों पर पाबंदी) संशोधन विधेयक-2022 भारत सरकार के _____ से संबंधित है।

Ans
1. विदेश मंत्रालय ✓
2. रक्षा मंत्रालय ✗
3. नागरिक उड्डयन मंत्रालय ✗
4. वित्त मंत्रालय ✗

Question Type : **MCQ**
Question ID : **264330133906**
Option 1 ID : **264330524650**
Option 2 ID : **264330524648**
Option 3 ID : **264330524649**
Option 4 ID : **264330524647**
Status : **Answered**
Chosen Option : **2**

Q.11 भारतीय संविधान के अनुसार, भारत में राज्य विधान सभा का कार्यकाल कितना है?

Ans
1. 7 वर्ष ✗
2. 3 वर्ष ✗
3. 5 वर्ष ✓
4. 4 वर्ष ✗

Question Type : **MCQ**
Question ID : **264330133927**
Option 1 ID : **264330524734**
Option 2 ID : **264330524731**
Option 3 ID : **264330524733**
Option 4 ID : **264330524732**
Status : **Answered**
Chosen Option : **3**

Join Telegram Group "HaryanaJobs.in"

Q.12 गुलाबो सपेरा (Gulabo Sapera) निम्नलिखित में से किस नृत्य शैली से संबंधित हैं?

Ans
1. कालबेलिया ✔
2. भरतनाट्यम ✘
3. कथकली ✘
4. ओडिसी ✘

Question Type : **MCQ**
Question ID : **264330137938**
Option 1 ID : **264330540359**
Option 2 ID : **264330540361**
Option 3 ID : **264330540362**
Option 4 ID : **264330540360**
Status : **Not Answered**
Chosen Option : **--**

Q.13 अरबी मूलग्रंथ "किताब-उल-हिंद (Kitab ul-Hind)" _____ द्वारा लिखा गया था।

Ans
1. जियाउद्दीन बरनी (Ziauddin Barani) ✘
2. सुल्तान महमूद (Sultan Mahmud) ✘
3. अल - बिरूनी (Al- Biruni) ✔
4. इब्न बतूता (Ibn Battuta) ✘

Question Type : **MCQ**
Question ID : **264330137409**
Option 1 ID : **264330538266**
Option 2 ID : **264330538263**
Option 3 ID : **264330538264**
Option 4 ID : **264330538265**
Status : **Answered**
Chosen Option : **3**

Q.14 Which of the following statement is NOT correct regarding fertilizers?

Ans
1. They are very rich in plant nutrients ✘
2. They provide humus to the soil ✔
3. They are prepared in factories ✘
4. They are man-made inorganic salt ✘

Question Type : **MCQ**
Question ID : **264330137401**
Option 1 ID : **264330538234**
Option 2 ID : **264330538233**
Option 3 ID : **264330538232**
Option 4 ID : **264330538231**
Status : **Answered**
Chosen Option : **4**

Join Telegram Group "HaryanaJobs.in"

Q.15 निम्नलिखित में से किसने प्रसिद्ध बॉलीवुड गीत "ऐ दिल है मुश्किल (Ae Dil Hai Mushkil)" गाया है?

Ans
1. सुखबीर
2. श्रेया घोषाल
3. नीति मोहन
4. अरिजीत सिंह

Question Type : **MCQ**
Question ID : **264330133924**
Option 1 ID : **264330524719**
Option 2 ID : **264330524721**
Option 3 ID : **264330524722**
Option 4 ID : **264330524720**
Status : **Answered**
Chosen Option : **4**

Q.16 एक लंबी अवधि तक, जैसे 25 वर्ष में, किसी स्थान के मौसम के एकत्रित आंकड़ों के आधार पर बना मौसम का पैटर्न, उस स्थान की/का _____ कहलाता है।

Ans
1. जलवायु
2. भू-आकृतियाँ
3. पर्यावरण
4. परिस्थितिकी

Question Type : **MCQ**
Question ID : **264330137402**
Option 1 ID : **264330538238**
Option 2 ID : **264330538235**
Option 3 ID : **264330538236**
Option 4 ID : **264330538237**
Status : **Answered**
Chosen Option : **1**

Q.17 ऐसे पदार्थों, जिनसे होकर वस्तुओं को नहीं देखा जा सकता, _____ कहलाते हैं।

Ans
1. अपारदर्शी पदार्थ
2. पारदर्शी पदार्थ
3. पारभासी पदार्थ
4. पीले पदार्थ (pale materials)

Question Type : **MCQ**
Question ID : **264330137403**
Option 1 ID : **264330538241**
Option 2 ID : **264330538239**
Option 3 ID : **264330538240**
Option 4 ID : **264330538242**
Status : **Answered**
Chosen Option : **1**

Join Telegram Group "HaryanaJobs.in"

Q.18 तमिलनाडु में ऐरावतेश्वर (Airavastesvara) मंदिर का निर्माण _____ ने करवाया था।

Ans
1. महाराजा सवाई जयसिंह द्वितीय
2. महाराजा प्रताप सिंह
3. राजराजा चोल प्रथम
4. राजराजा चोल द्वितीय

Question Type : **MCQ**
Question ID : **264330137740**
Option 1 ID : **264330539569**
Option 2 ID : **264330539570**
Option 3 ID : **264330539568**
Option 4 ID : **264330539567**
Status : **Answered**
Chosen Option : **4**

Q.19 8 सितंबर 2022 को, नीति आयोग (NITI Aayog) ने, _____ के सहयोग से देश के पहले राष्ट्रीय इलेक्ट्रिक फ्रेट प्लेटफॉर्म (national electric freight platform) - सतत परिवहन के लिए इलेक्ट्रिक फ्रेट एक्सेलेरेटर (Electric Freight Accelerator for Sustainable Transport) - भारत (ई-फास्ट इंडिया(e-FAST India)) का शुभारंभ किया।

Ans
1. अंतरराष्ट्रीय मुद्रा कोष (International Monetary Fund)
2. विश्व संसाधन संस्थान (World Resources Institute)
3. विश्व स्वास्थ्य संगठन (World Health Organisation)
4. विश्व बैंक (World Bank)

Question Type : **MCQ**
Question ID : **264330137928**
Option 1 ID : **264330540321**
Option 2 ID : **264330540319**
Option 3 ID : **264330540322**
Option 4 ID : **264330540320**
Status : **Answered**
Chosen Option : **4**

Q.20 टोक्यो ओलंपिक 2020 (वर्ष 2021 में खेले गए) में भारत ने कितने कांस्य पदक जीते?

Ans
1. तीन
2. पाँच
3. छः
4. चार

Question Type : **MCQ**
Question ID : **264330137391**
Option 1 ID : **264330538191**
Option 2 ID : **264330538193**
Option 3 ID : **264330538194**
Option 4 ID : **264330538192**
Status : **Answered**
Chosen Option : **4**

Join Telegram Group "HaryanaJobs.in"

Q.21 निम्नलिखित में से कौन-सी पुस्तक अरविंद अडिगा द्वारा **नहीं** लिखी गई थी?

Ans
1. एमनेस्टी (Amnesty)
2. द कॉस्ट ऑफ लिविंग (The Cost of Living)
3. द व्हाइट टाइगर (The White Tiger)
4. लास्ट मैन इन टॉवर (Last Man in Tower)

Question Type : **MCQ**
Question ID : **264330137936**
Option 1 ID : **264330540353**
Option 2 ID : **264330540354**
Option 3 ID : **264330540351**
Option 4 ID : **264330540352**
Status : **Not Answered**
Chosen Option : **--**

Q.22 मौर्य साम्राज्य में कई शहर थे। निम्नलिखित में से कौन-सा शहर सबसे दक्षिणी छोर पर स्थित था?

Ans
1. गिरनार
2. रूपनाथ
3. ब्रह्मगिरी
4. टोपरा

Question Type : **MCQ**
Question ID : **264330137408**
Option 1 ID : **264330538261**
Option 2 ID : **264330538260**
Option 3 ID : **264330538262**
Option 4 ID : **264330538259**
Status : **Answered**
Chosen Option : **2**

Q.23 भारतीय संविधान की प्रस्तावना के अनुसार, भारत एक _____ देश है।

Ans
1. कुलीनतंत्रीय (Aristocratic)
2. गणराज्य (Republic)
3. धार्मिक (Religious)
4. उदारवादी (Liberal)

Question Type : **MCQ**
Question ID : **264330133926**
Option 1 ID : **264330524728**
Option 2 ID : **264330524729**
Option 3 ID : **264330524727**
Option 4 ID : **264330524730**
Status : **Answered**
Chosen Option : **2**

Join Telegram Group "HaryanaJobs.in"

Q.24 डाकघर बचत बैंकों में बचत जमाएँ मुद्रा पूर्ति की किस माप में शामिल की जाती हैं?

Ans
✔ 1. M2
✘ 2. M4
✘ 3. M1
✘ 4. M3

Question Type : **MCQ**
Question ID : **264330137943**
Option 1 ID : **264330540380**
Option 2 ID : **264330540382**
Option 3 ID : **264330540379**
Option 4 ID : **264330540381**
Status : **Not Answered**
Chosen Option : **--**

Q.25 निम्नलिखित में से कौन-सा अम्ल सिरके के pH को अम्लीय बनाता है?

Ans
✘ 1. टार्टरिक अम्ल
✘ 2. साइट्रिक अम्ल
✘ 3. लिनोलिक (Linoleic) अम्ल
✔ 4. ऐसीटिक अम्ल

Question Type : **MCQ**
Question ID : **264330133912**
Option 1 ID : **264330524672**
Option 2 ID : **264330524671**
Option 3 ID : **264330524674**
Option 4 ID : **264330524673**
Status : **Answered**
Chosen Option : **4**

Section : **English Language and Comprehension**

Q.1 Select the most appropriate meaning of the given idiom.
Fixed in one's ways

Ans
✘ 1. To establish one's rule
✘ 2.
Something that shows potential or looks promising in the beginning but fails to deliver anything in the end
✔ 3.
Not willing or wanting to change from your normal way of doing something
✘ 4. An aggressive attack on someone by a group

Question Type : **MCQ**
Question ID : **264330135813**
Option 1 ID : **264330532124**
Option 2 ID : **264330532126**
Option 3 ID : **264330532125**
Option 4 ID : **264330532123**
Status : **Answered**
Chosen Option : **3**

Join Telegram Group "HaryanaJobs.in"

Q.2 Fill in the blank with the most appropriate choice.
The issue of fairness, which remained, was for consideration at the hearing to _____ the scheme.

Ans
✗ 1. stratification
✗ 2. altercation
✗ 3. acclamation
✓ 4. sanction

Question Type : **MCQ**
Question ID : **264330135817**
Option 1 ID : **264330532142**
Option 2 ID : **264330532139**
Option 3 ID : **264330532140**
Option 4 ID : **264330532141**
Status : **Answered**
Chosen Option : **4**

Q.3 **Select the appropriate antonym for the underlined word.**
Sunny turned to find his daughter's sweet, bright eyes close to his.

Ans
✗ 1. gleaming
✗ 2. anxious
✗ 3. merry
✓ 4. dusky

Question Type : **MCQ**
Question ID : **264330134391**
Option 1 ID : **264330526544**
Option 2 ID : **264330526543**
Option 3 ID : **264330526546**
Option 4 ID : **264330526545**
Status : **Answered**
Chosen Option : **4**

Q.4 Select the most appropriate option to substitute the bracketed segment in the given sentence. If there is no need to substitute it, select 'no substitution required'.
(This bridge neither crossed the Thames, and neither gave) access to a now-lost island in the river.

Ans
✓ 1. This bridge neither crossed the Thames, nor gave
✗ 2. This bridge either crossed the Thames, and or gave
✗ 3. This bridge either crossed the Thames, nor gave
✗ 4. No substitution required

Question Type : **MCQ**
Question ID : **264330136034**
Option 1 ID : **264330532956**
Option 2 ID : **264330532957**
Option 3 ID : **264330532955**
Option 4 ID : **264330532958**
Status : **Answered**
Chosen Option : **1**

Join Telegram Group "HaryanaJobs.in"

Q.5 **Improve the underlined part of the sentence. Choose 'No improvement' as an answer if the sentence is grammatically correct.**
The final cost depends on whether you <u>chooses the small</u> or the large size.

Ans
✗ 1. chose the small
✓ 2. choose the small
✗ 3. choose the smaller
✗ 4. No improvement

Question Type : **MCQ**
Question ID : **264330134324**
Option 1 ID : **264330526287**
Option 2 ID : **264330526288**
Option 3 ID : **264330526289**
Option 4 ID : **264330526290**
Status : **Answered**
Chosen Option : **2**

Q.6 **Choose the incorrectly spelt word.**

Ans
✗ 1. Surge
✗ 2. Grease
✗ 3. Mimic
✓ 4. Potantial

Question Type : **MCQ**
Question ID : **264330134394**
Option 1 ID : **264330526557**
Option 2 ID : **264330526558**
Option 3 ID : **264330526556**
Option 4 ID : **264330526555**
Status : **Answered**
Chosen Option : **4**

Q.7 **A sentence has been given with a blank to be filled with an appropriate option. Choose the correct alternative.**
Neither she _____ I have expected Reema's arrival.

Ans
✗ 1. or
✓ 2. nor
✗ 3. along
✗ 4. and

Question Type : **MCQ**
Question ID : **264330134378**
Option 1 ID : **264330526497**
Option 2 ID : **264330526496**
Option 3 ID : **264330526495**
Option 4 ID : **264330526498**
Status : **Answered**
Chosen Option : **2**

Join Telegram Group "HaryanaJobs.in"

Q.8 Select the most appropriate antonym of the given word.

Mound

Ans
✗ 1. Victory
✗ 2. Bell
✓ 3. Valley
✗ 4. Prominence

Question Type : **MCQ**
Question ID : **264330136101**
Option 1 ID : **264330533214**
Option 2 ID : **264330533213**
Option 3 ID : **264330533211**
Option 4 ID : **264330533212**
Status : **Not Answered**
Chosen Option : **--**

Q.9 **Improve the underlined part of the sentence. Choose 'No improvement' as an answer if the sentence is grammatically correct.**
The camel uses fat as a source of energy during <u>its longer journey</u> in the desert.

Ans
✗ 1. its longest journeyed
✓ 2. its long journey
✗ 3. it's longer journey
✗ 4. No improvement

Question Type : **MCQ**
Question ID : **264330134377**
Option 1 ID : **264330526493**
Option 2 ID : **264330526492**
Option 3 ID : **264330526491**
Option 4 ID : **264330526494**
Status : **Answered**
Chosen Option : **2**

Q.10 Select the most appropriate word for the given group of words.

A thing that is kept as a reminder of a person, place, or event

Ans
✗ 1. Sinecure
✓ 2. Souvenir
✗ 3. Panacea
✗ 4. Regalia

Question Type : **MCQ**
Question ID : **264330135807**
Option 1 ID : **264330532100**
Option 2 ID : **264330532099**
Option 3 ID : **264330532102**
Option 4 ID : **264330532101**
Status : **Answered**
Chosen Option : **2**

Join Telegram Group "HaryanaJobs.in"

Q.11 **Choose the word that can substitute the given group of words.**
Famous or well-known for a negative reason

Ans
✗ 1. Formidable
✗ 2. Unpopular
✓ 3. Notorious
✗ 4. Reputable

Question Type : **MCQ**
Question ID : **264330134387**
Option 1 ID : **264330526528**
Option 2 ID : **264330526530**
Option 3 ID : **264330526529**
Option 4 ID : **264330526527**
Status : **Answered**
Chosen Option : **3**

Q.12 Find the part of the given sentence that has an error in it. If there is no error, choose 'No error'.

Why are you making excuses too avoid this work?

Ans
✗ 1. Why are you
✓ 2. making excuses too
✗ 3. No error
✗ 4. avoid this work?

Question Type : **MCQ**
Question ID : **264330134771**
Option 1 ID : **264330528031**
Option 2 ID : **264330528032**
Option 3 ID : **264330528034**
Option 4 ID : **264330528033**
Status : **Answered**
Chosen Option : **2**

Q.13 **In the following question, out of the given four alternatives, select the alternative which best expresses the meaning of the Idiom/Phrase.**
Cold fish

Ans
✗ 1. To make a lot of money
✗ 2. To retract one's statements
✓ 3. A person lacking in sympathy
✗ 4. A dead body

Question Type : **MCQ**
Question ID : **264330134393**
Option 1 ID : **264330526554**
Option 2 ID : **264330526553**
Option 3 ID : **264330526551**
Option 4 ID : **264330526552**
Status : **Answered**
Chosen Option : **1**

Join Telegram Group "HaryanaJobs.in"

Q.14 **Select the appropriate synonym for the underlined word.**
She goes to her room and <u>locks</u> herself in.

Ans
✔ 1. Shuts
✘ 2. taunts
✘ 3. sinks
✘ 4. hurts

Question Type : **MCQ**
Question ID : **264330134388**
Option 1 ID : **264330526531**
Option 2 ID : **264330526534**
Option 3 ID : **264330526533**
Option 4 ID : **264330526532**
Status : **Answered**
Chosen Option : **1**

Q.15 Select the most appropriate synonym to substitute the bracketed word in the given sentence.
In the midst of the tumult of charges against him, a (welter) of conflicting poll numbers are being bandied about.

Ans
✔ 1. Turmoil
✘ 2. Static
✘ 3. Peace
✘ 4. Dynamic

Question Type : **MCQ**
Question ID : **264330136048**
Option 1 ID : **264330533008**
Option 2 ID : **264330533010**
Option 3 ID : **264330533009**
Option 4 ID : **264330533007**
Status : **Not Answered**
Chosen Option : **--**

Q.16 **Select the most appropriate option to fill in the blank.**
Our breathing rate can change almost instantaneously in response to stress or _____.

Ans
✘ 1. difference
✘ 2. fund
✘ 3. attention
✔ 4. arousal

Question Type : **MCQ**
Question ID : **264330134397**
Option 1 ID : **264330526570**
Option 2 ID : **264330526567**
Option 3 ID : **264330526569**
Option 4 ID : **264330526568**
Status : **Answered**
Chosen Option : **4**

Join Telegram Group "HaryanaJobs.in"

Q.17 Select the wrongly spelt word.

Ans
1. supersede ✗
2. quarantine ✗
3. eminant ✓
4. develop ✗

Question Type : **MCQ**
Question ID : **264330135816**
Option 1 ID : **264330532135**
Option 2 ID : **264330532136**
Option 3 ID : **264330532138**
Option 4 ID : **264330532137**
Status : **Answered**
Chosen Option : **1**

Q.18 Identify the segment that contains a grammatical error. If there is no error, select 'No error'.
I have never seen a man / get off his horse quick as / did that stranger Englishman.

Ans
1. No error ✗
2. did that stranger Englishman. ✗
3. get off his horse quick as ✓
4. I have never seen a man ✗

Question Type : **MCQ**
Question ID : **264330136031**
Option 1 ID : **264330532946**
Option 2 ID : **264330532945**
Option 3 ID : **264330532944**
Option 4 ID : **264330532943**
Status : **Answered**
Chosen Option : **4**

Q.19 **Find the part of the given sentence that has an error in it. If there is no error, choose 'No error'.**
His absence from my party is too much painful for me.

Ans
1. party is too much ✓
2. No error ✗
3. painful for me. ✗
4. His absence from my ✗

Question Type : **MCQ**
Question ID : **264330134374**
Option 1 ID : **264330526480**
Option 2 ID : **264330526482**
Option 3 ID : **264330526481**
Option 4 ID : **264330526479**
Status : **Answered**
Chosen Option : **4**

Join Telegram Group "HaryanaJobs.in"

Q.20 Select the most appropriate option to fill in the blank.

Those unfamiliar with the saga are bound to be mystified by the more _____ plot twists.

Ans

✔ 1. arcane

✗ 2. anoint

✗ 3. aesthetic

✗ 4. arbitrary

Question Type : **MCQ**
Question ID : **264330136038**
Option 1 ID : **264330532972**
Option 2 ID : **264330532973**
Option 3 ID : **264330532974**
Option 4 ID : **264330532971**
Status : **Answered**
Chosen Option : **2**

Comprehension:

In the following passage some words have been deleted. Fill in the blanks with the help of the alternatives given. Select the most appropriate option for each number.

Archaeologists believe that counting large quantities (1) _____ about 10,000 years ago. Early farmers had to (2) _____ for communally stored crops. Early counting systems involved small tokens which represented farmers' stores. In the area which is now southern Iraq, little figures shaped like discs, balls, and pyramids (3) _____ used in about 7500 B.C. to represent various holdings. Later, marks which represented the figures were (4) _____ on clay tablets by use of a blunt reed to cut into the wet clay. Still, the symbols were (5) _____ connected with specific merchandise.

SubQuestion No : 21

Q.21 Select the most appropriate option to fill in the blank No. 1.

Ans

✔ 1. began

✗ 2. allured

✗ 3. blessed

✗ 4. ended

Question Type : **MCQ**
Question ID : **264330136092**
Option 1 ID : **264330533177**
Option 2 ID : **264330533175**
Option 3 ID : **264330533178**
Option 4 ID : **264330533176**
Status : **Answered**
Chosen Option : **1**

Join Telegram Group "HaryanaJobs.in"

Comprehension:

In the following passage some words have been deleted. Fill in the blanks with the help of the alternatives given. Select the most appropriate option for each number.

Archaeologists believe that counting large quantities (1) _____ about 10,000 years ago. Early farmers had to (2) _____ for communally stored crops. Early counting systems involved small tokens which represented farmers' stores. In the area which is now southern Iraq, little figures shaped like discs, balls, and pyramids (3) _____ used in about 7500 B.C. to represent various holdings. Later, marks which represented the figures were (4) _____ on clay tablets by use of a blunt reed to cut into the wet clay. Still, the symbols were (5) _____ connected with specific merchandise.

SubQuestion No : 22

Q.22 Select the most appropriate option to fill in the blank No. 2.

Ans

✗ 1. discount

✗ 2. count

✓ 3. account

✗ 4. undercount

Question Type : **MCQ**
Question ID : **264330136093**
Option 1 ID : **264330533181**
Option 2 ID : **264330533180**
Option 3 ID : **264330533179**
Option 4 ID : **264330533182**
Status : **Answered**
Chosen Option : **2**

Comprehension:

In the following passage some words have been deleted. Fill in the blanks with the help of the alternatives given. Select the most appropriate option for each number.

Archaeologists believe that counting large quantities (1) _____ about 10,000 years ago. Early farmers had to (2) _____ for communally stored crops. Early counting systems involved small tokens which represented farmers' stores. In the area which is now southern Iraq, little figures shaped like discs, balls, and pyramids (3) _____ used in about 7500 B.C. to represent various holdings. Later, marks which represented the figures were (4) _____ on clay tablets by use of a blunt reed to cut into the wet clay. Still, the symbols were (5) _____ connected with specific merchandise.

SubQuestion No : 23

Q.23 Select the most appropriate option to fill in the blank No. 3.

Ans

✗ 1. was

✗ 2. will be

✗ 3. are

✓ 4. were

Question Type : **MCQ**
Question ID : **264330136094**
Option 1 ID : **264330533183**
Option 2 ID : **264330533184**
Option 3 ID : **264330533186**
Option 4 ID : **264330533185**
Status : **Answered**
Chosen Option : **4**

Join Telegram Group "HaryanaJobs.in"

Comprehension:

In the following passage some words have been deleted. Fill in the blanks with the help of the alternatives given. Select the most appropriate option for each number.

Archaeologists believe that counting large quantities (1) _____ about 10,000 years ago. Early farmers had to (2) _____ for communally stored crops. Early counting systems involved small tokens which represented farmers' stores. In the area which is now southern Iraq, little figures shaped like discs, balls, and pyramids (3) _____ used in about 7500 B.C. to represent various holdings. Later, marks which represented the figures were (4) _____ on clay tablets by use of a blunt reed to cut into the wet clay. Still, the symbols were (5) _____ connected with specific merchandise.

SubQuestion No : 24

Q.24 Select the most appropriate option to fill in the blank No. 4.

Ans

✗ 1. subscribed

✗ 2. prescribed

✗ 3. transcribed

✓ 4. inscribed

Question Type : **MCQ**
Question ID : **264330136095**
Option 1 ID : **264330533190**
Option 2 ID : **264330533189**
Option 3 ID : **264330533188**
Option 4 ID : **264330533187**
Status : **Answered**
Chosen Option : **4**

Comprehension:

In the following passage some words have been deleted. Fill in the blanks with the help of the alternatives given. Select the most appropriate option for each number.

Archaeologists believe that counting large quantities (1) _____ about 10,000 years ago. Early farmers had to (2) _____ for communally stored crops. Early counting systems involved small tokens which represented farmers' stores. In the area which is now southern Iraq, little figures shaped like discs, balls, and pyramids (3) _____ used in about 7500 B.C. to represent various holdings. Later, marks which represented the figures were (4) _____ on clay tablets by use of a blunt reed to cut into the wet clay. Still, the symbols were (5) _____ connected with specific merchandise.

SubQuestion No : 25

Q.25 Select the most appropriate option to fill in the blank No. 5.

Ans

✗ 1. some

✗ 2. just

✓ 3. always

✗ 4. like

Question Type : **MCQ**
Question ID : **264330136096**
Option 1 ID : **264330533191**
Option 2 ID : **264330533193**
Option 3 ID : **264330533194**
Option 4 ID : **264330533192**
Status : **Answered**
Chosen Option : **3**

Join Telegram Group "HaryanaJobs.in"

Multi Tasking Non Technical Staff and Havaldar CBIC and CBN Examination 2022

Roll Number	HaryanaJobs.in
Candidate Name	HaryanaJobs.in
Venue Name	iON Digital Zone iDZ Trinity 2 Headway 2 Kokta Bypass Road
Exam Date	14/06/2023
Exam Time	3:30 PM - 5:00 PM
Subject	MTS Non Tech Havaldar CBIC and CBN Examination 2022

Section : **Numerical and Mathematical Ability**

Q.1 एक त्रिभुज की भुजाओं का अनुपात 3 : 3 : 4 है। यदि त्रिभुज का क्षेत्रफल $32\sqrt{5}$ cm^2 है, तो समान भुजाओं की लंबाई कितनी है?

Ans

✗ 1. 10 cm

✓ 2. 12 cm

✗ 3. 16 cm

✗ 4. 15 cm

Question Type : **MCQ**
Question ID : **264330140625**
Option 1 ID : **264330550850**
Option 2 ID : **264330550848**
Option 3 ID : **264330550849**
Option 4 ID : **264330550847**
Status : **Answered**
Chosen Option : **2**

Q.2 P, Q से 20 प्रतिशत अधिक है। Q, P से कितने प्रतिशत कम है?

Ans

✗ 1. 14.28 प्रतिशत

✗ 2. 33.33 प्रतिशत

✗ 3. 8.33 प्रतिशत

✓ 4. 16.66 प्रतिशत

Question Type : **MCQ**
Question ID : **264330140568**
Option 1 ID : **264330550623**
Option 2 ID : **264330550625**
Option 3 ID : **264330550626**
Option 4 ID : **264330550624**
Status : **Answered**
Chosen Option : **4**

Join Telegram Group "HaryanaJobs.in"

Q.3 एक व्यक्ति पहले 35 km की दूरी 60 मिनट में और अगले 40 km की दूरी 30 मिनट में तय करता है। पूरी यात्रा में उसकी औसत चाल क्या है?

Ans

1. ✗ 42 km/hr
2. ✓ 50 km/hr
3. ✗ 49 km/hr
4. ✗ 63 km/hr

Question Type : **MCQ**
Question ID : **264330140177**
Option 1 ID : **264330549088**
Option 2 ID : **264330549090**
Option 3 ID : **264330549089**
Option 4 ID : **264330549087**
Status : **Answered**
Chosen Option : **2**

Q.4 X, Y और Z के वेतन का अनुपात 8 : 5 : 12 है। यदि उनके वेतन में क्रमशः 10 प्रतिशत, 20 प्रतिशत और 30 प्रतिशत की वृद्धि की जाती है, तो उनके बढ़े हुए वेतन का अनुपात क्या होगा?

Ans

1. ✗ 24 : 47 : 58
2. ✓ 22 : 15 : 39
3. ✗ 25 : 48 : 59
4. ✗ 11 : 25 : 36

Question Type : **MCQ**
Question ID : **264330139960**
Option 1 ID : **264330548220**
Option 2 ID : **264330548221**
Option 3 ID : **264330548222**
Option 4 ID : **264330548219**
Status : **Answered**
Chosen Option : **2**

Q.5 P, Q और R की औसत ऊंचाई 160 cm है। यदि P और Q की औसत ऊंचाई 140 cm है और Q और R की औसत ऊंचाई 129 cm है, तो Q की ऊंचाई कितनी है?

Ans

1. ✗ 62 cm
2. ✓ 58 cm
3. ✗ 72 cm
4. ✗ 78 cm

Question Type : **MCQ**
Question ID : **264330140196**
Option 1 ID : **264330549163**
Option 2 ID : **264330549164**
Option 3 ID : **264330549165**
Option 4 ID : **264330549166**
Status : **Answered**
Chosen Option : **2**

Join Telegram Group "HaryanaJobs.in"

Q.6 एक नाव स्थिर जल में 6 घंटे में 24 km की दूरी तय कर सकती है। यह 38 घंटे में धारा के अनुकूल 56 km और धारा के प्रतिकूल 30 km की दूरी तय कर सकती है। धारा की चाल क्या है?

Ans
1. 4 km/hr ✗
2. 3 km/hr ✓
3. 5 km/hr ✗
4. 3.5 km/hr ✗

Question Type : **MCQ**
Question ID : **264330140585**
Option 1 ID : **264330550692**
Option 2 ID : **264330550691**
Option 3 ID : **264330550694**
Option 4 ID : **264330550693**
Status : **Answered**
Chosen Option : **2**

Q.7 $\frac{72}{22} \times \frac{11}{3} \div \frac{21}{9} of \frac{18}{7}$ का मान क्या है?

Ans
1. 2 ✓
2. 8 ✗
3. 6 ✗
4. 36 ✗

Question Type : **MCQ**
Question ID : **264330140599**
Option 1 ID : **264330550749**
Option 2 ID : **264330550750**
Option 3 ID : **264330550747**
Option 4 ID : **264330550748**
Status : **Answered**
Chosen Option : **1**

Q.8 यदि A : B : C = 2 : 3 : 4 है, तो(A/B) : (B/C) : (C/A) का मान क्या होगा?

Ans
1. 12 : 10 : 13 ✗
2. 8 : 7 : 25 ✗
3. 9 : 5 : 36 ✗
4. 8 : 9 : 24 ✓

Question Type : **MCQ**
Question ID : **264330140639**
Option 1 ID : **264330550904**
Option 2 ID : **264330550903**
Option 3 ID : **264330550906**
Option 4 ID : **264330550905**
Status : **Answered**
Chosen Option : **4**

Join Telegram Group "HaryanaJobs.in"

Q.9 नीचे दी गई तालिका में दो वर्षों (Years) में पाँच कंपनियों (Company) द्वारा किए गए उत्पादन को दर्शाया गया है।

	Years	
Company	L	M
P	150	200
Q	190	220
R	130	180
S	180	150
T	120	140

निम्नलिखित में से कौन-सा कथन सही नहीं है?

I. वर्ष L में P, Q, R और S का औसत उत्पादन 172.5 है।

II. वर्ष L में T के उत्पादन और वर्ष M में T के उत्पादन का अनुपात 6 : 7 है।

Ans

✔ 1. केवल I

✘ 2. न तो I और न ही II

✘ 3. I और II दोनों

✘ 4. केवल II

Question Type : **MCQ**
Question ID : **264330139626**
Option 1 ID : **264330546919**
Option 2 ID : **264330546922**
Option 3 ID : **264330546921**
Option 4 ID : **264330546920**
Status : **Answered**
Chosen Option : **1**

Q.10 एक वस्तु का अंकित मूल्य Rs. 1200 है। वस्तु पर 40 प्रतिशत की छूट दी जाती है। यदि 20 प्रतिशत की हानि होती है, तो वस्तु का क्रय मूल्य क्या है?

Ans

✘ 1. Rs. 1020

✘ 2. Rs. 780

✘ 3. Rs. 850

✔ 4. Rs. 900

Question Type : **MCQ**
Question ID : **264330140205**
Option 1 ID : **264330549199**
Option 2 ID : **264330549202**
Option 3 ID : **264330549201**
Option 4 ID : **264330549200**
Status : **Answered**
Chosen Option : **4**

Join Telegram Group "HaryanaJobs.in"

Q.11 यदि कुल वस्तुओं का 80 प्रतिशत, 25 प्रतिशत के लाभ पर बेचा जाता है और शेष वस्तुओं को 20 प्रतिशत की हानि पर बेचा जाता है, तो कुल लाभ प्रतिशत क्या होगा?

Ans
✔ 1. 16 प्रतिशत
✘ 2. 20 प्रतिशत
✘ 3. 12.5 प्रतिशत
✘ 4. 15 प्रतिशत

Question Type : **MCQ**
Question ID : **264330139898**
Option 1 ID : **264330547974**
Option 2 ID : **264330547971**
Option 3 ID : **264330547972**
Option 4 ID : **264330547973**
Status : **Answered**
Chosen Option : **1**

Q.12 44 + 67 - 32 ÷ 4 + (9 + 5 + 5 + 4) - 4 × 12 ÷ 6 - 30 ÷ 5 का मान है :

Ans
✔ 1. 112
✘ 2. 121
✘ 3. 123
✘ 4. 120

Question Type : **MCQ**
Question ID : **264330140797**
Option 1 ID : **264330551536**
Option 2 ID : **264330551537**
Option 3 ID : **264330551535**
Option 4 ID : **264330551538**
Status : **Answered**
Chosen Option : **1**

Q.13 X का मान क्या है?

$$X = \frac{7}{5} + \left\{\frac{1}{5} - \frac{1}{3}\right\} \times \frac{5}{2}$$

Ans
✔ 1. 16/15
✘ 2. 15/16
✘ 3. 19/15
✘ 4. 17/15

Question Type : **MCQ**
Question ID : **264330139036**
Option 1 ID : **264330544752**
Option 2 ID : **264330544753**
Option 3 ID : **264330544754**
Option 4 ID : **264330544751**
Status : **Answered**
Chosen Option : **1**

Join Telegram Group "HaryanaJobs.in"

Q.14 नीचे दिए गए वृत्त आलेख में छः राज्यों द्वारा किए गए गेहूँ के उत्पादन को दर्शाया गया है। इन सभी छः राज्यों द्वारा किया गया गेहूँ का कुल उत्पादन 3600 है। इनमें से किसी एक विशिष्ट राज्य द्वारा किए गए गेहूँ के उत्पादन को इन सभी छः राज्यों द्वारा किए गए गेहूँ के कुल उत्पादन के सापेक्ष डिग्री के रूप में दर्शाया गया है।

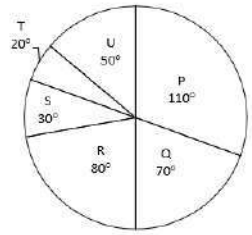

P और Q द्वारा किए गए गेहूँ के औसत उत्पादन और R और T द्वारा किए गए गेहूँ के औसत उत्पादन के बीच कितना अंतर है?

Ans

✔ 1. 400

✘ 2. 500

✘ 3. 200

✘ 4. 300

Question Type : **MCQ**
Question ID : **264330139647**
Option 1 ID : **264330547003**
Option 2 ID : **264330547006**
Option 3 ID : **264330547005**
Option 4 ID : **264330547004**
Status : **Answered**
Chosen Option : **1**

Q.15 साधारण ब्याज की एक योजना में Rs.2600 की राशि का निवेश किया जाता है। 3 वर्ष में यह राशि Rs.3320 हो जाती है। 5 वर्ष में यह राशि कितनी हो जाएगी?

Ans

✘ 1. Rs.4500

✔ 2. Rs.3800

✘ 3. Rs.4200

✘ 4. Rs.3600

Question Type : **MCQ**
Question ID : **264330139921**
Option 1 ID : **264330548063**
Option 2 ID : **264330548065**
Option 3 ID : **264330548064**
Option 4 ID : **264330548066**
Status : **Answered**
Chosen Option : **2**

Join Telegram Group "HaryanaJobs.in"

Q.16 चक्रवृद्धि ब्याज (वार्षिक रूप से संयोजित) पर 3 वर्ष और 5 वर्ष के बाद एक निश्चित राशि पर प्राप्त राशि क्रमशः Rs. 20,736 और Rs. 29,859.84 है। वह राशि क्या है?

Ans

1. ✗ Rs. 9000
2. ✗ Rs. 14000
3. ✓ Rs. 12000
4. ✗ Rs. 15000

Question Type : **MCQ**
Question ID : **264330140544**
Option 1 ID : **264330550532**
Option 2 ID : **264330550534**
Option 3 ID : **264330550533**
Option 4 ID : **264330550531**
Status : **Answered**
Chosen Option : **3**

Q.17 P, Q से तीन गुना अधिक कुशल कारीगर है और इसलिए वह Q से 40 दिन कम में एक कार्य को पूरा कर लेता है। वे साथ मिलकर उसी कार्य को कितने दिनों में पूरा कर सकते हैं?

Ans

1. ✗ 22.5 दिन
2. ✓ 15 दिन
3. ✗ 18 दिन
4. ✗ 20 दिन

Question Type : **MCQ**
Question ID : **264330139629**
Option 1 ID : **264330546934**
Option 2 ID : **264330546933**
Option 3 ID : **264330546932**
Option 4 ID : **264330546931**
Status : **Answered**
Chosen Option : **4**

Q.18 यदि एक शर्ट का विक्रय मूल्य और क्रय मूल्य क्रमशः Rs.945 और Rs.750 है, तो लाभ प्रतिशत क्या है?

Ans

1. ✗ 25 प्रतिशत
2. ✗ 28 प्रतिशत
3. ✗ 22 प्रतिशत
4. ✓ 26 प्रतिशत

Question Type : **MCQ**
Question ID : **264330140179**
Option 1 ID : **264330549095**
Option 2 ID : **264330549097**
Option 3 ID : **264330549096**
Option 4 ID : **264330549098**
Status : **Answered**
Chosen Option : **4**

Join Telegram Group "HaryanaJobs.in"

Q.19 अवि अकेले किसी कार्य को 60 दिनों में कर सकता है जबकि प्रकाश अकेले उस कार्य को 80 दिनों में कर सकता है। वे साथ मिलकर इस कार्य को कितने दिनों में पूरा करेंगे?

Ans

✔ 1. 240/7 दिन

✘ 2. 140/6 दिन

✘ 3. 270/6 दिन

✘ 4. 250/6 दिन

Question Type : **MCQ**
Question ID : **264330140791**
Option 1 ID : **264330551511**
Option 2 ID : **264330551512**
Option 3 ID : **264330551514**
Option 4 ID : **264330551513**
Status : **Answered**
Chosen Option : **1**

Q.20 एक वर्गाकार पार्क की भुजाओं की लंबाई 18 cm है। पार्क के अंदर इसके किनारों पर एक 1 cm चौड़ा पथ है। पथ का क्षेत्रफल क्या है?

Ans

✘ 1. 76 cm^2

✔ 2. 68 cm^2

✘ 3. 92 cm^2

✘ 4. 180 cm^2

Question Type : **MCQ**
Question ID : **264330140597**
Option 1 ID : **264330550739**
Option 2 ID : **264330550740**
Option 3 ID : **264330550742**
Option 4 ID : **264330550741**
Status : **Answered**
Chosen Option : **2**

Section : **Reasoning Ability and Problem Solving**

Q.1 उस विकल्प को चुनिए जो तीसरे अक्षर-समूह से ठीक उसी तरह संबंधित है जिस तरह दूसरा अक्षर-समूह पहले अक्षर-समूह से संबंधित है।
SUN : QSL :: ROP : ?

Ans

✘ 1. PMM

✘ 2. PMO

✔ 3. PMN

✘ 4. PNN

Question Type : **MCQ**
Question ID : **264330141203**
Option 1 ID : **264330553149**
Option 2 ID : **264330553150**
Option 3 ID : **264330553147**
Option 4 ID : **264330553148**
Status : **Answered**
Chosen Option : **3**

Join Telegram Group "HaryanaJobs.in"

Q.2 पाँच दुकानों M1, M2, M3, M4 और M5 में कलमों की संख्या की तुलना की जाती है। M3 में कलमों की संख्या केवल M1 से अधिक है। कोई भी दो दुकानों में कलमों की संख्या समान नहीं है। M5 में कलमों की संख्या M2 से कम लेकिन M4 से अधिक है। M5 में कलमों की संख्या कितनी दुकानों से अधिक है?

Ans
1. 1 ✗
2. 3 ✓
3. 2 ✗
4. 4 ✗

Question Type : **MCQ**
Question ID : **264330139576**
Option 1 ID : **264330546720**
Option 2 ID : **264330546722**
Option 3 ID : **264330546719**
Option 4 ID : **264330546721**
Status : **Answered**
Chosen Option : **2**

Q.3 आठ लड़के राम, सुमित, सुनील, राहुल, राज, अमन, अमित और अनिल एक वृत्ताकार मेज के चारों ओर केंद्र की ओर मुख करके बैठे हैं (परंतु जरूरी नहीं कि वे इसी क्रम में बैठें हों)। अनिल, राज या राहुल का निकटतम पड़ोसी नहीं है। अनिल, राम के ठीक बाईं ओर है। अमित, राज का निकटतम पड़ोसी है। अमन, सुमित के ठीक दाईं ओर है। सुनील, राज और अमन के बीच में बैठा है। राज और अनिल दोनों का निकटतम पड़ोसी कौन है?

Ans
1. राहुल ✗
2. अमित ✓
3. सुनील ✗
4. अमन ✗

Question Type : **MCQ**
Question ID : **264330140962**
Option 1 ID : **264330552197**
Option 2 ID : **264330552195**
Option 3 ID : **264330552198**
Option 4 ID : **264330552196**
Status : **Answered**
Chosen Option : **2**

Q.4 उस विकल्प को चुनिए जो पाँचवें पद से ठीक उसी प्रकार संबंधित है जिस प्रकार दूसरा पद पहले पद से संबंधित है और चौथा पद तीसरे पद से संबंधित है।

PAN : IFK :: TEA : VJO :: FOR : ?

Ans
1. MTA ✓
2. MTB ✗
3. NTA ✗
4. MUB ✗

Question Type : **MCQ**
Question ID : **264330140055**
Option 1 ID : **264330548602**
Option 2 ID : **264330548600**
Option 3 ID : **264330548601**
Option 4 ID : **264330548599**
Status : **Answered**
Chosen Option : **1**

Join Telegram Group "HaryanaJobs.in"

Q.5 उस विकल्प को चुनिए जो पाँचवी संख्या से ठीक उसी प्रकार संबंधित है जिस प्रकार दूसरी संख्या पहली संख्या से संबंधित है और चौथी संख्या तीसरी संख्या से संबंधित है।

15 : 256 :: 16 : 289 :: 18 : ?

Ans
1. 336 ✗
2. 361 ✓
3. 342 ✗
4. 441 ✗

Question Type : **MCQ**
Question ID : **264330140969**
Option 1 ID : **264330552224**
Option 2 ID : **264330552223**
Option 3 ID : **264330552225**
Option 4 ID : **264330552226**
Status : **Answered**
Chosen Option : **2**

Q.6 पाँच लड़कियाँ A, B, C, D और E एक सीधी रेखा में दक्षिण की ओर मुख करके खड़ी हैं। A, C के ठीक दाईं ओर खड़ी है। D, C और E के बीच में खड़ी है। E किसी भी छोर के आखिर में नहीं खड़ी है। E के बाईं ओर कौन खड़ा है?

Ans
1. A ✗
2. B ✓
3. C ✗
4. D ✗

Question Type : **MCQ**
Question ID : **264330140019**
Option 1 ID : **264330548456**
Option 2 ID : **264330548455**
Option 3 ID : **264330548457**
Option 4 ID : **264330548458**
Status : **Answered**
Chosen Option : **2**

Q.7 एक निश्चित कूट भाषा में, 'COUNTY' को 'UOCYTN' लिखा जाता है। उस कूट भाषा में 'HOLDER' को कैसे लिखा जाएगा?

Ans
1. LOHRED ✓
2. LOHDER ✗
3. LHORED ✗
4. LOHERD ✗

Question Type : **MCQ**
Question ID : **264330138793**
Option 1 ID : **264330543780**
Option 2 ID : **264330543782**
Option 3 ID : **264330543779**
Option 4 ID : **264330543781**
Status : **Answered**
Chosen Option : **1**

Join Telegram Group "HaryanaJobs.in"

Q.8 किन दो चिह्नों और दो संख्याओं को आपस में बदलने पर, दिए गए समीकरण का मान '6' होगा?

7 - 2 × 1 ÷ 3 + 5

Ans
1. × और -, 5 और 3
2. × और ÷, 7 और 5
3. × और ÷, 2 और 7
4. + और -, 7 और 5

Question Type : **MCQ**
Question ID : **264330139544**
Option 1 ID : **264330546594**
Option 2 ID : **264330546592**
Option 3 ID : **264330546593**
Option 4 ID : **264330546591**
Status : **Answered**
Chosen Option : **2**

Q.9 तीन कथन दिए गए हैं और दो निष्कर्ष I और II दिए गए हैं। कथनों को सत्य मानते हुए, चाहे वे सामान्यतः ज्ञात तथ्यों से अलग प्रतीत होते हों, निश्चय कीजिए कि कौन-सा निष्कर्ष तार्किक रूप से कथनों के अनुसार है।
कथन:

सभी कीलें, सुईयाँ हैं।

कुछ सुईयाँ, मेज़ हैं।

कोई सुई, डिब्बा नहीं है।

निष्कर्ष:

I. कोई मेज़, डिब्बा नहीं है।

II. कुछ कीलें, मेज़ हैं।

Ans
1. सिर्फ निष्कर्ष II कथनों के अनुसार है
2. सिर्फ निष्कर्ष I कथनों के अनुसार है
3. दोनों निष्कर्ष I और II कथनों के अनुसार हैं
4. निष्कर्ष I और II में से कोई भी कथनों के अनुसार नहीं है

Question Type : **MCQ**
Question ID : **264330138798**
Option 1 ID : **264330543800**
Option 2 ID : **264330543799**
Option 3 ID : **264330543801**
Option 4 ID : **264330543802**
Status : **Answered**
Chosen Option : **4**

Join Telegram Group "HaryanaJobs.in"

Q.10 दी गई श्रृंखला में निम्नलिखित में से कौन-सा अक्षर प्रश्न चिह्न (?) के स्थान पर आएगा?
K, H, E, B, Y, V, S, P, ?

Ans
✗ 1. Q
✗ 2. F
✗ 3. I
✓ 4. M

Question Type : **MCQ**
Question ID : **264330140073**
Option 1 ID : **264330548674**
Option 2 ID : **264330548672**
Option 3 ID : **264330548673**
Option 4 ID : **264330548671**
Status : **Answered**
Chosen Option : **4**

Q.11 यदि एक दर्पण को रेखा AB पर रखा जाए, तो दी गई विकल्प आकृतियों में से कौन-सी आकृति प्रश्न आकृति का सही प्रतिबिम्ब होगी?

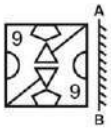

Ans
✗ 1.
✗ 2.
✗ 3. 
✓ 4.

Question Type : **MCQ**
Question ID : **264330139586**
Option 1 ID : **264330546759**
Option 2 ID : **264330546760**
Option 3 ID : **264330546762**
Option 4 ID : **264330546761**
Status : **Answered**
Chosen Option : **4**

Join Telegram Group "HaryanaJobs.in"

Q.12 एक निश्चित कूट भाषा में, 'PESO' को '55' लिखा जाता है और 'THEN' को '47' लिखा जाता है। उस कूट भाषा में 'NIKE' को कैसे लिखा जाएगा?

Ans
1. 40 ✗
2. 39 ✓
3. 38 ✗
4. 37 ✗

Question Type : **MCQ**
Question ID : **264330140435**
Option 1 ID : **264330550122**
Option 2 ID : **264330550119**
Option 3 ID : **264330550120**
Option 4 ID : **264330550121**
Status : **Answered**
Chosen Option : **2**

Q.13 दिए गए समीकरण को सही करने के लिए किन दो चिन्हों को आपस में बदला जाना चाहिए?
6 = 9 ÷ 3 − 2 + 7

Ans
1. + और = ✓
2. = और - ✗
3. - और + ✗
4. + और ÷ ✗

Question Type : **MCQ**
Question ID : **264330140027**
Option 1 ID : **264330548488**
Option 2 ID : **264330548487**
Option 3 ID : **264330548489**
Option 4 ID : **264330548490**
Status : **Answered**
Chosen Option : **1**

Join Telegram Group "HaryanaJobs.in"

Q.14 उस विकल्प आकृति को चुनिए जिसमें दी गई आकृति (X) इसके भाग के रूप में निहित है। (घूर्णन की अनुमति नहीं है)।

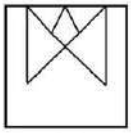

(X)

Ans

✗ 1.

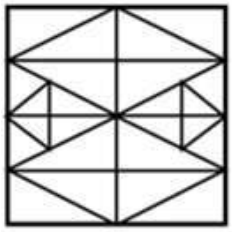

✗ 2.

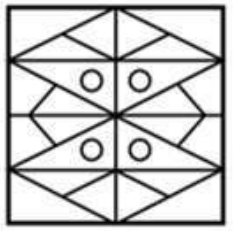

✓ 3.

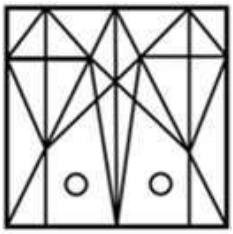

✗ 4.

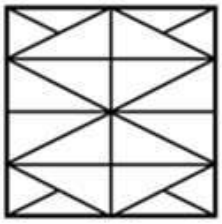

Question Type :	**MCQ**
Question ID :	**264330140469**
Option 1 ID :	**264330550258**
Option 2 ID :	**264330550255**
Option 3 ID :	**264330550257**
Option 4 ID :	**264330550256**
Status :	**Answered**
Chosen Option :	**3**

Join Telegram Group "HaryanaJobs.in"

Q.15 दी गई श्रृंखला में निम्नलिखित में से कौन-सी संख्या प्रश्न चिन्ह (?) के स्थान पर आएगी?
36, 33, 39, 36, 42, 39, 45, ?

Ans
1. 38
2. 29
3. 42
4. 48

Question Type : **MCQ**
Question ID : **264330140403**
Option 1 ID : **264330549991**
Option 2 ID : **264330549993**
Option 3 ID : **264330549992**
Option 4 ID : **264330549994**
Status : **Answered**
Chosen Option : **3**

Join Telegram Group "HaryanaJobs.in"

Q.16 उस विकल्प आकृति को चुनिए जो नीचे दी गई आकृति में पैटर्न को पूरा करने के लिए प्रश्न चिन्ह (?) के स्थान पर आएगी। (घूर्णन की अनुमति नहीं है)।

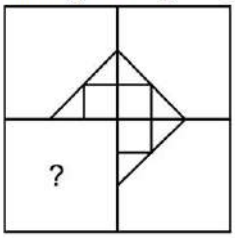

Ans

✗ 1.

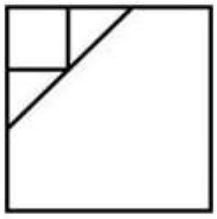

✗ 2.

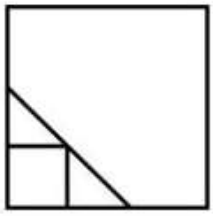

✗ 3.

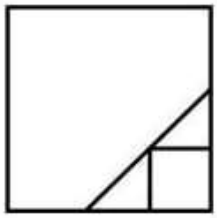

✓ 4.

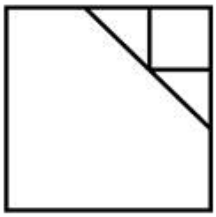

Question Type : **MCQ**
Question ID : **264330138807**
Option 1 ID : **264330543836**
Option 2 ID : **264330543838**
Option 3 ID : **264330543837**
Option 4 ID : **264330543835**
Status : **Answered**
Chosen Option : **4**

Join Telegram Group "HaryanaJobs.in"

Q.17 दो कथन दिए गए हैं और दो निष्कर्ष I और II दिए गए हैं। कथनों को सत्य मानते हुए, चाहे वे सामान्यतः ज्ञात तथ्यों से अलग प्रतीत होते हों, निश्चय कीजिए कि कौन-सा निष्कर्ष तार्किक रूप से कथनों के अनुसार है।

कथन:

सभी डायरियाँ, पुस्तकें हैं।

कुछ बैग, डायरियाँ हैं।

निष्कर्ष:

I. सभी बैग, पुस्तकें हैं।

II. कुछ पुस्तकें, बैग हैं।

Ans

✗ 1. न तो निष्कर्ष I और न ही II कथनों के अनुसार है।

✗ 2. केवल निष्कर्ष I कथनों के अनुसार है।

✓ 3. केवल निष्कर्ष II कथनों के अनुसार है।

✗ 4. दोनों निष्कर्ष I और II कथनों के अनुसार हैं।

Question Type : **MCQ**
Question ID : **264330140102**
Option 1 ID : **264330548790**
Option 2 ID : **264330548787**
Option 3 ID : **264330548788**
Option 4 ID : **264330548789**
Status : **Answered**
Chosen Option : **3**

Q.18 दिए गए पैटर्न का ध्यानपूर्वक अध्ययन कीजिए और उस संख्या को चुनिए जो इसमें प्रश्न चिन्ह (?) के स्थान पर आ सकती है?

प्रथम पंक्ति- 30, 120, 124

द्वितीय पंक्ति- 40, 160, 164

तृतीय पंक्ति- 22, 88, ?

Ans

✗ 1. 90

✓ 2. 92

✗ 3. 98

✗ 4. 89

Question Type : **MCQ**
Question ID : **264330135362**
Option 1 ID : **264330530356**
Option 2 ID : **264330530358**
Option 3 ID : **264330530355**
Option 4 ID : **264330530357**
Status : **Answered**
Chosen Option : **2**

Join Telegram Group "HaryanaJobs.in"

Q.19 एक निश्चित कूट भाषा में, 'CODE' को '5SH3' लिखा जाता है। उस भाषा में 'WIRE' को कैसे लिखा जाएगा?

Ans
1. 20MV3
2. 25MV6
3. 25MV3
4. 25NV3

Question Type : **MCQ**
Question ID : **264330139994**
Option 1 ID : **264330548357**
Option 2 ID : **264330548356**
Option 3 ID : **264330548358**
Option 4 ID : **264330548355**
Status : **Answered**
Chosen Option : **3**

Q.20 निम्नलिखित प्रश्न में, दी गई श्रृंखला में लुप्त संख्या को चुनिए ।

1, 5, 21, 85, 341, ?

Ans
1. 1365
2. 1370
3. 1380
4. 1360

Question Type : **MCQ**
Question ID : **264330140988**
Option 1 ID : **264330552300**
Option 2 ID : **264330552301**
Option 3 ID : **264330552302**
Option 4 ID : **264330552299**
Status : **Answered**
Chosen Option : **1**

Section : **General Awareness**

Q.1 निम्नलिखित में से कौन-सा उपन्यास प्रसिद्ध भारतीय लेखक मुल्क राज आनंद द्वारा लिखा गया था?

Ans
1. अनटचेबल (Untouchable)
2. द रूम ऑन द रूफ (The Room on the Roof)
3. ट्रेन टू पाकिस्तान (Train to Pakistan)
4. गोदान (Godan)

Question Type : **MCQ**
Question ID : **264330140743**
Option 1 ID : **264330551322**
Option 2 ID : **264330551320**
Option 3 ID : **264330551321**
Option 4 ID : **264330551319**
Status : **Answered**
Chosen Option : **1**

Join Telegram Group "HaryanaJobs.in"

Q.2 कौन-सी दो प्रमुख नदियाँ मिलकर गंगा नदी का निर्माण करती हैं?

Ans
1. भागीरथी और मंदाकिनी
2. अलकनंदा और मंदाकिनी
3. मंदाकिनी और धौलीगंगा
4. अलकनंदा और भागीरथी

Question Type : **MCQ**
Question ID : **264330140661**
Option 1 ID : **264330550994**
Option 2 ID : **264330550993**
Option 3 ID : **264330550992**
Option 4 ID : **264330550991**
Status : **Answered**
Chosen Option : **4**

Q.3 वर्ष 1896 में प्रथम ओलम्पिक खेलों का आयोजन किस देश में हुआ था?

Ans
1. इटली
2. मिस्र
3. जापान
4. ग्रीस

Question Type : **MCQ**
Question ID : **264330140339**
Option 1 ID : **264330549738**
Option 2 ID : **264330549737**
Option 3 ID : **264330549736**
Option 4 ID : **264330549735**
Status : **Answered**
Chosen Option : **4**

Q.4 विज्ञान की आवर्त सारणी में नाइट्रोजन की परमाणु संख्या क्या है?

Ans
1. 11
2. 7
3. 21
4. 18

Question Type : **MCQ**
Question ID : **264330140756**
Option 1 ID : **264330551372**
Option 2 ID : **264330551371**
Option 3 ID : **264330551374**
Option 4 ID : **264330551373**
Status : **Not Answered**
Chosen Option : **--**

Join Telegram Group "HaryanaJobs.in"

Q.5 भारत में मौद्रिक नीति समिति की अध्यक्षता कौन करता है?

Ans
1. केंद्रीय वित्त मंत्री
2. भारत के नियंत्रक एवं महालेखा परीक्षक
3. गवर्नर, भारतीय रिजर्व बैंक
4. डिप्टी गवर्नर, भारतीय रिजर्व बैंक

Question Type : **MCQ**
Question ID : **264330140700**
Option 1 ID : **264330551147**
Option 2 ID : **264330551148**
Option 3 ID : **264330551150**
Option 4 ID : **264330551149**
Status : **Answered**
Chosen Option : **3**

Q.6 इंग्लैंड ने _____ को हराकर आईसीसी पुरुष टी20 विश्व कप 2022 की ट्रॉफी जीती।

Ans
1. न्यूज़ीलैंड
2. ऑस्ट्रेलिया
3. पाकिस्तान
4. भारत

Question Type : **MCQ**
Question ID : **264330140954**
Option 1 ID : **264330552163**
Option 2 ID : **264330552165**
Option 3 ID : **264330552164**
Option 4 ID : **264330552166**
Status : **Not Answered**
Chosen Option : **--**

Q.7 निम्नलिखित में से किस शब्द का अर्थ "फलों को उगाना" है?

Ans
1. आर्बोरिकल्चर(Arboriculture)
2. पोमिकल्चर(Pomiculture)
3. सेरीकल्चर(Sericulture)
4. एपीकल्चर(Apiculture)

Question Type : **MCQ**
Question ID : **264330140940**
Option 1 ID : **264330552107**
Option 2 ID : **264330552109**
Option 3 ID : **264330552110**
Option 4 ID : **264330552108**
Status : **Not Answered**
Chosen Option : **--**

Join Telegram Group "HaryanaJobs.in"

Q.8 गुरु वेम्पति चिन्ना सत्यम का संबंध निम्नलिखित में से किस नृत्य शैली से है?

Ans
1. कथक
2. कुचिपुड़ी
3. मणिपुरी
4. भरतनाट्यम

Question Type : **MCQ**
Question ID : **264330140361**
Option 1 ID : **264330549824**
Option 2 ID : **264330549825**
Option 3 ID : **264330549823**
Option 4 ID : **264330549826**
Status : **Answered**
Chosen Option : **4**

Q.9 लोक सभा (जनता का सदन) का पहली बार विधिवत गठन _____ को किया गया था।

Ans
1. 17 अप्रैल 1952
2. 26 अप्रैल 1950
3. 20 अप्रैल 1951
4. 18 जनवरी 1950

Question Type : **MCQ**
Question ID : **264330140338**
Option 1 ID : **264330549732**
Option 2 ID : **264330549734**
Option 3 ID : **264330549731**
Option 4 ID : **264330549733**
Status : **Answered**
Chosen Option : **2**

Q.10 ग्रामीण रोजगार सृजन कार्यक्रम (REGP)सन् _____ में शुरू किया गया था।

Ans
1. 1991
2. 1997
3. 1993
4. 1995

Question Type : **MCQ**
Question ID : **264330139693**
Option 1 ID : **264330547187**
Option 2 ID : **264330547190**
Option 3 ID : **264330547188**
Option 4 ID : **264330547189**
Status : **Not Answered**
Chosen Option : **--**

Join Telegram Group "HaryanaJobs.in"

Q.11 संभवतः _____ मेहरगढ़ में कपास की खेती होती थी।

Ans
1. 8000 साल पहले
2. 6000 साल पहले
3. 7000 साल पहले
4. 5000 साल पहले

Question Type : **MCQ**
Question ID : **264330139769**
Option 1 ID : **264330547494**
Option 2 ID : **264330547492**
Option 3 ID : **264330547493**
Option 4 ID : **264330547491**
Status : **Not Answered**
Chosen Option : **--**

Q.12 ज्योतिबा फुले ने निम्नलिखित में से किस संगठन की स्थापना की?

Ans
1. आर्य समाज
2. ब्रह्म समाज
3. सत्यशोधक समाज
4. सतनामी समाज

Question Type : **MCQ**
Question ID : **264330138994**
Option 1 ID : **264330544586**
Option 2 ID : **264330544583**
Option 3 ID : **264330544585**
Option 4 ID : **264330544584**
Status : **Answered**
Chosen Option : **3**

Q.13 आदिवासी नेता बिरसा किस जनजाति से संबंधित थे?

Ans
1. भूटिया
2. गोंड
3. भील
4. मुंडा

Question Type : **MCQ**
Question ID : **264330138995**
Option 1 ID : **264330544590**
Option 2 ID : **264330544587**
Option 3 ID : **264330544588**
Option 4 ID : **264330544589**
Status : **Answered**
Chosen Option : **4**

Join Telegram Group "HaryanaJobs.in"

Q.14 2020 में 'लूडो' फिल्म में प्रदर्शित प्रसिद्ध गीत "क़िस्मत की हवा (Qismat Ki Hawa)" के पार्श्व गायक और संगीतकार कौन हैं?

Ans
1. ए. आर. रहमान
2. आर. डी. बर्मन
3. अरिजीत सिंह
4. सी. रामचंद्र

Question Type : **MCQ**
Question ID : **264330140335**
Option 1 ID : **264330549721**
Option 2 ID : **264330549719**
Option 3 ID : **264330549720**
Option 4 ID : **264330549722**
Status : **Answered**
Chosen Option : **2**

Q.15 चोल साम्राज्य में "वेट्टी (Vetti)" शब्द _____ से संबंधित है।

Ans
1. जबरन श्रम
2. सेना
3. सोने के सिक्के
4. आंशिक भुगतान

Question Type : **MCQ**
Question ID : **264330139670**
Option 1 ID : **264330547097**
Option 2 ID : **264330547098**
Option 3 ID : **264330547095**
Option 4 ID : **264330547096**
Status : **Answered**
Chosen Option : **3**

Q.16 श्री भगवंत मान मार्च 2022 में किस राज्य के मुख्यमंत्री बने थे?

Ans
1. हरियाणा
2. हिमाचल प्रदेश
3. पंजाब
4. दिल्ली

Question Type : **MCQ**
Question ID : **264330140907**
Option 1 ID : **264330551976**
Option 2 ID : **264330551978**
Option 3 ID : **264330551975**
Option 4 ID : **264330551977**
Status : **Answered**
Chosen Option : **3**

Join Telegram Group "HaryanaJobs.in"

Q.17 जीव मिल्खा सिंह का संबंध किस खेल से है?

Ans
1. एथलेटिक्स
2. क्रिकेट
3. हॉकी
4. गोल्फ़

Question Type : **MCQ**
Question ID : **264330140885**
Option 1 ID : **264330551890**
Option 2 ID : **264330551887**
Option 3 ID : **264330551889**
Option 4 ID : **264330551888**
Status : **Answered**
Chosen Option : **1**

Q.18 कौन-सा सागर अफ्रीका को अरब प्रायद्वीप से अलग करता है?

Ans
1. लाल सागर
2. सफ़ेद सागर
3. कैस्पियन सागर
4. काला सागर

Question Type : **MCQ**
Question ID : **264330140659**
Option 1 ID : **264330550984**
Option 2 ID : **264330550985**
Option 3 ID : **264330550986**
Option 4 ID : **264330550983**
Status : **Answered**
Chosen Option : **1**

Q.19 निम्नलिखित में से किसे पादप जगत के जलस्थलचर कहा जाता है?

Ans
1. ब्रायोफाइट (Bryophyte)
2. अनावृतबीजी (Gymnosperm)
3. थैलोफाइट (Thallophyte)
4. आवृतबीजी (Angiosperm)

Question Type : **MCQ**
Question ID : **264330141052**
Option 1 ID : **264330552557**
Option 2 ID : **264330552558**
Option 3 ID : **264330552556**
Option 4 ID : **264330552555**
Status : **Answered**
Chosen Option : **1**

Join Telegram Group "HaryanaJobs.in"

Q.20 'रूरल बैकयार्ड पिगरी (Rural Backyard Piggery)' योजना किस राज्य सरकार द्वारा शुरू की गई थी?

Ans
✔ 1. मेघालय
✘ 2. पंजाब
✘ 3. झारखंड
✘ 4. असम

Question Type : **MCQ**
Question ID : **264330140367**
Option 1 ID : **264330549849**
Option 2 ID : **264330549848**
Option 3 ID : **264330549850**
Option 4 ID : **264330549847**
Status : **Answered**
Chosen Option : **4**

Q.21 यदि किसी देश की जन्म दर मृत्यु दर से अधिक है तो जनसंख्या में _____।

Ans
✔ 1. वृद्धि होगी
✘ 2. 50% की गिरावट होगी
✘ 3. धीरे-धीरे गिरावट आएगी
✘ 4. स्थिरता रहेगी

Question Type : **MCQ**
Question ID : **264330139718**
Option 1 ID : **264330547289**
Option 2 ID : **264330547288**
Option 3 ID : **264330547287**
Option 4 ID : **264330547290**
Status : **Answered**
Chosen Option : **1**

Q.22 कुचिपुड़ी नृत्य किस प्रकार के संगीत के साथ किया जाता है?

Ans
✘ 1. सम्मिश्रित (Fusion)
✘ 2. हिंदुस्तानी (Hindustani)
✘ 3. जाज़ (Jazz)
✔ 4. कर्नाटक (Carnatic)

Question Type : **MCQ**
Question ID : **264330139673**
Option 1 ID : **264330547107**
Option 2 ID : **264330547108**
Option 3 ID : **264330547110**
Option 4 ID : **264330547109**
Status : **Answered**
Chosen Option : **4**

Join Telegram Group "HaryanaJobs.in"

Q.23 निम्नलिखित में से कौन-सा अम्ल सरसों के तेल में पाया जाता है?

Ans
1. टार्टरिक अम्ल (Tartaric Acid)
2. मैलिक अम्ल (Malic Acid)
3. इरूसिक अम्ल (Erucic Acid)
4. लॉरिक अम्ल (Lauric Acid)

Question Type : **MCQ**
Question ID : **264330140938**
Option 1 ID : **264330552100**
Option 2 ID : **264330552102**
Option 3 ID : **264330552099**
Option 4 ID : **264330552101**
Status : **Not Answered**
Chosen Option : **--**

Q.24 भारतीय संविधान का कौन-सा अनुच्छेद सभी धर्मों के लोगों को अपने धर्म के मामलों का प्रबंधन करने की स्वतंत्रता देता है?

Ans
1. अनुच्छेद 21
2. अनुच्छेद 26
3. अनुच्छेद 15
4. अनुच्छेद 37

Question Type : **MCQ**
Question ID : **264330140771**
Option 1 ID : **264330551434**
Option 2 ID : **264330551432**
Option 3 ID : **264330551431**
Option 4 ID : **264330551433**
Status : **Answered**
Chosen Option : **2**

Q.25 "छठ पूजा" पूरे विश्व में मुख्य रूप से किस समुदाय द्वारा बड़ी भव्यता के साथ मनाई जाती है?

Ans
1. पंजाबी समुदाय
2. बिहारी समुदाय
3. मराठी समुदाय
4. गुजराती समुदाय

Question Type : **MCQ**
Question ID : **264330139749**
Option 1 ID : **264330547412**
Option 2 ID : **264330547413**
Option 3 ID : **264330547414**
Option 4 ID : **264330547411**
Status : **Answered**
Chosen Option : **2**

Section : **English Language and Comprehension**

Join Telegram Group "HaryanaJobs.in"

Q.1 Fill in the blank with the most appropriate option.

Ancient Indians were never this _____ minded.

Ans
1. cramp
2. narrow ✔
3. tiny
4. slim

Question Type : **MCQ**
Question ID : **264330136585**
Option 1 ID : **264330535074**
Option 2 ID : **264330535072**
Option 3 ID : **264330535073**
Option 4 ID : **264330535071**
Status : **Answered**
Chosen Option : **2**

Q.2 Select the most appropriate option to fill in the blank.

The show played to full houses for a five-night run and ended to _____ applause on Saturday night.

Ans
1. tumultuous ✔
2. barren
3. redress
4. semantic

Question Type : **MCQ**
Question ID : **264330136560**
Option 1 ID : **264330534975**
Option 2 ID : **264330534977**
Option 3 ID : **264330534976**
Option 4 ID : **264330534978**
Status : **Answered**
Chosen Option : **4**

Q.3 Select the most appropriate option to substitute the bracketed segment in the given sentence. If there is no need to substitute it, select 'no substitution required'.

He lights his pipe, (and on many an evenings he helps me with) dishes.

Ans
1. and on many evenings he helps me with the ✔
2. No substitution required
3. and many an evenings he helps me with the
4. and on many evenings he helped me with the

Question Type : **MCQ**
Question ID : **264330136538**
Option 1 ID : **264330534891**
Option 2 ID : **264330534894**
Option 3 ID : **264330534892**
Option 4 ID : **264330534893**
Status : **Answered**
Chosen Option : **1**

Join Telegram Group "HaryanaJobs.in"

Q.4 Select the word from the options which is similar in meaning to the bracketed word given in the sentence below.
He hesitated, studying her face with a (confused) expression.

Ans
✗ 1. calm
✗ 2. assisted
✓ 3. puzzled
✗ 4. explicated

Question Type : **MCQ**
Question ID : **264330136152**
Option 1 ID : **264330533410**
Option 2 ID : **264330533408**
Option 3 ID : **264330533409**
Option 4 ID : **264330533407**
Status : **Answered**
Chosen Option : **3**

Q.5 Find the part of the given sentence that has an error in it. If there is no error, choose 'No error'.
There are already many examples of great technology that had born in the United States.

Ans
✗ 1. No error
✗ 2. born in the United States.
✓ 3. of great technology that had
✗ 4. There are already many examples

Question Type : **MCQ**
Question ID : **264330135537**
Option 1 ID : **264330531054**
Option 2 ID : **264330531053**
Option 3 ID : **264330531052**
Option 4 ID : **264330531051**
Status : **Answered**
Chosen Option : **2**

Q.6 Select the most appropriate meaning of the given idiom.

Go bananas

Ans
✓ 1. To become excited or angry
✗ 2. To finish household chores
✗ 3. To win a match
✗ 4. To feel low

Question Type : **MCQ**
Question ID : **264330136285**
Option 1 ID : **264330533920**
Option 2 ID : **264330533921**
Option 3 ID : **264330533919**
Option 4 ID : **264330533922**
Status : **Answered**
Chosen Option : **1**

Join Telegram Group "HaryanaJobs.in"

Q.7 Four words are given, out of which three words are spelt correctly. Choose the incorrectly spelt word.

Ans

✗ 1. PERSISTENT

✗ 2. RESISTANCE

✓ 3. ACQIUANT

✗ 4. PRIVILEGE

Question Type : **MCQ**
Question ID : **264330136183**
Option 1 ID : **264330533527**
Option 2 ID : **264330533530**
Option 3 ID : **264330533529**
Option 4 ID : **264330533528**
Status : **Answered**
Chosen Option : **1**

Q.8 Select the most appropriate option to substitute the bracketed segment in the given sentence. If there is no need to substitute it, select 'no substitution required'.

That is not a solution available (to most people for who email has become necessity.)

Ans

✓ 1. to most people for whom email has become a necessity.

✗ 2. for most people to whom email has became necessity.

✗ 3. No substitution required

✗ 4. to most people for who email has become a necessity.

Question Type : **MCQ**
Question ID : **264330136540**
Option 1 ID : **264330534899**
Option 2 ID : **264330534901**
Option 3 ID : **264330534902**
Option 4 ID : **264330534900**
Status : **Answered**
Chosen Option : **1**

Q.9 Select the most appropriate synonym of the given word.

Glorify

Ans

✗ 1. Lower

✗ 2. Mock

✓ 3. Celebrate

✗ 4. Wonder

Question Type : **MCQ**
Question ID : **264330136281**
Option 1 ID : **264330533906**
Option 2 ID : **264330533905**
Option 3 ID : **264330533903**
Option 4 ID : **264330533904**
Status : **Answered**
Chosen Option : **3**

Join Telegram Group "HaryanaJobs.in"

Q.10 Select the most appropriate word for the given group of words.

A person who likes humankind and human society

Ans
1. Lunatic
2. Mercenary
3. Narcissist
4. Philanthropist

Question Type : **MCQ**
Question ID : **264330135833**
Option 1 ID : **264330532202**
Option 2 ID : **264330532200**
Option 3 ID : **264330532201**
Option 4 ID : **264330532199**
Status : **Answered**
Chosen Option : **4**

Q.11 Select the most appropriate antonym to substitute the (bracketed) word in the given sentence.

Given (sufficient) effort, all known infectious agents can be specifically identified.

Ans
1. optimal
2. trivial
3. unrefined
4. captivity

Question Type : **MCQ**
Question ID : **264330135838**
Option 1 ID : **264330532222**
Option 2 ID : **264330532219**
Option 3 ID : **264330532220**
Option 4 ID : **264330532221**
Status : **Answered**
Chosen Option : **2**

Q.12 Select the most appropriate word for the given group of words.

Opposing or taking arms against a government or ruler.

Ans
1. Volunteer
2. Participant
3. Rebel
4. Rubel

Question Type : **MCQ**
Question ID : **264330136124**
Option 1 ID : **264330533300**
Option 2 ID : **264330533301**
Option 3 ID : **264330533302**
Option 4 ID : **264330533299**
Status : **Answered**
Chosen Option : **3**

Join Telegram Group "HaryanaJobs.in"

Q.13 Select the most appropriate antonym of the given word.

Evidence

Ans

✗ 1. Duplicity

✗ 2. Signature

✗ 3. Information

✓ 4. Concealment

Question Type : **MCQ**
Question ID : **264330136428**
Option 1 ID : **264330534474**
Option 2 ID : **264330534471**
Option 3 ID : **264330534473**
Option 4 ID : **264330534472**
Status : **Answered**
Chosen Option : **4**

Q.14 A sentence has been given with a blank to be filled with an appropriate option. Choose the correct alternative.

Most of the oil and gas that the UK _____ does not come from Russia.

Ans

✗ 1. importing

✗ 2. imported

✓ 3. imports

✗ 4. import

Question Type : **MCQ**
Question ID : **264330135237**
Option 1 ID : **264330529872**
Option 2 ID : **264330529873**
Option 3 ID : **264330529871**
Option 4 ID : **264330529874**
Status : **Answered**
Chosen Option : **3**

Q.15 Four sentences are given, out of which three have spelling errors. Choose the sentence with all correctly spelt words.

Ans

✗ 1. They fly around like nobody 's buisness.

✓ 2.
They also show problem behaviours, like physical aggression and cheating.

✗ 3. This guide offers sugestions of capital interest to travelers.

✗ 4.
They were meant, she says, to be “a public display of your allegaince.”

Question Type : **MCQ**
Question ID : **264330135738**
Option 1 ID : **264330531838**
Option 2 ID : **264330531836**
Option 3 ID : **264330531835**
Option 4 ID : **264330531837**
Status : **Answered**
Chosen Option : **2**

Join Telegram Group "HaryanaJobs.in"

Q.16 In the following question, out of the given four alternatives, select the alternative which best expresses the meaning of the Idiom/Phrase.
A storm in a tea cup

Ans
1. ✗ Back to original position
2. ✓ Great outrage or excitement about a trivial matter
3. ✗ To deal with a person who is more than one's match
4. ✗ Constant source of annoyance to someone

Question Type : **MCQ**
Question ID : **264330135556**
Option 1 ID : **264330531123**
Option 2 ID : **264330531126**
Option 3 ID : **264330531125**
Option 4 ID : **264330531124**
Status : **Answered**
Chosen Option : **2**

Q.17 Identify the segment that contains a grammatical error. If there is no error, select 'No error'

Nothing great in the world/ have been accomplished/ without passion.

Ans
1. ✗ No error
2. ✓ have been accomplished
3. ✗ Nothing great in the world
4. ✗ without passion.

Question Type : **MCQ**
Question ID : **264330136187**
Option 1 ID : **264330533546**
Option 2 ID : **264330533544**
Option 3 ID : **264330533543**
Option 4 ID : **264330533545**
Status : **Answered**
Chosen Option : **2**

Q.18 Identify the segment that contains a grammatical error. If there is no error, select 'No error'.
Susan had recently run on to / Catherine at the supermarket, they / were seeing each other after many years.

Ans
1. ✗ were seeing each other after many years.
2. ✓ Susan had recently run on to
3. ✗ Catherine at the supermarket, they
4. ✗ No error

Question Type : **MCQ**
Question ID : **264330136743**
Option 1 ID : **264330535681**
Option 2 ID : **264330535679**
Option 3 ID : **264330535680**
Option 4 ID : **264330535682**
Status : **Answered**
Chosen Option : **2**

Join Telegram Group "HaryanaJobs.in"

Q.19 Select the word segment that substitutes (replaces) the bracketed word segment correctly and completes the sentence meaningfully. Select the option 'no correction required' if the sentence is correct as given.

(They have been) dejected when he arrived, but now they sparkle with enthusiasm.

Ans

✗ 1. They was

✓ 2. They had been

✗ 3. No correction required

✗ 4. They were been

Question Type : **MCQ**
Question ID : **264330136565**
Option 1 ID : **264330534997**
Option 2 ID : **264330534995**
Option 3 ID : **264330534998**
Option 4 ID : **264330534996**
Status : **Answered**
Chosen Option : **2**

Q.20 Select the most appropriate option to fill in the blank.

And to think after all these years you still have the _____ to say such things to me!

Ans

✓ 1. arrogance

✗ 2. tangential

✗ 3. fitness

✗ 4. brightness

Question Type : **MCQ**
Question ID : **264330135825**
Option 1 ID : **264330532172**
Option 2 ID : **264330532171**
Option 3 ID : **264330532173**
Option 4 ID : **264330532174**
Status : **Answered**
Chosen Option : **1**

Join Telegram Group "HaryanaJobs.in"

Comprehension:

In the following passage some words have been deleted. Fill in the blanks with the help of the alternatives given. Select the most appropriate option for each number.

Equality and freedom have both been identified as important (1) _____ of democracy since ancient times. These principles are reflected in all citizens being (2) _____ before the law and having equal access to (3) _____ processes. For example, in a representative democracy, (4) _____ vote has equal weight, no unreasonable restrictions can apply to anyone seeking to become a (5) _____, and the freedom of its citizens is secured by legitimized rights and liberties which are generally protected by a constitution.

SubQuestion No : 21

Q.21 Select the most appropriate option to fill in blank number 1.

Ans

✔ 1. characteristics

✘ 2. analytics

✘ 3. linguistics

✘ 4. statistics

Question Type : **MCQ**
Question ID : **264330136492**
Option 1 ID : **264330534712**
Option 2 ID : **264330534711**
Option 3 ID : **264330534714**
Option 4 ID : **264330534713**
Status : **Answered**
Chosen Option : **1**

Comprehension:

In the following passage some words have been deleted. Fill in the blanks with the help of the alternatives given. Select the most appropriate option for each number.

Equality and freedom have both been identified as important (1) _____ of democracy since ancient times. These principles are reflected in all citizens being (2) _____ before the law and having equal access to (3) _____ processes. For example, in a representative democracy, (4) _____ vote has equal weight, no unreasonable restrictions can apply to anyone seeking to become a (5) _____, and the freedom of its citizens is secured by legitimized rights and liberties which are generally protected by a constitution.

SubQuestion No : 22

Q.22 Select the most appropriate option to fill in blank number 2.

Ans

✘ 1. unfair

✔ 2. equal

✘ 3. irregular

✘ 4. unequal

Question Type : **MCQ**
Question ID : **264330136493**
Option 1 ID : **264330534715**
Option 2 ID : **264330534718**
Option 3 ID : **264330534717**
Option 4 ID : **264330534716**
Status : **Answered**
Chosen Option : **2**

Join Telegram Group "HaryanaJobs.in"

Comprehension:

In the following passage some words have been deleted. Fill in the blanks with the help of the alternatives given. Select the most appropriate option for each number.

Equality and freedom have both been identified as important (1) _____ of democracy since ancient times. These principles are reflected in all citizens being (2) _____ before the law and having equal access to (3) _____ processes. For example, in a representative democracy, (4) _____ vote has equal weight, no unreasonable restrictions can apply to anyone seeking to become a (5) _____, and the freedom of its citizens is secured by legitimized rights and liberties which are generally protected by a constitution.

SubQuestion No : 23

Q.23 Select the most appropriate option to fill in blank number 3.

Ans

✗ 1. relative

✗ 2. copulative

✓ 3. legislative

✗ 4. perennial

Question Type : **MCQ**
Question ID : **264330136494**
Option 1 ID : **264330534720**
Option 2 ID : **264330534721**
Option 3 ID : **264330534719**
Option 4 ID : **264330534722**
Status : **Answered**
Chosen Option : **3**

Comprehension:

In the following passage some words have been deleted. Fill in the blanks with the help of the alternatives given. Select the most appropriate option for each number.

Equality and freedom have both been identified as important (1) _____ of democracy since ancient times. These principles are reflected in all citizens being (2) _____ before the law and having equal access to (3) _____ processes. For example, in a representative democracy, (4) _____ vote has equal weight, no unreasonable restrictions can apply to anyone seeking to become a (5) _____, and the freedom of its citizens is secured by legitimized rights and liberties which are generally protected by a constitution.

SubQuestion No : 24

Q.24 Select the most appropriate option to fill in blank number 4.

Ans

✗ 1. much

✓ 2. every

✗ 3. all

✗ 4. few

Question Type : **MCQ**
Question ID : **264330136495**
Option 1 ID : **264330534723**
Option 2 ID : **264330534726**
Option 3 ID : **264330534725**
Option 4 ID : **264330534724**
Status : **Answered**
Chosen Option : **2**

Join Telegram Group "HaryanaJobs.in"

Comprehension:

In the following passage some words have been deleted. Fill in the blanks with the help of the alternatives given. Select the most appropriate option for each number.

Equality and freedom have both been identified as important (1) _____ of democracy since ancient times. These principles are reflected in all citizens being (2) _____ before the law and having equal access to (3) _____ processes. For example, in a representative democracy, (4) _____ vote has equal weight, no unreasonable restrictions can apply to anyone seeking to become a (5) _____, and the freedom of its citizens is secured by legitimized rights and liberties which are generally protected by a constitution.

SubQuestion No : 25

Q.25 Select the most appropriate option to fill in blank number 5.

Ans

✗ 1. dictators

✓ 2. representative

✗ 3. rulers

✗ 4. peasants

Question Type : **MCQ**
Question ID : **264330136496**
Option 1 ID : **264330534727**
Option 2 ID : **264330534728**
Option 3 ID : **264330534729**
Option 4 ID : **264330534730**
Status : **Answered**
Chosen Option : **2**

Join Telegram Group "HaryanaJobs.in"

Multi Tasking Non Technical Staff and Havaldar CBIC and CBN Examination 2022

Roll Number	HaryanaJobs.in
Candidate Name	HaryanaJobs.in
Venue Name	iON Digital Zone iDZ Naino Ka Bas
Exam Date	15/06/2023
Exam Time	9:00 AM - 10:30 AM
Subject	MTS Non Tech Havaldar CBIC and CBN Examination 2022

Section : **Numerical and Mathematical Ability**

Q.1 $\frac{1.2\times1.2+0.2\times0.2+1.2\times0.4}{1.8\times1.8+0.4\times0.4-1.8\times0.8}$ का मान क्या है?

Ans

✗ 1. 0.25

✗ 2. 0.2

✓ 3. 1

✗ 4. 0.1

Question Type : **MCQ**
Question ID : **264330140648**
Option 1 ID : **264330550942**
Option 2 ID : **264330550941**
Option 3 ID : **264330550940**
Option 4 ID : **264330550939**
Status : **Answered**
Chosen Option : **3**

Q.2 एक वस्तु को Rs. 400 में बेचने पर उतना ही लाभ होता है जितनी उसे Rs. 300 में बेचने पर हानि होती है। उस वस्तु का क्रय मूल्य कितना है?

Ans

✗ 1. Rs. 400

✗ 2. Rs. 250

✓ 3. Rs. 350

✗ 4. Rs. 450

Question Type : **MCQ**
Question ID : **264330140783**
Option 1 ID : **264330551481**
Option 2 ID : **264330551479**
Option 3 ID : **264330551480**
Option 4 ID : **264330551482**
Status : **Answered**
Chosen Option : **3**

Join Telegram Group "HaryanaJobs.in"

Q.3 P, Q और R के वेतन का अनुपात 5 : 6 : 8 है। यदि R को Q से Rs.2200 अधिक मिलते हैं, तो P का वेतन कितना है?

Ans
1. Rs.6500
2. Rs.5500
3. Rs.7700
4. Rs.7000

Question Type : **MCQ**
Question ID : **264330139919**
Option 1 ID : **264330548055**
Option 2 ID : **264330548056**
Option 3 ID : **264330548058**
Option 4 ID : **264330548057**
Status : **Answered**
Chosen Option : **2**

Q.4 एक वस्तु का विक्रय मूल्य Rs.817 है। यदि हानि प्रतिशत 14 प्रतिशत है, तो वस्तु का क्रय मूल्य क्या है?

Ans
1. Rs. 900
2. Rs. 950
3. Rs. 850
4. Rs. 880

Question Type : **MCQ**
Question ID : **264330139614**
Option 1 ID : **264330546871**
Option 2 ID : **264330546872**
Option 3 ID : **264330546874**
Option 4 ID : **264330546873**
Status : **Answered**
Chosen Option : **2**

Q.5 अंकित मूल्य का 25 प्रतिशत क्रय मूल्य के 40 प्रतिशत के बराबर है। यदि कोई बट्टा नहीं दिया जाता है, तो लाभ प्रतिशत क्या होगा?

Ans
1. 40 प्रतिशत
2. 66.66 प्रतिशत
3. 50 प्रतिशत
4. 60 प्रतिशत

Question Type : **MCQ**
Question ID : **264330139600**
Option 1 ID : **264330546817**
Option 2 ID : **264330546818**
Option 3 ID : **264330546815**
Option 4 ID : **264330546816**
Status : **Answered**
Chosen Option : **4**

Join Telegram Group "HaryanaJobs.in"

Q.6 8 km/hr की चाल से चलते हुए, एक आदमी एक निश्चित दूरी 2 घंटे 30 मिनट में तय करता है। 10 km/hr की चाल से दौड़ते हुए, समान दूरी तय करने में उसे कितना समय लगेगा?

Ans
1. 2 घंटे 10 मिनट
2. 1 घंटा 45 मिनट
3. 1 घंटा
4. 2 घंटे

Question Type : **MCQ**
Question ID : **264330139049**
Option 1 ID : **264330544803**
Option 2 ID : **264330544806**
Option 3 ID : **264330544805**
Option 4 ID : **264330544804**
Status : **Answered**
Chosen Option : **4**

Q.7 नीचे दी गई तालिका में पाँच वस्तुओं की माँग और उत्पादन को दर्शाया गया है।

वस्तुएँ	माँग	उत्पादन
A	175	225
B	200	300
C	100	250
D	50	400
E	400	500

J1 = A, B और C की कुल माँग और कुल उत्पादन के बीच का अंतर।
J2 = E की माँग और उत्पादन के औसत का मान।
(J1 - J2) का मान क्या है?

Ans
1. -150
2. 100
3. -100
4. 150

Question Type : **MCQ**
Question ID : **264330140649**
Option 1 ID : **264330550946**
Option 2 ID : **264330550945**
Option 3 ID : **264330550943**
Option 4 ID : **264330550944**
Status : **Answered**
Chosen Option : **1**

Join Telegram Group "HaryanaJobs.in"

Q.8 आधार 7 cm और संगत ऊँचाई 12 cm वाले त्रिभुज का क्षेत्रफल ज्ञात कीजिए।

Ans
1. 43 cm^2
2. 42 cm^2
3. 44 cm^2
4. 54 cm^2

Question Type : **MCQ**
Question ID : **264330140818**
Option 1 ID : **264330551619**
Option 2 ID : **264330551620**
Option 3 ID : **264330551622**
Option 4 ID : **264330551621**
Status : **Answered**
Chosen Option : **2**

Q.9 पाइप P अकेले एक टंकी को 18 घंटे में भर सकता है और पाइप Q अकेले उसी टंकी को 24 घंटे में भर सकता है। यदि दोनों पाइपों को बारी-बारी हर एक घंटे में खोला जाए और पहले घंटे के लिए पाइप Q को खोला जाए, तो टंकी कितने समय में पूरी भर जाएगी?

Ans
1. (62/3) घंटे
2. (78/5) घंटे
3. 20 घंटे
4. (64/5) घंटे

Question Type : **MCQ**
Question ID : **264330140214**
Option 1 ID : **264330549235**
Option 2 ID : **264330549238**
Option 3 ID : **264330549236**
Option 4 ID : **264330549237**
Status : **Answered**
Chosen Option : **1**

Join Telegram Group "HaryanaJobs.in"

Q.10 नीचे दिए गए वृत्त आलेख में 8 अलग-अलग कंपनियों द्वारा बेची गई कारों की संख्या को दर्शाया गया है। इन सभी 8 कंपनियों द्वारा बेची गई कारों की कुल संख्या 1000 है। इनमें से किसी एक विशिष्ट कंपनी द्वारा बेची गई कारों की संख्या को इन सभी 8 कंपनियों द्वारा बेची गई कारों की कुल संख्या के प्रतिशत के रूप में दर्शाया गया है।

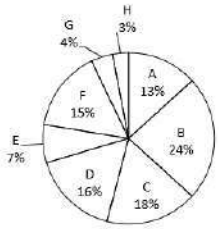

वृत्तखंड A, B और C द्वारा मिलकर बनाए गए केंद्रीय कोण और वृत्तखंड E, F और G द्वारा मिलकर बनाए गए केंद्रीय कोण के बीच कितना अंतर है?

Ans

✗ 1. 102.6°

✗ 2. 88.4°

✗ 3. 72.8°

✓ 4. 104.4°

Question Type : **MCQ**
Question ID : **264330139970**
Option 1 ID : **264330548260**
Option 2 ID : **264330548259**
Option 3 ID : **264330548262**
Option 4 ID : **264330548261**
Status : **Answered**
Chosen Option : **3**

Q.11 12 दिनों तक अकेले कार्य करने के बाद, रीना को पता चलता है कि केवल 10 प्रतिशत कार्य ही पूरा हुआ है। वह प्रिया को नियुक्त करती है जो रीना से 40 प्रतिशत अधिक कुशल है। उनको साथ मिलकर शेष कार्य को पूरा करने के लिए कितने दिन और लगेंगे?

Ans

✗ 1. 50 दिन

✓ 2. 45 दिन

✗ 3. 40 दिन

✗ 4. 30 दिन

Question Type : **MCQ**
Question ID : **264330139932**
Option 1 ID : **264330548108**
Option 2 ID : **264330548109**
Option 3 ID : **264330548110**
Option 4 ID : **264330548107**
Status : **Answered**
Chosen Option : **2**

Join Telegram Group "HaryanaJobs.in"

Q.12 साधारण ब्याज पर 3 वर्ष में Rs.1500 की धनराशि Rs.2175 हो जाती है। यदि ब्याज दर में 3 प्रतिशत की वृद्धि कर दी जाए, तो नई धनराशि क्या होगी?

Ans
✔ 1. Rs.2310
✘ 2. Rs.2460
✘ 3. Rs.2050
✘ 4. Rs.2250

Question Type : **MCQ**
Question ID : **264330139599**
Option 1 ID : **264330546812**
Option 2 ID : **264330546813**
Option 3 ID : **264330546814**
Option 4 ID : **264330546811**
Status : **Answered**
Chosen Option : **1**

Q.13 $\frac{25\times25-12\times12+13\times13}{12\times5+10\div2}$ का मान क्या है?

Ans
✔ 1. 10
✘ 2. 13
✘ 3. 5
✘ 4. 65

Question Type : **MCQ**
Question ID : **264330140169**
Option 1 ID : **264330549056**
Option 2 ID : **264330549057**
Option 3 ID : **264330549055**
Option 4 ID : **264330549058**
Status : **Answered**
Chosen Option : **1**

Q.14 किसी राशि पर प्राप्त 20 वर्षों का साधारण ब्याज उस राशि का 3/5 है। वार्षिक ब्याज दर क्या है?

Ans
✘ 1. 6 प्रतिशत
✘ 2. 5 प्रतिशत
✘ 3. 4 प्रतिशत
✔ 4. 3 प्रतिशत

Question Type : **MCQ**
Question ID : **264330140223**
Option 1 ID : **264330549273**
Option 2 ID : **264330549274**
Option 3 ID : **264330549272**
Option 4 ID : **264330549271**
Status : **Answered**
Chosen Option : **4**

Join Telegram Group "HaryanaJobs.in"

Q.15 एक ठोस धात्विक गोले की त्रिज्या 35 cm है। यदि इसे पिघलाकर 5 cm त्रिज्या के छोटे-छोटे गोले बनाए जाएँ, तो कितने छोटे गोले बनेंगे?

Ans

✔ 1. 343

✘ 2. 289

✘ 3. 429

✘ 4. 369

Question Type : **MCQ**
Question ID : **264330140226**
Option 1 ID : **264330549284**
Option 2 ID : **264330549283**
Option 3 ID : **264330549286**
Option 4 ID : **264330549285**
Status : **Answered**
Chosen Option : **1**

Q.16 एक व्यक्ति पहले 26 km की दूरी 60 मिनट में और अगले 34 km की दूरी 30 मिनट में तय करता है। पूरी यात्रा में उसकी औसत चाल क्या है?

Ans

✔ 1. 40 km/hr

✘ 2. 46 km/hr

✘ 3. 32 km/hr

✘ 4. 38 km/hr

Question Type : **MCQ**
Question ID : **264330140537**
Option 1 ID : **264330550504**
Option 2 ID : **264330550505**
Option 3 ID : **264330550506**
Option 4 ID : **264330550503**
Status : **Answered**
Chosen Option : **1**

Q.17 यदि किसी संख्या के 80 प्रतिशत का 3/5 भाग 450 है, तो वह संख्या क्या है?

Ans

✘ 1. 810.8

✘ 2. 925.5

✘ 3. 945.8

✔ 4. 937.5

Question Type : **MCQ**
Question ID : **264330140178**
Option 1 ID : **264330549094**
Option 2 ID : **264330549091**
Option 3 ID : **264330549093**
Option 4 ID : **264330549092**
Status : **Answered**
Chosen Option : **4**

Join Telegram Group "HaryanaJobs.in"

Q.18 समान धारिता (क्षमता) की तीन बोतलों में दूध और पानी के मिश्रण का अनुपात क्रमश: 4:1, 4:3 और 1:2 है। इन तीनों बोतलों को एक बड़ी बोतल में खाली किया जाता है। बड़ी बोतल में क्रमशः दूध और पानी का अनुपात क्या होगा?

Ans

✔ 1. 179 : 136

✘ 2. 152 : 165

✘ 3. 198 : 175

✘ 4. 133 : 145

Question Type : **MCQ**
Question ID : **264330140572**
Option 1 ID : **264330550640**
Option 2 ID : **264330550639**
Option 3 ID : **264330550641**
Option 4 ID : **264330550642**
Status : **Answered**
Chosen Option : **1**

Q.19 एक द्रव में 20% अम्ल है और दूसरे द्रव में 30% अम्ल है। एक कुप्पी को पहले द्रव के 7 भाग और दूसरे द्रव के 3 भाग से भरा जाता है। नए मिश्रण में अम्ल का प्रतिशत है:

Ans

✔ 1. 23%

✘ 2. 14%

✘ 3. 30%

✘ 4. 13%

Question Type : **MCQ**
Question ID : **264330138703**
Option 1 ID : **264330543420**
Option 2 ID : **264330543419**
Option 3 ID : **264330543422**
Option 4 ID : **264330543421**
Status : **Answered**
Chosen Option : **1**

Q.20 एक कक्षा में छात्रों की न्यूनतम संख्या कितनी होनी चाहिए जिससे वे 10, 15 और 20 की पंक्तियाँ बना सकें और छात्रों की कुल संख्या एक पूर्ण वर्ग हो?

Ans

✘ 1. 6400

✔ 2. 900

✘ 3. 1600

✘ 4. 1800

Question Type : **MCQ**
Question ID : **264330139926**
Option 1 ID : **264330548086**
Option 2 ID : **264330548085**
Option 3 ID : **264330548084**
Option 4 ID : **264330548083**
Status : **Answered**
Chosen Option : **2**

Section : **Reasoning Ability and Problem Solving**

Join Telegram Group "HaryanaJobs.in"

Q.1 उस विकल्प को चुनिए जो तीसरी संख्या से ठीक उसी तरह संबंधित है जिस तरह दूसरी संख्या पहली संख्या से संबंधित है।

57 : 286 :: 43 : ?

Ans
1. 206
2. 215
3. 217
4. 216

Question Type : **MCQ**
Question ID : **264330140485**
Option 1 ID : **264330550320**
Option 2 ID : **264330550322**
Option 3 ID : **264330550321**
Option 4 ID : **264330550319**
Status : **Answered**
Chosen Option : **4**

Q.2 एक निश्चित कूट भाषा में, 'APPALL' को 'JLYPNA' लिखा जाता है। उस कूट भाषा में 'APPEND' को कैसे लिखा जाएगा?

Ans
1. BNCPNA
2. BCNPNA
3. BNCPAN
4. BCNNPA

Question Type : **MCQ**
Question ID : **264330140961**
Option 1 ID : **264330552193**
Option 2 ID : **264330552192**
Option 3 ID : **264330552194**
Option 4 ID : **264330552191**
Status : **Answered**
Chosen Option : **1**

Q.3 दी गई श्रृंखला में निम्नलिखित में से कौन-सी संख्या प्रश्न चिन्ह (?) के स्थान पर आएगी?

63, 64, 60, 69, 53, ?

Ans
1. 78
2. 77
3. 76
4. 88

Question Type : **MCQ**
Question ID : **264330140045**
Option 1 ID : **264330548561**
Option 2 ID : **264330548559**
Option 3 ID : **264330548560**
Option 4 ID : **264330548562**
Status : **Answered**
Chosen Option : **1**

Join Telegram Group "HaryanaJobs.in"

Q.4 एक श्रृंखला दी गई है जिसमें एक पद लुप्त है। दिए गए विकल्पों में से उस सही विकल्प को चुनिए जो श्रृंखला को पूरा करेगा ।

CAB, DDG, EGL, FJQ, ?

Ans

✗ 1. GMU

✗ 2. GNV

✓ 3. GMV

✗ 4. GNU

Question Type : **MCQ**
Question ID : **264330140053**
Option 1 ID : **264330548594**
Option 2 ID : **264330548591**
Option 3 ID : **264330548593**
Option 4 ID : **264330548592**
Status : **Answered**
Chosen Option : **3**

Q.5 निम्नलिखित प्रश्न में कुछ कथन दिए गए हैं और उन कथनों के आधार पर कुछ निष्कर्ष दिए गए हैं। आपको मानना है कि दिए गए कथन सत्य हैं चाहे वे समान्यतः ज्ञात तथ्यों से अलग प्रतीत होते हों। सभी निष्कर्षों को पढ़िए और फिर निश्चय कीजिए कि दिए गए निष्कर्षों में से कौन-सा निष्कर्ष तार्किक रूप से दिए गए कथनों के अनुसार है।

कथन:

I. कुछ लड़के, मनुष्य हैं।

II. सभी मनुष्य, कठोर हैं।

निष्कर्ष:

I. कुछ कठोर, लड़के नहीं हैं।

II. कुछ मनुष्य, लड़के नहीं हैं।

III. कोई कठोर, मनुष्य नहीं है।

Ans

✗ 1. दोनों निष्कर्ष II और III कथनों के अनुसार हैं

✗ 2. दोनों निष्कर्ष I और III कथनों के अनुसार हैं

✗ 3. केवल निष्कर्ष I कथनों के अनुसार है

✓ 4. कोई भी निष्कर्ष कथनों के अनुसार नहीं है

Question Type : **MCQ**
Question ID : **264330140063**
Option 1 ID : **264330548632**
Option 2 ID : **264330548633**
Option 3 ID : **264330548631**
Option 4 ID : **264330548634**
Status : **Answered**
Chosen Option : **4**

Join Telegram Group "HaryanaJobs.in"

Q.6 दो कथन दिए गए हैं और दो निष्कर्ष I और II दिए गए हैं। कथनों को सत्य मानते हुए, चाहे वे सामान्यतः ज्ञात तथ्यों से अलग प्रतीत होते हों, निश्चय कीजिए कि कौन-सा निष्कर्ष तार्किक रूप से कथनों के अनुसार है।

कथन:

सभी नीले, पीले हैं।

सभी पीले, लाल हैं।

निष्कर्ष:

I. कुछ नीले, लाल हैं।

II. सभी लाल, पीले हैं।

Ans

✗ 1. दोनों निष्कर्ष I और II कथनों के अनुसार हैं

✗ 2. निष्कर्ष I और II में से कोई भी कथनों के अनुसार नहीं है

✗ 3. सिर्फ निष्कर्ष II कथनों के अनुसार है

✓ 4. सिर्फ निष्कर्ष I कथनों के अनुसार है

Question Type : **MCQ**
Question ID : **264330138776**
Option 1 ID : **264330543713**
Option 2 ID : **264330543714**
Option 3 ID : **264330543712**
Option 4 ID : **264330543711**
Status : **Answered**
Chosen Option : **4**

Q.7 आठ मित्र अनिल, कमल, राम, संजय, आकाश, विवेक, राहुल और रामू एक वृत्ताकार मेज के चारों ओर केंद्र की ओर मुख करके बैठे हैं (परंतु जरूरी नहीं कि वे इसी क्रम में बैठे हों)। विवेक, अनिल के दाईं ओर से दूसरे स्थान पर है। कमल, अनिल के बाईं ओर से तीसरे स्थान पर है। रामू, विवेक के दाईं ओर से दूसरे स्थान पर है। राम, रामू के दाईं ओर से दूसरे स्थान पर है। आकाश, राहुल के दाईं ओर से दूसरे स्थान पर है। राहुल, विवेक का निकटतम पड़ोसी नहीं है। आकाश के दाईं ओर से तीसरे स्थान पर कौन है?

Ans

✗ 1. राम

✗ 2. विवेक

✗ 3. कमल

✓ 4. रामू

Question Type : **MCQ**
Question ID : **264330139574**
Option 1 ID : **264330546711**
Option 2 ID : **264330546714**
Option 3 ID : **264330546713**
Option 4 ID : **264330546712**
Status : **Answered**
Chosen Option : **4**

Join Telegram Group "HaryanaJobs.in"

Q.8 उस विकल्प आकृति को चुनिए जिसमें दी गई आकृति उसके भाग के रूप में निहित है (घूर्णन की अनुमति नहीं है)।

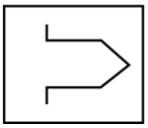

Ans

✗ 1.

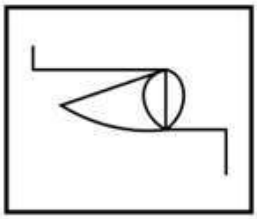

✗ 2.

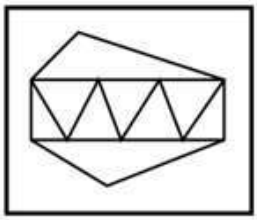

✗ 3.

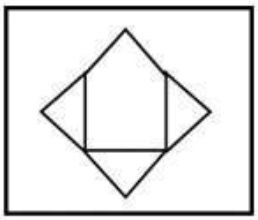

✓ 4.

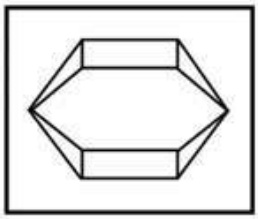

Question Type : **MCQ**
Question ID : **264330140090**
Option 1 ID : **264330548739**
Option 2 ID : **264330548740**
Option 3 ID : **264330548742**
Option 4 ID : **264330548741**
Status : **Answered**
Chosen Option : **4**

Join Telegram Group "HaryanaJobs.in"

Q.9 उस विकल्प आकृति को चुनिए जो नीचे दी गई आकृति में पैटर्न को पूरा करने के लिए प्रश्न चिन्ह (?) के स्थान पर आएगी। (घूर्णन की अनुमति नहीं है)

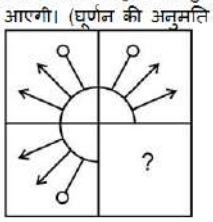

Ans

✗ 1.

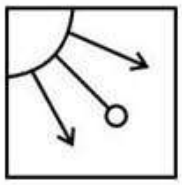

✓ 2.

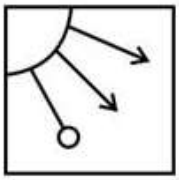

✗ 3.

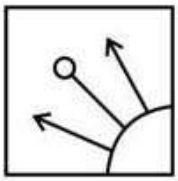

✗ 4.

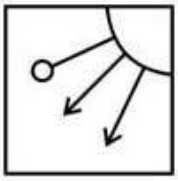

Question Type : **MCQ**
Question ID : **264330135367**
Option 1 ID : **264330530376**
Option 2 ID : **264330530377**
Option 3 ID : **264330530375**
Option 4 ID : **264330530378**
Status : **Answered**
Chosen Option : **2**

Join Telegram Group "HaryanaJobs.in"

Q.10 उस विकल्प को चुनिए जिसमें समुच्चय की संख्याएँ वही संबंध साझा करती हैं जो दिए गए समुच्चय में संख्याओं द्वारा साझा किया जाता है। (ध्यान दें: संख्याओं को उनके घटक अंकों में अलग-अलग किए बिना, पूर्ण संख्याओं पर संक्रियाएँ की जानी चाहिए। उदा. 13 – 13 पर संक्रियाएँ जैसे 13 को जोड़ना /घटाना /गुणा करना आदि किया जा सकता है। 13 को 1 और 3 में अलग-अलग करने की और फिर 1 और 3 पर गणितीय संक्रियाएँ करने की अनुमति नहीं है)

(4, 1, 25)

(8, 5, 169)

Ans

✗ 1. (2, 7, 100)

✗ 2. (4, 9, 144)

✗ 3. (10, 8, 361)

✓ 4. (5, 9, 196)

Question Type : **MCQ**
Question ID : **264330140990**
Option 1 ID : **264330552307**
Option 2 ID : **264330552308**
Option 3 ID : **264330552310**
Option 4 ID : **264330552309**
Status : **Answered**
Chosen Option : **4**

Q.11 दिए गए दो चिन्हों और दो संख्याओं को आपस में बदलने पर दिए गए समीकरण का मान क्या होगा?

÷ और ×, 7 और 4 ; 7 ÷ 6 + 4 – 3 × 1

Ans

✗ 1. 35

✗ 2. 20

✓ 3. 28

✗ 4. 50

Question Type : **MCQ**
Question ID : **264330140991**
Option 1 ID : **264330552313**
Option 2 ID : **264330552312**
Option 3 ID : **264330552311**
Option 4 ID : **264330552314**
Status : **Answered**
Chosen Option : **3**

Q.12 पाँच सहेलियों परिणीता, नाइरा, रिंकी, सृष्टि और टीना में, टीना केवल तीन अन्य सहेलियों से लंबी है। रिंकी सभी सहेलियों में सबसे लंबी है। नाइरा केवल एक सहेली से लंबी है। केवल दो सहेलियाँ परिणीता से लंबी हैं। सभी सहेलियों में किसका कद सबसे छोटा है?

Ans

✗ 1. टीना

✗ 2. परिणीता

✓ 3. सृष्टि

✗ 4. नाइरा

Question Type : **MCQ**
Question ID : **264330140440**
Option 1 ID : **264330550141**
Option 2 ID : **264330550139**
Option 3 ID : **264330550142**
Option 4 ID : **264330550140**
Status : **Answered**
Chosen Option : **3**

Join Telegram Group "HaryanaJobs.in"

Q.13 (::) के बाईं ओर दिए गए शब्द आपस में किसी तर्क/नियम/संबंध द्वारा संबंधित हैं। समान तर्क/नियम/संबंध के आधार पर दिए गए विकल्पों में से (::) के दाईं ओर लुप्त शब्द/शब्द युग्म को चुनिए।

फसल : किसान :: किताब : ?

Ans

✔ 1. लेखक

✘ 2. नाटककार

✘ 3. कागज़

✘ 4. पढ़ना

Question Type : **MCQ**
Question ID : **264330140957**
Option 1 ID : **264330552175**
Option 2 ID : **264330552176**
Option 3 ID : **264330552178**
Option 4 ID : **264330552177**
Status : **Answered**
Chosen Option : **1**

Q.14 एक निश्चित कूट भाषा में, 'LUCK' को 'HQYG' लिखा जाता है। उस कूट भाषा में 'MATH' को कैसे लिखा जाएगा?

Ans

✔ 1. IWPD

✘ 2. IWPE

✘ 3. IWQD

✘ 4. IWPC

Question Type : **MCQ**
Question ID : **264330139974**
Option 1 ID : **264330548275**
Option 2 ID : **264330548278**
Option 3 ID : **264330548277**
Option 4 ID : **264330548276**
Status : **Answered**
Chosen Option : **1**

Q.15 सात लड़कियाँ A, B, C, D, E, F और G एक वृत्ताकार मेज के चारों ओर केंद्र से विपरीत दिशा की ओर मुख करके बैठी हैं (परंतु जरूरी नहीं कि वे इसी क्रम में बैठीं हों)। D, G के दाईं ओर से दूसरे स्थान पर है। G, C के दाईं ओर से तीसरे स्थान पर है। F, B के दाईं ओर से तीसरे स्थान पर है। A, C की निकटतम पड़ोसी नहीं है। E, C की निकटतम पड़ोसी है। A के दाईं ओर से दूसरे स्थान पर कौन बैठा है?

Ans

✔ 1. F

✘ 2. G

✘ 3. C

✘ 4. E

Question Type : **MCQ**
Question ID : **264330139555**
Option 1 ID : **264330546637**
Option 2 ID : **264330546636**
Option 3 ID : **264330546635**
Option 4 ID : **264330546638**
Status : **Answered**
Chosen Option : **1**

Join Telegram Group "HaryanaJobs.in"

Q.16 एक निश्चित कूट भाषा में, 'FUNNY' को 'LATTE' लिखा जाता है और 'DRIVE' को 'JXOBK' लिखा जाता है। उस कूट भाषा में 'CLASS' को कैसे लिखा जाएगा?

Ans
1. IRHYY
2. IRGZZ
3. IRGYY
4. IRGXX

Question Type : **MCQ**
Question ID : **264330140456**
Option 1 ID : **264330550206**
Option 2 ID : **264330550205**
Option 3 ID : **264330550204**
Option 4 ID : **264330550203**
Status : **Answered**
Chosen Option : **1**

Q.17 दिए गए समीकरण को सही करने के लिए किन दो संख्याओं को आपस में बदला जाना चाहिए?
108 ÷ 6 - 18 + 8 × 9 = 42

Ans
1. 18 और 9
2. 6 और 8
3. 9 और 6
4. 108 और 18

Question Type : **MCQ**
Question ID : **264330140129**
Option 1 ID : **264330548897**
Option 2 ID : **264330548896**
Option 3 ID : **264330548898**
Option 4 ID : **264330548895**
Status : **Answered**
Chosen Option : **3**

Q.18 दी गई श्रृंखला में निम्नलिखित में से कौन-सी संख्या प्रश्न चिन्ह (?) के स्थान पर आएगी?
8, 24, 40, 56, 72, 88, 104, ?

Ans
1. 320
2. 120
3. 420
4. 220

Question Type : **MCQ**
Question ID : **264330140002**
Option 1 ID : **264330548387**
Option 2 ID : **264330548390**
Option 3 ID : **264330548388**
Option 4 ID : **264330548389**
Status : **Answered**
Chosen Option : **2**

Join Telegram Group "HaryanaJobs.in"

Q.19 उस विकल्प को चुनिए जो तीसरे शब्द से ठीक उसी तरह संबंधित है जिस तरह दूसरा शब्द पहले शब्द से संबंधित है।
स्वीकारना : नकारना :: नफ़रत करना : ?

Ans

✗ 1. उपेक्षा करना

✗ 2. घृणा करना

✗ 3. आलोचना करना

✓ 4. बहुत प्रेम करना

Question Type : **MCQ**
Question ID : **264330140394**
Option 1 ID : **264330549958**
Option 2 ID : **264330549955**
Option 3 ID : **264330549957**
Option 4 ID : **264330549956**
Status : **Answered**
Chosen Option : **4**

Join Telegram Group "HaryanaJobs.in"

Q.20 दी गई आकृति के उस सही दर्पण प्रतिबिंब को चुनिए, जो दर्पण को आकृति के दाईं ओर रखने पर बनेगा।

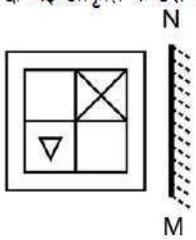

Ans

✗ 1.

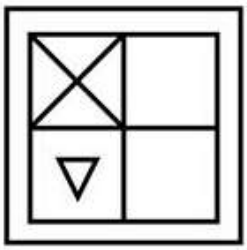

✓ 2.

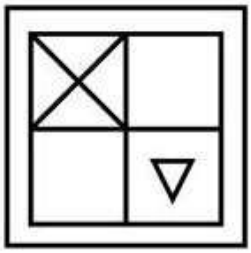

✗ 3.

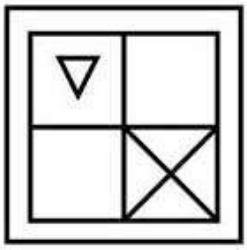

✗ 4.

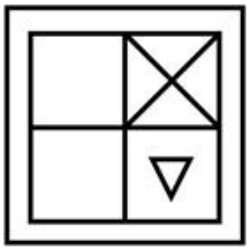

Question Type : **MCQ**
Question ID : **264330140151**
Option 1 ID : **264330548985**
Option 2 ID : **264330548984**
Option 3 ID : **264330548983**
Option 4 ID : **264330548986**
Status : **Answered**
Chosen Option : **2**

Section : **General Awareness**

Join Telegram Group "HaryanaJobs.in"

Q.1 किस भारतीय संगीतकार को अपने एल्बम 'डिवाइन टाइड्स (Divine Tides)' के लिए वर्ष 2022 में दूसरा ग्रैमी पुरस्कार मिला था?

Ans
1. तन्वी शाह (Tanvi Shah)
2. मनोज जॉर्ज (Manoj George)
3. रिकी केज (Ricky Kej)
4. पी. ए. दीपक (P. A. Deepak)

Question Type : **MCQ**
Question ID : **264330140385**
Option 1 ID : **264330549921**
Option 2 ID : **264330549922**
Option 3 ID : **264330549920**
Option 4 ID : **264330549919**
Status : **Answered**
Chosen Option : **3**

Q.2 _____ वे वाहिकाएँ हैं जो रक्त को हृदय से दूर शरीर के विभिन्न भागों तक ले जाती हैं।

Ans
1. प्लाज्मा
2. शिराएँ
3. श्वासनली
4. धमनियाँ

Question Type : **MCQ**
Question ID : **264330138960**
Option 1 ID : **264330544448**
Option 2 ID : **264330544449**
Option 3 ID : **264330544450**
Option 4 ID : **264330544447**
Status : **Answered**
Chosen Option : **4**

Q.3 निम्नलिखित में से किस राज्य के मुख्यमंत्री ने नवंबर 2022 में लाड़ली लक्ष्मी योजना 2.0 (Ladli Laxmi Scheme 2.0) के दूसरे चरण का शुभारंभ किया?

Ans
1. मध्यप्रदेश
2. बिहार
3. आंध्रप्रदेश
4. उत्तरप्रदेश

Question Type : **MCQ**
Question ID : **264330141046**
Option 1 ID : **264330552531**
Option 2 ID : **264330552534**
Option 3 ID : **264330552532**
Option 4 ID : **264330552533**
Status : **Answered**
Chosen Option : **1**

Join Telegram Group "HaryanaJobs.in"

Q.4 2022 तक, निम्नलिखित में से कौन-सा देश भारतीय लौह अयस्क का सबसे बड़ा आयातक (importer) है?

Ans
1. रूस
2. संयुक्त राज्य अमेरिका
3. फ्रांस
4. चीन

Question Type : **MCQ**
Question ID : **264330140760**
Option 1 ID : **264330551390**
Option 2 ID : **264330551387**
Option 3 ID : **264330551389**
Option 4 ID : **264330551388**
Status : **Answered**
Chosen Option : **1**

Q.5 'गोल्डन गर्ल (Golden Girl)' _____ की आत्मकथा है।

Ans
1. साइना नेहवाल
2. पी.टी. उषा
3. दिव्या दत्ता
4. नीना गुप्ता

Question Type : **MCQ**
Question ID : **264330140272**
Option 1 ID : **264330549470**
Option 2 ID : **264330549468**
Option 3 ID : **264330549467**
Option 4 ID : **264330549469**
Status : **Answered**
Chosen Option : **3**

Q.6 भारतीय उपमहाद्वीप में, कितने देश उपमहाद्वीप के प्रत्येक सदस्य देश के साथ अपनी भूमि सीमाएँ साझा करते हैं?

Ans
1. दो
2. एक
3. चार
4. तीन

Question Type : **MCQ**
Question ID : **264330139716**
Option 1 ID : **264330547280**
Option 2 ID : **264330547279**
Option 3 ID : **264330547282**
Option 4 ID : **264330547281**
Status : **Answered**
Chosen Option : **1**

Join Telegram Group "HaryanaJobs.in"

Q.7 1925 के काकोरी कांड (काकोरी ट्रेन एक्शन) में कौन-सा स्वतंत्रता सेनानी शामिल था, जिसके लिए ब्रिटिश सरकार ने उसे मौत की सजा सुनाई थी?

Ans
✔ 1. राम प्रसाद बिस्मिल
✘ 2. विनायक दामोदर सावरकर
✘ 3. महात्मा गांधी
✘ 4. लाला हरदयाल

Question Type : **MCQ**
Question ID : **264330140921**
Option 1 ID : **264330552034**
Option 2 ID : **264330552032**
Option 3 ID : **264330552033**
Option 4 ID : **264330552031**
Status : **Answered**
Chosen Option : **1**

Q.8 निम्नलिखित में से क्या जीवन की संरचनात्मक और मौलिक इकाई है?

Ans
✘ 1. किण्वक
✔ 2. कोशिका
✘ 3. ऊतक
✘ 4. हार्मोन

Question Type : **MCQ**
Question ID : **264330140323**
Option 1 ID : **264330549671**
Option 2 ID : **264330549673**
Option 3 ID : **264330549672**
Option 4 ID : **264330549674**
Status : **Answered**
Chosen Option : **2**

Q.9 प्रतिस्पर्धा संशोधन विधेयक, 2022 के अनुसार, गन-जंपिंग (gun-jumping) के लिए प्रस्तावित जुर्माना सौदे के मूल्य (deal value) का _____ है।

Ans
✘ 1. 2%
✘ 2. 0.5%
✘ 3. 1.5%
✔ 4. 1%

Question Type : **MCQ**
Question ID : **264330141047**
Option 1 ID : **264330552538**
Option 2 ID : **264330552535**
Option 3 ID : **264330552537**
Option 4 ID : **264330552536**
Status : **Not Answered**
Chosen Option : **--**

Join Telegram Group "HaryanaJobs.in"

Q.10 भीमबेटका (Bhimbetka) गुफाएँ निम्नलिखित में से किस राज्य में स्थित हैं?

Ans
1. हरियाणा
2. गुजरात
3. मध्यप्रदेश
4. राजस्थान

Question Type : **MCQ**
Question ID : **264330139669**
Option 1 ID : **264330547094**
Option 2 ID : **264330547093**
Option 3 ID : **264330547092**
Option 4 ID : **264330547091**
Status : **Answered**
Chosen Option : **3**

Q.11 निम्नलिखित में से कौन सी पुस्तक डॉ रघुराम राजन द्वारा लिखी गई थी?

Ans
1. द थर्ड पिलर (The Third Pillar)
2. माइ लाइफ इन फुल (My Life in Full)
3. वी आर डिस्प्लेस्ड (We are Displaced)
4. द इंडिया स्टोरी (The India Story)

Question Type : **MCQ**
Question ID : **264330141063**
Option 1 ID : **264330552600**
Option 2 ID : **264330552602**
Option 3 ID : **264330552599**
Option 4 ID : **264330552601**
Status : **Answered**
Chosen Option : **1**

Q.12 "खुदाई खिदमतगार (Khudai Khidmatgars)" नामक एक अहिंसक आंदोलन के संस्थापक कौन थे?

Ans
1. ख़ान अब्दुल ग़फ़्फ़ार ख़ान
2. मोहम्मद अली जिन्ना
3. सी. राजगोपालाचारी
4. महात्मा गांधी

Question Type : **MCQ**
Question ID : **264330139890**
Option 1 ID : **264330547939**
Option 2 ID : **264330547942**
Option 3 ID : **264330547940**
Option 4 ID : **264330547941**
Status : **Answered**
Chosen Option : **1**

Join Telegram Group "HaryanaJobs.in"

Q.13 भारत में पहली असमकालिक (non-synchronous) जनगणना कब हुई थी?

Ans
1. सन् 1792
2. सन् 1972
3. सन् 1772
4. सन् 1872

Question Type : **MCQ**
Question ID : **264330140378**
Option 1 ID : **264330549894**
Option 2 ID : **264330549893**
Option 3 ID : **264330549891**
Option 4 ID : **264330549892**
Status : **Answered**
Chosen Option : **3**

Q.14 42वें संशोधन द्वारा भारत के संविधान में कितने मौलिक कर्तव्य शामिल किए गए हैं?

Ans
1. 11
2. 9
3. 12
4. 10

Question Type : **MCQ**
Question ID : **264330140951**
Option 1 ID : **264330552151**
Option 2 ID : **264330552153**
Option 3 ID : **264330552154**
Option 4 ID : **264330552152**
Status : **Answered**
Chosen Option : **1**

Q.15 जून 2022 में, "आर्थिक मामलों पर मंत्रिमंडलीय समिति" ने _____ के अविनियमन को मंजूरी दे दी है।

Ans
1. रक्षा उपकरणों की बिक्री
2. घरेलू स्तर पर उत्पादित कच्चे तेल की बिक्री
3. परमाणु हथियारों की बिक्री
4. रासायनिक हथियारों की बिक्री

Question Type : **MCQ**
Question ID : **264330139757**
Option 1 ID : **264330547444**
Option 2 ID : **264330547443**
Option 3 ID : **264330547445**
Option 4 ID : **264330547446**
Status : **Not Answered**
Chosen Option : **--**

Join Telegram Group "HaryanaJobs.in"

Q.16 राष्ट्रीय आदिवासी नृत्य महोत्सव 2022 कहाँ आयोजित किया गया था?

Ans
1. पुणे
2. पुरी
3. रायपुर
4. जयपुर

Question Type : **MCQ**
Question ID : **264330138947**
Option 1 ID : **264330544397**
Option 2 ID : **264330544398**
Option 3 ID : **264330544395**
Option 4 ID : **264330544396**
Status : **Answered**
Chosen Option : **4**

Q.17 एक वर्ष में प्रति हजार व्यक्तियों पर जीवित जन्मों (live births) की संख्या को _____ कहा जाता है।

Ans
1. जन्म दर
2. स्थूल दर
3. मृत्यु दर
4. प्रजनन दर

Question Type : **MCQ**
Question ID : **264330141057**
Option 1 ID : **264330552578**
Option 2 ID : **264330552576**
Option 3 ID : **264330552577**
Option 4 ID : **264330552575**
Status : **Answered**
Chosen Option : **1**

Q.18 ट्रेजरी (राजकोष) बिल _____ द्वारा जारी किए जाते हैं।

Ans
1. भारतीय बीमा नियामक प्राधिकरण
2. भारतीय प्रतिभूति और विनिमय बोर्ड
3. भारत सरकार
4. भारतीय रिज़र्व बैंक

Question Type : **MCQ**
Question ID : **264330138956**
Option 1 ID : **264330544433**
Option 2 ID : **264330544434**
Option 3 ID : **264330544432**
Option 4 ID : **264330544431**
Status : **Answered**
Chosen Option : **4**

Join Telegram Group "HaryanaJobs.in"

Q.19 वर्ष 2018 के लिए विजडन लीडिंग क्रिकेटर (Wisden's Leading Cricketer) कौन बने?

Ans
✔ 1. विराट कोहली
✘ 2. रोहित शर्मा
✘ 3. बेन स्टोक्स
✘ 4. केन विलियमसन

Question Type : **MCQ**
Question ID : **264330140271**
Option 1 ID : **264330549466**
Option 2 ID : **264330549465**
Option 3 ID : **264330549464**
Option 4 ID : **264330549463**
Status : **Answered**
Chosen Option : **3**

Q.20 यामिनी कृष्णमूर्ति किस नृत्य शैली की प्रसिद्ध नृत्यांगना हैं?

Ans
✘ 1. मोहिनीअट्टम
✘ 2. ओडिसी
✔ 3. भरतनाट्यम
✘ 4. बिहू

Question Type : **MCQ**
Question ID : **264330140294**
Option 1 ID : **264330549556**
Option 2 ID : **264330549558**
Option 3 ID : **264330549555**
Option 4 ID : **264330549557**
Status : **Answered**
Chosen Option : **3**

Q.21 अकबर की राजस्व प्रणाली "ज़ब्त" _____ द्वारा विकसित की गई थी।

Ans
✘ 1. राजा भारमल
✘ 2. राजा मानसिंह
✘ 3. बैरम खाँ
✔ 4. टोडरमल

Question Type : **MCQ**
Question ID : **264330138993**
Option 1 ID : **264330544581**
Option 2 ID : **264330544579**
Option 3 ID : **264330544580**
Option 4 ID : **264330544582**
Status : **Answered**
Chosen Option : **3**

Join Telegram Group "HaryanaJobs.in"

Q.22 राइडर कप (Ryder Cup) _____ खेल से जुड़ा है।

Ans
✔ 1. गोल्फ़
✘ 2. क्रिकेट
✘ 3. तैराकी
✘ 4. साइक्लिंग

Question Type : **MCQ**
Question ID : **264330140723**
Option 1 ID : **264330551241**
Option 2 ID : **264330551239**
Option 3 ID : **264330551242**
Option 4 ID : **264330551240**
Status : **Not Answered**
Chosen Option : **--**

Q.23 दिलवाड़ा मंदिर भारत के सबसे बेहतरीन और अपनी स्थापत्यकला के लिए प्रसिद्ध _____ मंदिरों में से एक है।

Ans
✘ 1. बौद्ध
✘ 2. हिंदू
✔ 3. जैन
✘ 4. सिख

Question Type : **MCQ**
Question ID : **264330140371**
Option 1 ID : **264330549865**
Option 2 ID : **264330549864**
Option 3 ID : **264330549866**
Option 4 ID : **264330549863**
Status : **Answered**
Chosen Option : **3**

Q.24 निम्न में से कौन-सी धातु अमलगम (amalgam) में सदैव एक घटक के रूप में विद्यमान होती है?

Ans
✘ 1. स्ट्रॉन्शियम
✔ 2. पारद
✘ 3. ऐलुमीनियम
✘ 4. जस्ता

Question Type : **MCQ**
Question ID : **264330140681**
Option 1 ID : **264330551073**
Option 2 ID : **264330551074**
Option 3 ID : **264330551072**
Option 4 ID : **264330551071**
Status : **Answered**
Chosen Option : **2**

Join Telegram Group "HaryanaJobs.in"

Q.25 उपग्रह वायुमंडल की निम्नलिखित में से किस परत में पृथ्वी की परिक्रमा करते हैं?

Ans
1. मध्यमंडल
2. बहिर्मंडल
3. समतापमंडल
4. क्षोभमंडल

Question Type : **MCQ**
Question ID : **264330141054**
Option 1 ID : **264330552565**
Option 2 ID : **264330552563**
Option 3 ID : **264330552566**
Option 4 ID : **264330552564**
Status : **Answered**
Chosen Option : **2**

Section : **English Language and Comprehension**

Q.1 Select the word from the options which is exactly opposite in meaning to the bracketed word given in the sentence below.
The Prime Minister is making no (rash) promises.

Ans
1. Immature
2. Considerate
3. Audacious
4. Bold

Question Type : **MCQ**
Question ID : **264330135864**
Option 1 ID : **264330532319**
Option 2 ID : **264330532322**
Option 3 ID : **264330532321**
Option 4 ID : **264330532320**
Status : **Answered**
Chosen Option : **2**

Q.2 Select the word segment that substitutes (replaces) the bracketed word segment correctly and completes the sentence meaningfully. Select the option 'no correction required' if the sentence is correct as given.

He gritted his teeth and tried to act as though he (either noticed nor cared).

Ans
1. neither noticed nor cared
2. either noticed or cared
3. neither noticed cared
4. No correction required

Question Type : **MCQ**
Question ID : **264330136269**
Option 1 ID : **264330533861**
Option 2 ID : **264330533859**
Option 3 ID : **264330533860**
Option 4 ID : **264330533862**
Status : **Answered**
Chosen Option : **1**

Join Telegram Group "HaryanaJobs.in"

Q.3 Select the most appropriate meaning of the given idiom

To pull your weight

Ans
1. To buy something
2. To give something
3. To help one's relatives
4. To do your full share of work

Question Type : **MCQ**
Question ID : **264330136207**
Option 1 ID : **264330533622**
Option 2 ID : **264330533619**
Option 3 ID : **264330533621**
Option 4 ID : **264330533620**
Status : **Answered**
Chosen Option : **4**

Q.4 Identify the segment that contains a grammatical error. If there is no error, select 'No error'.
Hearing those words / from his mouth, was / hard than I thought.

Ans
1. No error
2. from his mouth, was
3. Hearing those words
4. hard than I thought.

Question Type : **MCQ**
Question ID : **264330135690**
Option 1 ID : **264330531654**
Option 2 ID : **264330531652**
Option 3 ID : **264330531651**
Option 4 ID : **264330531653**
Status : **Answered**
Chosen Option : **4**

Q.5 Select the most appropriate option to fill in the blank.

A loud thud woke up everybody and nobody knew what all the _____ was about.

Ans
1. exoneration
2. commotion
3. culmination
4. abomination

Question Type : **MCQ**
Question ID : **264330136212**
Option 1 ID : **264330533639**
Option 2 ID : **264330533640**
Option 3 ID : **264330533642**
Option 4 ID : **264330533641**
Status : **Answered**
Chosen Option : **2**

Join Telegram Group "HaryanaJobs.in"

Q.6 Four sentences are given, out of which three have spelling errors. Choose the sentence with all correctly spelt words.

Ans

1. The teacher told him to watch his grammer. ✗
2. Thousands protested the election fraud. ✓
3. My friend happend by around dinnertime. ✗
4. That was an impressive and an irresistable necklace. ✗

Question Type : **MCQ**
Question ID : **264330136288**
Option 1 ID : **264330533931**
Option 2 ID : **264330533933**
Option 3 ID : **264330533932**
Option 4 ID : **264330533934**
Status : **Answered**
Chosen Option : **1**

Q.7 Select the most appropriate option to fill in the blank.

Some were very shaky and unstable, others were _____, and a few were both!

Ans

1. convoluted ✓
2. involuted ✗
3. voluted ✗
4. diluted ✗

Question Type : **MCQ**
Question ID : **264330136351**
Option 1 ID : **264330534178**
Option 2 ID : **264330534177**
Option 3 ID : **264330534176**
Option 4 ID : **264330534175**
Status : **Answered**
Chosen Option : **3**

Q.8 Select the most appropriate word for the given group of words.
License granted to an individual or group to market a company's goods or services in a particular territory

Ans

1. Marketing ✗
2. Franchise ✓
3. Monopoly ✗
4. Branding ✗

Question Type : **MCQ**
Question ID : **264330136175**
Option 1 ID : **264330533496**
Option 2 ID : **264330533498**
Option 3 ID : **264330533497**
Option 4 ID : **264330533495**
Status : **Answered**
Chosen Option : **1**

Join Telegram Group "HaryanaJobs.in"

Q.9 Select the most appropriate word for the given group of words.

The art of careful public speaking, using clear pronunciation

Ans
1. Incubation
2. Abdication
3. Elocution
4. Obrution

Question Type : **MCQ**
Question ID : **264330135730**
Option 1 ID : **264330531806**
Option 2 ID : **264330531804**
Option 3 ID : **264330531805**
Option 4 ID : **264330531803**
Status : **Answered**
Chosen Option : **3**

Q.10 Select the most appropriate option to substitute the bracketed segment in the given sentence. If there is no need to substitute it, select 'no substitution required'.

The ban has landed the circus managements in a tricky (situation as they can neither use them for the shows or) abandon them.

Ans
1. situation as they cannot either use them for the shows nor
2. situation as them can either use them for the shows or
3. situation as they can neither use them for the shows nor
4. No substitution required

Question Type : **MCQ**
Question ID : **264330136347**
Option 1 ID : **264330534159**
Option 2 ID : **264330534161**
Option 3 ID : **264330534160**
Option 4 ID : **264330534162**
Status : **Answered**
Chosen Option : **3**

Q.11 Select the most appropriate option to fill in the blank.

The _____ term "wasteland" is proposed to be replaced by the term "urban commons."

Ans
1. imperative
2. indicative
3. lucrative
4. derogatory

Question Type : **MCQ**
Question ID : **264330136193**
Option 1 ID : **264330533567**
Option 2 ID : **264330533568**
Option 3 ID : **264330533570**
Option 4 ID : **264330533569**
Status : **Answered**
Chosen Option : **2**

Join Telegram Group "HaryanaJobs.in"

Q.12 Select the most appropriate option to fill in the blank.

Her ribs were _____ but no longer painful.

Ans
1. sure ✗
2. soar ✗
3. sore ✓
4. sour ✗

Question Type : **MCQ**
Question ID : **264330135254**
Option 1 ID : **264330529938**
Option 2 ID : **264330529937**
Option 3 ID : **264330529936**
Option 4 ID : **264330529935**
Status : **Answered**
Chosen Option : **3**

Q.13 Select the most appropriate synonym of the given word.

Liberty

Ans
1. Freedom ✓
2. Acclamation ✗
3. Dependence ✗
4. Statue ✗

Question Type : **MCQ**
Question ID : **264330136426**
Option 1 ID : **264330534463**
Option 2 ID : **264330534466**
Option 3 ID : **264330534464**
Option 4 ID : **264330534465**
Status : **Answered**
Chosen Option : **1**

Q.14 Identify the segment that contains a grammatical error. If there is no error, select 'No error'.

Harry's eyes watered in / the chill as they soar upwards; he / could see nothing below now.

Ans
1. could see nothing below now. ✗
2. the chill as they soar upwards; he ✓
3. No error ✗
4. Harry's eyes watered in ✗

Question Type : **MCQ**
Question ID : **264330136111**
Option 1 ID : **264330533253**
Option 2 ID : **264330533252**
Option 3 ID : **264330533254**
Option 4 ID : **264330533251**
Status : **Answered**
Chosen Option : **1**

Join Telegram Group "HaryanaJobs.in"

Q.15 Choose the word that is opposite in meaning to the given word.

Similar

Ans

1. Resemblant ✗
2. Unlike ✓
3. Secretive ✗
4. Bizarre ✗

Question Type : **MCQ**
Question ID : **264330135170**
Option 1 ID : **264330529612**
Option 2 ID : **264330529613**
Option 3 ID : **264330529611**
Option 4 ID : **264330529614**
Status : **Answered**
Chosen Option : **2**

Q.16 Improve the underlined part of the sentence. Choose 'No improvement' as an answer if the sentence is grammatically correct.

A health person may carry germs of typhoid, cholera, dysentery, etc. in his body.

Ans

1. health persons might ✗
2. No improvement ✗
3. healthy person may ✓
4. healthy persons would ✗

Question Type : **MCQ**
Question ID : **264330135540**
Option 1 ID : **264330531063**
Option 2 ID : **264330531066**
Option 3 ID : **264330531064**
Option 4 ID : **264330531065**
Status : **Answered**
Chosen Option : **3**

Q.17 Identify the segment that contains a grammatical error. If there is no error, select 'No error'.
At night, lying sleepless, he considered / sending messengers besides the country, / secretly, in search of his friend.

Ans

1. sending messengers besides the country, ✓
2. At night, lying sleepless, he considered ✗
3. secretly, in search of his friend. ✗
4. No error ✗

Question Type : **MCQ**
Question ID : **264330135845**
Option 1 ID : **264330532248**
Option 2 ID : **264330532247**
Option 3 ID : **264330532249**
Option 4 ID : **264330532250**
Status : **Answered**
Chosen Option : **1**

Join Telegram Group "HaryanaJobs.in"

Q.18 Four words are given, out of which three words are spelt correctly. Choose the incorrectly spelt word.

Ans

✔ 1. Publically

✘ 2. Referred

✘ 3. Separate

✘ 4. Recommend

Question Type : **MCQ**
Question ID : **264330135867**
Option 1 ID : **264330532331**
Option 2 ID : **264330532333**
Option 3 ID : **264330532334**
Option 4 ID : **264330532332**
Status : **Answered**
Chosen Option : **3**

Q.19 Select the word from the options which is similar in meaning to the bracketed word given in the sentence below.
They are institutions built to hold and (continue) power for a political group.

Ans

✘ 1. waste

✘ 2. release

✔ 3. maintain

✘ 4. abandon

Question Type : **MCQ**
Question ID : **264330141197**
Option 1 ID : **264330553126**
Option 2 ID : **264330553125**
Option 3 ID : **264330553124**
Option 4 ID : **264330553123**
Status : **Answered**
Chosen Option : **3**

Q.20 The statement below has been given with bracketed text. Select the option with correct idiom for the bracketed text.

They were really (selecting from the last or worst of the resources left) when they picked you.

Ans

✘ 1. pulling up snakes

✘ 2. going haywire

✘ 3. rolling the stones

✔ 4. scraping the bottom of the barrel

Question Type : **MCQ**
Question ID : **264330136286**
Option 1 ID : **264330533925**
Option 2 ID : **264330533926**
Option 3 ID : **264330533924**
Option 4 ID : **264330533923**
Status : **Answered**
Chosen Option : **4**

Join Telegram Group "HaryanaJobs.in"

Comprehension:

In the following passage some words have been deleted. Fill in the blanks with the help of the alternatives given. Select the most appropriate option for each number.

The term Democracy (1) _____ from the Greek (2) _____ dêmos (people) and Kratos (power). In its (3) _____ meaning, democracy means the "rule of the people". In fact it is a form of government in which all eligible people have an (4) _____ say in the decisions that affect their lives. Democracy (5) _____ a political systems existed in some Greek city-states, notably Athens following a popular uprising in 508 BC.

SubQuestion No : 21

Q.21 Select the most appropriate option to fill in blank number 1.

Ans

✔ 1. comes

✘ 2. will come

✘ 3. is coming

✘ 4. came

Question Type : **MCQ**
Question ID : **264330135672**
Option 1 ID : **264330531580**
Option 2 ID : **264330531581**
Option 3 ID : **264330531582**
Option 4 ID : **264330531579**
Status : **Answered**
Chosen Option : **1**

Comprehension:

In the following passage some words have been deleted. Fill in the blanks with the help of the alternatives given. Select the most appropriate option for each number.

The term Democracy (1) _____ from the Greek (2) _____ dêmos (people) and Kratos (power). In its (3) _____ meaning, democracy means the "rule of the people". In fact it is a form of government in which all eligible people have an (4) _____ say in the decisions that affect their lives. Democracy (5) _____ a political systems existed in some Greek city-states, notably Athens following a popular uprising in 508 BC.

SubQuestion No : 22

Q.22 Select the most appropriate option to fill in blank number 2.

Ans

✔ 1. words

✘ 2. letters

✘ 3. numbers

✘ 4. symbols

Question Type : **MCQ**
Question ID : **264330135673**
Option 1 ID : **264330531585**
Option 2 ID : **264330531586**
Option 3 ID : **264330531584**
Option 4 ID : **264330531583**
Status : **Answered**
Chosen Option : **1**

Join Telegram Group "HaryanaJobs.in"

Comprehension:

In the following passage some words have been deleted. Fill in the blanks with the help of the alternatives given. Select the most appropriate option for each number.

The term Democracy (1) _____ from the Greek (2) _____ dêmos (people) and Kratos (power). In its (3) _____ meaning, democracy means the "rule of the people". In fact it is a form of government in which all eligible people have an (4) _____ say in the decisions that affect their lives. Democracy (5) _____ a political systems existed in some Greek city-states, notably Athens following a popular uprising in 508 BC.

SubQuestion No : 23

Q.23 Select the most appropriate option to fill in blank number 3.

Ans

✗ 1. metaphorical

✓ 2. literal

✗ 3. figurative

✗ 4. hyperbole

Question Type : **MCQ**
Question ID : **264330135674**
Option 1 ID : **264330531588**
Option 2 ID : **264330531590**
Option 3 ID : **264330531587**
Option 4 ID : **264330531589**
Status : **Answered**
Chosen Option : **2**

Comprehension:

In the following passage some words have been deleted. Fill in the blanks with the help of the alternatives given. Select the most appropriate option for each number.

The term Democracy (1) _____ from the Greek (2) _____ dêmos (people) and Kratos (power). In its (3) _____ meaning, democracy means the "rule of the people". In fact it is a form of government in which all eligible people have an (4) _____ say in the decisions that affect their lives. Democracy (5) _____ a political systems existed in some Greek city-states, notably Athens following a popular uprising in 508 BC.

SubQuestion No : 24

Q.24 Select the most appropriate option to fill in blank number 4.

Ans

✗ 1. irregular

✓ 2. equal

✗ 3. unequal

✗ 4. unfair

Question Type : **MCQ**
Question ID : **264330135675**
Option 1 ID : **264330531594**
Option 2 ID : **264330531593**
Option 3 ID : **264330531592**
Option 4 ID : **264330531591**
Status : **Answered**
Chosen Option : **2**

Join Telegram Group "HaryanaJobs.in"

Comprehension:

In the following passage some words have been deleted. Fill in the blanks with the help of the alternatives given. Select the most appropriate option for each number.

The term Democracy (1) _____ from the Greek (2) _____ dêmos (people) and Kratos (power). In its (3) _____ meaning, democracy means the "rule of the people". In fact it is a form of government in which all eligible people have an (4) _____ say in the decisions that affect their lives. Democracy (5) _____ a political systems existed in some Greek city-states, notably Athens following a popular uprising in 508 BC.

SubQuestion No : 25

Q.25 Select the most appropriate option to fill in blank number 5.

Ans

✔ 1. as

✘ 2. in

✘ 3. over

✘ 4. of

Question Type : **MCQ**
Question ID : **264330135676**
Option 1 ID : **264330531595**
Option 2 ID : **264330531596**
Option 3 ID : **264330531598**
Option 4 ID : **264330531597**
Status : **Answered**
Chosen Option : **2**

Join Telegram Group "HaryanaJobs.in"

Multi Tasking Non Technical Staff and Havaldar CBIC and CBN Examination 2022

Roll Number	HaryanaJobs.in
Candidate Name	HaryanaJobs.in
Venue Name	Shankara Group Of Institutions
Exam Date	15/05/2023
Exam Time	12:00 PM - 2:00 PM
Subject	MTS Non Tech Havaldar CBIC and CBN Examination 2022

Section : **Numerical and Mathematical Ability**

Q.1 A अकेले किसी काम को 60 दिनों में कर सकता है और B अकेले उसी काम को A द्वारा लिए गए समय से 33.33% कम समय में कर सकता है। B द्वारा अकेले काम को पूरा करने में लिया गया समय ज्ञात कीजिए।

Ans

✗ 1. 30 दिन

✓ 2. 40 दिन

✗ 3. 22 दिन

✗ 4. 17 दिन

Question Type : **MCQ**
Question ID : **264330133790**
Option 1 ID : **264330524183**
Option 2 ID : **264330524184**
Option 3 ID : **264330524185**
Option 4 ID : **264330524186**
Status : **Answered**
Chosen Option : **2**

Q.2 एक आदमी A से B तक 200 kmph की चाल से जाता है और 300 kmph की चाल से A तक वापस आता है। पूरी यात्रा के लिए उसकी औसत चाल ज्ञात कीजिये?

Ans

✗ 1. 345 kmph

✗ 2. 340 kmph

✓ 3. 240 kmph

✗ 4. 264 kmph

Question Type : **MCQ**
Question ID : **264330135100**
Option 1 ID : **264330529337**
Option 2 ID : **264330529335**
Option 3 ID : **264330529336**
Option 4 ID : **264330529338**
Status : **Answered**
Chosen Option : **3**

Join Telegram Group "HaryanaJobs.in"

Q.3 यदि A, B से 20 प्रतिशत कम है, तो B, A से कितने प्रतिशत अधिक है?

Ans
✗ 1. 50 प्रतिशत
✗ 2. 33.33 प्रतिशत
✗ 3. 20 प्रतिशत
✓ 4. 25 प्रतिशत

Question Type : **MCQ**
Question ID : **264330135048**
Option 1 ID : **264330529127**
Option 2 ID : **264330529128**
Option 3 ID : **264330529130**
Option 4 ID : **264330529129**
Status : **Answered**
Chosen Option : **3**

Q.4 यदि एक दुकानदार एक वस्तु को Rs. 4673 में बेचता है जिसका क्रय मूल्य Rs. 3456 था, तो दुकानदार का लाभ ज्ञात कीजिए

Ans
✗ 1. Rs. 1237
✗ 2. Rs. 1345
✗ 3. Rs. 1456
✓ 4. Rs. 1217

Question Type : **MCQ**
Question ID : **264330135094**
Option 1 ID : **264330529312**
Option 2 ID : **264330529313**
Option 3 ID : **264330529314**
Option 4 ID : **264330529311**
Status : **Answered**
Chosen Option : **4**

Q.5 प्रथम 10 प्राकृत संख्याओं का औसत क्या है?

Ans
✗ 1. 10
✓ 2. 5.5
✗ 3. 10.5
✗ 4. 5

Question Type : **MCQ**
Question ID : **264330135089**
Option 1 ID : **264330529291**
Option 2 ID : **264330529293**
Option 3 ID : **264330529294**
Option 4 ID : **264330529292**
Status : **Answered**
Chosen Option : **3**

Join Telegram Group "HaryanaJobs.in"

Q.6 एक धनराशि साधारण ब्याज पर 20 प्रतिशत वार्षिक दर पर 4 वर्ष में Rs.5400 हो जाती है। वह धनराशि क्या है?

Ans
✔ 1. Rs.3000
✘ 2. Rs.2000
✘ 3. Rs.2500
✘ 4. Rs.4000

Question Type : **MCQ**
Question ID : **264330135053**
Option 1 ID : **264330529148**
Option 2 ID : **264330529149**
Option 3 ID : **264330529150**
Option 4 ID : **264330529147**
Status : **Answered**
Chosen Option : **1**

Q.7 एक पंक्ति में बैठे चार छात्रों में से अंतिम तीन छात्रों की औसत आयु 48 वर्ष है और पहले तीन छात्रों की औसत आयु 50 वर्ष है। यदि पहले छात्र की आयु 56 वर्ष है, तो अंतिम छात्र की आयु कितनी है?

Ans
✘ 1. 60 वर्ष
✘ 2. 40 वर्ष
✔ 3. 50 वर्ष
✘ 4. 30 वर्ष

Question Type : **MCQ**
Question ID : **264330137325**
Option 1 ID : **264330537928**
Option 2 ID : **264330537929**
Option 3 ID : **264330537930**
Option 4 ID : **264330537927**
Status : **Answered**
Chosen Option : **1**

Q.8 एक धनराशि 12 वर्ष में स्वयं की दोगुनी हो जाती है। साधारण ब्याज का वार्षिक दर प्रतिशत ज्ञात कीजिए।

Ans
✘ 1. 11.11%
✘ 2. 6.25%
✘ 3. 9.09%
✔ 4. 8.33%

Question Type : **MCQ**
Question ID : **264330135076**
Option 1 ID : **264330529241**
Option 2 ID : **264330529240**
Option 3 ID : **264330529242**
Option 4 ID : **264330529239**
Status : **Answered**
Chosen Option : **4**

Join Telegram Group "HaryanaJobs.in"

Q.9 निम्नलिखित आलेख में 4 क्रमागत वर्षों में रागी के उत्पादन को दर्शाया गया है। किस वर्ष रागी का उत्पादन सर्वाधिक है?

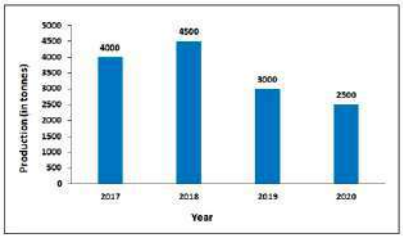

Production (in tonnes) - उत्पादन (टन में), Year - वर्ष

Ans

✗ 1. 2017

✗ 2. 2019

✗ 3. 2020

✓ 4. 2018

Question Type : **MCQ**
Question ID : **264330135104**
Option 1 ID : **264330529351**
Option 2 ID : **264330529353**
Option 3 ID : **264330529354**
Option 4 ID : **264330529352**
Status : **Answered**
Chosen Option : **4**

Q.10 एक धनराशि साधारण ब्याज पर 3 वर्ष में Rs. 610 और 4 वर्ष में Rs. 650 हो जाती है। वह धनराशि है:

Ans

✗ 1. Rs. 550

✓ 2. Rs. 490

✗ 3. Rs. 570

✗ 4. Rs. 610

Question Type : **MCQ**
Question ID : **264330135097**
Option 1 ID : **264330529324**
Option 2 ID : **264330529326**
Option 3 ID : **264330529323**
Option 4 ID : **264330529325**
Status : **Answered**
Chosen Option : **2**

Join Telegram Group "HaryanaJobs.in"

Q.11 नीचे दी गई तालिका में पाँच कक्षाओं में अलग-अलग खेल खेलने वाले विद्यार्थियों की संख्या को दर्शाया गया है।

	खेल		
कक्षा	A	B	C
6वीं	30	50	70
7वीं	60	20	35
8वीं	40	10	90
9वीं	38	26	50
10वीं	25	32	20

निम्नलिखित में से कौन-सा कथन सही है?

I. 9वीं कक्षा में A और B खेल खेलने वाले विद्यार्थियों की औसत संख्या 32 है।

II. 8वीं कक्षा में A और C खेल खेलने वाले विद्यार्थियों की औसत संख्या 75 है।

III. 10वीं कक्षा में तीनों खेल खेलने वाले विद्यार्थियों की कुल संख्या 77 है।

Ans

✗ 1. II और III

✗ 2. I और II

✓ 3. I और III

✗ 4. I, II और III

Question Type : **MCQ**
Question ID : **264330135062**
Option 1 ID : **264330529184**
Option 2 ID : **264330529183**
Option 3 ID : **264330529185**
Option 4 ID : **264330529186**
Status : **Answered**
Chosen Option : **3**

Q.12 12 पुरुष प्रतिदिन 4 घंटे कार्य करके एक कार्य को 6 दिनों में पूरा कर सकते हैं। यदि 4 पुरुष प्रतिदिन 8 घंटे कार्य करें, तो यही कार्य कितने दिनों में पूरा होगा?

Ans

✓ 1. 9 दिन

✗ 2. 6 दिन

✗ 3. 10 दिन

✗ 4. 8 दिन

Question Type : **MCQ**
Question ID : **264330137874**
Option 1 ID : **264330540103**
Option 2 ID : **264330540105**
Option 3 ID : **264330540104**
Option 4 ID : **264330540106**
Status : **Answered**
Chosen Option : **1**

Join Telegram Group "HaryanaJobs.in"

Q.13 एक व्यक्ति शुरुआती 15 km की दूरी 60 मिनट में और अगले 24 km की दूरी 30 मिनट में तय करता है। पूरी यात्रा में उसकी औसत चाल क्या है?

Ans

1. ✗ 29 km/hr
2. ✗ 23 km/hr
3. ✗ 33 km/hr
4. ✓ 26 km/hr

Question Type : **MCQ**
Question ID : **264330137179**
Option 1 ID : **264330537361**
Option 2 ID : **264330537360**
Option 3 ID : **264330537359**
Option 4 ID : **264330537362**
Status : **Answered**
Chosen Option : **4**

Q.14 पंकज एक वस्तु बेचकर 55 प्रतिशत का लाभ अर्जित करता है। वस्तु के क्रय मूल्य और विक्रय मूल्य का अनुपात क्या होगा?

Ans

1. ✗ 17 : 25
2. ✗ 20 : 37
3. ✗ 18 : 25
4. ✓ 20 : 31

Question Type : **MCQ**
Question ID : **264330137609**
Option 1 ID : **264330539043**
Option 2 ID : **264330539045**
Option 3 ID : **264330539046**
Option 4 ID : **264330539044**
Status : **Answered**
Chosen Option : **2**

Q.15 $9 \times 121 + 11 \times 84 \div 4$ का मान क्या है?

Ans

1. ✗ 1240
2. ✗ 1230
3. ✓ 1320
4. ✗ 1340

Question Type : **MCQ**
Question ID : **264330139012**
Option 1 ID : **264330544657**
Option 2 ID : **264330544655**
Option 3 ID : **264330544656**
Option 4 ID : **264330544658**
Status : **Answered**
Chosen Option : **3**

Join Telegram Group "HaryanaJobs.in"

Q.16 एक बाल्टी में 40 लाल गेंदें और 120 नीली गेंदें हैं। बाल्टी में लाल और नीली गेंदों का अनुपात है:

Ans
1. 1:3
2. 3:4
3. 2:3
4. 1:4

Question Type : **MCQ**
Question ID : **264330135096**
Option 1 ID : **264330529320**
Option 2 ID : **264330529322**
Option 3 ID : **264330529321**
Option 4 ID : **264330529319**
Status : **Answered**
Chosen Option : **1**

Q.17 एक खिलौने का अंकित मूल्य 100 रुपए है और विक्रय मूल्य 80 रुपए है। बट्टा प्रतिशत की गणना कीजिए।

Ans
1. 20 %
2. 10 %
3. 40 %
4. 30 %

Question Type : **MCQ**
Question ID : **264330135095**
Option 1 ID : **264330529316**
Option 2 ID : **264330529315**
Option 3 ID : **264330529318**
Option 4 ID : **264330529317**
Status : **Answered**
Chosen Option : **1**

Q.18 हल कीजिए : $\left[\left(\frac{144}{12}\right) + (43 \times 3)\right] + 45 - 20 \times 3$

Ans
1. 126
2. 127
3. 156
4. 111

Question Type : **MCQ**
Question ID : **264330135086**
Option 1 ID : **264330529281**
Option 2 ID : **264330529280**
Option 3 ID : **264330529282**
Option 4 ID : **264330529279**
Status : **Answered**
Chosen Option : **1**

Join Telegram Group "HaryanaJobs.in"

Q.19 एक अर्धगोले की त्रिज्या 5 cm है। आयतन ज्ञात कीजिए।

Ans
1. $117.9\ cm^3$ ✗
2. $150.6\ cm^3$ ✗
3. $330.4\ cm^3$ ✗
4. $261.9\ cm^3$ ✓

Question Type : **MCQ**
Question ID : **264330135432**
Option 1 ID : **264330530636**
Option 2 ID : **264330530638**
Option 3 ID : **264330530637**
Option 4 ID : **264330530635**
Status : **Answered**
Chosen Option : **4**

Q.20 यदि दो बेलनों की ऊँचाइयों का अनुपात 7 : 9 है और उनके व्यासों का अनुपात 6 : 7 है, तो बेलनों के आयतनों का अनुपात कितना है?

Ans
1. 7 : 9 ✗
2. 4 : 7 ✓
3. 5 : 9 ✗
4. 6 : 7 ✗

Question Type : **MCQ**
Question ID : **264330137887**
Option 1 ID : **264330540155**
Option 2 ID : **264330540156**
Option 3 ID : **264330540158**
Option 4 ID : **264330540157**
Status : **Answered**
Chosen Option : **3**

Section : **Reasoning Ability and Problem Solving**

Q.1 दी गई श्रृंखला में निम्नलिखित में से कौन-सी संख्या प्रश्न चिन्ह (?) के स्थान पर आएगी?
88, 92, 97, 103, 110, 118, ?

Ans
1. 117 ✗
2. 219 ✗
3. 127 ✓
4. 217 ✗

Question Type : **MCQ**
Question ID : **264330134945**
Option 1 ID : **264330528716**
Option 2 ID : **264330528718**
Option 3 ID : **264330528717**
Option 4 ID : **264330528715**
Status : **Answered**
Chosen Option : **3**

Join Telegram Group "HaryanaJobs.in"

Q.2 एक निश्चित कूट भाषा में, 'DARK' को 'ECSM' लिखा जाता है और 'TREE' को 'UTFG' लिखा जाता है। उस भाषा में 'GAME' को कैसे लिखा जाएगा?

Ans
1. HCNG
2. HCMG
3. HCNF
4. HCNH

Question Type : **MCQ**
Question ID : **264330133509**
Option 1 ID : **264330523069**
Option 2 ID : **264330523068**
Option 3 ID : **264330523067**
Option 4 ID : **264330523070**
Status : **Answered**
Chosen Option : **1**

Q.3 छः महिलाएँ अनु, प्रीति, आरती, कीर्ति, पूनम और सुमन एक वृत्ताकार मेज पर केंद्र की ओर मुख करके बैठी हैं।
प्रीति, पूनम के सम्मुख बैठी है। पूनम, कीर्ति और अनु के ठीक बीच में बैठी है। आरती, अनु के ठीक दाएँ पर बैठी है।
प्रीति के ठीक दाएँ पर कौन बैठा है?

Ans
1. अनु
2. सुमन
3. आरती
4. कीर्ति

Question Type : **MCQ**
Question ID : **264330134984**
Option 1 ID : **264330528871**
Option 2 ID : **264330528874**
Option 3 ID : **264330528872**
Option 4 ID : **264330528873**
Status : **Answered**
Chosen Option : **2**

Q.4 दिए गए समीकरण को सही करने के लिए किन दो चिन्हों को आपस में बदला जाना चाहिए?
13 − 25 = 5 + 4 ÷ 12

Ans
1. ÷ और =
2. + और =
3. - और =
4. + और -

Question Type : **MCQ**
Question ID : **264330134993**
Option 1 ID : **264330528909**
Option 2 ID : **264330528907**
Option 3 ID : **264330528908**
Option 4 ID : **264330528910**
Status : **Answered**
Chosen Option : **1**

Join Telegram Group "HaryanaJobs.in"

Q.5 दिए गए पैटर्न का ध्यानपूर्वक अध्ययन कीजिए और उस संख्या को चुनिए जो इसमें प्रश्न चिन्ह (?) के स्थान पर आ सकती है?
प्रथम पंक्ति- 7, 343, 49
द्वितीय पंक्ति- 6, 216, 36
तृतीय पंक्ति- 5, 125, ?

Ans
✗ 1. 85
✗ 2. 45
✗ 3. 30
✓ 4. 25

Question Type : **MCQ**
Question ID : **264330134992**
Option 1 ID : **264330528906**
Option 2 ID : **264330528904**
Option 3 ID : **264330528903**
Option 4 ID : **264330528905**
Status : **Answered**
Chosen Option : **4**

Join Telegram Group "HaryanaJobs.in"

Q.6 दी गई आकृति के उस सही दर्पण प्रतिबिंब को चुनिए जो दर्पण AB को आकृति के दाईं ओर रखने पर बनेगा ।

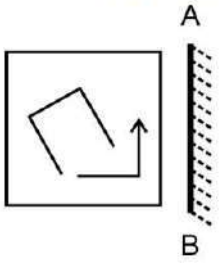

Ans

✗ 1.

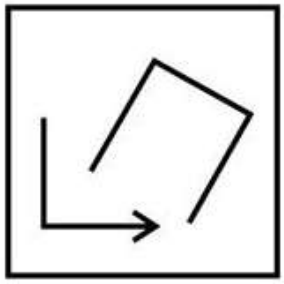

✗ 2.

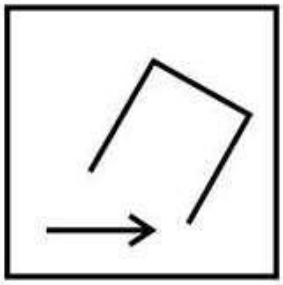

✓ 3.

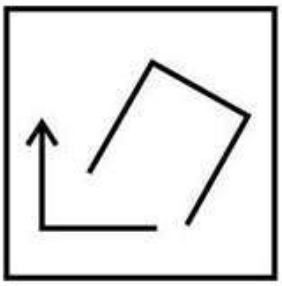

✗ 4.

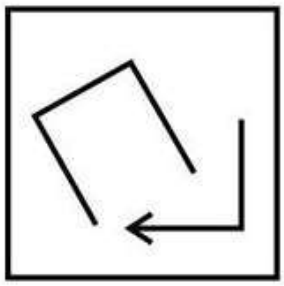

Question Type : **MCQ**
Question ID : **264330134952**
Option 1 ID : **264330528746**
Option 2 ID : **264330528743**
Option 3 ID : **264330528745**
Option 4 ID : **264330528744**
Status : **Answered**
Chosen Option : **3**

Join Telegram Group "HaryanaJobs.in"

Q.7 एक निश्चित कूट भाषा में, 'VOTED' को '76218' लिखा जाता है, 'WIDER' को '08759'लिखा जाता है, 'ADORE' को '79382' लिखा जाता है। उस कूट भाषा में 'ART' को कैसे लिखा जाएगा?

Ans

✗ 1. 387

✗ 2. 395

✗ 3. 397

✓ 4. 396

Question Type : **MCQ**
Question ID : **264330137372**
Option 1 ID : **264330538115**
Option 2 ID : **264330538116**
Option 3 ID : **264330538118**
Option 4 ID : **264330538117**
Status : **Answered**
Chosen Option : **1**

Q.8 सात लड़कों I, II, III, IV, V, VI और VII में प्रत्येक की उम्र अलग-अलग है। V केवल II से बड़ा है। I, केवल VI से छोटा है। III चार अन्य लड़कों से बड़ा है। VII, IV से छोटा है। लड़कों में चौथा सबसे बड़ा कौन है?

Ans

✗ 1. III

✗ 2. II

✓ 3. IV

✗ 4. I

Question Type : **MCQ**
Question ID : **264330134986**
Option 1 ID : **264330528880**
Option 2 ID : **264330528879**
Option 3 ID : **264330528881**
Option 4 ID : **264330528882**
Status : **Answered**
Chosen Option : **2**

Q.9 दिए गए समीकरण को सही करने के लिए किन दो चिन्हों को आपस में बदला जाना चाहिए?

$9 \times 4 + 6 \div 3 - 5 = 39$

Ans

✗ 1. × और +

✓ 2. - और +

✗ 3. ÷ और -

✗ 4. - और =

Question Type : **MCQ**
Question ID : **264330134972**
Option 1 ID : **264330528826**
Option 2 ID : **264330528823**
Option 3 ID : **264330528825**
Option 4 ID : **264330528824**
Status : **Answered**
Chosen Option : **2**

Join Telegram Group "HaryanaJobs.in"

Q.10 उस विकल्प को चुनिए जो तीसरे शब्द से ठीक उसी तरह संबंधित है जिस तरह दूसरा शब्द पहले शब्द से संबंधित है।
फल : अनार : : स्तनपायी : ?

Ans

✔ 1. कुत्ता

✘ 2. छिपकली

✘ 3. साँप

✘ 4. कबूतर

Question Type : **MCQ**
Question ID : **264330134979**
Option 1 ID : **264330528851**
Option 2 ID : **264330528853**
Option 3 ID : **264330528852**
Option 4 ID : **264330528854**
Status : **Answered**
Chosen Option : **2**

Join Telegram Group "HaryanaJobs.in"

Q.11 उस विकल्प आकृति को चुनिए जिसमें दी गई आकृति (X) उसके भाग के रूप में निहित है (घूर्णन की अनुमति नहीं है)।

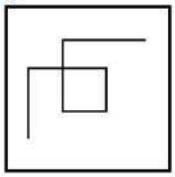

(X)

Ans

✗ 1.

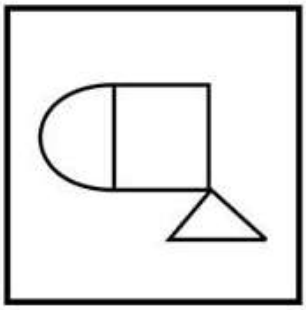

✗ 2.

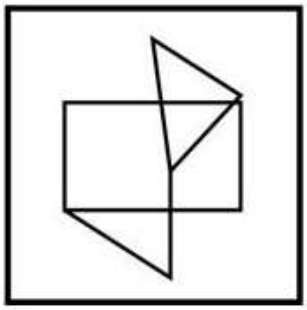

✗ 3.

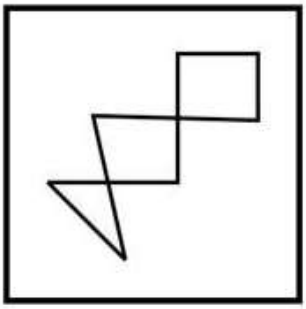

✓ 4.

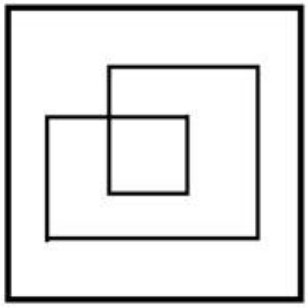

Question Type : **MCQ**
Question ID : **264330134951**
Option 1 ID : **264330528740**
Option 2 ID : **264330528739**
Option 3 ID : **264330528742**
Option 4 ID : **264330528741**
Status : **Answered**
Chosen Option : **4**

Join Telegram Group "HaryanaJobs.in"

Q.12 दो कथन दिए गए हैं और दो निष्कर्ष I और II दिए गए हैं। कथनों को सत्य मानते हुए, चाहे वे सामान्यतः ज्ञात तथ्यों से अलग प्रतीत होते हों, निश्चय कीजिए कि कौन-सा निष्कर्ष तार्किक रूप से कथनों के अनुसार है।

कथन:

कोई पेन, कागज़ नहीं है।

सभी कागज़, पेंसिल हैं।

निष्कर्ष:

I. कुछ पेन, पेंसिल हैं।

II. सभी पेंसिल, पेन हैं।

Ans
1. सिर्फ निष्कर्ष II कथनों के अनुसार है
2. निष्कर्ष I और II में से कोई भी कथनों के अनुसार नहीं है
3. सिर्फ निष्कर्ष I कथनों के अनुसार है
4. दोनों निष्कर्ष I और II कथनों के अनुसार है

Question Type : **MCQ**
Question ID : **264330134987**
Option 1 ID : **264330528884**
Option 2 ID : **264330528886**
Option 3 ID : **264330528883**
Option 4 ID : **264330528885**
Status : **Answered**
Chosen Option : **4**

Q.13 दी गई श्रृंखला में निम्नलिखित में से कौन-सी संख्या प्रश्न चिन्ह (?) के स्थान पर आएगी?

27, 32, 42, 57, 77, 102, 132, ?

Ans
1. 158
2. 149
3. 167
4. 172

Question Type : **MCQ**
Question ID : **264330134990**
Option 1 ID : **264330528896**
Option 2 ID : **264330528898**
Option 3 ID : **264330528895**
Option 4 ID : **264330528897**
Status : **Answered**
Chosen Option : **3**

Join Telegram Group "HaryanaJobs.in"

Q.14 उस विकल्प आकृति को चुनिए जो नीचे दी गई आकृति में पैटर्न को पूरा करने के लिए प्रश्न चिन्ह (?) के स्थान पर आएगी। (घूर्णन की अनुमति नहीं है)।

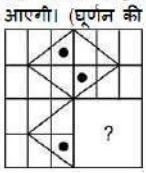

Ans

✗ 1. 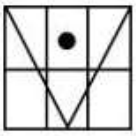

✗ 2. 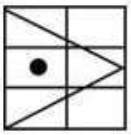

✗ 3. 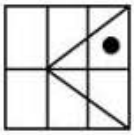

✓ 4. 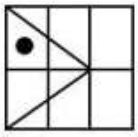

Question Type : **MCQ**
Question ID : **264330134997**
Option 1 ID : **264330528923**
Option 2 ID : **264330528925**
Option 3 ID : **264330528924**
Option 4 ID : **264330528926**
Status : **Answered**
Chosen Option : **4**

Q.15 एक निश्चित कूट भाषा में, 'JOCKEY' को 'KCJYOE' लिखा जाता है। उस भाषा में 'EXCISE' को कैसे लिखा जाएगा?

Ans

✓ 1. ICEEXS

✗ 2. EEICSX

✗ 3. CLEXDE

✗ 4. ICEXES

Question Type : **MCQ**
Question ID : **264330137836**
Option 1 ID : **264330539953**
Option 2 ID : **264330539952**
Option 3 ID : **264330539951**
Option 4 ID : **264330539954**
Status : **Answered**
Chosen Option : **1**

Join Telegram Group "HaryanaJobs.in"

Q.16 दी गई श्रृंखला में निम्नलिखित में से कौन-सा अक्षर-समूह प्रश्न चिन्ह (?) के स्थान पर आएगा?
CX, EV, GT, IR, KP, ?

Ans
✗ 1. LN
✗ 2. QR
✓ 3. MN
✗ 4. MK

Question Type : **MCQ**
Question ID : **264330134976**
Option 1 ID : **264330528842**
Option 2 ID : **264330528839**
Option 3 ID : **264330528840**
Option 4 ID : **264330528841**
Status : **Answered**
Chosen Option : **3**

Q.17 एक निश्चित कूट भाषा में, 'WIFE' को '172' लिखा जाता है और 'CAT' को '72' लिखा जाता है। उस भाषा में 'SON' को कैसे लिखा जाएगा?

Ans
✗ 1. 241
✓ 2. 144
✗ 3. 141
✗ 4. 244

Question Type : **MCQ**
Question ID : **264330137586**
Option 1 ID : **264330538954**
Option 2 ID : **264330538951**
Option 3 ID : **264330538952**
Option 4 ID : **264330538953**
Status : **Answered**
Chosen Option : **4**

Q.18 उस विकल्प को चुनिए जो तीसरे अक्षर से ठीक उसी तरह संबंधित है जिस तरह दूसरी संख्या पहले अक्षर से संबंधित है।
R : 324 : : I : ?

Ans
✓ 1. 81
✗ 2. 64
✗ 3. 100
✗ 4. 99

Question Type : **MCQ**
Question ID : **264330134978**
Option 1 ID : **264330528847**
Option 2 ID : **264330528849**
Option 3 ID : **264330528850**
Option 4 ID : **264330528848**
Status : **Answered**
Chosen Option : **1**

Join Telegram Group "HaryanaJobs.in"

Q.19 पाँच मित्र टैम, टैन, टैप, टैब और टैट एक कतार में उत्तर की ओर मुख करके खड़े हैं। टैम, टैन के पीछे खड़ा है। टैप, टैट के ठीक पीछे खड़ा है। टैट और टैम के बीच केवल एक मित्र खड़ा है। टैब, टैम के ठीक पीछे खड़ा है। टैब कतार में सबसे पीछे खड़ा है। कतार में सबसे आगे कौन खड़ा है?

Ans

✗ 1. टैट

✓ 2. टैन

✗ 3. टैम

✗ 4. टैप

Question Type : **MCQ**
Question ID : **264330134985**
Option 1 ID : **264330528875**
Option 2 ID : **264330528878**
Option 3 ID : **264330528876**
Option 4 ID : **264330528877**
Status : **Answered**
Chosen Option : **3**

Q.20 तीन कथन दिए गए हैं और दो निष्कर्ष I और II दिए गए हैं। कथनों को सत्य मानते हुए, चाहे वे सामान्यतः ज्ञात तथ्यों से अलग प्रतीत होते हों, निश्चय कीजिए कि कौन-सा निष्कर्ष तार्किक रूप से कथनों के अनुसार है।
कथन:

कोई भी छड़ी, बस नहीं है।

सभी विद्यालय, बसें हैं।

सभी बसें, बहादुर हैं।

निष्कर्ष:

I. कोई भी छड़ी, बहादुर नहीं है।

II. सभी विद्यालय, बहादुर हैं।

Ans

✗ 1. निष्कर्ष I और II में से कोई भी कथनों के अनुसार नहीं है

✓ 2. सिर्फ निष्कर्ष II कथनों के अनुसार है

✗ 3. सिर्फ निष्कर्ष I कथनों के अनुसार है

✗ 4. दोनों निष्कर्ष I और II कथनों के अनुसार है

Question Type : **MCQ**
Question ID : **264330134988**
Option 1 ID : **264330528890**
Option 2 ID : **264330528888**
Option 3 ID : **264330528887**
Option 4 ID : **264330528889**
Status : **Answered**
Chosen Option : **2**

Section : **General Awareness**

Join Telegram Group "HaryanaJobs.in"

Q.1 निम्नलिखित में से किस संगीतकार को 'सितार' बजाने के लिए जाना जाता है?

Ans
1. अली अकबर खाँ
2. विलायत ख़ाँ
3. ज़ाकिर हुसैन
4. सुरोजीत चटर्जी

Question Type : **MCQ**
Question ID : **264330134662**
Option 1 ID : **264330527604**
Option 2 ID : **264330527603**
Option 3 ID : **264330527606**
Option 4 ID : **264330527605**
Status : **Answered**
Chosen Option : **2**

Q.2 निम्नलिखित में से कौन-सा संचारी रोगों का एक उदाहरण नहीं है?

Ans
1. चेचक
2. खाँसी-जुकाम
3. मधुमेह
4. क्षय रोग

Question Type : **MCQ**
Question ID : **264330134608**
Option 1 ID : **264330527387**
Option 2 ID : **264330527389**
Option 3 ID : **264330527390**
Option 4 ID : **264330527388**
Status : **Answered**
Chosen Option : **2**

Q.3 निम्नलिखित में से कौन-सा कथन गलत है?

Ans
1. माइटोकॉन्ड्रिया कोशिका का बिजलीघर है।
2. कोशिका झिल्ली को प्लाज्मा झिल्ली भी कहा जाता है।
3. जंतुओं में कोशिका भित्ति पाई जाती है।
4. क्रोमोसोम DNA तथा प्रोटीन के बने होते हैं।

Question Type : **MCQ**
Question ID : **264330134650**
Option 1 ID : **264330527557**
Option 2 ID : **264330527556**
Option 3 ID : **264330527555**
Option 4 ID : **264330527558**
Status : **Answered**
Chosen Option : **3**

Join Telegram Group "HaryanaJobs.in"

Q.4 ब्रिटिश संसद ने सन् _____ में ईस्ट इंडिया कंपनी के सारे अधिकार ब्रिटिश साम्राज्य के हाथ में सौंप दिए।

Ans
1. 1919 ✗
2. 1909 ✗
3. 1858 ✓
4. 1773 ✗

Question Type : **MCQ**
Question ID : **264330134617**
Option 1 ID : **264330527426**
Option 2 ID : **264330527425**
Option 3 ID : **264330527424**
Option 4 ID : **264330527423**
Status : **Answered**
Chosen Option : **4**

Q.5 पौधों को वृद्धि के लिए पोषक तत्वों की आवश्यकता होती है जिसकी आपूर्ति _____ द्वारा की जा सकती है।

Ans
1. केवल मिट्टी और वायु ✗
2. मिट्टी, जल और वायु ✓
3. केवल मिट्टी ✗
4. केवल मिट्टी और जल ✗

Question Type : **MCQ**
Question ID : **264330134607**
Option 1 ID : **264330527385**
Option 2 ID : **264330527386**
Option 3 ID : **264330527383**
Option 4 ID : **264330527384**
Status : **Answered**
Chosen Option : **2**

Q.6 किस प्रसिद्ध भारतीय ओडिसी नृत्यांगना/नर्तक को वर्ष 2000 में भारत के दूसरे सर्वोच्च नागरिक पुरस्कार पद्म विभूषण से सम्मानित किया गया था?

Ans
1. सुनंदा नायर ✗
2. केलुचरण महापात्र ✓
3. रुक्मिणी देवी अरुंडेल ✗
4. दर्शना झवेरी ✗

Question Type : **MCQ**
Question ID : **264330137963**
Option 1 ID : **264330540461**
Option 2 ID : **264330540462**
Option 3 ID : **264330540460**
Option 4 ID : **264330540459**
Status : **Not Answered**
Chosen Option : **--**

Join Telegram Group "HaryanaJobs.in"

Q.7 सन् 1983 का क्रिकेट विश्व कप निम्नलिखित में से किस देश में आयोजित किया गया था?

Ans
1. ऑस्ट्रेलिया
2. इंग्लैंड
3. भारत
4. वेस्टइंडीज

Question Type : **MCQ**
Question ID : **264330134597**
Option 1 ID : **264330527343**
Option 2 ID : **264330527344**
Option 3 ID : **264330527346**
Option 4 ID : **264330527345**
Status : **Answered**
Chosen Option : **2**

Q.8 Which among the following is the sole note issuing authority in India?

Ans
1. Industrial Finance Corporation of India
2. Reserve Bank of India
3. National Payments Corporation of India
4. State Bank of India

Question Type : **MCQ**
Question ID : **264330137968**
Option 1 ID : **264330540482**
Option 2 ID : **264330540479**
Option 3 ID : **264330540481**
Option 4 ID : **264330540480**
Status : **Answered**
Chosen Option : **2**

Q.9 अंतर्राष्ट्रीय अलवण जल वर्ष किस वर्ष मनाया गया है?

Ans
1. 2001
2. 2000
3. 2003
4. 2002

Question Type : **MCQ**
Question ID : **264330134634**
Option 1 ID : **264330527492**
Option 2 ID : **264330527491**
Option 3 ID : **264330527494**
Option 4 ID : **264330527493**
Status : **Not Answered**
Chosen Option : **--**

Join Telegram Group "HaryanaJobs.in"

Q.10 भारतीय संविधान के अनुच्छेद 243-I के तहत राज्य के राज्यपाल को प्रत्येक _____ वर्षों के बाद एक वित्त आयोग का गठन करना होता है।

Ans
✔ 1. पाँच
✘ 2. तीन
✘ 3. दस
✘ 4. छः

Question Type : **MCQ**
Question ID : **264330134665**
Option 1 ID : **264330527615**
Option 2 ID : **264330527616**
Option 3 ID : **264330527618**
Option 4 ID : **264330527617**
Status : **Answered**
Chosen Option : **1**

Q.11 "होला मोहल्ला (Hola Mohalla)" का त्यौहार किस समुदाय द्वारा मनाया जाता है?

Ans
✔ 1. सिख
✘ 2. बौद्ध
✘ 3. पारसी
✘ 4. जैन

Question Type : **MCQ**
Question ID : **264330134620**
Option 1 ID : **264330527437**
Option 2 ID : **264330527436**
Option 3 ID : **264330527438**
Option 4 ID : **264330527435**
Status : **Not Answered**
Chosen Option : **--**

Q.12 "द ब्लू अम्ब्रेला (The blue umbrella)" प्रसिद्ध भारतीय लेखक _____ द्वारा लिखित एक उपन्यास है।

Ans
✔ 1. रस्किन बॉन्ड
✘ 2. अरुंधति राय
✘ 3. शरत चंद्र चट्टोपाध्याय
✘ 4. खुशवंत सिंह

Question Type : **MCQ**
Question ID : **264330137961**
Option 1 ID : **264330540454**
Option 2 ID : **264330540452**
Option 3 ID : **264330540453**
Option 4 ID : **264330540451**
Status : **Answered**
Chosen Option : **2**

Join Telegram Group "HaryanaJobs.in"

Q.13 2022 में किस मंत्रालय ने 'काशी तमिल संगमम (Kashi Tamil Sangamam)' नामक महीने भर चलने वाले एक कार्यक्रम का आयोजन किया था?

Ans
1. शिक्षा मंत्रालय ✔
2. विदेश मंत्रालय ✘
3. जनजातीय कार्य मंत्रालय ✘
4. संस्कृति मंत्रालय ✘

Question Type : **MCQ**
Question ID : **264330134644**
Option 1 ID : **264330527531**
Option 2 ID : **264330527533**
Option 3 ID : **264330527532**
Option 4 ID : **264330527534**
Status : **Answered**
Chosen Option : **4**

Q.14 2022 तक, भारत दुनिया में गेहूँ का _____ सबसे बड़ा उत्पादक है।

Ans
1. पाँचवाँ ✘
2. दूसरा ✔
3. तीसरा ✘
4. चौथा ✘

Question Type : **MCQ**
Question ID : **264330137953**
Option 1 ID : **264330540422**
Option 2 ID : **264330540419**
Option 3 ID : **264330540420**
Option 4 ID : **264330540421**
Status : **Answered**
Chosen Option : **3**

Q.15 भारत किस पड़ोसी देश के साथ सुंदरबन वन साझा करता है?

Ans
1. बांग्लादेश ✔
2. चीन ✘
3. नेपाल ✘
4. पाकिस्तान ✘

Question Type : **MCQ**
Question ID : **264330137906**
Option 1 ID : **264330540234**
Option 2 ID : **264330540233**
Option 3 ID : **264330540232**
Option 4 ID : **264330540231**
Status : **Answered**
Chosen Option : **1**

Join Telegram Group "HaryanaJobs.in"

Q.16 भारतीय संविधान की निम्नलिखित में से कौन-सी विशेषता ब्रिटेन के संविधान से ली गई थी?

Ans
✔ 1. मंत्रिमंडलीय व्यवस्था
✘ 2. समवर्ती सूची
✘ 3. मौलिक कर्तव्य
✘ 4. राज्य के नीति निर्देशक सिद्धांत

Question Type : **MCQ**
Question ID : **264330134664**
Option 1 ID : **264330527611**
Option 2 ID : **264330527613**
Option 3 ID : **264330527614**
Option 4 ID : **264330527612**
Status : **Answered**
Chosen Option : **4**

Q.17 साहित्य में 2022 का नोबेल पुरस्कार किसे मिला?

Ans
✘ 1. अब्दुलराज़क गुरनाह (Abdulrazak Gurnah)
✘ 2. ओल्गा टोकार्कज़ुक (Olga Tokarczuk)
✔ 3. एनी एरनॉक्स (Annie Ernaux)
✘ 4. पीटर हैंडके (Peter Handke)

Question Type : **MCQ**
Question ID : **264330134602**
Option 1 ID : **264330527365**
Option 2 ID : **264330527363**
Option 3 ID : **264330527364**
Option 4 ID : **264330527366**
Status : **Answered**
Chosen Option : **1**

Q.18 'द गॉड ऑफ स्मॉल थिंग्स (The God of Small Things)' उपन्यास का लेखक कौन है?

Ans
✘ 1. अरविंद अडिगा
✘ 2. खुशवंत सिंह
✘ 3. किरण देसाई
✔ 4. अरुंधति राय

Question Type : **MCQ**
Question ID : **264330134599**
Option 1 ID : **264330527353**
Option 2 ID : **264330527352**
Option 3 ID : **264330527351**
Option 4 ID : **264330527354**
Status : **Answered**
Chosen Option : **4**

Join Telegram Group "HaryanaJobs.in"

Q.19 'चरकुला (Charkula)' निम्नलिखित में से किस राज्य से संबंधित एक प्रसिद्ध नृत्य शैली है?

Ans
1. आंध्रप्रदेश
2. त्रिपुरा
3. उत्तरप्रदेश
4. तमिलनाडु

Question Type : **MCQ**
Question ID : **264330134646**
Option 1 ID : **264330527539**
Option 2 ID : **264330527540**
Option 3 ID : **264330527542**
Option 4 ID : **264330527541**
Status : **Answered**
Chosen Option : **3**

Q.20 निम्नलिखित में से किसने मैक्सिकन फॉर्मूला 1 ग्रां प्री 2022 जीता है?

Ans
1. मैक्स वेर्स्टाप्पेन (Max Verstappen)
2. कार्लोस सैंज जूनियर (Carlos Sainz Jr.)
3. लैंडो नॉरिस (Lando Norris)
4. चार्ल्स लेक्लर (Charles Leclerc)

Question Type : **MCQ**
Question ID : **264330134666**
Option 1 ID : **264330527619**
Option 2 ID : **264330527620**
Option 3 ID : **264330527622**
Option 4 ID : **264330527621**
Status : **Answered**
Chosen Option : **1**

Q.21 2011 की जनगणना के अनुसार भारत में कुल प्रजनन दर (Total Fertility Rate) कितनी है? (अनुमानित सीमा प्रदान करें)

Ans
1. 3.1-3.9
2. 2.1-2.9
3. 5.1-5.9
4. 4.1-4.9

Question Type : **MCQ**
Question ID : **264330133967**
Option 1 ID : **264330524892**
Option 2 ID : **264330524891**
Option 3 ID : **264330524894**
Option 4 ID : **264330524893**
Status : **Not Answered**
Chosen Option : **--**

Join Telegram Group "HaryanaJobs.in"

Q.22 उत्तराखंड के गढ़वाल क्षेत्र में दूसरा सबसे ऊँचा पर्वत कौन-सा है?

Ans
✔ 1. कामेट (Kamet)
✘ 2. नंदा देवी (Nanda Devi)
✘ 3. नीलकंठ (Nilkantha)
✘ 4. मेरु (Meru)

Question Type : **MCQ**
Question ID : **264330134654**
Option 1 ID : **264330527571**
Option 2 ID : **264330527572**
Option 3 ID : **264330527574**
Option 4 ID : **264330527573**
Status : **Answered**
Chosen Option : **2**

Q.23 गुरु वेम्पति चिन्ना सत्यम को वर्ष 1998 में निम्नलिखित में से कौन-सा पुरस्कार मिला था?

Ans
✘ 1. पद्म श्री
✘ 2. भारत रत्न
✘ 3. पद्म विभूषण
✔ 4. पद्म भूषण

Question Type : **MCQ**
Question ID : **264330134601**
Option 1 ID : **264330527361**
Option 2 ID : **264330527360**
Option 3 ID : **264330527362**
Option 4 ID : **264330527359**
Status : **Answered**
Chosen Option : **3**

Q.24 निम्नलिखित में से किसने 2022 के राष्ट्रमंडल खेलों में भारोत्तोलन में स्वर्ण पदक जीता?

Ans
✘ 1. बिंदियारानी देवी
✘ 2. संकेत सागर
✘ 3. विकास ठाकुर
✔ 4. साइखोम मीराबाई चानू

Question Type : **MCQ**
Question ID : **264330134623**
Option 1 ID : **264330527449**
Option 2 ID : **264330527448**
Option 3 ID : **264330527450**
Option 4 ID : **264330527447**
Status : **Answered**
Chosen Option : **4**

Join Telegram Group "HaryanaJobs.in"

Q.25 जब प्रकाश के पथ में कोई अपारदर्शी वस्तु आ जाती है तो निम्न में से क्या बनता है?

Ans
1. पारदर्शी किरणें
2. छाया
3. पारभासी किरणें
4. दर्पण प्रतिबिंब

Question Type : **MCQ**
Question ID : **264330134610**
Option 1 ID : **264330527397**
Option 2 ID : **264330527395**
Option 3 ID : **264330527398**
Option 4 ID : **264330527396**
Status : **Answered**
Chosen Option : **4**

Section : **English Language and Comprehension**

Q.1 A sentence has been given with a blank to be filled with an appropriate option. Choose the correct alternative.

The storm passed _____, but the night remained warm.

Ans
1. quicker
2. quick
3. quickest
4. quickly

Question Type : **MCQ**
Question ID : **264330134777**
Option 1 ID : **264330528056**
Option 2 ID : **264330528057**
Option 3 ID : **264330528055**
Option 4 ID : **264330528058**
Status : **Answered**
Chosen Option : **4**

Q.2 Choose the incorrectly spelt word.

Ans
1. Maintaen
2. Boring
3. Gang
4. Stupid

Question Type : **MCQ**
Question ID : **264330134793**
Option 1 ID : **264330528118**
Option 2 ID : **264330528115**
Option 3 ID : **264330528116**
Option 4 ID : **264330528117**
Status : **Answered**
Chosen Option : **1**

Join Telegram Group "HaryanaJobs.in"

Q.3 Select the appropriate synonym for the underlined word.

There is no need to attack our guest.

Ans
1. adore ✗
2. assault ✓
3. mark ✗
4. generate ✗

Question Type : **MCQ**
Question ID : **264330134787**
Option 1 ID : **264330528092**
Option 2 ID : **264330528093**
Option 3 ID : **264330528091**
Option 4 ID : **264330528094**
Status : **Answered**
Chosen Option : **1**

Q.4 Find the part of the given sentence that has an error in it. If there is no error, choose 'No error'.

No matter how mountains are formed, they eventually becomes too heavy and succumb to gravity.

Ans
1. No matter how mountains are ✗
2. formed, they eventually becomes ✓
3. too heavy and succumb to gravity. ✗
4. No error ✗

Question Type : **MCQ**
Question ID : **264330134773**
Option 1 ID : **264330528039**
Option 2 ID : **264330528040**
Option 3 ID : **264330528041**
Option 4 ID : **264330528042**
Status : **Answered**
Chosen Option : **1**

Q.5 Choose the word that means the same as the given word.

Arrogance

Ans
1. Bashful ✗
2. Diffidence ✗
3. Inhibition ✗
4. Dominance ✓

Question Type : **MCQ**
Question ID : **264330134762**
Option 1 ID : **264330527998**
Option 2 ID : **264330527996**
Option 3 ID : **264330527997**
Option 4 ID : **264330527995**
Status : **Answered**
Chosen Option : **4**

Join Telegram Group "HaryanaJobs.in"

Q.6 Improve the underlined part of the sentence. Choose 'No improvement' as an answer if the sentence is grammatically correct.

The number of homes with running watered has been rising sharply since 1985.

Ans

✔ 1. with running water

✘ 2. No improvement

✘ 3. with run water

✘ 4. of ran watered

Question Type : **MCQ**
Question ID : **264330134802**
Option 1 ID : **264330528152**
Option 2 ID : **264330528154**
Option 3 ID : **264330528151**
Option 4 ID : **264330528153**
Status : **Answered**
Chosen Option : **3**

Q.7 Identify the segment that contains a grammatical error. If there is no error, select 'No error'.

Before he could devote many more / thought to the matter, Pranav / had stepped up to him.

Ans

✔ 1. Before he could devote many more

✘ 2. thought to the matter, Pranav

✘ 3. had stepped up to him.

✘ 4. No error

Question Type : **MCQ**
Question ID : **264330136240**
Option 1 ID : **264330533747**
Option 2 ID : **264330533748**
Option 3 ID : **264330533749**
Option 4 ID : **264330533750**
Status : **Answered**
Chosen Option : **1**

Q.8 A sentence has been given with a blank to be filled with an appropriate option. Choose the correct alternative.

Oak trees do not use leaves to make food _____ the winter.

Ans

✘ 1. within

✔ 2. during

✘ 3. by

✘ 4. while

Question Type : **MCQ**
Question ID : **264330134752**
Option 1 ID : **264330527962**
Option 2 ID : **264330527960**
Option 3 ID : **264330527959**
Option 4 ID : **264330527961**
Status : **Answered**
Chosen Option : **2**

Join Telegram Group "HaryanaJobs.in"

Q.9 **Improve the underlined part of the sentence. Choose 'No improvement' as an answer if the sentence is grammatically correct.**
Richard Dawkins written the foreword to the second edition of the book.

Ans
✗ 1. No improvement
✓ 2. wrote the foreword
✗ 3. will wrote the foreword
✗ 4. write the foreword

Question Type : **MCQ**
Question ID : **264330134453**
Option 1 ID : **264330526786**
Option 2 ID : **264330526784**
Option 3 ID : **264330526785**
Option 4 ID : **264330526783**
Status : **Answered**
Chosen Option : **4**

Q.10 **Find the part of the given sentence that has an error in it. If there is no error, choose 'No error'.**
Black holes can has powerful effects on their surroundings.

Ans
✗ 1. on their surroundings.
✗ 2. Black holes can
✓ 3. has powerful effects
✗ 4. No error

Question Type : **MCQ**
Question ID : **264330134425**
Option 1 ID : **264330526677**
Option 2 ID : **264330526675**
Option 3 ID : **264330526676**
Option 4 ID : **264330526678**
Status : **Answered**
Chosen Option : **3**

Q.11 In the following question, out of the given four alternatives, select the alternative which best expresses the meaning of the Idiom/Phrase.

Dead men's shoes

Ans
✗ 1. Making oneself available for all the tasks being assigned
✗ 2. Acquiring the wealth of a dead man through malpractices
✓ 3. Job that one takes over from somebody who has left unexpectedly or died
✗ 4. A career where a lot of cheques are signed

Question Type : **MCQ**
Question ID : **264330134792**
Option 1 ID : **264330528111**
Option 2 ID : **264330528114**
Option 3 ID : **264330528113**
Option 4 ID : **264330528112**
Status : **Answered**
Chosen Option : **3**

Join Telegram Group "HaryanaJobs.in"

Q.12 Choose the word that can substitute the given group of words.

An exact copy of handwriting, printing

Ans
1. Facsimile ✔
2. Potable ✘
3. Maiden ✘
4. Platitude ✘

Question Type : **MCQ**
Question ID : **264330134786**
Option 1 ID : **264330528089**
Option 2 ID : **264330528088**
Option 3 ID : **264330528090**
Option 4 ID : **264330528087**
Status : **Answered**
Chosen Option : **4**

Q.13 Select the appropriate antonym for the underlined word.

The freedom to browse a secure and accountable online space will be compromised.

Ans
1. liable ✘
2. indebted ✘
3. amicable ✘
4. irresponsible ✔

Question Type : **MCQ**
Question ID : **264330134790**
Option 1 ID : **264330528103**
Option 2 ID : **264330528104**
Option 3 ID : **264330528106**
Option 4 ID : **264330528105**
Status : **Answered**
Chosen Option : **2**

Q.14 Choose the sentence with no spelling error.

Ans
1. He stuod outside the bathroom door. ✘
2. He stood outcide the bathroom door. ✘
3. He stood outside the bathroom door. ✔
4. He stood outside the bathrum door. ✘

Question Type : **MCQ**
Question ID : **264330134742**
Option 1 ID : **264330527919**
Option 2 ID : **264330527921**
Option 3 ID : **264330527922**
Option 4 ID : **264330527920**
Status : **Answered**
Chosen Option : **3**

Join Telegram Group "HaryanaJobs.in"

Q.15 Select the word segment that substitutes (replaces) the bracketed word segment correctly and completes the sentence meaningfully. Select the option 'no correction required' if the sentence is correct as given.

The tourists (rendered to the) museum on time.

Ans

1. ✗ No correction required
2. ✗ appeared at the
3. ✓ arrived at the
4. ✗ occurred to the

Question Type : **MCQ**
Question ID : **264330136243**
Option 1 ID : **264330533762**
Option 2 ID : **264330533759**
Option 3 ID : **264330533761**
Option 4 ID : **264330533760**
Status : **Answered**
Chosen Option : **3**

Q.16 Choose the word that can substitute the given group of words.

One who hates war, loves peace

Ans

1. ✗ Conformist
2. ✓ Pacifist
3. ✗ Fatalist
4. ✗ Desecrater

Question Type : **MCQ**
Question ID : **264330134733**
Option 1 ID : **264330527885**
Option 2 ID : **264330527886**
Option 3 ID : **264330527884**
Option 4 ID : **264330527883**
Status : **Answered**
Chosen Option : **3**

Q.17 In the following question, out of the given four alternatives, select the alternative which best expresses the meaning of the Idiom/Phrase.

The lion's share

Ans

1. ✗ Life with no regrets
2. ✗ To lose a big amount of money
3. ✗ Big success
4. ✓ The largest portion

Question Type : **MCQ**
Question ID : **264330134739**
Option 1 ID : **264330527908**
Option 2 ID : **264330527910**
Option 3 ID : **264330527909**
Option 4 ID : **264330527907**
Status : **Answered**
Chosen Option : **4**

Join Telegram Group "HaryanaJobs.in"

Q.18 Choose the word that is opposite in meaning to the given word.

Lordly

Ans
1. Arrogant ✗
2. Ignoble ✓
3. Saucy ✗
4. Despair ✗

Question Type : **MCQ**
Question ID : **264330134763**
Option 1 ID : **264330527999**
Option 2 ID : **264330528000**
Option 3 ID : **264330528001**
Option 4 ID : **264330528002**
Status : **Answered**
Chosen Option : **4**

Q.19 Select the most appropriate option to fill in the blank.

The priest puts some _____ water on the child's head.

Ans
1. wholly ✗
2. holy ✓
3. haughty ✗
4. hairy ✗

Question Type : **MCQ**
Question ID : **264330134743**
Option 1 ID : **264330527925**
Option 2 ID : **264330527924**
Option 3 ID : **264330527926**
Option 4 ID : **264330527923**
Status : **Not Answered**
Chosen Option : **--**

Q.20 Select the most appropriate option to fill in the blank.

Unless you complete your school education, you cannot get yourself _____ into a college.

Ans
1. mopped ✗
2. enrolled ✓
3. advanced ✗
4. accommodated ✗

Question Type : **MCQ**
Question ID : **264330134796**
Option 1 ID : **264330528130**
Option 2 ID : **264330528127**
Option 3 ID : **264330528129**
Option 4 ID : **264330528128**
Status : **Answered**
Chosen Option : **3**

Join Telegram Group "HaryanaJobs.in"

Comprehension:

In the following passage some of the words have been deleted. Read the passage carefully and select the correct answer for the given blank out of the four alternatives.

In a gallery at the Metropolitan Museum of Art (1)_____ New York, paintings of a father and daughter (2)_____ face to face. Larger than life, the monumental portraits (3)_____ competing conceptions of royal power. The father, Henry VIII, (4)_____ directly at the viewer, conveying aggression through his wide stance, bulging leg muscles and (5)_____ padded clothing.

SubQuestion No : 21

Q.21 Select the most appropriate option to fill in blank number 1.

Ans

✗ 1. to

✗ 2. at

✓ 3. in

✗ 4. on

Question Type : **MCQ**
Question ID : **264330134754**
Option 1 ID : **264330527963**
Option 2 ID : **264330527966**
Option 3 ID : **264330527965**
Option 4 ID : **264330527964**
Status : **Answered**
Chosen Option : **3**

Comprehension:

In the following passage some of the words have been deleted. Read the passage carefully and select the correct answer for the given blank out of the four alternatives.

In a gallery at the Metropolitan Museum of Art (1)_____ New York, paintings of a father and daughter (2)_____ face to face. Larger than life, the monumental portraits (3)_____ competing conceptions of royal power. The father, Henry VIII, (4)_____ directly at the viewer, conveying aggression through his wide stance, bulging leg muscles and (5)_____ padded clothing.

SubQuestion No : 22

Q.22 Select the most appropriate option to fill in blank number 2.

Ans

✗ 1. rest

✗ 2. poised

✗ 3. hanged

✓ 4. hang

Question Type : **MCQ**
Question ID : **264330134755**
Option 1 ID : **264330527967**
Option 2 ID : **264330527970**
Option 3 ID : **264330527969**
Option 4 ID : **264330527968**
Status : **Answered**
Chosen Option : **1**

Join Telegram Group "HaryanaJobs.in"

Comprehension:

In the following passage some of the words have been deleted. Read the passage carefully and select the correct answer for the given blank out of the four alternatives.

In a gallery at the Metropolitan Museum of Art (1)_____ New York, paintings of a father and daughter (2)_____ face to face. Larger than life, the monumental portraits (3)_____ competing conceptions of royal power. The father, Henry VIII, (4)_____ directly at the viewer, conveying aggression through his wide stance, bulging leg muscles and (5)_____ padded clothing.

SubQuestion No : 23

Q.23 Select the most appropriate option to fill in blank number 3.

Ans

✗ 1. believe

✓ 2. present

✗ 3. settle

✗ 4. sell

Question Type : **MCQ**
Question ID : **264330134756**
Option 1 ID : **264330527974**
Option 2 ID : **264330527973**
Option 3 ID : **264330527971**
Option 4 ID : **264330527972**
Status : **Answered**
Chosen Option : **2**

Comprehension:

In the following passage some of the words have been deleted. Read the passage carefully and select the correct answer for the given blank out of the four alternatives.

In a gallery at the Metropolitan Museum of Art (1)_____ New York, paintings of a father and daughter (2)_____ face to face. Larger than life, the monumental portraits (3)_____ competing conceptions of royal power. The father, Henry VIII, (4)_____ directly at the viewer, conveying aggression through his wide stance, bulging leg muscles and (5)_____ padded clothing.

SubQuestion No : 24

Q.24 Select the most appropriate option to fill in blank number 4.

Ans

✓ 1. looks

✗ 2. shocks

✗ 3. books

✗ 4. hooks

Question Type : **MCQ**
Question ID : **264330134757**
Option 1 ID : **264330527977**
Option 2 ID : **264330527975**
Option 3 ID : **264330527976**
Option 4 ID : **264330527978**
Status : **Answered**
Chosen Option : **1**

Join Telegram Group "HaryanaJobs.in"

Comprehension:

In the following passage some of the words have been deleted. Read the passage carefully and select the correct answer for the given blank out of the four alternatives.

In a gallery at the Metropolitan Museum of Art (1)_____ New York, paintings of a father and daughter (2)_____ face to face. Larger than life, the monumental portraits (3)_____ competing conceptions of royal power. The father, Henry VIII, (4)_____ directly at the viewer, conveying aggression through his wide stance, bulging leg muscles and (5)_____ padded clothing.

SubQuestion No : 25

Q.25 Select the most appropriate option to fill in blank number 5.

Ans

✗ 1. acutely

✗ 2. totally

✗ 3. commonly

✓ 4. excessively

Question Type : **MCQ**
Question ID : **264330134758**
Option 1 ID : **264330527981**
Option 2 ID : **264330527979**
Option 3 ID : **264330527980**
Option 4 ID : **264330527982**
Status : **Answered**
Chosen Option : **4**

Join Telegram Group "HaryanaJobs.in"

Multi Tasking Non Technical Staff and Havaldar CBIC and CBN Examination 2022

Roll Number	HaryanaJobs.in
Candidate Name	HaryanaJobs.in
Venue Name	Markandey Mahadev Infotech Pvt Ltd
Exam Date	15/06/2023
Exam Time	3:30 PM - 5:00 PM
Subject	MTS Non Tech Havaldar CBIC and CBN Examination 2022

Section : **Numerical and Mathematical Ability**

Q.1 एक पंखे के विक्रय मूल्य का 40 प्रतिशत, पंखे के क्रय मूल्य के 4/5 के बराबर है। लाभ प्रतिशत क्या है?

Ans

1. ✗ 150 प्रतिशत
2. ✗ 125 प्रतिशत
3. ✗ 120 प्रतिशत
4. ✓ 100 प्रतिशत

Question Type : **MCQ**
Question ID : **264330140539**
Option 1 ID : **264330550513**
Option 2 ID : **264330550512**
Option 3 ID : **264330550511**
Option 4 ID : **264330550514**
Status : **Not Answered**
Chosen Option : **--**

Q.2 एक संख्या में 20% की वृद्धि की जाती है और फिर बढ़ी हुई संख्या में 20% की कमी की जाती है। निवल वृद्धि या कमी है:

Ans

1. ✗ वृद्धि 2%
2. ✓ कमी 4%
3. ✗ कमी 2%
4. ✗ वृद्धि 4%

Question Type : **MCQ**
Question ID : **264330140802**
Option 1 ID : **264330551557**
Option 2 ID : **264330551556**
Option 3 ID : **264330551558**
Option 4 ID : **264330551555**
Status : **Answered**
Chosen Option : **2**

Join Telegram Group "HaryanaJobs.in"

Q.3 एक समचतुर्भुज का एक विकर्ण दूसरे विकर्ण का 70 प्रतिशत है। समचतुर्भुज के क्षेत्रफल और बड़े विकर्ण की लंबाई के वर्ग का अनुपात क्या है?

Ans
✔ 1. 7 : 20
✘ 2. 5 : 17
✘ 3. 20 : 7
✘ 4. 6 : 19

Question Type : **MCQ**
Question ID : **264330140577**
Option 1 ID : **264330550662**
Option 2 ID : **264330550661**
Option 3 ID : **264330550659**
Option 4 ID : **264330550660**
Status : **Not Answered**
Chosen Option : **--**

Q.4 वह सबसे छोटी पूर्ण वर्ग संख्या क्या है, जो 12, 84 और 24 में से प्रत्येक से पूर्णतः विभाज्य है?

Ans
✔ 1. 7056
✘ 2. 1764
✘ 3. 11664
✘ 4. 2304

Question Type : **MCQ**
Question ID : **264330140548**
Option 1 ID : **264330550549**
Option 2 ID : **264330550550**
Option 3 ID : **264330550547**
Option 4 ID : **264330550548**
Status : **Answered**
Chosen Option : **1**

Q.5 Rs. 30 प्रति किलो मूल्य वाली चीनी को Rs. 40 प्रति किलो मूल्य वाली चीनी के साथ किस अनुपात में मिलाया जाना चाहिए ताकि प्राप्त मिश्रण का मूल्य Rs. 37 प्रति किलो हो जाए?

Ans
✘ 1. 8 : 9
✘ 2. 4 : 3
✔ 3. 3 : 7
✘ 4. 9 : 5

Question Type : **MCQ**
Question ID : **264330140541**
Option 1 ID : **264330550521**
Option 2 ID : **264330550519**
Option 3 ID : **264330550522**
Option 4 ID : **264330550520**
Status : **Answered**
Chosen Option : **3**

Join Telegram Group "HaryanaJobs.in"

Q.6 नीचे दिए गए वृत्त आलेख में 6 अलग-अलग वस्तुओं के मूल्यों को दर्शाया गया है। इन सभी 6 वस्तुओं का कुल मूल्य 5040 है। इनमें से किसी एक विशिष्ट वस्तु के मूल्य को इन सभी 6 वस्तुओं के कुल मूल्य के सापेक्ष डिग्री में दर्शाया गया है।

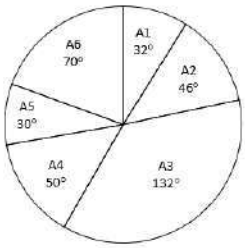

निम्नलिखित में से कौन-सा कथन सही नहीं है?

I. A1, A2, A4 और A6 का कुल मूल्य 2772 है।

II. A3 और A5 के कुल मूल्य तथा A4 और A6 के कुल मूल्य के बीच का अंतर 488 है।

Ans
1. I और II दोनों
2. न तो I और न ही II
3. केवल I
4. केवल II

Question Type : **MCQ**
Question ID : **264330140552**
Option 1 ID : **264330550565**
Option 2 ID : **264330550566**
Option 3 ID : **264330550563**
Option 4 ID : **264330550564**
Status : **Answered**
Chosen Option : **2**

Q.7 0.25 और 1.25 का महत्तम समापवर्तक (HCF) क्या होगा?

Ans
1. 0.5
2. 1.25
3. 2.5
4. 0.25

Question Type : **MCQ**
Question ID : **264330140798**
Option 1 ID : **264330551540**
Option 2 ID : **264330551539**
Option 3 ID : **264330551542**
Option 4 ID : **264330551541**
Status : **Answered**
Chosen Option : **1**

Join Telegram Group "HaryanaJobs.in"

Q.8 एक धनराशि को A, B और C के बीच 3:2:5 के अनुपात में बाँटा जाता है। Rs.126 में से C को कितनी धनराशि मिलेगी?

Ans

1. ✗ Rs.66
2. ✓ Rs.63
3. ✗ Rs.62
4. ✗ Rs.43

Question Type : **MCQ**
Question ID : **264330140808**
Option 1 ID : **264330551581**
Option 2 ID : **264330551579**
Option 3 ID : **264330551582**
Option 4 ID : **264330551580**
Status : **Answered**
Chosen Option : **2**

Q.9 एक धावक 10 km/hr की चाल से सुबह 5 : 00 बजे एक बिंदु से दौड़ना शुरू करता है। एक दूसरा धावक 15 km/hr की चाल से समान बिंदु से समान दिशा में सुबह 8 : 00 बजे दौड़ना शुरू करता है। दूसरा धावक उसी दिन के कितने बजे पहले धावक से आगे निकल जाएगा?

Ans

1. ✗ दोपहर 12 : 30 बजे
2. ✗ दोपहर 12 : 00 बजे
3. ✗ दोपहर 1 : 00 बजे
4. ✓ दोपहर 2 : 00 बजे

Question Type : **MCQ**
Question ID : **264330140155**
Option 1 ID : **264330549001**
Option 2 ID : **264330548999**
Option 3 ID : **264330549002**
Option 4 ID : **264330549000**
Status : **Not Answered**
Chosen Option : **--**

Q.10 $\frac{91 + 13 \text{ of } (45 \div 21 \times 14 \div 5) - 22 \times 4}{(42 \times 21 \div 168 \times 2) - (66 \text{ of } 15 \div 90)}$ का मान क्या है?

Ans

1. ✓ -162
2. ✗ -172
3. ✗ -81
4. ✗ -144

Question Type : **MCQ**
Question ID : **264330140190**
Option 1 ID : **264330549141**
Option 2 ID : **264330549139**
Option 3 ID : **264330549140**
Option 4 ID : **264330549142**
Status : **Not Answered**
Chosen Option : **--**

Join Telegram Group "HaryanaJobs.in"

Q.11 एक नगर की जनसंख्या में 20 प्रतिशत वार्षिक की दर से वृद्धि होती है। यदि 2 वर्ष बाद नगर की जनसंख्या 69,120 होगी, तो नगर की वर्तमान जनसंख्या कितनी है?

Ans

1. 40000 ✗
2. 36000 ✗
3. 48000 ✓
4. 42000 ✗

Question Type : **MCQ**
Question ID : **264330139639**
Option 1 ID : **264330546972**
Option 2 ID : **264330546971**
Option 3 ID : **264330546973**
Option 4 ID : **264330546974**
Status : **Answered**
Chosen Option : **3**

Q.12 एक बस पहले घंटे में 60 km, दूसरे घंटे में 40 km और तीसरे घंटे में 50 km की यात्रा करती है। बस की औसत चाल क्या है?

Ans

1. 55 km/hr ✗
2. 50 km/hr ✓
3. 45 km/hr ✗
4. 60 km/hr ✗

Question Type : **MCQ**
Question ID : **264330140825**
Option 1 ID : **264330551649**
Option 2 ID : **264330551648**
Option 3 ID : **264330551647**
Option 4 ID : **264330551650**
Status : **Answered**
Chosen Option : **2**

Q.13 20 दिनों तक कार्य करने के बाद, शिखा को पता चलता है कि केवल 20 प्रतिशत कार्य ही पूरा हुआ है। वह टीना को नियुक्त करती है जो शिखा से 100 प्रतिशत अधिक कुशल है। टीना अकेले पूरे कार्य को कितने दिनों में पूरा कर सकती है?

Ans

1. 30 दिन ✗
2. 50 दिन ✓
3. 40 दिन ✗
4. 60 दिन ✗

Question Type : **MCQ**
Question ID : **264330139952**
Option 1 ID : **264330548190**
Option 2 ID : **264330548187**
Option 3 ID : **264330548188**
Option 4 ID : **264330548189**
Status : **Not Answered**
Chosen Option : **--**

Join Telegram Group "HaryanaJobs.in"

Q.14 यदि किसी बेलन की त्रिज्या में 16 प्रतिशत की कमी कर दी जाए, तो उसकी ऊँचाई में कितने प्रतिशत की वृद्धि करनी होगी, ताकि बेलन का आयतन वही रहे?

Ans

✔ 1. 41.72 प्रतिशत

✘ 2. 36.43 प्रतिशत

✘ 3. 32.96 प्रतिशत

✘ 4. 45.28 प्रतिशत

Question Type : **MCQ**
Question ID : **264330140576**
Option 1 ID : **264330550658**
Option 2 ID : **264330550657**
Option 3 ID : **264330550655**
Option 4 ID : **264330550656**
Status : **Answered**
Chosen Option : **2**

Q.15 एक कार का अंकित मूल्य Rs. 600000 है। राहुल उस कार को 30 प्रतिशत और 20 प्रतिशत की दो क्रमागत छूट पर खरीदता है। यदि कार का उपयोग करने के बाद, वह कार को Rs. 478000 में बेचता है, तो उसका लाभ प्रतिशत कितना है?

Ans

✘ 1. 36.85 प्रतिशत

✘ 2. 39.87 प्रतिशत

✘ 3. 33.33 प्रतिशत

✔ 4. 42.26 प्रतिशत

Question Type : **MCQ**
Question ID : **264330140595**
Option 1 ID : **264330550732**
Option 2 ID : **264330550731**
Option 3 ID : **264330550733**
Option 4 ID : **264330550734**
Status : **Answered**
Chosen Option : **4**

Q.16 यदि एक राशि का साधारण ब्याज पर निवेश किया जाता है, तो वह राशि 4 वर्ष में स्वयं की 3/2 हो जाती है। वार्षिक ब्याज दर क्या है?

Ans

✘ 1. 6.5 प्रतिशत

✘ 2. 10 प्रतिशत

✔ 3. 12.5 प्रतिशत

✘ 4. 17.5 प्रतिशत

Question Type : **MCQ**
Question ID : **264330140203**
Option 1 ID : **264330549191**
Option 2 ID : **264330549192**
Option 3 ID : **264330549193**
Option 4 ID : **264330549194**
Status : **Answered**
Chosen Option : **3**

Join Telegram Group "HaryanaJobs.in"

Q.17 एक दुकानदार एक वस्तु को 20 प्रतिशत लाभ पर बेचता है। यदि उसने इसे 10 प्रतिशत कम मूल्य पर खरीदा होता और इसे Rs. 48 कम में बेचा होता, तो उसे 20 प्रतिशत का लाभ होता। वस्तु का क्रय मूल्य क्या है?

Ans

✗ 1. Rs. 340

✗ 2. Rs. 460

✗ 3. Rs. 520

✓ 4. Rs. 400

Question Type : **MCQ**
Question ID : **264330140220**
Option 1 ID : **264330549261**
Option 2 ID : **264330549259**
Option 3 ID : **264330549262**
Option 4 ID : **264330549260**
Status : **Answered**
Chosen Option : **3**

Q.18 B और C अकेले एक कार्य को क्रमश: 10 दिन और 30 दिन में पूरा कर सकते हैं। उन्होंने साथ मिलकर कार्य शुरू किया लेकिन B ने कुछ दिनों के बाद कार्य छोड़ दिया और C ने शेष कार्य को 10 दिनों में पूरा किया। कार्य की शुरुआत से कितने दिनों के बाद B ने कार्य छोड़ा?

Ans

✗ 1. 6 दिन

✗ 2. 4 दिन

✗ 3. 8 दिन

✓ 4. 5 दिन

Question Type : **MCQ**
Question ID : **264330140194**
Option 1 ID : **264330549157**
Option 2 ID : **264330549156**
Option 3 ID : **264330549158**
Option 4 ID : **264330549155**
Status : **Answered**
Chosen Option : **4**

Join Telegram Group "HaryanaJobs.in"

Q.19 दी गई तालिका में वर्ष 2016 के एशियाई खेलों में चार अलग-अलग देशों द्वारा जीते गए पदकों की संख्या से संबंधित डेटा को दर्शाया गया है। चीन द्वारा जीते गए रजत पदकों की संख्या और भारत द्वारा जीते गए स्वर्ण पदकों की संख्या का अनुपात कितना है?

Country	Gold Medals	Silver Medals	Bronze Medals
China	31	36	36
India	18	22	28
Russia	26	16	25
Japan	10	18	15

Country- देश, Gold Medals- स्वर्ण पदक, Silver Medals- रजत पदक, Bronze Medals- कांस्य पदक

China- चीन, India- भारत, Russia- रूस, Japan- जापान

Ans

✗ 1. 4:9

✓ 2. 2:1

✗ 3. 3:2

✗ 4. 5:9

Question Type : **MCQ**
Question ID : **264330139052**
Option 1 ID : **264330544817**
Option 2 ID : **264330544816**
Option 3 ID : **264330544815**
Option 4 ID : **264330544818**
Status : **Answered**
Chosen Option : **2**

Q.20 40 परिणामों का औसत 15 है। यदि प्रत्येक परिणाम में से 5 घटा दिया जाए, तो परिणामों का नया औसत क्या होगा?

Ans

✗ 1. 11

✗ 2. 15

✗ 3. 12

✓ 4. 10

Question Type : **MCQ**
Question ID : **264330139914**
Option 1 ID : **264330548035**
Option 2 ID : **264330548036**
Option 3 ID : **264330548037**
Option 4 ID : **264330548038**
Status : **Answered**
Chosen Option : **4**

Section : **Reasoning Ability and Problem Solving**

Join Telegram Group "HaryanaJobs.in"

Q.1 दी गई आकृति के उस सही दर्पण प्रतिबिंब को चुनिए जो दर्पण MN को आकृति के दाईं ओर रखने पर बनेगा।

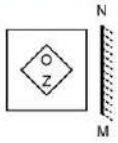

Ans

✗ 1.

✗ 2.

✓ 3.

✗ 4.

Question Type : **MCQ**
Question ID : **264330140030**
Option 1 ID : **264330548502**
Option 2 ID : **264330548501**
Option 3 ID : **264330548499**
Option 4 ID : **264330548500**
Status : **Answered**
Chosen Option : **3**

Q.2 उस विकल्प को चुनिए जिसमें समुच्चय की संख्याएँ वही संबंध साझा करती हैं जो दिए गए समुच्चय में संख्याओं द्वारा साझा किया जाता है। (ध्यान दें: संख्याओं को उनके घटक अंकों में अलग-अलग किए बिना, पूर्ण संख्याओं पर संक्रियाएँ की जानी चाहिए। उदा. 13 - 13 पर संक्रियाएँ जैसे 13 को जोड़ना /घटाना /गुणा करना आदि किया जा सकता है। 13 को 1 और 3 में अलग-अलग करने की और फिर 1 और 3 पर गणितीय संक्रियाएँ करने की अनुमति नहीं है)

(20, 70, 120)

(120, 170, 220)

Ans

✗ 1. (320, 380, 420)

✗ 2. (420, 470, 530)

✗ 3. (220, 270, 330)

✓ 4. (420, 470, 520)

Question Type : **MCQ**
Question ID : **264330140970**
Option 1 ID : **264330552229**
Option 2 ID : **264330552228**
Option 3 ID : **264330552227**
Option 4 ID : **264330552230**
Status : **Answered**
Chosen Option : **4**

Join Telegram Group "HaryanaJobs.in"

Q.3 उस विकल्प को चुनिए जो तीसरी संख्या से ठीक उसी प्रकार संबंधित है जिस प्रकार दूसरी संख्या पहली संख्या से संबंधित है।

289 : 306 : : 196 : ?

Ans
1. 210
2. 320
3. 225
4. 512

Question Type : **MCQ**
Question ID : **264330140004**
Option 1 ID : **264330548395**
Option 2 ID : **264330548396**
Option 3 ID : **264330548397**
Option 4 ID : **264330548398**
Status : **Answered**
Chosen Option : **1**

Q.4 कौनसी उत्तर आकृति प्रश्न आकृति में दिए गए पैटर्न को पूरा करेगी?

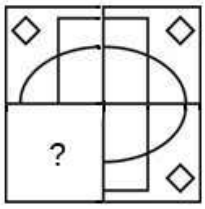

Ans
1.
2.
3.
4.

Question Type : **MCQ**
Question ID : **264330139587**
Option 1 ID : **264330546763**
Option 2 ID : **264330546765**
Option 3 ID : **264330546766**
Option 4 ID : **264330546764**
Status : **Answered**
Chosen Option : **2**

Join Telegram Group "HaryanaJobs.in"

Q.5 उस विकल्प को चुनिए जो तीसरे शब्द से ठीक उसी तरह संबंधित है जिस तरह दूसरा शब्द पहले शब्द से संबंधित है।
पीलिया : यकृत :: क्षय रोग : ?

Ans
✔ 1. फेफड़े
✘ 2. पैर
✘ 3. आमाशय
✘ 4. हृदय

Question Type : **MCQ**
Question ID : **264330140034**
Option 1 ID : **264330548517**
Option 2 ID : **264330548516**
Option 3 ID : **264330548518**
Option 4 ID : **264330548515**
Status : **Answered**
Chosen Option : **1**

Q.6 दी गई श्रृंखला में निम्नलिखित में से कौन-सी संख्या प्रश्न चिन्ह (?) के स्थान पर आएगी?
43, 51, 78, 142, 267, ?

Ans
✔ 1. 483
✘ 2. 493
✘ 3. 473
✘ 4. 463

Question Type : **MCQ**
Question ID : **264330140484**
Option 1 ID : **264330550317**
Option 2 ID : **264330550318**
Option 3 ID : **264330550316**
Option 4 ID : **264330550315**
Status : **Not Answered**
Chosen Option : **--**

Q.7 आठ खिलाड़ी अनिल, कमल, राम, संजय, आकाश, विवेक, राहुल और रामू एक वृत्ताकार मेज के चारों ओर केंद्र की ओर मुख करके बैठे हैं (परंतु जरूरी नहीं कि वे इसी क्रम में बैठे हों)। संजय, अनिल के बाईं ओर से दूसरे स्थान पर है। राहुल, अनिल के दाईं ओर से चौथे स्थान पर है। राम, राहुल या संजय का निकटतम पड़ोसी नहीं है। आकाश, राम के दाईं ओर से दूसरे स्थान पर है। कमल, विवेक के दाईं ओर से दूसरे स्थान पर है। रामू के दाईं ओर से दूसरे स्थान पर कौन है?

Ans
✘ 1. विवेक
✔ 2. राहुल
✘ 3. संजय
✘ 4. कमल

Question Type : **MCQ**
Question ID : **264330140982**
Option 1 ID : **264330552276**
Option 2 ID : **264330552278**
Option 3 ID : **264330552277**
Option 4 ID : **264330552275**
Status : **Not Answered**
Chosen Option : **--**

Join Telegram Group "HaryanaJobs.in"

Q.8 दी गई श्रृंखला में निम्नलिखित में से कौन-सा अक्षर-समूह प्रश्न चिन्ह (?) के स्थान पर आएगा?
VY, ZC, DG, HK, ?

Ans
1. LM ✗
2. MO ✗
3. LO ✓
4. LN ✗

Question Type : **MCQ**
Question ID : **264330140432**
Option 1 ID : **264330550108**
Option 2 ID : **264330550110**
Option 3 ID : **264330550107**
Option 4 ID : **264330550109**
Status : **Answered**
Chosen Option : **3**

Q.9 एक निश्चित कूट भाषा में, 'ARMY' को 'CPOW' लिखा जाता है। उस भाषा में 'HALF' को कैसे लिखा जाएगा?

Ans
1. JYMD ✗
2. JYND ✓
3. JDYN ✗
4. JNYD ✗

Question Type : **MCQ**
Question ID : **264330140017**
Option 1 ID : **264330548448**
Option 2 ID : **264330548449**
Option 3 ID : **264330548450**
Option 4 ID : **264330548447**
Status : **Answered**
Chosen Option : **2**

Q.10 तीन कथन दिए गए हैं और दो निष्कर्ष I और II दिए गए हैं। कथनों को सत्य मानते हुए, चाहे वे सामान्यतः ज्ञात तथ्यों से अलग प्रतीत होते हों, निश्चय कीजिए कि कौन-सा निष्कर्ष तार्किक रूप से कथनों के अनुसार है।
कथन:
कुछ किताबें, कलमें हैं।
कुछ किताबें, कॉपियाँ हैं।
सभी कॉपियाँ, पेंसिलें हैं।
निष्कर्ष:
I. कुछ पेंसिलें, कलमें हैं।
II. कुछ पेंसिलें, किताबें हैं।

Ans
1. सिर्फ निष्कर्ष II कथनों के अनुसार है ✓
2. दोनों निष्कर्ष I और II कथनों के अनुसार हैं ✗
3. निष्कर्ष I और II में से कोई भी कथनों के अनुसार नहीं है ✗
4. सिर्फ निष्कर्ष I कथनों के अनुसार है ✗

Question Type : **MCQ**
Question ID : **264330135358**
Option 1 ID : **264330530340**
Option 2 ID : **264330530341**
Option 3 ID : **264330530342**
Option 4 ID : **264330530339**
Status : **Answered**
Chosen Option : **3**

Join Telegram Group "HaryanaJobs.in"

Q.11 दो कथन दिए गए हैं और दो निष्कर्ष I और II दिए गए हैं। कथनों को सत्य मानते हुए, चाहे वे सामान्यतः ज्ञात तथ्यों से अलग प्रतीत होते हों, निश्चय कीजिए कि कौन-सा निष्कर्ष तार्किक रूप से कथनों के अनुसार है।

कथन:

कोई बत्तख, गुड़िया नहीं है।

सभी अंडे, गुड़िया हैं।

निष्कर्ष:

I. कोई बत्तख, अंडा नहीं है।

II. कुछ गुड़िया, अंडे हैं।

Ans

✔ 1. दोनों निष्कर्ष I और II कथनों के अनुसार हैं

✘ 2. निष्कर्ष I और II में से कोई भी कथनों के अनुसार नहीं है

✘ 3. सिर्फ निष्कर्ष II कथनों के अनुसार है

✘ 4. सिर्फ निष्कर्ष I कथनों के अनुसार है

Question Type : **MCQ**
Question ID : **264330135357**
Option 1 ID : **264330530337**
Option 2 ID : **264330530338**
Option 3 ID : **264330530336**
Option 4 ID : **264330530335**
Status : **Answered**
Chosen Option : **1**

Q.12 पाँच लड़कियों अंजू, बिट्टू, चारुल, दृष्टि और सारा में सभी की उम्र अलग-अलग है। अंजू केवल दृष्टि और सारा से छोटी है। सारा दृष्टि से छोटी है और बिट्टू से बड़ी है। चारुल सबसे छोटी है। लड़कियों में चौथी सबसे बड़ी कौन है?

Ans

✔ 1. बिट्टू

✘ 2. सारा

✘ 3. दृष्टि

✘ 4. चारुल

Question Type : **MCQ**
Question ID : **264330140041**
Option 1 ID : **264330548543**
Option 2 ID : **264330548544**
Option 3 ID : **264330548546**
Option 4 ID : **264330548545**
Status : **Not Answered**
Chosen Option : **--**

Q.13 यदि A का अर्थ 'जोड़', B का अर्थ 'गुणा', C का अर्थ 'घटाव' और D का अर्थ 'भाग' हो, तो निम्नलिखित समीकरण का मान क्या होगा?

8 B 4 A 7 C 21 = ?

Ans

✘ 1. 16

✔ 2. 18

✘ 3. 21

✘ 4. 26

Question Type : **MCQ**
Question ID : **264330135364**
Option 1 ID : **264330530364**
Option 2 ID : **264330530366**
Option 3 ID : **264330530363**
Option 4 ID : **264330530365**
Status : **Answered**
Chosen Option : **2**

Join Telegram Group "HaryanaJobs.in"

Q.14 नीचे दिए गए समीकरण में कौन-से गणितीय चिन्हों को आपस में बदला जाना चाहिए जिससे यह समीकरण गणितीय रूप से सही हो जाएगा?
45 - 5 + 96 ÷ 8 × 24 = 9

Ans
✔ 1. + और ×
✘ 2. × और -
✘ 3. ÷ और -
✘ 4. + और -

Question Type : **MCQ**
Question ID : **264330140108**
Option 1 ID : **264330548811**
Option 2 ID : **264330548813**
Option 3 ID : **264330548812**
Option 4 ID : **264330548814**
Status : **Answered**
Chosen Option : **1**

Q.15 एक निश्चित कूट भाषा में, 'CASHEW' को 'WEHSAC' लिखा जाता है। उस कूट भाषा में 'FLORAL' को कैसे लिखा जाएगा?

Ans
✘ 1. LAROFL
✘ 2. LAORLF
✘ 3. ALROLF
✔ 4. LAROLF

Question Type : **MCQ**
Question ID : **264330138792**
Option 1 ID : **264330543777**
Option 2 ID : **264330543775**
Option 3 ID : **264330543776**
Option 4 ID : **264330543778**
Status : **Answered**
Chosen Option : **4**

Q.16 उस विकल्प को चुनिए जो तीसरे शब्द से ठीक उसी तरह संबंधित है जिस तरह दूसरा शब्द पहले शब्द से संबंधित है।
ताजमहल : आगरा :: कुतुब मीनार : ?

Ans
✘ 1. मुंबई
✔ 2. दिल्ली
✘ 3. चेन्नई
✘ 4. रांची

Question Type : **MCQ**
Question ID : **264330140135**
Option 1 ID : **264330548922**
Option 2 ID : **264330548920**
Option 3 ID : **264330548919**
Option 4 ID : **264330548921**
Status : **Answered**
Chosen Option : **2**

Join Telegram Group "HaryanaJobs.in"

Q.17 उस विकल्प आकृति को चुनिए जिसमें दी गई आकृति निहित है।(घूर्णन की अनुमति नहीं है)

Ans

✗ 1. 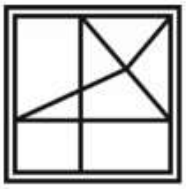

✗ 2.

✗ 3.

✓ 4.

Question Type : **MCQ**
Question ID : **264330139988**
Option 1 ID : **264330548332**
Option 2 ID : **264330548333**
Option 3 ID : **264330548334**
Option 4 ID : **264330548331**
Status : **Answered**
Chosen Option : **4**

Q.18 बॉब, ब्रान, बॉट, बटिस्टा और ब्राइन नाम के पाँच पुरुष एक परिधि में केंद्र की ओर मुख करके बैठे हैं। ब्राइन, बॉट के ठीक बाईं ओर और बॉब के ठीक दाईं ओर बैठा है। बटिस्टा, ब्राइन के बाईं ओर दूसरे स्थान पर बैठा है। ब्रान के ठीक दाईं ओर कौन बैठा है?

Ans

✓ 1. बटिस्टा

✗ 2. ब्राइन

✗ 3. बॉब

✗ 4. बॉट

Question Type : **MCQ**
Question ID : **264330139998**
Option 1 ID : **264330548371**
Option 2 ID : **264330548374**
Option 3 ID : **264330548372**
Option 4 ID : **264330548373**
Status : **Not Answered**
Chosen Option : **--**

Join Telegram Group "HaryanaJobs.in"

Q.19 एक निश्चित कूट भाषा में, 'SPEAKER' को '2613517' लिखा जाता है, 'TACKLE' को '934501' लिखा जाता है। उस कूट भाषा में 'PEACE' को कैसे लिखा जाएगा?

Ans
1. 51341 ✗
2. 61341 ✓
3. 62342 ✗
4. 61241 ✗

Question Type : **MCQ**
Question ID : **264330139532**
Option 1 ID : **264330546546**
Option 2 ID : **264330546544**
Option 3 ID : **264330546545**
Option 4 ID : **264330546543**
Status : **Answered**
Chosen Option : **2**

Q.20 दी गई श्रृंखला में निम्नलिखित में से कौन-सी संख्या प्रश्न चिन्ह (?) के स्थान पर आएगी?
71, 73, 76, 81, 88, 99, 112, ?

Ans
1. 129 ✓
2. 139 ✗
3. 140 ✗
4. 130 ✗

Question Type : **MCQ**
Question ID : **264330140023**
Option 1 ID : **264330548472**
Option 2 ID : **264330548471**
Option 3 ID : **264330548474**
Option 4 ID : **264330548473**
Status : **Answered**
Chosen Option : **1**

Section : **General Awareness**

Q.1 रामकृष्ण मिशन की स्थापना किसने की थी?

Ans
1. तरुण सागर ✗
2. स्वामी विवेकानंद ✓
3. जम्बुविजय (Jambuvijaya) ✗
4. गौर गोपाल दास ✗

Question Type : **MCQ**
Question ID : **264330140742**
Option 1 ID : **264330551315**
Option 2 ID : **264330551317**
Option 3 ID : **264330551318**
Option 4 ID : **264330551316**
Status : **Answered**
Chosen Option : **2**

Join Telegram Group "HaryanaJobs.in"

Q.2 निम्नलिखित में से कौन सी पुस्तक मिताली राज की आत्मकथा है?

Ans
1. नो होल्डिंग बैक (No Holding Back)
2. वन मोर ओवर (One More Over)
3. अनगार्डेड (Unguarded)
4. ऑल राउंड व्यू (All Round View)

Question Type : **MCQ**
Question ID : **264330140359**
Option 1 ID : **264330549818**
Option 2 ID : **264330549815**
Option 3 ID : **264330549817**
Option 4 ID : **264330549816**
Status : **Answered**
Chosen Option : **3**

Q.3 मछलियों के हृदय में _____ कक्ष होता है / होते हैं।

Ans
1. चार
2. दो
3. तीन
4. एक

Question Type : **MCQ**
Question ID : **264330140281**
Option 1 ID : **264330549506**
Option 2 ID : **264330549504**
Option 3 ID : **264330549505**
Option 4 ID : **264330549503**
Status : **Answered**
Chosen Option : **3**

Q.4 निम्नलिखित में से किसे वर्ष 1956 में भारत सरकार द्वारा सभी मौजूदा निजी क्षेत्र की जीवन बीमा कंपनियों का राष्ट्रीयकरण करके स्थापित किया गया था?

Ans
1. जनरल इंश्योरेंस कारपोरेशन ऑफ इंडिया (General Insurance Corporation of India)
2. न्यू इंडिया एश्योरेंस कंपनी लिमिटेड (New India Assurance Company Limited)
3. यूनाइटेड इंडिया इंश्योरेंस कंपनी लिमिटेड (United India Insurance Company Limited)
4. भारतीय जीवन बीमा निगम (Life Insurance Corporation of India)

Question Type : **MCQ**
Question ID : **264330140725**
Option 1 ID : **264330551247**
Option 2 ID : **264330551250**
Option 3 ID : **264330551248**
Option 4 ID : **264330551249**
Status : **Answered**
Chosen Option : **4**

Join Telegram Group "HaryanaJobs.in"

Q.5 2022 में संसद में पारित निम्नलिखित में से किस विधेयक ने 'बंदी पहचान अधिनियम, 1920' को प्रतिस्थापित किया है?

Ans
1. चुनाव कानून (संशोधन) विधेयक
2. कृषि कानून निरसन विधेयक
3. केंद्रीय सतर्कता आयोग (संशोधन) विधेयक
4. आपराधिक प्रक्रिया (पहचान) अधिनियम

Question Type : **MCQ**
Question ID : **264330140701**
Option 1 ID : **264330551152**
Option 2 ID : **264330551154**
Option 3 ID : **264330551153**
Option 4 ID : **264330551151**
Status : **Answered**
Chosen Option : **4**

Q.6 पंकज आडवाणी का संबंध किस खेल से है?

Ans
1. बिलियर्ड्स
2. शतरंज
3. टेबल टेनिस
4. गोल्फ़

Question Type : **MCQ**
Question ID : **264330139677**
Option 1 ID : **264330547125**
Option 2 ID : **264330547123**
Option 3 ID : **264330547124**
Option 4 ID : **264330547126**
Status : **Answered**
Chosen Option : **1**

Q.7 वे वस्तुएँ जो एक निश्चित समय अंतराल के पश्चात् अपनी गति को दोहराती हैं, _____ में कहलाती हैं।

Ans
1. वर्तुल गति
2. आवर्ती गति
3. सरल रेखीय गति
4. अर्द्ध-वर्तुल गति

Question Type : **MCQ**
Question ID : **264330139689**
Option 1 ID : **264330547172**
Option 2 ID : **264330547171**
Option 3 ID : **264330547173**
Option 4 ID : **264330547174**
Status : **Answered**
Chosen Option : **3**

Join Telegram Group "HaryanaJobs.in"

Q.8 चोल (Chola), चेर (Chera) और पांड्य (Pandyas) राजवंश भारत के किस प्राचीन काल के शासक थे?

Ans
✗ 1. महाजनपद काल
✗ 2. गुप्त काल
✗ 3. मौर्य काल
✓ 4. संगम काल

Question Type : **MCQ**
Question ID : **264330140689**
Option 1 ID : **264330551104**
Option 2 ID : **264330551106**
Option 3 ID : **264330551103**
Option 4 ID : **264330551105**
Status : **Answered**
Chosen Option : **3**

Q.9 1917 में किस भारतीय आंदोलन में पहली बार नील बागानों की समस्याओं को प्रकट किया गया?

Ans
✗ 1. खेड़ा सत्याग्रह
✓ 2. चंपारण आंदोलन
✗ 3. असहयोग आंदोलन
✗ 4. अहमदाबाद मिल हड़ताल

Question Type : **MCQ**
Question ID : **264330140741**
Option 1 ID : **264330551313**
Option 2 ID : **264330551311**
Option 3 ID : **264330551314**
Option 4 ID : **264330551312**
Status : **Answered**
Chosen Option : **2**

Q.10 एक राज्यसभा सदस्य का कार्यकाल कितने वर्षों का होता है?

Ans
✗ 1. दो वर्ष
✓ 2. छः वर्ष
✗ 3. तीन वर्ष
✗ 4. पाँच वर्ष

Question Type : **MCQ**
Question ID : **264330140672**
Option 1 ID : **264330551035**
Option 2 ID : **264330551038**
Option 3 ID : **264330551037**
Option 4 ID : **264330551036**
Status : **Answered**
Chosen Option : **2**

Join Telegram Group "HaryanaJobs.in"

Q.11 भारतीय संविधान के 42वें संशोधन की प्रस्तावना में निम्नलिखित में से कौन-से शब्द जोड़े गए थे?

Ans
1. गणतंत्र
2. समाजवादी
3. सार्वभौम
4. लोकतांत्रिक

Question Type : **MCQ**
Question ID : **264330140337**
Option 1 ID : **264330549730**
Option 2 ID : **264330549728**
Option 3 ID : **264330549727**
Option 4 ID : **264330549729**
Status : **Answered**
Chosen Option : **2**

Q.12 निम्नलिखित में से कौन-सा भारत के महाराष्ट्र राज्य का एक प्रसिद्ध त्यौहार है?

Ans
1. गुड़ी पड़वा
2. ओणम
3. छठ पूजा
4. उगादि

Question Type : **MCQ**
Question ID : **264330140320**
Option 1 ID : **264330549661**
Option 2 ID : **264330549662**
Option 3 ID : **264330549660**
Option 4 ID : **264330549659**
Status : **Answered**
Chosen Option : **1**

Q.13 भारत के उत्तरी भाग में ग्रीष्मकाल में _____ होती है।

Ans
1. वायु दाब में कमी
2. तापमान में कमी
3. भारी वर्षा
4. वायु दाब में वृद्धि

Question Type : **MCQ**
Question ID : **264330140684**
Option 1 ID : **264330551085**
Option 2 ID : **264330551084**
Option 3 ID : **264330551086**
Option 4 ID : **264330551083**
Status : **Answered**
Chosen Option : **4**

Join Telegram Group "HaryanaJobs.in"

Q.14 कथकली नृत्य शैली की उत्पत्ति निम्नलिखित में से किस राज्य में हुई है?

Ans
✔ 1. केरल
✘ 2. कर्नाटक
✘ 3. तमिलनाडु
✘ 4. उड़ीसा

Question Type : **MCQ**
Question ID : **264330140344**
Option 1 ID : **264330549757**
Option 2 ID : **264330549755**
Option 3 ID : **264330549756**
Option 4 ID : **264330549758**
Status : **Answered**
Chosen Option : **1**

Q.15 मध्ययुगीन शब्द "रक्स" का क्या अर्थ था?

Ans
✘ 1. जाप
✘ 2. अनुष्ठान
✘ 3. गायन
✔ 4. नृत्य

Question Type : **MCQ**
Question ID : **264330139888**
Option 1 ID : **264330547931**
Option 2 ID : **264330547934**
Option 3 ID : **264330547932**
Option 4 ID : **264330547933**
Status : **Answered**
Chosen Option : **1**

Q.16 एक खेल से संबंधित फिल्म, अज़हर (2016) निम्नलिखित में से किस खेल पर आधारित है?

Ans
✘ 1. मिक्स्ड मार्शल आर्ट्स
✔ 2. क्रिकेट
✘ 3. हॉकी
✘ 4. मुक्केबाज़ी

Question Type : **MCQ**
Question ID : **264330138949**
Option 1 ID : **264330544406**
Option 2 ID : **264330544405**
Option 3 ID : **264330544404**
Option 4 ID : **264330544403**
Status : **Answered**
Chosen Option : **1**

Join Telegram Group "HaryanaJobs.in"

Q.17 किस भारतीय मंत्रालय ने जम्मू और कश्मीर पुनर्गठन विधेयक, 2019 पेश किया था?

Ans
1. विदेश मंत्रालय
2. संसदीय कार्य मंत्रालय
3. गृह मंत्रालय
4. रक्षा मंत्रालय

Question Type : **MCQ**
Question ID : **264330140368**
Option 1 ID : **264330549853**
Option 2 ID : **264330549854**
Option 3 ID : **264330549852**
Option 4 ID : **264330549851**
Status : **Answered**
Chosen Option : **3**

Q.18 नर्मदा नदी का उद्गम किस राज्य में स्थित अमरकंटक की पहाड़ियों से होता है?

Ans
1. राजस्थान
2. मध्यप्रदेश
3. महाराष्ट्र
4. गुजरात

Question Type : **MCQ**
Question ID : **264330139691**
Option 1 ID : **264330547181**
Option 2 ID : **264330547182**
Option 3 ID : **264330547180**
Option 4 ID : **264330547179**
Status : **Answered**
Chosen Option : **2**

Q.19 निम्नलिखित में से कौन कुचिपुड़ी नृत्य शैली से संबंधित **नहीं** है?

Ans
1. वेम्पति चिन्ना सत्यम (Vempati Chinna Satyam)
2. वैजयंती काशी (Vyjayanti Kashi)
3. घनकांत बोरा बोरबायन (Ghanakanta Bora Borbayan)
4. राधा रेड्डी

Question Type : **MCQ**
Question ID : **264330141065**
Option 1 ID : **264330552608**
Option 2 ID : **264330552609**
Option 3 ID : **264330552610**
Option 4 ID : **264330552607**
Status : **Answered**
Chosen Option : **1**

Join Telegram Group "HaryanaJobs.in"

Q.20 _____ वे रक्त वाहिनियाँ हैं, जो कार्बन डाइऑक्साइड समृद्ध रक्त को वापस हृदय में ले जाती हैं।

Ans
1. धमनियों
2. तंत्रिका-कोशिकाएँ
3. शिराएँ
4. केशिकाएँ

Question Type : **MCQ**
Question ID : **264330140280**
Option 1 ID : **264330549499**
Option 2 ID : **264330549500**
Option 3 ID : **264330549501**
Option 4 ID : **264330549502**
Status : **Answered**
Chosen Option : **1**

Q.21 'स्वर्णिम चतुर्भुज (Golden quadrilateral)' निम्नलिखित में से किस शहर को नहीं जोड़ता है?

Ans
1. दिल्ली
2. चेन्नई
3. मुंबई
4. भोपाल

Question Type : **MCQ**
Question ID : **264330139765**
Option 1 ID : **264330547475**
Option 2 ID : **264330547478**
Option 3 ID : **264330547476**
Option 4 ID : **264330547477**
Status : **Answered**
Chosen Option : **4**

Q.22 बौद्ध स्थापत्यकला के स्मारकों में प्रार्थना कक्षों को _____ कहा जाता था।

Ans
1. चैत्य गृह
2. स्तूप
3. विहार
4. पिश्तक

Question Type : **MCQ**
Question ID : **264330140321**
Option 1 ID : **264330549663**
Option 2 ID : **264330549664**
Option 3 ID : **264330549665**
Option 4 ID : **264330549666**
Status : **Answered**
Chosen Option : **4**

Join Telegram Group "HaryanaJobs.in"

Q.23 निम्नलिखित में से कौन-सा भारतीय राज्य क्षेत्रफल की दृष्टि से सबसे बड़ा है?

Ans
✔ 1. राजस्थान
✘ 2. मध्यप्रदेश
✘ 3. महाराष्ट्र
✘ 4. उत्तरप्रदेश

Question Type : **MCQ**
Question ID : **264330139717**
Option 1 ID : **264330547285**
Option 2 ID : **264330547286**
Option 3 ID : **264330547283**
Option 4 ID : **264330547284**
Status : **Answered**
Chosen Option : **1**

Q.24 निम्नलिखित में से कौन एक वैश्विक ख्याति प्राप्त सितार वादक है?

Ans
✔ 1. शाहिद परवेज़ खान
✘ 2. विश्व मोहन भट्ट
✘ 3. गिरिजा देवी
✘ 4. बिस्मिल्लाह खान

Question Type : **MCQ**
Question ID : **264330138977**
Option 1 ID : **264330544515**
Option 2 ID : **264330544516**
Option 3 ID : **264330544518**
Option 4 ID : **264330544517**
Status : **Answered**
Chosen Option : **4**

Q.25 दस लाख की आबादी तक पहुँचने वाली प्रथम नगरीय बस्ती _____ थी।

Ans
✔ 1. लंदन
✘ 2. बर्लिन
✘ 3. न्यूयॉर्क
✘ 4. टोक्यो

Question Type : **MCQ**
Question ID : **264330138991**
Option 1 ID : **264330544571**
Option 2 ID : **264330544573**
Option 3 ID : **264330544572**
Option 4 ID : **264330544574**
Status : **Answered**
Chosen Option : **1**

Section : **English Language and Comprehension**

Join Telegram Group "HaryanaJobs.in"

Q.1 Fill in the blank with the most appropriate option.

I think she's right to warn you not to _____ your temper.

Ans
1. last ✗
2. lose ✓
3. forget ✗
4. drop ✗

Question Type : **MCQ**
Question ID : **264330136160**
Option 1 ID : **264330533439**
Option 2 ID : **264330533441**
Option 3 ID : **264330533440**
Option 4 ID : **264330533442**
Status : **Answered**
Chosen Option : **2**

Q.2 Choose the incorrectly spelt word.

Ans
1. Magic ✗
2. Charity ✗
3. Station ✗
4. Contaxte ✓

Question Type : **MCQ**
Question ID : **264330135252**
Option 1 ID : **264330529927**
Option 2 ID : **264330529929**
Option 3 ID : **264330529928**
Option 4 ID : **264330529930**
Status : **Answered**
Chosen Option : **4**

Q.3 Select the most appropriate word for the given group of words.

To reveal a secret

Ans
1. Conceal ✗
2. Discern ✗
3. Divulge ✓
4. Vilify ✗

Question Type : **MCQ**
Question ID : **264330136201**
Option 1 ID : **264330533598**
Option 2 ID : **264330533595**
Option 3 ID : **264330533596**
Option 4 ID : **264330533597**
Status : **Answered**
Chosen Option : **3**

Join Telegram Group "HaryanaJobs.in"

Q.4 Select the word segment that substitutes (replaces) the bracketed word segment correctly and completes the sentence meaningfully. Select the option 'no correction required' if the sentence is correct as given.

(Most time) they didn't have enough to eat and went to bed hungry

Ans

✗ 1. No correction required

✗ 2. More times

✓ 3. Many a time

✗ 4. Many a times

Question Type : **MCQ**
Question ID : **264330135692**
Option 1 ID : **264330531662**
Option 2 ID : **264330531659**
Option 3 ID : **264330531661**
Option 4 ID : **264330531660**
Status : **Answered**
Chosen Option : **4**

Q.5 Identify the segment that contains a grammatical error. If there is no error, select 'No error'.

Leaders are self-direct, / but learning and understanding / are the keys to self-direction.

Ans

✗ 1. are the keys to self-direction.

✓ 2. Leaders are self-direct,

✗ 3. but learning and understanding

✗ 4. No error

Question Type : **MCQ**
Question ID : **264330135847**
Option 1 ID : **264330532257**
Option 2 ID : **264330532255**
Option 3 ID : **264330532256**
Option 4 ID : **264330532258**
Status : **Answered**
Chosen Option : **1**

Q.6 Identify the segment that contains a grammatical error. If there is no error, select 'No error'.

Do you have the faint / idea of what would happen / if Maa sees this?

Ans

✗ 1. No error

✗ 2. idea of what would happen

✗ 3. if Maa sees this?

✓ 4. Do you have the faint

Question Type : **MCQ**
Question ID : **264330136562**
Option 1 ID : **264330534986**
Option 2 ID : **264330534984**
Option 3 ID : **264330534985**
Option 4 ID : **264330534983**
Status : **Answered**
Chosen Option : **2**

Join Telegram Group "HaryanaJobs.in"

Q.7 Select the most appropriate synonym of the given word.

Converge

Ans
1. Verbicide
2. Coincide
3. Fratricide
4. Homicide

Question Type : **MCQ**
Question ID : **264330135835**
Option 1 ID : **264330532207**
Option 2 ID : **264330532208**
Option 3 ID : **264330532209**
Option 4 ID : **264330532210**
Status : **Answered**
Chosen Option : **2**

Q.8 Find the part of the given sentence that has an error in it. If there is no error, choose 'No error'.

Diseases passed from animals to humans are called zoonoses.

Ans
1. animals to humans
2. are called zoonoses.
3. No error
4. Diseases passed from

Question Type : **MCQ**
Question ID : **264330135153**
Option 1 ID : **264330529548**
Option 2 ID : **264330529549**
Option 3 ID : **264330529550**
Option 4 ID : **264330529547**
Status : **Answered**
Chosen Option : **4**

Q.9 Choose the sentence with no spelling error.

Ans
1. Such bloms typically don't lead to deaths.
2. Such blooms typically don't lead to deaths.
3. Such blooms typiclly don't lead to deaths.
4. Such blooms typically don't leade to deaths.

Question Type : **MCQ**
Question ID : **264330135532**
Option 1 ID : **264330531033**
Option 2 ID : **264330531031**
Option 3 ID : **264330531032**
Option 4 ID : **264330531034**
Status : **Answered**
Chosen Option : **2**

Join Telegram Group "HaryanaJobs.in"

Q.10 Select the most appropriate synonym to substitute the bracketed word in the given sentence.
I do not object to this (accolade) on the grounds that Edinburgh has little literary tradition.

Ans
1. Stubborn ✗
2. Criticism ✗
3. Indictment ✗
4. Praise ✓

Question Type : **MCQ**
Question ID : **264330136760**
Option 1 ID : **264330535745**
Option 2 ID : **264330535746**
Option 3 ID : **264330535743**
Option 4 ID : **264330535744**
Status : **Answered**
Chosen Option : **4**

Q.11 Select the appropriate antonym for the underlined word.

What youthful philosophers and experimentalists we are!

Ans
1. unformed ✗
2. ripened ✓
3. childlike ✗
4. raw ✗

Question Type : **MCQ**
Question ID : **264330135171**
Option 1 ID : **264330529617**
Option 2 ID : **264330529616**
Option 3 ID : **264330529615**
Option 4 ID : **264330529618**
Status : **Answered**
Chosen Option : **3**

Q.12 Improve the underlined part of the sentence. Choose 'No improvement' as an answer if the sentence is grammatically correct.

He had thrown the wrapper into the garbage.

Ans
1. has throwing the ✗
2. throw the ✗
3. thrown the ✗
4. No improvement ✓

Question Type : **MCQ**
Question ID : **264330135156**
Option 1 ID : **264330529561**
Option 2 ID : **264330529559**
Option 3 ID : **264330529560**
Option 4 ID : **264330529562**
Status : **Answered**
Chosen Option : **4**

Join Telegram Group "HaryanaJobs.in"

Q.13 Select the most appropriate antonym of the given word.

Reservation

Ans

✔ 1. Openness

✘ 2. Conserve

✘ 3. Catch

✘ 4. Doubt

Question Type : **MCQ**
Question ID : **264330136179**
Option 1 ID : **264330533513**
Option 2 ID : **264330533514**
Option 3 ID : **264330533511**
Option 4 ID : **264330533512**
Status : **Answered**
Chosen Option : **1**

Q.14 Choose the word that can substitute the given group of words.

A place for housing aeroplanes

Ans

✘ 1. Hutch

✘ 2. Brewery

✘ 3. Burrow

✔ 4. Hangar

Question Type : **MCQ**
Question ID : **264330135245**
Option 1 ID : **264330529901**
Option 2 ID : **264330529902**
Option 3 ID : **264330529899**
Option 4 ID : **264330529900**
Status : **Answered**
Chosen Option : **4**

Q.15 Select the most appropriate option to fill in the blank.

The life of the church seems, indeed, to have been in a more stagnant and _____ condition in this age than at any other period of English history.

Ans

✔ 1. torpid

✘ 2. truculent

✘ 3. tangential

✘ 4. expedite

Question Type : **MCQ**
Question ID : **264330136194**
Option 1 ID : **264330533572**
Option 2 ID : **264330533574**
Option 3 ID : **264330533571**
Option 4 ID : **264330533573**
Status : **Answered**
Chosen Option : **2**

Join Telegram Group "HaryanaJobs.in"

Q.16 Select the most appropriate meaning of the given idiom.

Be at a crossroads

Ans
1. To be confused ✗
2. To have forgotten the way ✗
3. To make a very important decision ✓
4. To have taken the wrong road ✗

Question Type : **MCQ**
Question ID : **264330135761**
Option 1 ID : **264330531925**
Option 2 ID : **264330531923**
Option 3 ID : **264330531924**
Option 4 ID : **264330531926**
Status : **Answered**
Chosen Option : **3**

Q.17 A sentence has been given with a blank to be filled with an appropriate option. Choose the correct alternative.

I smiled at my son and _____ thankful.

Ans
1. feel ✗
2. feeling ✗
3. fallen ✗
4. felt ✓

Question Type : **MCQ**
Question ID : **264330135643**
Option 1 ID : **264330531472**
Option 2 ID : **264330531474**
Option 3 ID : **264330531473**
Option 4 ID : **264330531471**
Status : **Answered**
Chosen Option : **2**

Q.18 Fill in the blank with the most appropriate option.

As he walked past the chambers, Samir asked everyone to quiet _____.

Ans
1. rise ✗
2. down ✓
3. please ✗
4. up ✗

Question Type : **MCQ**
Question ID : **264330136185**
Option 1 ID : **264330533538**
Option 2 ID : **264330533537**
Option 3 ID : **264330533536**
Option 4 ID : **264330533535**
Status : **Answered**
Chosen Option : **2**

Join Telegram Group "HaryanaJobs.in"

Q.19 In the following question, out of the given four alternatives, select the alternative which best expresses the meaning of the Idiom/Phrase.

To strain every nerve

Ans

1. ✗ To claim something
2. ✗ To manipulate someone in the best way
3. ✓ To make a great effort
4. ✗ To go for physiotherapy

Question Type : **MCQ**
Question ID : **264330135173**
Option 1 ID : **264330529623**
Option 2 ID : **264330529625**
Option 3 ID : **264330529624**
Option 4 ID : **264330529626**
Status : **Answered**
Chosen Option : **2**

Q.20 Select the word segment that substitutes (replaces) the bracketed word segment correctly and completes the sentence meaningfully. Select the option 'no correction required' if the sentence is correct as given.

(Many man) have tried to find the caves but none have succeeded.

Ans

1. ✗ No correction required
2. ✓ Many a man
3. ✗ Many a men
4. ✗ Much man

Question Type : **MCQ**
Question ID : **264330136270**
Option 1 ID : **264330533866**
Option 2 ID : **264330533865**
Option 3 ID : **264330533863**
Option 4 ID : **264330533864**
Status : **Answered**
Chosen Option : **2**

Join Telegram Group "HaryanaJobs.in"

Comprehension:

In the following passage some words have been deleted. Fill in the blanks with the help of the alternatives given. Select the most appropriate option for each number.

Professor Sprout was standing (1) _____ a trestle bench in the centre of the greenhouse. (2) _____ twenty (3) _____ of different-coloured ear muffs (4) _____ lying on the bench. Harry (5) _____ his place between Ron and Hermione.

SubQuestion No : 21

Q.21 Select the most appropriate option to fill in blank number 1.

Ans

✗ 1. afterwards

✓ 2. behind

✗ 3. back off

✗ 4. after back

Question Type : **MCQ**
Question ID : **264330136570**
Option 1 ID : **264330535014**
Option 2 ID : **264330535013**
Option 3 ID : **264330535011**
Option 4 ID : **264330535012**
Status : **Answered**
Chosen Option : **2**

Comprehension:

In the following passage some words have been deleted. Fill in the blanks with the help of the alternatives given. Select the most appropriate option for each number.

Professor Sprout was standing (1) _____ a trestle bench in the centre of the greenhouse. (2) _____ twenty (3) _____ of different-coloured ear muffs (4) _____ lying on the bench. Harry (5) _____ his place between Ron and Hermione.

SubQuestion No : 22

Q.22 Select the most appropriate option to fill in blank number 2.

Ans

✓ 1. About

✗ 2. Round

✗ 3. Utmost

✗ 4. Near by

Question Type : **MCQ**
Question ID : **264330136571**
Option 1 ID : **264330535017**
Option 2 ID : **264330535016**
Option 3 ID : **264330535015**
Option 4 ID : **264330535018**
Status : **Answered**
Chosen Option : **1**

Join Telegram Group "HaryanaJobs.in"

Comprehension:

In the following passage some words have been deleted. Fill in the blanks with the help of the alternatives given. Select the most appropriate option for each number.

Professor Sprout was standing (1) _____ a trestle bench in the centre of the greenhouse. (2) _____ twenty (3) _____ of different-coloured ear muffs (4) _____ lying on the bench. Harry (5) _____ his place between Ron and Hermione.

SubQuestion No : 23

Q.23 Select the most appropriate option to fill in blank number 3.

Ans

✔ 1. pairs

✘ 2. teams

✘ 3. duality

✘ 4. couples

Question Type : **MCQ**
Question ID : **264330136572**
Option 1 ID : **264330535022**
Option 2 ID : **264330535020**
Option 3 ID : **264330535021**
Option 4 ID : **264330535019**
Status : **Answered**
Chosen Option : **1**

Comprehension:

In the following passage some words have been deleted. Fill in the blanks with the help of the alternatives given. Select the most appropriate option for each number.

Professor Sprout was standing (1) _____ a trestle bench in the centre of the greenhouse. (2) _____ twenty (3) _____ of different-coloured ear muffs (4) _____ lying on the bench. Harry (5) _____ his place between Ron and Hermione.

SubQuestion No : 24

Q.24 Select the most appropriate option to fill in blank number 4.

Ans

✔ 1. were

✘ 2. continue

✘ 3. lay

✘ 4. was

Question Type : **MCQ**
Question ID : **264330136573**
Option 1 ID : **264330535023**
Option 2 ID : **264330535025**
Option 3 ID : **264330535026**
Option 4 ID : **264330535024**
Status : **Answered**
Chosen Option : **2**

Join Telegram Group "HaryanaJobs.in"

Comprehension:

In the following passage some words have been deleted. Fill in the blanks with the help of the alternatives given. Select the most appropriate option for each number.

Professor Sprout was standing (1) _____ a trestle bench in the centre of the greenhouse. (2) _____ twenty (3) _____ of different-coloured ear muffs (4) _____ lying on the bench. Harry (5) _____ his place between Ron and Hermione.

SubQuestion No : 25

Q.25 Select the most appropriate option to fill in blank number 5.

Ans

✗ 1. have to take

✓ 2. had taken

✗ 3. has took

✗ 4. have taken

Question Type : **MCQ**
Question ID : **264330136574**
Option 1 ID : **264330535027**
Option 2 ID : **264330535028**
Option 3 ID : **264330535030**
Option 4 ID : **264330535029**
Status : **Answered**
Chosen Option : **1**

Join Telegram Group "HaryanaJobs.in"

Multi Tasking Non Technical Staff and Havaldar CBIC and CBN Examination 2022

Roll Number	HaryanaJobs.in
Candidate Name	HaryanaJobs.in
Venue Name	Uma Digital Online Mock And Assessment Centre
Exam Date	16/06/2023
Exam Time	9:00 AM - 10:30 AM
Subject	MTS Non Tech Havaldar CBIC and CBN Examination 2022

Section : **Numerical and Mathematical Ability**

Q.1 एक आदमी को नाव से 100 km दूर स्थित एक स्थान पर जाने और वापस आने में 10 घंटे का समय लगता है। वह समान समय में 12 km धारा के अनुकूल या 8 km धारा के प्रतिकूल नाव चला सकता है। धारा की चाल क्या है?

Ans

✗ 1. (29/5) km/hr

✗ 2. (23/8) km/hr

✓ 3. (25/6) km/hr

✗ 4. (20/9) km/hr

Question Type : **MCQ**
Question ID : **264330140241**
Option 1 ID : **264330549346**
Option 2 ID : **264330549345**
Option 3 ID : **264330549343**
Option 4 ID : **264330549344**
Status : **Answered**
Chosen Option : **1**

Q.2 दो नल P और Q अकेले एक टंकी को क्रमशः 10 घंटे और 12 घंटे में भर सकते हैं। यदि दोनों नलों को सुबह 9 बजे खोला जाए, तो ठीक दोपहर 3 बजे तक टंकी को पूरा भरने के लिए नल P को कितने बजे बंद करना होगा?

Ans

✗ 1. दोपहर 1 बजे

✗ 2. दोपहर 12 बजे

✓ 3. दोपहर 2 बजे

✗ 4. दोपहर 3 बजे

Question Type : **MCQ**
Question ID : **264330140534**
Option 1 ID : **264330550492**
Option 2 ID : **264330550493**
Option 3 ID : **264330550491**
Option 4 ID : **264330550494**
Status : **Answered**
Chosen Option : **3**

Join Telegram Group "HaryanaJobs.in"

Q.3 एक मिश्रण में ऐल्कोहॉल (alcohol) और पानी का अनुपात क्रमशः 4 : 5 है। इसमें 20 लीटर पानी मिलाया जाता है। यदि नए मिश्रण में ऐल्कोहॉल और पानी का अनुपात क्रमशः 1 : 3 है, तो नए मिश्रण में ऐल्कोहॉल की कुल मात्रा कितनी है?

Ans

✗ 1. 90/11 लीटर

✗ 2. 15 लीटर

✗ 3. 60/7 लीटर

✓ 4. 80/7 लीटर

Question Type : **MCQ**
Question ID : **264330140542**
Option 1 ID : **264330550524**
Option 2 ID : **264330550525**
Option 3 ID : **264330550523**
Option 4 ID : **264330550526**
Status : **Answered**
Chosen Option : **4**

Q.4 Rs. 8000 पर 15% वार्षिक दर पर 2 वर्षों का चक्रवृद्धि ब्याज ज्ञात कीजिए (वार्षिक रूप से संयोजित)।

Ans

✓ 1. Rs. 2580

✗ 2. Rs. 2450

✗ 3. Rs. 2400

✗ 4. Rs. 2550

Question Type : **MCQ**
Question ID : **264330140810**
Option 1 ID : **264330551587**
Option 2 ID : **264330551589**
Option 3 ID : **264330551588**
Option 4 ID : **264330551590**
Status : **Answered**
Chosen Option : **1**

Q.5 एक व्यक्ति ने एक रुपए में 25 पेन की दर से कुछ पेन खरीदे और एक रुपए में 20 पेन की दर से बेच दिए। उसका लाभ प्रतिशत कितना है?

Ans

✓ 1. 25 प्रतिशत

✗ 2. 30 प्रतिशत

✗ 3. 15 प्रतिशत

✗ 4. 10 प्रतिशत

Question Type : **MCQ**
Question ID : **264330140589**
Option 1 ID : **264330550707**
Option 2 ID : **264330550709**
Option 3 ID : **264330550708**
Option 4 ID : **264330550710**
Status : **Answered**
Chosen Option : **1**

Join Telegram Group "HaryanaJobs.in"

Q.6 यदि x : y : z = 2 : 3 : 4, तो 7x : 3y : 2z का मान क्या है?

Ans
1. 16 : 9 : 8
2. 12 : 6 : 11
3. 14 : 9 : 8
4. 18 : 7 : 12

Question Type : **MCQ**
Question ID : **264330140221**
Option 1 ID : **264330549264**
Option 2 ID : **264330549265**
Option 3 ID : **264330549266**
Option 4 ID : **264330549263**
Status : **Answered**
Chosen Option : **3**

Q.7 एक कैलकुलेटर का अंकित मूल्य Rs.1600 है। इसे 28 प्रतिशत की छूट पर बेचा जाता है। यदि कैलकुलेटर का क्रय मूल्य Rs.700 है, तो लाभ का मूल्य क्या है?

Ans
1. Rs.405
2. Rs.438
3. Rs.498
4. Rs.452

Question Type : **MCQ**
Question ID : **264330139963**
Option 1 ID : **264330548232**
Option 2 ID : **264330548233**
Option 3 ID : **264330548231**
Option 4 ID : **264330548234**
Status : **Answered**
Chosen Option : **4**

Q.8 यदि x का x प्रतिशत 256 है, तो x का मान क्या है?

Ans
1. 200
2. 150
3. 160
4. 180

Question Type : **MCQ**
Question ID : **264330139633**
Option 1 ID : **264330546948**
Option 2 ID : **264330546947**
Option 3 ID : **264330546949**
Option 4 ID : **264330546950**
Status : **Answered**
Chosen Option : **3**

Join Telegram Group "HaryanaJobs.in"

Q.9 एक आयताकार मेज़ के शीर्ष का परिमाप 42 मीटर है और इसका क्षेत्रफल 108 $metre^2$ है। इसके विकर्ण की लंबाई कितनी है?

Ans

✗ 1. 9 मीटर

✓ 2. 15 मीटर

✗ 3. 11 मीटर

✗ 4. 12 मीटर

Question Type : **MCQ**
Question ID : **264330139925**
Option 1 ID : **264330548082**
Option 2 ID : **264330548079**
Option 3 ID : **264330548081**
Option 4 ID : **264330548080**
Status : **Answered**
Chosen Option : **2**

Q.10 एक वस्तु को 5 प्रतिशत हानि पर बेचा जाता है। यदि इसके क्रय मूल्य में Rs.20 की कमी की जाती है और विक्रय मूल्य में Rs.13 की वृद्धि की जाती है, तो इस पर 10 प्रतिशत का लाभ प्राप्त होता है। वस्तु का वास्तविक विक्रय मूल्य क्या है?

Ans

✓ 1. Rs. 221.66

✗ 2. Rs. 283.33

✗ 3. Rs. 250

✗ 4. Rs. 266.66

Question Type : **MCQ**
Question ID : **264330140160**
Option 1 ID : **264330549020**
Option 2 ID : **264330549022**
Option 3 ID : **264330549019**
Option 4 ID : **264330549021**
Status : **Answered**
Chosen Option : **4**

Join Telegram Group "HaryanaJobs.in"

Q.11 नीचे दिए गए वृत्त आलेख में 7 अलग-अलग कंपनियों की बिक्री को दर्शाया गया है। इन सभी 7 कंपनियों की कुल बिक्री 1440 है। इनमें से किसी एक विशिष्ट कंपनी की बिक्री को इन सभी 7 कंपनियों की कुल बिक्री के सापेक्ष डिग्री में दर्शाया गया है।

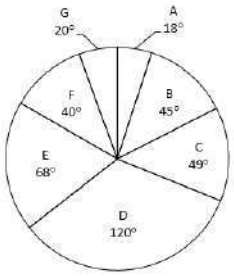

A और B की औसत बिक्री तथा D और E की औसत बिक्री का अनुपात क्या है?

Ans

✗ 1. 169 : 49

✗ 2. 59 : 177

✓ 3. 63 : 188

✗ 4. 51 : 186

Question Type : **MCQ**
Question ID : **264330140192**
Option 1 ID : **264330549148**
Option 2 ID : **264330549147**
Option 3 ID : **264330549149**
Option 4 ID : **264330549150**
Status : **Answered**
Chosen Option : **3**

Q.12 A किसी कार्य को 48 दिनों में कर सकता है। कुल कार्य का कितना भाग A द्वारा 18 दिनों में पूरा किया जा सकता है?

Ans

✗ 1. 3/5

✗ 2. 4/9

✓ 3. 3/8

✗ 4. 5/6

Question Type : **MCQ**
Question ID : **264330139588**
Option 1 ID : **264330546768**
Option 2 ID : **264330546769**
Option 3 ID : **264330546767**
Option 4 ID : **264330546770**
Status : **Answered**
Chosen Option : **3**

Join Telegram Group "HaryanaJobs.in"

Q.13 दो बेलनों के आयतन का अनुपात 27 : 25 है और उनकी ऊँचाइयों का अनुपात 3 : 4 है। यदि दूसरे बेलन के आधार का क्षेत्रफल 3850 cm^2 है, तो पहले बेलन की त्रिज्या कितनी होगी?

Ans
1. 42 cm ✔
2. 34 cm ✘
3. 63 cm ✘
4. 56 cm ✘

Question Type : **MCQ**
Question ID : **264330140596**
Option 1 ID : **264330550737**
Option 2 ID : **264330550738**
Option 3 ID : **264330550736**
Option 4 ID : **264330550735**
Status : **Answered**
Chosen Option : **1**

Q.14 $\left(\frac{21}{46} \div \frac{1}{6}\right)$ of $\frac{23}{42} + \frac{96}{576} \times \frac{24}{3} - \left(\frac{88}{56} \times \frac{7}{9} \div \frac{5}{36}\right)$ का मान क्या है?

Ans
1. −163/28 ✘
2. 5/2 ✘
3. 11/2 ✘
4. −179/30 ✔

Question Type : **MCQ**
Question ID : **264330139948**
Option 1 ID : **264330548173**
Option 2 ID : **264330548174**
Option 3 ID : **264330548171**
Option 4 ID : **264330548172**
Status : **Answered**
Chosen Option : **4**

Q.15 11 × 2 + (45 ÷ 9) + (72 ÷ 8) - 5 + 4 का मान है :

Ans
1. 32 ✘
2. 40 ✘
3. 41 ✘
4. 35 ✔

Question Type : **MCQ**
Question ID : **264330140796**
Option 1 ID : **264330551532**
Option 2 ID : **264330551534**
Option 3 ID : **264330551533**
Option 4 ID : **264330551531**
Status : **Answered**
Chosen Option : **4**

Join Telegram Group "HaryanaJobs.in"

Q.16 7 क्रमागत विषम संख्याओं का औसत A है। यदि अगली 3 और पिछली 2 विषम संख्याओं को भी इन 7 विषम संख्याओं में शामिल कर लिया जाए, तो इन 12 क्रमागत विषम संख्याओं का नया औसत क्या है?

Ans

✗ 1. A - 2

✗ 2. A + 3

✓ 3. A + 1

✗ 4. A + 2

Question Type : **MCQ**
Question ID : **264330139895**
Option 1 ID : **264330547959**
Option 2 ID : **264330547962**
Option 3 ID : **264330547961**
Option 4 ID : **264330547960**
Status : **Answered**
Chosen Option : **3**

Q.17 निम्नलिखित तालिका का अध्ययन करें और उत्तर दें। किस वर्ष में कंपनी ने ईंधन और परिवहन (fuel and transport) पर न्यूनतम खर्च किया?

Year	Item of Expenditure				
	Salary	Fuel and Transport	Bonus	Interest on Loans	Taxes
2001	288	198	3	23.4	83
2002	342	112	2.52	32.5	108
2003	324	91	3.84	41.6	74
2004	336	98	3.68	36.4	88
2005	420	142	3.96	49.4	98

Item of Expenditure - वस्तुएँ जिन पर खर्च किया गया है , Year - वर्ष, Salary - वेतन, Fuel and Transport - ईंधन और परिवहन, Bonus - बोनस, Interests on loans - ऋण पर ब्याज, Taxes - कर

Ans

✗ 1. 2003

✗ 2. 2000

✓ 3. 2001

✗ 4. 2002

Question Type : **MCQ**
Question ID : **264330140815**
Option 1 ID : **264330551610**
Option 2 ID : **264330551607**
Option 3 ID : **264330551608**
Option 4 ID : **264330551609**
Status : **Answered**
Chosen Option : **1**

Join Telegram Group "HaryanaJobs.in"

Q.18 एक निश्चित राशि पर 3 वर्ष के लिए 20 प्रतिशत वार्षिक दर से साधारण ब्याज और चक्रवृद्धि ब्याज (ब्याज का संयोजन वार्षिक रूप से किया जाता है) के बीच का अंतर Rs. 192 है। वह राशि क्या है?

Ans
1. Rs. 1400
2. Rs. 1200
3. Rs. 1500
4. Rs. 1000

Question Type : **MCQ**
Question ID : **264330140224**
Option 1 ID : **264330549276**
Option 2 ID : **264330549278**
Option 3 ID : **264330549277**
Option 4 ID : **264330549275**
Status : **Answered**
Chosen Option : **3**

Q.19 $\frac{11\times11-24\times6of2+12\times12}{4\times5+6\times2\div4}$ का मान क्या है?

Ans
1. 2
2. -1
3. -2
4. 1

Question Type : **MCQ**
Question ID : **264330140229**
Option 1 ID : **264330549298**
Option 2 ID : **264330549296**
Option 3 ID : **264330549295**
Option 4 ID : **264330549297**
Status : **Answered**
Chosen Option : **2**

Q.20 एक दुकानदार को Rs.30 और Rs.20 प्रति किलोग्राम मूल्य वाली मिठाइयों की दो किस्मों को किस अनुपात में मिलाना चाहिए, जिससे Rs.25 प्रति किलोग्राम मूल्य वाला मिश्रण प्राप्त हो?

Ans
1. 1:1
2. 2:3
3. 5:4
4. 4:5

Question Type : **MCQ**
Question ID : **264330133739**
Option 1 ID : **264330523979**
Option 2 ID : **264330523980**
Option 3 ID : **264330523982**
Option 4 ID : **264330523981**
Status : **Answered**
Chosen Option : **1**

Section : **Reasoning Ability and Problem Solving**

Join Telegram Group "HaryanaJobs.in"

Q.1 एक निश्चित कूट भाषा में, 'SETTLE' को 'DLSTDS' लिखा जाता है। उस कूट भाषा में 'STRUCK' को कैसे लिखा जाएगा?

Ans
1. JCTRSS ✓
2. JTCRSS ✗
3. JCTSRS ✗
4. JCTRST ✗

Question Type : **MCQ**
Question ID : **264330139976**
Option 1 ID : **264330548285**
Option 2 ID : **264330548283**
Option 3 ID : **264330548284**
Option 4 ID : **264330548286**
Status : **Answered**
Chosen Option : **1**

Q.2 दी गई श्रृंखला में निम्नलिखित में से कौन-सी संख्या प्रश्न चिन्ह (?) के स्थान पर आएगी?
61, 65, 73, 85, 101, ?

Ans
1. 123 ✗
2. 121 ✓
3. 120 ✗
4. 119 ✗

Question Type : **MCQ**
Question ID : **264330140104**
Option 1 ID : **264330548797**
Option 2 ID : **264330548796**
Option 3 ID : **264330548798**
Option 4 ID : **264330548795**
Status : **Answered**
Chosen Option : **2**

Q.3 G, H, I, J और K एक वृत्ताकार मेज के चारों ओर केंद्र की ओर मुख करके बैठे हैं। G, H के ठीक दाईं ओर बैठा है। J, K और H के बीच में बैठा है। K के ठीक बाईं ओर कौन बैठा है?

Ans
1. H ✗
2. I ✓
3. J ✗
4. G ✗

Question Type : **MCQ**
Question ID : **264330140139**
Option 1 ID : **264330548936**
Option 2 ID : **264330548937**
Option 3 ID : **264330548938**
Option 4 ID : **264330548935**
Status : **Answered**
Chosen Option : **2**

Join Telegram Group "HaryanaJobs.in"

Q.4 दी गई आकृति के उस सही दर्पण प्रतिबिंब को चुनिए जो दर्पण को नीचे दर्शाए गए अनुसार AB पर रखने पर बनेगा।

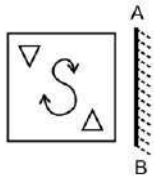

Ans

✔ 1.

✘ 2.

✘ 3.

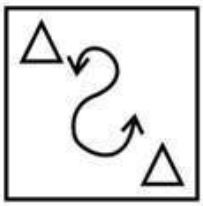

✘ 4.

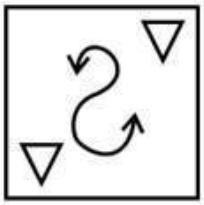

Question Type : **MCQ**
Question ID : **264330140091**
Option 1 ID : **264330548746**
Option 2 ID : **264330548743**
Option 3 ID : **264330548744**
Option 4 ID : **264330548745**
Status : **Answered**
Chosen Option : **1**

Join Telegram Group "HaryanaJobs.in"

Q.5 उस विकल्प आकृति को चुनिए जिसमें दी गई आकृति इसके भाग के रूप में निहित है। (घूर्णन की अनुमति नहीं है)।

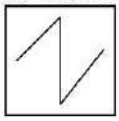

Ans

✗ 1. 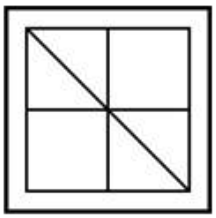

✗ 2. 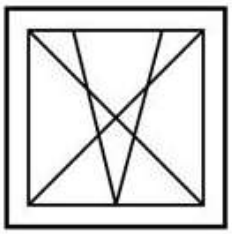

✓ 3. 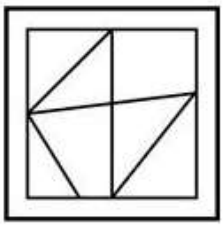

✗ 4. 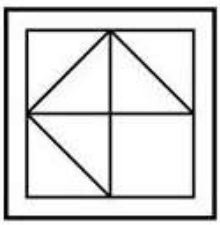

Question Type : **MCQ**
Question ID : **264330138805**
Option 1 ID : **264330543827**
Option 2 ID : **264330543830**
Option 3 ID : **264330543829**
Option 4 ID : **264330543828**
Status : **Answered**
Chosen Option : **3**

Q.6 पाँच छात्रों विराट, कमल, अनिल, संजय और राहुल के अंकों की तुलना की जाती है। कोई भी दो छात्रों के अंक समान नहीं हैं। अनिल के अंक केवल दो छात्रों से कम हैं। कमल के अंक किसी भी छात्र से कम नहीं हैं। संजय के अंक अनिल से अधिक और कमल से कम हैं। यदि राहुल के अंक विराट के अंक से अधिक हैं, तो कितने छात्रों के अंक विराट के अंकों से कम हैं?

Ans

✗ 1. 1

✗ 2. 3

✓ 3. 0

✗ 4. 2

Question Type : **MCQ**
Question ID : **264330139536**
Option 1 ID : **264330546559**
Option 2 ID : **264330546561**
Option 3 ID : **264330546562**
Option 4 ID : **264330546560**
Status : **Answered**
Chosen Option : **3**

Join Telegram Group "HaryanaJobs.in"

Q.7 एक निश्चित कूट भाषा में, 'MAPS' को '49' और 'SOLD' को '50' लिखा जाता है। उस भाषा में 'KIDS' को कैसे लिखा जाएगा?

Ans
1. 44
2. 43
3. 42
4. 45

Question Type : **MCQ**
Question ID : **264330140096**
Option 1 ID : **264330548764**
Option 2 ID : **264330548765**
Option 3 ID : **264330548763**
Option 4 ID : **264330548766**
Status : **Answered**
Chosen Option : **2**

Q.8 एक निश्चित कूट भाषा में, 'LABOR' को 'RALOB' लिखा जाता है। उस कूट भाषा में 'EARLY' को कैसे लिखा जाएगा?

Ans
1. YALER
2. YAELR
3. YAERL
4. ZAELR

Question Type : **MCQ**
Question ID : **264330138771**
Option 1 ID : **264330543691**
Option 2 ID : **264330543692**
Option 3 ID : **264330543693**
Option 4 ID : **264330543694**
Status : **Answered**
Chosen Option : **2**

Q.9 उस विकल्प को चुनिए जो तीसरे शब्द से ठीक उसी प्रकार संबंधित है जिस प्रकार दूसरा शब्द पहले शब्द से संबंधित है।
मिजोरम : आइजोल (Aizawl) :: तेलंगाना : ?

Ans
1. चेन्नई
2. बैंगलोर
3. जयपुर
4. हैदराबाद

Question Type : **MCQ**
Question ID : **264330137582**
Option 1 ID : **264330538936**
Option 2 ID : **264330538938**
Option 3 ID : **264330538937**
Option 4 ID : **264330538935**
Status : **Answered**
Chosen Option : **4**

Join Telegram Group "HaryanaJobs.in"

Q.10 कौन-सी उत्तर आकृति प्रश्न आकृति में दिए गए पैटर्न को पूरा करेगी?



Ans

✗ 1.

✓ 2.

✗ 3.

✗ 4.

Question Type : **MCQ**
Question ID : **264330139547**
Option 1 ID : **264330546604**
Option 2 ID : **264330546605**
Option 3 ID : **264330546606**
Option 4 ID : **264330546603**
Status : **Answered**
Chosen Option : **4**

Join Telegram Group "HaryanaJobs.in"

Q.11 D, N, U, L और O एक सीधी रेखा में उत्तर की ओर मुख करके खड़े हैं। N, D के ठीक दाईं ओर खड़ा है, जो एक छोर पर खड़ा है। O, L के ठीक बाईं ओर खड़ा है, जो छोर पर नहीं खड़ा है। O के ठीक बाईं ओर कौन खड़ा है?

Ans
1. ✗ U
2. ✓ N
3. ✗ L
4. ✗ D

Question Type : **MCQ**
Question ID : **264330135355**
Option 1 ID : **264330530330**
Option 2 ID : **264330530328**
Option 3 ID : **264330530329**
Option 4 ID : **264330530327**
Status : **Answered**
Chosen Option : **2**

Q.12 उस विकल्प को चुनिए जो तीसरी संख्या से ठीक उसी तरह संबंधित है जिस तरह दूसरी संख्या पहली संख्या से संबंधित है।
441 : 485 :: 676 : ?

Ans
1. ✓ 730
2. ✗ 1030
3. ✗ 729
4. ✗ 740

Question Type : **MCQ**
Question ID : **264330140126**
Option 1 ID : **264330548884**
Option 2 ID : **264330548883**
Option 3 ID : **264330548885**
Option 4 ID : **264330548886**
Status : **Answered**
Chosen Option : **1**

Q.13 दी गई श्रृंखला में निम्नलिखित में से कौन-सा अक्षर-समूह प्रश्न चिन्ह (?) के स्थान पर आएगा?
FT, IR, LP, ON, RL, UJ, ?

Ans
1. ✓ XH
2. ✗ MK
3. ✗ FN
4. ✗ HW

Question Type : **MCQ**
Question ID : **264330140133**
Option 1 ID : **264330548914**
Option 2 ID : **264330548913**
Option 3 ID : **264330548911**
Option 4 ID : **264330548912**
Status : **Answered**
Chosen Option : **1**

Join Telegram Group "HaryanaJobs.in"

Q.14 निम्नलिखित प्रश्न में, दी गई श्रृंखला में लुप्त संख्या को चुनिए ।

40, 43, 52, 79, 160, ?

Ans
1. 415
2. 413
3. 410
4. 403

Question Type : **MCQ**
Question ID : **264330140065**
Option 1 ID : **264330548641**
Option 2 ID : **264330548642**
Option 3 ID : **264330548640**
Option 4 ID : **264330548639**
Status : **Answered**
Chosen Option : **4**

Q.15 किन दो संख्याओं को आपस में बदलने के बाद, दिए गए समीकरण का मान '30' होगा?

8 × 1 - 9 ÷ 3 + 4

Ans
1. 3 और 9
2. 1 और 4
3. 8 और 4
4. 4 और 3

Question Type : **MCQ**
Question ID : **264330140971**
Option 1 ID : **264330552231**
Option 2 ID : **264330552233**
Option 3 ID : **264330552234**
Option 4 ID : **264330552232**
Status : **Answered**
Chosen Option : **2**

Join Telegram Group "HaryanaJobs.in"

Q.16 दो कथन दिए गए हैं और दो निष्कर्ष I और II दिए गए हैं। कथनों को सत्य मानते हुए, चाहे वे सामान्यतः ज्ञात तथ्यों से अलग प्रतीत होते हों, निश्चय कीजिए कि कौन-सा निष्कर्ष तार्किक रूप से कथनों के अनुसार है।

कथन:

कुछ घड़ियाँ, मक्का हैं।

सभी मक्के, लकड़ियाँ हैं।

निष्कर्ष:

I. कुछ घड़ियाँ, लकड़ियाँ हैं।

II. कुछ लकड़ियाँ, मक्का हैं।

Ans

✗ 1. सिर्फ निष्कर्ष II कथनों के अनुसार है

✗ 2. सिर्फ निष्कर्ष I कथनों के अनुसार है

✓ 3. दोनों निष्कर्ष I और II कथनों के अनुसार हैं

✗ 4. निष्कर्ष I और II में से कोई भी कथनों के अनुसार नहीं है

Question Type : **MCQ**
Question ID : **264330140142**
Option 1 ID : **264330548948**
Option 2 ID : **264330548947**
Option 3 ID : **264330548949**
Option 4 ID : **264330548950**
Status : **Answered**
Chosen Option : **1**

Q.17 दिए गए दो चिन्हों को आपस में बदलने पर निम्नलिखित में से कौनसा समीकरण सही होगा?

+ और ÷

I. 4 ÷ 2 + 1 - 8 × 3 = -10

II. 18 ÷ 2 - 8 + 4 × 3 = 14

Ans

✗ 1. न तो I और न ही II

✓ 2. केवल II

✗ 3. I और II दोनों

✗ 4. केवल I

Question Type : **MCQ**
Question ID : **264330139584**
Option 1 ID : **264330546754**
Option 2 ID : **264330546752**
Option 3 ID : **264330546753**
Option 4 ID : **264330546751**
Status : **Answered**
Chosen Option : **2**

Join Telegram Group "HaryanaJobs.in"

Q.18 दिए गए पैटर्न का ध्यानपूर्वक अध्ययन कीजिए और उस संख्या को चुनिए जो इसमें प्रश्न चिन्ह (?) के स्थान पर आ सकती है।
पहली पंक्ति- 12, 19, 26

दूसरी पंक्ति- 28, 35, 42

तीसरी पंक्ति- 39, 46, ?

Ans
1. 49 ✗
2. 53 ✓
3. 75 ✗
4. 63 ✗

Question Type : **MCQ**
Question ID : **264330140026**
Option 1 ID : **264330548486**
Option 2 ID : **264330548483**
Option 3 ID : **264330548485**
Option 4 ID : **264330548484**
Status : **Answered**
Chosen Option : **2**

Q.19 उस विकल्प को चुनिए जो तीसरे शब्द से ठीक उसी तरह संबंधित है जिस तरह दूसरा शब्द पहले शब्द से संबंधित है।
परलोक : स्वर्ग :: श्रद्धा : ?

Ans
1. विश्वासघात ✗
2. खजाना ✗
3. नास्तिकता ✗
4. आस्था ✓

Question Type : **MCQ**
Question ID : **264330138790**
Option 1 ID : **264330543768**
Option 2 ID : **264330543770**
Option 3 ID : **264330543767**
Option 4 ID : **264330543769**
Status : **Answered**
Chosen Option : **4**

Join Telegram Group "HaryanaJobs.in"

Q.20 निम्नलिखित प्रश्न में कुछ कथन दिए गए हैं और उन कथनों के आधार पर कुछ निष्कर्ष दिए गए हैं। आपको मानना है कि दिए गए कथन सत्य हैं चाहे वे समान्यतः ज्ञात तथ्यों से अलग प्रतीत होते हों। सभी निष्कर्षों को पढ़िए और फिर निश्चय कीजिए कि दिए गए निष्कर्षों में से कौन-सा निष्कर्ष तार्किक रूप से दिए गए कथनों के अनुसार है।

कथन:

I. सभी A, Y हैं।

II. कोई Z, A नहीं है।

निष्कर्ष:

I. सभी Y, A हैं।

II. कुछ Y, A हैं।

III. कुछ A, Z हैं।

Ans

✔ 1. केवल निष्कर्ष II कथनों के अनुसार है

✘ 2. कोई भी निष्कर्ष कथनों के अनुसार नहीं है

✘ 3. दोनों निष्कर्ष I और III कथनों के अनुसार हैं

✘ 4. सभी निष्कर्ष कथनों के अनुसार हैं

Question Type : **MCQ**
Question ID : **264330140986**
Option 1 ID : **264330552291**
Option 2 ID : **264330552294**
Option 3 ID : **264330552292**
Option 4 ID : **264330552293**
Status : **Answered**
Chosen Option : **1**

Section : **General Awareness**

Q.1 फलों को कृत्रिम रूप से पकाने के लिए निम्नलिखित में से किस गैस का उपयोग किया जाता है?

Ans

✘ 1. फ्रीऑन (Freon)

✔ 2. ऐसीटिलीन (Acetylene)

✘ 3. आर्गन (Argon)

✘ 4. हीलियम

Question Type : **MCQ**
Question ID : **264330141051**
Option 1 ID : **264330552552**
Option 2 ID : **264330552553**
Option 3 ID : **264330552554**
Option 4 ID : **264330552551**
Status : **Answered**
Chosen Option : **2**

Join Telegram Group "HaryanaJobs.in"

Q.2 प्रधानमंत्री आवास योजना-शहरी (Pradhan Mantri Awas Yojana-Urban - PMAY-U) पुरस्कार 2021 में किस राज्य को पहला स्थान मिला है?

Ans
1. तमिलनाडु
2. उत्तरप्रदेश
3. हरियाणा
4. केरल

Question Type : **MCQ**
Question ID : **264330139657**
Option 1 ID : **264330547044**
Option 2 ID : **264330547045**
Option 3 ID : **264330547046**
Option 4 ID : **264330547043**
Status : **Answered**
Chosen Option : **1**

Q.3 कितने भारतीय राज्य "1 नवंबर" को अपने स्थापना दिवस के रूप में मनाते हैं?

Ans
1. छः
2. सात
3. आठ
4. पाँच

Question Type : **MCQ**
Question ID : **264330140890**
Option 1 ID : **264330551908**
Option 2 ID : **264330551909**
Option 3 ID : **264330551910**
Option 4 ID : **264330551907**
Status : **Answered**
Chosen Option : **1**

Q.4 _____ वह ब्याज दर है जिस पर भारतीय रिजर्व बैंक (RBI) देश के व्यावसायिक बैंकों को ऋण देता है।

Ans
1. रेपो दर
2. रिवर्स रेपो दर
3. सीमांत दर
4. आधार दर

Question Type : **MCQ**
Question ID : **264330140955**
Option 1 ID : **264330552168**
Option 2 ID : **264330552169**
Option 3 ID : **264330552167**
Option 4 ID : **264330552170**
Status : **Answered**
Chosen Option : **1**

Join Telegram Group "HaryanaJobs.in"

Q.5 भगत सिंह को 23 मार्च, 1931 को _____ के साथ फांसी दी गई थी।

Ans
1. बी.के. दत्त और राजगुरु
2. सुखदेव और राजगुरु
3. सुखदेव और चंद्रशेखर आजाद
4. सुखदेव और बी.के. दत्त

Question Type : **MCQ**
Question ID : **264330138970**
Option 1 ID : **264330544488**
Option 2 ID : **264330544489**
Option 3 ID : **264330544490**
Option 4 ID : **264330544487**
Status : **Answered**
Chosen Option : **2**

Q.6 वर्ष 1900 में, भारत ने ओलंपिक खेलों में भाग लिया था जो _____ में आयोजित किए गए थे।

Ans
1. पेरिस
2. बर्लिन
3. टोक्यो
4. एथेंस

Question Type : **MCQ**
Question ID : **264330139869**
Option 1 ID : **264330547855**
Option 2 ID : **264330547857**
Option 3 ID : **264330547856**
Option 4 ID : **264330547858**
Status : **Answered**
Chosen Option : **2**

Q.7 निम्नलिखित शास्त्रीय नर्तकों में से कौन उड़ीसा के पहले ऐसे नर्तक थे जिसे पद्म विभूषण से सम्मानित किया गया था?

Ans
1. पंकज चरण दास
2. देब प्रसाद दास
3. केलुचरण महापात्र
4. रघुनाथ दत्ता

Question Type : **MCQ**
Question ID : **264330139730**
Option 1 ID : **264330547338**
Option 2 ID : **264330547337**
Option 3 ID : **264330547335**
Option 4 ID : **264330547336**
Status : **Answered**
Chosen Option : **3**

Join Telegram Group "HaryanaJobs.in"

Q.8 वाइटमैन कप (Wightman Cup) निम्नलिखित में से किस खेल से संबंधित है?

Ans
1. हॉकी
2. टेनिस
3. गोल्फ़
4. क्रिकेट

Question Type : **MCQ**
Question ID : **264330140365**
Option 1 ID : **264330549839**
Option 2 ID : **264330549840**
Option 3 ID : **264330549842**
Option 4 ID : **264330549841**
Status : **Answered**
Chosen Option : **4**

Q.9 रक्त पट्टिकाणु (प्लेटलेट्स) को _____ के नाम से भी जाना जाता है।

Ans
1. ल्युकोसाइट (leucocytes)
2. एरिथ्रोसाइट्स (erythrocytes)
3. थ्रोम्बोसाइट (thrombocytes)
4. थ्रोम्बिन (thrombin)

Question Type : **MCQ**
Question ID : **264330140682**
Option 1 ID : **264330551075**
Option 2 ID : **264330551078**
Option 3 ID : **264330551076**
Option 4 ID : **264330551077**
Status : **Answered**
Chosen Option : **3**

Q.10 निम्नलिखित में से कौन-सी पर्वत श्रृंखला भारत में सबसे पुरानी है?

Ans
1. सतपुड़ा और विंध्य पर्वतमाला
2. पश्चिमी घाट
3. पूर्वांचल पर्वतमाला
4. अरावली पर्वतमाला

Question Type : **MCQ**
Question ID : **264330140377**
Option 1 ID : **264330549887**
Option 2 ID : **264330549889**
Option 3 ID : **264330549890**
Option 4 ID : **264330549888**
Status : **Answered**
Chosen Option : **4**

Join Telegram Group "HaryanaJobs.in"

Q.11 किस लोदी शासक (1489 ई.से 1517 ई.से) का वास्तविक नाम निज़ाम खां था?

Ans
✔ 1. सिकंदर लोदी (Sikandar Lodi)
✘ 2. बहलोल लोदी (Bahlul Lodi)
✘ 3. कुतुबुद्दीन मुबारक शाह (Qutbuddin Mubarak Shah)
✘ 4. इब्राहिम लोदी (Ibrahim Lodi)

Question Type : **MCQ**
Question ID : **264330140920**
Option 1 ID : **264330552030**
Option 2 ID : **264330552029**
Option 3 ID : **264330552028**
Option 4 ID : **264330552027**
Status : **Answered**
Chosen Option : **2**

Q.12 डॉ. बी.आर. अम्बेडकर का संबंध निम्नलिखित में से किस समुदाय से था?

Ans
✘ 1. संथाल (Santal)
✘ 2. बरार (Berar)
✔ 3. महार (Mahar)
✘ 4. सांगोई (Sangoi)

Question Type : **MCQ**
Question ID : **264330139771**
Option 1 ID : **264330547501**
Option 2 ID : **264330547500**
Option 3 ID : **264330547499**
Option 4 ID : **264330547502**
Status : **Answered**
Chosen Option : **3**

Q.13 The music of Bharatanatyam belongs to _____ of southern India.

Ans
✘ 1. Hindustani system
✘ 2. Fusion system
✔ 3. Carnatic system
✘ 4. Folk system

Question Type : **MCQ**
Question ID : **264330139648**
Option 1 ID : **264330547008**
Option 2 ID : **264330547009**
Option 3 ID : **264330547007**
Option 4 ID : **264330547010**
Status : **Answered**
Chosen Option : **3**

Join Telegram Group "HaryanaJobs.in"

Q.14 निम्नलिखित में से कौन-सा कारक जनसंख्या के वितरण को प्रभावित कर सकता है?

I. भौगोलिक कारक

II. सामाजिक कारक

III. सांस्कृतिक कारक

IV. आर्थिक कारक

Ans
1. केवल I और II
2. I, II, III और IV
3. केवल I, II, III
4. केवल II और III

Question Type : **MCQ**
Question ID : **264330140901**
Option 1 ID : **264330551951**
Option 2 ID : **264330551954**
Option 3 ID : **264330551952**
Option 4 ID : **264330551953**
Status : **Answered**
Chosen Option : **2**

Q.15 असम में वार्षिक फसलों की कटाई शुरू होने पर कौन-सा त्योहार मनाया जाता है?

Ans
1. मकरविलक्कू
2. पोंगल
3. माघ बिहू
4. लोहड़ी

Question Type : **MCQ**
Question ID : **264330140754**
Option 1 ID : **264330551365**
Option 2 ID : **264330551364**
Option 3 ID : **264330551366**
Option 4 ID : **264330551363**
Status : **Answered**
Chosen Option : **3**

Join Telegram Group "HaryanaJobs.in"

Q.16 श्रीलंका भारत से _____ द्वारा अलग होता है।

Ans
1. बेरिंग जलडमरूमध्य (Bering strait)
2. मलक्का जलडमरूमध्य (Malacca strait)
3. पाक जलडमरूमध्य (Palk strait)
4. जिब्राल्टर जलडमरूमध्य (Strait of Gibraltar)

Question Type : **MCQ**
Question ID : **264330139742**
Option 1 ID : **264330547383**
Option 2 ID : **264330547384**
Option 3 ID : **264330547386**
Option 4 ID : **264330547385**
Status : **Answered**
Chosen Option : **3**

Q.17 हिमालय की सबसे बाहरी श्रृंखला को _____ कहा जाता है।

Ans
1. हिमवन
2. शिवालिक
3. हिमाद्री
4. कोंकण

Question Type : **MCQ**
Question ID : **264330140914**
Option 1 ID : **264330552003**
Option 2 ID : **264330552005**
Option 3 ID : **264330552004**
Option 4 ID : **264330552006**
Status : **Answered**
Chosen Option : **2**

Q.18 उच्च न्यायालयों की कुछ रिट (writs) जारी करने की शक्ति भारतीय संविधान के किस अनुच्छेद के तहत शामिल की गई है?

Ans
1. अनुच्छेद 224
2. अनुच्छेद 220
3. अनुच्छेद 222
4. अनुच्छेद 226

Question Type : **MCQ**
Question ID : **264330138982**
Option 1 ID : **264330544537**
Option 2 ID : **264330544535**
Option 3 ID : **264330544536**
Option 4 ID : **264330544538**
Status : **Answered**
Chosen Option : **4**

Join Telegram Group "HaryanaJobs.in"

Q.19 वर्ष 2011 की जनगणना के अनुसार भारत में सर्वाधिक जनसंख्या घनत्व _____ का है।

Ans
1. मध्यप्रदेश
2. बिहार
3. दिल्ली राष्ट्रीय राजधानी क्षेत्र
4. केंद्र शासित प्रदेश चंडीगढ़

Question Type : **MCQ**
Question ID : **264330139692**
Option 1 ID : **264330547183**
Option 2 ID : **264330547184**
Option 3 ID : **264330547186**
Option 4 ID : **264330547185**
Status : **Answered**
Chosen Option : **3**

Q.20 भीमबेटका के शैलाश्रय किस पर्वत की तलहटी में स्थित हैं?

Ans
1. जास्कर
2. सतपुड़ा
3. विंध्य
4. पीर पंजाल

Question Type : **MCQ**
Question ID : **264330139675**
Option 1 ID : **264330547118**
Option 2 ID : **264330547116**
Option 3 ID : **264330547115**
Option 4 ID : **264330547117**
Status : **Answered**
Chosen Option : **2**

Q.21 निम्नलिखित में से कौन एक प्रसिद्ध भारतीय शहनाई वादक हैं जिन्हें वर्ष 2001 में भारत रत्न से सम्मानित किया गया था?

Ans
1. उस्ताद जाकिर हुसैन
2. पंडित रविशंकर
3. पंडित शिवकुमार शर्मा
4. उस्ताद बिस्मिल्लाह खां

Question Type : **MCQ**
Question ID : **264330140719**
Option 1 ID : **264330551226**
Option 2 ID : **264330551224**
Option 3 ID : **264330551225**
Option 4 ID : **264330551223**
Status : **Answered**
Chosen Option : **3**

Join Telegram Group "HaryanaJobs.in"

Q.22 निम्नलिखित में से कौन 'रिवर ऑफ स्मोक (River of Smoke)' उपन्यास के लेखक हैं?

Ans
1. बी.बी. लाल
2. मनोहर मालगांवकर
3. अमिताव घोष
4. जीत थायिल

Question Type : **MCQ**
Question ID : **264330138951**
Option 1 ID : **264330544412**
Option 2 ID : **264330544411**
Option 3 ID : **264330544414**
Option 4 ID : **264330544413**
Status : **Answered**
Chosen Option : **1**

Q.23 भारतीय संविधान के निम्नलिखित में से किस अनुच्छेद में मौलिक कर्तव्य, "भारत की संप्रभुता, एकता और अखंडता" का उल्लेख है?

Ans
1. अनुच्छेद 51A (b)
2. अनुच्छेद 51A (d)
3. अनुच्छेद 51A (e)
4. अनुच्छेद 51A (c)

Question Type : **MCQ**
Question ID : **264330139735**
Option 1 ID : **264330547355**
Option 2 ID : **264330547357**
Option 3 ID : **264330547358**
Option 4 ID : **264330547356**
Status : **Answered**
Chosen Option : **1**

Q.24 नवंबर 2022 की स्थिति के अनुसार, भारत के पड़ोसी देश भूटान की राजधानी क्या है?

Ans
1. पारो (Paro)
2. थिम्पू
3. बीजिंग
4. ढाका

Question Type : **MCQ**
Question ID : **264330140739**
Option 1 ID : **264330551306**
Option 2 ID : **264330551304**
Option 3 ID : **264330551303**
Option 4 ID : **264330551305**
Status : **Answered**
Chosen Option : **2**

Join Telegram Group "HaryanaJobs.in"

Q.25 कौन-सा रोग आहार में प्रोटीन की कमी से होता है?

Ans
1. पीलिया (Jaundice)
2. स्कर्वी (Scurvy)
3. सूखा रोग (Rickets)
4. क्वाशिओरकर (Kwashiorkor)

Question Type : **MCQ**
Question ID : **264330140374**
Option 1 ID : **264330549877**
Option 2 ID : **264330549876**
Option 3 ID : **264330549878**
Option 4 ID : **264330549875**
Status : **Answered**
Chosen Option : **4**

Section : **English Language and Comprehension**

Q.1 Select the most appropriate option to fill in the blank.

My friends, being incredibly nerdy linguists, _____ to make fun of the syntax.

Ans
1. stalked
2. braided
3. traded
4. decided

Question Type : **MCQ**
Question ID : **264330136559**
Option 1 ID : **264330534972**
Option 2 ID : **264330534971**
Option 3 ID : **264330534973**
Option 4 ID : **264330534974**
Status : **Answered**
Chosen Option : **4**

Q.2 Improve the underlined part of the sentence. Choose 'No improvement' as an answer if the sentence is grammatically correct.

He teaches me algebraic and geometry twice a week.

Ans
1. taught I algebra
2. No improvement
3. taught me algebra
4. teach me algebraic

Question Type : **MCQ**
Question ID : **264330135514**
Option 1 ID : **264330530965**
Option 2 ID : **264330530966**
Option 3 ID : **264330530963**
Option 4 ID : **264330530964**
Status : **Answered**
Chosen Option : **3**

Join Telegram Group "HaryanaJobs.in"

Q.3 Choose the incorrectly spelt word.

Ans
✔ 1. Graetar
✘ 2. Frame
✘ 3. Decrease
✘ 4. Rocking

Question Type : **MCQ**
Question ID : **264330135659**
Option 1 ID : **264330531534**
Option 2 ID : **264330531532**
Option 3 ID : **264330531531**
Option 4 ID : **264330531533**
Status : **Answered**
Chosen Option : **1**

Q.4 Four sentences are given, out of which three have spelling errors. Choose the sentence with all correctly spelt words.

Ans
✘ 1.
Moving between floors, their journey seems both improbable and inevitible.

✘ 2.
The Secretary requested to be informed only as necesary to perform his job.

✔ 3.
The extended phenotype is noticeable when we look at parasites.

✘ 4. They predicted a similarlly miniscule drop for September.

Question Type : **MCQ**
Question ID : **264330136184**
Option 1 ID : **264330533533**
Option 2 ID : **264330533532**
Option 3 ID : **264330533531**
Option 4 ID : **264330533534**
Status : **Answered**
Chosen Option : **3**

Q.5 Find the part of the given sentence that has an error in it. If there is no error, choose 'No error'.

Land management choices also affect the amount of carbon stored on trees.

Ans
✘ 1. also affect the amount of
✘ 2. No error
✘ 3. Land management choices
✔ 4. carbon stored on trees.

Question Type : **MCQ**
Question ID : **264330135152**
Option 1 ID : **264330529544**
Option 2 ID : **264330529546**
Option 3 ID : **264330529543**
Option 4 ID : **264330529545**
Status : **Answered**
Chosen Option : **4**

Join Telegram Group "HaryanaJobs.in"

Q.6 Select the most appropriate option to fill in the blank.

Indonesian police fired warning shots, tear gas and water cannon to try and _____ the crowd.

Ans

1. ✗ Delimit
2. ✗ Deleterious
3. ✓ Disperse
4. ✗ Discrete

Question Type : **MCQ**
Question ID : **264330136541**
Option 1 ID : **264330534905**
Option 2 ID : **264330534903**
Option 3 ID : **264330534904**
Option 4 ID : **264330534906**
Status : **Answered**
Chosen Option : **3**

Q.7 Select the word segment that substitutes (replaces) the bracketed word segment correctly and completes the sentence meaningfully. Select the option 'no correction required' if the sentence is correct as given.
(Then got of on) a station in the very heart of London.

Ans

1. ✓ They got off at
2. ✗ They got of by
3. ✗ No correction required
4. ✗ They got off on

Question Type : **MCQ**
Question ID : **264330136113**
Option 1 ID : **264330533259**
Option 2 ID : **264330533260**
Option 3 ID : **264330533262**
Option 4 ID : **264330533261**
Status : **Answered**
Chosen Option : **1**

Q.8 Fill in the blank with the most appropriate option.

They bought _____ tickets instead from a sleepy-looking guard.

Ans

1. ✗ there
2. ✓ their
3. ✗ dare
4. ✗ dire

Question Type : **MCQ**
Question ID : **264330136186**
Option 1 ID : **264330533540**
Option 2 ID : **264330533539**
Option 3 ID : **264330533541**
Option 4 ID : **264330533542**
Status : **Answered**
Chosen Option : **2**

Join Telegram Group "HaryanaJobs.in"

Q.9 Select the most appropriate synonym to substitute the bracketed word in the given sentence.

Spreading from the ports, Formosan termites began a (subterranean) colonization of the country.

Ans

✗ 1. Terrestrial

✓ 2. Underground

✗ 3. Overt

✗ 4. Subcutaneous

Question Type : **MCQ**
Question ID : **264330136361**
Option 1 ID : **264330534213**
Option 2 ID : **264330534212**
Option 3 ID : **264330534211**
Option 4 ID : **264330534214**
Status : **Answered**
Chosen Option : **1**

Q.10 Select the most appropriate meaning of the given idiom.

Add fuel to the fire

Ans

✗ 1. A mistake made in something you are trying to achieve

✓ 2. To make an argument or bad situation worse

✗ 3. Having to start all over again

✗ 4. When an attempt fails and it's time to start all over

Question Type : **MCQ**
Question ID : **264330136503**
Option 1 ID : **264330534758**
Option 2 ID : **264330534755**
Option 3 ID : **264330534756**
Option 4 ID : **264330534757**
Status : **Answered**
Chosen Option : **2**

Q.11 Select the most appropriate antonym of the given word.

Glamour

Ans

✓ 1. Dullness

✗ 2. Magnanimous

✗ 3. Charm

✗ 4. Appeal

Question Type : **MCQ**
Question ID : **264330136579**
Option 1 ID : **264330535047**
Option 2 ID : **264330535050**
Option 3 ID : **264330535049**
Option 4 ID : **264330535048**
Status : **Answered**
Chosen Option : **1**

Join Telegram Group "HaryanaJobs.in"

Q.12 Select the appropriate synonym for the underlined word.

I mean that is a <u>remarkable</u> finding.

Ans

✗ 1. standard

✗ 2. subtle

✓ 3. noticeable

✗ 4. Dim

Question Type : **MCQ**
Question ID : **264330135551**
Option 1 ID : **264330531103**
Option 2 ID : **264330531104**
Option 3 ID : **264330531105**
Option 4 ID : **264330531106**
Status : **Answered**
Chosen Option : **3**

Q.13 In the following question, out of the given four alternatives, select the alternative which best expresses the meaning of the Idiom/Phrase.

To pick holes in someone's coat

Ans

✓ 1. To find fault with someone

✗ 2. To deceive someone for personal gain

✗ 3. To aspire for something difficult

✗ 4. To discharge one's duty well

Question Type : **MCQ**
Question ID : **264330135251**
Option 1 ID : **264330529925**
Option 2 ID : **264330529926**
Option 3 ID : **264330529924**
Option 4 ID : **264330529923**
Status : **Answered**
Chosen Option : **1**

Q.14 Identify the segment that contains a grammatical error. If there is no error, select 'No error'.

Do you think I'd rather / be stuck in a room with that old / toad or be played Quidditch?

Ans

✗ 1. Do you think I'd rather

✗ 2. No error

✓ 3. toad or be played Quidditch?

✗ 4. be stuck in a room with that old

Question Type : **MCQ**
Question ID : **264330136137**
Option 1 ID : **264330533351**
Option 2 ID : **264330533354**
Option 3 ID : **264330533353**
Option 4 ID : **264330533352**
Status : **Answered**
Chosen Option : **4**

Join Telegram Group "HaryanaJobs.in"

Q.15 Select the word segment that substitutes (replaces) the bracketed word segment correctly and completes the sentence meaningfully. Select the option 'no correction required' if the sentence is correct as given.
We saw him (the more) during Hogsmeade weekend.

Ans
1. the many ✗
2. the most ✓
3. the bigger ✗
4. No correction required ✗

Question Type : **MCQ**
Question ID : **264330136165**
Option 1 ID : **264330533459**
Option 2 ID : **264330533460**
Option 3 ID : **264330533461**
Option 4 ID : **264330533462**
Status : **Answered**
Chosen Option : **2**

Q.16 Identify the segment that contains a grammatical error. If there is no error, select 'No error'.

For example, the parent mountain/ of Mont Blanc, the/ high peak in the Alps, is the Mount Everest.

Ans
1. high peak in the Alps, is the Mount Everest. ✓
2. For example, the parent mountain ✗
3. of Mont Blanc, the ✗
4. No error ✗

Question Type : **MCQ**
Question ID : **264330136484**
Option 1 ID : **264330534685**
Option 2 ID : **264330534683**
Option 3 ID : **264330534684**
Option 4 ID : **264330534686**
Status : **Answered**
Chosen Option : **1**

Q.17 Choose the word that can substitute the given group of words.

Fit to drink

Ans
1. Ostensible ✗
2. Potable ✓
3. Deplorable ✗
4. Liable ✗

Question Type : **MCQ**
Question ID : **264330135166**
Option 1 ID : **264330529598**
Option 2 ID : **264330529597**
Option 3 ID : **264330529595**
Option 4 ID : **264330529596**
Status : **Answered**
Chosen Option : **2**

Join Telegram Group "HaryanaJobs.in"

Q.18 Select the most appropriate word for the given group of words.

A person who likes or admires women

Ans
1. Polyglot ✗
2. Conversationalist ✗
3. Misogynist ✗
4. Philogynist ✓

Question Type : **MCQ**
Question ID : **264330135834**
Option 1 ID : **264330532204**
Option 2 ID : **264330532203**
Option 3 ID : **264330532206**
Option 4 ID : **264330532205**
Status : **Answered**
Chosen Option : **3**

Q.19 Select the most appropriate antonym to substitute the bracketed word in the given sentence.

For high-moisture areas, like kitchens and baths or where (frequent) cleaning is required, use only oil-based.

Ans
1. confirmed ✗
2. constant ✗
3. seldom ✓
4. dawdle ✗

Question Type : **MCQ**
Question ID : **264330135682**
Option 1 ID : **264330531619**
Option 2 ID : **264330531620**
Option 3 ID : **264330531621**
Option 4 ID : **264330531622**
Status : **Answered**
Chosen Option : **2**

Q.20 Select the most appropriate option to fill in the blank.

Nickel or brass can cause an allergic reaction when in _____ with human skin .

Ans
1. parallel ✗
2. contact ✓
3. accordance ✗
4. surface ✗

Question Type : **MCQ**
Question ID : **264330136750**
Option 1 ID : **264330535710**
Option 2 ID : **264330535708**
Option 3 ID : **264330535707**
Option 4 ID : **264330535709**
Status : **Answered**
Chosen Option : **2**

Join Telegram Group "HaryanaJobs.in"

Comprehension:

In the following passage some words have been deleted. Fill in the blanks with the help of the alternatives given. Select the most appropriate option for each number.

A loud, echoing crack broke the sleepy (1) _____ like a gunshot; a cat streaked out (2) _____ a parked car and flew out of sight; a shriek, a bellowed oath and the (3) _____ of breaking (4) _____ came from the Paula's living room, and as (5) _____ this was the signal Mansi had been waiting for.

SubQuestion No : 21

Q.21 Select the most appropriate option to fill in the blank No. 1.

Ans

✔ 1. silence

✘ 2. blackout

✘ 3. blast

✘ 4. lull

Question Type : **MCQ**
Question ID : **264330136118**
Option 1 ID : **264330533276**
Option 2 ID : **264330533275**
Option 3 ID : **264330533278**
Option 4 ID : **264330533277**
Status : **Answered**
Chosen Option : **1**

Comprehension:

In the following passage some words have been deleted. Fill in the blanks with the help of the alternatives given. Select the most appropriate option for each number.

A loud, echoing crack broke the sleepy (1) _____ like a gunshot; a cat streaked out (2) _____ a parked car and flew out of sight; a shriek, a bellowed oath and the (3) _____ of breaking (4) _____ came from the Paula's living room, and as (5) _____ this was the signal Mansi had been waiting for.

SubQuestion No : 22

Q.22 Select the most appropriate option to fill in the blank No. 2.

Ans

✘ 1. side under

✘ 2. by under

✔ 3. from under

✘ 4. from over

Question Type : **MCQ**
Question ID : **264330136119**
Option 1 ID : **264330533282**
Option 2 ID : **264330533280**
Option 3 ID : **264330533281**
Option 4 ID : **264330533279**
Status : **Answered**
Chosen Option : **3**

Join Telegram Group "HaryanaJobs.in"

Comprehension:

In the following passage some words have been deleted. Fill in the blanks with the help of the alternatives given. Select the most appropriate option for each number.

A loud, echoing crack broke the sleepy (1) _____ like a gunshot; a cat streaked out (2) _____ a parked car and flew out of sight; a shriek, a bellowed oath and the (3) _____ of breaking (4) _____ came from the Paula's living room, and as (5) _____ this was the signal Mansi had been waiting for.

SubQuestion No : 23

Q.23 Select the most appropriate option to fill in the blank No. 3.

Ans

✗ 1. vibrant

✓ 2. sound

✗ 3. intact

✗ 4. flawless

Question Type : **MCQ**
Question ID : **264330136120**
Option 1 ID : **264330533285**
Option 2 ID : **264330533286**
Option 3 ID : **264330533284**
Option 4 ID : **264330533283**
Status : **Answered**
Chosen Option : **2**

Comprehension:

In the following passage some words have been deleted. Fill in the blanks with the help of the alternatives given. Select the most appropriate option for each number.

A loud, echoing crack broke the sleepy (1) _____ like a gunshot; a cat streaked out (2) _____ a parked car and flew out of sight; a shriek, a bellowed oath and the (3) _____ of breaking (4) _____ came from the Paula's living room, and as (5) _____ this was the signal Mansi had been waiting for.

SubQuestion No : 24

Q.24 Select the most appropriate option to fill in the blank No. 4.

Ans

✗ 1. heart

✗ 2. atrocity

✗ 3. tyre

✓ 4. china

Question Type : **MCQ**
Question ID : **264330136121**
Option 1 ID : **264330533289**
Option 2 ID : **264330533290**
Option 3 ID : **264330533287**
Option 4 ID : **264330533288**
Status : **Answered**
Chosen Option : **1**

Join Telegram Group "HaryanaJobs.in"

Comprehension:

In the following passage some words have been deleted. Fill in the blanks with the help of the alternatives given. Select the most appropriate option for each number.

A loud, echoing crack broke the sleepy (1) _____ like a gunshot; a cat streaked out (2) _____ a parked car and flew out of sight; a shriek, a bellowed oath and the (3) _____ of breaking (4) _____ came from the Paula's living room, and as (5) _____ this was the signal Mansi had been waiting for.

SubQuestion No : 25

Q.25 Select the most appropriate option to fill in the blank No. 5.

Ans

✗ 1. through

✗ 2. like

✓ 3. though

✗ 4. throughout

Question Type : **MCQ**
Question ID : **264330136122**
Option 1 ID : **264330533293**
Option 2 ID : **264330533292**
Option 3 ID : **264330533291**
Option 4 ID : **264330533294**
Status : **Answered**
Chosen Option : **3**

Join Telegram Group "HaryanaJobs.in"

Multi Tasking Non Technical Staff and Havaldar CBIC and CBN Examination 2022

Roll Number	HaryanaJobs.in
Candidate Name	HaryanaJobs.in
Venue Name	iON Digital Zone iDZ Hamirpur
Exam Date	16/06/2023
Exam Time	12:00 PM - 2:00 PM
Subject	MTS Non Tech Havaldar CBIC and CBN Examination 2022

Section : **Numerical and Mathematical Ability**

Q.1 1 kg चावल के मूल्य में 50 प्रतिशत की वृद्धि होती है और चावल का पुराना मूल्य Rs.60 है। चावल का नया (प्रति किलोग्राम) मूल्य क्या है?

Ans
✔ 1. Rs. 90
✘ 2. Rs. 80
✘ 3. Rs. 60
✘ 4. Rs. 72

Question Type : **MCQ**
Question ID : **264330140244**
Option 1 ID : **264330549358**
Option 2 ID : **264330549356**
Option 3 ID : **264330549355**
Option 4 ID : **264330549357**
Status : **Answered**
Chosen Option : **1**

Q.2 A अकेले एक डिवाइडर का निर्माण 60 दिनों में कर सकता है, जबकि B अकेले इसका निर्माण 80 दिनों में कर सकता है। यदि वे इसे साथ मिलकर बनाते हैं और उन्हें Rs. 7000 मिलते हैं, तो इसमें B का हिस्सा कितना है?

Ans
✔ 1. Rs. 3000
✘ 2. Rs. 2880
✘ 3. Rs. 3500
✘ 4. Rs. 3200

Question Type : **MCQ**
Question ID : **264330140790**
Option 1 ID : **264330551508**
Option 2 ID : **264330551507**
Option 3 ID : **264330551509**
Option 4 ID : **264330551510**
Status : **Answered**
Chosen Option : **1**

Join Telegram Group "HaryanaJobs.in"

Q.3 500 लीटर ऐल्कोहॉल (alcohol) और पानी के मिश्रण में 20 प्रतिशत पानी है। इसमें और कितना पानी मिलाया जाए कि नए मिश्रण में पानी 50 प्रतिशत हो जाए?

Ans
✔ 1. 300 लीटर
✘ 2. 350 लीटर
✘ 3. 450 लीटर
✘ 4. 400 लीटर

Question Type : **MCQ**
Question ID : **264330140222**
Option 1 ID : **264330549270**
Option 2 ID : **264330549268**
Option 3 ID : **264330549267**
Option 4 ID : **264330549269**
Status : **Answered**
Chosen Option : **1**

Q.4 एक निश्चित राशि पर 20 प्रतिशत वार्षिक दर से 2 वर्ष का चक्रवृद्धि ब्याज (वार्षिक रूप से संयोजित) Rs. 2420 है। समान राशि और समान ब्याज दर पर 3 वर्ष का साधारण ब्याज कितना होगा?

Ans
✔ 1. Rs. 3300
✘ 2. Rs. 3000
✘ 3. Rs. 4200
✘ 4. Rs. 3800

Question Type : **MCQ**
Question ID : **264330140594**
Option 1 ID : **264330550727**
Option 2 ID : **264330550728**
Option 3 ID : **264330550730**
Option 4 ID : **264330550729**
Status : **Answered**
Chosen Option : **1**

Q.5 $\frac{132}{11} \times \frac{13}{12} \div \frac{169}{14} - \frac{1}{13}$ का मान क्या है?

Ans
✘ 1. 5
✘ 2. 6
✔ 3. 1
✘ 4. 3

Question Type : **MCQ**
Question ID : **264330140579**
Option 1 ID : **264330550669**
Option 2 ID : **264330550670**
Option 3 ID : **264330550667**
Option 4 ID : **264330550668**
Status : **Answered**
Chosen Option : **3**

Join Telegram Group "HaryanaJobs.in"

Q.6 दो पाइप अकेले एक टंकी को क्रमशः 20 घंटे और 24 घंटे में भर सकते हैं और एक निकासी पाइप अकेले प्रति घंटे 20 गैलन (gallons) पानी खाली कर सकता है। तीनों पाइप एक साथ काम करते हुए उसी खाली टंकी को 40 घंटे में भर सकते हैं। टंकी की क्षमता (धारिता) कितनी है?

Ans
1. 450 गैलन ✗
2. 600 गैलन ✗
3. 300 गैलन ✓
4. 480 गैलन ✗

Question Type : **MCQ**
Question ID : **264330140240**
Option 1 ID : **264330549340**
Option 2 ID : **264330549341**
Option 3 ID : **264330549339**
Option 4 ID : **264330549342**
Status : **Not Answered**
Chosen Option : **--**

Q.7 यदि $P : Q : R = 4 : 7 : 9$ और $R : S = 2 : 5$ है, तो $P : S$ का मान क्या है?

Ans
1. 8 : 45 ✓
2. 1 : 5 ✗
3. 9 : 57 ✗
4. 10 : 43 ✗

Question Type : **MCQ**
Question ID : **264330140591**
Option 1 ID : **264330550718**
Option 2 ID : **264330550717**
Option 3 ID : **264330550715**
Option 4 ID : **264330550716**
Status : **Answered**
Chosen Option : **1**

Q.8 दो गोलों की त्रिज्याओं का अनुपात 1 : 5 है। दोनों गोलों के आयतनों का अनुपात क्या है?

Ans
1. 1 : 25 ✗
2. 1 : 64 ✗
3. 1 : 125 ✓
4. 8 : 27 ✗

Question Type : **MCQ**
Question ID : **264330140546**
Option 1 ID : **264330550541**
Option 2 ID : **264330550542**
Option 3 ID : **264330550540**
Option 4 ID : **264330550539**
Status : **Answered**
Chosen Option : **3**

Join Telegram Group "HaryanaJobs.in"

Q.9 एक घनाभ की लंबाई और चौड़ाई का योग 16 cm है। यदि घनाभ की ऊँचाई उसकी लंबाई और चौड़ाई के योग का ¼ भाग है, तो घनाभ का पार्श्व पृष्ठीय क्षेत्रफल क्या है?

Ans
✔ 1. 128 cm^2
✘ 2. 156 cm^2
✘ 3. 96 cm^2
✘ 4. 196 cm^2

Question Type : **MCQ**
Question ID : **264330139924**
Option 1 ID : **264330548076**
Option 2 ID : **264330548077**
Option 3 ID : **264330548078**
Option 4 ID : **264330548075**
Status : **Not Answered**
Chosen Option : **--**

Q.10 एक वस्तु का अंकित मूल्य उसके क्रय मूल्य का 160 प्रतिशत है। यदि 30 प्रतिशत का बट्टा दिया जाता है, तो लाभ प्रतिशत क्या होगा?

Ans
✘ 1. 10 प्रतिशत
✘ 2. 15 प्रतिशत
✘ 3. 14 प्रतिशत
✔ 4. 12 प्रतिशत

Question Type : **MCQ**
Question ID : **264330139620**
Option 1 ID : **264330546895**
Option 2 ID : **264330546896**
Option 3 ID : **264330546898**
Option 4 ID : **264330546897**
Status : **Answered**
Chosen Option : **4**

Q.11 विक्रय मूल्य और क्रय मूल्य का अनुपात 9 : 8 है। लाभ प्रतिशत कितना है?

Ans
✘ 1. 15 प्रतिशत
✘ 2. 10.5 प्रतिशत
✔ 3. 12.5 प्रतिशत
✘ 4. 20 प्रतिशत

Question Type : **MCQ**
Question ID : **264330139957**
Option 1 ID : **264330548207**
Option 2 ID : **264330548210**
Option 3 ID : **264330548208**
Option 4 ID : **264330548209**
Status : **Answered**
Chosen Option : **3**

Join Telegram Group "HaryanaJobs.in"

Q.12 किसी धनराशि पर 8 प्रतिशत वार्षिक दर से आठ माह का साधारण ब्याज Rs.240 है। वह धनराशि है:

Ans
✔ 1. Rs. 4500
✘ 2. Rs. 7200
✘ 3. Rs. 6000
✘ 4. Rs. 7500

Question Type : **MCQ**
Question ID : **264330139618**
Option 1 ID : **264330546890**
Option 2 ID : **264330546889**
Option 3 ID : **264330546888**
Option 4 ID : **264330546887**
Status : **Answered**
Chosen Option : **1**

Q.13 सुनील ने 2 घंटे, 50 मील प्रति घंटे की चाल से गाड़ी चलाई और फिर 3 घंटे, 60 मील प्रति घंटे की चाल से गाड़ी चलाई। पूरी यात्रा में उसकी औसत चाल क्या थी?

Ans
✘ 1. 50 मील प्रति घंटे
✘ 2. 52 मील प्रति घंटे
✘ 3. 55 मील प्रति घंटे
✔ 4. 56 मील प्रति घंटे

Question Type : **MCQ**
Question ID : **264330140801**
Option 1 ID : **264330551554**
Option 2 ID : **264330551551**
Option 3 ID : **264330551552**
Option 4 ID : **264330551553**
Status : **Answered**
Chosen Option : **4**

Q.14 दो संख्याओं का योग 45 है। उनका महत्तम समापवर्तक (HCF) और लघुत्तम समापवर्त्य (LCM) क्रमशः 5 और 70 है। दो संख्याओं के व्युत्क्रम का योग ज्ञात कीजिए।

Ans
✘ 1. 3/140
✔ 2. 9/70
✘ 3. 3/16
✘ 4. 4/35

Question Type : **MCQ**
Question ID : **264330139623**
Option 1 ID : **264330546907**
Option 2 ID : **264330546908**
Option 3 ID : **264330546910**
Option 4 ID : **264330546909**
Status : **Answered**
Chosen Option : **2**

Join Telegram Group "HaryanaJobs.in"

Q.15 P और Q समान बिंदु से और समान समय पर क्रमशः 20 km/hr और 16 km/hr की चाल से चलना शुरू करते हैं। यदि वे दोनों समान दिशा में चलते हैं, तो 4 घंटे बाद P और Q के बीच की दूरी कितनी होगी?

Ans

✗ 1. 15 km

✗ 2. 12 km

✓ 3. 16 km

✗ 4. 20 km

Question Type : **MCQ**
Question ID : **264330140834**
Option 1 ID : **264330551684**
Option 2 ID : **264330551683**
Option 3 ID : **264330551685**
Option 4 ID : **264330551686**
Status : **Answered**
Chosen Option : **3**

Q.16 $\sqrt{0.48 \times 0.48 + 0.25 \times 0.25 + 0.5 \times 0.48}$ का मान क्या है?

Ans

✗ 1. 0.63

✓ 2. 0.73

✗ 3. 0.83

✗ 4. 0.93

Question Type : **MCQ**
Question ID : **264330140256**
Option 1 ID : **264330549405**
Option 2 ID : **264330549403**
Option 3 ID : **264330549404**
Option 4 ID : **264330549406**
Status : **Not Answered**
Chosen Option : **--**

Join Telegram Group "HaryanaJobs.in"

Q.17 निम्नलिखित दंड आलेख में 6 दिनों में एक स्टेशनरी की दुकान द्वारा की गई जियॉमेट्री बॉक्स की बिक्री को दर्शाया गया है। प्रति दिन औसत बिक्री कितनी है?

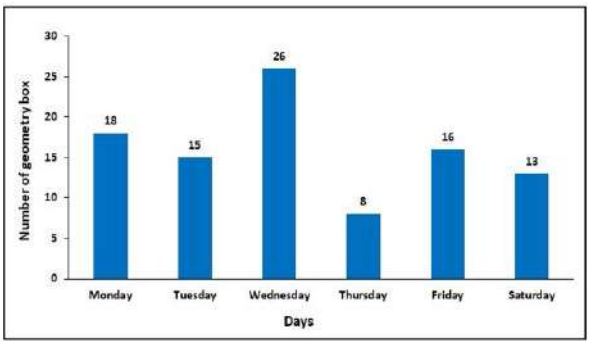

Number of geometry box - जियॉमेट्री बॉक्स की संख्या, Days - दिन, Monday- सोमवार, Tuesday - मंगलवार, Wednesday - बुधवार, Thursday - गुरुवार, Friday - शुक्रवार, Saturday - शनिवार,

Ans

✔ 1. 16

✘ 2. 20

✘ 3. 15

✘ 4. 18

Question Type : **MCQ**
Question ID : **264330140838**
Option 1 ID : **264330551699**
Option 2 ID : **264330551702**
Option 3 ID : **264330551701**
Option 4 ID : **264330551700**
Status : **Answered**
Chosen Option : **1**

Q.18 नीचे दी गई तालिका में 6 वर्षों में दो कंपनियों द्वारा किए गए टैक्सी के उत्पादन को दर्शाया गया है।

वर्ष	A	B
Y1	800	1300
Y2	500	1000
Y3	700	800
Y4	1200	400
Y5	900	300
Y6	600	500

निम्नलिखित में से कौन-सा कथन सही नहीं है?

I. वर्ष Y1 में A द्वारा किया गया टैक्सी का उत्पादन, वर्ष Y2 में B द्वारा किए गए टैक्सी के उत्पादन से 20 प्रतिशत अधिक है।

II. वर्ष Y3 और Y4 में A द्वारा किए गए टैक्सी के कुल उत्पादन और वर्ष Y5 और Y6 में B द्वारा किए गए टैक्सी के कुल उत्पादन का अनुपात 8 : 19 है।

Ans

✔ 1. I और II दोनों

✘ 2. केवल I

✘ 3. न तो I और न ही II

✘ 4. केवल II

Question Type : **MCQ**
Question ID : **264330140211**
Option 1 ID : **264330549225**
Option 2 ID : **264330549223**
Option 3 ID : **264330549226**
Option 4 ID : **264330549224**
Status : **Answered**
Chosen Option : **1**

Join Telegram Group "HaryanaJobs.in"

Q.19 एक जैकेट को Rs.3860 में बेचने पर अर्जित लाभ उसी जैकेट को Rs.1900 में बेचने पर हुई हानि के बराबर है। 10 प्रतिशत लाभ अर्जित करने के लिए जैकेट का विक्रय मूल्य क्या होना चाहिए?

Ans

1. ✗ Rs. 3250
2. ✗ Rs. 3450
3. ✗ Rs. 3360
4. ✓ Rs. 3168

Question Type : **MCQ**
Question ID : **264330140618**
Option 1 ID : **264330550820**
Option 2 ID : **264330550819**
Option 3 ID : **264330550822**
Option 4 ID : **264330550821**
Status : **Not Answered**
Chosen Option : **--**

Q.20 एक बोतल में दूध और पानी का 8 लीटर मिश्रण 3:1 के अनुपात में है। दिए गए मिश्रण में 3 लीटर पानी मिलाया जाता है। मिश्रण में दूध और पानी का नया अनुपात ज्ञात कीजिए।

Ans

1. ✗ 2:3
2. ✓ 6:5
3. ✗ 3:2
4. ✗ 1:3

Question Type : **MCQ**
Question ID : **264330133759**
Option 1 ID : **264330524061**
Option 2 ID : **264330524059**
Option 3 ID : **264330524060**
Option 4 ID : **264330524062**
Status : **Answered**
Chosen Option : **2**

Section : **Reasoning Ability and Problem Solving**

Join Telegram Group "HaryanaJobs.in"

Q.1 दो कथन दिए गए हैं और दो निष्कर्ष I और II दिए गए हैं। कथनों को सत्य मानते हुए, चाहे वे सामान्यतः ज्ञात तथ्यों से अलग प्रतीत होते हों, निश्चय कीजिए कि कौन-सा निष्कर्ष तार्किक रूप से कथनों के अनुसार है।

कथन:

कुछ कंबल, चादरें हैं।

कुछ चादरें, तकिएँ हैं।

निष्कर्ष:

I. कुछ कंबल, तकिएँ हैं।

II. सभी चादरें कभी भी तकिएँ नहीं हो सकते।

Ans

✗ 1. सिर्फ निष्कर्ष I कथनों के अनुसार है

✗ 2. सिर्फ निष्कर्ष II कथनों के अनुसार है

✗ 3. दोनों निष्कर्ष I और II कथनों के अनुसार हैं

✓ 4. निष्कर्ष I और II में से कोई भी कथनों के अनुसार नहीं है

Question Type : **MCQ**
Question ID : **264330140442**
Option 1 ID : **264330550147**
Option 2 ID : **264330550148**
Option 3 ID : **264330550149**
Option 4 ID : **264330550150**
Status : **Answered**
Chosen Option : **4**

Q.2 सात लड़कियाँ, मानसी, श्वेता, मोनिका, पायल, आरती, काजल और लक्ष्मी एक वृत्ताकार मेज के चारों ओर केंद्र की विपरीत दिशा की ओर मुख करके बैठी हैं (परंतु जरूरी नहीं कि वे इसी क्रम में बैठीं हों)। काजल, लक्ष्मी के बाईं ओर से दूसरे स्थान पर है। पायल, मानसी और लक्ष्मी दोनों की निकटतम पड़ोसी है। मोनिका, लक्ष्मी की निकटतम पड़ोसी नहीं है। आरती, काजल के बाईं ओर से दूसरे स्थान पर है। पायल के बाईं ओर से दूसरे स्थान पर कौन बैठा है?

Ans

✗ 1. काजल

✓ 2. श्वेता

✗ 3. आरती

✗ 4. लक्ष्मी

Question Type : **MCQ**
Question ID : **264330140963**
Option 1 ID : **264330552201**
Option 2 ID : **264330552199**
Option 3 ID : **264330552200**
Option 4 ID : **264330552202**
Status : **Answered**
Chosen Option : **3**

Join Telegram Group "HaryanaJobs.in"

Q.3 एक निश्चित कूट भाषा में, 'CAMERA' को 'B185131D' लिखा जाता है। उस कूट भाषा में 'EXTEND' को कैसे लिखा जाएगा?

Ans
1. C1452024F
2. E1452024D
3. E1452024F
4. C1452024D

Question Type : **MCQ**
Question ID : **264330140137**
Option 1 ID : **264330548928**
Option 2 ID : **264330548929**
Option 3 ID : **264330548927**
Option 4 ID : **264330548930**
Status : **Answered**
Chosen Option : **3**

Q.4 दी गई श्रृंखला में निम्नलिखित में से कौन-सी संख्या प्रश्न चिन्ह (?) के स्थान पर आएगी?
25, -75, 225, -675, 2025, ?

Ans
1. -7250
2. -5160
3. -6075
4. -8400

Question Type : **MCQ**
Question ID : **264330140085**
Option 1 ID : **264330548719**
Option 2 ID : **264330548721**
Option 3 ID : **264330548722**
Option 4 ID : **264330548720**
Status : **Answered**
Chosen Option : **3**

Q.5 यदि A का अर्थ 'जोड़', B का अर्थ 'गुणा', C का अर्थ 'घटाव' और D का अर्थ 'भाग' हो, तो निम्नलिखित समीकरण का मान क्या होगा?
7 B 3 C 18 A (4 D 2) = ?

Ans
1. 6
2. 4
3. 5
4. 7

Question Type : **MCQ**
Question ID : **264330140149**
Option 1 ID : **264330548976**
Option 2 ID : **264330548978**
Option 3 ID : **264330548977**
Option 4 ID : **264330548975**
Status : **Answered**
Chosen Option : **3**

Join Telegram Group "HaryanaJobs.in"

Q.6 दिए गए दो चिह्नों और दो संख्याओं को आपस में बदलने पर, दिए गए समीकरण का मान क्या होगा?
+ और ÷, 4 और 6 ; 8 ÷ 6 × 3 + 4 - 9

Ans
1. 6
2. 1
3. 2
4. 0

Question Type : **MCQ**
Question ID : **264330139986**
Option 1 ID : **264330548324**
Option 2 ID : **264330548325**
Option 3 ID : **264330548323**
Option 4 ID : **264330548326**
Status : **Answered**
Chosen Option : **2**

Q.7 दी गई श्रृंखला में निम्नलिखित में से कौन-सा अक्षर-समूह प्रश्न चिन्ह (?) के स्थान पर आएगा?
XG, UJ, RM, OP, ?

Ans
1. MS
2. LR
3. LS
4. MR

Question Type : **MCQ**
Question ID : **264330140472**
Option 1 ID : **264330550267**
Option 2 ID : **264330550270**
Option 3 ID : **264330550268**
Option 4 ID : **264330550269**
Status : **Answered**
Chosen Option : **3**

Q.8 एक निश्चित कूट भाषा में, 'IGNORE' को 'REONGI' लिखा जाता है। उस भाषा में 'JUNIOR' को कैसे लिखा जाएगा?

Ans
1. ORIUNJ
2. ORIJUN
3. OIRNUJ
4. ORINUJ

Question Type : **MCQ**
Question ID : **264330140417**
Option 1 ID : **264330550049**
Option 2 ID : **264330550050**
Option 3 ID : **264330550048**
Option 4 ID : **264330550047**
Status : **Answered**
Chosen Option : **4**

Join Telegram Group "HaryanaJobs.in"

Q.9 उस विकल्प को चुनिए जो तीसरी संख्या से ठीक उसी तरह संबंधित है जिस तरह दूसरी संख्या पहली संख्या से संबंधित है।

14 : 75 :: 11 : ?

Ans

1. ✗ 78
2. ✗ 64
3. ✗ 55
4. ✓ 60

Question Type : **MCQ**
Question ID : **264330138780**
Option 1 ID : **264330543730**
Option 2 ID : **264330543729**
Option 3 ID : **264330543728**
Option 4 ID : **264330543727**
Status : **Answered**
Chosen Option : **4**

Q.10 उस विकल्प को चुनिए जो पाँचवें पद से ठीक उसी प्रकार संबंधित है जिस प्रकार दूसरा पद पहले पद से संबंधित है और चौथा पद तीसरे पद से संबंधित है।

TRA : XNO :: GBT : QXB :: NOQ : ?

Ans

1. ✗ NIJ
2. ✗ NII
3. ✓ NKI
4. ✗ NKJ

Question Type : **MCQ**
Question ID : **264330139973**
Option 1 ID : **264330548271**
Option 2 ID : **264330548274**
Option 3 ID : **264330548272**
Option 4 ID : **264330548273**
Status : **Answered**
Chosen Option : **2**

Join Telegram Group "HaryanaJobs.in"

Q.11 उस विकल्प आकृति को चुनिए जिसमें दी गई आकृति (X) इसके भाग के रूप में निहित है। (घूर्णन की अनुमति नहीं है)।

(X)

Ans

✗ 1.

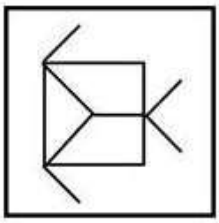

✓ 2.

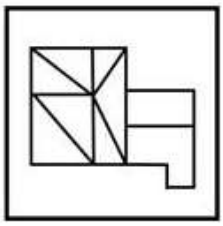

✗ 3.

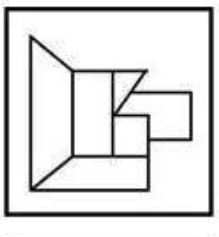

✗ 4.

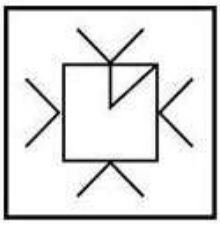

Question Type : **MCQ**
Question ID : **264330140050**
Option 1 ID : **264330548581**
Option 2 ID : **264330548582**
Option 3 ID : **264330548579**
Option 4 ID : **264330548580**
Status : **Answered**
Chosen Option : **2**

Join Telegram Group "HaryanaJobs.in"

Q.12 दी गई आकृति के उस सही दर्पण प्रतिबिंब को चुनिए, जो दर्पण MN को आकृति के दाईं ओर रखने पर बनेगा।

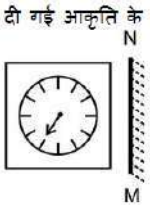

Ans

✗ 1. 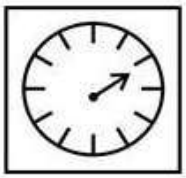

✓ 2. 

✗ 3. 

✗ 4. 

Question Type : **MCQ**
Question ID : **264330138806**
Option 1 ID : **264330543832**
Option 2 ID : **264330543833**
Option 3 ID : **264330543831**
Option 4 ID : **264330543834**
Status : **Answered**
Chosen Option : **2**

Q.13 एक निश्चित कूट भाषा में, 'JPTM' को '9421' लिखा जाता है, 'MOST' को '3279' लिखा जाता है, 'OPJB' को '4617' लिखा जाता है। उस कूट भाषा में 'S' को कैसे लिखा जाएगा?

Ans

✗ 1. 2

✓ 2. 3

✗ 3. 9

✗ 4. 7

Question Type : **MCQ**
Question ID : **264330139552**
Option 1 ID : **264330546625**
Option 2 ID : **264330546623**
Option 3 ID : **264330546626**
Option 4 ID : **264330546624**
Status : **Answered**
Chosen Option : **2**

Join Telegram Group "HaryanaJobs.in"

Q.14 पाँच दुकानों M1, M2, M3, M4 और M5 में पेन की संख्या की तुलना की जाती है। M3 में पेन की संख्या केवल M1 से अधिक है। कोई भी दो दुकानों में पेन की संख्या समान नहीं है। M4 में पेन की संख्या M2 से कम लेकिन M5 से अधिक है। M4 में पेन की संख्या कितनी दुकानों से अधिक है?

Ans

✗ 1. 2

✓ 2. 3

✗ 3. 4

✗ 4. 1

Question Type : **MCQ**
Question ID : **264330140061**
Option 1 ID : **264330548625**
Option 2 ID : **264330548624**
Option 3 ID : **264330548626**
Option 4 ID : **264330548623**
Status : **Answered**
Chosen Option : **2**

Q.15 पाँच मित्र माही, मिलि, मिलन, मानस, और मोनिका एक बेंच पर उत्तर की ओर मुख करके बैठे हैं। मिलि और मोनिका के बीच केवल माही बैठी है। मानस, मिलि के ठीक बाईं ओर बैठा है। मानस सबसे आखिर में नहीं बैठा है। मिलन के ठीक दाईं ओर कौन बैठा है?

Ans

✓ 1. मानस

✗ 2. मिलि

✗ 3. मोनिका

✗ 4. माही

Question Type : **MCQ**
Question ID : **264330138794**
Option 1 ID : **264330543785**
Option 2 ID : **264330543784**
Option 3 ID : **264330543786**
Option 4 ID : **264330543783**
Status : **Answered**
Chosen Option : **1**

Join Telegram Group "HaryanaJobs.in"

Q.16 निम्नलिखित प्रश्न में कुछ कथन दिए गए हैं और उन कथनों के आधार पर कुछ निष्कर्ष दिए गए हैं। आपको मानना है कि दिए गए कथन सत्य हैं चाहे वे समान्यतः ज्ञात तथ्यों से अलग प्रतीत होते हों। सभी निष्कर्षों को पढ़िए और फिर निश्चय कीजिए कि दिए गए निष्कर्षों में से कौन-सा निष्कर्ष तार्किक रूप से दिए गए कथनों के अनुसार है।

कथन:

I. सभी भूमि, ठोस हैं।

II. कोई भूमि, लड़का नहीं है।

निष्कर्ष:

I. सभी ठोस, भूमि हैं।

II. सभी लड़के, ठोस हैं।

Ans

✗ 1. दोनों निष्कर्ष I और II कथनों के अनुसार हैं

✗ 2. केवल निष्कर्ष I कथनों के अनुसार है

✗ 3. केवल निष्कर्ष II कथनों के अनुसार है

✓ 4. कोई भी निष्कर्ष कथनों के अनुसार नहीं है

Question Type : **MCQ**
Question ID : **264330140985**
Option 1 ID : **264330552289**
Option 2 ID : **264330552287**
Option 3 ID : **264330552288**
Option 4 ID : **264330552290**
Status : **Answered**
Chosen Option : **2**

Q.17 उस विकल्प को चुनिए जो तीसरे शब्द से ठीक उसी तरह संबंधित है जिस तरह दूसरा शब्द पहले शब्द से संबंधित है।
घोड़े : हिनहिनाना :: मेंढक : ?

Ans

✗ 1. उभयचर

✓ 2. टरटराना

✗ 3. दहाड़ना

✗ 4. भौंकना

Question Type : **MCQ**
Question ID : **264330140114**
Option 1 ID : **264330548837**
Option 2 ID : **264330548836**
Option 3 ID : **264330548838**
Option 4 ID : **264330548835**
Status : **Answered**
Chosen Option : **2**

Join Telegram Group "HaryanaJobs.in"

Q.18 उस समुच्चय को चुनिए जिसमें संख्याएँ ठीक उसी प्रकार से संबंधित हैं जिस प्रकार निम्नलिखित समुच्चयों की संख्याएँ संबंधित हैं। (ध्यान दें: संख्याओं को उनके घटक अंकों में अलग-अलग किए बिना, पूर्ण संख्याओं पर संक्रियाएँ की जानी चाहिए। उदा. 13 - 13 पर संक्रियाएँ जैसे 13 को जोड़ना /घटाना /गुणा करना आदि किया जा सकता है। 13 को 1 और 3 में अलग-अलग करने की और फिर 1 और 3 पर गणितीय संक्रियाएँ करने की अनुमति नहीं है)
(2, 7, 81)
(5, 6, 121)

Ans
1. (6, 2, 36)
2. (7, 5, 134)
3. (6, 7, 169)
4. (5, 4, 100)

Question Type : **MCQ**
Question ID : **264330140127**
Option 1 ID : **264330548889**
Option 2 ID : **264330548890**
Option 3 ID : **264330548888**
Option 4 ID : **264330548887**
Status : **Not Answered**
Chosen Option : **--**

Q.19 दी गई श्रृंखला में निम्नलिखित में से कौन-सी संख्या प्रश्न चिन्ह (?) के स्थान पर आएगी?
29, 36, 44, 53, 63, ?

Ans
1. 78
2. 74
3. 72
4. 76

Question Type : **MCQ**
Question ID : **264330140483**
Option 1 ID : **264330550313**
Option 2 ID : **264330550311**
Option 3 ID : **264330550314**
Option 4 ID : **264330550312**
Status : **Answered**
Chosen Option : **2**

Join Telegram Group "HaryanaJobs.in"

Q.20 उस विकल्प आकृति को चुनिए जो नीचे दी गई आकृति में पैटर्न को पूरा करने के लिए प्रश्न चिन्ह (?) के स्थान पर आएगी। (घूर्णन की अनुमति नहीं है)।

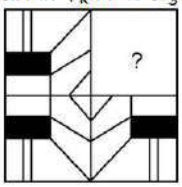

Ans

✔ 1. 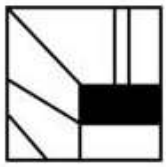

✘ 2. 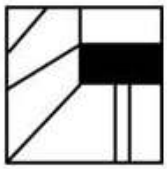

✘ 3. 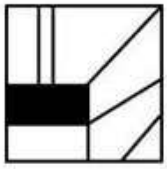

✘ 4. 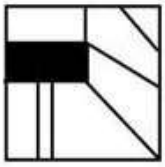

Question Type : **MCQ**
Question ID : **264330140491**
Option 1 ID : **264330550343**
Option 2 ID : **264330550344**
Option 3 ID : **264330550346**
Option 4 ID : **264330550345**
Status : **Answered**
Chosen Option : **1**

Section : **General Awareness**

Join Telegram Group "HaryanaJobs.in"

Q.1 चौसा और कन्नौज के युद्ध में किस शासक ने हुमायूँ को पराजित किया था?

Ans
1. मुहम्मद आदिल शाह
2. इस्लाम शाह
3. अली आदिल शाह द्वितीय
4. शेर शाह

Question Type : **MCQ**
Question ID : **264330140690**
Option 1 ID : **264330551109**
Option 2 ID : **264330551107**
Option 3 ID : **264330551110**
Option 4 ID : **264330551108**
Status : **Answered**
Chosen Option : **4**

Q.2 If we deduct depreciation from GNP the measure of aggregate income that we obtain is called _____.

Ans
1. Net National Product
2. Gross domestic product
3. National income
4. Private income

Question Type : **MCQ**
Question ID : **264330140775**
Option 1 ID : **264330551447**
Option 2 ID : **264330551449**
Option 3 ID : **264330551450**
Option 4 ID : **264330551448**
Status : **Answered**
Chosen Option : **1**

Q.3 महात्मा गांधी को "राष्ट्रपिता (Father of the Nation)" की उपाधि किसने दी थी?

Ans
1. सुभाष चंद्र बोस
2. सरदार वल्लभभाई पटेल
3. रवीन्द्रनाथ टैगोर
4. जवाहर लाल नेहरू

Question Type : **MCQ**
Question ID : **264330139747**
Option 1 ID : **264330547405**
Option 2 ID : **264330547406**
Option 3 ID : **264330547404**
Option 4 ID : **264330547403**
Status : **Answered**
Chosen Option : **3**

Join Telegram Group "HaryanaJobs.in"

Q.4 जूडो की उत्पत्ति जू-जित्सु (Ju-jitsu) की प्राचीन _____ कला से हुई है।

Ans
1. मलेशियाई
2. चीनी
3. जापानी
4. कोरियाई

Question Type : **MCQ**
Question ID : **264330139870**
Option 1 ID : **264330547860**
Option 2 ID : **264330547859**
Option 3 ID : **264330547861**
Option 4 ID : **264330547862**
Status : **Answered**
Chosen Option : **3**

Q.5 एक संक्रामक बीमारी से उबरने के बाद, खास तौर पर चेचक से उबरने पर, स्थानीय देवता को धन्यवाद देने के लिए आमतौर पर ब्रिता (Brita) नृत्य किया जाता है। यह _____ राज्य के सबसे प्रसिद्ध नृत्यों में से एक है।

Ans
1. झारखंड
2. उत्तरप्रदेश
3. पश्चिम बंगाल
4. बिहार

Question Type : **MCQ**
Question ID : **264330141048**
Option 1 ID : **264330552540**
Option 2 ID : **264330552539**
Option 3 ID : **264330552542**
Option 4 ID : **264330552541**
Status : **Answered**
Chosen Option : **1**

Q.6 कर्तन - दहन प्रणाली (slash and burn) कृषि को _____ राज्य में 'बेबर' या 'दहिया' के नाम से जाना जाता है।

Ans
1. उत्तरप्रदेश
2. असम
3. मध्यप्रदेश
4. उड़ीसा

Question Type : **MCQ**
Question ID : **264330140710**
Option 1 ID : **264330551188**
Option 2 ID : **264330551189**
Option 3 ID : **264330551187**
Option 4 ID : **264330551190**
Status : **Answered**
Chosen Option : **2**

Join Telegram Group "HaryanaJobs.in"

Q.7 भारत निम्नलिखित में से किस देश के साथ सबसे लंबी भूमि सीमा साझा करता है?

Ans
1. नेपाल
2. बांग्लादेश
3. पाकिस्तान
4. चीन

Question Type : **MCQ**
Question ID : **264330139767**
Option 1 ID : **264330547486**
Option 2 ID : **264330547485**
Option 3 ID : **264330547484**
Option 4 ID : **264330547483**
Status : **Answered**
Chosen Option : **2**

Q.8 पीएम स्वनिधि (PM SVANidhi) योजना का उद्देश्य _____ को सशक्त बनाना है।

Ans
1. बीपीएल परिवारों (BPL Families)
2. छोटे व्यवसायियों (Small Businessman)
3. पथ विक्रेताओं (Street Vendors)
4. गर्भवती महिलाओं (Pregnant women)

Question Type : **MCQ**
Question ID : **264330139682**
Option 1 ID : **264330547143**
Option 2 ID : **264330547145**
Option 3 ID : **264330547144**
Option 4 ID : **264330547146**
Status : **Answered**
Chosen Option : **1**

Q.9 _____ फूल का मादा जनन अंग है।

Ans
1. तंतु
2. परागकोश
3. अंकुरण
4. स्त्रीकेसर

Question Type : **MCQ**
Question ID : **264330140894**
Option 1 ID : **264330551923**
Option 2 ID : **264330551924**
Option 3 ID : **264330551926**
Option 4 ID : **264330551925**
Status : **Answered**
Chosen Option : **4**

Join Telegram Group "HaryanaJobs.in"

Q.10 सत्यजीत रे को वर्ष 1992 में भारत रत्न से सम्मानित किया गया था। वह एक प्रसिद्ध _____ थे।

Ans
✔ 1. फिल्म निर्माता और निर्देशक
✘ 2. क्रिकेटर
✘ 3. वकील
✘ 4. भौतिक विज्ञानी

Question Type : **MCQ**
Question ID : **264330139706**
Option 1 ID : **264330547241**
Option 2 ID : **264330547239**
Option 3 ID : **264330547240**
Option 4 ID : **264330547242**
Status : **Answered**
Chosen Option : **1**

Q.11 वह 'घटम के देवता (God of ghatam)' के नाम से भी जाने जाते हैं। पिछली पंक्ति में 'वह' निम्न में से किसे संदर्भित करता है?

Ans
✔ 1. टी.एच. विनायकराम
✘ 2. उस्ताद बुंदू खां
✘ 3. पंडित रविशंकर
✘ 4. उस्ताद बिस्मिल्लाह खां

Question Type : **MCQ**
Question ID : **264330140887**
Option 1 ID : **264330551895**
Option 2 ID : **264330551896**
Option 3 ID : **264330551897**
Option 4 ID : **264330551898**
Status : **Answered**
Chosen Option : **2**

Q.12 "ओलिवर ट्विस्ट (Oliver Twist)" उपन्यास के लेखक कौन हैं?

Ans
✔ 1. चार्ल्स डिकेन्स (Charles Dickens)
✘ 2. ऑस्कर वाइल्ड (Oscar Wilde)
✘ 3. मार्क ट्वेन (Mark Twain)
✘ 4. जेन ऑस्टेन (Jane Austen)

Question Type : **MCQ**
Question ID : **264330140384**
Option 1 ID : **264330549917**
Option 2 ID : **264330549916**
Option 3 ID : **264330549915**
Option 4 ID : **264330549918**
Status : **Answered**
Chosen Option : **1**

Join Telegram Group "HaryanaJobs.in"

Q.13 विश्व का वह एकमात्र देश कौन-सा है जहाँ बाघ और शेर दोनों पाए जाते हैं?

Ans
1. दक्षिण अफ्रीका
2. केन्या
3. चीन
4. भारत

Question Type : **MCQ**
Question ID : **264330139766**
Option 1 ID : **264330547479**
Option 2 ID : **264330547480**
Option 3 ID : **264330547481**
Option 4 ID : **264330547482**
Status : **Answered**
Chosen Option : **4**

Q.14 निम्नलिखित में से किस गायक को भारत सरकार द्वारा 2022 में पद्म श्री से सम्मानित किया गया है?

Ans
1. लेस्ली लुईस (Leslie Lewis)
2. अभिजीत भट्टाचार्य
3. अनु मलिक
4. सोनू निगम

Question Type : **MCQ**
Question ID : **264330140694**
Option 1 ID : **264330551123**
Option 2 ID : **264330551124**
Option 3 ID : **264330551126**
Option 4 ID : **264330551125**
Status : **Answered**
Chosen Option : **4**

Q.15 पोंगल, मकर संक्रांति का ही दूसरा नाम है तथा यह मकर संक्रांति के समय ही _____ राज्य के विभिन्न शहरों में मनाया जाता है।

Ans
1. तमिलनाडु
2. आंध्रप्रदेश
3. कर्नाटक
4. केरल

Question Type : **MCQ**
Question ID : **264330141049**
Option 1 ID : **264330552544**
Option 2 ID : **264330552546**
Option 3 ID : **264330552545**
Option 4 ID : **264330552543**
Status : **Answered**
Chosen Option : **1**

Join Telegram Group "HaryanaJobs.in"

Q.16 महाबोधि मंदिर परिसर का _____ के जीवन से सीधा संबंध है।

Ans
1. मुगल शासक
2. सिख गुरु
3. भगवान बुद्ध
4. जैन तीर्थंकर

Question Type : **MCQ**
Question ID : **264330140730**
Option 1 ID : **264330551267**
Option 2 ID : **264330551268**
Option 3 ID : **264330551270**
Option 4 ID : **264330551269**
Status : **Answered**
Chosen Option : **3**

Q.17 भोजन पकाने की निम्नलिखित में से किस प्रक्रिया में भोजन में मौजूद चीनी ऑक्सीकृत होकर भूरे रंग में बदल जाती है?

Ans
1. निस्यंदन
2. कैरामेलीकरण (Caramelisation)
3. ब्रोमीनन (Bromination)
4. पायसीकरण

Question Type : **MCQ**
Question ID : **264330140708**
Option 1 ID : **264330551180**
Option 2 ID : **264330551181**
Option 3 ID : **264330551182**
Option 4 ID : **264330551179**
Status : **Answered**
Chosen Option : **4**

Q.18 कौन-सी ओडिसी नृत्यांगना 2006 में पद्म श्री से सम्मानित होने वाली विदेशी मूल की पहली नर्तकी बनी थी?

Ans
1. सोफिया बुटेला (Sofia Boutella)
2. एरी नाकामुरा (Eri Nakamura)
3. इलियाना सितारिस्ती (Ileana Citaristi)
4. मृणालिनी साराभाई (Mrinalini Sarabhai)

Question Type : **MCQ**
Question ID : **264330140925**
Option 1 ID : **264330552049**
Option 2 ID : **264330552050**
Option 3 ID : **264330552047**
Option 4 ID : **264330552048**
Status : **Answered**
Chosen Option : **1**

Join Telegram Group "HaryanaJobs.in"

Q.19 निम्नलिखित में से कौन दक्षिण भारत की एक प्रमुख जनजाति नहीं है?

Ans
1. बडागा (Badaga)
2. डांग (Dang)
3. टोडा (Toda)
4. इरुला (Irula)

Question Type : **MCQ**
Question ID : **264330138966**
Option 1 ID : **264330544473**
Option 2 ID : **264330544474**
Option 3 ID : **264330544472**
Option 4 ID : **264330544471**
Status : **Answered**
Chosen Option : **2**

Q.20 ब्रिटिश सरकार द्वारा चंपारण कृषि कानून कब पारित किया गया था?

Ans
1. 1917
2. 1918
3. 1916
4. 1919

Question Type : **MCQ**
Question ID : **264330140946**
Option 1 ID : **264330552133**
Option 2 ID : **264330552131**
Option 3 ID : **264330552132**
Option 4 ID : **264330552134**
Status : **Answered**
Chosen Option : **1**

Q.21 राज्यों के विधानसभा और विधायिका वाले केंद्रशासित प्रदेशों के आम चुनावों वाले वर्ष में _____ अतिरिक्त दिनों की चुनावी बॉन्ड की बिक्री की अनुमति देने के लिए चुनावी बॉन्ड योजना में संशोधन करते हुए केंद्रीय वित्त मंत्रालय ने एक अधिसूचना जारी की है।

Ans
1. 15
2. 35
3. 25
4. 45

Question Type : **MCQ**
Question ID : **264330140932**
Option 1 ID : **264330552076**
Option 2 ID : **264330552077**
Option 3 ID : **264330552075**
Option 4 ID : **264330552078**
Status : **Answered**
Chosen Option : **4**

Join Telegram Group "HaryanaJobs.in"

Q.22 भारतीय संविधान के निम्नलिखित में से किस अनुच्छेद में मौलिक कर्तव्य "सार्वजनिक संपत्ति की रक्षा करना और हिंसा को त्यागना" का उल्लेख है?

Ans
1. अनुच्छेद 51A (d)
2. अनुच्छेद 51A (g)
3. अनुच्छेद 51A (a)
4. अनुच्छेद 51A (i)

Question Type : **MCQ**
Question ID : **264330139760**
Option 1 ID : **264330547456**
Option 2 ID : **264330547457**
Option 3 ID : **264330547455**
Option 4 ID : **264330547458**
Status : **Answered**
Chosen Option : **2**

Q.23 निम्नलिखित में से कौन फ़ारस के राजा का एक राजदूत था जिसे विजयनगर भेजा गया था?

Ans
1. निकोलो दे कॉन्ती (Nicolo de Conti)
2. फ़र्नावो नूनिज़ (Fernao Nuniz)
3. दुआर्ते बरबोसा (Duarte Barbosa)
4. अब्दुर रज़्ज़ाक (Abdur Razzaq)

Question Type : **MCQ**
Question ID : **264330140903**
Option 1 ID : **264330551959**
Option 2 ID : **264330551961**
Option 3 ID : **264330551960**
Option 4 ID : **264330551962**
Status : **Answered**
Chosen Option : **4**

Q.24 _____ और _____ के ऑक्साइड वर्षाजल में घुल जाते हैं और अम्ल बनाते हैं जिसे अम्लवर्षा कहा जाता है।

Ans
1. फास्फोरस, सल्फर
2. कैल्शियम, मैग्नीशियम
3. सल्फर, नाइट्रोजन
4. कार्बन डाइऑक्साइड, मीथेन

Question Type : **MCQ**
Question ID : **264330139739**
Option 1 ID : **264330547373**
Option 2 ID : **264330547374**
Option 3 ID : **264330547372**
Option 4 ID : **264330547371**
Status : **Answered**
Chosen Option : **1**

Join Telegram Group "HaryanaJobs.in"

Q.25 "जनजातीय गौरव दिवस (Janjatiya Gaurav Diwas)" _____ की जयंती पर मनाया जाता है।

Ans
✗ 1. महात्मा गांधी
✗ 2. बी.आर. अम्बेडकर
✗ 3. सरदार वल्लभभाई पटेल
✓ 4. बिरसा मुंडा

Question Type : **MCQ**
Question ID : **264330140889**
Option 1 ID : **264330551904**
Option 2 ID : **264330551906**
Option 3 ID : **264330551903**
Option 4 ID : **264330551905**
Status : **Answered**
Chosen Option : **4**

Section : **English Language and Comprehension**

Q.1 Select the word from the options which is similar in meaning to the bracketed part given in the sentence below.
The women stared at me with (great interest or concern).

Ans
✗ 1. possession
✓ 2. curiosity
✗ 3. control
✗ 4. intellect

Question Type : **MCQ**
Question ID : **264330136178**
Option 1 ID : **264330533509**
Option 2 ID : **264330533507**
Option 3 ID : **264330533510**
Option 4 ID : **264330533508**
Status : **Answered**
Chosen Option : **2**

Q.2 Select the correctly spelt word.

Ans
✗ 1. ubiqitous
✗ 2. ubquitous
✗ 3. ubiqoitous
✓ 4. ubiquitous

Question Type : **MCQ**
Question ID : **264330136505**
Option 1 ID : **264330534763**
Option 2 ID : **264330534765**
Option 3 ID : **264330534766**
Option 4 ID : **264330534764**
Status : **Answered**
Chosen Option : **4**

Join Telegram Group "HaryanaJobs.in"

Q.3 Four sentences are given, out of which three have spelling errors. Choose the sentence with all correctly spelt words.

Ans
✗ 1. It turns out multiple groups have measured the concensus.

✗ 2. The proposed cuts have caused considerable contraversy.

✗ 3.
She was in a bouyant mood and was looking forward to her new life.

✓ 4. The companies may lose a lot of their overseas exposure.

Question Type : **MCQ**
Question ID : **264330135764**
Option 1 ID : **264330531936**
Option 2 ID : **264330531935**
Option 3 ID : **264330531938**
Option 4 ID : **264330531937**
Status : **Answered**
Chosen Option : **4**

Q.4 Fill in the blank with the most appropriate option.
Aunt Petunia was _____ a box of after-dinner mints.

Ans
✗ 1. passing round

✓ 2. passing around

✗ 3. passed away

✗ 4. passed around

Question Type : **MCQ**
Question ID : **264330135852**
Option 1 ID : **264330532278**
Option 2 ID : **264330532276**
Option 3 ID : **264330532277**
Option 4 ID : **264330532275**
Status : **Answered**
Chosen Option : **2**

Q.5 Fill in the blank with the most appropriate option.
I wanted to _____ things that girls weren't supposed to do.

Ans
✗ 1. do allot of

✓ 2. do a lot of

✗ 3. do a lot off

✗ 4. done a lot of

Question Type : **MCQ**
Question ID : **264330135851**
Option 1 ID : **264330532274**
Option 2 ID : **264330532273**
Option 3 ID : **264330532272**
Option 4 ID : **264330532271**
Status : **Answered**
Chosen Option : **2**

Join Telegram Group "HaryanaJobs.in"

Q.6 Select the most appropriate antonym of the given word.

Impertinent

Ans
✔ 1. Polite
✘ 2. Insolent
✘ 3. Irrelevant
✘ 4. Personal

Question Type : **MCQ**
Question ID : **264330136362**
Option 1 ID : **264330534217**
Option 2 ID : **264330534215**
Option 3 ID : **264330534218**
Option 4 ID : **264330534216**
Status : **Answered**
Chosen Option : **1**

Q.7 Select the most appropriate word for the given group of words.

A state of agitation especially over a trivial matter

Ans
✘ 1. Worry
✔ 2. Fuss
✘ 3. Harmony
✘ 4. Storm

Question Type : **MCQ**
Question ID : **264330136279**
Option 1 ID : **264330533898**
Option 2 ID : **264330533896**
Option 3 ID : **264330533895**
Option 4 ID : **264330533897**
Status : **Answered**
Chosen Option : **2**

Q.8 Select the most appropriate option to substitute the bracketed segment in the given sentence. If there is no need to substitute it, select 'no substitution required'.

Besides the atmospheric changes that make us sweat, (hormonal or emotional stimulus can also cause sweating).

Ans
✘ 1. hormonal and emotional stimuli also causes sweating
✔ 2. hormonal or emotional stimuli can also cause sweating
✘ 3. hormonal or emotional stimulus also causing sweating
✘ 4. No substitution required

Question Type : **MCQ**
Question ID : **264330135667**
Option 1 ID : **264330531565**
Option 2 ID : **264330531564**
Option 3 ID : **264330531563**
Option 4 ID : **264330531566**
Status : **Answered**
Chosen Option : **3**

Join Telegram Group "HaryanaJobs.in"

Q.9 The statement below has been given with bracketed text. Select the option with correct Idiom for the bracketed text.
That's just like Julie – always (coming to conclusions too quickly) even before she knows the facts.

Ans

✔ 1. jumping in with both feet

✘ 2. biting her own tongue

✘ 3. raring to go

✘ 4. sailing in the same boat

Question Type : **MCQ**
Question ID : **264330135736**
Option 1 ID : **264330531830**
Option 2 ID : **264330531827**
Option 3 ID : **264330531829**
Option 4 ID : **264330531828**
Status : **Answered**
Chosen Option : **1**

Q.10 Find the part of the given sentence that has an error in it. If there is no error, choose 'No error'.

The 1918 influenza pandemic sweep the world within months.

Ans

✔ 1. pandemic sweep the

✘ 2. No error

✘ 3. The 1918 influenza

✘ 4. world within months.

Question Type : **MCQ**
Question ID : **264330135230**
Option 1 ID : **264330529844**
Option 2 ID : **264330529846**
Option 3 ID : **264330529843**
Option 4 ID : **264330529845**
Status : **Answered**
Chosen Option : **1**

Q.11 Identify the segment that contains a grammatical error. If there is no error, select 'No error'.
He best understand that / because of the fight it is no / longer his decision to make.

Ans

✔ 1. He best understand that

✘ 2. No error

✘ 3. because of the fight it is no

✘ 4. longer his decision to make.

Question Type : **MCQ**
Question ID : **264330135716**
Option 1 ID : **264330531751**
Option 2 ID : **264330531754**
Option 3 ID : **264330531752**
Option 4 ID : **264330531753**
Status : **Answered**
Chosen Option : **1**

Join Telegram Group "HaryanaJobs.in"

Q.12 Select the most appropriate option to fill in the blank.

She _____ and left the room, carefully pulling the door shut.

Ans
1. side ✗
2. site ✗
3. sighed ✓
4. slide ✗

Question Type : **MCQ**
Question ID : **264330135176**
Option 1 ID : **264330529638**
Option 2 ID : **264330529636**
Option 3 ID : **264330529637**
Option 4 ID : **264330529635**
Status : **Answered**
Chosen Option : **4**

Q.13 Select the word segment that substitutes (replaces) the bracketed word segment correctly and completes the sentence meaningfully. Select the option 'no correction required' if the sentence is correct as given.
The relationship between two people is (by the way in what) they feel and behave towards each other.

Ans
1. the way by which ✗
2. No correction required ✗
3. by which ways ✗
4. the way in which ✓

Question Type : **MCQ**
Question ID : **264330135694**
Option 1 ID : **264330531669**
Option 2 ID : **264330531670**
Option 3 ID : **264330531668**
Option 4 ID : **264330531667**
Status : **Answered**
Chosen Option : **1**

Q.14 Select the most appropriate word for the given group of words.

Sets of principles concerned with the nature and appreciation of beauty

Ans
1. Aesthetics ✓
2. Asylum ✗
3. Atonement ✗
4. Aspersion ✗

Question Type : **MCQ**
Question ID : **264330136498**
Option 1 ID : **264330534738**
Option 2 ID : **264330534736**
Option 3 ID : **264330534735**
Option 4 ID : **264330534737**
Status : **Answered**
Chosen Option : **1**

Join Telegram Group "HaryanaJobs.in"

Q.15 Select the word segment that substitutes (replaces) the bracketed word segment correctly and completes the sentence meaningfully. Select the option 'no correction required' if the sentence is correct as given.
Welcome to the Ministry of Magic, (please administer your name) and business.

Ans

✗ 1. No correction required

✗ 2. please inform your entitle

✗ 3. please direct your name

✓ 4. please state your name

Question Type : **MCQ**
Question ID : **264330136139**
Option 1 ID : **264330533362**
Option 2 ID : **264330533361**
Option 3 ID : **264330533359**
Option 4 ID : **264330533360**
Status : **Answered**
Chosen Option : **1**

Q.16 In the following question, out of the given four alternatives, select the alternative which best expresses the meaning of the Idiom/Phrase.

As easy as pie

Ans

✗ 1. Difficult choice

✗ 2. Tasteful

✗ 3. Auspicious

✓ 4. Very easy

Question Type : **MCQ**
Question ID : **264330135250**
Option 1 ID : **264330529919**
Option 2 ID : **264330529921**
Option 3 ID : **264330529922**
Option 4 ID : **264330529920**
Status : **Answered**
Chosen Option : **4**

Q.17 Fill in the blank with the most appropriate choice.
In more civilized times even the most _____ enemies were treated with dignity.

Ans

✗ 1. ineducable

✗ 2. vindicable

✗ 3. explicable

✓ 4. implacable

Question Type : **MCQ**
Question ID : **264330135844**
Option 1 ID : **264330532246**
Option 2 ID : **264330532244**
Option 3 ID : **264330532243**
Option 4 ID : **264330532245**
Status : **Answered**
Chosen Option : **2**

Join Telegram Group "HaryanaJobs.in"

Q.18 Find the part of the given sentence that has an error in it. If there is no error, choose 'No error'.

If I was your sister, I would have never slapped you.

Ans

✗ 1. sister, I would have

✗ 2. never slapped you.

✗ 3. No error

✓ 4. If I was your

Question Type : **MCQ**
Question ID : **264330135639**
Option 1 ID : **264330531456**
Option 2 ID : **264330531457**
Option 3 ID : **264330531458**
Option 4 ID : **264330531455**
Status : **Answered**
Chosen Option : **4**

Q.19 Select the most appropriate synonym of the given word.

Capricious

Ans

✗ 1. Stable

✗ 2. Cautious

✗ 3. Steadfast

✓ 4. Arbitrary

Question Type : **MCQ**
Question ID : **264330136499**
Option 1 ID : **264330534741**
Option 2 ID : **264330534739**
Option 3 ID : **264330534742**
Option 4 ID : **264330534740**
Status : **Answered**
Chosen Option : **4**

Q.20 Select the appropriate antonym for the underlined word.

His gray, <u>lifeless</u> eyes were sunken.

Ans

✗ 1. pointed

✓ 2. vibrant

✗ 3. lapsed

✗ 4. extinct

Question Type : **MCQ**
Question ID : **264330135554**
Option 1 ID : **264330531118**
Option 2 ID : **264330531116**
Option 3 ID : **264330531117**
Option 4 ID : **264330531115**
Status : **Answered**
Chosen Option : **1**

Join Telegram Group "HaryanaJobs.in"

Comprehension:

In the following passage some words have been deleted. Fill in the blanks with the help of the alternatives given. Select the most appropriate option for each number.

Louisiana hosts one of the (1) _____ well known celebrations - Mardi Gras. Mardi Gras is French for "Fat Tuesday". This (2) _____ is sometimes called "Shrove Tuesday". (3) _____ wear masks and costumes, overturn social conventions, dance, organize competitions and parades. Related popular practices (4) _____ associated with celebrations before the fasting and religious obligations associated (5) _____ the penitential season of Lent.

SubQuestion No : 21

Q.21 Select the most appropriate option to fill in the blank No. 1.

Ans

✗ 1. more

✗ 2. some

✗ 3. all

✓ 4. most

Question Type : **MCQ**
Question ID : **264330136752**
Option 1 ID : **264330535712**
Option 2 ID : **264330535714**
Option 3 ID : **264330535711**
Option 4 ID : **264330535713**
Status : **Answered**
Chosen Option : **4**

Comprehension:

In the following passage some words have been deleted. Fill in the blanks with the help of the alternatives given. Select the most appropriate option for each number.

Louisiana hosts one of the (1) _____ well known celebrations - Mardi Gras. Mardi Gras is French for "Fat Tuesday". This (2) _____ is sometimes called "Shrove Tuesday". (3) _____ wear masks and costumes, overturn social conventions, dance, organize competitions and parades. Related popular practices (4) _____ associated with celebrations before the fasting and religious obligations associated (5) _____ the penitential season of Lent.

SubQuestion No : 22

Q.22 Select the most appropriate option to fill in the blank No. 2.

Ans

✗ 1. vocation

✓ 2. holiday

✗ 3. vacation

✗ 4. variation

Question Type : **MCQ**
Question ID : **264330136753**
Option 1 ID : **264330535717**
Option 2 ID : **264330535715**
Option 3 ID : **264330535716**
Option 4 ID : **264330535718**
Status : **Answered**
Chosen Option : **2**

Join Telegram Group "HaryanaJobs.in"

Comprehension:

In the following passage some words have been deleted. Fill in the blanks with the help of the alternatives given. Select the most appropriate option for each number.

Louisiana hosts one of the (1) _____ well known celebrations - Mardi Gras. Mardi Gras is French for "Fat Tuesday". This (2) _____ is sometimes called "Shrove Tuesday". (3) _____ wear masks and costumes, overturn social conventions, dance, organize competitions and parades. Related popular practices (4) _____ associated with celebrations before the fasting and religious obligations associated (5) _____ the penitential season of Lent.

SubQuestion No : 23

Q.23 Select the most appropriate option to fill in the blank No. 3.

Ans

✗ 1. Animals

✗ 2. Birds

✗ 3. Plants

✓ 4. People

Question Type : **MCQ**
Question ID : **264330136754**
Option 1 ID : **264330535722**
Option 2 ID : **264330535719**
Option 3 ID : **264330535720**
Option 4 ID : **264330535721**
Status : **Answered**
Chosen Option : **4**

Comprehension:

In the following passage some words have been deleted. Fill in the blanks with the help of the alternatives given. Select the most appropriate option for each number.

Louisiana hosts one of the (1) _____ well known celebrations - Mardi Gras. Mardi Gras is French for "Fat Tuesday". This (2) _____ is sometimes called "Shrove Tuesday". (3) _____ wear masks and costumes, overturn social conventions, dance, organize competitions and parades. Related popular practices (4) _____ associated with celebrations before the fasting and religious obligations associated (5) _____ the penitential season of Lent.

SubQuestion No : 24

Q.24 Select the most appropriate option to fill in the blank No. 4.

Ans

✗ 1. have

✓ 2. were

✗ 3. is

✗ 4. will be

Question Type : **MCQ**
Question ID : **264330136755**
Option 1 ID : **264330535725**
Option 2 ID : **264330535723**
Option 3 ID : **264330535726**
Option 4 ID : **264330535724**
Status : **Answered**
Chosen Option : **2**

Join Telegram Group "HaryanaJobs.in"

Comprehension:

In the following passage some words have been deleted. Fill in the blanks with the help of the alternatives given. Select the most appropriate option for each number.

Louisiana hosts one of the (1) _____ well known celebrations - Mardi Gras. Mardi Gras is French for "Fat Tuesday". This (2) _____ is sometimes called "Shrove Tuesday". (3) _____ wear masks and costumes, overturn social conventions, dance, organize competitions and parades. Related popular practices (4) _____ associated with celebrations before the fasting and religious obligations associated (5) _____ the penitential season of Lent.

SubQuestion No : 25

Q.25 Select the most appropriate option to fill in the blank No. 5.

Ans

✗ 1. of

✗ 2. from

✗ 3. off

✓ 4. with

Question Type : **MCQ**
Question ID : **264330136756**
Option 1 ID : **264330535728**
Option 2 ID : **264330535730**
Option 3 ID : **264330535727**
Option 4 ID : **264330535729**
Status : **Answered**
Chosen Option : **4**

Join Telegram Group "HaryanaJobs.in"

Multi Tasking Non Technical Staff and Havaldar CBIC and CBN Examination 2022

Roll Number	HaryanaJobs.in
Candidate Name	HaryanaJobs.in
Venue Name	Aurobindo International School Jaipur
Exam Date	16/06/2023
Exam Time	3:30 PM - 5:00 PM
Subject	MTS Non Tech Havaldar CBIC and CBN Examination 2022

Section : **Numerical and Mathematical Ability**

Q.1 54 और 48 का महत्तम समापवर्तक (HCF) क्या होगा?

Ans
✔ 1. 6
✘ 2. 8
✘ 3. 7
✘ 4. 4

Question Type : **MCQ**
Question ID : **264330140778**
Option 1 ID : **264330551459**
Option 2 ID : **264330551460**
Option 3 ID : **264330551461**
Option 4 ID : **264330551462**
Status : **Answered**
Chosen Option : **1**

Q.2 एक राशि पर 5 वर्षों का साधारण ब्याज Rs. 7590 है। ब्याज दर, पहले 3 वर्षों के लिए 6 प्रतिशत वार्षिक है और अगले 2 वर्षों के लिए 14 प्रतिशत वार्षिक है। वह राशि क्या है?

Ans
✔ 1. Rs. 16500
✘ 2. Rs. 17000
✘ 3. Rs. 15000
✘ 4. Rs. 14000

Question Type : **MCQ**
Question ID : **264330139942**
Option 1 ID : **264330548147**
Option 2 ID : **264330548148**
Option 3 ID : **264330548150**
Option 4 ID : **264330548149**
Status : **Answered**
Chosen Option : **1**

Join Telegram Group "HaryanaJobs.in"

Q.3 एक व्यक्ति पहले 30 km की दूरी 60 मिनट में और अगले 40 km की दूरी 30 मिनट में तय करता है। पूरी यात्रा के दौरान उसकी औसत चाल क्या है?

Ans

✔ 1. (140/3) km/hr

✘ 2. 60 km/hr

✘ 3. 30 km/hr

✘ 4. (160/3) km/hr

Question Type : **MCQ**
Question ID : **264330139630**
Option 1 ID : **264330546936**
Option 2 ID : **264330546938**
Option 3 ID : **264330546935**
Option 4 ID : **264330546937**
Status : **Answered**
Chosen Option : **1**

Q.4 सचिन, रोहित से 12.5 प्रतिशत कम कुशल है। यदि सचिन अकेला किसी कार्य को 24 दिनों में पूरा कर सकता है, तो रोहित अकेले उसी कार्य को कितने दिनों में पूरा करेगा?

Ans

✘ 1. 20 दिनों में

✔ 2. 21 दिनों में

✘ 3. 16 दिनों में

✘ 4. 18 दिनों में

Question Type : **MCQ**
Question ID : **264330139911**
Option 1 ID : **264330548026**
Option 2 ID : **264330548025**
Option 3 ID : **264330548023**
Option 4 ID : **264330548024**
Status : **Answered**
Chosen Option : **2**

Q.5 एक घनाभ की लंबाई 10 cm है। यदि घनाभ की चौड़ाई उसकी लंबाई की आधी है और घनाभ की ऊँचाई उसकी लंबाई की दुगुनी है, तो घनाभ का पार्श्व पृष्ठीय क्षेत्रफल कितना है?

Ans

✘ 1. 720 cm^2

✘ 2. 560 cm^2

✘ 3. 500 cm^2

✔ 4. 600 cm^2

Question Type : **MCQ**
Question ID : **264330139601**
Option 1 ID : **264330546821**
Option 2 ID : **264330546820**
Option 3 ID : **264330546819**
Option 4 ID : **264330546822**
Status : **Answered**
Chosen Option : **4**

Join Telegram Group "HaryanaJobs.in"

Q.6 513 और 1017 का महत्तम समापवर्तक (HCF) क्या है?

Ans
1. 9 ✔
2. 13 ✘
3. 15 ✘
4. 8 ✘

Question Type : **MCQ**
Question ID : **264330140228**
Option 1 ID : **264330549291**
Option 2 ID : **264330549293**
Option 3 ID : **264330549294**
Option 4 ID : **264330549292**
Status : **Answered**
Chosen Option : **1**

Q.7 एक व्यक्ति ने एक रुपए में 30 आम खरीदे। एक रुपए में कितने आम बेचने पर, उसे 40 प्रतिशत की हानि होती?

Ans
1. 40 ✘
2. 45 ✘
3. 50 ✔
4. 60 ✘

Question Type : **MCQ**
Question ID : **264330139594**
Option 1 ID : **264330546792**
Option 2 ID : **264330546791**
Option 3 ID : **264330546793**
Option 4 ID : **264330546794**
Status : **Answered**
Chosen Option : **3**

Q.8 एक व्यक्ति को एक स्थान तक पैदल चलकर जाने और वहाँ से पैदल चलकर वापस आने में 20 घंटे लगते हैं। वह दोनों ओर गाड़ी से जाकर 4 घंटे का समय बचा सकता था। पूरी यात्रा में तय की गई दूरी 36 मील है। यदि वह पैदल चलकर जाता है और गाड़ी से वापस आता है, तो पूरी यात्रा के लिए उसकी औसत चाल ज्ञात कीजिए।

Ans
1. 2 miles/hr ✔
2. 1 miles/hr ✘
3. 4 miles/hr ✘
4. 3 miles/hr ✘

Question Type : **MCQ**
Question ID : **264330140780**
Option 1 ID : **264330551467**
Option 2 ID : **264330551470**
Option 3 ID : **264330551469**
Option 4 ID : **264330551468**
Status : **Answered**
Chosen Option : **1**

Join Telegram Group "HaryanaJobs.in"

Q.9 $\frac{6}{13}\left[\frac{29}{12}+\frac{4}{18}\left(\frac{16}{12}+\frac{18}{9}\right)-\frac{46}{15}\div\frac{23}{45}\right]$ का मान क्या है?

Ans
1. -207/119
2. -312/137
3. -307/234
4. -294/117

Question Type : **MCQ**
Question ID : **264330139968**
Option 1 ID : **264330548253**
Option 2 ID : **264330548252**
Option 3 ID : **264330548251**
Option 4 ID : **264330548254**
Status : **Answered**
Chosen Option : **3**

Q.10 क्रय मूल्य और विक्रय मूल्य के बीच का अंतर Rs.341 है। यदि लाभ प्रतिशत 22 प्रतिशत है, तो विक्रय मूल्य क्या है?

Ans
1. Rs.1972
2. Rs.1891
3. Rs.1752
4. Rs.1858

Question Type : **MCQ**
Question ID : **264330139595**
Option 1 ID : **264330546796**
Option 2 ID : **264330546795**
Option 3 ID : **264330546797**
Option 4 ID : **264330546798**
Status : **Answered**
Chosen Option : **2**

Q.11 10 cm त्रिज्या और 20 cm ऊँचाई वाले बेलन का वक्र पृष्ठीय क्षेत्रफल क्या होगा? (π = 3.14 प्रयोग करें)

Ans
1. 1256 cm^2
2. 1345 cm^2
3. 1453 cm^2
4. 1234 cm^2

Question Type : **MCQ**
Question ID : **264330140820**
Option 1 ID : **264330551628**
Option 2 ID : **264330551630**
Option 3 ID : **264330551629**
Option 4 ID : **264330551627**
Status : **Answered**
Chosen Option : **1**

Join Telegram Group "HaryanaJobs.in"

Q.12 नीचे दिए गए वृत्त आलेख में एक व्यक्ति द्वारा 7 वस्तुओं पर किए गए खर्च को दर्शाया गया है। इन सभी 7 वस्तुओं का कुल खर्च 1800 है। इनमें से किसी एक विशिष्ट वस्तु पर किए गए खर्च को इन सभी 7 वस्तुओं पर किए गए कुल खर्च के सापेक्ष डिग्री में दर्शाया गया है।

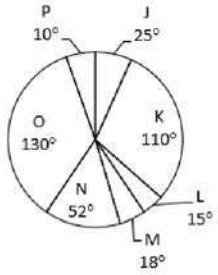

वस्तु L पर किया गया खर्च, वस्तु P पर किए गए खर्च का कितना प्रतिशत है?

Ans

✗ 1. 125 प्रतिशत

✗ 2. 75 प्रतिशत

✗ 3. 100 प्रतिशत

✓ 4. 150 प्रतिशत

Question Type : **MCQ**
Question ID : **264330140582**
Option 1 ID : **264330550681**
Option 2 ID : **264330550679**
Option 3 ID : **264330550682**
Option 4 ID : **264330550680**
Status : **Answered**
Chosen Option : **4**

Q.13 46 लीटर और 50 लीटर के दो मिश्रणों में स्पिरिट और पानी का अनुपात क्रमशः 11:12 और 2:3 है। दोनों मिश्रणों को आपस में मिला दिया जाता है। नए मिश्रण में स्पिरिट और पानी का अनुपात ज्ञात कीजिए।

Ans

✓ 1. 7:9

✗ 2. 3:7

✗ 3. 8:9

✗ 4. 5:6

Question Type : **MCQ**
Question ID : **264330138416**
Option 1 ID : **264330542272**
Option 2 ID : **264330542271**
Option 3 ID : **264330542274**
Option 4 ID : **264330542273**
Status : **Answered**
Chosen Option : **1**

Join Telegram Group "HaryanaJobs.in"

Q.14 Rs. 16000 के मूलधन का 4 वर्ष के लिए साधारण ब्याज पर निवेश किया जाता है। यदि ब्याज की वार्षिक दर 20 प्रतिशत है, तो 4 वर्ष बाद धनराशि कितनी होगी?

Ans

1. ✗ Rs. 23480
2. ✗ Rs. 26480
3. ✓ Rs. 28800
4. ✗ Rs. 30420

Question Type : **MCQ**
Question ID : **264330139941**
Option 1 ID : **264330548143**
Option 2 ID : **264330548144**
Option 3 ID : **264330548146**
Option 4 ID : **264330548145**
Status : **Answered**
Chosen Option : **3**

Q.15 Z1 और Z2 मिलकर एक कार्य को 15 दिनों में पूरा करते हैं। Z2 अकेले उसी कार्य को 30 दिनों में पूरा कर सकता है। उन्होंने साथ मिलकर कार्य पूरा करने के लिए Rs. 2000 लिए। इसमें Z1 का हिस्सा कितना होगा?

Ans

1. ✓ Rs. 1000
2. ✗ Rs. 1500
3. ✗ Rs. 500
4. ✗ Rs. 2000

Question Type : **MCQ**
Question ID : **264330140533**
Option 1 ID : **264330550487**
Option 2 ID : **264330550488**
Option 3 ID : **264330550490**
Option 4 ID : **264330550489**
Status : **Answered**
Chosen Option : **1**

Q.16 संख्याओं 49, 51 और 98 का चतुर्थ समानुपाती ज्ञात कीजिए

Ans

1. ✗ 112
2. ✓ 102
3. ✗ 90
4. ✗ 96

Question Type : **MCQ**
Question ID : **264330140182**
Option 1 ID : **264330549108**
Option 2 ID : **264330549107**
Option 3 ID : **264330549109**
Option 4 ID : **264330549110**
Status : **Answered**
Chosen Option : **2**

Join Telegram Group "HaryanaJobs.in"

Q.17 नीचे दी गई तालिका में विभिन्न विषयों में लड़कों और लड़कियों द्वारा प्राप्त अंकों को दर्शाया गया है।

विषय	लड़के	लड़कियाँ
A	60	120
B	80	100
C	140	40
D	120	60
E	100	40

L1 = सभी विषयों में लड़कों और लड़कियों द्वारा प्राप्त अंकों के बीच का अंतर।

L2 = C, D और E में लड़कों द्वारा प्राप्त अंकों के औसत का मान।

(L1 - L2) का मान क्या है?

Ans
1. 40
2. 20
3. 10
4. 50

Question Type : **MCQ**
Question ID : **264330140551**
Option 1 ID : **264330550560**
Option 2 ID : **264330550562**
Option 3 ID : **264330550561**
Option 4 ID : **264330550559**
Status : **Answered**
Chosen Option : **2**

Q.18 यदि A = 8X और B = 6X, तो A, B से कितने प्रतिशत अधिक है?

Ans
1. 66.6 प्रतिशत
2. 50 प्रतिशत
3. 100 प्रतिशत
4. 33.33 प्रतिशत

Question Type : **MCQ**
Question ID : **264330139613**
Option 1 ID : **264330546868**
Option 2 ID : **264330546869**
Option 3 ID : **264330546870**
Option 4 ID : **264330546867**
Status : **Answered**
Chosen Option : **4**

Join Telegram Group "HaryanaJobs.in"

Q.19 अंकित मूल्य का 35 प्रतिशत क्रय मूल्य के 40 प्रतिशत के बराबर है। यदि कोई बट्टा नहीं दिया जाता है, तो लाभ प्रतिशत क्या होगा?

Ans

✔ 1. 14.28 प्रतिशत

✘ 2. 16.66 प्रतिशत

✘ 3. 12.5 प्रतिशत

✘ 4. 25 प्रतिशत

Question Type : **MCQ**
Question ID : **264330140623**
Option 1 ID : **264330550840**
Option 2 ID : **264330550839**
Option 3 ID : **264330550842**
Option 4 ID : **264330550841**
Status : **Answered**
Chosen Option : **1**

Q.20 एक त्रिभुज के कोणों का अनुपात 2 : 3 : 4 है। त्रिभुज के सबसे बड़े कोण का मान क्या है?

Ans

✘ 1. 100 डिग्री

✘ 2. 120 डिग्री

✔ 3. 80 डिग्री

✘ 4. 90 डिग्री

Question Type : **MCQ**
Question ID : **264330139899**
Option 1 ID : **264330547977**
Option 2 ID : **264330547978**
Option 3 ID : **264330547976**
Option 4 ID : **264330547975**
Status : **Answered**
Chosen Option : **3**

Section : **Reasoning Ability and Problem Solving**

Join Telegram Group "HaryanaJobs.in"

Q.1 उस विकल्प आकृति को चुनिए जिसमें दी गई आकृति निहित है।(घूर्णन की अनुमति नहीं है)

Ans

✔ 1.

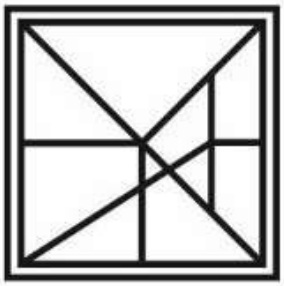

✘ 2.

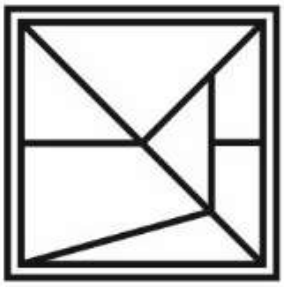

✘ 3.

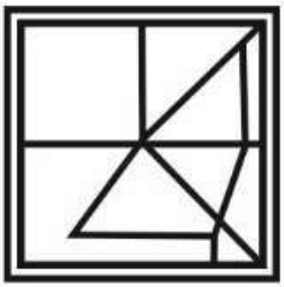

✘ 4.

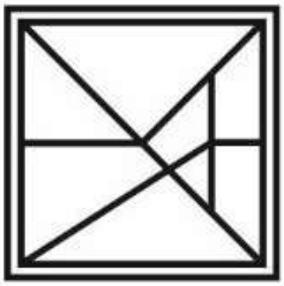

Question Type : **MCQ**
Question ID : **264330139565**
Option 1 ID : **264330546677**
Option 2 ID : **264330546678**
Option 3 ID : **264330546676**
Option 4 ID : **264330546675**
Status : **Answered**
Chosen Option : **1**

Join Telegram Group "HaryanaJobs.in"

Q.2 आठ लड़के B1, B2, B3, B4, B5, B6, B7 और B8 एक वृत्ताकार मेज के चारों ओर केंद्र की विपरीत दिशा की ओर मुख करके बैठे हैं (परंतु जरूरी नहीं कि वे इसी क्रम में बैठे हों)। B1, B3 के दाईं ओर से तीसरे स्थान पर है। B5, B3 के बाईं ओर से दूसरे स्थान पर है। B2, B4 के दाईं ओर से चौथे स्थान पर है। B4, B1 के दाईं ओर से दूसरे स्थान पर है। B8, B6 के बाईं ओर से तीसरे स्थान पर है। B6, B1 का निकटतम पड़ोसी नहीं है। B7 के दाईं ओर से तीसरे स्थान पर कौन है?

Ans
1. B5
2. B3
3. B7
4. B4

Question Type : **MCQ**
Question ID : **264330140983**
Option 1 ID : **264330552279**
Option 2 ID : **264330552282**
Option 3 ID : **264330552281**
Option 4 ID : **264330552280**
Status : **Answered**
Chosen Option : **2**

Q.3 निम्नलिखित प्रश्न में, दी गई श्रृंखला में लुप्त संख्या को चुनिए।

283, 295, 281, 297, 279, ?

Ans
1. 294
2. 298
3. 299
4. 291

Question Type : **MCQ**
Question ID : **264330139560**
Option 1 ID : **264330546656**
Option 2 ID : **264330546655**
Option 3 ID : **264330546657**
Option 4 ID : **264330546658**
Status : **Answered**
Chosen Option : **3**

Q.4 एक निश्चित कूट भाषा में, 'VRH' को 'TPJ' लिखा जाता है। उस भाषा में 'LYS' को कैसे लिखा जाएगा?

Ans
1. JUW
2. WUJ
3. JWU
4. JUT

Question Type : **MCQ**
Question ID : **264330137588**
Option 1 ID : **264330538959**
Option 2 ID : **264330538961**
Option 3 ID : **264330538960**
Option 4 ID : **264330538962**
Status : **Answered**
Chosen Option : **3**

Join Telegram Group "HaryanaJobs.in"

Q.5 दिए गए दो चिह्नों को आपस में बदलने पर, दिए गए समीकरण का मान क्या होगा?

+ और - ; 12 + 8 × 6 ÷ 3 - 11

Ans
1. 7
2. 8
3. 9
4. 5

Question Type : **MCQ**
Question ID : **264330139543**
Option 1 ID : **264330546588**
Option 2 ID : **264330546587**
Option 3 ID : **264330546589**
Option 4 ID : **264330546590**
Status : **Answered**
Chosen Option : **1**

Q.6 दी गई श्रृंखला में निम्नलिखित में से कौन-सा अक्षर प्रश्न चिन्ह (?) के स्थान पर आएगा?
T, Q, N, K, H, ?

Ans
1. R
2. P
3. O
4. E

Question Type : **MCQ**
Question ID : **264330140011**
Option 1 ID : **264330548423**
Option 2 ID : **264330548424**
Option 3 ID : **264330548426**
Option 4 ID : **264330548425**
Status : **Answered**
Chosen Option : **4**

Q.7 दिए गए समीकरण को सही करने के लिए किन दो संख्याओं को आपस में बदला जाना चाहिए?
96 ÷ 3 - 24 + 16 × 8 = 36

Ans
1. 8 और 3
2. 8 और 16
3. 96 और 24
4. 24 और 3

Question Type : **MCQ**
Question ID : **264330140468**
Option 1 ID : **264330550254**
Option 2 ID : **264330550252**
Option 3 ID : **264330550251**
Option 4 ID : **264330550253**
Status : **Answered**
Chosen Option : **1**

Join Telegram Group "HaryanaJobs.in"

Q.8 चार छात्र M, N, O, और P एक रेस्तरां में अपना ऑर्डर देने के लिए एक कतार में खड़े हैं। M, O के पीछे नहीं खड़ा है परंतु P के पीछे खड़ा है। O सबसे आखिर में ऑर्डर नहीं देता है। कतार में सबसे आगे कौन खड़ा है?

Ans

✗ 1. N

✓ 2. P

✗ 3. O

✗ 4. M

Question Type : **MCQ**
Question ID : **264330140079**
Option 1 ID : **264330548696**
Option 2 ID : **264330548698**
Option 3 ID : **264330548697**
Option 4 ID : **264330548695**
Status : **Answered**
Chosen Option : **3**

Q.9 उषा, सावित्री से बड़ी हैं। सुरुचि, निशा से छोटी है लेकिन उषा से बड़ी है। तानिया, रितु से बड़ी है, लेकिन सावित्री से छोटी है। मनीषा सबसे छोटी हैं। इनमें से सबसे बड़ा कौन है?

Ans

✗ 1. तानिया

✓ 2. निशा

✗ 3. मनीषा

✗ 4. उषा

Question Type : **MCQ**
Question ID : **264330138775**
Option 1 ID : **264330543709**
Option 2 ID : **264330543707**
Option 3 ID : **264330543710**
Option 4 ID : **264330543708**
Status : **Answered**
Chosen Option : **2**

Join Telegram Group "HaryanaJobs.in"

Q.10 तीन कथन दिए गए हैं और दो निष्कर्ष I और II दिए गए हैं। कथनों को सत्य मानते हुए, चाहे वे सामान्यतः ज्ञात तथ्यों से अलग प्रतीत होते हों, निश्चय कीजिए कि कौन-सा निष्कर्ष तार्किक रूप से कथनों के अनुसार है।
कथन:

कुछ if's, but's हैं।

सभी but's, so's हैं।

कोई so, then नहीं है।

निष्कर्ष:

I. सभी if's के then होने की संभावना है।

II. सभी then's के if होने की संभावना है।

Ans

✗ 1. दोनों निष्कर्ष I और II कथनों के अनुसार हैं।

✓ 2. केवल निष्कर्ष II कथनों के अनुसार है।

✗ 3. केवल निष्कर्ष I कथनों के अनुसार है।

✗ 4. न तो निष्कर्ष I और न ही II कथनों के अनुसार है।

Question Type : **MCQ**
Question ID : **264330140001**
Option 1 ID : **264330548385**
Option 2 ID : **264330548384**
Option 3 ID : **264330548383**
Option 4 ID : **264330548386**
Status : **Answered**
Chosen Option : **2**

Q.11 दो कथन दिए गए हैं और दो निष्कर्ष I और II दिए गए हैं। कथनों को सत्य मानते हुए, चाहे वे सामान्यतः ज्ञात तथ्यों से अलग प्रतीत होते हों, निश्चय कीजिए कि कौन-सा निष्कर्ष तार्किक रूप से कथनों के अनुसार है।
कथन:

सभी अँगूठी, गोल हैं।

कोई गोल, वर्गाकार नहीं है।
निष्कर्ष:

I. कोई अँगूठी, वर्गाकार नहीं है।

II. कोई वर्गाकार, गोल नहीं है।

Ans

✓ 1. दोनों निष्कर्ष I और II कथनों के अनुसार हैं।

✗ 2. केवल निष्कर्ष II कथनों के अनुसार है।

✗ 3. केवल निष्कर्ष I कथनों के अनुसार है।

✗ 4. न तो निष्कर्ष I और न ही II कथनों के अनुसार है।

Question Type : **MCQ**
Question ID : **264330140000**
Option 1 ID : **264330548381**
Option 2 ID : **264330548380**
Option 3 ID : **264330548379**
Option 4 ID : **264330548382**
Status : **Answered**
Chosen Option : **1**

Join Telegram Group "HaryanaJobs.in"

Q.12 (::) के बाईं ओर दिए गए शब्द आपस में किसी तर्क/नियम/संबंध द्वारा संबंधित हैं। समान तर्क/नियम/संबंध के आधार पर दिए गए विकल्पों में से (::) के दाईं ओर लुप्त शब्द/शब्द युग्म को चुनिए।

कोहिमा : नगालैंड :: ?

Ans

✗ 1. बिहार : पटना

✓ 2. शिलांग : मेघालय

✗ 3. उत्तरप्रदेश : लखनऊ

✗ 4. सिक्किम: गंगटोक

Question Type : **MCQ**
Question ID : **264330139530**
Option 1 ID : **264330546536**
Option 2 ID : **264330546537**
Option 3 ID : **264330546538**
Option 4 ID : **264330546535**
Status : **Answered**
Chosen Option : **2**

Q.13 उस विकल्प को चुनिए जो पाँचवें पद से ठीक उसी प्रकार संबंधित है जिस प्रकार दूसरा पद पहले पद से संबंधित है और चौथा पद तीसरे पद से संबंधित है।

GT16 : KW32 :: MQ29 : QT45 :: VA16 : ?

Ans

✗ 1. ZB32

✓ 2. ZD32

✗ 3. YD32

✗ 4. YC32

Question Type : **MCQ**
Question ID : **264330138583**
Option 1 ID : **264330542941**
Option 2 ID : **264330542939**
Option 3 ID : **264330542940**
Option 4 ID : **264330542942**
Status : **Answered**
Chosen Option : **2**

Q.14 दिए गए पैटर्न का ध्यानपूर्वक अध्ययन करें और उस संख्या को चुनिए जो इसमें प्रश्न चिन्ह(?) के स्थान पर आ सकती है।
पहली पंक्ति- 15, 12, 180

दूसरी पंक्ति- 18,13, 234

तीसरी पंक्ति- 7, 32, ?

Ans

✓ 1. 224

✗ 2. 308

✗ 3. 215

✗ 4. 179

Question Type : **MCQ**
Question ID : **264330140087**
Option 1 ID : **264330548727**
Option 2 ID : **264330548729**
Option 3 ID : **264330548728**
Option 4 ID : **264330548730**
Status : **Answered**
Chosen Option : **1**

Join Telegram Group "HaryanaJobs.in"

Q.15 एक निश्चित कूट भाषा में, 'RUDE' को 'EDUR48' लिखा जाता है। उस भाषा में 'SOUP' को कैसे लिखा जाएगा?

Ans

✗ 1. PUOS81
✗ 2. PUPS71
✓ 3. PUOS71
✗ 4. PUPS81

Question Type : **MCQ**
Question ID : **264330139995**
Option 1 ID : **264330548360**
Option 2 ID : **264330548361**
Option 3 ID : **264330548359**
Option 4 ID : **264330548362**
Status : **Answered**
Chosen Option : **3**

Q.16 उस विकल्प को चुनिए जो छठी संख्या से ठीक उसी प्रकार संबंधित है जिस प्रकार पहली संख्या दूसरी संख्या से संबंधित है और तीसरी संख्या चौथी संख्या से संबंधित है।

13 : 168 :: 16 : 255 :: ? : 143

Ans

✗ 1. 15
✓ 2. 12
✗ 3. 11
✗ 4. 14

Question Type : **MCQ**
Question ID : **264330139541**
Option 1 ID : **264330546582**
Option 2 ID : **264330546580**
Option 3 ID : **264330546579**
Option 4 ID : **264330546581**
Status : **Answered**
Chosen Option : **2**

Q.17 एक निश्चित कूट भाषा में, 'DUKE' को 'ZQGA' लिखा जाता है। उस कूट भाषा में 'EXIT' को कैसे लिखा जाएगा?

Ans

✗ 1. ATEQ
✓ 2. ATEP
✗ 3. AUEP
✗ 4. AUFQ

Question Type : **MCQ**
Question ID : **264330140056**
Option 1 ID : **264330548606**
Option 2 ID : **264330548605**
Option 3 ID : **264330548603**
Option 4 ID : **264330548604**
Status : **Answered**
Chosen Option : **2**

Join Telegram Group "HaryanaJobs.in"

Q.18 दी गई श्रृंखला में निम्नलिखित में से कौन-सी संख्या प्रश्न चिन्ह (?) के स्थान पर आएगी?
14, 9, 4, -1, -6, ?

Ans
1. -8
2. -14
3. -11
4. -23

Question Type : **MCQ**
Question ID : **264330140423**
Option 1 ID : **264330550074**
Option 2 ID : **264330550071**
Option 3 ID : **264330550073**
Option 4 ID : **264330550072**
Status : **Answered**
Chosen Option : **3**

Q.19 यदि एक दर्पण को रेखा AB पर रखा जाए, तो दी गई विकल्प आकृतियों में से कौन-सी आकृति प्रश्न आकृति का सही प्रतिबिम्ब होगी?

Ans
1.
2.
3.
4.

Question Type : **MCQ**
Question ID : **264330139546**
Option 1 ID : **264330546602**
Option 2 ID : **264330546599**
Option 3 ID : **264330546601**
Option 4 ID : **264330546600**
Status : **Answered**
Chosen Option : **4**

Join Telegram Group "HaryanaJobs.in"

Q.20 कौन-सी उत्तर आकृति प्रश्न आकृति में दिए गए पैटर्न को पूरा करेगी?

Ans

✔ 1.

✘ 2.

✘ 3.

✘ 4.

Question Type : **MCQ**
Question ID : **264330139567**
Option 1 ID : **264330546684**
Option 2 ID : **264330546686**
Option 3 ID : **264330546683**
Option 4 ID : **264330546685**
Status : **Answered**
Chosen Option : **4**

Section : **General Awareness**

Q.1 प्राचीन काल में 'कम्मकार (Kammakaras)' शब्द का संबंध _____ से था।

Ans

✘ 1. कर संग्रह अधिकारी

✔ 2. भूमिहीन खेतिहर मजदूरों

✘ 3. कारीगरों

✘ 4. सुनार

Question Type : **MCQ**
Question ID : **264330139694**
Option 1 ID : **264330547191**
Option 2 ID : **264330547192**
Option 3 ID : **264330547193**
Option 4 ID : **264330547194**
Status : **Answered**
Chosen Option : **3**

Join Telegram Group "HaryanaJobs.in"

Q.2 जैवि विविधता (संशोधन) विधेयक (Biological Diversity (Amendment) Bill), 2021 भारत के _____ मंत्रालय से संबंधित है।

Ans
✔ 1. पर्यावरण, वन और जलवायु परिवर्तन
✘ 2. पृथ्वी विज्ञान
✘ 3. कृषि और किसान कल्याण
✘ 4. कॉर्पोरेट कार्य

Question Type : **MCQ**
Question ID : **264330140906**
Option 1 ID : **264330551971**
Option 2 ID : **264330551974**
Option 3 ID : **264330551972**
Option 4 ID : **264330551973**
Status : **Answered**
Chosen Option : **1**

Q.3 कॉमनवेल्थ गेम्स 2022 में भारत ने कितने रजत पदक जीते?

Ans
✘ 1. 20
✘ 2. 14
✔ 3. 16
✘ 4. 18

Question Type : **MCQ**
Question ID : **264330140270**
Option 1 ID : **264330549462**
Option 2 ID : **264330549459**
Option 3 ID : **264330549460**
Option 4 ID : **264330549461**
Status : **Answered**
Chosen Option : **2**

Q.4 किस प्रसिद्ध भारतीय संगीतकार का संबंध संतूर नामक वाद्य यंत्र से है?

Ans
✔ 1. पंडित शिव कुमार शर्मा
✘ 2. उस्ताद अमजद अली खान
✘ 3. उस्ताद जाकिर हुसैन
✘ 4. हरिप्रसाद चौरसिया

Question Type : **MCQ**
Question ID : **264330140744**
Option 1 ID : **264330551324**
Option 2 ID : **264330551326**
Option 3 ID : **264330551325**
Option 4 ID : **264330551323**
Status : **Answered**
Chosen Option : **1**

Join Telegram Group "HaryanaJobs.in"

Q.5 रोग उत्पन्न करने वाले सूक्ष्मजीवों को _____ कहा जाता है।

Ans
1. रोगजनक ✔
2. रोग-प्रतिकारक ✘
3. अपघटक ✘
4. विषाक्त पदार्थ ✘

Question Type : **MCQ**
Question ID : **264330139687**
Option 1 ID : **264330547165**
Option 2 ID : **264330547166**
Option 3 ID : **264330547164**
Option 4 ID : **264330547163**
Status : **Answered**
Chosen Option : **1**

Q.6 निम्नलिखित में से किस प्रकार की बेरोजगारी को वास्तविक मजदूरी बेरोजगारी के रूप में भी जाना जाता है?

Ans
1. मौसमी (Seasonal) ✘
2. प्रतिरोधात्मक (Frictional) ✘
3. चिरसम्मत (Classical) ✔
4. संरचनात्मक (Structural) ✘

Question Type : **MCQ**
Question ID : **264330140354**
Option 1 ID : **264330549798**
Option 2 ID : **264330549796**
Option 3 ID : **264330549797**
Option 4 ID : **264330549795**
Status : **Answered**
Chosen Option : **3**

Q.7 भारतीय संविधान के किस भाग में नगर पालिकाओं से संबंधित प्रावधानों का उल्लेख है?

Ans
1. भाग V ✘
2. भाग XII ✘
3. भाग VII ✘
4. भाग IXA ✔

Question Type : **MCQ**
Question ID : **264330139759**
Option 1 ID : **264330547451**
Option 2 ID : **264330547454**
Option 3 ID : **264330547452**
Option 4 ID : **264330547453**
Status : **Answered**
Chosen Option : **4**

Join Telegram Group "HaryanaJobs.in"

Q.8 निम्नलिखित में से कौन-सा पादप जगत द्विबीजपत्री और एकबीजपत्री में विभक्त होता है?

Ans
1. जिम्नोस्पर्म (अनावृतबीजी)
2. ब्रायोफाइट
3. एंजियोस्पर्म (आवृतबीजी)
4. टैरिडोफाइट

Question Type : **MCQ**
Question ID : **264330140348**
Option 1 ID : **264330549773**
Option 2 ID : **264330549771**
Option 3 ID : **264330549774**
Option 4 ID : **264330549772**
Status : **Answered**
Chosen Option : **2**

Q.9 संगीत नाटक अकादमी पुरस्कार से सम्मानित किस पूर्व मिस इंडिया ने पश्चिम में भारतीय शास्त्रीय नृत्य को लोकप्रिय बनाया?

Ans
1. लोना पिंटो (Lona Pinto)
2. इंद्राणी रहमान
3. पीस कंवल (Peace Kanwal)
4. लीला नायडू

Question Type : **MCQ**
Question ID : **264330140670**
Option 1 ID : **264330551028**
Option 2 ID : **264330551029**
Option 3 ID : **264330551030**
Option 4 ID : **264330551027**
Status : **Not Answered**
Chosen Option : **--**

Q.10 निम्नलिखित में से किसने 2022 में पुरुष एकल का पेरिस मास्टर्स खिताब (Men's Singles Paris Masters Title) जीता?

Ans
1. नोवाक जोकोविच (Novak Djokovic)
2. कैस्पर रूड (Casper Ruud)
3. होल्गर रूने (Holger Rune)
4. कार्लोस अल्कारेज (Carlos Alcaraz)

Question Type : **MCQ**
Question ID : **264330141069**
Option 1 ID : **264330552626**
Option 2 ID : **264330552624**
Option 3 ID : **264330552625**
Option 4 ID : **264330552623**
Status : **Answered**
Chosen Option : **1**

Join Telegram Group "HaryanaJobs.in"

Q.11 किस स्वतंत्रता सेनानी को भारतीय क्रांति की जननी (mother of the Indian revolution) के तौर पर जाना जाता है?

Ans
✔ 1. मैडम भीकाजी कामा
✘ 2. एनी बेसेंट (Annie Besant)
✘ 3. सरोजिनी नायडू
✘ 4. अरुणा आसफ अली

Question Type : **MCQ**
Question ID : **264330140667**
Option 1 ID : **264330551017**
Option 2 ID : **264330551016**
Option 3 ID : **264330551015**
Option 4 ID : **264330551018**
Status : **Answered**
Chosen Option : **1**

Q.12 विंध्य और सतपुड़ा पर्वतमालाओं के बीच कौन सी नदी बहती है?

Ans
✘ 1. महानदी
✘ 2. गोदावरी
✔ 3. नर्मदा
✘ 4. सोन

Question Type : **MCQ**
Question ID : **264330140686**
Option 1 ID : **264330551094**
Option 2 ID : **264330551092**
Option 3 ID : **264330551093**
Option 4 ID : **264330551091**
Status : **Answered**
Chosen Option : **2**

Q.13 भारतीय संविधान का निम्नलिखित में से कौन-सा भाग 'पंचायतों' से संबंधित है?

Ans
✔ 1. IX
✘ 2. VI
✘ 3. X
✘ 4. III

Question Type : **MCQ**
Question ID : **264330140363**
Option 1 ID : **264330549831**
Option 2 ID : **264330549832**
Option 3 ID : **264330549833**
Option 4 ID : **264330549834**
Status : **Answered**
Chosen Option : **1**

Join Telegram Group "HaryanaJobs.in"

Q.14 दिल्ली सल्तनत के अधीन, भारत में धनवान मुसलमानों पर एक धार्मिक कर _____ लगाया गया था।

Ans
✔ 1. ज़कात (Zakat)
✘ 2. फिरूज़ (Firuz)
✘ 3. किस्मत (Kismat)
✘ 4. मामलुक (Mamluk)

Question Type : **MCQ**
Question ID : **264330140715**
Option 1 ID : **264330551209**
Option 2 ID : **264330551208**
Option 3 ID : **264330551207**
Option 4 ID : **264330551210**
Status : **Answered**
Chosen Option : **1**

Q.15 वित्त वर्ष (FY) 2020-21 के लिए कौन-सा देश दुनिया में कच्चे इस्पात (crude steel) का दूसरा सबसे बड़ा उत्पादक है?

Ans
✔ 1. भारत
✘ 2. ऑस्ट्रेलिया
✘ 3. जापान
✘ 4. चीन

Question Type : **MCQ**
Question ID : **264330140660**
Option 1 ID : **264330550988**
Option 2 ID : **264330550989**
Option 3 ID : **264330550987**
Option 4 ID : **264330550990**
Status : **Answered**
Chosen Option : **1**

Q.16 भारतीय लघु उद्योग विकास बैंक (Small Industries Development Bank of India (SIDBI)) को _____ द्वारा विनियमित किया जाता है।

Ans
✘ 1. इंडियन बैंक
✔ 2. भारतीय रिजर्व बैंक
✘ 3. आईसीआईसीआई बैंक (ICICI Bank)
✘ 4. भारतीय स्टेट बैंक

Question Type : **MCQ**
Question ID : **264330140750**
Option 1 ID : **264330551348**
Option 2 ID : **264330551350**
Option 3 ID : **264330551347**
Option 4 ID : **264330551349**
Status : **Not Answered**
Chosen Option : **--**

Join Telegram Group "HaryanaJobs.in"

Q.17 विरुपाक्ष मंदिर _____ में स्थित है।

Ans
✔ 1. हम्पी
✘ 2. सूरत
✘ 3. सांची
✘ 4. जयपुर

Question Type : **MCQ**
Question ID : **264330139725**
Option 1 ID : **264330547316**
Option 2 ID : **264330547317**
Option 3 ID : **264330547315**
Option 4 ID : **264330547318**
Status : **Not Answered**
Chosen Option : **--**

Q.18 भारतीय संविधान का अनुच्छेद 40, "ग्राम पंचायतों का संगठन (Organisation of village panchayats)", एक _____ है।

Ans
✘ 1. मौलिक अधिकार
✘ 2. मौलिक कर्तव्य
✔ 3. राज्य का नीति-निर्देशक तत्त्व
✘ 4. कानूनी अधिकार

Question Type : **MCQ**
Question ID : **264330140671**
Option 1 ID : **264330551032**
Option 2 ID : **264330551031**
Option 3 ID : **264330551034**
Option 4 ID : **264330551033**
Status : **Answered**
Chosen Option : **4**

Q.19 किसी स्थान पर तापमान, आर्द्रता, वर्षा, वायु वेग आदि के संदर्भ में वायुमंडल की प्रतिदिन की परिस्थिति उस स्थान का/की _____ कहलाती है।

Ans
✔ 1. मौसम
✘ 2. पर्यावरण
✘ 3. परिस्थितिकी
✘ 4. जलवायु

Question Type : **MCQ**
Question ID : **264330139663**
Option 1 ID : **264330547069**
Option 2 ID : **264330547068**
Option 3 ID : **264330547070**
Option 4 ID : **264330547067**
Status : **Answered**
Chosen Option : **4**

Join Telegram Group "HaryanaJobs.in"

Q.20 नालंदा विश्वविद्यालय, प्राचीन काल का एक महत्वपूर्ण शिक्षा केंद्र किस राज्य में स्थित है?

Ans
1. पश्चिम बंगाल
2. बिहार
3. हरियाणा
4. उत्तरप्रदेश

Question Type : **MCQ**
Question ID : **264330140883**
Option 1 ID : **264330551882**
Option 2 ID : **264330551881**
Option 3 ID : **264330551880**
Option 4 ID : **264330551879**
Status : **Answered**
Chosen Option : **2**

Q.21 घर्षण कम करने वाले पदार्थों को _____ कहते हैं।

Ans
1. तरल
2. कमानी
3. स्नेहक
4. चुंबक

Question Type : **MCQ**
Question ID : **264330140283**
Option 1 ID : **264330549512**
Option 2 ID : **264330549514**
Option 3 ID : **264330549511**
Option 4 ID : **264330549513**
Status : **Answered**
Chosen Option : **3**

Q.22 निम्नलिखित में से कौन-से भारत के महत्वपूर्ण इस्पात उत्पादक केंद्र हैं?

I. भिलाई

II. जमशेदपुर

III. राउरकेला

Ans
1. केवल I और II
2. केवल I और III
3. I, II और III
4. केवल II और III

Question Type : **MCQ**
Question ID : **264330140898**
Option 1 ID : **264330551940**
Option 2 ID : **264330551939**
Option 3 ID : **264330551942**
Option 4 ID : **264330551941**
Status : **Answered**
Chosen Option : **3**

Join Telegram Group "HaryanaJobs.in"

Q.23 निम्नलिखित में से कौन-सा राज्य नेपाल के साथ सीमा साझा नहीं करता है?

Ans
1. बिहार ✗
2. हिमाचल प्रदेश ✓
3. उत्तरप्रदेश ✗
4. उत्तराखंड ✗

Question Type : **MCQ**
Question ID : **264330140286**
Option 1 ID : **264330549524**
Option 2 ID : **264330549526**
Option 3 ID : **264330549523**
Option 4 ID : **264330549525**
Status : **Answered**
Chosen Option : **1**

Q.24 1927 में बी. आर. अंबेडकर ने दलितों के साथ किस आंदोलन की शुरुआत की थी?

Ans
1. स्वतंत्रता आंदोलन ✗
2. मंदिर प्रवेश आंदोलन ✓
3. स्वाभिमान आंदोलन ✗
4. समान वेतन आंदोलन ✗

Question Type : **MCQ**
Question ID : **264330139889**
Option 1 ID : **264330547935**
Option 2 ID : **264330547936**
Option 3 ID : **264330547938**
Option 4 ID : **264330547937**
Status : **Answered**
Chosen Option : **2**

Q.25 आदि जनजाति द्वारा मनाए जाने वाले "सोलुंग (Solung)" त्योहार का संबंध किस राज्य से है?

Ans
1. मध्यप्रदेश ✗
2. अरुणाचल प्रदेश ✓
3. हिमाचल प्रदेश ✗
4. आंध्रप्रदेश ✗

Question Type : **MCQ**
Question ID : **264330139699**
Option 1 ID : **264330547213**
Option 2 ID : **264330547212**
Option 3 ID : **264330547214**
Option 4 ID : **264330547211**
Status : **Answered**
Chosen Option : **2**

Section : **English Language and Comprehension**

Join Telegram Group "HaryanaJobs.in"

Q.1 Improve the underlined part of the sentence. Choose 'No improvement' as an answer if the sentence is grammatically correct.

He would prefer to speak with you in persona.

Ans

1. you in person ✓
2. you in personal ✗
3. you on person ✗
4. No improvement ✗

Question Type : **MCQ**
Question ID : **264330135234**
Option 1 ID : **264330529859**
Option 2 ID : **264330529860**
Option 3 ID : **264330529861**
Option 4 ID : **264330529862**
Status : **Answered**
Chosen Option : **2**

Q.2 Select the most appropriate option to fill in the blank.

She was trying to help that little boy in the grocery _____.

Ans

1. store ✓
2. asylum ✗
3. park ✗
4. road ✗

Question Type : **MCQ**
Question ID : **264330135661**
Option 1 ID : **264330531541**
Option 2 ID : **264330531542**
Option 3 ID : **264330531540**
Option 4 ID : **264330531539**
Status : **Answered**
Chosen Option : **2**

Q.3 Fill in the blank with the most appropriate option.

Many Americans appear to be _____ those warnings seriously.

Ans

1. taking ✓
2. making ✗
3. sacking ✗
4. understanding ✗

Question Type : **MCQ**
Question ID : **264330136168**
Option 1 ID : **264330533471**
Option 2 ID : **264330533472**
Option 3 ID : **264330533474**
Option 4 ID : **264330533473**
Status : **Not Answered**
Chosen Option : **--**

Join Telegram Group "HaryanaJobs.in"

Q.4 Identify the segment that contains a grammatical error. If there is no error, select 'No error'.

The differences were/ imperceptible to all but/ the most trained eye.

Ans

✔ 1. No error

✘ 2. imperceptible to all but

✘ 3. the most trained eye.

✘ 4. The differences were

Question Type : **MCQ**
Question ID : **264330136345**
Option 1 ID : **264330534154**
Option 2 ID : **264330534152**
Option 3 ID : **264330534153**
Option 4 ID : **264330534151**
Status : **Answered**
Chosen Option : **3**

Q.5 Select the wrongly spelt word.

Ans

✘ 1. enormous

✘ 2. courteous

✘ 3. indolent

✔ 4. mordern

Question Type : **MCQ**
Question ID : **264330136766**
Option 1 ID : **264330535767**
Option 2 ID : **264330535770**
Option 3 ID : **264330535769**
Option 4 ID : **264330535768**
Status : **Answered**
Chosen Option : **4**

Q.6 Select the appropriate antonym for the underlined word.

Educators play a key role as nation builders.

Ans

✔ 1. negligible

✘ 2. predominant

✘ 3. primitive

✘ 4. principal

Question Type : **MCQ**
Question ID : **264330135249**
Option 1 ID : **264330529915**
Option 2 ID : **264330529917**
Option 3 ID : **264330529918**
Option 4 ID : **264330529916**
Status : **Answered**
Chosen Option : **1**

Join Telegram Group "HaryanaJobs.in"

Q.7 Select the word from the options which is similar in meaning to the bracketed word given in the sentence below.

The (departure) of people from the city isn't necessarily good news.

Ans

1. continuation ✗
2. exodus ✓
3. abidance ✗
4. excavation ✗

Question Type : **MCQ**
Question ID : **264330136282**
Option 1 ID : **264330533909**
Option 2 ID : **264330533907**
Option 3 ID : **264330533910**
Option 4 ID : **264330533908**
Status : **Answered**
Chosen Option : **2**

Q.8 Fill in the blank with the most appropriate option.

Pranav, Shagun and Munshi took a bus to the same _____.

Ans

1. end ✗
2. slot ✗
3. target ✗
4. destination ✓

Question Type : **MCQ**
Question ID : **264330135766**
Option 1 ID : **264330531946**
Option 2 ID : **264330531943**
Option 3 ID : **264330531944**
Option 4 ID : **264330531945**
Status : **Answered**
Chosen Option : **4**

Q.9 Select the most appropriate meaning of the bracketed idiom in the given sentence.

She invited (all and sundry) to her party.

Ans

1. To suffer humiliation ✗
2. Everyone without distinction ✓
3. To remove a misapprehension ✗
4. To take reckless risks ✗

Question Type : **MCQ**
Question ID : **264330136208**
Option 1 ID : **264330533623**
Option 2 ID : **264330533626**
Option 3 ID : **264330533625**
Option 4 ID : **264330533624**
Status : **Answered**
Chosen Option : **2**

Join Telegram Group "HaryanaJobs.in"

Q.10 Identify the segment that contains a grammatical error. If there is no error, select 'No error'.

Even the most wise don't / know what's hidden in / the depths of their being.

Ans

1. know what's hidden in
2. No error
3. the depths of their being.
4. Even the most wise don't

Question Type : **MCQ**
Question ID : **264330136411**
Option 1 ID : **264330534408**
Option 2 ID : **264330534410**
Option 3 ID : **264330534409**
Option 4 ID : **264330534407**
Status : **Answered**
Chosen Option : **1**

Q.11 Select the most appropriate option to fill in the blank.

The event acts as a trigger or _____, which catapults them into an awareness of this phenomena.

Ans

1. dogma
2. elegy
3. catalyst
4. harangue

Question Type : **MCQ**
Question ID : **264330136350**
Option 1 ID : **264330534172**
Option 2 ID : **264330534174**
Option 3 ID : **264330534173**
Option 4 ID : **264330534171**
Status : **Answered**
Chosen Option : **3**

Q.12 Identify the segment that contains a grammatical error. If there is no error, select 'No error'.

'He wants something done, / and it has not happen / fast enough,' he said.

Ans

1. He wants something done
2. and it has not happen
3. fast enough,' he said.
4. No error

Question Type : **MCQ**
Question ID : **264330136412**
Option 1 ID : **264330534411**
Option 2 ID : **264330534412**
Option 3 ID : **264330534413**
Option 4 ID : **264330534414**
Status : **Answered**
Chosen Option : **4**

Join Telegram Group "HaryanaJobs.in"

Q.13 Select the most appropriate synonym of the given word.

Small

Ans
1. Rich
2. Liberal
3. Slight
4. Adequate

Question Type : **MCQ**
Question ID : **264330136125**
Option 1 ID : **264330533306**
Option 2 ID : **264330533305**
Option 3 ID : **264330533303**
Option 4 ID : **264330533304**
Status : **Answered**
Chosen Option : **3**

Q.14 Select the most appropriate meaning of the given idiom.

Rust bucket

Ans
1. To be absent minded
2. An old man
3. A vehicle that is old or almost broken
4. To be late for everything

Question Type : **MCQ**
Question ID : **264330135865**
Option 1 ID : **264330532323**
Option 2 ID : **264330532325**
Option 3 ID : **264330532324**
Option 4 ID : **264330532326**
Status : **Answered**
Chosen Option : **2**

Q.15 Select the most appropriate option to substitute the bracketed segment in the given sentence. If there is no need to substitute it, select 'no substitution required'.

It is expected that this police power will only apply to air and (sea routes between the Great Britain and the Northern Ireland).

Ans
1. No substitution required
2. sea routes between Great Britain and Northern Ireland
3. sea routes across the Great Britain and Northern Ireland
4. sea routes across the Great Britain and the Northern Ireland

Question Type : **MCQ**
Question ID : **264330136348**
Option 1 ID : **264330534166**
Option 2 ID : **264330534165**
Option 3 ID : **264330534163**
Option 4 ID : **264330534164**
Status : **Answered**
Chosen Option : **4**

Join Telegram Group "HaryanaJobs.in"

Q.16 Select the correctly spelt word.

Ans
1. simultenaous ✗
2. simulteneous ✗
3. simultaneous ✓
4. simultanous ✗

Question Type : **MCQ**
Question ID : **264330135685**
Option 1 ID : **264330531634**
Option 2 ID : **264330531631**
Option 3 ID : **264330531632**
Option 4 ID : **264330531633**
Status : **Answered**
Chosen Option : **2**

Q.17 Choose the word that is opposite in meaning to the given word.

Pardon

Ans
1. Release ✗
2. Spite ✗
3. Condemn ✓
4. Boast ✗

Question Type : **MCQ**
Question ID : **264330135248**
Option 1 ID : **264330529912**
Option 2 ID : **264330529913**
Option 3 ID : **264330529911**
Option 4 ID : **264330529914**
Status : **Answered**
Chosen Option : **3**

Q.18 Select the most appropriate word for the given group of words.

People who belong to the same country.

Ans
1. Soldiers ✗
2. Communists ✗
3. Natives ✓
4. Folks ✗

Question Type : **MCQ**
Question ID : **264330135703**
Option 1 ID : **264330531700**
Option 2 ID : **264330531702**
Option 3 ID : **264330531699**
Option 4 ID : **264330531701**
Status : **Answered**
Chosen Option : **2**

Join Telegram Group "HaryanaJobs.in"

Q.19 Choose the word that can substitute the given group of words.

One who gives shape to stone

Ans

1. ✗ Auditor
2. ✓ Sculptor
3. ✗ Apostate
4. ✗ Curator

Question Type : **MCQ**
Question ID : **264330135524**
Option 1 ID : **264330531000**
Option 2 ID : **264330531002**
Option 3 ID : **264330530999**
Option 4 ID : **264330531001**
Status : **Answered**
Chosen Option : **4**

Q.20 Select the word segment that substitutes (replaces) the bracketed word segment correctly and completes the sentence meaningfully. Select the option 'no correction required' if the sentence is correct as given.
We've made extraordinary (flowering as a) society in that regard.

Ans

1. ✗ advance as a
2. ✗ improvement by a
3. ✗ No correction required
4. ✓ progress as a

Question Type : **MCQ**
Question ID : **264330135720**
Option 1 ID : **264330531769**
Option 2 ID : **264330531767**
Option 3 ID : **264330531770**
Option 4 ID : **264330531768**
Status : **Answered**
Chosen Option : **4**

Join Telegram Group "HaryanaJobs.in"

Comprehension:

In the following passage some of the words have been deleted. Read the passage carefully and select the correct answer for the given blank out of the four alternatives.

One headteacher asked what she should say to parents who request guidance _____(1) getting their child "school-ready", because she was concerned that too _____(2) parents have become convinced that an expert (the teacher) knows more than they do about their own child's _____ (3). Her intention was not to bash parents, _____ (4) she wanted to know how to encourage parents to see "school" as a distinct domain from "home", where their own _____(5) ought to hold sway.

SubQuestion No : 21

Q.21 Select the most appropriate option to fill in the blank 1

Ans

✗ 1. of

✗ 2. at

✓ 3. on

✗ 4. to

Question Type : **MCQ**
Question ID : **264330141191**
Option 1 ID : **264330553100**
Option 2 ID : **264330553101**
Option 3 ID : **264330553099**
Option 4 ID : **264330553102**
Status : **Answered**
Chosen Option : **4**

Comprehension:

In the following passage some of the words have been deleted. Read the passage carefully and select the correct answer for the given blank out of the four alternatives.

One headteacher asked what she should say to parents who request guidance _____(1) getting their child "school-ready", because she was concerned that too _____(2) parents have become convinced that an expert (the teacher) knows more than they do about their own child's _____ (3). Her intention was not to bash parents, _____ (4) she wanted to know how to encourage parents to see "school" as a distinct domain from "home", where their own _____(5) ought to hold sway.

SubQuestion No : 22

Q.22 Select the most appropriate option to fill in the blank 2

Ans

✓ 1. many

✗ 2. more

✗ 3. most

✗ 4. much

Question Type : **MCQ**
Question ID : **264330141192**
Option 1 ID : **264330553104**
Option 2 ID : **264330553103**
Option 3 ID : **264330553106**
Option 4 ID : **264330553105**
Status : **Answered**
Chosen Option : **1**

Join Telegram Group "HaryanaJobs.in"

Comprehension:

In the following passage some of the words have been deleted. Read the passage carefully and select the correct answer for the given blank out of the four alternatives.

One headteacher asked what she should say to parents who request guidance _____(1) getting their child "school-ready", because she was concerned that too _____(2) parents have become convinced that an expert (the teacher) knows more than they do about their own child's _____ (3). Her intention was not to bash parents, _____ (4) she wanted to know how to encourage parents to see "school" as a distinct domain from "home", where their own _____(5) ought to hold sway.

SubQuestion No : 23

Q.23 Select the most appropriate option to fill in the blank 3

Ans

✗ 1. submission

✓ 2. development

✗ 3. maniacs

✗ 4. consistence

Question Type : **MCQ**
Question ID : **264330141193**
Option 1 ID : **264330553110**
Option 2 ID : **264330553109**
Option 3 ID : **264330553107**
Option 4 ID : **264330553108**
Status : **Answered**
Chosen Option : **2**

Comprehension:

In the following passage some of the words have been deleted. Read the passage carefully and select the correct answer for the given blank out of the four alternatives.

One headteacher asked what she should say to parents who request guidance _____(1) getting their child "school-ready", because she was concerned that too _____(2) parents have become convinced that an expert (the teacher) knows more than they do about their own child's _____ (3). Her intention was not to bash parents, _____ (4) she wanted to know how to encourage parents to see "school" as a distinct domain from "home", where their own _____(5) ought to hold sway.

SubQuestion No : 24

Q.24 Select the most appropriate option to fill in the blank 4

Ans

✗ 1. so

✗ 2. yet

✗ 3. or

✓ 4. rather

Question Type : **MCQ**
Question ID : **264330141194**
Option 1 ID : **264330553113**
Option 2 ID : **264330553112**
Option 3 ID : **264330553111**
Option 4 ID : **264330553114**
Status : **Answered**
Chosen Option : **1**

Join Telegram Group "HaryanaJobs.in"

Comprehension:

In the following passage some of the words have been deleted. Read the passage carefully and select the correct answer for the given blank out of the four alternatives.

One headteacher asked what she should say to parents who request guidance _____(1) getting their child "school-ready", because she was concerned that too _____(2) parents have become convinced that an expert (the teacher) knows more than they do about their own child's _____ (3). Her intention was not to bash parents, _____ (4) she wanted to know how to encourage parents to see "school" as a distinct domain from "home", where their own _____(5) ought to hold sway.

SubQuestion No : 25

Q.25 Select the most appropriate option to fill in the blank 5

Ans

✗ 1. games

✗ 2. commotion

✗ 3. turbulence

✓ 4. judgement

Question Type : **MCQ**
Question ID : **264330141195**
Option 1 ID : **264330553117**
Option 2 ID : **264330553115**
Option 3 ID : **264330553118**
Option 4 ID : **264330553116**
Status : **Answered**
Chosen Option : **1**

Join Telegram Group "HaryanaJobs.in"

Multi Tasking Non Technical Staff and Havaldar CBIC and CBN Examination 2022

Roll Number	HaryanaJobs.in
Candidate Name	HaryanaJobs.in
Venue Name	iON Digital Zone iDZ 2 Sector 62
Exam Date	19/06/2023
Exam Time	9:00 AM - 10:30 AM
Subject	MTS Non Tech Havaldar CBIC and CBN Examination 2022

Section : **Numerical and Mathematical Ability**

Q.1 $\frac{1}{7}\times\frac{1}{8}\div\frac{72}{51}\text{of}\left(\frac{1}{9}+\frac{1}{8}\right)+\left(\frac{63}{56}\times\frac{48}{72}\right)$ का मान क्या है?

Ans

✔ 1. 45/56

✘ 2. 19/56

✘ 3. 15/56

✘ 4. 21/56

Question Type : **MCQ**
Question ID : **264330139928**
Option 1 ID : **264330548094**
Option 2 ID : **264330548091**
Option 3 ID : **264330548093**
Option 4 ID : **264330548092**
Status : **Answered**
Chosen Option : **1**

Q.2 दो नाव एक दूसरे की ओर क्रमशः 36 km/hr और 54 km/hr की चाल से यात्रा कर रही हैं। टकराने से एक सेकंड पहले दोनों नावों के बीच की दूरी कितनी होगी?

Ans

✘ 1. 40 मीटर

✘ 2. 15 मीटर

✔ 3. 25 मीटर

✘ 4. 35 मीटर

Question Type : **MCQ**
Question ID : **264330140535**
Option 1 ID : **264330550498**
Option 2 ID : **264330550496**
Option 3 ID : **264330550495**
Option 4 ID : **264330550497**
Status : **Answered**
Chosen Option : **1**

Join Telegram Group "HaryanaJobs.in"

Q.3 एक व्यापारी Rs. 4000 प्रति वस्तु के मूल्य से दो वस्तु खरीदता है। यदि वह एक वस्तु पर 10 प्रतिशत का लाभ अर्जित करता है और दूसरी पर 30 प्रतिशत की हानि उठाता है, तो उसका कुल हानि प्रतिशत कितना होगा?

Ans
1. 20 प्रतिशत
2. 10 प्रतिशत
3. 5 प्रतिशत
4. 15 प्रतिशत

Question Type : **MCQ**
Question ID : **264330139023**
Option 1 ID : **264330544699**
Option 2 ID : **264330544700**
Option 3 ID : **264330544702**
Option 4 ID : **264330544701**
Status : **Answered**
Chosen Option : **2**

Q.4 45 cm लंबाई और 32 cm चौड़ाई वाले एक आयताकार मैदान का क्षेत्रफल क्या होगा?

Ans
1. 1340 cm^2
2. 1120 cm^2
3. 1450 cm^2
4. 1440 cm^2

Question Type : **MCQ**
Question ID : **264330140794**
Option 1 ID : **264330551525**
Option 2 ID : **264330551523**
Option 3 ID : **264330551526**
Option 4 ID : **264330551524**
Status : **Answered**
Chosen Option : **4**

Q.5 40 पुरुष एक इमारत को 100 दिनों में बना सकते हैं। इस कार्य को करने में 80 पुरुषों को कितना समय लगेगा?

Ans
1. 80 दिन
2. 60 दिन
3. 40 दिन
4. 50 दिन

Question Type : **MCQ**
Question ID : **264330140836**
Option 1 ID : **264330551693**
Option 2 ID : **264330551694**
Option 3 ID : **264330551692**
Option 4 ID : **264330551691**
Status : **Answered**
Chosen Option : **4**

Join Telegram Group "HaryanaJobs.in"

Q.6 नीचे दी गई तालिका में 6 वस्तुओं का अंकित मूल्य और विक्रय मूल्य दर्शाया गया है।

वस्तुएँ	अंकित मूल्य	विक्रय मूल्य
A	750	650
B	600	450
C	650	500
D	450	400
E	850	650
F	350	300

बट्टा प्रतिशत = [(अंकित मूल्य - विक्रय मूल्य)/अंकित मूल्य] × 100

निम्नलिखित में से कौन-सा बट्टा प्रतिशत का सही अनुक्रम है?

Ans
1. D > A > F > C > E > B
2. B > E > C > F > D > A
3. B > E > C > F > A > D
4. E > C > B > F > A > D

Question Type : **MCQ**
Question ID : **264330140191**
Option 1 ID : **264330549146**
Option 2 ID : **264330549143**
Option 3 ID : **264330549145**
Option 4 ID : **264330549144**
Status : **Answered**
Chosen Option : **1**

Q.7 तीन साझेदार P, Q और R इस प्रकार लाभ साझा करते हैं कि P के हिस्से का 4 गुना, Q के हिस्से के 5 गुना और R के हिस्से के 8 गुना के बराबर है। P, Q और R के लाभ का क्रमशः अनुपात क्या है?

Ans
1. 10 : 8 : 5
2. 15 : 9 : 8
3. 14 : 7 : 9
4. 12 : 8 : 7

Question Type : **MCQ**
Question ID : **264330139617**
Option 1 ID : **264330546883**
Option 2 ID : **264330546886**
Option 3 ID : **264330546885**
Option 4 ID : **264330546884**
Status : **Answered**
Chosen Option : **1**

Join Telegram Group "HaryanaJobs.in"

Q.8 यदि (P/2) = (Q/5) = (R/6), तो $P^2 : (P + Q)^2 : (Q + R)^2$ का मान क्या है?

Ans
1. 4 : 49 : 121 ✔
2. 10 : 56 : 169 ✘
3. 9 : 64 : 144 ✘
4. 16 : 10 : 125 ✘

Question Type : **MCQ**
Question ID : **264330140247**
Option 1 ID : **264330549367**
Option 2 ID : **264330549369**
Option 3 ID : **264330549368**
Option 4 ID : **264330549370**
Status : **Answered**
Chosen Option : **1**

Q.9 प्राप्तांकों के समुच्चय 512, 528, 556, 584 और 615 का औसत है:

Ans
1. 530 ✘
2. 559 ✔
3. 586 ✘
4. 600 ✘

Question Type : **MCQ**
Question ID : **264330139039**
Option 1 ID : **264330544763**
Option 2 ID : **264330544764**
Option 3 ID : **264330544765**
Option 4 ID : **264330544766**
Status : **Answered**
Chosen Option : **2**

Q.10 $\frac{43 \times 2 - 21 \text{ of } 4}{28 - 7 \text{ of } 5 + 9}$ का मान क्या है?

Ans
1. 2 ✘
2. 3 ✘
3. 1 ✔
4. 4 ✘

Question Type : **MCQ**
Question ID : **264330139967**
Option 1 ID : **264330548248**
Option 2 ID : **264330548249**
Option 3 ID : **264330548247**
Option 4 ID : **264330548250**
Status : **Answered**
Chosen Option : **3**

Join Telegram Group "HaryanaJobs.in"

Q.11 तीन भिन्न-भिन्न संख्याओं का लघुत्तम समापवर्त्य 40 है। निम्नलिखित में से कौन-सा उनका महत्तम समापवर्तक नहीं हो सकता है?

Ans

✔ 1. 25
✘ 2. 20
✘ 3. 10
✘ 4. 5

Question Type : **MCQ**
Question ID : **264330140254**
Option 1 ID : **264330549396**
Option 2 ID : **264330549397**
Option 3 ID : **264330549398**
Option 4 ID : **264330549395**
Status : **Answered**
Chosen Option : **1**

Q.12 S1 और S2 द्वारा प्राप्त अंकों का औसत S2 और S3 द्वारा प्राप्त औसत अंकों से 30 अधिक है। यदि S3 द्वारा प्राप्त अंक 50 हैं, तो S1 द्वारा प्राप्त अंक कितने हैं?

Ans

✘ 1. 95
✘ 2. 80
✘ 3. 105
✔ 4. 110

Question Type : **MCQ**
Question ID : **264330140635**
Option 1 ID : **264330550888**
Option 2 ID : **264330550887**
Option 3 ID : **264330550890**
Option 4 ID : **264330550889**
Status : **Answered**
Chosen Option : **4**

Q.13 A, B का 5 गुना है। B, A से कितने प्रतिशत कम है?

Ans

✔ 1. 80 प्रतिशत
✘ 2. 60 प्रतिशत
✘ 3. 52.5 प्रतिशत
✘ 4. 83.33 प्रतिशत

Question Type : **MCQ**
Question ID : **264330140636**
Option 1 ID : **264330550892**
Option 2 ID : **264330550891**
Option 3 ID : **264330550893**
Option 4 ID : **264330550894**
Status : **Answered**
Chosen Option : **1**

Join Telegram Group "HaryanaJobs.in"

Q.14 साधारण ब्याज पर एक निश्चित धनराशि 8 वर्षों में स्वयं की तीन गुनी हो जाती है। कितने वर्षों में यह धनराशि स्वयं की पाँच गुनी हो जाएगी?

Ans

✔ 1. 16 वर्ष

✘ 2. 12 वर्ष

✘ 3. 7 वर्ष

✘ 4. 10 वर्ष

Question Type : **MCQ**
Question ID : **264330140163**
Option 1 ID : **264330549034**
Option 2 ID : **264330549033**
Option 3 ID : **264330549031**
Option 4 ID : **264330549032**
Status : **Answered**
Chosen Option : **1**

Q.15 एक वस्तु को 20 प्रतिशत और 20 प्रतिशत के दो क्रमागत बट्टों पर बेचा जाता है। दूसरे बट्टे के बाद वस्तु का विक्रय मूल्य Rs. 3616 है। यदि इसे 20 प्रतिशत के केवल एक बट्टे पर बेचा जाए, तो वस्तु का विक्रय मूल्य क्या होगा?

Ans

✘ 1. Rs. 5200

✔ 2. Rs. 4520

✘ 3. Rs. 3960

✘ 4. Rs. 4080

Question Type : **MCQ**
Question ID : **264330140545**
Option 1 ID : **264330550535**
Option 2 ID : **264330550537**
Option 3 ID : **264330550538**
Option 4 ID : **264330550536**
Status : **Answered**
Chosen Option : **2**

Q.16 एक वस्तु का क्रय मूल्य Rs. 2650 है। यदि हानि प्रतिशत 16 प्रतिशत है, तो वस्तु का विक्रय मूल्य क्या है?

Ans

✘ 1. Rs. 2048

✘ 2. Rs. 2316

✘ 3. Rs. 2448

✔ 4. Rs. 2226

Question Type : **MCQ**
Question ID : **264330139937**
Option 1 ID : **264330548130**
Option 2 ID : **264330548129**
Option 3 ID : **264330548127**
Option 4 ID : **264330548128**
Status : **Answered**
Chosen Option : **4**

Join Telegram Group "HaryanaJobs.in"

Q.17 एक घनाभ की लंबाई, चौड़ाई और ऊँचाई क्रमशः4 cm, 6 cm और 10 cm है। कुल पृष्ठीय क्षेत्रफल ज्ञात कीजिए।

Ans
1. $248\ cm^2$
2. $222\ cm^2$
3. $244\ cm^2$
4. $144\ cm^2$

Question Type : **MCQ**
Question ID : **264330138432**
Option 1 ID : **264330542336**
Option 2 ID : **264330542338**
Option 3 ID : **264330542337**
Option 4 ID : **264330542335**
Status : **Answered**
Chosen Option : **1**

Q.18 श्रेयस एक कार्य का 4/5 भाग 16 दिनों में पूरा कर सकता है। रुचि, श्रेयस से 2.5 गुना अधिक कार्यकुशल है। रुचि अकेले उसी कार्य को कितने दिनों में पूरा करेगी?

Ans
1. 8 दिन
2. 9 दिन
3. 10 दिन
4. 12.5 दिन

Question Type : **MCQ**
Question ID : **264330139589**
Option 1 ID : **264330546773**
Option 2 ID : **264330546772**
Option 3 ID : **264330546774**
Option 4 ID : **264330546771**
Status : **Answered**
Chosen Option : **4**

Q.19 A = Rs. 6000 का 5 वर्षों के लिए 15 प्रतिशत वार्षिक ब्याज दर पर साधारण ब्याज पर निवेश किया जाता है।

B = Rs. 5000 का 2 वर्षों के लिए 20 प्रतिशत वार्षिक ब्याज दर पर साधारण ब्याज पर निवेश किया जाता है।

A और B में क्रमशः अर्जित ब्याज का अनुपात क्या है?

Ans
1. 16 : 5
2. 9 : 4
3. 19 : 12
4. 18 : 11

Question Type : **MCQ**
Question ID : **264330139619**
Option 1 ID : **264330546891**
Option 2 ID : **264330546892**
Option 3 ID : **264330546893**
Option 4 ID : **264330546894**
Status : **Answered**
Chosen Option : **2**

Join Telegram Group "HaryanaJobs.in"

Q.20 नीचे दिए गए वृत्त आलेख में 8 विद्यालयों में लड़कों की संख्या को दर्शाया गया है। इन सभी 8 विद्यालयों में लड़कों की कुल संख्या 10000 है। इनमें से किसी एक विशिष्ट विद्यालय में लड़कों की संख्या को इन सभी 8 विद्यालयों में लड़कों की कुल संख्या के प्रतिशत के रूप में दर्शाया गया है।

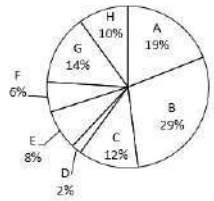

त्रिज्यखंड C, D और F द्वारा मिलकर बनाए गए केंद्रीय कोण और त्रिज्यखंड A, G और H द्वारा मिलकर बनाए गए केंद्रीय कोण का अनुपात क्या है?

Ans

1. ✗ 17 : 39
2. ✗ 19 : 44
3. ✓ 20 : 43
4. ✗ 44 : 21

Question Type : **MCQ**
Question ID : **264330140172**
Option 1 ID : **264330549068**
Option 2 ID : **264330549067**
Option 3 ID : **264330549070**
Option 4 ID : **264330549069**
Status : **Answered**
Chosen Option : **3**

Section : **Reasoning Ability and Problem Solving**

Join Telegram Group "HaryanaJobs.in"

Q.1 दी गई आकृति के उस सही दर्पण प्रतिबिंब को चुनिए, जो दर्पण MN को आकृति के दाईं ओर रखने पर बनेगा।

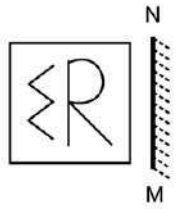

Ans

✗ 1.

✗ 2.

✗ 3.

✓ 4.

Question Type : **MCQ**
Question ID : **264330138785**
Option 1 ID : **264330543749**
Option 2 ID : **264330543750**
Option 3 ID : **264330543747**
Option 4 ID : **264330543748**
Status : **Answered**
Chosen Option : **4**

Join Telegram Group "HaryanaJobs.in"

Q.2 दी गई दो संख्याओं को आपस में बदलने पर, निम्नलिखित में से कौन-सा समीकरण सही होगा?

8 और 4

Ans
1. 4 ÷ 2 + 8 × 3 = 16
2. 4 + 3 × 8 - 2 = 21
3. 4 + 8 × 2 - 3 = 20
4. 8 - 4 + 6 = 9

Question Type : **MCQ**
Question ID : **264330139564**
Option 1 ID : **264330546673**
Option 2 ID : **264330546671**
Option 3 ID : **264330546674**
Option 4 ID : **264330546672**
Status : **Answered**
Chosen Option : **1**

Q.3 उस विकल्प को चुनिए जिसमें समुच्चय की संख्याएँ वही संबंध साझा करती हैं जो दिए गए समुच्चय में संख्याओं द्वारा साझा किया जाता है। (ध्यान दें: संख्याओं को उनके घटक अंकों में अलग-अलग किए बिना, पूर्ण संख्याओं पर संक्रियाएँ की जानी चाहिए। उदा. 13 - 13 पर संक्रियाएँ जैसे 13 को जोड़ना /घटाना /गुणा करना आदि किया जा सकता है। 13 को 1 और 3 में अलग-अलग करने और फिर 1 और 3 पर गणितीय संक्रियाएँ करने की अनुमति नहीं है)

(2, 3, 5)

(5, 7, 11)

Ans
1. (5, 10, 11)
2. (12, 15, 18)
3. (11, 13, 17)
4. (4, 6, 7)

Question Type : **MCQ**
Question ID : **264330139985**
Option 1 ID : **264330548320**
Option 2 ID : **264330548322**
Option 3 ID : **264330548321**
Option 4 ID : **264330548319**
Status : **Answered**
Chosen Option : **3**

Join Telegram Group "HaryanaJobs.in"

Q.4 दो कथन दिए गए हैं और दो निष्कर्ष I और II दिए गए हैं। कथनों को सत्य मानते हुए, चाहे वे सामान्यतः ज्ञात तथ्यों से अलग प्रतीत होते हों, निश्चय कीजिए कि कौन-सा निष्कर्ष तार्किक रूप से कथनों के अनुसार है।

कथन:

सभी कॉपियाँ, पेंसिलें हैं।

कुछ कलमें, कॉपियाँ हैं।

निष्कर्ष:

I. सभी कलमें, पेंसिलें हैं।

II. कुछ पेंसिलें, कलमें हैं।

Ans

✗ 1. निष्कर्ष I और II में से कोई भी कथनों के अनुसार नहीं है

✗ 2. दोनों निष्कर्ष I और II कथनों के अनुसार हैं

✓ 3. सिर्फ निष्कर्ष II कथनों के अनुसार है

✗ 4. सिर्फ निष्कर्ष I कथनों के अनुसार है

Question Type : **MCQ**
Question ID : **264330140441**
Option 1 ID : **264330550146**
Option 2 ID : **264330550145**
Option 3 ID : **264330550144**
Option 4 ID : **264330550143**
Status : **Answered**
Chosen Option : **3**

Q.5 दिए गए समीकरण को सही करने के लिए किन दो संख्याओं को आपस में बदला जाना चाहिए?

$7 - 5 + 4 \times 2 = 25$

Ans

✗ 1. 4 और 2

✗ 2. 25 और 7

✗ 3. 7 और 5

✓ 4. 5 और 2

Question Type : **MCQ**
Question ID : **264330140148**
Option 1 ID : **264330548973**
Option 2 ID : **264330548974**
Option 3 ID : **264330548972**
Option 4 ID : **264330548971**
Status : **Answered**
Chosen Option : **4**

Join Telegram Group "HaryanaJobs.in"

Q.6 दी गई श्रृंखला में निम्नलिखित में से कौन-सी संख्या प्रश्न चिन्ह (?) के स्थान पर आएगी?
3, 7, 15, 31, 63, 127, 255, ?

Ans
1. 520
2. 560
3. 511
4. 510

Question Type : **MCQ**
Question ID : **264330135360**
Option 1 ID : **264330530349**
Option 2 ID : **264330530350**
Option 3 ID : **264330530348**
Option 4 ID : **264330530347**
Status : **Answered**
Chosen Option : **3**

Q.7 एक निश्चित कूट भाषा में 'HOME' को 'MOHE' लिखा जाता है। उस भाषा में 'CALM' को कैसे लिखा जाएगा?

Ans
1. LACM
2. LAMC
3. LBCM
4. MACL

Question Type : **MCQ**
Question ID : **264330140415**
Option 1 ID : **264330550042**
Option 2 ID : **264330550040**
Option 3 ID : **264330550041**
Option 4 ID : **264330550039**
Status : **Answered**
Chosen Option : **1**

Q.8 उस विकल्प को चुनिए जो तीसरे शब्द से ठीक उसी तरह संबंधित है जिस तरह दूसरा शब्द पहले शब्द से संबंधित है।
कनाडा : ओटावा :: इटली : ?

Ans
1. पेरिस
2. वेलिंग्टन
3. लंदन
4. रोम

Question Type : **MCQ**
Question ID : **264330140454**
Option 1 ID : **264330550196**
Option 2 ID : **264330550198**
Option 3 ID : **264330550197**
Option 4 ID : **264330550195**
Status : **Answered**
Chosen Option : **4**

Join Telegram Group "HaryanaJobs.in"

Q.9 सात लड़कियों I, II, III, IV, V, VI और VII में से, प्रत्येक की उम्र अलग-अलग है। VI, केवल III से बड़ी है। II, केवल VII से छोटी है। IV, चार अन्य लड़कियों से बड़ी है। I, V से छोटी है। लड़कियों में चौथी सबसे बड़ी कौन है?

Ans

✔ 1. V

✘ 2. IV

✘ 3. III

✘ 4. VI

Question Type : **MCQ**
Question ID : **264330140141**
Option 1 ID : **264330548945**
Option 2 ID : **264330548944**
Option 3 ID : **264330548943**
Option 4 ID : **264330548946**
Status : **Answered**
Chosen Option : **3**

Q.10 तीन कथन दिए गए हैं और दो निष्कर्ष I और II दिए गए हैं। कथनों को सत्य मानते हुए, चाहे वे सामान्यतः ज्ञात तथ्यों से अलग प्रतीत होते हों, निश्चय कीजिए कि कौन-सा निष्कर्ष तार्किक रूप से कथनों के अनुसार है।
कथन:

सभी पेड़, फूल हैं।

सभी फूल, पंखुड़ियाँ हैं।

कुछ पंखुड़ियाँ, पत्तियाँ हैं।

निष्कर्ष:

I. सभी पेड़, पंखुड़ियाँ हैं।

II. कुछ पंखुड़ियाँ, फूल हैं।

Ans

✔ 1. दोनों निष्कर्ष I और II कथनों के अनुसार हैं

✘ 2. निष्कर्ष I और II में से कोई भी कथनों के अनुसार नहीं है

✘ 3. सिर्फ निष्कर्ष II कथनों के अनुसार है

✘ 4. सिर्फ निष्कर्ष I कथनों के अनुसार है

Question Type : **MCQ**
Question ID : **264330138777**
Option 1 ID : **264330543717**
Option 2 ID : **264330543718**
Option 3 ID : **264330543716**
Option 4 ID : **264330543715**
Status : **Answered**
Chosen Option : **1**

Join Telegram Group "HaryanaJobs.in"

Q.11 सात खिलाड़ी विराट, राहुल, रोहित, सूर्या, हार्दिक, ऋषभ और दीपक एक वृत्ताकार मेज के चारों ओर केंद्र की ओर मुख करके बैठे हैं (परंतु जरूरी नहीं कि वे इसी क्रम में बैठे हों)। रोहित, विराट के बाईं ओर से दूसरे स्थान पर है। विराट, दीपक के दाईं ओर से चौथे स्थान पर है। हार्दिक, दीपक के ठीक बाईं ओर है। सूर्या, रोहित का निकटतम पड़ोसी नहीं है। ऋषभ, हार्दिक के दाईं ओर से दूसरे स्थान पर है। हार्दिक के दाईं ओर से चौथे स्थान पर कौन है?

Ans

✗ 1. विराट

✗ 2. सूर्या

✓ 3. राहुल

✗ 4. दीपक

Question Type : **MCQ**
Question ID : **264330139977**
Option 1 ID : **264330548287**
Option 2 ID : **264330548289**
Option 3 ID : **264330548288**
Option 4 ID : **264330548290**
Status : **Answered**
Chosen Option : **3**

Q.12 एक निश्चित कूट में, 'BHAKTI' को 'GSIZFA' लिखा जाता है। उस कूट भाषा में 'BIKCER' को कैसे लिखा जाएगा?

Ans

✗ 1. QDAJHA

✗ 2. PDAJFA

✓ 3. PDAJGA

✗ 4. QDAJGA

Question Type : **MCQ**
Question ID : **264330140981**
Option 1 ID : **264330552271**
Option 2 ID : **264330552273**
Option 3 ID : **264330552272**
Option 4 ID : **264330552274**
Status : **Answered**
Chosen Option : **3**

Q.13 एक निश्चित कूट भाषा में, 'BONUS' को '215142119' लिखा जाता है। उस भाषा में 'FANCY' को कैसे लिखा जाएगा?

Ans

✓ 1. 6114325

✗ 2. 6113452

✗ 3. 6114352

✗ 4. 6113425

Question Type : **MCQ**
Question ID : **264330140416**
Option 1 ID : **264330550045**
Option 2 ID : **264330550043**
Option 3 ID : **264330550044**
Option 4 ID : **264330550046**
Status : **Answered**
Chosen Option : **1**

Join Telegram Group "HaryanaJobs.in"

Q.14 उस विकल्प को चुनिए जो तीसरी संख्या से ठीक उसी प्रकार संबंधित है जिस प्रकार दूसरी संख्या पहली संख्या से संबंधित है।
64 : 512 :: 81 : ?

Ans

✗ 1. 728

✗ 2. 727

✓ 3. 729

✗ 4. 730

Question Type : **MCQ**
Question ID : **264330140425**
Option 1 ID : **264330550079**
Option 2 ID : **264330550081**
Option 3 ID : **264330550080**
Option 4 ID : **264330550082**
Status : **Answered**
Chosen Option : **3**

Q.15 उस विकल्प आकृति को चुनिए जो पैटर्न को पूरा करने के लिए नीचे दी गई आकृति में प्रश्न चिन्ह (?) के स्थान पर आएगी। (घूर्णन की अनुमति नहीं है)

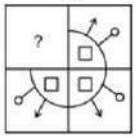

Ans

✗ 1. 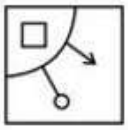

✗ 2.

✗ 3. 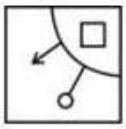

✓ 4.

Question Type : **MCQ**
Question ID : **264330140031**
Option 1 ID : **264330548503**
Option 2 ID : **264330548504**
Option 3 ID : **264330548505**
Option 4 ID : **264330548506**
Status : **Answered**
Chosen Option : **4**

Join Telegram Group "HaryanaJobs.in"

Q.16 उस विकल्प को चुनिए जो तीसरे शब्द से ठीक उसी तरह संबंधित है जिस तरह दूसरा शब्द पहले शब्द से संबंधित है।
प्रतिरोध (Resistance) : ओम (Ohm) :: ऊर्जा (Energy) : ?

Ans

1. मोल (Mole)
2. म्हो (Mho)
3. जूल (Joule)
4. एम्पीयर (Ampere)

Question Type : **MCQ**
Question ID : **264330140473**
Option 1 ID : **264330550274**
Option 2 ID : **264330550272**
Option 3 ID : **264330550271**
Option 4 ID : **264330550273**
Status : **Answered**
Chosen Option : **3**

Join Telegram Group "HaryanaJobs.in"

Q.17 उस विकल्प आकृति को चुनिए जिसमें दी गई आकृति (X) इसके भाग के रूप में निहित है। (घूर्णन की अनुमति नहीं है)।

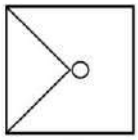

(X)

Ans

✔ 1.

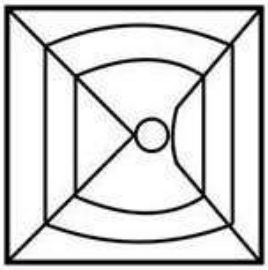

✘ 2.

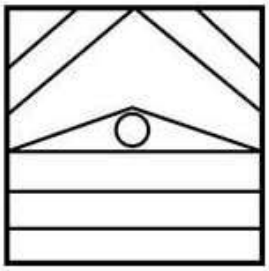

✘ 3.

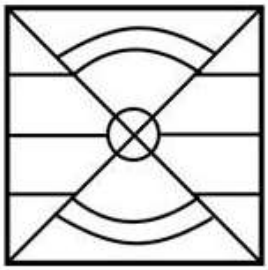

✘ 4.

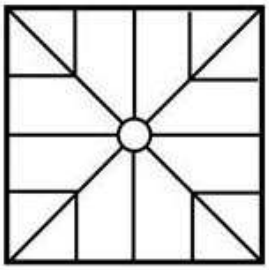

Question Type : **MCQ**
Question ID : **264330140449**
Option 1 ID : **264330550177**
Option 2 ID : **264330550176**
Option 3 ID : **264330550175**
Option 4 ID : **264330550178**
Status : **Answered**
Chosen Option : **1**

Join Telegram Group "HaryanaJobs.in"

Q.18 दी गई श्रृंखला में निम्नलिखित में से कौन-सा अक्षर-समूह प्रश्न चिन्ह (?) के स्थान पर आएगा?
PB, RZ, TX, VV, ?

Ans
✔ 1. XT
✘ 2. YU
✘ 3. YT
✘ 4. XU

Question Type : **MCQ**
Question ID : **264330140032**
Option 1 ID : **264330548508**
Option 2 ID : **264330548510**
Option 3 ID : **264330548507**
Option 4 ID : **264330548509**
Status : **Answered**
Chosen Option : **1**

Q.19 दी गई श्रृंखला में निम्नलिखित में से कौन-सी संख्या प्रश्न चिन्ह (?) के स्थान पर आएगी?
72, 78, 89, 95, 106, 112, 123, ?

Ans
✔ 1. 129
✘ 2. 140
✘ 3. 200
✘ 4. 85

Question Type : **MCQ**
Question ID : **264330140084**
Option 1 ID : **264330548715**
Option 2 ID : **264330548718**
Option 3 ID : **264330548716**
Option 4 ID : **264330548717**
Status : **Answered**
Chosen Option : **1**

Q.20 सात मित्र H, J, K, L, M, N, और O एक वृत्ताकार मेज के चारों ओर केंद्र की ओर मुख करके बैठे हैं। H, L के ठीक दाईं ओर बैठा है। J और K के ठीक बीच में N बैठा है। M, O के ठीक बाईं ओर बैठा है। N, M के बाईं ओर से दूसरे स्थान पर बैठा है। O के ठीक दाईं ओर कौन बैठा है?

Ans
✔ 1. L
✘ 2. J
✘ 3. H
✘ 4. N

Question Type : **MCQ**
Question ID : **264330138774**
Option 1 ID : **264330543704**
Option 2 ID : **264330543705**
Option 3 ID : **264330543703**
Option 4 ID : **264330543706**
Status : **Answered**
Chosen Option : **1**

Section : **General Awareness**

Join Telegram Group "HaryanaJobs.in"

Q.1 Which layer of the soil has maximum concentration of humus?

Ans
1. Parent rock
2. Top soil
3. Sub soil
4. Weathered rock material

Question Type : **MCQ**
Question ID : **264330140899**
Option 1 ID : **264330551943**
Option 2 ID : **264330551946**
Option 3 ID : **264330551945**
Option 4 ID : **264330551944**
Status : **Answered**
Chosen Option : **1**

Q.2 किस घटना के बाद महात्मा गांधी ने फरवरी 1922 में असहयोग आंदोलन वापस ले लिया था?

Ans
1. सेंट्रल असेंबली में बम ब्लास्ट
2. जलियांवाला बाग नरसंहार
3. काकोरी ट्रेन डकैती
4. चौरी चौरा घटना

Question Type : **MCQ**
Question ID : **264330139722**
Option 1 ID : **264330547304**
Option 2 ID : **264330547306**
Option 3 ID : **264330547305**
Option 4 ID : **264330547303**
Status : **Answered**
Chosen Option : **4**

Q.3 निम्नलिखित में से कौनसी नदी, नर्मदा नदी की सहायक नदी है?

Ans
1. तवा
2. कोयना
3. केन
4. बेतवा

Question Type : **MCQ**
Question ID : **264330140941**
Option 1 ID : **264330552111**
Option 2 ID : **264330552114**
Option 3 ID : **264330552112**
Option 4 ID : **264330552113**
Status : **Answered**
Chosen Option : **2**

Join Telegram Group "HaryanaJobs.in"

Q.4 निम्नलिखित में से कौन-सा संस्मरण पूर्व प्रधानमंत्री डॉ. मनमोहन सिंह पर आधारित है?

Ans
1. द चेंज वी चूज (The Change We Choose)
2. ए प्राइम मिनिस्टर टू रिमेंबर (A Prime Minister to Remember)
3. द प्राइम मिनिस्टर (The Prime Minister)
4. द एक्सीडेंटल प्राइम मिनिस्टर (The Accidental Prime Minister)

Question Type : **MCQ**
Question ID : **264330140923**
Option 1 ID : **264330552039**
Option 2 ID : **264330552042**
Option 3 ID : **264330552041**
Option 4 ID : **264330552040**
Status : **Answered**
Chosen Option : **4**

Q.5 मीनल ने शनि के सबसे बड़े चंद्रमा पर एक निबंध लिखा था। यह निम्नलिखित में से कौन-सा चंद्रमा है?

Ans
1. यूरोपा (Europa)
2. टाइटन
3. कार्मे (Carme)
4. एटलस (Atlas)

Question Type : **MCQ**
Question ID : **264330140734**
Option 1 ID : **264330551285**
Option 2 ID : **264330551284**
Option 3 ID : **264330551283**
Option 4 ID : **264330551286**
Status : **Answered**
Chosen Option : **2**

Q.6 निम्नलिखित में से कौन-सा त्योहार गौतम बुद्ध की जयंती के रूप में मनाया जाता है?

Ans
1. वेसाक (Vesak)
2. होलिका दहन
3. पोंगल
4. महाशिवरात्रि

Question Type : **MCQ**
Question ID : **264330140654**
Option 1 ID : **264330550965**
Option 2 ID : **264330550963**
Option 3 ID : **264330550966**
Option 4 ID : **264330550964**
Status : **Answered**
Chosen Option : **1**

Join Telegram Group "HaryanaJobs.in"

Q.7 निम्नलिखित में से कौन-सी जनजाति भारतीय-यूरोपीय भाषा परिवार से संबंधित है?

Ans
1. भीली ✔
2. कोरवा ✘
3. गारो ✘
4. गोंडी ✘

Question Type : **MCQ**
Question ID : **264330139768**
Option 1 ID : **264330547487**
Option 2 ID : **264330547489**
Option 3 ID : **264330547490**
Option 4 ID : **264330547488**
Status : **Not Answered**
Chosen Option : **--**

Q.8 कुमी-काटा (Kumi-Kata), शिंताई (Shintai), उकेमी (Ukemi) शब्द का संबंध किस खेल से है?

Ans
1. जूडो (Judo) ✔
2. तलवारबाजी (Fencing) ✘
3. पोलो (Polo) ✘
4. कुश्ती (Wrestling) ✘

Question Type : **MCQ**
Question ID : **264330139727**
Option 1 ID : **264330547324**
Option 2 ID : **264330547326**
Option 3 ID : **264330547325**
Option 4 ID : **264330547323**
Status : **Not Answered**
Chosen Option : **--**

Q.9 किस प्रसिद्ध शासक को "द्वितीय अशोक (Second Ashoka)" के नाम से जाना जाता था?

Ans
1. मिलिंद (Milinda) ✘
2. चंद्रगुप्त द्वितीय ✘
3. रुद्रदामन प्रथम ✘
4. कनिष्क ✔

Question Type : **MCQ**
Question ID : **264330140664**
Option 1 ID : **264330551004**
Option 2 ID : **264330551005**
Option 3 ID : **264330551006**
Option 4 ID : **264330551003**
Status : **Answered**
Chosen Option : **4**

Join Telegram Group "HaryanaJobs.in"

Q.10 निम्नलिखित में से किस भारतीय नृत्य शैली का संबंध उड़ीसा से है?

Ans
1. कथक ✗
2. छऊ ✓
3. भांगड़ा ✗
4. घूमर ✗

Question Type : **MCQ**
Question ID : **264330140908**
Option 1 ID : **264330551979**
Option 2 ID : **264330551980**
Option 3 ID : **264330551981**
Option 4 ID : **264330551982**
Status : **Answered**
Chosen Option : **2**

Q.11 निम्नलिखित में से कौन-सा विज्ञान की आवर्त सारणी का एक उत्कृष्ट (Noble) रासायनिक तत्व है?

Ans
1. नाइट्रोजन ✗
2. कोबाल्ट ✗
3. हीलियम ✓
4. स्कैंडियम ✗

Question Type : **MCQ**
Question ID : **264330140731**
Option 1 ID : **264330551274**
Option 2 ID : **264330551271**
Option 3 ID : **264330551273**
Option 4 ID : **264330551272**
Status : **Answered**
Chosen Option : **3**

Q.12 तालीकोटा का युद्ध कब लड़ा गया था ?

Ans
1. 1565 ✓
2. 1576 ✗
3. 1556 ✗
4. 1542 ✗

Question Type : **MCQ**
Question ID : **264330140356**
Option 1 ID : **264330549804**
Option 2 ID : **264330549805**
Option 3 ID : **264330549806**
Option 4 ID : **264330549803**
Status : **Answered**
Chosen Option : **1**

Join Telegram Group "HaryanaJobs.in"

Q.13 फीफा (FIFA) विश्व कप _____ खेल से संबंधित है।

Ans
1. तलवारबाज़ी (Fencing)
2. फुटबॉल (Football)
3. रग्बी (Rugby)
4. हॉकी (Hockey)

Question Type : **MCQ**
Question ID : **264330140928**
Option 1 ID : **264330552062**
Option 2 ID : **264330552061**
Option 3 ID : **264330552060**
Option 4 ID : **264330552059**
Status : **Answered**
Chosen Option : **2**

Q.14 मुस्लिम महिला (विवाह अधिकार संरक्षण) अधिनियम, 2019 एक ही बार में तीन बार तलाक़ कहकर दिए गए तत्काल तलाक (instant divorce) को शून्य और अवैध घोषित करता है। यह मौखिक रूप से तीन तलाक देने वाले पति के लिए _____ तक की कैद की सज़ा और जुर्माने का प्रावधान करता है।

Ans
1. 5 वर्ष
2. 2 वर्ष
3. 3 वर्ष
4. 4 वर्ष

Question Type : **MCQ**
Question ID : **264330140293**
Option 1 ID : **264330549552**
Option 2 ID : **264330549553**
Option 3 ID : **264330549554**
Option 4 ID : **264330549551**
Status : **Answered**
Chosen Option : **3**

Q.15 भारत के केंद्र शासित प्रदेशों का प्रशासन कौन चलाता है?

Ans
1. राष्ट्रपति
2. प्रधानमंत्री
3. विधान सभा के सदस्य
4. मुख्यमंत्री

Question Type : **MCQ**
Question ID : **264330140747**
Option 1 ID : **264330551336**
Option 2 ID : **264330551335**
Option 3 ID : **264330551337**
Option 4 ID : **264330551338**
Status : **Answered**
Chosen Option : **1**

Join Telegram Group "HaryanaJobs.in"

Q.16 निम्नलिखित में से कौन-सा जनसंचार(मास मीडिया) का एक उदाहरण नहीं है?

Ans
1. समाचार पत्र ✗
2. घर-घर जाकर अभियान करना ✓
3. रेडियो ✗
4. टेलीविज़न ✗

Question Type : **MCQ**
Question ID : **264330139883**
Option 1 ID : **264330547911**
Option 2 ID : **264330547912**
Option 3 ID : **264330547913**
Option 4 ID : **264330547914**
Status : **Answered**
Chosen Option : **2**

Q.17 निम्नलिखित में से कौन-सा विटामिन हमारी हड्डियों और दाँतों के लिए कैल्सियम का उपयोग करने में हमारे शरीर की सहायता करता है?

Ans
1. विटामिन A ✗
2. विटामिन E ✗
3. विटामिन C ✗
4. विटामिन D ✓

Question Type : **MCQ**
Question ID : **264330139661**
Option 1 ID : **264330547061**
Option 2 ID : **264330547059**
Option 3 ID : **264330547062**
Option 4 ID : **264330547060**
Status : **Answered**
Chosen Option : **3**

Q.18 केंद्रीय पेट्रोलियम और प्राकृतिक गैस मंत्री हरदीप सिंह पुरी ने अक्टूबर 2022 में _____ में एशिया के सबसे बड़े संपीडित जैव गैस (Compressed Bio Gas - CBG) संयंत्र का उद्घाटन किया।

Ans
1. चंडीगढ़ ✗
2. पंजाब ✓
3. दिल्ली ✗
4. राजस्थान ✗

Question Type : **MCQ**
Question ID : **264330140342**
Option 1 ID : **264330549747**
Option 2 ID : **264330549750**
Option 3 ID : **264330549748**
Option 4 ID : **264330549749**
Status : **Answered**
Chosen Option : **2**

Join Telegram Group "HaryanaJobs.in"

Q.19 2011 की जनगणना के अनुसार, भारत की जनसंख्या का लिंगानुपात _____ है।

Ans
1. 984
2. 867
3. 966
4. 943

Question Type : **MCQ**
Question ID : **264330140762**
Option 1 ID : **264330551397**
Option 2 ID : **264330551398**
Option 3 ID : **264330551396**
Option 4 ID : **264330551395**
Status : **Answered**
Chosen Option : **4**

Q.20 'रोमांसिंग विद लाइफ (Romancing with Life)' सदाबहार अभिनेता _____ की आत्मकथा है।

Ans
1. किशोर कुमार
2. दिलीप कुमार
3. देव आनंद
4. शशि कपूर

Question Type : **MCQ**
Question ID : **264330139678**
Option 1 ID : **264330547128**
Option 2 ID : **264330547130**
Option 3 ID : **264330547129**
Option 4 ID : **264330547127**
Status : **Not Answered**
Chosen Option : **--**

Q.21 रंगून में जेल भेजे गए अंतिम मुगल सम्राट _____ थे।

Ans
1. बहादुर शाह ज़फ़र
2. आलमगीर द्वितीय
3. अकबर शाह द्वितीय
4. शाह आलम द्वितीय

Question Type : **MCQ**
Question ID : **264330139696**
Option 1 ID : **264330547200**
Option 2 ID : **264330547202**
Option 3 ID : **264330547199**
Option 4 ID : **264330547201**
Status : **Answered**
Chosen Option : **1**

Join Telegram Group "HaryanaJobs.in"

Q.22 वास्तुकला की इस्लामी शैली को _____ शैली के नाम से भी जाना जाता है।

Ans
1. यशमक (Yashmak)
2. मेहराब (Mehrab)
3. हिज्राह (Hegira)
4. आलिम (Alim)

Question Type : **MCQ**
Question ID : **264330140910**
Option 1 ID : **264330551990**
Option 2 ID : **264330551989**
Option 3 ID : **264330551987**
Option 4 ID : **264330551988**
Status : **Answered**
Chosen Option : **2**

Q.23 भारतीय संविधान का कौन-सा भाग केंद्र शासित प्रदेशों की बात करता है?

Ans
1. भाग X
2. भाग XI
3. भाग VI
4. भाग VIII

Question Type : **MCQ**
Question ID : **264330140746**
Option 1 ID : **264330551332**
Option 2 ID : **264330551333**
Option 3 ID : **264330551331**
Option 4 ID : **264330551334**
Status : **Answered**
Chosen Option : **2**

Q.24 सभी मनुष्यों की कोशिकाओं के केन्द्रक में गुणसूत्रों के _____ जोड़े होते हैं।

Ans
1. 23
2. 33
3. 11
4. 41

Question Type : **MCQ**
Question ID : **264330138985**
Option 1 ID : **264330544548**
Option 2 ID : **264330544549**
Option 3 ID : **264330544547**
Option 4 ID : **264330544550**
Status : **Answered**
Chosen Option : **1**

Join Telegram Group "HaryanaJobs.in"

Q.25 How many types of revenue receipts exist in the economy?

Ans
1. Five
2. Two
3. Three
4. Four

Question Type : **MCQ**
Question ID : **264330139758**
Option 1 ID : **264330547447**
Option 2 ID : **264330547448**
Option 3 ID : **264330547449**
Option 4 ID : **264330547450**
Status : **Answered**
Chosen Option : **3**

Section : **English Language and Comprehension**

Q.1 Improve the underlined part of the sentence. Choose 'No improvement' as an answer if the sentence is grammatically correct.

In the summer, the bear eaten a lot of berries.

Ans
1. have ate a lot
2. eat a lot
3. No improvement
4. eats a lot

Question Type : **MCQ**
Question ID : **264330135538**
Option 1 ID : **264330531057**
Option 2 ID : **264330531056**
Option 3 ID : **264330531058**
Option 4 ID : **264330531055**
Status : **Answered**
Chosen Option : **4**

Q.2 Select the most appropriate option to fill in the blank.

Still, this is a Frank Black album, with its _____ references and abstruse lyrics.

Ans
1. informal
2. obscure
3. intelligent
4. apparent

Question Type : **MCQ**
Question ID : **264330135826**
Option 1 ID : **264330532178**
Option 2 ID : **264330532175**
Option 3 ID : **264330532176**
Option 4 ID : **264330532177**
Status : **Answered**
Chosen Option : **1**

Join Telegram Group "HaryanaJobs.in"

Q.3 Choose the sentence with no spelling error.

Ans

✔ 1. Price is the monetary value placed on a product.

✘ 2. Price is the monetary value plased on a product.

✘ 3. Price is the monetery vallue placed on a product.

✘ 4. Price is the monitary value placed on a product.

Question Type : **MCQ**
Question ID : **264330135175**
Option 1 ID : **264330529634**
Option 2 ID : **264330529632**
Option 3 ID : **264330529633**
Option 4 ID : **264330529631**
Status : **Answered**
Chosen Option : **1**

Q.4 Improve the underlined part of the sentence. Choose 'No improvement' as an answer if the sentence is grammatically correct.

If you want to have two cats, a male and a female will usually gotten along.

Ans

✘ 1. No improvement

✔ 2. will usually get

✘ 3. will usual get

✘ 4. will usually got

Question Type : **MCQ**
Question ID : **264330141181**
Option 1 ID : **264330553066**
Option 2 ID : **264330553063**
Option 3 ID : **264330553064**
Option 4 ID : **264330553065**
Status : **Answered**
Chosen Option : **2**

Q.5 Select the most appropriate option to fill in the blank.

The event, promised to be a grand show, will see a display of grit, _____ and mettle.

Ans

✔ 1. zeal

✘ 2. zenith

✘ 3. tyro

✘ 4. umbrage

Question Type : **MCQ**
Question ID : **264330135688**
Option 1 ID : **264330531644**
Option 2 ID : **264330531645**
Option 3 ID : **264330531643**
Option 4 ID : **264330531646**
Status : **Answered**
Chosen Option : **1**

Join Telegram Group "HaryanaJobs.in"

Q.6 Select the most appropriate antonym of the given word.

Complicate

Ans
1. Healthy ✗
2. Enlighten ✓
3. Dominate ✗
4. Multiply ✗

Question Type : **MCQ**
Question ID : **264330136283**
Option 1 ID : **264330533911**
Option 2 ID : **264330533912**
Option 3 ID : **264330533913**
Option 4 ID : **264330533914**
Status : **Answered**
Chosen Option : **1**

Q.7 Find the part of the given sentence that has an error in it. If there is no error, choose 'No error'.

A long hoped-for revival in private investment has not take place.

Ans
1. A long hoped-for revival ✗
2. No error ✗
3. in private investment has ✗
4. not take place. ✓

Question Type : **MCQ**
Question ID : **264330135231**
Option 1 ID : **264330529847**
Option 2 ID : **264330529850**
Option 3 ID : **264330529848**
Option 4 ID : **264330529849**
Status : **Answered**
Chosen Option : **4**

Q.8 Select the most appropriate meaning of the bracketed idiom in the given sentence.

He bought (a baker's dozen) of biscuits.

Ans
1. Twelve ✗
2. Ten ✗
3. Thirteen ✓
4. Fifteen ✗

Question Type : **MCQ**
Question ID : **264330136764**
Option 1 ID : **264330535760**
Option 2 ID : **264330535761**
Option 3 ID : **264330535759**
Option 4 ID : **264330535762**
Status : **Answered**
Chosen Option : **3**

Join Telegram Group "HaryanaJobs.in"

Q.9 Identify the segment that contains a grammatical error. If there is no error, select 'No error'.

There is not one/ that have not/ been duplicated.

Ans

1. There is not one
2. been duplicated.
3. that have not
4. No error

Question Type : **MCQ**
Question ID : **264330136535**
Option 1 ID : **264330534879**
Option 2 ID : **264330534881**
Option 3 ID : **264330534880**
Option 4 ID : **264330534882**
Status : **Answered**
Chosen Option : **3**

Q.10 Fill in the blank with the most appropriate choice.

His students from his time at Manchester University remember his lectures as extraordinarily _____.

Ans

1. flaccid
2. rancid
3. lucid
4. ballistic

Question Type : **MCQ**
Question ID : **264330135843**
Option 1 ID : **264330532241**
Option 2 ID : **264330532239**
Option 3 ID : **264330532240**
Option 4 ID : **264330532242**
Status : **Answered**
Chosen Option : **3**

Q.11 Fill in the blank with the most appropriate option.

Be present _____ the moment.

Ans

1. upon
2. in
3. on
4. to

Question Type : **MCQ**
Question ID : **264330135747**
Option 1 ID : **264330531873**
Option 2 ID : **264330531874**
Option 3 ID : **264330531871**
Option 4 ID : **264330531872**
Status : **Answered**
Chosen Option : **2**

Join Telegram Group "HaryanaJobs.in"

Q.12 Select the most appropriate meaning of the given idiom.

Hit the hay

Ans
1. To go to bed ✔
2. A sarcastic response ✘
3. To take revenge ✘
4. To buy or sell something ✘

Question Type : **MCQ**
Question ID : **264330136129**
Option 1 ID : **264330533322**
Option 2 ID : **264330533321**
Option 3 ID : **264330533320**
Option 4 ID : **264330533319**
Status : **Answered**
Chosen Option : **3**

Q.13 Choose the word that can substitute the given group of words.

A person, who travels in spacecraft

Ans
1. Cadet ✘
2. Ghetto ✘
3. Voyeur ✘
4. Astronaut ✔

Question Type : **MCQ**
Question ID : **264330135549**
Option 1 ID : **264330531097**
Option 2 ID : **264330531095**
Option 3 ID : **264330531096**
Option 4 ID : **264330531098**
Status : **Answered**
Chosen Option : **4**

Q.14 Select the appropriate antonym for the underlined word.

Our children need vital lessons in wealth management.

Ans
1. organic ✘
2. superfluous ✔
3. healthy ✘
4. clever ✘

Question Type : **MCQ**
Question ID : **264330135656**
Option 1 ID : **264330531519**
Option 2 ID : **264330531522**
Option 3 ID : **264330531520**
Option 4 ID : **264330531521**
Status : **Answered**
Chosen Option : **2**

Join Telegram Group "HaryanaJobs.in"

Q.15 Select the most appropriate word for the given group of words.

A group of ants

Ans
✔ 1. Colony
✘ 2. Bushel
✘ 3. Pack
✘ 4. Comb

Question Type : **MCQ**
Question ID : **264330136425**
Option 1 ID : **264330534460**
Option 2 ID : **264330534459**
Option 3 ID : **264330534462**
Option 4 ID : **264330534461**
Status : **Answered**
Chosen Option : **1**

Q.16 Select the correctly spelt word.

Ans
✘ 1. Plagerism
✘ 2. Plagiarsm
✔ 3. Plagiarism
✘ 4. Plageriasm

Question Type : **MCQ**
Question ID : **264330136765**
Option 1 ID : **264330535763**
Option 2 ID : **264330535765**
Option 3 ID : **264330535764**
Option 4 ID : **264330535766**
Status : **Answered**
Chosen Option : **1**

Q.17 Select the appropriate synonym for the underlined word.

She couldn't really be irritated with him.

Ans
✘ 1. delighted
✔ 2. annoyed
✘ 3. pleased
✘ 4. obliged

Question Type : **MCQ**
Question ID : **264330135246**
Option 1 ID : **264330529903**
Option 2 ID : **264330529905**
Option 3 ID : **264330529906**
Option 4 ID : **264330529904**
Status : **Answered**
Chosen Option : **2**

Join Telegram Group "HaryanaJobs.in"

Q.18 Identify the segment that contains a grammatical error. If there is no error, select 'No error'.

These include the nature/ documentaries, including/ The Blue Planet and Planet Earth.

Ans

1. These include the nature ✗
2. documentaries, including ✗
3. No error ✓
4. The Blue Planet and Planet Earth. ✗

Question Type : **MCQ**
Question ID : **264330136537**
Option 1 ID : **264330534887**
Option 2 ID : **264330534888**
Option 3 ID : **264330534890**
Option 4 ID : **264330534889**
Status : **Answered**
Chosen Option : **4**

Q.19 Select the appropriate synonym for the underlined word.

The symbols were <u>useless</u> to him.

Ans

1. reachable ✗
2. successful ✗
3. worthless ✓
4. valuable ✗

Question Type : **MCQ**
Question ID : **264330141178**
Option 1 ID : **264330553052**
Option 2 ID : **264330553051**
Option 3 ID : **264330553053**
Option 4 ID : **264330553054**
Status : **Answered**
Chosen Option : **3**

Q.20 Select the most appropriate option to substitute the bracketed segment in the given sentence. If there is no need to substitute it, select 'no substitution required'.

(Hardly had I started mowing the lawn that) it started raining.

Ans

1. No sooner did I started mowing the lawn than ✗
2. Hardly had I started mowing the lawn when ✓
3. Hardly did I start mowing the lawn than ✗
4. No substitution required ✗

Question Type : **MCQ**
Question ID : **264330136487**
Option 1 ID : **264330534695**
Option 2 ID : **264330534696**
Option 3 ID : **264330534697**
Option 4 ID : **264330534698**
Status : **Answered**
Chosen Option : **2**

Join Telegram Group "HaryanaJobs.in"

Comprehension:

In the following passage some words have been deleted. Fill in the blanks with the help of the alternatives given. Select the most appropriate option for each number.

Each went his way, the prince to (1) _____ the ways of the court, the brahmin to (2) _____ with Parasuram, the renowned scholar-warrior. He mastered (3) _____, married a virtuous woman, and (4) _____ a beautiful son. (5) _____ poor, he was proud of his learning.

SubQuestion No : 21

Q.21 Select the most appropriate option to fill in blank number 1.

Ans

✗ 1. receive
✗ 2. cram
✓ 3. learn
✗ 4. absorb

Question Type : **MCQ**
Question ID : **264330136274**
Option 1 ID : **264330533878**
Option 2 ID : **264330533875**
Option 3 ID : **264330533876**
Option 4 ID : **264330533877**
Status : **Answered**
Chosen Option : **3**

Comprehension:

In the following passage some words have been deleted. Fill in the blanks with the help of the alternatives given. Select the most appropriate option for each number.

Each went his way, the prince to (1) _____ the ways of the court, the brahmin to (2) _____ with Parasuram, the renowned scholar-warrior. He mastered (3) _____, married a virtuous woman, and (4) _____ a beautiful son. (5) _____ poor, he was proud of his learning.

SubQuestion No : 22

Q.22 Select the most appropriate option to fill in blank number 2.

Ans

✗ 1. study across
✓ 2. study further
✗ 3. study former
✗ 4. study another

Question Type : **MCQ**
Question ID : **264330136275**
Option 1 ID : **264330533881**
Option 2 ID : **264330533879**
Option 3 ID : **264330533880**
Option 4 ID : **264330533882**
Status : **Answered**
Chosen Option : **2**

Join Telegram Group "HaryanaJobs.in"

Comprehension:

In the following passage some words have been deleted. Fill in the blanks with the help of the alternatives given. Select the most appropriate option for each number.

Each went his way, the prince to (1) _____ the ways of the court, the brahmin to (2) _____ with Parasuram, the renowned scholar-warrior. He mastered (3) _____, married a virtuous woman, and (4) _____ a beautiful son. (5) _____ poor, he was proud of his learning.

SubQuestion No : 23

Q.23 Select the most appropriate option to fill in blank number 3.

Ans

✔ 1. the arts of war

✗ 2. the supplies of war

✗ 3. the art even craft of war

✗ 4. the attitude of war

Question Type : **MCQ**
Question ID : **264330136276**
Option 1 ID : **264330533886**
Option 2 ID : **264330533884**
Option 3 ID : **264330533883**
Option 4 ID : **264330533885**
Status : **Answered**
Chosen Option : **1**

Comprehension:

In the following passage some words have been deleted. Fill in the blanks with the help of the alternatives given. Select the most appropriate option for each number.

Each went his way, the prince to (1) _____ the ways of the court, the brahmin to (2) _____ with Parasuram, the renowned scholar-warrior. He mastered (3) _____, married a virtuous woman, and (4) _____ a beautiful son. (5) _____ poor, he was proud of his learning.

SubQuestion No : 24

Q.24 Select the most appropriate option to fill in blank number 4.

Ans

✔ 1. had

✗ 2. has

✗ 3. given

✗ 4. have

Question Type : **MCQ**
Question ID : **264330136277**
Option 1 ID : **264330533887**
Option 2 ID : **264330533889**
Option 3 ID : **264330533890**
Option 4 ID : **264330533888**
Status : **Answered**
Chosen Option : **3**

Join Telegram Group "HaryanaJobs.in"

Comprehension:

In the following passage some words have been deleted. Fill in the blanks with the help of the alternatives given. Select the most appropriate option for each number.

Each went his way, the prince to (1) _____ the ways of the court, the brahmin to (2) _____ with Parasuram, the renowned scholar-warrior. He mastered (3) _____, married a virtuous woman, and (4) _____ a beautiful son. (5) _____ poor, he was proud of his learning.

SubQuestion No : 25

Q.25 Select the most appropriate option to fill in blank number 5.

Ans

✔ 1. Though

✘ 2. Even

✘ 3. So

✘ 4. Because

Question Type : **MCQ**
Question ID : **264330136278**
Option 1 ID : **264330533893**
Option 2 ID : **264330533891**
Option 3 ID : **264330533894**
Option 4 ID : **264330533892**
Status : **Answered**
Chosen Option : **1**

Join Telegram Group "HaryanaJobs.in"

Multi Tasking Non Technical Staff and Havaldar CBIC and CBN Examination 2022

Roll Number	HaryanaJobs.in
Candidate Name	HaryanaJobs.in
Venue Name	BBDIT A Block Duhai
Exam Date	19/06/2023
Exam Time	12:00 PM - 2:00 PM
Subject	MTS Non Tech Havaldar CBIC and CBN Examination 2022

Section : **Numerical and Mathematical Ability**

Q.1 यदि एक निश्चित धनराशि पर 6% वार्षिक दर से 8 वर्षों का साधारण ब्याज Rs.4041.60 है, तो वह धनराशि कितनी है?

Ans

✔ 1. Rs. 8420

✘ 2. Rs. 6980

✘ 3. Rs. 7850

✘ 4. Rs. 8680

Question Type : **MCQ**
Question ID : **264330139047**
Option 1 ID : **264330544795**
Option 2 ID : **264330544798**
Option 3 ID : **264330544796**
Option 4 ID : **264330544797**
Status : **Answered**
Chosen Option : **2**

Q.2 रीमा किसी कार्य को 1 दिन में कर सकती है और भाविक उसी कार्य को 20 घंटों में कर सकता है। वे एक साथ मिलकर कार्य को कितने समय में पूरा करेंगे?

Ans

✔ 1. 120/11 घंटे

✘ 2. 120/7 घंटे

✘ 3. 100/7 घंटे

✘ 4. 100/11 घंटे

Question Type : **MCQ**
Question ID : **264330140835**
Option 1 ID : **264330551687**
Option 2 ID : **264330551689**
Option 3 ID : **264330551690**
Option 4 ID : **264330551688**
Status : **Answered**
Chosen Option : **1**

Join Telegram Group "HaryanaJobs.in"

Q.3 98 + 28 ÷ 7 + 4 - 91 ÷ 13 × 7 × 2 का मान क्या है?

Ans
1. 20
2. 8
3. 16
4. 12

Question Type : **MCQ**
Question ID : **264330139032**
Option 1 ID : **264330544737**
Option 2 ID : **264330544735**
Option 3 ID : **264330544736**
Option 4 ID : **264330544738**
Status : **Answered**
Chosen Option : **2**

Q.4 नीचे दिए गए वृत्त आलेख में छः विद्यालयों में पढ़ने वाले छात्रों की संख्या को दर्शाया गया है। इन सभी छः विद्यालयों में पढ़ने वाले छात्रों की कुल संख्या 6000 है। इनमें से किसी एक विशिष्ट विद्यालय में पढ़ने वाले छात्रों की संख्या को इन सभी छः विद्यालयों में पढ़ने वाले छात्रों की कुल संख्या के प्रतिशत के रूप में दर्शाया गया है।

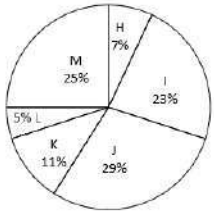

विद्यालय H, I और K में पढ़ने वाले छात्रों की कुल संख्या, विद्यालय J, L और M में पढ़ने वाले छात्रों की कुल संख्या से कितने प्रतिशत कम है?

Ans
1. 25.5 प्रतिशत
2. 30.5 प्रतिशत
3. 45.5 प्रतिशत
4. 35.5 प्रतिशत

Question Type : **MCQ**
Question ID : **264330139035**
Option 1 ID : **264330544747**
Option 2 ID : **264330544750**
Option 3 ID : **264330544749**
Option 4 ID : **264330544748**
Status : **Answered**
Chosen Option : **2**

Join Telegram Group "HaryanaJobs.in"

Q.5 Rs.2250 के एक मूलधन पर 5 वर्षों के लिए 6 प्रतिशत वार्षिक दर पर साधारण ब्याज कितना होगा?

Ans
1. Rs.715
2. Rs.675
3. Rs.725
4. Rs.625

Question Type : **MCQ**
Question ID : **264330139598**
Option 1 ID : **264330546810**
Option 2 ID : **264330546807**
Option 3 ID : **264330546808**
Option 4 ID : **264330546809**
Status : **Answered**
Chosen Option : **2**

Q.6 $\frac{\frac{49}{63} \div \frac{21}{9} - \frac{85}{510} + \frac{88}{132} \div \frac{66}{11}}{\frac{1}{7} \div \frac{33}{21} + \frac{26}{143} - \frac{1}{209} \div \frac{1}{19}}$ का मान क्या है?

Ans
1. 55/36
2. 55/39
3. 13/46
4. 44/13

Question Type : **MCQ**
Question ID : **264330140210**
Option 1 ID : **264330549220**
Option 2 ID : **264330549219**
Option 3 ID : **264330549222**
Option 4 ID : **264330549221**
Status : **Answered**
Chosen Option : **2**

Q.7 प्रथम 13 प्राकृत संख्याओं के वर्गों का औसत क्या है?

Ans
1. 63
2. 74
3. 65
4. 72

Question Type : **MCQ**
Question ID : **264330139611**
Option 1 ID : **264330546862**
Option 2 ID : **264330546860**
Option 3 ID : **264330546861**
Option 4 ID : **264330546859**
Status : **Answered**
Chosen Option : **2**

Join Telegram Group "HaryanaJobs.in"

Q.8 एक व्यापारी अपनी वस्तु का मूल्य क्रय मूल्य से 20 प्रतिशत अधिक अंकित करता है। वह इस पर कुछ बट्टा देता है और 10 प्रतिशत का लाभ अर्जित करता है। बट्टे का प्रतिशत क्या है?

Ans

✗ 1. 12.5 प्रतिशत

✗ 2. 10 प्रतिशत

✓ 3. 8.33 प्रतिशत

✗ 4. 9.09 प्रतिशत

Question Type : **MCQ**
Question ID : **264330139923**
Option 1 ID : **264330548071**
Option 2 ID : **264330548074**
Option 3 ID : **264330548072**
Option 4 ID : **264330548073**
Status : **Answered**
Chosen Option : **3**

Q.9 सात दोस्तों में से प्रत्येक ने एक परियोजना पर Rs.16 खर्च किए और आठवें दोस्त ने उन सभी आठों के औसत खर्च से Rs.35 अधिक खर्च किए। उनके द्वारा खर्च की गई कुल धनराशि कितनी है?

Ans

✗ 1. Rs. 148

✗ 2. Rs. 176

✓ 3. Rs. 168

✗ 4. Rs. 160

Question Type : **MCQ**
Question ID : **264330139612**
Option 1 ID : **264330546863**
Option 2 ID : **264330546866**
Option 3 ID : **264330546864**
Option 4 ID : **264330546865**
Status : **Answered**
Chosen Option : **1**

Q.10 एक आदमी एक रुपए में 8 पेन खरीदता है। 60 प्रतिशत का लाभ अर्जित करने के लिए उसे एक रुपए में कितनी पेन बेचनी चाहिए?

Ans

✗ 1. 3

✗ 2. 6

✗ 3. 4

✓ 4. 5

Question Type : **MCQ**
Question ID : **264330139022**
Option 1 ID : **264330544695**
Option 2 ID : **264330544697**
Option 3 ID : **264330544696**
Option 4 ID : **264330544698**
Status : **Answered**
Chosen Option : **4**

Join Telegram Group "HaryanaJobs.in"

Q.11 एक महामारी के फैलने से एक छोटे शहर की आबादी 18,000 से घटकर 15,000 हो गई। जनसंख्या में कितने प्रतिशत की कमी हुई है?

Ans

1. 17% ✗
2. 16.99% ✗
3. 16.66% ✓
4. 16.5% ✗

Question Type : **MCQ**
Question ID : **264330140781**
Option 1 ID : **264330551473**
Option 2 ID : **264330551471**
Option 3 ID : **264330551472**
Option 4 ID : **264330551474**
Status : **Answered**
Chosen Option : **3**

Q.12 220 मीटर × 70 मीटर का एक आयताकार बगीचा है। बगीचे के चारों ओर 4 मीटर चौड़ा एक पथ बनाया गया है। पथ का क्षेत्रफल कितना है?

Ans

1. 1836 $metre^2$ ✗
2. 2384 $metre^2$ ✓
3. 2162 $metre^2$ ✗
4. 2472 $metre^2$ ✗

Question Type : **MCQ**
Question ID : **264330139622**
Option 1 ID : **264330546905**
Option 2 ID : **264330546903**
Option 3 ID : **264330546904**
Option 4 ID : **264330546906**
Status : **Answered**
Chosen Option : **2**

Q.13 किसी एक स्कूल में लड़कों और लड़कियों का अनुपात 5 : 7 है। यदि स्कूल में 2400 छात्र हैं, तो लड़कियों की संख्या कितनी है?

Ans

1. 1000 ✗
2. 1600 ✗
3. 1400 ✓
4. 1200 ✗

Question Type : **MCQ**
Question ID : **264330140785**
Option 1 ID : **264330551490**
Option 2 ID : **264330551489**
Option 3 ID : **264330551488**
Option 4 ID : **264330551487**
Status : **Answered**
Chosen Option : **3**

Join Telegram Group "HaryanaJobs.in"

Q.14 P1, P2 से 4 गुना कुशल है और दोनों मिलकर एक कार्य को 16 दिनों में पूरा करते हैं। P1 अकेले उसी कार्य को कितने दिनों में पूरा करेगा?

Ans

✗ 1. 30 दिनों में

✗ 2. 18 दिनों में

✓ 3. 20 दिनों में

✗ 4. 25 दिनों में

Question Type : **MCQ**
Question ID : **264330139912**
Option 1 ID : **264330548028**
Option 2 ID : **264330548030**
Option 3 ID : **264330548029**
Option 4 ID : **264330548027**
Status : **Answered**
Chosen Option : **3**

Q.15 हल कीजिए: $11 \times 3 + (45 \div 9) + (72 \div 8) - 5 + 4$

Ans

✓ 1. 46

✗ 2. 48

✗ 3. 44

✗ 4. 45

Question Type : **MCQ**
Question ID : **264330140776**
Option 1 ID : **264330551451**
Option 2 ID : **264330551453**
Option 3 ID : **264330551454**
Option 4 ID : **264330551452**
Status : **Answered**
Chosen Option : **1**

Q.16 24 cm आंतरिक व्यास वाला एक अर्धगोलाकार कटोरा एक तरल पदार्थ से भरा है। इस तरल पदार्थ को 4 cm त्रिज्या और 18 cm ऊँचाई वाली बेलनाकार बोतलों में भरना है। इस कटोरे को खाली करने के लिए ऐसी कितनी बोतलों की आवश्यकता होगी?

Ans

✗ 1. 7

✗ 2. 5

✗ 3. 2

✓ 4. 4

Question Type : **MCQ**
Question ID : **264330138410**
Option 1 ID : **264330542249**
Option 2 ID : **264330542247**
Option 3 ID : **264330542250**
Option 4 ID : **264330542248**
Status : **Answered**
Chosen Option : **2**

Join Telegram Group "HaryanaJobs.in"

Q.17 एक नाव बिंदु P से Q तक धारा के प्रतिकूल 6 घंटे यात्रा करती है और वापस आते समय बिंदु Q से R तक धारा के अनुकूल अगले 6 घंटे यात्रा करती है। यदि बिंदु P और R के बीच की दूरी 72 km है, तो स्थिर जल में नाव की चाल क्या है?

Ans

✗ 1. 14 km/hr

✗ 2. 12 km/hr

✓ 3. 6 km/hr

✗ 4. 10 km/hr

Question Type : **MCQ**
Question ID : **264330139953**
Option 1 ID : **264330548193**
Option 2 ID : **264330548192**
Option 3 ID : **264330548191**
Option 4 ID : **264330548194**
Status : **Answered**
Chosen Option : **2**

Q.18 एक बक्से में 5 रुपए, 2 रुपए और 1 रुपए के सिक्के हैं और उनके कुल मूल्य का अनुपात क्रमशः 10 : 6 : 3 है। यदि बक्से में कुल 256 सिक्के हैं, तो बक्से में 5 रुपए के कितने सिक्के हैं?

Ans

✓ 1. 64

✗ 2. 72

✗ 3. 60

✗ 4. 84

Question Type : **MCQ**
Question ID : **264330140162**
Option 1 ID : **264330549027**
Option 2 ID : **264330549028**
Option 3 ID : **264330549029**
Option 4 ID : **264330549030**
Status : **Answered**
Chosen Option : **2**

Q.19 निम्न तालिका में देश A, B और C की जनसंख्या को दर्शाया गया है। किस देश की जनसंख्या, सभी वर्षों की कुल जनसंख्या में सबसे कम है?

Year	Country A	Country B	Country C
2014	5000	8000	11000
2015	10000	8000	14000
2016	11000	9000	13000
2017	12000	9000	16000
2018	9000	11000	14000

Year: वर्ष, Country: देश

Ans

✗ 1. A और B

✗ 2. A

✗ 3. C

✓ 4. B

Question Type : **MCQ**
Question ID : **264330140792**
Option 1 ID : **264330551518**
Option 2 ID : **264330551515**
Option 3 ID : **264330551516**
Option 4 ID : **264330551517**
Status : **Answered**
Chosen Option : **1**

Join Telegram Group "HaryanaJobs.in"

Q.20 मुकेश दो शर्ट बेचता है। पहली शर्ट का क्रय मूल्य, दूसरी शर्ट के विक्रय मूल्य के बराबर है। पहली शर्ट को 20 प्रतिशत के लाभ पर बेचा जाता है और दूसरी शर्ट को 20 प्रतिशत की हानि पर बेचा जाता है। पहली शर्ट के विक्रय मूल्य और दूसरी शर्ट के क्रय मूल्य का अनुपात क्या है?

Ans

✗ 1. 18 : 25

✗ 2. 97 : 100

✓ 3. 24 : 25

✗ 4. 27 : 50

Question Type : **MCQ**
Question ID : **264330140570**
Option 1 ID : **264330550631**
Option 2 ID : **264330550633**
Option 3 ID : **264330550632**
Option 4 ID : **264330550634**
Status : **Answered**
Chosen Option : **3**

Section : **Reasoning Ability and Problem Solving**

Q.1 उस विकल्प आकृति को चुनिए जिसमें दी गई आकृति निहित है।(घूर्णन की अनुमति नहीं है)

Ans

✗ 1.

✓ 2.

✗ 3.

✗ 4. 

Question Type : **MCQ**
Question ID : **264330139585**
Option 1 ID : **264330546758**
Option 2 ID : **264330546756**
Option 3 ID : **264330546755**
Option 4 ID : **264330546757**
Status : **Answered**
Chosen Option : **2**

Join Telegram Group "HaryanaJobs.in"

Q.2 उस विकल्प को चुनिए जो तीसरी संख्या से ठीक उसी तरह संबंधित है जिस तरह दूसरी संख्या पहली संख्या से संबंधित है।
542 : 33 :: 274 : ?

Ans
1. 36 ✗
2. 39 ✓
3. 42 ✗
4. 46 ✗

Question Type : **MCQ**
Question ID : **264330140445**
Option 1 ID : **264330550162**
Option 2 ID : **264330550159**
Option 3 ID : **264330550160**
Option 4 ID : **264330550161**
Status : **Answered**
Chosen Option : **2**

Q.3 Select the option that is related to the third word in the same way as the second word is related to the first word.
Refrain : Abstain :: Demolish : ?

Ans
1. Create ✗
2. Blend ✗
3. Improve ✗
4. Destroy ✓

Question Type : **MCQ**
Question ID : **264330137831**
Option 1 ID : **264330539931**
Option 2 ID : **264330539934**
Option 3 ID : **264330539933**
Option 4 ID : **264330539932**
Status : **Answered**
Chosen Option : **4**

Q.4 दिए गए पैटर्न का ध्यानपूर्वक अध्ययन कीजिए और उस संख्या को चुनिए जो इसमें प्रश्न चिन्ह (?) के स्थान पर आ सकती है।
प्रथम पंक्ति- 8, 32, 64
द्वितीय पंक्ति- 7, 28, 56
तृतीय पंक्ति-12, 48, ?

Ans
1. 96 ✓
2. 48 ✗
3. 58 ✗
4. 55 ✗

Question Type : **MCQ**
Question ID : **264330138802**
Option 1 ID : **264330543817**
Option 2 ID : **264330543815**
Option 3 ID : **264330543818**
Option 4 ID : **264330543816**
Status : **Answered**
Chosen Option : **1**

Join Telegram Group "HaryanaJobs.in"

Q.5 In the following question below are given some statements followed by some conclusions based on those statements. Taking the given statements to be true even if they seem to be at variance from commonly known facts. Read all the conclusions and then decide which of the given conclusion logically follows the given statements.

Statements:

I. Some L are M.

II. No N is M.

Conclusion:

I. Some N are L.

II. No M is L.

Ans

✗ 1. Both conclusions I and II follows

✓ 2. Neither conclusion follows

✗ 3. Only conclusion I follows

✗ 4. Only conclusion II follows

Question Type : **MCQ**
Question ID : **264330139537**
Option 1 ID : **264330546565**
Option 2 ID : **264330546566**
Option 3 ID : **264330546563**
Option 4 ID : **264330546564**
Status : **Answered**
Chosen Option : **2**

Q.6 यदि A का अर्थ 'जोड़', B का अर्थ 'गुणा', C का अर्थ 'घटाव' और D का अर्थ 'भाग' हो, तो निम्नलिखित समीकरण का मान क्या होगा?
59 C 48 A (66 D 3) B 4 = ?

Ans

✗ 1. 94

✗ 2. 82

✓ 3. 99

✗ 4. 79

Question Type : **MCQ**
Question ID : **264330140088**
Option 1 ID : **264330548734**
Option 2 ID : **264330548731**
Option 3 ID : **264330548733**
Option 4 ID : **264330548732**
Status : **Answered**
Chosen Option : **3**

Join Telegram Group "HaryanaJobs.in"

Q.7 एक निश्चित कूट भाषा में, 'VIOLATES' को 'TALOVIES' लिखा जाता है। उस भाषा में 'VELVETIN' को कैसे लिखा जाएगा?

Ans
1. TEVLSEAT ✗
2. TEVLVEIN ✓
3. TEVLAETS ✗
4. TEVLTASE ✗

Question Type : **MCQ**
Question ID : **264330140077**
Option 1 ID : **264330548690**
Option 2 ID : **264330548687**
Option 3 ID : **264330548689**
Option 4 ID : **264330548688**
Status : **Answered**
Chosen Option : **2**

Q.8 निम्नलिखित प्रश्न में, दी गई श्रृंखला में लुप्त संख्या को चुनिए।

84, 95, 107, 120, 134, ?

Ans
1. 149 ✓
2. 154 ✗
3. 150 ✗
4. 151 ✗

Question Type : **MCQ**
Question ID : **264330139559**
Option 1 ID : **264330546651**
Option 2 ID : **264330546653**
Option 3 ID : **264330546652**
Option 4 ID : **264330546654**
Status : **Answered**
Chosen Option : **1**

Q.9 पाँच मित्र एंथनी, बंटी, गिरिधर, राहुल और तरुण को एक पंक्ति में उत्तर की ओर मुख करके बैठाया गया है, लेकिन जरूरी नहीं कि वे इसी क्रम में बैठे हों। बंटी पंक्ति के बाएँ छोर पर बैठा है। एंथनी और गिरिधर के बीच केवल दो मित्र बैठे हैं। एंथनी, बंटी के ठीक बगल में बैठा है और राहुल, बंटी के दाएँ से दूसरे स्थान पर बैठा है। राहुल और गिरिधर के बीच कौन बैठा है?

Ans
1. एंथनी ✗
2. तरुण ✓
3. बंटी ✗
4. कोई नहीं ✗

Question Type : **MCQ**
Question ID : **264330140458**
Option 1 ID : **264330550213**
Option 2 ID : **264330550212**
Option 3 ID : **264330550211**
Option 4 ID : **264330550214**
Status : **Answered**
Chosen Option : **2**

Join Telegram Group "HaryanaJobs.in"

Q.10 पाँच सहेलियों पूनम, नेहा, रेखा, श्रुति और ट्विंकल में ट्विंकल केवल तीन अन्य सहेलियों से लंबी है। रेखा सभी सहेलियों में सबसे लंबी है। नेहा केवल एक सहेली से लंबी है। पूनम से केवल दो सहेलियाँ लंबी हैं। सभी सहेलियों में किसका कद सबसे छोटा है?

Ans

✗ 1. ट्विंकल

✗ 2. नेहा

✓ 3. श्रुति

✗ 4. पूनम

Question Type : **MCQ**
Question ID : **264330140101**
Option 1 ID : **264330548785**
Option 2 ID : **264330548784**
Option 3 ID : **264330548786**
Option 4 ID : **264330548783**
Status : **Answered**
Chosen Option : **4**

Q.11 उस विकल्प को चुनिए जो तीसरे शब्द से ठीक उसी तरह संबंधित है जिस तरह दूसरा शब्द पहले शब्द से संबंधित है।
दवासाज़ (Pharmacist) : दवाईयाँ :: चश्मासाज (Optician) : ?

Ans

✓ 1. चश्में (Eyeglasses)

✗ 2. हौदी (Sinks)

✗ 3. विधि संबंधी विषय (Legal Matters)

✗ 4. विमान (Planes)

Question Type : **MCQ**
Question ID : **264330140035**
Option 1 ID : **264330548519**
Option 2 ID : **264330548520**
Option 3 ID : **264330548522**
Option 4 ID : **264330548521**
Status : **Answered**
Chosen Option : **1**

Join Telegram Group "HaryanaJobs.in"

Q.12 दी गई आकृति के उस सही दर्पण प्रतिबिंब को चुनिए, जो नीचे दर्शाए गए अनुसार दर्पण को MN पर रखने पर बनेगा।

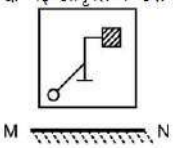

Ans

✗ 1.
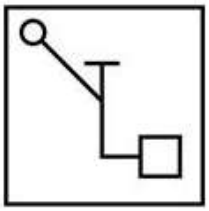

✗ 2.
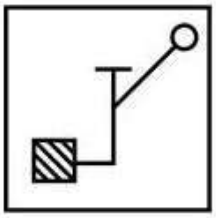

✓ 3.
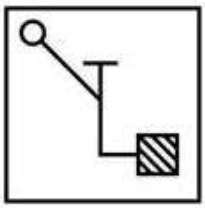

✗ 4.

Question Type : **MCQ**
Question ID : **264330140051**
Option 1 ID : **264330548585**
Option 2 ID : **264330548586**
Option 3 ID : **264330548583**
Option 4 ID : **264330548584**
Status : **Answered**
Chosen Option : **3**

Q.13 एक निश्चित कूट भाषा में, 'CARE' को '27' लिखा जाता है। उस कूट भाषा में 'BLUE' को कैसे लिखा जाएगा?

Ans

✗ 1. 45

✗ 2. 50

✗ 3. 70

✓ 4. 40

Question Type : **MCQ**
Question ID : **264330138772**
Option 1 ID : **264330543695**
Option 2 ID : **264330543696**
Option 3 ID : **264330543697**
Option 4 ID : **264330543698**
Status : **Answered**
Chosen Option : **4**

Join Telegram Group "HaryanaJobs.in"

Q.14 दी गई श्रृंखला में निम्नलिखित में से कौन-सी संख्या प्रश्न चिन्ह (?) के स्थान पर आएगी?
109, 190, 239, 264, 273, ?

Ans
✔ 1. 274
✘ 2. 275
✘ 3. 276
✘ 4. 278

Question Type : **MCQ**
Question ID : **264330140464**
Option 1 ID : **264330550235**
Option 2 ID : **264330550236**
Option 3 ID : **264330550237**
Option 4 ID : **264330550238**
Status : **Answered**
Chosen Option : **1**

Q.15 आठ सहेलियाँ कटरीना, करीना, माधुरी, जूही, रानी, ऐश, प्रीति और काजोल एक पंक्ति में उत्तर की ओर मुख करके बैठी हैं। करीना और काजोल पंक्ति के छोर पर बैठी हैं परंतु जरूरी नहीं कि वे इसी क्रम में बैठी हों। ऐश, जूही और माधुरी के ठीक बीच में बैठी है। ऐश के बाईं ओर केवल दो सहेलियाँ बैठी हैं। रानी, प्रीति के ठीक दाईं ओर बैठी है। केवल एक सहेली कटरीना के दाईं ओर बैठी है। बाईं ओर से पाँचवें स्थान पर कौन बैठा है?

Ans
✘ 1. रानी
✘ 2. माधुरी
✘ 3. जूही
✔ 4. प्रीति

Question Type : **MCQ**
Question ID : **264330140399**
Option 1 ID : **264330549977**
Option 2 ID : **264330549975**
Option 3 ID : **264330549978**
Option 4 ID : **264330549976**
Status : **Answered**
Chosen Option : **4**

Join Telegram Group "HaryanaJobs.in"

Q.16 Two Statements are given followed by two conclusions numbered I and II. Assuming the statements to be true, even if they seem to be at variance with commonly known facts, decide which of the conclusions logically follow(s) from the statements.

Statements:
Some facebook are WhatsApp.
All messenger are WhatsApp.
Conclusions:
I. All WhatsApp are messenger.
II. Some facebook are messenger.

Ans
✗ 1. Only conclusion I follows.
✗ 2. Only conclusion II follows.
✗ 3. Both conclusions I and II follow.
✓ 4. Neither conclusion I nor II follow.

Question Type : **MCQ**
Question ID : **264330140123**
Option 1 ID : **264330548871**
Option 2 ID : **264330548872**
Option 3 ID : **264330548873**
Option 4 ID : **264330548874**
Status : **Answered**
Chosen Option : **4**

Q.17 एक श्रृंखला दी गई है जिसमें एक पद लुप्त है। दिए गए विकल्पों में से उस सही विकल्प को चुनिए जो श्रृंखला को पूरा करेगा।

ARP, BUQ, CXR, DAS, ?

Ans
✗ 1. FDT
✗ 2. EDU
✗ 3. EET
✓ 4. EDT

Question Type : **MCQ**
Question ID : **264330139568**
Option 1 ID : **264330546689**
Option 2 ID : **264330546690**
Option 3 ID : **264330546688**
Option 4 ID : **264330546687**
Status : **Answered**
Chosen Option : **4**

Q.18 एक निश्चित कूट भाषा में, 'BOOM' को 'YLLN' लिखा जाता है। उस कूट भाषा में 'MOVE' को कैसे लिखा जाएगा?

Ans
✓ 1. NLEV
✗ 2. NMFV
✗ 3. NLFU
✗ 4. MLFV

Question Type : **MCQ**
Question ID : **264330139531**
Option 1 ID : **264330546539**
Option 2 ID : **264330546541**
Option 3 ID : **264330546540**
Option 4 ID : **264330546542**
Status : **Answered**
Chosen Option : **1**

Join Telegram Group "HaryanaJobs.in"

Q.19 यदि A का अर्थ 'जोड़', B का अर्थ 'गुणा', C का अर्थ 'घटाव' और D का अर्थ 'भाग' हो, तो निम्नलिखित समीकरण का मान क्या होगा?
5 A 3 C 4 B 2 = ?

Ans

✗ 1. 3

✗ 2. -4

✓ 3. 0

✗ 4. 9

Question Type : **MCQ**
Question ID : **264330140428**
Option 1 ID : **264330550092**
Option 2 ID : **264330550094**
Option 3 ID : **264330550091**
Option 4 ID : **264330550093**
Status : **Answered**
Chosen Option : **3**

Join Telegram Group "HaryanaJobs.in"

Q.20 उस विकल्प आकृति को चुनिए जो नीचे दी गई आकृति में पैटर्न को पूरा करने के लिए प्रश्न चिन्ह (?) के स्थान पर आएगी। (घूर्णन की अनुमति नहीं है)।

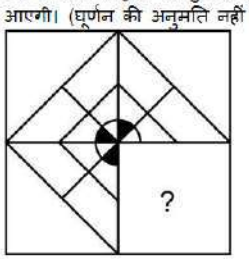

Ans

✔ 1.

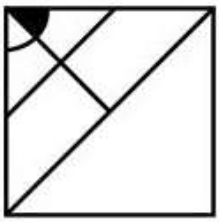

✘ 2.



✘ 3.

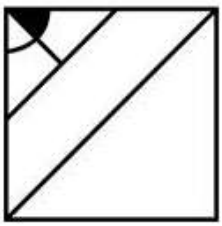

✘ 4.

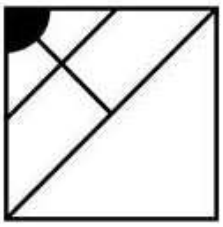

Question Type : **MCQ**
Question ID : **264330140052**
Option 1 ID : **264330548588**
Option 2 ID : **264330548587**
Option 3 ID : **264330548589**
Option 4 ID : **264330548590**
Status : **Answered**
Chosen Option : **1**

Section : **General Awareness**

Join Telegram Group "HaryanaJobs.in"

Q.1 केरल राज्य में प्रचलित प्राचीन मार्शल आर्ट को दर्शाने वाले अलंकारी रंगीन श्रृंगार और अनोखे मुखौटों के कारण किस भारतीय शास्त्रीय नृत्य को अलग पहचान मिली?

Ans
✗ 1. कुचिपुड़ी
✗ 2. मोहिनीअट्टम
✗ 3. ओडिसी
✓ 4. कथकली

Question Type : **MCQ**
Question ID : **264330140678**
Option 1 ID : **264330551061**
Option 2 ID : **264330551059**
Option 3 ID : **264330551062**
Option 4 ID : **264330551060**
Status : **Answered**
Chosen Option : **4**

Q.2 ऐसी बस्तियाँ जिनमें घर पास-पास बने होते हैं, _____ कहलाती हैं।

Ans
✗ 1. प्रकीर्ण बस्तियाँ (Scattered settlement)
✓ 2. सघन बस्तियाँ (Compact settlement)
✗ 3. कतार बस्तियाँ (Line settlement)
✗ 4. झर्झर बस्तियाँ (Grid settlement)

Question Type : **MCQ**
Question ID : **264330140284**
Option 1 ID : **264330549517**
Option 2 ID : **264330549515**
Option 3 ID : **264330549518**
Option 4 ID : **264330549516**
Status : **Answered**
Chosen Option : **2**

Q.3 किस राज्य सरकार ने भारत का पहला हाथी मृत्यु लेखापरीक्षा ढाँचा (elephant death audit framework) पेश किया है?

Ans
✗ 1. उड़ीसा
✗ 2. आंध्रप्रदेश
✓ 3. तमिलनाडु
✗ 4. महाराष्ट्र

Question Type : **MCQ**
Question ID : **264330140676**
Option 1 ID : **264330551054**
Option 2 ID : **264330551053**
Option 3 ID : **264330551051**
Option 4 ID : **264330551052**
Status : **Not Answered**
Chosen Option : **--**

Join Telegram Group "HaryanaJobs.in"

Q.4 प्रतिवर्ष गुरु नानक जयंती हिंदू कैलेंडर के किस महीने की पूर्णिमा तिथि को मनाई जाती है?

Ans
✔ 1. कार्तिक
✘ 2. चैत्र
✘ 3. वैशाख
✘ 4. आषाढ़

Question Type : **MCQ**
Question ID : **264330138972**
Option 1 ID : **264330544496**
Option 2 ID : **264330544495**
Option 3 ID : **264330544498**
Option 4 ID : **264330544497**
Status : **Not Answered**
Chosen Option : **--**

Q.5 श्वेत प्रकाश कितने रंगों का मिश्रण है?

Ans
✘ 1. चार
✘ 2. पाँच
✘ 3. छः
✔ 4. सात

Question Type : **MCQ**
Question ID : **264330139714**
Option 1 ID : **264330547271**
Option 2 ID : **264330547272**
Option 3 ID : **264330547273**
Option 4 ID : **264330547274**
Status : **Answered**
Chosen Option : **4**

Q.6 एम.एस. गोपालकृष्णन ने कर्नाटक और हिंदुस्तानी शास्त्रीय संगीत दोनों में महारत हासिल की। वह _____ के उस्ताद थे।

Ans
✘ 1. सारंगी
✔ 2. वायलिन
✘ 3. सितार
✘ 4. संतूर

Question Type : **MCQ**
Question ID : **264330138952**
Option 1 ID : **264330544418**
Option 2 ID : **264330544415**
Option 3 ID : **264330544416**
Option 4 ID : **264330544417**
Status : **Answered**
Chosen Option : **2**

Join Telegram Group "HaryanaJobs.in"

Q.7 किस मंदिर को ब्लैक पैगोडा (Black Pagoda) के नाम से भी जाना जाता है?

Ans
1. सोमनाथ मंदिर, सौराष्ट्र
2. जगन्नाथ मंदिर, हैदराबाद
3. सूर्य मंदिर, कोणार्क
4. ओंकारेश्वर मंदिर, पुरी

Question Type : **MCQ**
Question ID : **264330140655**
Option 1 ID : **264330550968**
Option 2 ID : **264330550969**
Option 3 ID : **264330550967**
Option 4 ID : **264330550970**
Status : **Answered**
Chosen Option : **3**

Q.8 तराइन का द्वितीय युद्ध कब लड़ा गया था?

Ans
1. 1175
2. 1186
3. 1192
4. 1181

Question Type : **MCQ**
Question ID : **264330141059**
Option 1 ID : **264330552586**
Option 2 ID : **264330552583**
Option 3 ID : **264330552585**
Option 4 ID : **264330552584**
Status : **Answered**
Chosen Option : **3**

Q.9 1025 ई. (1025 AD) में किस तुर्की आक्रमणकारी ने सोमनाथ के मंदिर पर आक्रमण कर उस मंदिर को लूट लिया था?

Ans
1. मुहम्मद बिन तुगलक
2. मुहम्मद बिन कासिम
3. मुहम्मद गोरी
4. महमूद गजनवी

Question Type : **MCQ**
Question ID : **264330140665**
Option 1 ID : **264330551010**
Option 2 ID : **264330551007**
Option 3 ID : **264330551008**
Option 4 ID : **264330551009**
Status : **Answered**
Chosen Option : **4**

Join Telegram Group "HaryanaJobs.in"

Q.10 निम्नलिखित में से कौन-सी पुस्तक दलाई लामा की आत्मकथा है?

Ans
1. टच प्ले (Touch Play)
2. रेड साड़ी (Red Sari)
3. फ्रीडम इन एक्साइल (Freedom in Exile)
4. प्लेइंग इट माई वे (Playing It My Way)

Question Type : **MCQ**
Question ID : **264330140309**
Option 1 ID : **264330549618**
Option 2 ID : **264330549617**
Option 3 ID : **264330549615**
Option 4 ID : **264330549616**
Status : **Answered**
Chosen Option : **3**

Q.11 दाचीगाम राष्ट्रीय उद्यान (Dachigam National Park) निम्नलिखित में से किस राज्य/ केन्द्र शासित प्रदेश में स्थित है?

Ans
1. कर्नाटक
2. गुजरात
3. केरल
4. जम्मू और कश्मीर

Question Type : **MCQ**
Question ID : **264330141053**
Option 1 ID : **264330552559**
Option 2 ID : **264330552561**
Option 3 ID : **264330552560**
Option 4 ID : **264330552562**
Status : **Answered**
Chosen Option : **1**

Q.12 निम्नलिखित में से कौन-सा एक जटिल स्थायी पादप ऊतक है?

Ans
1. पार्श्व विभज्योतक (Lateral meristems)
2. कॉलेन्काइमा (Collenchyma)
3. जाइलम (Xylem)
4. शीर्षस्थ विभज्योतक (Apical meristems)

Question Type : **MCQ**
Question ID : **264330140373**
Option 1 ID : **264330549872**
Option 2 ID : **264330549873**
Option 3 ID : **264330549874**
Option 4 ID : **264330549871**
Status : **Answered**
Chosen Option : **3**

Join Telegram Group "HaryanaJobs.in"

Q.13 भारतीय संविधान का कौन-सा अनुच्छेद राज्य के महाधिवक्ता (Advocate-General) की बात करता है?

Ans
1. 145
2. 165
3. 77
4. 136

Question Type : **MCQ**
Question ID : **264330141066**
Option 1 ID : **264330552612**
Option 2 ID : **264330552611**
Option 3 ID : **264330552614**
Option 4 ID : **264330552613**
Status : **Answered**
Chosen Option : **2**

Q.14 आधिकारिक तौर पर, भारत में परलैंगिक व्यक्तियों (transgenders) पर पहली बार दर्ज किए गए आंकड़े किस जनगणना में एकत्र किए गए थे?

Ans
1. 2011
2. 2001
3. 1991
4. 1981

Question Type : **MCQ**
Question ID : **264330140662**
Option 1 ID : **264330550995**
Option 2 ID : **264330550997**
Option 3 ID : **264330550996**
Option 4 ID : **264330550998**
Status : **Answered**
Chosen Option : **1**

Q.15 भारत का दक्षिणी भाग _____ कटिबंध में पड़ता है।

Ans
1. वर्षा
2. शीतोष्ण
3. ध्रुवीय
4. उष्ण

Question Type : **MCQ**
Question ID : **264330140327**
Option 1 ID : **264330549690**
Option 2 ID : **264330549688**
Option 3 ID : **264330549689**
Option 4 ID : **264330549687**
Status : **Answered**
Chosen Option : **4**

Join Telegram Group "HaryanaJobs.in"

Q.16 _____ कोष की वह न्यूनतम राशि है जो प्रत्येक बैंक को जमाओं के रूप में भारतीय रिज़र्व बैंक (RBI) के पास रखना अनिवार्य है।

Ans
✗ 1. रेपो दर (Repo rate)
✓ 2. नकद कोष अनुपात (Cash Reserve Ratio)
✗ 3. तरलता समायोजन सुविधा (Liquidity Adjustment Facility)
✗ 4. बैंक दर (Bank rate)

Question Type : **MCQ**
Question ID : **264330140675**
Option 1 ID : **264330551047**
Option 2 ID : **264330551049**
Option 3 ID : **264330551048**
Option 4 ID : **264330551050**
Status : **Answered**
Chosen Option : **2**

Q.17 भारतीय संविधान के अनुसार, भारतीय संघ का मुखिया कौन होता है?

Ans
✗ 1. भारत का मुख्य न्यायाधीश
✗ 2. भारत का प्रधानमंत्री
✓ 3. भारत का राष्ट्रपति
✗ 4. भारत का उपराष्ट्रपति

Question Type : **MCQ**
Question ID : **264330140697**
Option 1 ID : **264330551137**
Option 2 ID : **264330551136**
Option 3 ID : **264330551135**
Option 4 ID : **264330551138**
Status : **Answered**
Chosen Option : **3**

Q.18 'द स्टार्स इन माय स्काय: दोज़ हू ब्राइटंड माय फिल्म जर्नी (The Stars in My Sky: Those Who Brightened My Film Journey)' _____ की दूसरी पुस्तक है।

Ans
✗ 1. अमिताभ बच्चन
✓ 2. दिव्या दत्ता
✗ 3. नीति मोहन
✗ 4. सोनम कपूर

Question Type : **MCQ**
Question ID : **264330139753**
Option 1 ID : **264330547429**
Option 2 ID : **264330547430**
Option 3 ID : **264330547427**
Option 4 ID : **264330547428**
Status : **Answered**
Chosen Option : **3**

Join Telegram Group "HaryanaJobs.in"

Q.19 भारत ने पहली बार _____ में ओलंपिक खेलों में भाग लिया था।

Ans
✗ 1. 1908
✓ 2. 1900
✗ 3. 1922
✗ 4. 1904

Question Type : **MCQ**
Question ID : **264330139751**
Option 1 ID : **264330547421**
Option 2 ID : **264330547419**
Option 3 ID : **264330547422**
Option 4 ID : **264330547420**
Status : **Answered**
Chosen Option : **2**

Q.20 क्रिकेट के खेल की शुरुआत किस देश में हुई थी?

Ans
✗ 1. न्यूज़ीलैंड
✗ 2. दक्षिण अफ्रीका
✗ 3. भारत
✓ 4. इंग्लैंड

Question Type : **MCQ**
Question ID : **264330140315**
Option 1 ID : **264330549640**
Option 2 ID : **264330549639**
Option 3 ID : **264330549641**
Option 4 ID : **264330549642**
Status : **Answered**
Chosen Option : **4**

Q.21 निम्नलिखित स्वतंत्रता सेनानियों में से किसे "आधुनिक भारत का जनक (Father of Modern India)" माना जाता है?

Ans
✗ 1. स्वामी विवेकानंद
✗ 2. बाबा दयाल दास
✗ 3. केशव चंद्र सेन
✓ 4. राजा राम मोहन राय

Question Type : **MCQ**
Question ID : **264330140717**
Option 1 ID : **264330551217**
Option 2 ID : **264330551218**
Option 3 ID : **264330551215**
Option 4 ID : **264330551216**
Status : **Answered**
Chosen Option : **4**

Join Telegram Group "HaryanaJobs.in"

Q.22 मानव विकास सूचकांक (Human Development Index (HDI)) रिपोर्ट, 2021-22 के अनुसार, भारतीय उपमहाद्वीप में किस देश का प्रदर्शन सबसे अच्छा है?

Ans
✔ 1. श्रीलंका
✘ 2. बांग्लादेश
✘ 3. भूटान
✘ 4. नेपाल

Question Type : **MCQ**
Question ID : **264330140688**
Option 1 ID : **264330551099**
Option 2 ID : **264330551101**
Option 3 ID : **264330551100**
Option 4 ID : **264330551102**
Status : **Answered**
Chosen Option : **3**

Q.23 महासागर की औसत लवणता, _____ भाग प्रति हज़ार ग्राम है।

Ans
✘ 1. 45
✔ 2. 35
✘ 3. 25
✘ 4. 55

Question Type : **MCQ**
Question ID : **264330139713**
Option 1 ID : **264330547269**
Option 2 ID : **264330547268**
Option 3 ID : **264330547267**
Option 4 ID : **264330547270**
Status : **Not Answered**
Chosen Option : **--**

Q.24 'ग्रेडेड रिस्पांस एक्शन प्लान (Graded Response Action Plan)' का मुख्य उद्देश्य क्या है?

Ans
✘ 1. अवैध कॉलोनियों को वैध करना
✘ 2. मलेरिया के मामलों को नियंत्रित करना
✘ 3. विद्युत वाहनों को प्रचलित करना
✔ 4. वायु प्रदूषण को नियंत्रित करना

Question Type : **MCQ**
Question ID : **264330140652**
Option 1 ID : **264330550956**
Option 2 ID : **264330550955**
Option 3 ID : **264330550958**
Option 4 ID : **264330550957**
Status : **Not Answered**
Chosen Option : **--**

Join Telegram Group "HaryanaJobs.in"

Q.25 निम्नलिखित में से किसने चटगांव शस्त्रागार छापा (Chittagong Armoury Raid) या चटगांव विद्रोह का नेतृत्व किया था?

Ans
✔ 1. सूर्य सेन
✘ 2. विनायक दामोदर सावरकर
✘ 3. रविंद्रनाथ टैगोर
✘ 4. सरदार वल्लभभाई पटेल

Question Type : **MCQ**
Question ID : **264330140357**
Option 1 ID : **264330549807**
Option 2 ID : **264330549808**
Option 3 ID : **264330549810**
Option 4 ID : **264330549809**
Status : **Answered**
Chosen Option : **2**

Section : **English Language and Comprehension**

Q.1 Fill in the blank with the most appropriate option.
I have been on this project since the first day, hence I am responsible _____ it.

Ans
✔ 1. for
✘ 2. by
✘ 3. to
✘ 4. from

Question Type : **MCQ**
Question ID : **264330135765**
Option 1 ID : **264330531942**
Option 2 ID : **264330531939**
Option 3 ID : **264330531940**
Option 4 ID : **264330531941**
Status : **Answered**
Chosen Option : **1**

Q.2 Select the word segment that substitutes (replaces) the bracketed word segment correctly and completes the sentence meaningfully. Select the option 'no correction required' if the sentence is correct as given.
Both of us felt the relationship (wasn't really gone somewhere.)

Ans
✘ 1. No correction required
✔ 2. wasn't really going anywhere
✘ 3. was going that direction
✘ 4. won't really gone that path

Question Type : **MCQ**
Question ID : **264330135718**
Option 1 ID : **264330531762**
Option 2 ID : **264330531760**
Option 3 ID : **264330531761**
Option 4 ID : **264330531759**
Status : **Answered**
Chosen Option : **2**

Join Telegram Group "HaryanaJobs.in"

Q.3 Select the appropriate antonym for the underlined word.

There is a point at which fear may turn to insanity.

Ans
1. Wisdom ✔
2. Lunacy ✘
3. Absurdity ✘
4. Frenzy ✘

Question Type : **MCQ**
Question ID : **264330141214**
Option 1 ID : **264330553192**
Option 2 ID : **264330553194**
Option 3 ID : **264330553191**
Option 4 ID : **264330553193**
Status : **Answered**
Chosen Option : **1**

Q.4 Find the part of the given sentence that has an error in it. If there is no error, choose 'No error'.
I don't want to get involved in these game of gambling.

Ans
1. No error ✘
2. get involved in ✘
3. I don't want to ✘
4. these game of gambling. ✔

Question Type : **MCQ**
Question ID : **264330141167**
Option 1 ID : **264330553014**
Option 2 ID : **264330553012**
Option 3 ID : **264330553011**
Option 4 ID : **264330553013**
Status : **Answered**
Chosen Option : **4**

Q.5 Select the most appropriate antonym of the given word.

Topple

Ans
1. Tumble ✘
2. Steady ✔
3. Fumble ✘
4. Plunge ✘

Question Type : **MCQ**
Question ID : **264330136153**
Option 1 ID : **264330533413**
Option 2 ID : **264330533411**
Option 3 ID : **264330533414**
Option 4 ID : **264330533412**
Status : **Not Answered**
Chosen Option : **--**

Join Telegram Group "HaryanaJobs.in"

Q.6 Choose the word that means the same as the given word.

Gala

Ans
1. Carnival ✔
2. Moist ✘
3. Mistakenly ✘
4. Funeral ✘

Question Type : **MCQ**
Question ID : **264330135526**
Option 1 ID : **264330531007**
Option 2 ID : **264330531009**
Option 3 ID : **264330531010**
Option 4 ID : **264330531008**
Status : **Answered**
Chosen Option : **2**

Q.7 A sentence has been given with a blank to be filled with an appropriate option. Choose the correct alternative.

The survival of theatre has depended on the creation of _____ formats.

Ans
1. newly ✘
2. new ✔
3. newest ✘
4. newer ✘

Question Type : **MCQ**
Question ID : **264330135159**
Option 1 ID : **264330529572**
Option 2 ID : **264330529571**
Option 3 ID : **264330529573**
Option 4 ID : **264330529574**
Status : **Answered**
Chosen Option : **2**

Q.8 Improve the underlined part of the sentence. Choose 'No improvement' as an answer if the sentence is grammatically correct.

When I was a kid, I used to pretend to be a knight in King Arthur's court.

Ans
1. No improvement ✔
2. used to pretending ✘
3. use to pretend ✘
4. used to pretends ✘

Question Type : **MCQ**
Question ID : **264330141169**
Option 1 ID : **264330553022**
Option 2 ID : **264330553021**
Option 3 ID : **264330553020**
Option 4 ID : **264330553019**
Status : **Answered**
Chosen Option : **1**

Join Telegram Group "HaryanaJobs.in"

Q.9 Fill in the blank with the most appropriate option.

He is quite _____ and narrow.

Ans
1. tall ✔
2. elongated ✘
3. long ✘
4. stretched ✘

Question Type : **MCQ**
Question ID : **264330135714**
Option 1 ID : **264330531743**
Option 2 ID : **264330531745**
Option 3 ID : **264330531744**
Option 4 ID : **264330531746**
Status : **Answered**
Chosen Option : **1**

Q.10 Select the most appropriate word for the given group of words.

A small structure with one or more open sides that is used to vend merchandise

Ans
1. Kiosk ✔
2. Podium ✘
3. Vendor ✘
4. Stand ✘

Question Type : **MCQ**
Question ID : **264330136123**
Option 1 ID : **264330533297**
Option 2 ID : **264330533296**
Option 3 ID : **264330533298**
Option 4 ID : **264330533295**
Status : **Answered**
Chosen Option : **3**

Q.11 Identify the segment that contains a grammatical error. If there is no error, select 'No error'.

The baby's faces are expressionless and/ their pupils aren't visible which gives/ the appearance of lifelessness and dreadfulness.

Ans
1. No error ✘
2. the appearance of lifelessness and dreadfulness. ✘
3. their pupils aren't visible which gives ✘
4. The baby's faces are expressionless and ✔

Question Type : **MCQ**
Question ID : **264330136344**
Option 1 ID : **264330534150**
Option 2 ID : **264330534149**
Option 3 ID : **264330534148**
Option 4 ID : **264330534147**
Status : **Not Answered**
Chosen Option : **--**

Join Telegram Group "HaryanaJobs.in"

Q.12 Select the most appropriate option to fill in the blank.
The _____ mistake these couples made was not spending enough time seriously planning for a lifetime together in marriage.

Ans

✗ 1. sporadic
✗ 2. credulous
✗ 3. enigmatic
✓ 4. egregious

Question Type : **MCQ**
Question ID : **264330136749**
Option 1 ID : **264330535705**
Option 2 ID : **264330535706**
Option 3 ID : **264330535704**
Option 4 ID : **264330535703**
Status : **Answered**
Chosen Option : **3**

Q.13 Select the most appropriate word for the given group of words.

Partial or total loss of memory

Ans

✗ 1. Axiom
✗ 2. Atheist
✗ 3. Ascetic
✓ 4. Amnesia

Question Type : **MCQ**
Question ID : **264330136550**
Option 1 ID : **264330534936**
Option 2 ID : **264330534935**
Option 3 ID : **264330534938**
Option 4 ID : **264330534937**
Status : **Answered**
Chosen Option : **4**

Q.14 Select the word segment that substitutes (replaces) the bracketed word segment correctly and completes the sentence meaningfully. Select the option 'no correction required' if the sentence is correct as given.
(They was standing) at one end of a very long and splendid hall.

Ans

✗ 1. They were standed
✗ 2. No correction required
✓ 3. They were standing
✗ 4. They had been standed

Question Type : **MCQ**
Question ID : **264330136140**
Option 1 ID : **264330533364**
Option 2 ID : **264330533366**
Option 3 ID : **264330533363**
Option 4 ID : **264330533365**
Status : **Answered**
Chosen Option : **1**

Join Telegram Group "HaryanaJobs.in"

Q.15 In the following question, out of the given four alternatives, select the alternative which best expresses the meaning of the Idiom/Phrase.

To get under one's skin

Ans

1. To behave foolishly ✗
2. To get nowhere ✗
3. To hide something ✗
4. To anger or irritate ✓

Question Type : **MCQ**
Question ID : **264330135529**
Option 1 ID : **264330531019**
Option 2 ID : **264330531020**
Option 3 ID : **264330531021**
Option 4 ID : **264330531022**
Status : **Answered**
Chosen Option : **4**

Q.16 Select the appropriate synonym for the underlined word.

It can be easy to ignore people who are struggling and having a hard time.

Ans

1. gliding ✗
2. hustling ✓
3. booming ✗
4. claiming ✗

Question Type : **MCQ**
Question ID : **264330135168**
Option 1 ID : **264330529605**
Option 2 ID : **264330529604**
Option 3 ID : **264330529606**
Option 4 ID : **264330529603**
Status : **Answered**
Chosen Option : **2**

Q.17 Four sentences are given, out of which three have spelling errors. Choose the sentence with all correctly spelt words.

Ans

1. It is demonstrably an unfair comparsion. ✗
2. The whole thing is foriegn to us. ✗
3. I'm the sole victim of Mother's tyrany. ✗
4. There is a room at the extreme end of the corridor. ✓

Question Type : **MCQ**
Question ID : **264330135868**
Option 1 ID : **264330532335**
Option 2 ID : **264330532336**
Option 3 ID : **264330532337**
Option 4 ID : **264330532338**
Status : **Answered**
Chosen Option : **4**

Join Telegram Group "HaryanaJobs.in"

Q.18 Choose the incorrectly spelt word.

Ans

✗ 1. Showing

✗ 2. Motive

✓ 3. Conssume

✗ 4. Horror

Question Type : **MCQ**
Question ID : **264330135531**
Option 1 ID : **264330531029**
Option 2 ID : **264330531028**
Option 3 ID : **264330531030**
Option 4 ID : **264330531027**
Status : **Answered**
Chosen Option : **3**

Q.19 Identify the segment that contains a grammatical error. If there is no error, select 'No error'.
Two border guards patrolling / the nearby frontier with Georgia have also / been reported missing from Friday night.

Ans

✓ 1. been reported missing from Friday night.

✗ 2. the nearby frontier with Georgia have also

✗ 3. No Error

✗ 4. Two border guards patrolling

Question Type : **MCQ**
Question ID : **264330135819**
Option 1 ID : **264330532149**
Option 2 ID : **264330532148**
Option 3 ID : **264330532150**
Option 4 ID : **264330532147**
Status : **Answered**
Chosen Option : **3**

Q.20 Select the most appropriate meaning of the bracketed idiom in the given sentence.

Critics and Monday morning quarterbacks are (a dime a dozen), but it remains to be seen.

Ans

✓ 1. Anything that is common and easy to get

✗ 2. Stuck between two very bad options

✗ 3. Avoiding the main topic, not speaking directly about the issue

✗ 4. To force an issue that has already ended

Question Type : **MCQ**
Question ID : **264330136504**
Option 1 ID : **264330534761**
Option 2 ID : **264330534762**
Option 3 ID : **264330534760**
Option 4 ID : **264330534759**
Status : **Answered**
Chosen Option : **1**

Join Telegram Group "HaryanaJobs.in"

Comprehension:

In the following passage some of the words have been deleted. Read the passage carefully and select the correct answer for the given blanks out of the four alternatives.

Alkaline hydrolysis is rare today as a funeral (1) _____ for humans. Offered to the public for the first time just over a (2) _____ ago, it is now permitted and regulated in 26 U.S. states, and practiced (3) _____ in North America, where it remains unfamiliar to most people who (4) _____ a loved one or who are thinking about what could (5) _____ to their own bodies when they die.

SubQuestion No : 21

Q.21 Select the most appropriate option to fill in blank number 1.

Ans

✗ 1. Judgement

✗ 2. Proceeding

✗ 3. Activity

✓ 4. Practice

Question Type : **MCQ**
Question ID : **264330135518**
Option 1 ID : **264330530976**
Option 2 ID : **264330530978**
Option 3 ID : **264330530975**
Option 4 ID : **264330530977**
Status : **Answered**
Chosen Option : **4**

Comprehension:

In the following passage some of the words have been deleted. Read the passage carefully and select the correct answer for the given blanks out of the four alternatives.

Alkaline hydrolysis is rare today as a funeral (1) _____ for humans. Offered to the public for the first time just over a (2) _____ ago, it is now permitted and regulated in 26 U.S. states, and practiced (3) _____ in North America, where it remains unfamiliar to most people who (4) _____ a loved one or who are thinking about what could (5) _____ to their own bodies when they die.

SubQuestion No : 22

Q.22 Select the most appropriate option to fill in blank number 2.

Ans

✗ 1. date

✗ 2. vintage

✓ 3. decade

✗ 4. period

Question Type : **MCQ**
Question ID : **264330135519**
Option 1 ID : **264330530981**
Option 2 ID : **264330530982**
Option 3 ID : **264330530979**
Option 4 ID : **264330530980**
Status : **Answered**
Chosen Option : **3**

Join Telegram Group "HaryanaJobs.in"

Comprehension:

In the following passage some of the words have been deleted. Read the passage carefully and select the correct answer for the given blanks out of the four alternatives.

Alkaline hydrolysis is rare today as a funeral (1) _____ for humans. Offered to the public for the first time just over a (2) _____ ago, it is now permitted and regulated in 26 U.S. states, and practiced (3) _____ in North America, where it remains unfamiliar to most people who (4) _____ a loved one or who are thinking about what could (5) _____ to their own bodies when they die.

SubQuestion No : 23

Q.23 Select the most appropriate option to fill in blank number 3.

Ans

✔ 1. primarily

✘ 2. manly

✘ 3. approximately

✘ 4. lastly

Question Type : **MCQ**
Question ID : **264330135520**
Option 1 ID : **264330530986**
Option 2 ID : **264330530984**
Option 3 ID : **264330530983**
Option 4 ID : **264330530985**
Status : **Answered**
Chosen Option : **2**

Comprehension:

In the following passage some of the words have been deleted. Read the passage carefully and select the correct answer for the given blanks out of the four alternatives.

Alkaline hydrolysis is rare today as a funeral (1) _____ for humans. Offered to the public for the first time just over a (2) _____ ago, it is now permitted and regulated in 26 U.S. states, and practiced (3) _____ in North America, where it remains unfamiliar to most people who (4) _____ a loved one or who are thinking about what could (5) _____ to their own bodies when they die.

SubQuestion No : 24

Q.24 Select the most appropriate option to fill in blank number 4.

Ans

✘ 1. has lost

✘ 2. lose

✔ 3. have lost

✘ 4. loose

Question Type : **MCQ**
Question ID : **264330135521**
Option 1 ID : **264330530990**
Option 2 ID : **264330530987**
Option 3 ID : **264330530989**
Option 4 ID : **264330530988**
Status : **Answered**
Chosen Option : **3**

Join Telegram Group "HaryanaJobs.in"

Comprehension:

In the following passage some of the words have been deleted. Read the passage carefully and select the correct answer for the given blanks out of the four alternatives.

Alkaline hydrolysis is rare today as a funeral (1) _____ for humans. Offered to the public for the first time just over a (2) _____ ago, it is now permitted and regulated in 26 U.S. states, and practiced (3) _____ in North America, where it remains unfamiliar to most people who (4) _____ a loved one or who are thinking about what could (5) _____ to their own bodies when they die.

SubQuestion No : 25

Q.25 Select the most appropriate option to fill in blank number 5.

Ans

✗ 1. curtail

✓ 2. happen

✗ 3. syndicate

✗ 4. gravitate

Question Type : **MCQ**
Question ID : **264330135522**
Option 1 ID : **264330530993**
Option 2 ID : **264330530994**
Option 3 ID : **264330530991**
Option 4 ID : **264330530992**
Status : **Answered**
Chosen Option : **2**

Join Telegram Group "HaryanaJobs.in"

Multi Tasking Non Technical Staff and Havaldar CBIC and CBN Examination 2022

Roll Number	HaryanaJobs.in
Candidate Name	HaryanaJobs.in
Venue Name	iON Digital Zone Ganga Nagar Meerut
Exam Date	19/06/2023
Exam Time	3:30 PM - 5:00 PM
Subject	MTS Non Tech Havaldar CBIC and CBN Examination 2022

Section : **Numerical and Mathematical Ability**

Q.1 एक बेलन का वक्र पृष्ठीय क्षेत्रफल 968 cm^2 है। यदि बेलन की ऊँचाई 11 cm है, तो उसके आधार का व्यास कितना होगा?

Ans

✗ 1. 22 cm

✗ 2. 26 cm

✗ 3. 24 cm

✓ 4. 28 cm

Question Type : **MCQ**
Question ID : **264330135411**
Option 1 ID : **264330530551**
Option 2 ID : **264330530554**
Option 3 ID : **264330530552**
Option 4 ID : **264330530553**
Status : **Answered**
Chosen Option : **4**

Q.2 यदि 3 लड़के और 8 लडकियाँ किसी कार्य को 6 दिनों में कर सकते हैं, और 1 लड़का और 5 लडकियाँ उसी कार्य को 12 दिनों में पूरा कर सकते हैं, तो एक लड़के और एक लड़की की कुशलता का अनुपात ज्ञात कीजिए।

Ans

✗ 1. 2:5

✗ 2. 3:2

✓ 3. 2:1

✗ 4. 1:5

Question Type : **MCQ**
Question ID : **264330135406**
Option 1 ID : **264330530533**
Option 2 ID : **264330530532**
Option 3 ID : **264330530531**
Option 4 ID : **264330530534**
Status : **Answered**
Chosen Option : **3**

Join Telegram Group "HaryanaJobs.in"

Q.3 रवि डूंगरपुर से उदयपुर तक 200 km गाड़ी चलाता है। उसकी औसत चाल 50 kmph है। वह डूंगरपुर से सुबह 8:20 बजे निकलता है। वह उदयपुर कितने बजे तक पहुँचेगा?

Ans

1. ✗ सुबह 11:30 बजे
2. ✓ दोपहर 12:20 बजे
3. ✗ सुबह 10 बजे
4. ✗ दोपहर 1:00 बजे

Question Type : **MCQ**
Question ID : **264330135113**
Option 1 ID : **264330529388**
Option 2 ID : **264330529389**
Option 3 ID : **264330529387**
Option 4 ID : **264330529390**
Status : **Answered**
Chosen Option : **2**

Q.4 किसी धनराशि पर 20% वार्षिक दर पर दो वर्षों के लिए चक्रवृद्धि ब्याज और साधारण ब्याज के बीच का अंतर Rs. 420 है। धनराशि (Rs. में) ज्ञात कीजिए।

Ans

1. ✗ Rs. 8000
2. ✗ Rs. 9000
3. ✓ Rs. 10500
4. ✗ Rs. 11000

Question Type : **MCQ**
Question ID : **264330138403**
Option 1 ID : **264330542222**
Option 2 ID : **264330542221**
Option 3 ID : **264330542220**
Option 4 ID : **264330542219**
Status : **Answered**
Chosen Option : **3**

Join Telegram Group "HaryanaJobs.in"

Q.5 नीचे दिए गए वृत्त आलेख में छः विद्यालयों में पढ़ने वाले छात्रों की संख्या को दर्शाया गया है। इन सभी छः विद्यालयों में पढ़ने वाले छात्रों की कुल संख्या 4000 है। इनमें से किसी एक विशिष्ट विद्यालय में पढ़ने वाले छात्रों की संख्या को इन सभी छः विद्यालयों में पढ़ने वाले छात्रों की कुल संख्या के प्रतिशत के रूप में दर्शाया गया है।

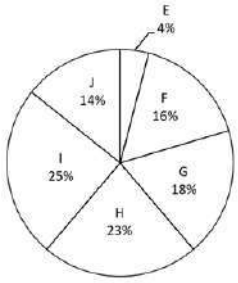

वृत्तखंड F और H द्वारा मिलकर बनाए गए केंद्रीय कोण और वृत्तखंड I और G द्वारा मिलकर बनाए गए केंद्रीय कोण के बीच कितना अंतर है?

Ans
1. 18.7 डिग्री
2. 17.4 डिग्री
3. 9.6 डिग्री
4. 14.4 डिग्री

Question Type : **MCQ**
Question ID : **264330138034**
Option 1 ID : **264330540745**
Option 2 ID : **264330540746**
Option 3 ID : **264330540744**
Option 4 ID : **264330540743**
Status : **Answered**
Chosen Option : **4**

Q.6 यदि(7x + y) : (7x - y) = 7 : 2 है, तो x : y का मान क्या है?

Ans
1. 6 : 41
2. 9 : 35
3. 11 : 42
4. 17 : 52

Question Type : **MCQ**
Question ID : **264330138023**
Option 1 ID : **264330540700**
Option 2 ID : **264330540701**
Option 3 ID : **264330540702**
Option 4 ID : **264330540699**
Status : **Answered**
Chosen Option : **2**

Join Telegram Group "HaryanaJobs.in"

Q.7 एक व्यक्ति एक कुर्सी को एक निश्चित मूल्य पर बेचकर 35 प्रतिशत का लाभ अर्जित करता है। यदि वह उस कुर्सी को दोगुने मूल्य पर बेचता है, तो लाभ प्रतिशत क्या होगा?

Ans
1. 180 प्रतिशत
2. 170 प्रतिशत
3. 150 प्रतिशत
4. 70 प्रतिशत

Question Type : **MCQ**
Question ID : **264330138022**
Option 1 ID : **264330540695**
Option 2 ID : **264330540697**
Option 3 ID : **264330540696**
Option 4 ID : **264330540698**
Status : **Answered**
Chosen Option : **2**

Q.8 4/55, 2/11 और 8/22 का महत्तम समापवर्तक क्या है?

Ans
1. 1/66
2. 2/55
3. 1/55
4. 3/88

Question Type : **MCQ**
Question ID : **264330138030**
Option 1 ID : **264330540730**
Option 2 ID : **264330540728**
Option 3 ID : **264330540729**
Option 4 ID : **264330540727**
Status : **Answered**
Chosen Option : **3**

Q.9 $\frac{343}{49} \times \frac{45}{9}$ of $\frac{27}{15} \times \frac{256}{64}$ का मान क्या है?

Ans
1. 252
2. 262
3. 192
4. 142

Question Type : **MCQ**
Question ID : **264330137661**
Option 1 ID : **264330539254**
Option 2 ID : **264330539253**
Option 3 ID : **264330539252**
Option 4 ID : **264330539251**
Status : **Answered**
Chosen Option : **1**

Join Telegram Group "HaryanaJobs.in"

Q.10 सरल कीजिए: 44 + 67 - 32 ÷ 4 + (9 + 5 + 5 + 4) - 1

Ans
1. 130
2. 125
3. 122
4. 123

Question Type : **MCQ**
Question ID : **264330138746**
Option 1 ID : **264330543593**
Option 2 ID : **264330543592**
Option 3 ID : **264330543594**
Option 4 ID : **264330543591**
Status : **Answered**
Chosen Option : **2**

Q.11 तीन धावकों की चाल का अनुपात 5 : 2 : 1 है। तीनों धावकों द्वारा समान दूरी तय करने में लिए गए समय का क्रमशः अनुपात क्या होगा?

Ans
1. 2 : 5 : 8
2. 5 : 2 : 10
3. 2 : 5 : 3
4. 2 : 5 : 10

Question Type : **MCQ**
Question ID : **264330138024**
Option 1 ID : **264330540703**
Option 2 ID : **264330540704**
Option 3 ID : **264330540706**
Option 4 ID : **264330540705**
Status : **Answered**
Chosen Option : **4**

Q.12 14 शिक्षकों की औसत आयु 56 वर्ष है। समूह में एक नए शिक्षक को शामिल करने के बाद, औसत में 2 वर्ष की वृद्धि हो जाती है। नए शामिल हुए शिक्षक की आयु कितनी है?

Ans
1. 78 वर्ष
2. 84 वर्ष
3. 86 वर्ष
4. 72 वर्ष

Question Type : **MCQ**
Question ID : **264330138018**
Option 1 ID : **264330540682**
Option 2 ID : **264330540681**
Option 3 ID : **264330540679**
Option 4 ID : **264330540680**
Status : **Answered**
Chosen Option : **3**

Join Telegram Group "HaryanaJobs.in"

Q.13 एक वस्तु को 25 प्रतिशत और 4 प्रतिशत की दो क्रमागत छूट के बाद Rs. 1440 में बेचा जाता है। वस्तु का अंकित मूल्य क्या है?

Ans

1. ✗ Rs. 2200
2. ✓ Rs. 2000
3. ✗ Rs. 2100
4. ✗ Rs. 2500

Question Type : **MCQ**
Question ID : **264330138027**
Option 1 ID : **264330540716**
Option 2 ID : **264330540718**
Option 3 ID : **264330540715**
Option 4 ID : **264330540717**
Status : **Answered**
Chosen Option : **2**

Q.14 दो संख्याओं का योग 400 है। यदि बड़ी संख्या में 16% की कमी की जाए और छोटी संख्या में 16% की वृद्धि की जाए, तो प्राप्त संख्याएँ बराबर होती हैं। छोटी संख्या ज्ञात कीजिए।

Ans

1. ✓ 168
2. ✗ 152
3. ✗ 144
4. ✗ 170

Question Type : **MCQ**
Question ID : **264330138396**
Option 1 ID : **264330542193**
Option 2 ID : **264330542192**
Option 3 ID : **264330542191**
Option 4 ID : **264330542194**
Status : **Answered**
Chosen Option : **1**

Q.15 रमेश 234 kmph की चाल से दौड़ता है। वह दस मिनट में कितने मीटर दौड़ता है?

Ans

1. ✓ 39000 m
2. ✗ 35468 m
3. ✗ 36000 m
4. ✗ 37560 m

Question Type : **MCQ**
Question ID : **264330138759**
Option 1 ID : **264330543644**
Option 2 ID : **264330543646**
Option 3 ID : **264330543645**
Option 4 ID : **264330543643**
Status : **Answered**
Chosen Option : **1**

Join Telegram Group "HaryanaJobs.in"

Q.16 (64 ÷ 8) - 5 + 4 × 23 + 45 - 87 को हल कीजिए।

Ans
1. 52
2. 51
3. 54
4. 53

Question Type : **MCQ**
Question ID : **264330133737**
Option 1 ID : **264330523974**
Option 2 ID : **264330523973**
Option 3 ID : **264330523971**
Option 4 ID : **264330523972**
Status : **Answered**
Chosen Option : **4**

Q.17 एक रेलगाड़ी एक स्थान A से सुबह 10:00 बजे चलती है और एक दूसरे स्थान B पर उसी दिन शाम 5:30 बजे पहुँचती है। यदि रेलगाड़ी की चाल 80 km/hr है, तो रेलगाड़ी द्वारा तय की गई दूरी कितनी होगी?

Ans
1. 450 km
2. 600 km
3. 650 km
4. 550 km

Question Type : **MCQ**
Question ID : **264330138017**
Option 1 ID : **264330540677**
Option 2 ID : **264330540675**
Option 3 ID : **264330540678**
Option 4 ID : **264330540676**
Status : **Answered**
Chosen Option : **2**

Q.18 एक शहर की वर्तमान जनसंख्या 68,000 है। पहले वर्ष में जनसंख्या में 10 प्रतिशत की वृद्धि होती है और दूसरे वर्ष में 5% की गिरावट आती है। 2 वर्ष बाद शहर की जनसंख्या ज्ञात कीजिए।

Ans
1. 71,060
2. 68,500
3. 69,000
4. 70,100

Question Type : **MCQ**
Question ID : **264330138424**
Option 1 ID : **264330542303**
Option 2 ID : **264330542304**
Option 3 ID : **264330542306**
Option 4 ID : **264330542305**
Status : **Answered**
Chosen Option : **1**

Join Telegram Group "HaryanaJobs.in"

Q.19 दी गई तालिका में विद्यालयों में लड़कों और लड़कियों की संख्या को दर्शाया गया है। किस विद्यालय में सबसे कम छात्र हैं?

School	Number of boys	Number of girls
1	44	56
2	34	45
3	47	34
4	65	54
5	45	32

School = विद्यालय, Number of boys = लड़कों की संख्या, Number of girls = लड़कियों की संख्या

Ans

✔ 1. 5

✘ 2. 1

✘ 3. 3

✘ 4. 2

Question Type : **MCQ**
Question ID : **264330133751**
Option 1 ID : **264330524029**
Option 2 ID : **264330524030**
Option 3 ID : **264330524028**
Option 4 ID : **264330524027**
Status : **Answered**
Chosen Option : **1**

Q.20 100 नोटबुक बेचकर, एक दुकानदार 20 नोटबुक के विक्रय मूल्य के बराबर लाभ अर्जित करता है। उसका लाभ प्रतिशत क्या है?

Ans

✘ 1. 50.4%

✘ 2. 62.4%

✘ 3. 22.5%

✔ 4. 25%

Question Type : **MCQ**
Question ID : **264330138752**
Option 1 ID : **264330543616**
Option 2 ID : **264330543617**
Option 3 ID : **264330543618**
Option 4 ID : **264330543615**
Status : **Answered**
Chosen Option : **4**

Section : **Reasoning Ability and Problem Solving**

Join Telegram Group "HaryanaJobs.in"

Q.1 सात लोगों K, B, M, C, R, P, और S का **कद** अलग-अलग है। C, K से लंबा है। B का कद M से छोटा है। P का कद M और B से छोटा है। C, P से लंबा नहीं है। S, K से लंबा नहीं है। M केवल एक व्यक्ति से कद में छोटा है। सबसे छोटे कद वाला व्यक्ति कौन है?

Ans
✔ 1. S
✘ 2. B
✘ 3. K
✘ 4. P

Question Type : **MCQ**
Question ID : **264330137818**
Option 1 ID : **264330539879**
Option 2 ID : **264330539882**
Option 3 ID : **264330539880**
Option 4 ID : **264330539881**
Status : **Answered**
Chosen Option : **1**

Q.2 दिए गए पैटर्न का ध्यानपूर्वक अध्ययन कीजिए और उस संख्या को चुनिए जो इसमें प्रश्न चिन्ह (?) के स्थान पर आ सकती है?
प्रथम पंक्ति- 7, 9, 63
द्वितीय पंक्ति- 6, 8, 48
तृतीय पंक्ति- 5, 7, ?

Ans
✔ 1. 35
✘ 2. 49
✘ 3. 28
✘ 4. 42

Question Type : **MCQ**
Question ID : **264330137824**
Option 1 ID : **264330539903**
Option 2 ID : **264330539905**
Option 3 ID : **264330539906**
Option 4 ID : **264330539904**
Status : **Answered**
Chosen Option : **1**

Q.3 निम्नलिखित प्रश्न में, दी गई श्रृंखला में लुप्त संख्या को चुनिए।

0, 22, 44, 66,?, 110

Ans
✔ 1. 88
✘ 2. 94
✘ 3. 99
✘ 4. 90

Question Type : **MCQ**
Question ID : **264330138510**
Option 1 ID : **264330542647**
Option 2 ID : **264330542650**
Option 3 ID : **264330542649**
Option 4 ID : **264330542648**
Status : **Answered**
Chosen Option : **1**

Join Telegram Group "HaryanaJobs.in"

Q.4 दी गई आकृति के उस सही दर्पण प्रतिबिंब को चुनिए जो नीचे दर्शाए गए अनुसार दर्पण को AB पर रखने पर बनेगा।

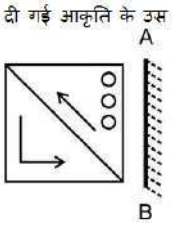

Ans

1. 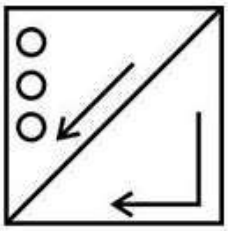

2. 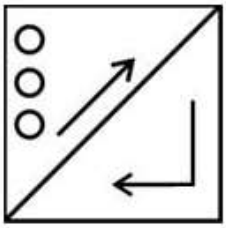

3. 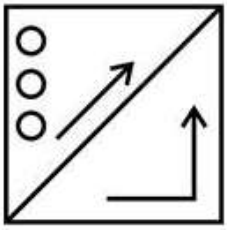

4. 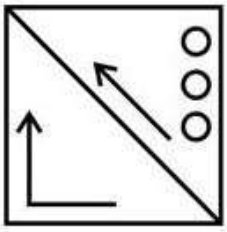

Question Type : **MCQ**
Question ID : **264330133464**
Option 1 ID : **264330522888**
Option 2 ID : **264330522890**
Option 3 ID : **264330522889**
Option 4 ID : **264330522887**
Status : **Answered**
Chosen Option : **2**

Join Telegram Group "HaryanaJobs.in"

Q.5 उस विकल्प आकृति को चुनिए जिसमें दी गई आकृति (X) उसके भाग के रूप में निहित है (घूर्णन की अनुमति नहीं है)।

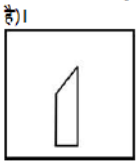

X

Ans

✗ 1.

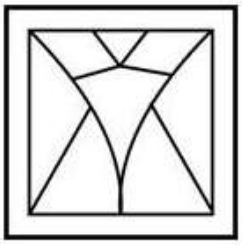

✗ 2.

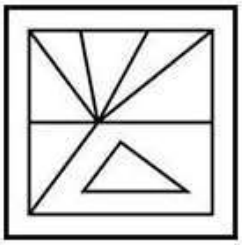

✗ 3.

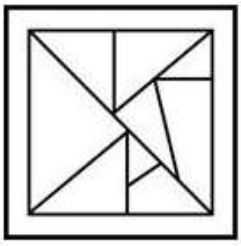

✓ 4.

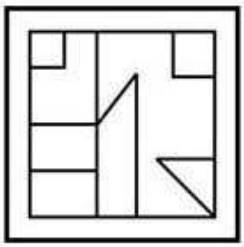

Question Type : **MCQ**
Question ID : **264330133463**
Option 1 ID : **264330522884**
Option 2 ID : **264330522885**
Option 3 ID : **264330522883**
Option 4 ID : **264330522886**
Status : **Answered**
Chosen Option : **4**

Join Telegram Group "HaryanaJobs.in"

Q.6 राम, श्याम, पंकज, तिलक और गौरव एक सीधी रेखा में दक्षिण की ओर मुख करके बैठे हैं। तिलक और गौरव अंतिम छोरों पर बैठे हैं। राम, गौरव के ठीक बाईं ओर और पंकज के ठीक दाईं ओर बैठा है। तिलक के ठीक दाईं ओर कौन बैठा है?

Ans
1. पंकज
2. राम
3. श्याम
4. गौरव

Question Type : **MCQ**
Question ID : **264330137817**
Option 1 ID : **264330539876**
Option 2 ID : **264330539877**
Option 3 ID : **264330539875**
Option 4 ID : **264330539878**
Status : **Answered**
Chosen Option : **3**

Q.7 दी गई श्रृंखला में निम्नलिखित में से कौन-सी संख्या प्रश्न चिन्ह (?) के स्थान पर आएगी?
64, 32, 96, 48, 144, 72, 216, ?

Ans
1. 104
2. 112
3. 108
4. 114

Question Type : **MCQ**
Question ID : **264330137822**
Option 1 ID : **264330539898**
Option 2 ID : **264330539895**
Option 3 ID : **264330539897**
Option 4 ID : **264330539896**
Status : **Answered**
Chosen Option : **3**

Q.8 एक निश्चित कूट भाषा में, 'JACKET' को 'EAKCTJ' लिखा जाता है। उस कूट भाषा में 'BLAZER' को कैसे लिखा जाएगा?

Ans
1. ELZARB
2. EZLARB
3. ELZRAB
4. ELRABZ

Question Type : **MCQ**
Question ID : **264330135003**
Option 1 ID : **264330528949**
Option 2 ID : **264330528947**
Option 3 ID : **264330528948**
Option 4 ID : **264330528950**
Status : **Answered**
Chosen Option : **1**

Join Telegram Group "HaryanaJobs.in"

Q.9 दी गई दो संख्याओं को आपस में बदलने पर निम्नलिखित में से कौन-सा समीकरण सही नहीं होगा?

9 और 7

I. 7 × 3 - 8 ÷ 4 + 9 = 32

II. 7 - 9 × 2 + 6 ÷ 3 = -3

Ans
1. केवल I
2. I और II दोनों
3. केवल II
4. न तो I और न ही II

Question Type : **MCQ**
Question ID : **264330138536**
Option 1 ID : **264330542751**
Option 2 ID : **264330542753**
Option 3 ID : **264330542752**
Option 4 ID : **264330542754**
Status : **Answered**
Chosen Option : **4**

Q.10 तीन कथन दिए गए हैं और दो निष्कर्ष I और II दिए गए हैं। कथनों को सत्य मानते हुए, चाहे वे सामान्यतः ज्ञात तथ्यों से अलग प्रतीत होते हों, निश्चय कीजिए कि कौन-सा निष्कर्ष तार्किक रूप से कथनों के अनुसार है।

कथन:

कुछ तोलिए, चमकदार हैं।

कुछ चमकदार, चमकीलें हैं।

सभी चमकीलें, छोटे हैं।

निष्कर्ष:

I. कुछ छोटे, चमकीलें हैं।

II. कुछ छोटे, चमकदार हैं।

Ans
1. सिर्फ निष्कर्ष II कथनों के अनुसार है
2. दोनों निष्कर्ष I और II कथनों के अनुसार हैं
3. निष्कर्ष I और II में से कोई भी कथनों के अनुसार नहीं है
4. सिर्फ निष्कर्ष I कथनों के अनुसार है

Question Type : **MCQ**
Question ID : **264330137820**
Option 1 ID : **264330539888**
Option 2 ID : **264330539889**
Option 3 ID : **264330539890**
Option 4 ID : **264330539887**
Status : **Answered**
Chosen Option : **2**

Join Telegram Group "HaryanaJobs.in"

Q.11 दो कथन दिए गए हैं और दो निष्कर्ष I और II दिए गए हैं। कथनों को सत्य मानते हुए, चाहे वे सामान्यतः ज्ञात तथ्यों से अलग प्रतीत होते हों, निश्चय कीजिए कि कौन-सा निष्कर्ष तार्किक रूप से कथनों के अनुसार है।
कथन:
कुछ कार, तेज़ हैं।

कुछ तेज़, धीमे हैं।
निष्कर्ष:
I. कुछ कार, धीमी नहीं हैं।
II. कुछ धीमें, तेज़ हैं।

Ans

✔ 1. सिर्फ निष्कर्ष II कथनों के अनुसार है

✘ 2. सिर्फ निष्कर्ष I कथनों के अनुसार है

✘ 3. निष्कर्ष I और II में से कोई भी कथनों के अनुसार नहीं है

✘ 4. दोनों निष्कर्ष I और II कथनों के अनुसार हैं

Question Type : **MCQ**
Question ID : **264330137819**
Option 1 ID : **264330539884**
Option 2 ID : **264330539883**
Option 3 ID : **264330539886**
Option 4 ID : **264330539885**
Status : **Answered**
Chosen Option : **1**

Q.12 प्रीति, रानी, सृति, तानिया, उरुषा, और विधि एक परिधि में केंद्र की ओर मुख करके बैठी हैं। विधि, सृति के बाईं ओर से दूसरे स्थान पर बैठी है, और तानिया तथा उरुषा के बीच में बैठी है। सृति, रानी या तानिया की पड़ोसी नहीं है।
प्रीति के ठीक दाईं ओर कौन बैठा है?

Ans

✘ 1. तानिया

✘ 2. सृति

✔ 3. रानी

✘ 4. विधि

Question Type : **MCQ**
Question ID : **264330137816**
Option 1 ID : **264330539874**
Option 2 ID : **264330539872**
Option 3 ID : **264330539873**
Option 4 ID : **264330539871**
Status : **Answered**
Chosen Option : **3**

Join Telegram Group "HaryanaJobs.in"

Q.13 एक निश्चित कूट भाषा में, 'JOURNEY' को 'EJNORUY' लिखा जाता है। उस कूट भाषा में 'MEDICAL' को कैसे लिखा जाएगा?

Ans

✔ 1. ACDEILM

✘ 2. ADCLEMI

✘ 3. ADCLIEM

✘ 4. ACDIELM

Question Type : **MCQ**
Question ID : **264330135026**
Option 1 ID : **264330529041**
Option 2 ID : **264330529039**
Option 3 ID : **264330529040**
Option 4 ID : **264330529042**
Status : **Answered**
Chosen Option : **1**

Q.14 उस विकल्प आकृति को चुनिए जो नीचे दी गई आकृति में पैटर्न को पूरा करने के लिए प्रश्न चिन्ह (?) के स्थान पर आएगी। (घूर्णन की अनुमति नहीं है)

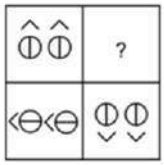

Ans

✘ 1.

✘ 2.

✘ 3. 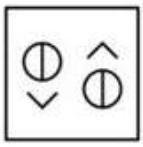

✔ 4.

Question Type : **MCQ**
Question ID : **264330137829**
Option 1 ID : **264330539923**
Option 2 ID : **264330539924**
Option 3 ID : **264330539925**
Option 4 ID : **264330539926**
Status : **Answered**
Chosen Option : **4**

Join Telegram Group "HaryanaJobs.in"

Q.15 Select the option that is related to the third word in the same way as the second word is related to the first word.
Marry : Divorce :: Native : ?

Ans
1. Hometown ✗
2. Indoor ✗
3. Foreign ✓
4. Country ✗

Question Type : **MCQ**
Question ID : **264330137811**
Option 1 ID : **264330539851**
Option 2 ID : **264330539853**
Option 3 ID : **264330539852**
Option 4 ID : **264330539854**
Status : **Answered**
Chosen Option : **4**

Q.16 एक निश्चित कूट भाषा में, 'BMWO' को '2546' लिखा जाता है, 'WANB' को '6751' लिखा जाता है, 'MOST' को '8249' लिखा जाता है। उस कूट भाषा में 'M' को कैसे लिखा जाएगा?

Ans
1. 7 ✗
2. 5 ✗
3. 2 ✓
4. 6 ✗

Question Type : **MCQ**
Question ID : **264330138587**
Option 1 ID : **264330542958**
Option 2 ID : **264330542957**
Option 3 ID : **264330542955**
Option 4 ID : **264330542956**
Status : **Answered**
Chosen Option : **3**

Q.17 दिए गए समीकरण को सही करने के लिए किन दो चिन्हों को आपस में बदला जाना चाहिए?
9 ÷ 3 + 7 = 4 - 6

Ans
1. ÷ और - ✗
2. + और - ✗
3. ÷ और = ✗
4. - और = ✓

Question Type : **MCQ**
Question ID : **264330137825**
Option 1 ID : **264330539908**
Option 2 ID : **264330539909**
Option 3 ID : **264330539910**
Option 4 ID : **264330539907**
Status : **Answered**
Chosen Option : **4**

Join Telegram Group "HaryanaJobs.in"

Q.18 उस विकल्प को चुनिए जो पाँचवी संख्या से ठीक उसी प्रकार संबंधित है जिस प्रकार दूसरी संख्या पहली संख्या से संबंधित है और चौथी संख्या तीसरी संख्या से संबंधित है।

4 : 25 :: 6 : 49 :: 8 :?

Ans
✔ 1. 81
✘ 2. 82
✘ 3. 85
✘ 4. 80

Question Type : **MCQ**
Question ID : **264330138512**
Option 1 ID : **264330542656**
Option 2 ID : **264330542657**
Option 3 ID : **264330542658**
Option 4 ID : **264330542655**
Status : **Answered**
Chosen Option : **1**

Q.19 उस विकल्प को चुनिए जो तीसरे अक्षर-समूह से ठीक उसी तरह संबंधित है जिस तरह दूसरा अक्षर-समूह पहले अक्षर-समूह से संबंधित है।

GR : KV :: DL : ?

Ans
✘ 1. GP
✘ 2. HS
✔ 3. HP
✘ 4. HQ

Question Type : **MCQ**
Question ID : **264330137810**
Option 1 ID : **264330539848**
Option 2 ID : **264330539850**
Option 3 ID : **264330539849**
Option 4 ID : **264330539847**
Status : **Answered**
Chosen Option : **3**

Q.20 दी गई श्रृंखला में निम्नलिखित में से कौन-सा अक्षर-समूह प्रश्न चिन्ह (?) के स्थान पर आएगा?

SE, VI, YM, BQ, EU, ?

Ans
✔ 1. HY
✘ 2. JY
✘ 3. GY
✘ 4. HX

Question Type : **MCQ**
Question ID : **264330137808**
Option 1 ID : **264330539839**
Option 2 ID : **264330539840**
Option 3 ID : **264330539842**
Option 4 ID : **264330539841**
Status : **Answered**
Chosen Option : **1**

Section : **General Awareness**

Join Telegram Group "HaryanaJobs.in"

Q.1 अक्टूबर 2022 की स्थिति के अनुसार, उच्च न्यायालय के न्यायाधीश के रूप में नियुक्ति के लिए ऊपरी आयु सीमा क्या है?

Ans
✔ 1. 62 वर्ष
✘ 2. 55 वर्ष
✘ 3. 57 वर्ष
✘ 4. 60 वर्ष

Question Type : **MCQ**
Question ID : **264330137940**
Option 1 ID : **264330540370**
Option 2 ID : **264330540367**
Option 3 ID : **264330540369**
Option 4 ID : **264330540368**
Status : **Answered**
Chosen Option : **1**

Q.2 भारतीय संविधान में "गणतंत्र" की अवधारणा निम्नलिखित में से किस देश के संविधान से ली गई है?

Ans
✘ 1. जर्मनी
✘ 2. जापान
✔ 3. फ्रांस
✘ 4. ऑस्ट्रेलिया

Question Type : **MCQ**
Question ID : **264330137939**
Option 1 ID : **264330540364**
Option 2 ID : **264330540366**
Option 3 ID : **264330540363**
Option 4 ID : **264330540365**
Status : **Answered**
Chosen Option : **3**

Q.3 बांझपन निम्नलिखित में से किस विटामिन की कमी से होता है?

Ans
✔ 1. E
✘ 2. D
✘ 3. B1
✘ 4. K

Question Type : **MCQ**
Question ID : **264330137925**
Option 1 ID : **264330540309**
Option 2 ID : **264330540308**
Option 3 ID : **264330540307**
Option 4 ID : **264330540310**
Status : **Answered**
Chosen Option : **1**

Join Telegram Group "HaryanaJobs.in"

Q.4 निम्नलिखित में से कौन-सी मिशेल ओबामा (Michelle Obama) की आत्मकथा है?

Ans
1. बिकमिंग (Becoming) ✔
2. अवर हाउस इज़ ऑन फ़ायर (Our House is on Fire) ✘
3. मी (Me) ✘
4. माय लाइफ़ (My Life) ✘

Question Type : **MCQ**
Question ID : **264330134711**
Option 1 ID : **264330527802**
Option 2 ID : **264330527800**
Option 3 ID : **264330527801**
Option 4 ID : **264330527799**
Status : **Answered**
Chosen Option : **1**

Q.5 आज़ादी से पहले के भारत में, गरीबी रेखा की अवधारणा पर चर्चा करने वाले पहले व्यक्ति कौन थे?

Ans
1. दादाभाई नौरोजी ✔
2. महादेव गोविंद रानाडे ✘
3. बी.आर. अम्बेडकर ✘
4. एम. के गांधी ✘

Question Type : **MCQ**
Question ID : **264330133876**
Option 1 ID : **264330524528**
Option 2 ID : **264330524527**
Option 3 ID : **264330524530**
Option 4 ID : **264330524529**
Status : **Answered**
Chosen Option : **1**

Q.6 भारत के राष्ट्रपति द्वारा "राज्य सभा" में कितने सदस्यों को नामित किया जा सकता है?

Ans
1. 12 ✔
2. 15 ✘
3. 9 ✘
4. 6 ✘

Question Type : **MCQ**
Question ID : **264330138307**
Option 1 ID : **264330541837**
Option 2 ID : **264330541838**
Option 3 ID : **264330541836**
Option 4 ID : **264330541835**
Status : **Answered**
Chosen Option : **1**

Join Telegram Group "HaryanaJobs.in"

Q.7 चीनी को अल्कोहल में बदलने की प्रक्रिया को _____ के रूप में जाना जाता है।

Ans
1. अनाच्छादन (Denudation)
2. अंतःस्यंदन (Infiltration)
3. किण्वन (Fermentation)
4. विखंडन (Fragmentation)

Question Type : **MCQ**
Question ID : **264330138285**
Option 1 ID : **264330541750**
Option 2 ID : **264330541749**
Option 3 ID : **264330541747**
Option 4 ID : **264330541748**
Status : **Answered**
Chosen Option : **3**

Q.8 निम्नलिखित लोक नृत्यों में से कौन-सा राजस्थान से संबंधित है?

Ans
1. रऊफ (Rouf)
2. लावणी
3. कालबेलिया
4. बिहु

Question Type : **MCQ**
Question ID : **264330137921**
Option 1 ID : **264330540294**
Option 2 ID : **264330540292**
Option 3 ID : **264330540293**
Option 4 ID : **264330540291**
Status : **Answered**
Chosen Option : **3**

Q.9 निम्नलिखित में से कौन 'पंडित बिरजू महाराज' की एक शिष्या थीं जिन्हें वर्ष 1992 में 'पद्म श्री' और वर्ष 1999-2000 में 'संगीत नाटक अकादमी पुरस्कार' से सम्मानित किया गया था?

Ans
1. मृणालिनी साराभाई
2. यामिनी कृष्णमूर्ति (Yamini Krishnamurthy)
3. शोवना नारायण
4. कलामंडलम कल्याणिकुट्टी अम्मा (Kalamandalam Kalyanikutty Amma)

Question Type : **MCQ**
Question ID : **264330134713**
Option 1 ID : **264330527809**
Option 2 ID : **264330527807**
Option 3 ID : **264330527810**
Option 4 ID : **264330527808**
Status : **Answered**
Chosen Option : **3**

Join Telegram Group "HaryanaJobs.in"

Q.10 एशियाई खेल 2022 किस देश में आयोजित किए गए थे?

Ans
1. सिंगापुर
2. भारत
3. चीन
4. जापान

Question Type : **MCQ**
Question ID : **264330138275**
Option 1 ID : **264330541710**
Option 2 ID : **264330541707**
Option 3 ID : **264330541709**
Option 4 ID : **264330541708**
Status : **Answered**
Chosen Option : **3**

Q.11 निम्नलिखित में से कौन-सा त्योहार केरल में मनाया जाता है?

Ans
1. बैसाखी (Baisakhi)
2. विशु (Vishu)
3. अंबुबाची (Ambubachi)
4. बोनालु (Bonalu)

Question Type : **MCQ**
Question ID : **264330133909**
Option 1 ID : **264330524662**
Option 2 ID : **264330524661**
Option 3 ID : **264330524660**
Option 4 ID : **264330524659**
Status : **Answered**
Chosen Option : **2**

Q.12 _____ अलकनंदा और धौलीगंगा नदी के संगम का स्थान है।

Ans
1. नंदप्रयाग
2. विष्णुप्रयाग
3. कर्णप्रयाग
4. रुद्रप्रयाग

Question Type : **MCQ**
Question ID : **264330137929**
Option 1 ID : **264330540324**
Option 2 ID : **264330540323**
Option 3 ID : **264330540325**
Option 4 ID : **264330540326**
Status : **Answered**
Chosen Option : **1**

Join Telegram Group "HaryanaJobs.in"

Q.13 अखिल भारतीय मुस्लिम लीग की स्थापना किस वर्ष हुई थी?

Ans
1. 1885
2. 1906
3. 1920
4. 1911

Question Type : **MCQ**
Question ID : **264330133922**
Option 1 ID : **264330524711**
Option 2 ID : **264330524712**
Option 3 ID : **264330524714**
Option 4 ID : **264330524713**
Status : **Answered**
Chosen Option : **3**

Q.14 _____ राज्य सरकार ने नवंबर 2022 में "प्रौद्योगिकी हस्तांतरण योजना (Technology Transfer Scheme)" की शुरुआत की है।

Ans
1. आंध्रप्रदेश
2. तमिलनाडु
3. केरल
4. कर्नाटक

Question Type : **MCQ**
Question ID : **264330137919**
Option 1 ID : **264330540285**
Option 2 ID : **264330540286**
Option 3 ID : **264330540283**
Option 4 ID : **264330540284**
Status : **Not Answered**
Chosen Option : **--**

Q.15 मध्यम अवधि में अर्थव्यवस्था में तरलता को प्रभावित करने के उद्देश्य से आरबीआई (RBI) द्वारा खुले बाज़ार में सरकारी प्रतिभूतियों की बिक्री और खरीद _____ कहलाती है।

Ans
1. तरलता समायोजन सुविधा (Liquidity Adjustment Facility)
2. सीमांत स्थायी सुविधा (Marginal Standing Facility)
3. क्रेडिट की उच्चतम सीमा (Credit Ceiling)
4. खुला बाजार परिचालन (Open Market Operations)

Question Type : **MCQ**
Question ID : **264330134718**
Option 1 ID : **264330527830**
Option 2 ID : **264330527827**
Option 3 ID : **264330527829**
Option 4 ID : **264330527828**
Status : **Answered**
Chosen Option : **1**

Join Telegram Group "HaryanaJobs.in"

Q.16 निम्नलिखित में से कौन-सा आधुनिक भारतीय भाषाओं के वर्गीकरण में एक परिवार नहीं है?

Ans
1. चीन – तिब्बती (Sino - Tibetan)
2. भारतीय – यूरोपीय (Indo - European)
3. भारतीय-अफ्रीकी (Indo - African)
4. द्रविड़ (Dravidian)

Question Type : **MCQ**
Question ID : **264330138340**
Option 1 ID : **264330541968**
Option 2 ID : **264330541967**
Option 3 ID : **264330541970**
Option 4 ID : **264330541969**
Status : **Answered**
Chosen Option : **4**

Q.17 निम्नलिखित में से किस राज्य ने ट्रैक एशिया कप 2022 साइक्लिंग टूर्नामेंट (Track Asia Cup 2022 Cycling Tournament) की मेजबानी की थी?

Ans
1. केरल
2. महाराष्ट्र
3. कर्नाटक
4. पश्चिम बंगाल

Question Type : **MCQ**
Question ID : **264330137941**
Option 1 ID : **264330540371**
Option 2 ID : **264330540374**
Option 3 ID : **264330540372**
Option 4 ID : **264330540373**
Status : **Not Answered**
Chosen Option : **--**

Q.18 संयुक्त राष्ट्र द्वारा पीने,धुलाई करने, खाना पकाने और उचित स्वच्छता बनाए रखने के लिए आवश्यक न्यूनतम पानी की मात्रा, प्रति व्यक्ति प्रति दिन _____ लीटर अनुशंसित की गई है।

Ans
1. 40
2. 60
3. 50
4. 70

Question Type : **MCQ**
Question ID : **264330138286**
Option 1 ID : **264330541751**
Option 2 ID : **264330541753**
Option 3 ID : **264330541752**
Option 4 ID : **264330541754**
Status : **Answered**
Chosen Option : **3**

Join Telegram Group "HaryanaJobs.in"

Q.19 भारत में पहली भूमिगत रेलवे कहाँ शुरू की गई थी?

Ans
✔ 1. कोलकाता
✘ 2. मुंबई
✘ 3. पुणे
✘ 4. चेन्नई

Question Type : **MCQ**
Question ID : **264330134703**
Option 1 ID : **264330527770**
Option 2 ID : **264330527769**
Option 3 ID : **264330527768**
Option 4 ID : **264330527767**
Status : **Answered**
Chosen Option : **1**

Q.20 तंजावुर में बृहदेश्वर मंदिर का निर्माण _____ ने करवाया था।

Ans
✘ 1. राजेंद्र प्रथम
✘ 2. विजयालय
✔ 3. राजराज प्रथम
✘ 4. आदित्य प्रथम

Question Type : **MCQ**
Question ID : **264330138298**
Option 1 ID : **264330541800**
Option 2 ID : **264330541801**
Option 3 ID : **264330541799**
Option 4 ID : **264330541802**
Status : **Answered**
Chosen Option : **1**

Q.21 Materials that allow electric current to pass through them are called _____.

Ans
✘ 1. alternator
✔ 2. conductors
✘ 3. insulators
✘ 4. capacitor

Question Type : **MCQ**
Question ID : **264330138287**
Option 1 ID : **264330541757**
Option 2 ID : **264330541755**
Option 3 ID : **264330541756**
Option 4 ID : **264330541758**
Status : **Answered**
Chosen Option : **2**

Join Telegram Group "HaryanaJobs.in"

Q.22 ईरान के शासक नादिरशाह ने _____ में दिल्ली शहर को लूटा।

Ans
✔ 1. 1739
✘ 2. 1761
✘ 3. 1771
✘ 4. 1748

Question Type : **MCQ**
Question ID : **264330138293**
Option 1 ID : **264330541779**
Option 2 ID : **264330541781**
Option 3 ID : **264330541782**
Option 4 ID : **264330541780**
Status : **Answered**
Chosen Option : **1**

Q.23 उस्ताद अमजद अली खान का संबंध निम्नलिखित में से किस वाद्य यंत्र से है?

Ans
✔ 1. सरोद
✘ 2. सितार
✘ 3. सारंगी
✘ 4. वीणा

Question Type : **MCQ**
Question ID : **264330137937**
Option 1 ID : **264330540355**
Option 2 ID : **264330540357**
Option 3 ID : **264330540358**
Option 4 ID : **264330540356**
Status : **Answered**
Chosen Option : **1**

Q.24 2022 तक, कौन-सा भारतीय राज्य बांग्लादेश के साथ सीमा साझा **नहीं** करता है?

Ans
✘ 1. मेघालय
✔ 2. बिहार
✘ 3. पश्चिम बंगाल
✘ 4. मिजोरम

Question Type : **MCQ**
Question ID : **264330133919**
Option 1 ID : **264330524702**
Option 2 ID : **264330524699**
Option 3 ID : **264330524701**
Option 4 ID : **264330524700**
Status : **Answered**
Chosen Option : **2**

Join Telegram Group "HaryanaJobs.in"

Q.25 सहायक संधि नामक प्रणाली को वर्ष 1798 में _____ ने तैयार किया था।

Ans
✔ 1. लॉर्ड वेलेज़्ली (Lord Wellesley)
✘ 2. लॉर्ड बेंटिक (Lord Bentick)
✘ 3. लॉर्ड हेस्टिंग्स (Lord Hastings)
✘ 4. लॉर्ड डलहौज़ी (Lord Dalhousie)

Question Type : **MCQ**
Question ID : **264330138319**
Option 1 ID : **264330541883**
Option 2 ID : **264330541886**
Option 3 ID : **264330541885**
Option 4 ID : **264330541884**
Status : **Answered**
Chosen Option : **1**

Section : **English Language and Comprehension**

Q.1 Select the word segment that substitutes (replaces) the bracketed word segment correctly and completes the sentence meaningfully. Select the option 'no correction required' if the sentence is correct as given.

It was a (easement to be far away) from that malicious old labyrinth with its stares and gossip.

Ans
✘ 1. help to be away
✔ 2. relief to be away
✘ 3. No correction required
✘ 4. rest to be far

Question Type : **MCQ**
Question ID : **264330136389**
Option 1 ID : **264330534323**
Option 2 ID : **264330534324**
Option 3 ID : **264330534326**
Option 4 ID : **264330534325**
Status : **Answered**
Chosen Option : **2**

Q.2 Identify the segment that contains a grammatical error. If there is no error, select 'No error'.
None of them, apart from Rohan / and Shilpa, had heard Mohan talk / about what happens that night.

Ans
✔ 1. about what happens that night.
✘ 2. and Shilpa, had heard Mohan talk
✘ 3. No error
✘ 4. None of them, apart from Rohan

Question Type : **MCQ**
Question ID : **264330136691**
Option 1 ID : **264330535481**
Option 2 ID : **264330535480**
Option 3 ID : **264330535482**
Option 4 ID : **264330535479**
Status : **Answered**
Chosen Option : **1**

Join Telegram Group "HaryanaJobs.in"

Q.3 Select the most appropriate antonym to substitute the bracketed word in the given sentence.

There is an unhealthy tendency to (subjugate) films to the dictates of raising public awareness.

Ans

✗ 1. Colonize

✓ 2. Liberate

✗ 3. Modest

✗ 4. Vanquish

Question Type : **MCQ**
Question ID : **264330136310**
Option 1 ID : **264330534018**
Option 2 ID : **264330534016**
Option 3 ID : **264330534015**
Option 4 ID : **264330534017**
Status : **Answered**
Chosen Option : **2**

Q.4 Improve the underlined part of the sentence. Choose 'No improvement' as an answer if the sentence is grammatically correct.

I like to hang my laundry outside in the suns to dry.

Ans

✗ 1. sun to dries

✗ 2. No improvement

✓ 3. sun to dry

✗ 4. sun to dried

Question Type : **MCQ**
Question ID : **264330134801**
Option 1 ID : **264330528149**
Option 2 ID : **264330528150**
Option 3 ID : **264330528148**
Option 4 ID : **264330528147**
Status : **Answered**
Chosen Option : **3**

Q.5 Select the correctly spelt word.

Ans

✗ 1. Purpos

✗ 2. Porpos

✓ 3. Purpose

✗ 4. Propuse

Question Type : **MCQ**
Question ID : **264330136313**
Option 1 ID : **264330534030**
Option 2 ID : **264330534029**
Option 3 ID : **264330534027**
Option 4 ID : **264330534028**
Status : **Answered**
Chosen Option : **3**

Join Telegram Group "HaryanaJobs.in"

Q.6 Select the most appropriate meaning of the given idiom.

A broth of a boy

Ans
✔ 1. A lively, energetic young person
✘ 2. To behave foolishly
✘ 3. To have specific food choices
✘ 4. Not attached to someone

Question Type : **MCQ**
Question ID : **264330136659**
Option 1 ID : **264330535358**
Option 2 ID : **264330535355**
Option 3 ID : **264330535356**
Option 4 ID : **264330535357**
Status : **Not Answered**
Chosen Option : **--**

Q.7 Select the most appropriate synonym of the given word.

Disdain

Ans
✘ 1. Withdraw
✘ 2. Admiration
✔ 3. Contempt
✘ 4. Acceptance

Question Type : **MCQ**
Question ID : **264330136307**
Option 1 ID : **264330534003**
Option 2 ID : **264330534005**
Option 3 ID : **264330534006**
Option 4 ID : **264330534004**
Status : **Answered**
Chosen Option : **3**

Q.8 Select the most appropriate antonym of the given word.

Misdemeanour

Ans
✘ 1. Offence
✔ 2. Obedience
✘ 3. Gullible
✘ 4. Amalgamation

Question Type : **MCQ**
Question ID : **264330136683**
Option 1 ID : **264330535448**
Option 2 ID : **264330535449**
Option 3 ID : **264330535447**
Option 4 ID : **264330535450**
Status : **Answered**
Chosen Option : **1**

Join Telegram Group "HaryanaJobs.in"

Q.9 **Choose the sentence with no spelling error.**

Ans

✗ 1. I am willing to consider the posibility.

✓ 2. I am willing to consider the possibility

✗ 3. I am wiling to consider the posibility

✗ 4. I am willing to considerr the possibility

Question Type : **MCQ**
Question ID : **264330134395**
Option 1 ID : **264330526559**
Option 2 ID : **264330526560**
Option 3 ID : **264330526561**
Option 4 ID : **264330526562**
Status : **Answered**
Chosen Option : **2**

Q.10 Select the most appropriate option to fill in the blank.

I think he is a worthy _____ of the policy and a worthy adversary for the press.

Ans

✗ 1. reciprocate

✗ 2. educate

✗ 3. placate

✓ 4. advocate

Question Type : **MCQ**
Question ID : **264330136297**
Option 1 ID : **264330533970**
Option 2 ID : **264330533969**
Option 3 ID : **264330533968**
Option 4 ID : **264330533967**
Status : **Answered**
Chosen Option : **4**

Q.11 Select the most appropriate meaning of the bracketed idiom in the given sentence.

Let the bully have (a taste of his own medicine).

Ans

✓ 1. When you are mistreated the same way you mistreat others

✗ 2. A result that is still unclear and can go either way

✗ 3. A dangerous person pretending harmless

✗ 4. A visual presentation is far more descriptive than words

Question Type : **MCQ**
Question ID : **264330136312**
Option 1 ID : **264330534026**
Option 2 ID : **264330534024**
Option 3 ID : **264330534023**
Option 4 ID : **264330534025**
Status : **Answered**
Chosen Option : **1**

Join Telegram Group "HaryanaJobs.in"

Q.12 Identify the segment that contains a grammatical error. If there is no error, select 'No error'

In practice rounds, my caddie, Greg, / and me works on my short/ game with a baseball glove.

Ans

✔ 1. and me works on my short

✘ 2. game with a baseball glove.

✘ 3. No error

✘ 4. In practice rounds, my caddie, Greg,

Question Type : **MCQ**
Question ID : **264330136293**
Option 1 ID : **264330533952**
Option 2 ID : **264330533953**
Option 3 ID : **264330533954**
Option 4 ID : **264330533951**
Status : **Answered**
Chosen Option : **1**

Q.13 Find the part of the given sentence that has an error in it. If there is no error, choose 'No error'.

Disease-carrying parasites is not picky about hosts.

Ans

✘ 1. about hosts.

✘ 2. No error

✘ 3. Disease-carrying parasites

✔ 4. is not picky

Question Type : **MCQ**
Question ID : **264330135205**
Option 1 ID : **264330529749**
Option 2 ID : **264330529750**
Option 3 ID : **264330529747**
Option 4 ID : **264330529748**
Status : **Answered**
Chosen Option : **3**

Q.14 Select the most appropriate option to fill in the blank.

At times he acted as viceroy in William's absence; at times he led the royal forces to _____ rebellions.

Ans

✘ 1. scrutinize

✘ 2. baptise

✔ 3. chastise

✘ 4. compromise

Question Type : **MCQ**
Question ID : **264330136316**
Option 1 ID : **264330534039**
Option 2 ID : **264330534040**
Option 3 ID : **264330534041**
Option 4 ID : **264330534042**
Status : **Answered**
Chosen Option : **2**

Join Telegram Group "HaryanaJobs.in"

Q.15 **Select the most appropriate option to fill in the blank.**
Different cells express different proteins depending on which promoters are either active or _____.

Ans
✔ 1. dormant
✘ 2. lazy
✘ 3. effectual
✘ 4. productive

Question Type : **MCQ**
Question ID : **264330134396**
Option 1 ID : **264330526564**
Option 2 ID : **264330526565**
Option 3 ID : **264330526563**
Option 4 ID : **264330526566**
Status : **Answered**
Chosen Option : **1**

Q.16 **A sentence has been given with a blank to be filled with an appropriate option. Choose the correct alternative.**
These were two Indian men who _____ hiding in the forest.

Ans
✘ 1. has been
✔ 2. had been
✘ 3. have being
✘ 4. was

Question Type : **MCQ**
Question ID : **264330134379**
Option 1 ID : **264330526499**
Option 2 ID : **264330526502**
Option 3 ID : **264330526501**
Option 4 ID : **264330526500**
Status : **Answered**
Chosen Option : **2**

Q.17 **Choose the word that means the same as the given word.**
Assail

Ans
✔ 1. Attack
✘ 2. Perform
✘ 3. Systematic
✘ 4. Shield

Question Type : **MCQ**
Question ID : **264330134415**
Option 1 ID : **264330526636**
Option 2 ID : **264330526638**
Option 3 ID : **264330526635**
Option 4 ID : **264330526637**
Status : **Answered**
Chosen Option : **1**

Join Telegram Group "HaryanaJobs.in"

Q.18 Select the most appropriate word for the given group of words.

Killing of one person by another

Ans

✗ 1. Genocide

✗ 2. Filicide

✓ 3. Homicide

✗ 4. Fratricide

Question Type : **MCQ**
Question ID : **264330136306**
Option 1 ID : **264330534000**
Option 2 ID : **264330534001**
Option 3 ID : **264330533999**
Option 4 ID : **264330534002**
Status : **Answered**
Chosen Option : **3**

Q.19 Select the most appropriate word for the given group of words.

A place where snakes are kept

Ans

✗ 1. Hive

✗ 2. Aviary

✗ 3. Apiary

✓ 4. Serpentarium

Question Type : **MCQ**
Question ID : **264330136653**
Option 1 ID : **264330535334**
Option 2 ID : **264330535333**
Option 3 ID : **264330535332**
Option 4 ID : **264330535331**
Status : **Answered**
Chosen Option : **4**

Q.20 Select the word segment that substitutes (replaces) the bracketed word segment correctly and completes the sentence meaningfully. Select the option 'no correction required' if the sentence is correct as given.
He looked around for Bunty or Vinay, (but either off) them were anywhere near him.

Ans

✗ 1. No correction required

✗ 2. because either of

✓ 3. but neither of

✗ 4. moreover neither of

Question Type : **MCQ**
Question ID : **264330136694**
Option 1 ID : **264330535494**
Option 2 ID : **264330535493**
Option 3 ID : **264330535492**
Option 4 ID : **264330535491**
Status : **Answered**
Chosen Option : **3**

Join Telegram Group "HaryanaJobs.in"

Comprehension:

In the following passage some words have been deleted. Fill in the blanks with the help of the alternatives given. Select the most appropriate option for each number.

English Ivy (1) _____its poor reputation as a nuisance by its unparalleled ability to provide shade. By seamlessly covering the exterior of a building, it works as a natural (2) _____, blocking the sun and decreasing air conditioning costs. This means big savings for both building tenants and homeowners (3) _____. And it can happen quickly, too. Under the proper conditions, established English Ivy can grow to cover (4) _____ of roughly 500 square feet per year. Given that most homes have a roof measuring roughly 2000 square feet, ivy-friendly homeowners can rest assured that their roofs will be (5) _____ covered in about four years.

SubQuestion No : 21

Q.21 Select the most appropriate option to fill in blank number 1.

Ans

✔ 1. betrays

✘ 2. punishes

✘ 3. follows

✘ 4. portrays

Question Type : **MCQ**
Question ID : **264330136674**
Option 1 ID : **264330535412**
Option 2 ID : **264330535413**
Option 3 ID : **264330535414**
Option 4 ID : **264330535411**
Status : **Answered**
Chosen Option : **3**

Comprehension:

In the following passage some words have been deleted. Fill in the blanks with the help of the alternatives given. Select the most appropriate option for each number.

English Ivy (1) _____its poor reputation as a nuisance by its unparalleled ability to provide shade. By seamlessly covering the exterior of a building, it works as a natural (2) _____, blocking the sun and decreasing air conditioning costs. This means big savings for both building tenants and homeowners (3) _____. And it can happen quickly, too. Under the proper conditions, established English Ivy can grow to cover (4) _____ of roughly 500 square feet per year. Given that most homes have a roof measuring roughly 2000 square feet, ivy-friendly homeowners can rest assured that their roofs will be (5) _____ covered in about four years.

SubQuestion No : 22

Q.22 Select the most appropriate option to fill in blank number 2.

Ans

✘ 1. postulator

✘ 2. regulator

✔ 3. insulator

✘ 4. modulator

Question Type : **MCQ**
Question ID : **264330136675**
Option 1 ID : **264330535417**
Option 2 ID : **264330535418**
Option 3 ID : **264330535415**
Option 4 ID : **264330535416**
Status : **Answered**
Chosen Option : **3**

Join Telegram Group "HaryanaJobs.in"

Comprehension:

In the following passage some words have been deleted. Fill in the blanks with the help of the alternatives given. Select the most appropriate option for each number.

English Ivy (1) _____its poor reputation as a nuisance by its unparalleled ability to provide shade. By seamlessly covering the exterior of a building, it works as a natural (2) _____, blocking the sun and decreasing air conditioning costs. This means big savings for both building tenants and homeowners (3) _____. And it can happen quickly, too. Under the proper conditions, established English Ivy can grow to cover (4) _____ of roughly 500 square feet per year. Given that most homes have a roof measuring roughly 2000 square feet, ivy-friendly homeowners can rest assured that their roofs will be (5) _____ covered in about four years.

SubQuestion No : 23

Q.23 Select the most appropriate option to fill in blank number 3.

Ans

✔ 1. alike

✘ 2. dislike

✘ 3. likely

✘ 4. unlike

Question Type : **MCQ**
Question ID : **264330136676**
Option 1 ID : **264330535421**
Option 2 ID : **264330535420**
Option 3 ID : **264330535419**
Option 4 ID : **264330535422**
Status : **Answered**
Chosen Option : **2**

Comprehension:

In the following passage some words have been deleted. Fill in the blanks with the help of the alternatives given. Select the most appropriate option for each number.

English Ivy (1) _____its poor reputation as a nuisance by its unparalleled ability to provide shade. By seamlessly covering the exterior of a building, it works as a natural (2) _____, blocking the sun and decreasing air conditioning costs. This means big savings for both building tenants and homeowners (3) _____. And it can happen quickly, too. Under the proper conditions, established English Ivy can grow to cover (4) _____ of roughly 500 square feet per year. Given that most homes have a roof measuring roughly 2000 square feet, ivy-friendly homeowners can rest assured that their roofs will be (5) _____ covered in about four years.

SubQuestion No : 24

Q.24 Select the most appropriate option to fill in blank number 4.

Ans

✘ 1. a surface

✔ 2. an area

✘ 3. a wall

✘ 4. a lake

Question Type : **MCQ**
Question ID : **264330136677**
Option 1 ID : **264330535423**
Option 2 ID : **264330535426**
Option 3 ID : **264330535425**
Option 4 ID : **264330535424**
Status : **Answered**
Chosen Option : **2**

Join Telegram Group "HaryanaJobs.in"

Comprehension:

In the following passage some words have been deleted. Fill in the blanks with the help of the alternatives given. Select the most appropriate option for each number.

English Ivy (1) _____its poor reputation as a nuisance by its unparalleled ability to provide shade. By seamlessly covering the exterior of a building, it works as a natural (2) _____, blocking the sun and decreasing air conditioning costs. This means big savings for both building tenants and homeowners (3) _____. And it can happen quickly, too. Under the proper conditions, established English Ivy can grow to cover (4) _____ of roughly 500 square feet per year. Given that most homes have a roof measuring roughly 2000 square feet, ivy-friendly homeowners can rest assured that their roofs will be (5) _____ covered in about four years.

SubQuestion No : 25

Q.25 Select the most appropriate option to fill in blank number 5.

Ans

✗ 1. repletely

✓ 2. completely

✗ 3. incompletely

✗ 4. obsoletely

Question Type : **MCQ**
Question ID : **264330136678**
Option 1 ID : **264330535429**
Option 2 ID : **264330535427**
Option 3 ID : **264330535430**
Option 4 ID : **264330535428**
Status : **Answered**
Chosen Option : **2**

Join Telegram Group "HaryanaJobs.in"

Multi Tasking Non Technical Staff and Havaldar CBIC and CBN Examination 2022

Roll Number	HaryanaJobs.in
Candidate Name	HaryanaJobs.in
Venue Name	Info Educomonline Solution
Exam Date	20/06/2023
Exam Time	12:00 PM - 2:00 PM
Subject	MTS Non Tech Havaldar CBIC and CBN Examination 2022

Section : **Numerical and Mathematical Ability**

Q.1 15 परिणामों का औसत 52 है। यदि पहले 8 परिणामों का औसत 56 है और अंतिम 8 परिणामों का औसत 55 है, तो 8वें परिणाम का मान क्या होगा?

Ans

✗ 1. 92

✗ 2. 96

✓ 3. 108

✗ 4. 116

Question Type : **MCQ**
Question ID : **264330139020**
Option 1 ID : **264330544688**
Option 2 ID : **264330544689**
Option 3 ID : **264330544687**
Option 4 ID : **264330544690**
Status : **Answered**
Chosen Option : **3**

Join Telegram Group "HaryanaJobs.in"

Q.2 दिए गए आलेख में इस त्योहार के सीजन में विभिन्न मिठाइयों की बिक्री को दर्शाया गया है। किस मिठाई की सर्वाधिक बिक्री हुई?

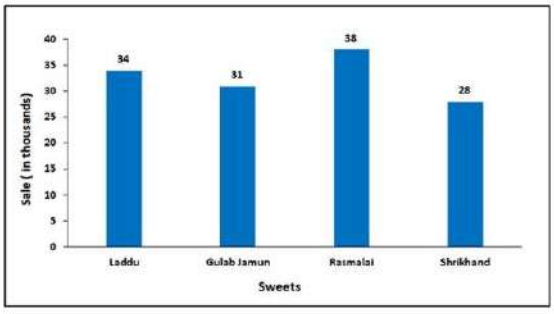

Sale (in thousand) - बिक्री (हजार में), Sweets - मिठाई, Laddu - लड्डू, Gulab Jamun - गुलाब जामुन, Rasmalai - रसमलाई, Shrikhand - श्रीखंड

Ans
1. श्रीखंड
2. रसमलाई
3. लड्डू
4. गुलाब जामुन

Question Type : **MCQ**
Question ID : **264330140816**
Option 1 ID : **264330551614**
Option 2 ID : **264330551613**
Option 3 ID : **264330551611**
Option 4 ID : **264330551612**
Status : **Answered**
Chosen Option : **2**

Q.3 P, Q और R का अनुपात क्रमशः 2 : 5 : 7 है। यदि उनका योग 840 है, तो P और R में कितना अंतर है?

Ans
1. 300
2. 380
3. 200
4. 260

Question Type : **MCQ**
Question ID : **264330139959**
Option 1 ID : **264330548217**
Option 2 ID : **264330548218**
Option 3 ID : **264330548215**
Option 4 ID : **264330548216**
Status : **Answered**
Chosen Option : **1**

Join Telegram Group "HaryanaJobs.in"

Q.4 एक व्यक्ति ने एक रुपए में 14 पेन की दर से कुछ पेन खरीदे और उन्हें एक रुपए में 10 पेन की दर से बेच दिया। उसका लाभ प्रतिशत क्या है?

Ans
✔ 1. 40 प्रतिशत
✘ 2. 45 प्रतिशत
✘ 3. 50 प्रतिशत
✘ 4. 30 प्रतिशत

Question Type : **MCQ**
Question ID : **264330140637**
Option 1 ID : **264330550897**
Option 2 ID : **264330550898**
Option 3 ID : **264330550895**
Option 4 ID : **264330550896**
Status : **Answered**
Chosen Option : **1**

Q.5 A अकेले किसी कार्य को 4 दिनों में कर सकता है, B अकेले उस कार्य को 6 दिनों में कर सकता है। दोनों मिलकर इसे कितने दिनों में कर सकते हैं?

Ans
✘ 1. 7/12 दिनों
✘ 2. 12/7 दिनों
✘ 3. 5/12 दिनों
✔ 4. 12/5 दिनों

Question Type : **MCQ**
Question ID : **264330140813**
Option 1 ID : **264330551602**
Option 2 ID : **264330551599**
Option 3 ID : **264330551600**
Option 4 ID : **264330551601**
Status : **Answered**
Chosen Option : **4**

Q.6 [84 - (-8) × {16 - (11 - 3)} + {5 + (-8) × (-4)}] का मान निम्न में से किस के बीच स्थित है?

Ans
✘ 1. 186 और 187
✘ 2. 186 और 189
✔ 3. 183 और 186
✘ 4. -187 और -184

Question Type : **MCQ**
Question ID : **264330140822**
Option 1 ID : **264330551637**
Option 2 ID : **264330551638**
Option 3 ID : **264330551636**
Option 4 ID : **264330551635**
Status : **Answered**
Chosen Option : **3**

Join Telegram Group "HaryanaJobs.in"

Q.7 एक मिश्रधातु में ताँबा, जस्ता और निकल क्रमशः 3:2:5 के अनुपात में हैं। इस मिश्रधातु के 100 kg में निकल की कितनी मात्रा (kg में) मिलाई जाए जिससे ताँबा, जस्ता और निकल का नया अनुपात क्रमशः 3:2:6 हो जाएगा?

Ans

✔ 1. 10 kg

✘ 2. 8 kg

✘ 3. 15 kg

✘ 4. 20 kg

Question Type : **MCQ**
Question ID : **264330138372**
Option 1 ID : **264330542097**
Option 2 ID : **264330542098**
Option 3 ID : **264330542095**
Option 4 ID : **264330542096**
Status : **Answered**
Chosen Option : **1**

Q.8 A, B से दोगुना कुशल है। A किसी कार्य को B की तुलना में 20 दिन कम में पूरा कर सकता है। यदि दोनों साथ मिलकर कार्य करें, तो यही कार्य कितने दिनों में पूरा होगा?

Ans

✘ 1. 20 दिनों में

✘ 2. 15 दिनों में

✘ 3. (27/2) दिनों में

✔ 4. (40/3) दिनों में

Question Type : **MCQ**
Question ID : **264330139609**
Option 1 ID : **264330546851**
Option 2 ID : **264330546853**
Option 3 ID : **264330546854**
Option 4 ID : **264330546852**
Status : **Answered**
Chosen Option : **4**

Q.9 एक वस्तु को Rs. 600 में बेचने पर प्राप्त लाभ उसी वस्तु को Rs. 400 में बेचने पर हुई हानि के बराबर है। यदि विक्रय मूल्य Rs. 750 है, तो लाभ प्रतिशत क्या है?

Ans

✔ 1. 50 प्रतिशत

✘ 2. 80 प्रतिशत

✘ 3. 60 प्रतिशत

✘ 4. 70 प्रतिशत

Question Type : **MCQ**
Question ID : **264330140540**
Option 1 ID : **264330550515**
Option 2 ID : **264330550518**
Option 3 ID : **264330550516**
Option 4 ID : **264330550517**
Status : **Answered**
Chosen Option : **1**

Join Telegram Group "HaryanaJobs.in"

Q.10 यदि मोहन अपनी सामान्य चाल की 60 प्रतिशत चाल से यात्रा करता है, तो वह 10 मिनट देरी से पहुँचेगा। उसके द्वारा लिया गया सामान्य समय क्या है?

Ans
1. 12.5 मिनट ✗
2. 15 मिनट ✓
3. 20 मिनट ✗
4. 10 मिनट ✗

Question Type : **MCQ**
Question ID : **264330139590**
Option 1 ID : **264330546777**
Option 2 ID : **264330546775**
Option 3 ID : **264330546776**
Option 4 ID : **264330546778**
Status : **Answered**
Chosen Option : **2**

Q.11 एक व्यापारी ने Rs. 4296 के अंकित मूल्य वाले एक ट्रॉली बैग पर 20 प्रतिशत की छूट दी और 20 प्रतिशत का लाभ अर्जित किया। ट्रॉली बैग का क्रय मूल्य क्या है?

Ans
1. Rs. 2572 ✗
2. Rs. 2864 ✓
3. Rs. 3026 ✗
4. Rs. 2500 ✗

Question Type : **MCQ**
Question ID : **264330140643**
Option 1 ID : **264330550919**
Option 2 ID : **264330550922**
Option 3 ID : **264330550920**
Option 4 ID : **264330550921**
Status : **Answered**
Chosen Option : **2**

Q.12 एक गोलाकार गेंद की त्रिज्या 1.1 cm है। गेंद का पृष्ठीय क्षेत्रफल ज्ञात कीजिए।

Ans
1. 11.2 cm^2 ✗
2. 16 cm^2 ✗
3. 15.2 cm^2 ✓
4. 12.1 cm^2 ✗

Question Type : **MCQ**
Question ID : **264330138388**
Option 1 ID : **264330542159**
Option 2 ID : **264330542162**
Option 3 ID : **264330542161**
Option 4 ID : **264330542160**
Status : **Answered**
Chosen Option : **3**

Join Telegram Group "HaryanaJobs.in"

Q.13 वह सबसे छोटी पूर्ण वर्ग संख्या कौन-सी है जो 8 और 12 दोनों से भाज्य है?

Ans
1. 100 ✗
2. 121 ✗
3. 144 ✓
4. 196 ✗

Question Type : **MCQ**
Question ID : **264330140626**
Option 1 ID : **264330550853**
Option 2 ID : **264330550854**
Option 3 ID : **264330550852**
Option 4 ID : **264330550851**
Status : **Answered**
Chosen Option : **3**

Q.14 यदि एक ठोस अर्धगोले के अगोलीय भाग का क्षेत्रफल 1560 m^2 है, तो अर्धगोले का कुल पृष्ठीय क्षेत्रफल कितना होगा?

Ans
1. 4680 m^2 ✓
2. 3120 m^2 ✗
3. 5140 m^2 ✗
4. 6240 m^2 ✗

Question Type : **MCQ**
Question ID : **264330138744**
Option 1 ID : **264330543583**
Option 2 ID : **264330543584**
Option 3 ID : **264330543586**
Option 4 ID : **264330543585**
Status : **Answered**
Chosen Option : **1**

Q.15 राहुल और रमन ने क्रमशः Rs.16000 और Rs.12000 का निवेश करके एक व्यवसाय शुरू किया। 4 महीने बाद, राहुल ने व्यवसाय छोड़ दिया और मोहन Rs.20000 का निवेश करके व्यवसाय में शामिल हो गया। वर्ष के अंत में, Rs.46000 का लाभ हुआ। लाभ में मोहन का हिस्सा कितना होगा?

Ans
1. Rs.28700 ✗
2. Rs.23400 ✗
3. Rs.36800 ✗
4. Rs.20000 ✓

Question Type : **MCQ**
Question ID : **264330139920**
Option 1 ID : **264330548060**
Option 2 ID : **264330548059**
Option 3 ID : **264330548062**
Option 4 ID : **264330548061**
Status : **Answered**
Chosen Option : **4**

Join Telegram Group "HaryanaJobs.in"

Q.16 Rs.3500 की राशि दो हिस्सों में साधारण ब्याज पर ऋण पर दी जाती है। एक हिस्सा 7 प्रतिशत वार्षिक दर पर और दूसरा हिस्सा 5 प्रतिशत वार्षिक दर पर। यदि कुल वार्षिक ब्याज Rs.210 है, तो 7 प्रतिशत दर पर ऋण पर दी गई राशि कितनी है?

Ans

✔ 1. Rs.1750

✘ 2. Rs.2000

✘ 3. Rs.2250

✘ 4. Rs.1500

Question Type : **MCQ**
Question ID : **264330139922**
Option 1 ID : **264330548068**
Option 2 ID : **264330548067**
Option 3 ID : **264330548069**
Option 4 ID : **264330548070**
Status : **Answered**
Chosen Option : **1**

Q.17 $\frac{49}{8} \times \frac{2}{3} \div \frac{98}{16} \times \frac{12}{4}$ का मान क्या है?

Ans

✘ 1. 1

✔ 2. 2

✘ 3. 7

✘ 4. 9

Question Type : **MCQ**
Question ID : **264330140255**
Option 1 ID : **264330549399**
Option 2 ID : **264330549400**
Option 3 ID : **264330549402**
Option 4 ID : **264330549401**
Status : **Answered**
Chosen Option : **2**

Join Telegram Group "HaryanaJobs.in"

Q.18 नीचे दी गई तालिका में 6 वस्तुओं का अंकित मूल्य और विक्रय मूल्य दर्शाया गया है।

वस्तुएँ	अंकित मूल्य	विक्रय मूल्य
A1	650	550
A2	500	350
A3	550	400
A4	350	300
A5	750	550
A6	250	200

बट्टा = अंकित मूल्य - विक्रय मूल्य

J1 = वस्तु A1, A2, A3 और A4 पर दिए गए बट्टों का औसत मूल्य।

J2 = सभी वस्तुओं के अंकित मूल्य और विक्रय मूल्य के बीच का अंतर।

(J2 − J1) का मान क्या है?

Ans
✔ 1. 587.5
✘ 2. 592.5
✘ 3. 576.5
✘ 4. 552.5

Question Type : **MCQ**
Question ID : **264330140171**
Option 1 ID : **264330549063**
Option 2 ID : **264330549065**
Option 3 ID : **264330549064**
Option 4 ID : **264330549066**
Status : **Answered**
Chosen Option : **1**

Q.19 एक व्यक्ति द्वारा Rs. 8500 के मूलधन पर 10 वर्षों में प्राप्त साधारण ब्याज मूलधन का 180 प्रतिशत है। वार्षिक ब्याज दर क्या है?

Ans
✘ 1. 20 प्रतिशत
✔ 2. 18 प्रतिशत
✘ 3. 22.5 प्रतिशत
✘ 4. 25 प्रतिशत

Question Type : **MCQ**
Question ID : **264330139026**
Option 1 ID : **264330544712**
Option 2 ID : **264330544711**
Option 3 ID : **264330544713**
Option 4 ID : **264330544714**
Status : **Answered**
Chosen Option : **2**

Join Telegram Group "HaryanaJobs.in"

Q.20 7800 के 75 प्रतिशत के 32 प्रतिशत का मान क्या होगा?

Ans
✔ 1. 1872
✘ 2. 1850
✘ 3. 2042
✘ 4. 1952

Question Type : **MCQ**
Question ID : **264330139956**
Option 1 ID : **264330548205**
Option 2 ID : **264330548203**
Option 3 ID : **264330548204**
Option 4 ID : **264330548206**
Status : **Answered**
Chosen Option : **1**

Section : **Reasoning Ability and Problem Solving**

Q.1 उस विकल्प को चुनिए जो तीसरे अक्षर-समूह से ठीक उसी प्रकार संबंधित है जिस प्रकार दूसरा अक्षर-समूह पहले अक्षर-समूह से संबंधित है।
STUDY : TUVEZ : : HUMBLE : ?

Ans
✘ 1. INVCMF
✔ 2. IVNCMF
✘ 3. IVNCFM
✘ 4. IVNFCM

Question Type : **MCQ**
Question ID : **264330139992**
Option 1 ID : **264330548348**
Option 2 ID : **264330548350**
Option 3 ID : **264330548347**
Option 4 ID : **264330548349**
Status : **Answered**
Chosen Option : **2**

Q.2 सात लड़कियों आन्या, बीरा, क्लियो, डायना, एली, फातिमा और जॉर्जिया में प्रत्येक की उम्र अलग-अलग है। फातिमा केवल क्लियो से बड़ी है। बीरा केवल जॉर्जिया से छोटी है। डायना चार अन्य लड़कियों से बड़ी है। आन्या, एली से छोटी है। लड़कियों में चौथी सबसे बड़ी कौन है?

Ans
✘ 1. फातिमा
✘ 2. डायना
✘ 3. बीरा
✔ 4. एली

Question Type : **MCQ**
Question ID : **264330140420**
Option 1 ID : **264330550062**
Option 2 ID : **264330550060**
Option 3 ID : **264330550059**
Option 4 ID : **264330550061**
Status : **Answered**
Chosen Option : **4**

Join Telegram Group "HaryanaJobs.in"

Q.3 उस विकल्प को चुनिए जो तीसरी संख्या से ठीक उसी तरह संबंधित है जिस तरह दूसरी संख्या पहली संख्या से संबंधित है।
11 : 1342 :: 7 : ?

Ans
✔ 1. 350
✗ 2. 250
✗ 3. 360
✗ 4. 340

Question Type : **MCQ**
Question ID : **264330140046**
Option 1 ID : **264330548564**
Option 2 ID : **264330548565**
Option 3 ID : **264330548566**
Option 4 ID : **264330548563**
Status : **Answered**
Chosen Option : **1**

Q.4 दी गई श्रृंखला में निम्नलिखित में से कौन-सी संख्या प्रश्न चिन्ह (?) के स्थान पर आएगी?
-67, -64, -58, -49, -37, -22, ?

Ans
✔ 1. -4
✗ 2. 2
✗ 3. 4
✗ 4. -2

Question Type : **MCQ**
Question ID : **264330140003**
Option 1 ID : **264330548392**
Option 2 ID : **264330548393**
Option 3 ID : **264330548394**
Option 4 ID : **264330548391**
Status : **Answered**
Chosen Option : **1**

Q.5 Rohan, Rajiv, Ritu, Rishav, and Ritika are sitting in a circle facing away from the centre. Rohan and Rajiv are not sitting together. Rishav and Ritika are sitting immediately next to each other, and Rajiv is sitting to the immediate left of Rishav. Who is sitting to the immediate left of Ritu?

Ans
✗ 1. Rishav
✗ 2. Ritika
✔ 3. Rohan
✗ 4. Rajiv

Question Type : **MCQ**
Question ID : **264330138795**
Option 1 ID : **264330543789**
Option 2 ID : **264330543790**
Option 3 ID : **264330543787**
Option 4 ID : **264330543788**
Status : **Answered**
Chosen Option : **3**

Join Telegram Group "HaryanaJobs.in"

Q.6 एक निश्चित कूट भाषा में, 'GLAND' को '62437' लिखा जाता है, 'GRIND' को '34869' लिखा जाता है, 'MAIN' को '5692' लिखा जाता है। उस कूट भाषा में 'A' को कैसे लिखा जाएगा?

Ans

1. 9 ✗
2. 2 ✓
3. 6 ✗
4. 5 ✗

Question Type : **MCQ**
Question ID : **264330139572**
Option 1 ID : **264330546705**
Option 2 ID : **264330546706**
Option 3 ID : **264330546704**
Option 4 ID : **264330546703**
Status : **Answered**
Chosen Option : **3**

Q.7 तीन कथन दिए गए हैं और दो निष्कर्ष I और II दिए गए हैं। कथनों को सत्य मानते हुए, चाहे वे सामान्यतः ज्ञात तथ्यों से अलग प्रतीत होते हों, निश्चय कीजिए कि कौन-सा निष्कर्ष तार्किक रूप से कथनों के अनुसार है।

कथन:

कुछ घर, फ्लैट हैं।

कुछ फ्लैट, आलीशान हैं।

सभी आलीशान, महंगे हैं।

निष्कर्ष:

I. कुछ फ्लैट, महंगे हैं।

II. कुछ घर, आलीशान हैं।

Ans

1. दोनों निष्कर्ष I और II कथनों के अनुसार हैं ✗
2. निष्कर्ष I और II में से कोई भी कथनों के अनुसार नहीं है ✗
3. सिर्फ निष्कर्ष I कथनों के अनुसार है ✓
4. सिर्फ निष्कर्ष II कथनों के अनुसार है ✗

Question Type : **MCQ**
Question ID : **264330140402**
Option 1 ID : **264330549989**
Option 2 ID : **264330549990**
Option 3 ID : **264330549987**
Option 4 ID : **264330549988**
Status : **Answered**
Chosen Option : **3**

Join Telegram Group "HaryanaJobs.in"

Q.8 दो कथन दिए गए हैं और दो निष्कर्ष I और II दिए गए हैं। कथनों को सत्य मानते हुए, चाहे वे सामान्यतः ज्ञात तथ्यों से अलग प्रतीत होते हों, निश्चय कीजिए कि कौन-सा निष्कर्ष तार्किक रूप से कथनों के अनुसार है।

कथन:

कोई सेब, स्वादिष्ट नहीं है।

कुछ स्वादिष्ट, कड़वे हैं।

निष्कर्ष:

I. कुछ सेब, कड़वे हैं।

II. कोई स्वादिष्ट, सेब नहीं है।

Ans

1. दोनों निष्कर्ष I और II कथनों के अनुसार हैं
2. सिर्फ निष्कर्ष II कथनों के अनुसार है
3. न तो निष्कर्ष I और न ही II कथनों के अनुसार है
4. सिर्फ निष्कर्ष I कथनों के अनुसार है

Question Type : **MCQ**
Question ID : **264330140042**
Option 1 ID : **264330548549**
Option 2 ID : **264330548548**
Option 3 ID : **264330548550**
Option 4 ID : **264330548547**
Status : **Answered**
Chosen Option : **2**

Q.9 किन दो चिन्हों को आपस में बदलने पर दिए गए समीकरण का मान '11' होगा?

32 + 3 − 12 ÷ 18 × 9

Ans

1. ÷ और −
2. × और −
3. ÷ और ×
4. + और −

Question Type : **MCQ**
Question ID : **264330140068**
Option 1 ID : **264330548651**
Option 2 ID : **264330548654**
Option 3 ID : **264330548652**
Option 4 ID : **264330548653**
Status : **Answered**
Chosen Option : **3**

Join Telegram Group "HaryanaJobs.in"

Q.10 निम्नलिखित प्रश्न में, दी गई श्रृंखला में लुप्त संख्या को चुनिए।

4, 6, 8, 10, ?, 14

Ans
1. 11 ✗
2. 14 ✗
3. 12 ✓
4. 15 ✗

Question Type : **MCQ**
Question ID : **264330139579**
Option 1 ID : **264330546734**
Option 2 ID : **264330546732**
Option 3 ID : **264330546731**
Option 4 ID : **264330546733**
Status : **Answered**
Chosen Option : **3**

Q.11 एक निश्चित कूट भाषा में, 'LION' को 'MKPP' लिखा जाता है और 'DEER' को 'EGFT' लिखा जाता है। उस कूट भाषा में 'GOAT' को कैसे लिखा जाएगा?

Ans
1. HPBV ✗
2. HQBV ✓
3. HQCV ✗
4. HQBU ✗

Question Type : **MCQ**
Question ID : **264330140455**
Option 1 ID : **264330550201**
Option 2 ID : **264330550200**
Option 3 ID : **264330550202**
Option 4 ID : **264330550199**
Status : **Answered**
Chosen Option : **2**

Q.12 दिए गए समीकरण को सही करने के लिए किन दो चिन्हों को आपस में बदला जाना चाहिए?
8 = 5 − 31 + 12 ÷ 2 × 15

Ans
1. ÷ और - ✗
2. × और = ✓
3. - और + ✗
4. + और ÷ ✗

Question Type : **MCQ**
Question ID : **264330140089**
Option 1 ID : **264330548735**
Option 2 ID : **264330548737**
Option 3 ID : **264330548736**
Option 4 ID : **264330548738**
Status : **Answered**
Chosen Option : **2**

Join Telegram Group "HaryanaJobs.in"

Q.13 उस विकल्प को चुनिए जिसमें समुच्चय की संख्याएँ वही संबंध साझा करती हैं जो दिए गए समुच्चय में संख्याओं द्वारा साझा किया जाता है। (ध्यान दें: संख्याओं को उनके घटक अंकों में अलग-अलग किए बिना,पूर्ण संख्याओं पर संक्रियाएँ की जानी चाहिए। उदा. 13 – 13 पर संक्रियाएँ जैसे 13 को जोड़ना /घटाना /गुणा करना आदि किया जा सकता है। 13 को 1 और 3 में अलग-अलग करने की और फिर 1 और 3 पर गणितीय संक्रियाएँ करने की अनुमति नहीं है)

(500, 450, 400)

(600, 550, 500)

Ans

✔ 1. (400, 350, 300)

✘ 2. (800, 750, 650)

✘ 3. (350, 300, 200)

✘ 4. (300, 350, 250)

Question Type : **MCQ**
Question ID : **264330140067**
Option 1 ID : **264330548648**
Option 2 ID : **264330548650**
Option 3 ID : **264330548649**
Option 4 ID : **264330548647**
Status : **Answered**
Chosen Option : **1**

Q.14 उस विकल्प को चुनिए जो पाँचवें पद से ठीक उसी प्रकार संबंधित है जिस प्रकार दूसरा पद पहले पद से संबंधित है और चौथा पद तीसरे पद से संबंधित है।

ABC : EWJ :: JHK : NCR :: PMT : ?

Ans

✔ 1. THA

✘ 2. TGA

✘ 3. TJC

✘ 4. TIB

Question Type : **MCQ**
Question ID : **264330139570**
Option 1 ID : **264330546696**
Option 2 ID : **264330546695**
Option 3 ID : **264330546698**
Option 4 ID : **264330546697**
Status : **Answered**
Chosen Option : **1**

Join Telegram Group "HaryanaJobs.in"

Q.15 उस विकल्प आकृति को चुनिए जो नीचे दी गई आकृति में पैटर्न को पूरा करने के लिए प्रश्न चिन्ह (?) के स्थान पर आएगी। (घूर्णन की अनुमति नहीं है)।

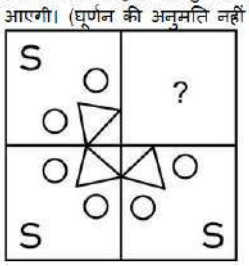

Ans

✗ 1.

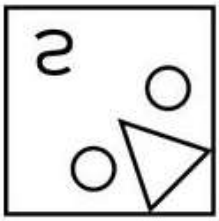

✓ 2.

✗ 3.

✗ 4.

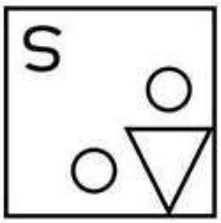

Question Type : **MCQ**
Question ID : **264330140152**
Option 1 ID : **264330548987**
Option 2 ID : **264330548990**
Option 3 ID : **264330548988**
Option 4 ID : **264330548989**
Status : **Answered**
Chosen Option : **2**

Join Telegram Group "HaryanaJobs.in"

Q.16 दी गई श्रृंखला में निम्नलिखित में से कौन-सा अक्षर प्रश्न चिन्ह (?) के स्थान पर आएगा?
N, P, R, T, V, X, ?

Ans
1. S
2. M
3. Z
4. R

Question Type : **MCQ**
Question ID : **264330138766**
Option 1 ID : **264330543674**
Option 2 ID : **264330543671**
Option 3 ID : **264330543672**
Option 4 ID : **264330543673**
Status : **Answered**
Chosen Option : **3**

Q.17 एक निश्चित कूट भाषा में, 'PASTA' को 'AP19AT' लिखा जाता है। उस भाषा में 'VOCAL' को कैसे लिखा जाएगा?

Ans
1. O3VLA
2. OVL3A
3. OU8AL
4. OV3LA

Question Type : **MCQ**
Question ID : **264330137837**
Option 1 ID : **264330539958**
Option 2 ID : **264330539956**
Option 3 ID : **264330539957**
Option 4 ID : **264330539955**
Status : **Answered**
Chosen Option : **4**

Join Telegram Group "HaryanaJobs.in"

Q.18 उस विकल्प आकृति को चुनिए जिसमें दी गई आकृति निहित है।(घूर्णन की अनुमति नहीं है)

Ans

1.

2.

3.

4.

Question Type : **MCQ**
Question ID : **264330140973**
Option 1 ID : **264330552240**
Option 2 ID : **264330552239**
Option 3 ID : **264330552241**
Option 4 ID : **264330552242**
Status : **Answered**
Chosen Option : **2**

Join Telegram Group "HaryanaJobs.in"

Q.19 यदि एक दर्पण को रेखा AB पर रखा जाए, तो दी गई विकल्प आकृतियों में से कौन-सी आकृति प्रश्न आकृति का सही प्रतिबिम्ब होगी?

Ans

✗ 1.

✓ 2.

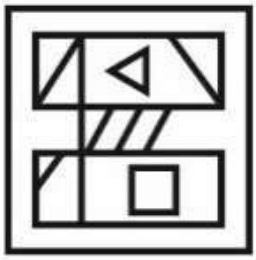

✗ 3.

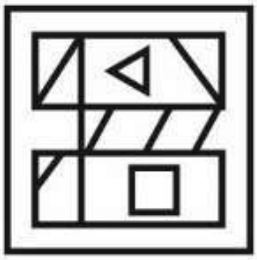

✗ 4.

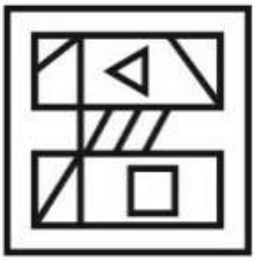

Question Type : **MCQ**
Question ID : **264330139566**
Option 1 ID : **264330546680**
Option 2 ID : **264330546682**
Option 3 ID : **264330546681**
Option 4 ID : **264330546679**
Status : **Answered**
Chosen Option : **2**

Join Telegram Group "HaryanaJobs.in"

Q.20 तीन चिड़ियाएँ A, B और C एक विद्युत तार पर एक सीधी रेखा में दक्षिण की ओर मुख करके बैठी हैं। तीन कौवे X, Y, और Z एक दूसरे समानांतर विद्युत तार पर उत्तर की ओर मुख करके बैठे हैं। A, B के ठीक बाईं ओर बैठी है, और A का मुख Z की ओर है। यदि B, A और C के बीच में बैठी है, और C का मुख Y की ओर है, तो Y के ठीक दाईं ओर कौन बैठा है?

Ans
✔ 1. X
✘ 2. Z
✘ 3. B
✘ 4. A

Question Type : **MCQ**
Question ID : **264330140018**
Option 1 ID : **264330548452**
Option 2 ID : **264330548451**
Option 3 ID : **264330548453**
Option 4 ID : **264330548454**
Status : **Answered**
Chosen Option : **1**

Section : **General Awareness**

Q.1 फरवरी 2022 में, भारत सरकार ने यूक्रेन में फंसे भारतीयों को वापस लाने के लिए कौन-सा ऑपरेशन चलाया था?

Ans
✘ 1. ऑपरेशन फ्लड (Operation Flood)
✔ 2. ऑपरेशन गंगा (Operation Ganga)
✘ 3. ऑपरेशन कीव (Operation Kiev)
✘ 4. ऑपरेशन मॉस्को (Operation Moscow)

Question Type : **MCQ**
Question ID : **264330140276**
Option 1 ID : **264330549483**
Option 2 ID : **264330549484**
Option 3 ID : **264330549485**
Option 4 ID : **264330549486**
Status : **Answered**
Chosen Option : **2**

Q.2 वर्ष 1952 के ओलंपिक खेल निम्नलिखित में से किस शहर में आयोजित किए गए थे?

Ans
✘ 1. न्यूयॉर्क
✘ 2. बर्लिन
✘ 3. लंदन
✔ 4. हेलसिंकी

Question Type : **MCQ**
Question ID : **264330139676**
Option 1 ID : **264330547119**
Option 2 ID : **264330547121**
Option 3 ID : **264330547120**
Option 4 ID : **264330547122**
Status : **Answered**
Chosen Option : **1**

Join Telegram Group "HaryanaJobs.in"

Q.3 "गलगंड" निम्नलिखित में से किस ग्रंथि की एक बीमारी है?

Ans
1. अधिवृक्क ग्रंथि
2. अग्न्याशय
3. थाइरॉइड ग्रंथि
4. पीयूष ग्रंथि

Question Type : **MCQ**
Question ID : **264330139737**
Option 1 ID : **264330547365**
Option 2 ID : **264330547366**
Option 3 ID : **264330547363**
Option 4 ID : **264330547364**
Status : **Answered**
Chosen Option : **3**

Q.4 निम्नलिखित में से कौन-सा कृषि आधारित उद्योग (agro-based industry) है?

Ans
1. लोहा और इस्पात
2. एल्यूमीनियम
3. कोयला
4. चीनी

Question Type : **MCQ**
Question ID : **264330140685**
Option 1 ID : **264330551087**
Option 2 ID : **264330551088**
Option 3 ID : **264330551090**
Option 4 ID : **264330551089**
Status : **Answered**
Chosen Option : **4**

Q.5 प्रसिद्ध पांडवलेनी गुफाएँ निम्नलिखित में से किस राज्य में स्थित हैं?

Ans
1. उड़ीसा
2. महाराष्ट्र
3. बिहार
4. केरल

Question Type : **MCQ**
Question ID : **264330140346**
Option 1 ID : **264330549765**
Option 2 ID : **264330549764**
Option 3 ID : **264330549763**
Option 4 ID : **264330549766**
Status : **Answered**
Chosen Option : **1**

Join Telegram Group "HaryanaJobs.in"

Q.6 Snails is an example of which of the phylum of animal kingdom?

Ans
1. Annelida ✗
2. Mollusca ✓
3. Protochordate ✗
4. Arthropoda ✗

Question Type : **MCQ**
Question ID : **264330140937**
Option 1 ID : **264330552096**
Option 2 ID : **264330552098**
Option 3 ID : **264330552095**
Option 4 ID : **264330552097**
Status : **Answered**
Chosen Option : **2**

Q.7 भारत की समुद्री तट रेखा जिसमें अंडमान और निकोबार द्वीप समूह तथा लक्षद्वीप समूह भी शामिल हैं, _____ लंबी है।

Ans
1. 7416.6 km ✗
2. 7616 km ✗
3. 7516.6 km ✓
4. 7716 km ✗

Question Type : **MCQ**
Question ID : **264330139666**
Option 1 ID : **264330547079**
Option 2 ID : **264330547081**
Option 3 ID : **264330547080**
Option 4 ID : **264330547082**
Status : **Answered**
Chosen Option : **1**

Q.8 मल्लिका साराभाई को कला प्रदर्शन में उनके योगदान के लिए पद्म भूषण (2010) से सम्मानित किया गया था। वह किस नृत्य शैली के लिए जानी जाती थीं?

Ans
1. कुचिपुड़ी और भरतनाट्यम ✓
2. मणिपुरी और ओडिसी ✗
3. कथकली और ओडिसी ✗
4. कथक और भरतनाट्यम ✗

Question Type : **MCQ**
Question ID : **264330139680**
Option 1 ID : **264330547135**
Option 2 ID : **264330547136**
Option 3 ID : **264330547138**
Option 4 ID : **264330547137**
Status : **Answered**
Chosen Option : **1**

Join Telegram Group "HaryanaJobs.in"

Q.9 निम्नलिखित पद - ड्रिब्लिंग (Dribbling), पासिंग (passing), शूटिंग (shooting) किस खेल से संबंधित हैं?

Ans
1. निशानेबाजी
2. बैडमिंटन
3. क्रिकेट
4. बास्केटबॉल

Question Type : **MCQ**
Question ID : **264330140884**
Option 1 ID : **264330551883**
Option 2 ID : **264330551886**
Option 3 ID : **264330551885**
Option 4 ID : **264330551884**
Status : **Answered**
Chosen Option : **1**

Q.10 2011 की जनगणना के अनुसार भारत में आदिवासियों की जनसंख्या (निकटतम मान) कितनी है?

Ans
1. 16.45 करोड़
2. 10.42 करोड़
3. 12.45 करोड़
4. 14.45 करोड़

Question Type : **MCQ**
Question ID : **264330139886**
Option 1 ID : **264330547926**
Option 2 ID : **264330547923**
Option 3 ID : **264330547924**
Option 4 ID : **264330547925**
Status : **Answered**
Chosen Option : **2**

Q.11 शकों पर विजय प्राप्त करने के पश्चात निम्नलिखित में से किसने 'विक्रमादित्य' की उपाधि धारण की थी?

Ans
1. चंद्रगुप्त प्रथम
2. कुमारगुप्त प्रथम
3. चंद्रगुप्त द्वितीय
4. स्कंदगुप्त

Question Type : **MCQ**
Question ID : **264330140944**
Option 1 ID : **264330552125**
Option 2 ID : **264330552124**
Option 3 ID : **264330552126**
Option 4 ID : **264330552123**
Status : **Answered**
Chosen Option : **3**

Join Telegram Group "HaryanaJobs.in"

Q.12 लोक सभा के समक्ष वार्षिक बजट कौन प्रस्तुत करता है?

Ans
✔ 1. केंद्रीय वित्त मंत्री
✘ 2. गृहमंत्री
✘ 3. रक्षा मंत्री
✘ 4.

भारत के नियंत्रक एवं महालेखापरीक्षक (Comptroller and Auditor General of India)

Question Type : **MCQ**
Question ID : **264330140391**
Option 1 ID : **264330549944**
Option 2 ID : **264330549946**
Option 3 ID : **264330549945**
Option 4 ID : **264330549943**
Status : **Answered**
Chosen Option : **1**

Q.13 The upper portion of the mantle is called _____.

Ans
✘ 1. lithosphere
✔ 2. asthenosphere
✘ 3. barosphere
✘ 4. mesosphere

Question Type : **MCQ**
Question ID : **264330140325**
Option 1 ID : **264330549679**
Option 2 ID : **264330549680**
Option 3 ID : **264330549681**
Option 4 ID : **264330549682**
Status : **Answered**
Chosen Option : **1**

Q.14 पद, वेतन और सैन्य उत्तरदायित्व निर्धारित करने के लिए मुगलों द्वारा चलाई गई श्रेणी व्यवस्था को _____ कहा जाता था।

Ans
✘ 1. महालवाड़ी व्यवस्था
✔ 2. मनसबदारी व्यवस्था
✘ 3. इक्ता व्यवस्था
✘ 4. रैयतवाड़ी व्यवस्था

Question Type : **MCQ**
Question ID : **264330139770**
Option 1 ID : **264330547498**
Option 2 ID : **264330547495**
Option 3 ID : **264330547496**
Option 4 ID : **264330547497**
Status : **Answered**
Chosen Option : **2**

Join Telegram Group "HaryanaJobs.in"

Q.15 भारत के पड़ोसी देश, बांग्लादेश की मुद्रा क्या है?

Ans
1. नोंग्त्रुम (Ngultrum)
2. युआन (Yuan)
3. टका (Taka)
4. क्यात (Kyat)

Question Type : **MCQ**
Question ID : **264330140329**
Option 1 ID : **264330549695**
Option 2 ID : **264330549697**
Option 3 ID : **264330549696**
Option 4 ID : **264330549698**
Status : **Answered**
Chosen Option : **3**

Q.16 2022 की स्थिति के अनुसार, 2022 में पद्म श्री पुरस्कार से सम्मानित होने वाली भारत की अंतिम जीवित सदिर नर्तकी (Sadhir dancer) कौन हैं?

Ans
1. मंजम्मा जोगति (Manjamma Jogati)
2. आर मुथुकन्नमल (R Muthukannammal)
3. बैसाली मोहंती (Baisali Mohanty)
4. रुक्मिणी देवी अरुंडेल (Rukmini Devi Arundale)

Question Type : **MCQ**
Question ID : **264330140745**
Option 1 ID : **264330551327**
Option 2 ID : **264330551329**
Option 3 ID : **264330551328**
Option 4 ID : **264330551330**
Status : **Answered**
Chosen Option : **1**

Q.17 भारतीय संविधान में "संविधान संशोधन (Amendment of the Constitution)" की अवधारणा निम्नलिखित में से किस देश के संविधान से ली गई है?

Ans
1. कनाडा
2. दक्षिण अफ्रीका
3. जर्मनी
4. ऑस्ट्रेलिया

Question Type : **MCQ**
Question ID : **264330140362**
Option 1 ID : **264330549830**
Option 2 ID : **264330549829**
Option 3 ID : **264330549827**
Option 4 ID : **264330549828**
Status : **Answered**
Chosen Option : **2**

Join Telegram Group "HaryanaJobs.in"

Q.18 निम्नलिखित में से कौन-सा नृत्य विशेष रूप से कामड (Kamad) जनजाति की महिलाओं द्वारा किया जाता है?

Ans
✔ 1. तेरहताली नृत्य (Terataal dance)
✘ 2. गरई नृत्य (Garai dance)
✘ 3. भूटिया नृत्य (Bhutia dance)
✘ 4. मुखौटा नृत्य (Mask dance)

Question Type : **MCQ**
Question ID : **264330140267**
Option 1 ID : **264330549448**
Option 2 ID : **264330549450**
Option 3 ID : **264330549447**
Option 4 ID : **264330549449**
Status : **Answered**
Chosen Option : **1**

Q.19 ग्राम सभा एक _____ के क्षेत्र में रहने वाले सभी वयस्कों की सभा होती है।

Ans
✘ 1. ज़िला
✔ 2. पंचायत
✘ 3. शहर
✘ 4. राज्य

Question Type : **MCQ**
Question ID : **264330139659**
Option 1 ID : **264330547052**
Option 2 ID : **264330547053**
Option 3 ID : **264330547051**
Option 4 ID : **264330547054**
Status : **Answered**
Chosen Option : **2**

Q.20 भारतीय संगीतकार उस्ताद अल्ला रक्खा कुरैशी का संबंध _____ वाद्ययंत्र से है।

Ans
✘ 1. सरोद
✔ 2. तबला
✘ 3. संतूर
✘ 4. बाँसुरी

Question Type : **MCQ**
Question ID : **264330140769**
Option 1 ID : **264330551425**
Option 2 ID : **264330551423**
Option 3 ID : **264330551424**
Option 4 ID : **264330551426**
Status : **Answered**
Chosen Option : **1**

Join Telegram Group "HaryanaJobs.in"

Q.21 वर्ष 1773 में मुख्य रूप से बंगाल में ईस्ट इंडिया कंपनी के क्षेत्रों को नियंत्रित करने के लिए ब्रिटिश संसद ने कौन-सा एक्ट (अधिनियम) पारित किया गया था?

Ans
✔ 1. रेग्यूलेटिंग एक्ट
✘ 2. चार्टर एक्ट
✘ 3. इंडियन काउंसिल्स एक्ट
✘ 4. गवर्नमेंट ऑफ इंडिया एक्ट

Question Type : **MCQ**
Question ID : **264330140332**
Option 1 ID : **264330549710**
Option 2 ID : **264330549707**
Option 3 ID : **264330549708**
Option 4 ID : **264330549709**
Status : **Answered**
Chosen Option : **1**

Q.22 Henry Louis Vivian Derozio was a teacher of which college in 1820s?

Ans
✘ 1. Sanskrit college, Varanasi
✘ 2. Indian Institute of science, Bangalore
✘ 3. Banaras Engineering college, Varanasi
✔ 4. Hindu college, Calcutta

Question Type : **MCQ**
Question ID : **264330140904**
Option 1 ID : **264330551966**
Option 2 ID : **264330551965**
Option 3 ID : **264330551963**
Option 4 ID : **264330551964**
Status : **Answered**
Chosen Option : **1**

Q.23 The materials, through which things can be seen, are called _____.

Ans
✘ 1. translucent materials
✘ 2. conductive materials
✘ 3. opaque materials
✔ 4. transparent materials

Question Type : **MCQ**
Question ID : **264330139664**
Option 1 ID : **264330547072**
Option 2 ID : **264330547074**
Option 3 ID : **264330547073**
Option 4 ID : **264330547071**
Status : **Answered**
Chosen Option : **4**

Join Telegram Group "HaryanaJobs.in"

Q.24 Under which amendment act, article 51A (k) of the Indian constitution was inserted in the constitution?

Ans

✗ 1. Eighty – second amendment Act

✗ 2. Eighty – first amendment Act

✓ 3. Eighty – sixth amendment Act

✗ 4. Eighty – fourth amendment Act

Question Type : **MCQ**
Question ID : **264330138983**
Option 1 ID : **264330544540**
Option 2 ID : **264330544539**
Option 3 ID : **264330544542**
Option 4 ID : **264330544541**
Status : **Answered**
Chosen Option : **1**

Q.25 ब्रिटिश भारत के किस स्वतंत्रता सेनानी को "द्वि-राष्ट्र सिद्धांत का जनक (father of the two-nation theory)" माना जाता है?

Ans

✗ 1. मोहम्मद अली जिन्ना

✗ 2. बाल गंगाधर तिलक

✓ 3. सैयद अहमद खान

✗ 4. जवाहरलाल नेहरू

Question Type : **MCQ**
Question ID : **264330140922**
Option 1 ID : **264330552035**
Option 2 ID : **264330552037**
Option 3 ID : **264330552038**
Option 4 ID : **264330552036**
Status : **Answered**
Chosen Option : **1**

Section : **English Language and Comprehension**

Q.1 Select the word from the options which is exactly opposite in meaning to the bracketed word given in the sentence below.

The pandemic has seen soaring home prices and record housing (insecurity).

Ans

✗ 1. Pretence

✗ 2. Hesitancy

✗ 3. Self-doubt

✓ 4. Firmness

Question Type : **MCQ**
Question ID : **264330136429**
Option 1 ID : **264330534478**
Option 2 ID : **264330534477**
Option 3 ID : **264330534476**
Option 4 ID : **264330534475**
Status : **Answered**
Chosen Option : **4**

Join Telegram Group "HaryanaJobs.in"

Q.2 Find the part of the given sentence that has an error in it. If there is no error, choose 'No error'.

Raising temperatures in the springtime signal plants and animals to come alive.

Ans

✗ 1. springtime signal plants and

✗ 2. No error

✗ 3. animals to come alive.

✓ 4. Raising temperatures in the

Question Type : **MCQ**
Question ID : **264330135232**
Option 1 ID : **264330529852**
Option 2 ID : **264330529854**
Option 3 ID : **264330529853**
Option 4 ID : **264330529851**
Status : **Answered**
Chosen Option : **4**

Q.3 Select the most appropriate option to fill in the blank.

Bushfire in Australia has _____ the conditions of many animals in the forest.

Ans

✓ 1. worsened

✗ 2. fortified

✗ 3. maintained

✗ 4. surpassed

Question Type : **MCQ**
Question ID : **264330135662**
Option 1 ID : **264330531546**
Option 2 ID : **264330531544**
Option 3 ID : **264330531543**
Option 4 ID : **264330531545**
Status : **Answered**
Chosen Option : **1**

Q.4 Four sentences are given, out of which three have spelling errors. Choose the sentence with all correctly spelt words.

Ans

✓ 1. Urban dwellers often accept noise as part of city life.

✗ 2. She is going to divorce him on the grounds of adultary.

✗ 3.
Its sanctions are based on compairisons between the two companies.

✗ 4. I was a bit depressed by our apparant lack of progress.

Question Type : **MCQ**
Question ID : **264330136584**
Option 1 ID : **264330535070**
Option 2 ID : **264330535069**
Option 3 ID : **264330535067**
Option 4 ID : **264330535068**
Status : **Answered**
Chosen Option : **1**

Join Telegram Group "HaryanaJobs.in"

Q.5 Select the most appropriate meaning of the given idiom.

A bad egg

Ans
1. To be frustrated ✗
2. To calm down ✗
3. A very small insignificant amount ✗
4. A bad person ✓

Question Type : **MCQ**
Question ID : **264330136181**
Option 1 ID : **264330533521**
Option 2 ID : **264330533522**
Option 3 ID : **264330533520**
Option 4 ID : **264330533519**
Status : **Answered**
Chosen Option : **4**

Q.6 Identify the segment that contains a grammatical error. If there is no error, select 'No error'.

Eight years ago, she founded / Humans of Bombay, inspired of / the single idea – we all want to be heard.

Ans
1. Eight years ago, she founded ✗
2. No error ✗
3. Humans of Bombay, inspired of ✓
4. the single idea – we all want to be heard. ✗

Question Type : **MCQ**
Question ID : **264330136410**
Option 1 ID : **264330534403**
Option 2 ID : **264330534406**
Option 3 ID : **264330534404**
Option 4 ID : **264330534405**
Status : **Answered**
Chosen Option : **3**

Q.7 Select the most appropriate synonym of the given word.

Enthuse

Ans
1. Fondle ✓
2. Lazy ✗
3. Carefree ✗
4. Unbothered ✗

Question Type : **MCQ**
Question ID : **264330136577**
Option 1 ID : **264330535042**
Option 2 ID : **264330535041**
Option 3 ID : **264330535039**
Option 4 ID : **264330535040**
Status : **Answered**
Chosen Option : **2**

Join Telegram Group "HaryanaJobs.in"

Q.8 Select the most appropriate option to fill in the blank.

Look in a mirror and take your _____ with each step.

Ans
✔ 1. time
✘ 2. plague
✘ 3. ages
✘ 4. hostage

Question Type : **MCQ**
Question ID : **264330135533**
Option 1 ID : **264330531037**
Option 2 ID : **264330531038**
Option 3 ID : **264330531036**
Option 4 ID : **264330531035**
Status : **Answered**
Chosen Option : **1**

Q.9 Identify the segment that contains a grammatical error. If there is no error, select 'No error'.

Have you ever gone into/ a high-street shop wearing/ a pair of cycling shorts?

Ans
✘ 1. a pair of cycling shorts?
✔ 2. No error
✘ 3. Have you ever gone into
✘ 4. a high-street shop wearing

Question Type : **MCQ**
Question ID : **264330136483**
Option 1 ID : **264330534681**
Option 2 ID : **264330534682**
Option 3 ID : **264330534679**
Option 4 ID : **264330534680**
Status : **Answered**
Chosen Option : **3**

Q.10 Select the most appropriate option to fill in the blank.

There was a general hesitation and _____ to ignore the problem.

Ans
✘ 1. Deride
✘ 2. Denigrate
✘ 3. Disposition
✔ 4. Demur

Question Type : **MCQ**
Question ID : **264330136542**
Option 1 ID : **264330534910**
Option 2 ID : **264330534909**
Option 3 ID : **264330534908**
Option 4 ID : **264330534907**
Status : **Answered**
Chosen Option : **3**

Join Telegram Group "HaryanaJobs.in"

Q.11 Select the most appropriate option to substitute the bracketed segment in the given sentence. If there is no need to substitute it, select 'no substitution required'.

Though they allow celebrities and famous people to take pictures (inside the museum, but they does not allow the general public) to do the same.

Ans

✔ 1. inside the museum, they do not allow the general public

✘ 2. inside the museum, but do not allowing the general public

✘ 3. inside the museum, they does not allow general public

✘ 4. No substitution required

Question Type : **MCQ**
Question ID : **264330136191**
Option 1 ID : **264330533561**
Option 2 ID : **264330533560**
Option 3 ID : **264330533559**
Option 4 ID : **264330533562**
Status : **Answered**
Chosen Option : **1**

Q.12 Select the most appropriate option to substitute the bracketed segment in the given sentence. If there is no need to substitute it, select 'no substitution required'.
I assisted him to undo the (task after I finished my work).

Ans

✘ 1. task after I will have finished my work

✘ 2. No substitution required

✘ 3. task after I will finish my work

✔ 4. task after I had finished my work

Question Type : **MCQ**
Question ID : **264330135823**
Option 1 ID : **264330532164**
Option 2 ID : **264330532166**
Option 3 ID : **264330532163**
Option 4 ID : **264330532165**
Status : **Answered**
Chosen Option : **1**

Q.13 Improve the underlined part of the sentence. Choose 'No improvement' as an answer if the sentence is grammatically correct.

She was born with full sight and hearing.

Ans

✘ 1. fully sight

✘ 2. full sighting

✔ 3. No improvement

✘ 4. full sighted

Question Type : **MCQ**
Question ID : **264330135642**
Option 1 ID : **264330531467**
Option 2 ID : **264330531469**
Option 3 ID : **264330531470**
Option 4 ID : **264330531468**
Status : **Answered**
Chosen Option : **2**

Join Telegram Group "HaryanaJobs.in"

Q.14 Select the most appropriate word for the given group of words.

The branch of physics concerned with the properties of sound

Ans
✔ 1. Acoustics
✘ 2. Anarchist
✘ 3. Anchor
✘ 4. Apiary

Question Type : **MCQ**
Question ID : **264330135677**
Option 1 ID : **264330531601**
Option 2 ID : **264330531600**
Option 3 ID : **264330531599**
Option 4 ID : **264330531602**
Status : **Answered**
Chosen Option : **1**

Q.15 Select the most appropriate word for the given group of words.

A historical account or biography written from personal knowledge

Ans
✘ 1. Chronicle
✘ 2. Blog
✘ 3. Thesis
✔ 4. Memoir

Question Type : **MCQ**
Question ID : **264330135860**
Option 1 ID : **264330532305**
Option 2 ID : **264330532303**
Option 3 ID : **264330532306**
Option 4 ID : **264330532304**
Status : **Answered**
Chosen Option : **1**

Q.16 Fill in the blank with the most appropriate option.

Harry stepped in, his head almost _____ the sloping ceiling, and blinked.

Ans
✘ 1. embracing
✘ 2. grasping
✔ 3. touching
✘ 4. cuddling

Question Type : **MCQ**
Question ID : **264330136567**
Option 1 ID : **264330535003**
Option 2 ID : **264330535004**
Option 3 ID : **264330535006**
Option 4 ID : **264330535005**
Status : **Answered**
Chosen Option : **3**

Join Telegram Group "HaryanaJobs.in"

Q.17 Select the most appropriate antonym of the given word.

Satisfactory

Ans

✗ 1. Diminish

✓ 2. Inadequate

✗ 3. Morose

✗ 4. Revive

Question Type : **MCQ**
Question ID : **264330135837**
Option 1 ID : **264330532217**
Option 2 ID : **264330532215**
Option 3 ID : **264330532216**
Option 4 ID : **264330532218**
Status : **Answered**
Chosen Option : **2**

Q.18 Four words are given, out of which three words are spelt correctly. Choose the incorrectly spelt word.

Ans

✗ 1. UNFORESEEN

✗ 2. STILETTOS

✓ 3. VISCIOUS

✗ 4. BEWILDERS

Question Type : **MCQ**
Question ID : **264330136287**
Option 1 ID : **264330533927**
Option 2 ID : **264330533929**
Option 3 ID : **264330533928**
Option 4 ID : **264330533930**
Status : **Answered**
Chosen Option : **2**

Q.19 The statement below has been given with bracketed text. Select the option with correct idiom for the bracketed text.

You all look great in your costumes! (Good luck!)

Ans

✓ 1. Break a leg

✗ 2. Spit it out

✗ 3. Come again

✗ 4. Don't swear it

Question Type : **MCQ**
Question ID : **264330136156**
Option 1 ID : **264330533425**
Option 2 ID : **264330533423**
Option 3 ID : **264330533426**
Option 4 ID : **264330533424**
Status : **Answered**
Chosen Option : **1**

Join Telegram Group "HaryanaJobs.in"

Q.20 Select the word from the options which is similar in meaning to the bracketed part given in the sentence below.
I was (feeling afraid) that something bad would happen.

Ans

✗ 1. Divine

✗ 2. Sacred

✓ 3. Scared

✗ 4. Bold

Question Type : **MCQ**
Question ID : **264330135862**
Option 1 ID : **264330532314**
Option 2 ID : **264330532312**
Option 3 ID : **264330532311**
Option 4 ID : **264330532313**
Status : **Answered**
Chosen Option : **3**

Comprehension:

In the following passage some words have been deleted. Fill in the blanks with the help of the alternatives given. Select the most appropriate option for each number.

Metal allergies can begin to act up (1) _____ minutes of putting earrings in your ears. Some people can go a few hours before having to (2) _____ the earrings out, but some can barely stand the (3) _____ enough to bother putting earrings in at all. This can be discouraging for those of us (4) _____ love to wear earrings, but fortunately hypoallergenic jewellery for (5) _____ ears exists!

SubQuestion No : 21

Q.21 Select the most appropriate option to fill in the blank No. 1.

Ans

✗ 1. with

✗ 2. of

✗ 3. about

✓ 4. within

Question Type : **MCQ**
Question ID : **264330136144**
Option 1 ID : **264330533376**
Option 2 ID : **264330533375**
Option 3 ID : **264330533378**
Option 4 ID : **264330533377**
Status : **Answered**
Chosen Option : **4**

Join Telegram Group "HaryanaJobs.in"

Comprehension:

In the following passage some words have been deleted. Fill in the blanks with the help of the alternatives given. Select the most appropriate option for each number.

Metal allergies can begin to act up (1) _____ minutes of putting earrings in your ears. Some people can go a few hours before having to (2) _____ the earrings out, but some can barely stand the (3) _____ enough to bother putting earrings in at all. This can be discouraging for those of us (4) _____ love to wear earrings, but fortunately hypoallergenic jewellery for (5) _____ ears exists!

SubQuestion No : 22

Q.22 Select the most appropriate option to fill in the blank No. 2.

Ans

✔ 1. take

✘ 2. expel

✘ 3. make

✘ 4. hand

Question Type : **MCQ**
Question ID : **264330136145**
Option 1 ID : **264330533379**
Option 2 ID : **264330533382**
Option 3 ID : **264330533380**
Option 4 ID : **264330533381**
Status : **Answered**
Chosen Option : **3**

Comprehension:

In the following passage some words have been deleted. Fill in the blanks with the help of the alternatives given. Select the most appropriate option for each number.

Metal allergies can begin to act up (1) _____ minutes of putting earrings in your ears. Some people can go a few hours before having to (2) _____ the earrings out, but some can barely stand the (3) _____ enough to bother putting earrings in at all. This can be discouraging for those of us (4) _____ love to wear earrings, but fortunately hypoallergenic jewellery for (5) _____ ears exists!

SubQuestion No : 23

Q.23 Select the most appropriate option to fill in the blank No. 3.

Ans

✘ 1. bomb

✘ 2. burn

✘ 3. knife

✔ 4. discomfort

Question Type : **MCQ**
Question ID : **264330136146**
Option 1 ID : **264330533384**
Option 2 ID : **264330533383**
Option 3 ID : **264330533385**
Option 4 ID : **264330533386**
Status : **Answered**
Chosen Option : **4**

Join Telegram Group "HaryanaJobs.in"

Comprehension:

In the following passage some words have been deleted. Fill in the blanks with the help of the alternatives given. Select the most appropriate option for each number.

Metal allergies can begin to act up (1) _____ minutes of putting earrings in your ears. Some people can go a few hours before having to (2) _____ the earrings out, but some can barely stand the (3) _____ enough to bother putting earrings in at all. This can be discouraging for those of us (4) _____ love to wear earrings, but fortunately hypoallergenic jewellery for (5) _____ ears exists!

SubQuestion No : 24

Q.24 Select the most appropriate option to fill in the blank No. 4.

Ans

✔ 1. who

✘ 2. whom

✘ 3. which

✘ 4. that

Question Type : **MCQ**
Question ID : **264330136147**
Option 1 ID : **264330533388**
Option 2 ID : **264330533390**
Option 3 ID : **264330533387**
Option 4 ID : **264330533389**
Status : **Answered**
Chosen Option : **1**

Comprehension:

In the following passage some words have been deleted. Fill in the blanks with the help of the alternatives given. Select the most appropriate option for each number.

Metal allergies can begin to act up (1) _____ minutes of putting earrings in your ears. Some people can go a few hours before having to (2) _____ the earrings out, but some can barely stand the (3) _____ enough to bother putting earrings in at all. This can be discouraging for those of us (4) _____ love to wear earrings, but fortunately hypoallergenic jewellery for (5) _____ ears exists!

SubQuestion No : 25

Q.25 Select the most appropriate option to fill in the blank No. 5.

Ans

✘ 1. soft

✘ 2. modern

✔ 3. sensitive

✘ 4. rustic

Question Type : **MCQ**
Question ID : **264330136148**
Option 1 ID : **264330533394**
Option 2 ID : **264330533391**
Option 3 ID : **264330533393**
Option 4 ID : **264330533392**
Status : **Answered**
Chosen Option : **3**

Join Telegram Group "HaryanaJobs.in"

Multi Tasking Non Technical Staff and Havaldar CBIC and CBN Examination 2022

Roll Number	HaryanaJobs.in
Candidate Name	HaryanaJobs.in
Venue Name	R K Digital Computer Centre 1
Exam Date	20/06/2023
Exam Time	9:00 AM - 10:30 AM
Subject	MTS Non Tech Havaldar CBIC and CBN Examination 2022

Section : **Numerical and Mathematical Ability**

Q.1 एक निश्चित राशि पर चौथे वर्ष के लिए चक्रवृद्धि ब्याज (वार्षिक रूप से संयोजित) Rs. 15000 है और छठे वर्ष के लिए चक्रवृद्धि ब्याज (वार्षिक रूप से संयोजित) Rs. 25350 है। वार्षिक ब्याज दर क्या है?

Ans

✗ 1. 25 प्रतिशत

✗ 2. 35 प्रतिशत

✗ 3. 40 प्रतिशत

✓ 4. 30 प्रतिशत

Question Type : **MCQ**
Question ID : **264330140642**
Option 1 ID : **264330550916**
Option 2 ID : **264330550917**
Option 3 ID : **264330550918**
Option 4 ID : **264330550915**
Status : **Answered**
Chosen Option : **4**

Q.2 8 महिलाएँ एक कार्य को 15 दिनों में पूरा कर सकती हैं। यदि 2 महिलाओं को काम पर लगाया जाए, तो कार्य कितने दिनों में पूरा होगा?

Ans

✗ 1. 44 दिनों में

✓ 2. 60 दिनों में

✗ 3. 64 दिनों में

✗ 4. 80 दिनों में

Question Type : **MCQ**
Question ID : **264330140239**
Option 1 ID : **264330549336**
Option 2 ID : **264330549335**
Option 3 ID : **264330549338**
Option 4 ID : **264330549337**
Status : **Answered**
Chosen Option : **2**

Join Telegram Group "HaryanaJobs.in"

Q.3 एक आदमी ने प्रत्येक Rs. 6075000 के मूल्य पर दो फ्लैट खरीदे। उसने एक फ्लैट 10% लाभ पर और दूसरा 15% हानि पर बेचा। कुल मिलाकर उसे कितने प्रतिशत लाभ या हानि हुई?

Ans

1. ✗ 5% हानि
2. ✓ 2.5% हानि
3. ✗ 3% लाभ
4. ✗ 5% लाभ

Question Type : **MCQ**
Question ID : **264330140827**
Option 1 ID : **264330551657**
Option 2 ID : **264330551656**
Option 3 ID : **264330551658**
Option 4 ID : **264330551655**
Status : **Answered**
Chosen Option : **2**

Q.4 एक व्यक्ति साधारण ब्याज पर 8 प्रतिशत वार्षिक दर पर एक निश्चित राशि ऋण पर देता है और 9 वर्षों में प्राप्त ब्याज ऋण पर दी गई राशि से Rs. 560 कम है। ऋण पर दी गई राशि कितनी है?

Ans

1. ✗ Rs. 1120
2. ✗ Rs. 560
3. ✗ Rs. 1000
4. ✓ Rs. 2000

Question Type : **MCQ**
Question ID : **264330140593**
Option 1 ID : **264330550723**
Option 2 ID : **264330550726**
Option 3 ID : **264330550724**
Option 4 ID : **264330550725**
Status : **Answered**
Chosen Option : **1**

Q.5 पात्र I और पात्र II में दूध और पानी का अनुपात क्रमशः 4:5 और 8:3 है। पात्र I और पात्र II के मिश्रण को किस अनुपात में मिलाया जाए जिससे प्राप्त होने वाले नए मिश्रण में दूध और पानी का अनुपात 9 : 11 हो?

Ans

1. ✗ 519 : 11
2. ✗ 47 : 121
3. ✓ 549 : 11
4. ✗ 49 : 121

Question Type : **MCQ**
Question ID : **264330139597**
Option 1 ID : **264330546804**
Option 2 ID : **264330546806**
Option 3 ID : **264330546803**
Option 4 ID : **264330546805**
Status : **Answered**
Chosen Option : **3**

Join Telegram Group "HaryanaJobs.in"

Q.6 एक घनाभ की लंबाई उसकी चौड़ाई की आधी है और घनाभ की ऊँचाई उसकी चौड़ाई की तीन गुनी है। यदि घनाभ की चौड़ाई 12 cm है, तो घनाभ का कुल पृष्ठीय क्षेत्रफल कितना है?

Ans
1. ✗ $1560\ cm^2$
2. ✓ $1440\ cm^2$
3. ✗ $1320\ cm^2$
4. ✗ $1680\ cm^2$

Question Type : **MCQ**
Question ID : **264330139641**
Option 1 ID : **264330546980**
Option 2 ID : **264330546982**
Option 3 ID : **264330546979**
Option 4 ID : **264330546981**
Status : **Answered**
Chosen Option : **3**

Q.7 $\frac{44-13+17-21+45-24}{12 of 4-3\times4-6\times2}$ का मान क्या है?

Ans
1. ✗ 1
2. ✓ 2
3. ✗ −1
4. ✗ −2

Question Type : **MCQ**
Question ID : **264330139644**
Option 1 ID : **264330546993**
Option 2 ID : **264330546992**
Option 3 ID : **264330546994**
Option 4 ID : **264330546991**
Status : **Answered**
Chosen Option : **2**

Q.8 वह सबसे छोटी संख्या कौनसी है जिसे 8, 10, 12 और 18 से भाग देने पर प्रत्येक स्थिति में शेषफल 5 प्राप्त होता है?

Ans
1. ✓ 365
2. ✗ 408
3. ✗ 371
4. ✗ 397

Question Type : **MCQ**
Question ID : **264330139603**
Option 1 ID : **264330546829**
Option 2 ID : **264330546828**
Option 3 ID : **264330546827**
Option 4 ID : **264330546830**
Status : **Answered**
Chosen Option : **1**

Join Telegram Group "HaryanaJobs.in"

Q.9 यदि A : B : C = 2 : 3 : 5 है, तो (A + B) : (B + C) : (C + A) का मान क्या है?

Ans
1. 8 : 15 : 14
2. 9 : 10 : 12
3. 6 : 9 : 14
4. 5 : 8 : 7 ✔

Question Type : **MCQ**
Question ID : **264330140161**
Option 1 ID : **264330549026**
Option 2 ID : **264330549025**
Option 3 ID : **264330549024**
Option 4 ID : **264330549023**
Status : **Answered**
Chosen Option : **4**

Q.10 $\left[\frac{1}{5}+\left\{\frac{1}{6}\text{ of }\left(\frac{42}{35}\div\frac{6}{25}\right)-\left(\frac{2}{7}\times\frac{6}{5}\div\frac{18}{42}\right)\right\}+\frac{19}{30}\right]$ का मान क्या है?

Ans
1. 14/15
2. 11/15
3. 17/15
4. 13/15 ✔

Question Type : **MCQ**
Question ID : **264330139908**
Option 1 ID : **264330548011**
Option 2 ID : **264330548012**
Option 3 ID : **264330548013**
Option 4 ID : **264330548014**
Status : **Answered**
Chosen Option : **4**

Q.11 सपना ने एक सेल में Rs. 573.18 की एक किताब खरीदी, उसे एमआरपी (MRP) पर 18% का बट्टा मिला। किताब की एमआरपी क्या है?

Ans
1. Rs. 749
2. Rs. 649
3. Rs. 799
4. Rs. 699 ✔

Question Type : **MCQ**
Question ID : **264330140829**
Option 1 ID : **264330551666**
Option 2 ID : **264330551664**
Option 3 ID : **264330551663**
Option 4 ID : **264330551665**
Status : **Answered**
Chosen Option : **1**

Join Telegram Group "HaryanaJobs.in"

Q.12 लड़कों के एक समूह का औसत भार 42 kg है। 48 kg भार वाला एक लड़का समूह से बाहर हो जाता है और 38 kg भार वाला एक दूसरा लड़का समूह में शामिल हो जाता है। यदि अब समूह का औसत 41 kg हो जाता है, तो समूह में कितने लड़के हैं?

Ans

✗ 1. 6

✓ 2. 10

✗ 3. 12

✗ 4. 8

Question Type : **MCQ**
Question ID : **264330139632**
Option 1 ID : **264330546946**
Option 2 ID : **264330546944**
Option 3 ID : **264330546945**
Option 4 ID : **264330546943**
Status : **Answered**
Chosen Option : **2**

Q.13 एक आयताकार मेज के शीर्ष का परिमाप 56 मीटर है और इसका क्षेत्रफल 192 metre^2 है। इसके विकर्ण की लंबाई कितनी है?

Ans

✗ 1. 22 मीटर

✗ 2. 16 मीटर

✓ 3. 20 मीटर

✗ 4. 18 मीटर

Question Type : **MCQ**
Question ID : **264330139945**
Option 1 ID : **264330548159**
Option 2 ID : **264330548161**
Option 3 ID : **264330548162**
Option 4 ID : **264330548160**
Status : **Answered**
Chosen Option : **2**

Join Telegram Group "HaryanaJobs.in"

Q.14 नीचे दिए गए वृत्त आलेख में 8 अलग-अलग कंपनियों द्वारा बेची गई कारों की संख्या को दर्शाया गया है। इन सभी 8 कंपनियों द्वारा बेची गई कारों की कुल संख्या 2,000 है। इसमें से किसी एक विशेष कंपनी द्वारा बेची गई कारों की संख्या को इन सभी 8 कंपनियों द्वारा बेची गई कारों की कुल संख्या के प्रतिशत के रूप में दर्शाया गया है।

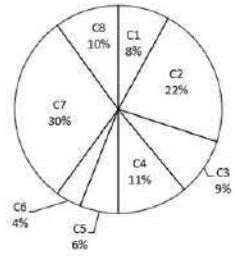

C1 और C2 द्वारा बेची गई कारों की औसत संख्या, C7 और C8 द्वारा बेची गई कारों की औसत संख्या से कितने प्रतिशत कम है?

Ans

✔ 1. 25 प्रतिशत

✘ 2. 33.33 प्रतिशत

✘ 3. 66.66 प्रतिशत

✘ 4. 16.66 प्रतिशत

Question Type : **MCQ**
Question ID : **264330139950**
Option 1 ID : **264330548179**
Option 2 ID : **264330548182**
Option 3 ID : **264330548181**
Option 4 ID : **264330548180**
Status : **Answered**
Chosen Option : **1**

Q.15 सूरज दोपहर 2 बजे बिंदु Q से अपनी यात्रा शुरू करता है। वह यात्रा के पहले तीन घंटों के लिए 40 km/hr की चाल से कार चलाता है और शेष यात्रा 30 km/hr की चाल से पूरी करता है। यदि राहुल बिंदु Q से 80 km/hr की चाल से शाम 6 बजे सूरज की ओर बढ़ना शुरू करता है, तो वह कितने बजे तक सूरज के पास पहुँच जाएगा?

Ans

✘ 1. रात 9 : 15 बजे

✔ 2. रात 9 : 00 बजे

✘ 3. रात 10 : 06 बजे

✘ 4. रात 9 : 36 बजे

Question Type : **MCQ**
Question ID : **264330140195**
Option 1 ID : **264330549162**
Option 2 ID : **264330549161**
Option 3 ID : **264330549159**
Option 4 ID : **264330549160**
Status : **Answered**
Chosen Option : **1**

Join Telegram Group "HaryanaJobs.in"

Q.16 यदि किसी संख्या का 50 प्रतिशत 80 है, तो उस संख्या का 250 प्रतिशत कितना होगा?

Ans
1. 440 ✗
2. 400 ✓
3. 480 ✗
4. 360 ✗

Question Type : **MCQ**
Question ID : **264330140218**
Option 1 ID : **264330549254**
Option 2 ID : **264330549251**
Option 3 ID : **264330549252**
Option 4 ID : **264330549253**
Status : **Answered**
Chosen Option : **2**

Q.17 एक वॉटर हीटर को Rs. 320 में बेचने पर, दुकानदार को 20% की हानि होती है। यदि वह 20% का लाभ अर्जित करना चाहता है, तो उसे वॉटर हीटर को किस कीमत पर बेचना चाहिए?

Ans
1. Rs. 400 ✗
2. Rs. 100 ✗
3. Rs. 480 ✓
4. Rs. 105 ✗

Question Type : **MCQ**
Question ID : **264330140805**
Option 1 ID : **264330551568**
Option 2 ID : **264330551569**
Option 3 ID : **264330551567**
Option 4 ID : **264330551570**
Status : **Answered**
Chosen Option : **3**

Q.18 Rs. 20 प्रति किलोग्राम (per kg) मूल्य वाले चावल को Rs. 34 प्रति किलोग्राम मूल्य वाले चावल के साथ किस अनुपात में मिलाया जाए कि मिश्रण का मूल्य Rs. 28 प्रति किलोग्राम हो जाए?

Ans
1. 2:3 ✗
2. 4:1 ✗
3. 1:3 ✗
4. 3:4 ✓

Question Type : **MCQ**
Question ID : **264330133819**
Option 1 ID : **264330524302**
Option 2 ID : **264330524299**
Option 3 ID : **264330524300**
Option 4 ID : **264330524301**
Status : **Answered**
Chosen Option : **4**

Join Telegram Group "HaryanaJobs.in"

Q.19 दो नल J और L अकेले एक टंकी को क्रमशः 10 मिनट और 12 मिनट में भर सकते हैं। यदि एक निकास नल K को खोल दिया जाए और सभी तीनों नल एक साथ मिलकर कार्य करें, तो वही टंकी 15 मिनट में भर जाएगी। नल K को अकेले उसी टंकी को खाली करने में कितना समय लगेगा?

Ans

✔ 1. 60/7 मिनट

✘ 2. 52/3 मिनट

✘ 3. 58/11 मिनट

✘ 4. 56/3 मिनट

Question Type : **MCQ**
Question ID : **264330140632**
Option 1 ID : **264330550878**
Option 2 ID : **264330550875**
Option 3 ID : **264330550876**
Option 4 ID : **264330550877**
Status : **Answered**
Chosen Option : **3**

Q.20 नीचे दी गई तालिका में 5 विभिन्न वस्तुओं का क्रय मूल्य और विक्रय मूल्य दर्शाया गया है।

वस्तु	क्रय मूल्य	विक्रय मूल्य
A	500	600
B	700	750
C	600	800
D	400	700
E	300	800

सभी वस्तुओं के कुल क्रय मूल्य और कुल विक्रय मूल्य का अनुपात कितना है?

Ans

✘ 1. 37 : 50

✘ 2. 50 : 39

✘ 3. 49 : 72

✔ 4. 50 : 73

Question Type : **MCQ**
Question ID : **264330140601**
Option 1 ID : **264330550757**
Option 2 ID : **264330550758**
Option 3 ID : **264330550755**
Option 4 ID : **264330550756**
Status : **Answered**
Chosen Option : **4**

Section : **Reasoning Ability and Problem Solving**

Join Telegram Group "HaryanaJobs.in"

Q.1 उस विकल्प आकृति को चुनिए जिसमें दी गई आकृति (X) उसके भाग के रूप में निहित है (घूर्णन की अनुमति नहीं है)।

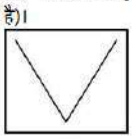

X

Ans

✗ 1. 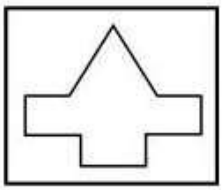

✗ 2. 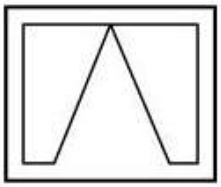

✓ 3. 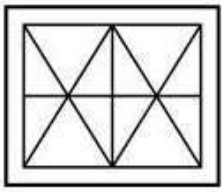

✗ 4. 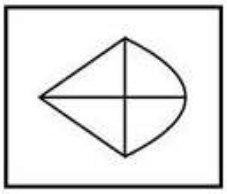

Question Type : **MCQ**
Question ID : **264330140008**
Option 1 ID : **264330548414**
Option 2 ID : **264330548411**
Option 3 ID : **264330548412**
Option 4 ID : **264330548413**
Status : **Answered**
Chosen Option : **3**

Q.2 दिए गए पैटर्न का ध्यानपूर्वक अध्ययन कीजिए और उस संख्या को चुनिए जो इसमें प्रश्न चिन्ह(?) के स्थान पर आ सकती है।
पहली पंक्ति- 60, 20, 10
दूसरी पंक्ति- 90, 30, 15
तीसरी पंक्ति- 36, 12, ?

Ans

✗ 1. 8

✗ 2. 4

✗ 3. 5

✓ 4. 6

Question Type : **MCQ**
Question ID : **264330140426**
Option 1 ID : **264330550084**
Option 2 ID : **264330550086**
Option 3 ID : **264330550083**
Option 4 ID : **264330550085**
Status : **Answered**
Chosen Option : **4**

Join Telegram Group "HaryanaJobs.in"

Q.3 उस विकल्प को चुनिए जो तीसरी संख्या से ठीक उसी तरह संबंधित है जिस तरह दूसरी संख्या पहली संख्या से संबंधित है।
110 : 23 : : 85 : ?

Ans
1. 17
2. 13
3. 18
4. 47

Question Type : **MCQ**
Question ID : **264330135361**
Option 1 ID : **264330530352**
Option 2 ID : **264330530351**
Option 3 ID : **264330530353**
Option 4 ID : **264330530354**
Status : **Answered**
Chosen Option : **2**

Q.4 दो कथन दिए गए हैं और दो निष्कर्ष I और II दिए गए हैं। कथनों को सत्य मानते हुए, चाहे वे सामान्यतः ज्ञात तथ्यों से अलग प्रतीत होते हों, निश्चय कीजिए कि कौन-सा निष्कर्ष तार्किक रूप से कथनों के अनुसार है।
कथन:

सभी डिब्बे, घन हैं।

सभी घन, वर्ग हैं।

निष्कर्ष:

I. कुछ डिब्बे, वर्ग हैं।

II. कुछ वर्ग, घन नहीं हैं।

Ans
1. केवल निष्कर्ष II कथनों के अनुसार है।
2. दोनों निष्कर्ष I और II कथनों के अनुसार हैं।
3. केवल निष्कर्ष I कथनों के अनुसार है।
4. न तो निष्कर्ष I और न ही II कथनों के अनुसार है।

Question Type : **MCQ**
Question ID : **264330140082**
Option 1 ID : **264330548708**
Option 2 ID : **264330548709**
Option 3 ID : **264330548707**
Option 4 ID : **264330548710**
Status : **Answered**
Chosen Option : **3**

Join Telegram Group "HaryanaJobs.in"

Q.5 दी गई श्रृंखला में निम्नलिखित में से कौन-सा अक्षर प्रश्न चिन्ह (?) के स्थान पर आएगा?
J, N, H, P, F, R, D, T, B, ?

Ans
1. U
2. O
3. V
4. M

Question Type : **MCQ**
Question ID : **264330139991**
Option 1 ID : **264330548344**
Option 2 ID : **264330548345**
Option 3 ID : **264330548346**
Option 4 ID : **264330548343**
Status : **Answered**
Chosen Option : **3**

Q.6 नीचे दिए गए समीकरण में कौन-से गणितीय चिन्हों को आपस में बदला जाना चाहिए जिससे यह समीकरण गणितीय रूप से सही हो जाएगा?
14 + 63 ÷ 7 - 21 × 35 = 140

Ans
1. + और -
2. + और ×
3. ÷ और ×
4. - और ×

Question Type : **MCQ**
Question ID : **264330140467**
Option 1 ID : **264330550249**
Option 2 ID : **264330550247**
Option 3 ID : **264330550248**
Option 4 ID : **264330550250**
Status : **Answered**
Chosen Option : **2**

Q.7 दी गई श्रृंखला में निम्नलिखित में से कौन-सी संख्या प्रश्न चिन्ह (?) के स्थान पर आएगी?
59, 63, 72, 88, 113, ?

Ans
1. 149
2. 139
3. 159
4. 141

Question Type : **MCQ**
Question ID : **264330140105**
Option 1 ID : **264330548800**
Option 2 ID : **264330548799**
Option 3 ID : **264330548801**
Option 4 ID : **264330548802**
Status : **Answered**
Chosen Option : **1**

Join Telegram Group "HaryanaJobs.in"

Q.8 अनुज, बाला, चरनजीत, दानिश, एंड्रू, फारूक, गर्वित और हिमेश एक वर्गाकार मेज के चारों ओर केंद्र की ओर मुख करके बैठे हैं। उनमें से चार व्यक्ति मेज के प्रत्येक कोने पर बैठे हैं, जबकि अन्य चार मेज की प्रत्येक भुजा के ठीक मध्य में बैठे हैं।

एंड्रू, जो एक भुजा के मध्य में बैठा है, गर्वित के बाईं ओर से चौथे स्थान पर बैठा है। गर्वित और फारूक के बीच केवल एक व्यक्ति बैठा है। बाला, एंड्रू का निकटतम पड़ोसी है। बाला और अनुज के बीच केवल तीन व्यक्ति बैठे हैं। बाला, फारूक का पड़ोसी नहीं है। हिमेश चरणजीत के ठीक बाईं ओर बैठा है। चरणजीत, एंड्रू के दाहिनी ओर से तीसरे स्थान पर बैठा है।

दानिश के दाहिनी ओर से तीसरे स्थान पर कौन बैठा है?

Ans

✔ 1. हिमेश

✘ 2. बाला

✘ 3. चरणजीत

✘ 4. गर्वित

Question Type : **MCQ**
Question ID : **264330140479**
Option 1 ID : **264330550297**
Option 2 ID : **264330550296**
Option 3 ID : **264330550295**
Option 4 ID : **264330550298**
Status : **Not Answered**
Chosen Option : **--**

Q.9 यदि एक दर्पण को रेखा AB पर रखा जाए, तो दी गई विकल्प आकृतियों में से कौन-सी आकृति प्रश्न आकृति का सही प्रतिबिम्ब होगी?

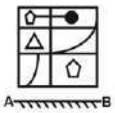

Ans

✘ 1.

✔ 2.

✘ 3.

✘ 4.

Question Type : **MCQ**
Question ID : **264330140994**
Option 1 ID : **264330552323**
Option 2 ID : **264330552326**
Option 3 ID : **264330552325**
Option 4 ID : **264330552324**
Status : **Answered**
Chosen Option : **2**

Join Telegram Group "HaryanaJobs.in"

Q.10 एक निश्चित कूट भाषा में, 'PARK' को 'QCSM' लिखा जाता है और 'FREE' को ' GTFG' लिखा जाता है। उस कूट भाषा में 'FAME' को कैसे लिखा जाएगा?

Ans

✔ 1. GCNG

✘ 2. CGNF

✘ 3. GCOF

✘ 4. HCNG

Question Type : **MCQ**
Question ID : **264330140116**
Option 1 ID : **264330548845**
Option 2 ID : **264330548846**
Option 3 ID : **264330548844**
Option 4 ID : **264330548843**
Status : **Answered**
Chosen Option : **3**

Q.11 एक निश्चित कूट भाषा में, 'RAT' को 'SCW' लिखा जाता है। उस भाषा में 'COW' को कैसे लिखा जाएगा?

Ans

✘ 1. DQR

✔ 2. DQZ

✘ 3. DZQ

✘ 4. DYZ

Question Type : **MCQ**
Question ID : **264330137566**
Option 1 ID : **264330538874**
Option 2 ID : **264330538871**
Option 3 ID : **264330538872**
Option 4 ID : **264330538873**
Status : **Answered**
Chosen Option : **2**

Q.12 तीन कथन दिए गए हैं और दो निष्कर्ष I और II दिए गए हैं। कथनों को सत्य मानते हुए, चाहे वे सामान्यतः ज्ञात तथ्यों से अलग प्रतीत होते हों, निश्चय कीजिए कि कौन-सा निष्कर्ष तार्किक रूप से कथनों के अनुसार है।
कथन:
कुछ मोबाइल, ज़मीन हैं।
कुछ ज़मीन, चौड़े हैं।
सभी चौड़े, लंबे हैं।
निष्कर्ष:
I. कुछ मोबाइल, लंबे हैं।
II. सभी लंबे, चौड़े हैं।

Ans

✘ 1. दोनों निष्कर्ष I और II कथनों के अनुसार हैं।

✘ 2. केवल निष्कर्ष II कथनों के अनुसार है।

✔ 3. न तो निष्कर्ष I और न ही II कथनों के अनुसार है।

✘ 4. केवल निष्कर्ष I कथनों के अनुसार है।

Question Type : **MCQ**
Question ID : **264330140422**
Option 1 ID : **264330550069**
Option 2 ID : **264330550068**
Option 3 ID : **264330550070**
Option 4 ID : **264330550067**
Status : **Answered**
Chosen Option : **2**

Join Telegram Group "HaryanaJobs.in"

Q.13 निम्नलिखित प्रश्न में, दी गई श्रृंखला में लुप्त संख्या को चुनिए ।

55, 38, 21, 4, −13, ?

Ans
1. −20
2. −28
3. −30
4. −18

Question Type : **MCQ**
Question ID : **264330140064**
Option 1 ID : **264330548636**
Option 2 ID : **264330548637**
Option 3 ID : **264330548638**
Option 4 ID : **264330548635**
Status : **Answered**
Chosen Option : **3**

Q.14 दिए गए दो चिन्हों को आपस में बदलने पर निम्नलिखित में से कौन-सा समीकरण सही नहीं होगा?

+ और ×

I. 15 + 5 ÷ 1 − 9 × 4 = 70

II. 18 × 17 + 3 − 6 ÷ 2 = 133

Ans
1. I और II दोनों
2. केवल II
3. न तो I और न ही II
4. केवल I

Question Type : **MCQ**
Question ID : **264330140992**
Option 1 ID : **264330552317**
Option 2 ID : **264330552316**
Option 3 ID : **264330552318**
Option 4 ID : **264330552315**
Status : **Answered**
Chosen Option : **4**

Q.15 छः मित्र X, Y, J, M, N, और O एक कतार में उत्तर की ओर मुख करके खड़े हैं। Y, O के ठीक पीछे है। J, कतार में सबसे पीछे खड़ा है। M, N और X के ठीक बीच में खड़ा है। Y, X के बाद नहीं खड़ा है। कतार में आगे से चौथे स्थान पर कौन खड़ा है?

Ans
1. N
2. X
3. Y
4. M

Question Type : **MCQ**
Question ID : **264330140418**
Option 1 ID : **264330550052**
Option 2 ID : **264330550053**
Option 3 ID : **264330550054**
Option 4 ID : **264330550051**
Status : **Answered**
Chosen Option : **2**

Join Telegram Group "HaryanaJobs.in"

Q.16 उस विकल्प को चुनिए जो तीसरे शब्द से ठीक उसी तरह संबंधित है जिस तरह दूसरा शब्द पहले शब्द से संबंधित है।
थायरॉयड : आयोडीन :: रतौंधी: ?

Ans
1. विटामिन D
2. विटामिन B
3. विटामिन C
4. विटामिन A

Question Type : **MCQ**
Question ID : **264330140474**
Option 1 ID : **264330550278**
Option 2 ID : **264330550276**
Option 3 ID : **264330550277**
Option 4 ID : **264330550275**
Status : **Answered**
Chosen Option : **4**

Q.17 कौन-सी उत्तर आकृति प्रश्न आकृति में दिए गए पैटर्न को पूरा करेगी?

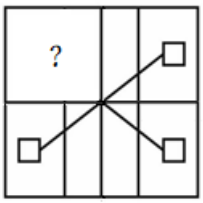

Ans
1.
2.
3.
4.

Question Type : **MCQ**
Question ID : **264330140072**
Option 1 ID : **264330548669**
Option 2 ID : **264330548670**
Option 3 ID : **264330548668**
Option 4 ID : **264330548667**
Status : **Answered**
Chosen Option : **4**

Join Telegram Group "HaryanaJobs.in"

Q.18 उस विकल्प को चुनिए जो तीसरे शब्द से ठीक उसी तरह संबंधित है जिस तरह दूसरा शब्द पहले शब्द से संबंधित है।
मधुमक्खी : भिनभिनाना (Buzz) :: बत्तख : ?

Ans

1. ✗ मिमियाना (Bleat)
2. ✓ क्वाक क्वाक करना (Quack)
3. ✗ चहचहाना (Chirp)
4. ✗ टरटराना (Croak)

Question Type : **MCQ**
Question ID : **264330140433**
Option 1 ID : **264330550112**
Option 2 ID : **264330550113**
Option 3 ID : **264330550114**
Option 4 ID : **264330550111**
Status : **Answered**
Chosen Option : **2**

Q.19 एक निश्चित कूट भाषा में, 'NOTICE' को 'LMRFZB' लिखा जाता है। उस कूट भाषा में 'PARENT' को कैसे लिखा जाएगा?

Ans

1. ✓ NYPBKQ
2. ✗ NYQBKQ
3. ✗ NYPBKR
4. ✗ NYPCLR

Question Type : **MCQ**
Question ID : **264330139571**
Option 1 ID : **264330546701**
Option 2 ID : **264330546702**
Option 3 ID : **264330546700**
Option 4 ID : **264330546699**
Status : **Answered**
Chosen Option : **4**

Q.20 सात बहनों I, II, III, IV, V, VI और VII में से प्रत्येक का कद अलग-अलग है। I का कद केवल एक बहन से छोटा है। II केवल VII से लंबी है। तीन बहनें, IV से कद में छोटी हैं और तीन उससे लंबी हैं। V सबसे लंबी नहीं है। III कद में VI से छोटी है लेकिन V से लंबी है। सभी बहनों में तीसरे स्थान पर सबसे छोटा कद किसका है?

Ans

1. ✗ IV
2. ✗ I
3. ✗ VI
4. ✓ V

Question Type : **MCQ**
Question ID : **264330140081**
Option 1 ID : **264330548705**
Option 2 ID : **264330548704**
Option 3 ID : **264330548703**
Option 4 ID : **264330548706**
Status : **Answered**
Chosen Option : **3**

Section : **General Awareness**

Join Telegram Group "HaryanaJobs.in"

Q.1 भारतीय संविधान का निम्नलिखित में से कौनसा अनुच्छेद "अंतर्राष्ट्रीय शांति और सुरक्षा के प्रचार" से संबंधित है?

Ans
1. अनुच्छेद 40
2. अनुच्छेद 47
3. अनुच्छेद 51
4. अनुच्छेद 43

Question Type : **MCQ**
Question ID : **264330139710**
Option 1 ID : **264330547255**
Option 2 ID : **264330547256**
Option 3 ID : **264330547258**
Option 4 ID : **264330547257**
Status : **Not Answered**
Chosen Option : **--**

Q.2 भारत के पड़ोसी देश अफगानिस्तान की राजधानी क्या है ?

Ans
1. काठमांडू
2. कंधार
3. काबुल
4. कराची

Question Type : **MCQ**
Question ID : **264330140713**
Option 1 ID : **264330551200**
Option 2 ID : **264330551201**
Option 3 ID : **264330551202**
Option 4 ID : **264330551199**
Status : **Answered**
Chosen Option : **3**

Q.3 कौनसे कोशिका अंगक अंतः कोशिकीय पाचन में सहायता करते हैं और कोशिका की "आत्मघाती थैली (suicidal bags)" के नाम से जाने जाते हैं?

Ans
1. क्लोरोप्लास्ट
2. सेंट्रोसोम
3. लाइसोसोम
4. गॉल्जीकाय (Golgi bodies)

Question Type : **MCQ**
Question ID : **264330140657**
Option 1 ID : **264330550978**
Option 2 ID : **264330550975**
Option 3 ID : **264330550977**
Option 4 ID : **264330550976**
Status : **Answered**
Chosen Option : **3**

Join Telegram Group "HaryanaJobs.in"

Q.4 भूतल पर वह बिंदु जो भूकंप के उद्गम केंद्र के समीपतम होता है_____ कहलाता है।

Ans
1. अवकेंद्र (hypocentre)
2. मध्यालंकरण (centrepiece)
3. अर्धकेंद्र (semi centre)
4. अधिकेंद्र (epicentre)

Question Type : **MCQ**
Question ID : **264330140759**
Option 1 ID : **264330551383**
Option 2 ID : **264330551386**
Option 3 ID : **264330551385**
Option 4 ID : **264330551384**
Status : **Answered**
Chosen Option : **2**

Q.5 किस प्रकार की कृषि में भूमि का उपयोग भोजन व चारे की फ़सलें उगाने और पशुधन पालन के लिए किया जाता है?

Ans
1. मिश्रित कृषि
2. स्थानांतरी कृषि
3. रोपण कृषि
4. निर्वाह कृषि

Question Type : **MCQ**
Question ID : **264330139690**
Option 1 ID : **264330547177**
Option 2 ID : **264330547176**
Option 3 ID : **264330547175**
Option 4 ID : **264330547178**
Status : **Answered**
Chosen Option : **1**

Q.6 है-हक (Hai-Hak) नृत्य किस राज्य से संबंधित है?

Ans
1. त्रिपुरा
2. राजस्थान
3. सिक्किम
4. आंध्रप्रदेश

Question Type : **MCQ**
Question ID : **264330139866**
Option 1 ID : **264330547844**
Option 2 ID : **264330547846**
Option 3 ID : **264330547843**
Option 4 ID : **264330547845**
Status : **Answered**
Chosen Option : **1**

Join Telegram Group "HaryanaJobs.in"

Q.7 "पीएम पोषण (PM POSHAN)" योजना किस मंत्रालय द्वारा लागू की गई है?

Ans
1. महिला और बाल विकास मंत्रालय
2. कृषि और किसान कल्याण मंत्रालय
3. शिक्षा मंत्रालय
4. सामाजिक न्याय मंत्रालय

Question Type : **MCQ**
Question ID : **264330139732**
Option 1 ID : **264330547346**
Option 2 ID : **264330547343**
Option 3 ID : **264330547344**
Option 4 ID : **264330547345**
Status : **Answered**
Chosen Option : **1**

Q.8 भारतीय संगीतकार जगजीत सिंह को संगीत/कविता की _____ शैली के पुनरुद्धार का श्रेय दिया जाता है।

Ans
1. सूफी (Sufi)
2. लैटिन (Latin)
3. ग़ज़ल (Ghazal)
4. जैज़ (Jazz)

Question Type : **MCQ**
Question ID : **264330140924**
Option 1 ID : **264330552045**
Option 2 ID : **264330552044**
Option 3 ID : **264330552046**
Option 4 ID : **264330552043**
Status : **Not Answered**
Chosen Option : **--**

Q.9 निम्नलिखित में से कौन-सा भारत का एक जैवमण्डल संरक्षित क्षेत्र (biosphere reserve) "नहीं" है?

Ans
1. गिर वन
2. सुंदरबन
3. ठंडा रेगिस्तान
4. नीलगिरि

Question Type : **MCQ**
Question ID : **264330139884**
Option 1 ID : **264330547918**
Option 2 ID : **264330547915**
Option 3 ID : **264330547917**
Option 4 ID : **264330547916**
Status : **Answered**
Chosen Option : **2**

Join Telegram Group "HaryanaJobs.in"

Q.10 अशोक स्तंभों का मूल उद्देश्य क्या था?

Ans
✔ 1. धर्म नीतियों का प्रचार-प्रसार करना
✘ 2. साम्प्रदायिक आस्था का प्रचार-प्रसार करना
✘ 3. जन-धर्मांतरण का प्रचार-प्रसार करना
✘ 4. भेरीघोष का प्रचार-प्रसार करना

Question Type : **MCQ**
Question ID : **264330140380**
Option 1 ID : **264330549900**
Option 2 ID : **264330549901**
Option 3 ID : **264330549902**
Option 4 ID : **264330549899**
Status : **Answered**
Chosen Option : **1**

Q.11 निम्नलिखित में से किसे कुश्ती के लिए "मेजर ध्यानचंद खेल रत्न पुरस्कार 2021 (Major Dhyan Chand Khel Ratna Award 2021)" से सम्मानित किया गया है?

Ans
✘ 1. सुनील छेत्री
✔ 2. रवि कुमार
✘ 3. मनप्रीत सिंह
✘ 4. नीरज चोपड़ा

Question Type : **MCQ**
Question ID : **264330139651**
Option 1 ID : **264330547021**
Option 2 ID : **264330547019**
Option 3 ID : **264330547022**
Option 4 ID : **264330547020**
Status : **Answered**
Chosen Option : **2**

Q.12 Which of the following books is authored by Indu Sundaresan?

Ans
✘ 1. The One You Cannot Have
✘ 2. Ajaya: Rise of Kali
✔ 3. The Feast of Roses
✘ 4. The Secret of the Nagas

Question Type : **MCQ**
Question ID : **264330140886**
Option 1 ID : **264330551891**
Option 2 ID : **264330551894**
Option 3 ID : **264330551892**
Option 4 ID : **264330551893**
Status : **Answered**
Chosen Option : **3**

Join Telegram Group "HaryanaJobs.in"

Q.13 निम्नलिखित में से कौन-सा कृत्रिम पारितंत्र (artificial ecosystem) का एक उदाहरण है?

Ans
1. मूँगा चट्टानें
2. घास के मैदान
3. जल जीवशाला/ मत्स्यालय
4. रेगिस्तान

Question Type : **MCQ**
Question ID : **264330140658**
Option 1 ID : **264330550979**
Option 2 ID : **264330550980**
Option 3 ID : **264330550981**
Option 4 ID : **264330550982**
Status : **Answered**
Chosen Option : **3**

Q.14 करेंसी नोट और सिक्कों को _____ कहते हैं।

Ans
1. निकट मुद्रा (near money)
2. विश्वास्य मुद्रा (fiduciary money)
3. कमोडिटी मनी (commodity money)
4. कागज़ी मुद्रा (fiat money)

Question Type : **MCQ**
Question ID : **264330138981**
Option 1 ID : **264330544532**
Option 2 ID : **264330544534**
Option 3 ID : **264330544533**
Option 4 ID : **264330544531**
Status : **Answered**
Chosen Option : **2**

Q.15 राजस्थान का गणगौर पर्व किस देवी-देवता से संबंधित है?

Ans
1. भगवान विष्णु और देवी लक्ष्मी
2. भगवान सूर्य और देवी प्रभा
3. भगवान शिव और देवी पार्वती
4. भगवान राम और देवी सीता

Question Type : **MCQ**
Question ID : **264330140882**
Option 1 ID : **264330551877**
Option 2 ID : **264330551878**
Option 3 ID : **264330551875**
Option 4 ID : **264330551876**
Status : **Answered**
Chosen Option : **1**

Join Telegram Group "HaryanaJobs.in"

Q.16 राष्ट्रीय ध्वज और राष्ट्रगान का सम्मान प्रत्येक भारतीय नागरिक का _____ है।

Ans
✗ 1. राज्य का नीति निर्देशक तत्व
✗ 2. कानूनी अधिकार
✗ 3. मौलिक अधिकार
✓ 4. मौलिक कर्तव्य

Question Type : **MCQ**
Question ID : **264330140387**
Option 1 ID : **264330549927**
Option 2 ID : **264330549928**
Option 3 ID : **264330549930**
Option 4 ID : **264330549929**
Status : **Answered**
Chosen Option : **4**

Q.17 निम्नलिखित में से कौन-सा उपन्यास चेतन भगत द्वारा लिखा गया है?

Ans
✗ 1. अवर स्टोरी नीड्स नो फ़िल्टर (Our Story Needs No Filter)
✗ 2. अनटचेबल्स (Untouchables)
✗ 3. द व्हाइट टाइगर (The White Tiger)
✓ 4. द थ्री मिस्टेक्स ऑफ माय लाइफ (The 3 Mistakes of My Life)

Question Type : **MCQ**
Question ID : **264330139703**
Option 1 ID : **264330547229**
Option 2 ID : **264330547228**
Option 3 ID : **264330547230**
Option 4 ID : **264330547227**
Status : **Answered**
Chosen Option : **3**

Q.18 भक्ति संत, नयनार (Nayanars) निम्नलिखित में से किस देवता के भक्त थे?

Ans
✗ 1. विष्णु
✗ 2. मुरुगन
✓ 3. शिव
✗ 4. इंद्र

Question Type : **MCQ**
Question ID : **264330140289**
Option 1 ID : **264330549535**
Option 2 ID : **264330549536**
Option 3 ID : **264330549537**
Option 4 ID : **264330549538**
Status : **Not Answered**
Chosen Option : **--**

Join Telegram Group "HaryanaJobs.in"

Q.19 "द इनविजिबल मैन (The Invisible Man)" प्रसिद्ध लेखक _____ द्वारा लिखित एक विज्ञान कथा उपन्यास है।

Ans
1. अगाथा क्रिस्टी (Agatha Christie)
2. जूल्स वर्न (Jules Verne)
3. हर्बर्ट जॉर्ज वेल्स (Herbert George Wells)
4. विलियम शेक्सपियर (William Shakespeare)

Question Type : **MCQ**
Question ID : **264330140718**
Option 1 ID : **264330551220**
Option 2 ID : **264330551222**
Option 3 ID : **264330551219**
Option 4 ID : **264330551221**
Status : **Not Answered**
Chosen Option : **--**

Q.20 कितने देश भारत के साथ भूमि सीमा साझा करते हैं?

Ans
1. छः
2. सात
3. पाँच
4. आठ

Question Type : **MCQ**
Question ID : **264330138990**
Option 1 ID : **264330544568**
Option 2 ID : **264330544569**
Option 3 ID : **264330544567**
Option 4 ID : **264330544570**
Status : **Answered**
Chosen Option : **1**

Q.21 हिंदुस्तान सोशलिस्ट रिपब्लिकन एसोसिएशन (Hindustan Socialist Republican Association (HSRA)) की स्थापना सन् _____ में हुई थी।

Ans
1. 1928
2. 1924
3. 1917
4. 1922

Question Type : **MCQ**
Question ID : **264330140383**
Option 1 ID : **264330549913**
Option 2 ID : **264330549911**
Option 3 ID : **264330549912**
Option 4 ID : **264330549914**
Status : **Not Answered**
Chosen Option : **--**

Join Telegram Group "HaryanaJobs.in"

Q.22 _____ में देश भर के 72 प्रतिनिधियों ने बम्बई में सभा करके भारतीय राष्ट्रीय कांग्रेस की स्थापना का फैसला लिया।

Ans
1. 1872 ✗
2. 1885 ✓
3. 1858 ✗
4. 1890 ✗

Question Type : **MCQ**
Question ID : **264330141061**
Option 1 ID : **264330552593**
Option 2 ID : **264330552591**
Option 3 ID : **264330552594**
Option 4 ID : **264330552592**
Status : **Not Answered**
Chosen Option : **--**

Q.23 इंडो-इस्लामिक वास्तुकला की "दोहरे गुंबद (Double Dome)" वाली विशेषता दिल्ली सल्तनत के किस वंश द्वारा शुरू की गई थी?

Ans
1. गुलाम वंश ✗
2. लोदी वंश ✓
3. तुगलक वंश ✗
4. खिलजी वंश ✗

Question Type : **MCQ**
Question ID : **264330140680**
Option 1 ID : **264330551070**
Option 2 ID : **264330551069**
Option 3 ID : **264330551067**
Option 4 ID : **264330551068**
Status : **Answered**
Chosen Option : **3**

Q.24 किस खिलाड़ी को “फ्लाइंग सिख (Flying Sikh)” के नाम से जाना जाता है?

Ans
1. युवराज सिंह ✗
2. मिल्खा सिंह ✓
3. अर्शदीप सिंह ✗
4. हरभजन सिंह ✗

Question Type : **MCQ**
Question ID : **264330140674**
Option 1 ID : **264330551045**
Option 2 ID : **264330551043**
Option 3 ID : **264330551044**
Option 4 ID : **264330551046**
Status : **Answered**
Chosen Option : **2**

Join Telegram Group "HaryanaJobs.in"

Q.25 निम्नलिखित में से किस त्योहार का संबंध अरुणाचल प्रदेश से है?

Ans
✔ 1. सोलुंग (Solung)
✘ 2. उगादि (Ugadi)
✘ 3. पोंगल (Pongal)
✘ 4. वांगला (Wangala)

Question Type : **MCQ**
Question ID : **264330140909**
Option 1 ID : **264330551984**
Option 2 ID : **264330551985**
Option 3 ID : **264330551986**
Option 4 ID : **264330551983**
Status : **Answered**
Chosen Option : **3**

Section : **English Language and Comprehension**

Q.1 Select the word segment that substitutes (replaces) the bracketed word segment correctly and completes the sentence meaningfully. Select the option 'no correction required' if the sentence is correct as given.
He was pleased to see them, especially as (Alice was disposed off to) be sympathetic rather than critical.

Ans
✘ 1. Alice was disposed to of
✘ 2. No correction required
✘ 3. Alice was disposed of to
✔ 4. Alice was inclined to

Question Type : **MCQ**
Question ID : **264330136166**
Option 1 ID : **264330533465**
Option 2 ID : **264330533466**
Option 3 ID : **264330533464**
Option 4 ID : **264330533463**
Status : **Answered**
Chosen Option : **3**

Q.2 Choose the incorrectly spelt word.

Ans
✘ 1. Interest
✘ 2. Count
✔ 3. Wsated
✘ 4. Slim

Question Type : **MCQ**
Question ID : **264330141183**
Option 1 ID : **264330553071**
Option 2 ID : **264330553073**
Option 3 ID : **264330553072**
Option 4 ID : **264330553074**
Status : **Answered**
Chosen Option : **4**

Join Telegram Group "HaryanaJobs.in"

Q.3 Select the word from the options which is exactly opposite in meaning to the bracketed word given in the sentence below.
Hermione was pointing to the (nearest) window.

Ans
✔ 1. remote
✘ 2. convenient
✘ 3. adjacent
✘ 4. abutting

Question Type : **MCQ**
Question ID : **264330136128**
Option 1 ID : **264330533317**
Option 2 ID : **264330533316**
Option 3 ID : **264330533315**
Option 4 ID : **264330533318**
Status : **Answered**
Chosen Option : **2**

Q.4 Select the word segment that substitutes (replaces) the bracketed word segment correctly and completes the sentence meaningfully. Select the option 'no correction required' if the sentence is correct as given.
She (had a reputation) brilliance.

Ans
✘ 1. have a reputation for
✔ 2. has a reputation for
✘ 3. has a reputation of
✘ 4. No correction required

Question Type : **MCQ**
Question ID : **264330135848**
Option 1 ID : **264330532260**
Option 2 ID : **264330532259**
Option 3 ID : **264330532261**
Option 4 ID : **264330532262**
Status : **Answered**
Chosen Option : **1**

Q.5 Fill in the blank with the most appropriate option.
Though poor, he _____ proud of his learning.

Ans
✘ 1. were
✘ 2. could became
✔ 3. was
✘ 4. have been

Question Type : **MCQ**
Question ID : **264330136141**
Option 1 ID : **264330533368**
Option 2 ID : **264330533370**
Option 3 ID : **264330533367**
Option 4 ID : **264330533369**
Status : **Answered**
Chosen Option : **3**

Join Telegram Group "HaryanaJobs.in"

Q.6 Select the most appropriate option to fill in the blank.

The wounds on my back are no longer fresh, but, somehow, they still _____.

Ans

✗ 1. enrich

✗ 2. barge

✗ 3. revamp

✓ 4. hurt

Question Type : **MCQ**
Question ID : **264330135255**
Option 1 ID : **264330529939**
Option 2 ID : **264330529942**
Option 3 ID : **264330529940**
Option 4 ID : **264330529941**
Status : **Answered**
Chosen Option : **4**

Q.7 Identify the segment that contains a grammatical error. If there is no error, select 'No error'.

Time is the greater / eraser, both of / sorrow and of joy.

Ans

✓ 1. Time is the greater

✗ 2. No error

✗ 3. sorrow and of joy.

✗ 4. eraser, both of

Question Type : **MCQ**
Question ID : **264330135846**
Option 1 ID : **264330532251**
Option 2 ID : **264330532254**
Option 3 ID : **264330532253**
Option 4 ID : **264330532252**
Status : **Answered**
Chosen Option : **1**

Q.8 The statement below has been given with bracketed text. Select the option with correct idiom for the bracketed text.

She started repaying the money she borrowed from me, but the amount she returned me is (insignificant compared) to what she still owes.

Ans

✓ 1. a drop in a bucket

✗ 2. eat out of your hand

✗ 3. jaw dropping

✗ 4. an eye for an eye

Question Type : **MCQ**
Question ID : **264330136130**
Option 1 ID : **264330533326**
Option 2 ID : **264330533323**
Option 3 ID : **264330533325**
Option 4 ID : **264330533324**
Status : **Answered**
Chosen Option : **1**

Join Telegram Group "HaryanaJobs.in"

Q.9 Identify the segment that contains a grammatical error. If there is no error, select 'No error'.
'I'm going to get / start on some / homework,' said the professor angrily.

Ans
1. homework,' said the professor angrily.
2. I'm going to get
3. No error
4. start on some

Question Type : **MCQ**
Question ID : **264330136163**
Option 1 ID : **264330533453**
Option 2 ID : **264330533451**
Option 3 ID : **264330533454**
Option 4 ID : **264330533452**
Status : **Answered**
Chosen Option : **4**

Q.10 Choose the word that means the same as the given word.

Habitant

Ans
1. Exile
2. Endemic
3. Denizen
4. Transient

Question Type : **MCQ**
Question ID : **264330135654**
Option 1 ID : **264330531511**
Option 2 ID : **264330531512**
Option 3 ID : **264330531514**
Option 4 ID : **264330531513**
Status : **Answered**
Chosen Option : **4**

Q.11 Select the most appropriate synonym of the given word.

Support

Ans
1. Spine
2. Release
3. Refuse
4. Bolster

Question Type : **MCQ**
Question ID : **264330135731**
Option 1 ID : **264330531810**
Option 2 ID : **264330531809**
Option 3 ID : **264330531807**
Option 4 ID : **264330531808**
Status : **Answered**
Chosen Option : **3**

Join Telegram Group "HaryanaJobs.in"

Q.12 Fill in the blank with the most appropriate option.

I was _____ and was suddenly woken up by the loud noise of crackers bursting.

Ans
1. quiet asleep
2. fast asleep
3. long asleep
4. quite asleep

Question Type : **MCQ**
Question ID : **264330135713**
Option 1 ID : **264330531739**
Option 2 ID : **264330531742**
Option 3 ID : **264330531741**
Option 4 ID : **264330531740**
Status : **Answered**
Chosen Option : **4**

Q.13 Select the most appropriate antonym of the given word.

Incompetence

Ans
1. Interfere
2. Efficient
3. Caustic
4. Attitude

Question Type : **MCQ**
Question ID : **264330135759**
Option 1 ID : **264330531918**
Option 2 ID : **264330531916**
Option 3 ID : **264330531917**
Option 4 ID : **264330531915**
Status : **Answered**
Chosen Option : **1**

Q.14 Select the most appropriate word for the given group of words.

A building where animals are butchered

Ans
1. Apologue
2. Arbitrator
3. Abattoir
4. Apostate

Question Type : **MCQ**
Question ID : **264330135678**
Option 1 ID : **264330531604**
Option 2 ID : **264330531603**
Option 3 ID : **264330531606**
Option 4 ID : **264330531605**
Status : **Answered**
Chosen Option : **1**

Join Telegram Group "HaryanaJobs.in"

Q.15 Identify the segment that contains a grammatical error. If there is no error, select 'No error'

He spent a great deal of time/ writing on his legal pad and aggressive/ underlining whatever he was writing.

Ans

✗ 1. No error

✗ 2. He spent a great deal of time

✗ 3. underlining whatever he was writing.

✓ 4. writing on his legal pad and aggressive

Question Type : **MCQ**
Question ID : **264330135663**
Option 1 ID : **264330531550**
Option 2 ID : **264330531547**
Option 3 ID : **264330531549**
Option 4 ID : **264330531548**
Status : **Answered**
Chosen Option : **3**

Q.16 Four sentences are given, out of which three have spelling errors. Choose the sentence with all correctly spelt words.

Ans

✗ 1.
It was a letter that was shot throught with the writer's personality.

✗ 2. There is plenty of student accomodation in Edinburgh.

✓ 3.
Their skilled colleague soon satisfied them that they were wrong.

✗ 4.
He advised the government not to persue a gas deal with that company.

Question Type : **MCQ**
Question ID : **264330136132**
Option 1 ID : **264330533333**
Option 2 ID : **264330533331**
Option 3 ID : **264330533334**
Option 4 ID : **264330533332**
Status : **Not Answered**
Chosen Option : **--**

Q.17 Select the most appropriate meaning of the given idiom.

To eat crow

Ans

✗ 1. To take money back

✓ 2. To admit that one is wrong

✗ 3. To become non-vegetarian

✗ 4. To take great care

Question Type : **MCQ**
Question ID : **264330136155**
Option 1 ID : **264330533422**
Option 2 ID : **264330533421**
Option 3 ID : **264330533419**
Option 4 ID : **264330533420**
Status : **Answered**
Chosen Option : **3**

Join Telegram Group "HaryanaJobs.in"

Q.18 Fill in the blank with the most appropriate option.

He ruled well but _____, making closer friends with justice than with mercy.

Ans

1. watches ✗
2. watchfully ✓
3. watch ✗
4. watching ✗

Question Type : **MCQ**
Question ID : **264330136142**
Option 1 ID : **264330533373**
Option 2 ID : **264330533374**
Option 3 ID : **264330533372**
Option 4 ID : **264330533371**
Status : **Not Answered**
Chosen Option : **--**

Q.19 Select the word segment that substitutes (replaces) the bracketed word segment correctly and completes the sentence meaningfully. Select the option 'no correction required' if the sentence is correct as given.

(The big the house), the more difficult it is to maintain it.

Ans

1. The biggest the house ✗
2. No correction required ✗
3. The bigger the house ✓
4. The big house ✗

Question Type : **MCQ**
Question ID : **264330135849**
Option 1 ID : **264330532263**
Option 2 ID : **264330532266**
Option 3 ID : **264330532265**
Option 4 ID : **264330532264**
Status : **Answered**
Chosen Option : **4**

Q.20 Select the most appropriate word for the given group of words.

Having a sharply strong taste or smell

Ans

1. Pungent ✓
2. Remorse ✗
3. Alchemy ✗
4. Satire ✗

Question Type : **MCQ**
Question ID : **264330136757**
Option 1 ID : **264330535734**
Option 2 ID : **264330535733**
Option 3 ID : **264330535731**
Option 4 ID : **264330535732**
Status : **Not Answered**
Chosen Option : **--**

Join Telegram Group "HaryanaJobs.in"

Comprehension:

In the following passage some words have been deleted. Fill in the blanks with the help of the alternatives given. Select the most appropriate option for each number.

Do you live in a house? You might be (1) _____ to learn that there are many, many kinds of (2) _____. Most people in the United States are used to live in houses made of wood or bricks. But many people around the world live in houses made of grass, dirt, or cloth.
In the Great Rift Valley of Eritrea, the nomadic people who are in the Atrtribe build their houses of straw. Their houses are shaped like (3) _____ – half spheres. The homes are small and cool. The people can move their houses when they want to move. Since the people are (4) _____, they move often. They (5) _____ their animals to new places in order to find food.

SubQuestion No : 21

Q.21 Select the most appropriate option to fill in the blank No. 1.

Ans

✔ 1. surprised

✘ 2. calculable

✘ 3. socked

✘ 4. certain

Question Type : **MCQ**
Question ID : **264330135828**
Option 1 ID : **264330532181**
Option 2 ID : **264330532179**
Option 3 ID : **264330532182**
Option 4 ID : **264330532180**
Status : **Answered**
Chosen Option : **1**

Comprehension:

In the following passage some words have been deleted. Fill in the blanks with the help of the alternatives given. Select the most appropriate option for each number.

Do you live in a house? You might be (1) _____ to learn that there are many, many kinds of (2) _____. Most people in the United States are used to live in houses made of wood or bricks. But many people around the world live in houses made of grass, dirt, or cloth.
In the Great Rift Valley of Eritrea, the nomadic people who are in the Atrtribe build their houses of straw. Their houses are shaped like (3) _____ – half spheres. The homes are small and cool. The people can move their houses when they want to move. Since the people are (4) _____, they move often. They (5) _____ their animals to new places in order to find food.

SubQuestion No : 22

Q.22 Select the most appropriate option to fill in the blank No. 2.

Ans

✘ 1. bead houses

✘ 2. birdhouses

✘ 3. backhouses

✔ 4. houses

Question Type : **MCQ**
Question ID : **264330135829**
Option 1 ID : **264330532185**
Option 2 ID : **264330532186**
Option 3 ID : **264330532183**
Option 4 ID : **264330532184**
Status : **Answered**
Chosen Option : **1**

Join Telegram Group "HaryanaJobs.in"

Comprehension:

In the following passage some words have been deleted. Fill in the blanks with the help of the alternatives given. Select the most appropriate option for each number.

Do you live in a house? You might be (1) _____ to learn that there are many, many kinds of (2) _____. Most people in the United States are used to live in houses made of wood or bricks. But many people around the world live in houses made of grass, dirt, or cloth.
In the Great Rift Valley of Eritrea, the nomadic people who are in the Atrtribe build their houses of straw. Their houses are shaped like (3) _____ – half spheres. The homes are small and cool. The people can move their houses when they want to move. Since the people are (4) _____, they move often. They (5) _____ their animals to new places in order to find food.

SubQuestion No : 23

Q.23 Select the most appropriate option to fill in the blank No. 3.

Ans

✔ 1. domes

✘ 2. vault

✘ 3. pantheon

✘ 4. stars

Question Type : **MCQ**
Question ID : **264330135830**
Option 1 ID : **264330532188**
Option 2 ID : **264330532187**
Option 3 ID : **264330532189**
Option 4 ID : **264330532190**
Status : **Not Answered**
Chosen Option : **--**

Comprehension:

In the following passage some words have been deleted. Fill in the blanks with the help of the alternatives given. Select the most appropriate option for each number.

Do you live in a house? You might be (1) _____ to learn that there are many, many kinds of (2) _____. Most people in the United States are used to live in houses made of wood or bricks. But many people around the world live in houses made of grass, dirt, or cloth.
In the Great Rift Valley of Eritrea, the nomadic people who are in the Atrtribe build their houses of straw. Their houses are shaped like (3) _____ – half spheres. The homes are small and cool. The people can move their houses when they want to move. Since the people are (4) _____, they move often. They (5) _____ their animals to new places in order to find food.

SubQuestion No : 24

Q.24 Select the most appropriate option to fill in the blank No. 4.

Ans

✔ 1. nomads

✘ 2. creative

✘ 3. ill

✘ 4. lost

Question Type : **MCQ**
Question ID : **264330135831**
Option 1 ID : **264330532193**
Option 2 ID : **264330532194**
Option 3 ID : **264330532192**
Option 4 ID : **264330532191**
Status : **Not Answered**
Chosen Option : **--**

Join Telegram Group "HaryanaJobs.in"

Comprehension:

In the following passage some words have been deleted. Fill in the blanks with the help of the alternatives given. Select the most appropriate option for each number.

Do you live in a house? You might be (1) _____ to learn that there are many, many kinds of (2) _____. Most people in the United States are used to live in houses made of wood or bricks. But many people around the world live in houses made of grass, dirt, or cloth.
In the Great Rift Valley of Eritrea, the nomadic people who are in the Atrtribe build their houses of straw. Their houses are shaped like (3) _____ – half spheres. The homes are small and cool. The people can move their houses when they want to move. Since the people are (4) _____, they move often. They (5) _____ their animals to new places in order to find food.

SubQuestion No : 25

Q.25 Select the most appropriate option to fill in the blank No. 5.

Ans

✗ 1. fetch

✓ 2. take

✗ 3. share

✗ 4. offer

Question Type : **MCQ**
Question ID : **264330135832**
Option 1 ID : **264330532196**
Option 2 ID : **264330532195**
Option 3 ID : **264330532197**
Option 4 ID : **264330532198**
Status : **Answered**
Chosen Option : **2**

Join Telegram Group "HaryanaJobs.in"

Multi Tasking Non Technical Staff and Havaldar CBIC and CBN Examination 2022

Roll Number	HaryanaJobs.in
Candidate Name	HaryanaJobs.in
Venue Name	iON Digital Zone iDZ 1 Sector 62
Exam Date	20/06/2023
Exam Time	3:30 PM - 5:00 PM
Subject	MTS Non Tech Havaldar CBIC and CBN Examination 2022

Section : **Numerical and Mathematical Ability**

Q.1 $\frac{13\times14+25\times14-38\times14}{14of2-7}$ का मान क्या है?

Ans

✔ 1. 0

✘ 2. 14

✘ 3. 7

✘ 4. 1

Question Type : **MCQ**
Question ID : **264330140189**
Option 1 ID : **264330549135**
Option 2 ID : **264330549137**
Option 3 ID : **264330549138**
Option 4 ID : **264330549136**
Status : **Answered**
Chosen Option : **1**

Join Telegram Group "HaryanaJobs.in"

Q.2 नीचे दी गई तालिका में 5 बल्लेबाजों द्वारा बनाए गए रनों की संख्या और खेली गई गेंदों की संख्या को दर्शाया गया है।

बल्लेबाज	बनाए गए रनों की संख्या	खेली गई गेंदों की संख्या
P	70	25
Q	80	60
R	90	50
S	110	160
T	40	40

$$\text{Strike rate} = \frac{\text{Number of runs scored}}{\text{Number of balls played}} \times 100$$

स्ट्राइक रेट = (बनाए गए रनों की संख्या/खेली गई गेंदों की संख्या) x 100

किस बल्लेबाज का स्ट्राइक रेट सबसे अधिक है?

Ans

✗ 1. S

✗ 2. R

✓ 3. P

✗ 4. Q

Question Type : **MCQ**
Question ID : **264330139969**
Option 1 ID : **264330548258**
Option 2 ID : **264330548255**
Option 3 ID : **264330548256**
Option 4 ID : **264330548257**
Status : **Answered**
Chosen Option : **4**

Q.3 रोहन साधारण ब्याज पर एक निश्चित राशि ऋण पर लेता है। ब्याज दर, पहले 3 वर्षों के लिए 3 प्रतिशत वार्षिक, अगले 5 वर्षों के लिए 4 प्रतिशत वार्षिक और अगले 7 वर्षों के लिए 6 प्रतिशत वार्षिक है। यदि वह ब्याज के रूप में Rs.2485 का भुगतान करता है, तो ऋण पर ली गई राशि कितनी है?

Ans

✗ 1. Rs. 2500

✗ 2. Rs. 4000

✓ 3. Rs. 3500

✗ 4. Rs. 3600

Question Type : **MCQ**
Question ID : **264330139902**
Option 1 ID : **264330547988**
Option 2 ID : **264330547987**
Option 3 ID : **264330547989**
Option 4 ID : **264330547990**
Status : **Answered**
Chosen Option : **3**

Join Telegram Group "HaryanaJobs.in"

Q.4 एक शेल्फ़ में, सफ़ेद कवर वाली पुस्तकें और नारंगी कवर वाली पुस्तकें 12:21 के अनुपात में हैं। यदि नारंगी कवर वाली 945 पुस्तकें हैं, तो सफ़ेद कवर वाली पुस्तकों की संख्या है:

Ans
1. 1485 ✗
2. 540 ✓
3. 840 ✗
4. 645 ✗

Question Type : **MCQ**
Question ID : **264330139046**
Option 1 ID : **264330544791**
Option 2 ID : **264330544792**
Option 3 ID : **264330544794**
Option 4 ID : **264330544793**
Status : **Answered**
Chosen Option : **2**

Q.5 $\{15 \times 32 \div 2 \times 5\} \div X = 16$ के लिए X का मान ज्ञात कीजिए।

Ans
1. 78 ✗
2. 75 ✓
3. 55 ✗
4. 76 ✗

Question Type : **MCQ**
Question ID : **264330140777**
Option 1 ID : **264330551455**
Option 2 ID : **264330551457**
Option 3 ID : **264330551458**
Option 4 ID : **264330551456**
Status : **Answered**
Chosen Option : **2**

Q.6 यदि P का 60 प्रतिशत = Q का (6/7) है, तो P : Q का मान क्या है?

Ans
1. 18 : 5 ✗
2. 9 : 5 ✗
3. 10 : 7 ✓
4. 17 : 19 ✗

Question Type : **MCQ**
Question ID : **264330140616**
Option 1 ID : **264330550813**
Option 2 ID : **264330550812**
Option 3 ID : **264330550811**
Option 4 ID : **264330550814**
Status : **Answered**
Chosen Option : **3**

Join Telegram Group "HaryanaJobs.in"

Q.7 एक कमरे की लंबाई, चौड़ाई, ऊँचाई क्रमशः 6 m, 4 m 80 cm और 3 m 60 cm है। उस सबसे लंबे टेप की लंबाई ज्ञात कीजिए जो कमरे के आयामों को सटीक रूप से माप सकता है।

Ans
1. ✗ 1 m 50 cm
2. ✗ 1 m 80 cm
3. ✗ 1 m 40 cm
4. ✓ 1 m 20 cm

Question Type : **MCQ**
Question ID : **264330139031**
Option 1 ID : **264330544731**
Option 2 ID : **264330544733**
Option 3 ID : **264330544732**
Option 4 ID : **264330544734**
Status : **Answered**
Chosen Option : **3**

Q.8 एक आयत का परिमाप 30 cm है। यदि आयत की लम्बाई उसकी चौड़ाई की दुगुनी है, तो उसके विकर्ण की लम्बाई क्या है?

Ans
1. ✗ $5\sqrt{4}$ cm
2. ✗ $3\sqrt{2}$ cm
3. ✓ $5\sqrt{5}$ cm
4. ✗ $4\sqrt{5}$ cm

Question Type : **MCQ**
Question ID : **264330140167**
Option 1 ID : **264330549050**
Option 2 ID : **264330549047**
Option 3 ID : **264330549049**
Option 4 ID : **264330549048**
Status : **Answered**
Chosen Option : **3**

Q.9 P अकेले किसी कार्य को 10 दिनों में कर सकता है, Q अकेले उसी कार्य को 15 दिनों में कर सकता है और R अकेले उसी कार्य को 12 दिनों में कर सकता है। वे साथ मिलकर कार्य पूरा करते हैं और Rs.3000 कमाते हैं। इसमें R का हिस्सा कितना है?

Ans
1. ✗ Rs. 1200
2. ✗ Rs. 1500
3. ✓ Rs. 1000
4. ✗ Rs. 800

Question Type : **MCQ**
Question ID : **264330140173**
Option 1 ID : **264330549072**
Option 2 ID : **264330549074**
Option 3 ID : **264330549071**
Option 4 ID : **264330549073**
Status : **Answered**
Chosen Option : **3**

Join Telegram Group "HaryanaJobs.in"

Q.10 एक व्यापारी Rs. 30 per kg मूल्य वाले 20 किलो चावल को दूसरी किस्म के Rs. 30 per kg मूल्य वाले 20 किलो चावल के साथ मिलाता है और मिश्रण को Rs. 33 per kg के मूल्य पर बेचता है। उसका लाभ प्रतिशत है:

Ans

1. ✗ 18%
2. ✗ 20%
3. ✓ 10%
4. ✗ 12%

Question Type : **MCQ**
Question ID : **264330140804**
Option 1 ID : **264330551565**
Option 2 ID : **264330551566**
Option 3 ID : **264330551563**
Option 4 ID : **264330551564**
Status : **Answered**
Chosen Option : **3**

Q.11 शिवम ने दो घड़ियाँ खरीदीं, पहली Rs. 12000 में और दूसरी Rs. 16000 में। उसने दोनों घड़ियाँ बेच दीं, पहली 10 प्रतिशत के लाभ पर और दूसरी 10 प्रतिशत की हानि पर। कुल हानि या लाभ कितना है?

Ans

1. ✗ लाभ = Rs. 200
2. ✗ लाभ = Rs. 600
3. ✓ हानि = Rs. 400
4. ✗ हानि = Rs. 800

Question Type : **MCQ**
Question ID : **264330139635**
Option 1 ID : **264330546955**
Option 2 ID : **264330546956**
Option 3 ID : **264330546957**
Option 4 ID : **264330546958**
Status : **Answered**
Chosen Option : **3**

Q.12 एक कार क्रमशः 20 km/hr, 40 km/hr और 60 km/hr की चाल से 2 km की 3 क्रमिक दूरियाँ तय करती है। कार की औसत चाल है:

Ans

1. ✓ 32.72 km/hr
2. ✗ 42.12 km/hr
3. ✗ 40.50 km/hr
4. ✗ 38.56 km/hr

Question Type : **MCQ**
Question ID : **264330139040**
Option 1 ID : **264330544767**
Option 2 ID : **264330544768**
Option 3 ID : **264330544770**
Option 4 ID : **264330544769**
Status : **Answered**
Chosen Option : **1**

Join Telegram Group "HaryanaJobs.in"

Q.13 नीचे दिए गए वृत्त आलेख में 6 अलग-अलग कारखानों द्वारा किए गए उत्पादन को दर्शाया गया है। इन सभी 6 कारखानों द्वारा किया गया कुल उत्पादन 1400 है। इनमें से किसी एक विशिष्ट कारखाने द्वारा किए गए उत्पादन को इन सभी 6 कारखानों द्वारा किए गए कुल उत्पादन के प्रतिशत के रूप में दर्शाया गया है।

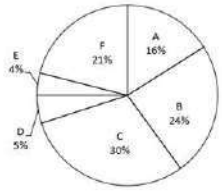

निम्नलिखित में से कौन-सा कथन सही है?

I. वृत्तखंड A और C द्वारा मिलकर बनाया गया केंद्रीय कोण 156.6° है।

II. वृत्तखंड B, D और F द्वारा मिलकर बनाया गया केंद्रीय कोण 180° है।

Ans

✗ 1. I और II दोनों

✗ 2. केवल I

✗ 3. न तो I और न ही II

✓ 4. केवल II

Question Type : **MCQ**
Question ID : **264330140212**
Option 1 ID : **264330549229**
Option 2 ID : **264330549227**
Option 3 ID : **264330549230**
Option 4 ID : **264330549228**
Status : **Answered**
Chosen Option : **4**

Q.14 पीतल में ताँबे और जस्ते का अनुपात 7 : 3 है। 200 kg पीतल में ताँबे की कितनी मात्रा होगी?

Ans

✗ 1. 120 kg

✓ 2. 140 kg

✗ 3. 60 kg

✗ 4. 160 kg

Question Type : **MCQ**
Question ID : **264330139636**
Option 1 ID : **264330546959**
Option 2 ID : **264330546961**
Option 3 ID : **264330546960**
Option 4 ID : **264330546962**
Status : **Answered**
Chosen Option : **2**

Join Telegram Group "HaryanaJobs.in"

Q.15 1.3 किलोमीटर प्रति घंटे को मीटर प्रति सेकंड में बदलें।

Ans
1. 11/54 m/s
2. 14/48 m/s
3. 13/65 m/s
4. 13/36 m/s

Question Type : **MCQ**
Question ID : **264330140789**
Option 1 ID : **264330551505**
Option 2 ID : **264330551504**
Option 3 ID : **264330551506**
Option 4 ID : **264330551503**
Status : **Answered**
Chosen Option : **4**

Q.16 एक घनाभ की लंबाई और चौड़ाई का योग 40 cm है। यदि घनाभ की ऊँचाई उसकी लंबाई और चौड़ाई के योग का 1/5 भाग है, तो घनाभ का पार्श्व पृष्ठीय क्षेत्रफल क्या है?

Ans
1. 640 cm^2
2. 320 cm^2
3. 580 cm^2
4. 720 cm^2

Question Type : **MCQ**
Question ID : **264330139904**
Option 1 ID : **264330547998**
Option 2 ID : **264330547995**
Option 3 ID : **264330547996**
Option 4 ID : **264330547997**
Status : **Not Attempted and Marked For Review**
Chosen Option : **--**

Q.17 Rs. 165400 पर 4 वर्षों के लिए 5% वार्षिक दर पर वार्षिक रूप से संयोजित चक्रवृद्धि ब्याज ज्ञात कीजिए।

Ans
1. Rs. 54367.6
2. Rs. 34564.98
3. Rs. 34527.87
4. Rs. 35644.73

Question Type : **MCQ**
Question ID : **264330140788**
Option 1 ID : **264330551499**
Option 2 ID : **264330551501**
Option 3 ID : **264330551500**
Option 4 ID : **264330551502**
Status : **Answered**
Chosen Option : **2**

Join Telegram Group "HaryanaJobs.in"

Q.18 पंकज Rs.1000 में एक घड़ी खरीदता है। वह घड़ी को 20 प्रतिशत के बट्टे पर बेचता है और 40 प्रतिशत का लाभ अर्जित करता है। घड़ी का अंकित मूल्य क्या है?

Ans

✗ 1. Rs.1640

✗ 2. Rs.1880

✓ 3. Rs.1750

✗ 4. Rs.1980

Question Type : **MCQ**
Question ID : **264330140185**
Option 1 ID : **264330549121**
Option 2 ID : **264330549119**
Option 3 ID : **264330549120**
Option 4 ID : **264330549122**
Status : **Answered**
Chosen Option : **3**

Q.19 एक परीक्षा में 6000 छात्रों में से 60% लड़के और 90% लड़कियाँ उत्तीर्ण होती हैं। यदि कुल उत्तीर्ण प्रतिशत 65% था तो लड़कों की संख्या कितनी है?

Ans

✗ 1. 5500

✓ 2. 5000

✗ 3. 3500

✗ 4. 4500

Question Type : **MCQ**
Question ID : **264330133630**
Option 1 ID : **264330523545**
Option 2 ID : **264330523543**
Option 3 ID : **264330523546**
Option 4 ID : **264330523544**
Status : **Answered**
Chosen Option : **2**

Q.20 यदि A किसी कार्य का 20 प्रतिशत 6 दिनों में कर सकता है, तो A पूरे कार्य को कितने दिनों में समाप्त कर सकता है?

Ans

✗ 1. 25 दिन

✓ 2. 30 दिन

✗ 3. 15 दिन

✗ 4. 60 दिन

Question Type : **MCQ**
Question ID : **264330139628**
Option 1 ID : **264330546929**
Option 2 ID : **264330546927**
Option 3 ID : **264330546928**
Option 4 ID : **264330546930**
Status : **Answered**
Chosen Option : **2**

Section : **Reasoning Ability and Problem Solving**

Join Telegram Group "HaryanaJobs.in"

Q.1 दिए गए समीकरण को सही करने के लिए किन दो संख्याओं को आपस में बदला जाना चाहिए?
1 × 4 + 3 − 5 = 6

Ans
✔ 1. 5 और 3
✘ 2. 4 और 5
✘ 3. 3 और 6
✘ 4. 1 और 5

Question Type : **MCQ**
Question ID : **264330138782**
Option 1 ID : **264330543736**
Option 2 ID : **264330543737**
Option 3 ID : **264330543738**
Option 4 ID : **264330543735**
Status : **Answered**
Chosen Option : **1**

Q.2 उस विकल्प को चुनिए जो तीसरे शब्द से ठीक उसी प्रकार संबंधित है जिस प्रकार दूसरा शब्द पहले शब्द से संबंधित है।
हूगली : कोलकाता :: गंगा : ?

Ans
✘ 1. बैंगलोर
✘ 2. अयोध्या
✘ 3. चेन्नई
✔ 4. पटना

Question Type : **MCQ**
Question ID : **264330141202**
Option 1 ID : **264330553146**
Option 2 ID : **264330553145**
Option 3 ID : **264330553143**
Option 4 ID : **264330553144**
Status : **Answered**
Chosen Option : **4**

Join Telegram Group "HaryanaJobs.in"

Q.3 दो कथन दिए गए हैं और दो निष्कर्ष I और II दिए गए हैं। कथनों को सत्य मानते हुए, चाहे वे सामान्यतः ज्ञात तथ्यों से अलग प्रतीत होते हों, निश्चय कीजिए कि कौन-सा निष्कर्ष तार्किक रूप से कथनों के अनुसार है।

कथन:

सभी श्रृंखला, वृत्त हैं।

कोई श्रृंखला, वर्ग नहीं है।

निष्कर्ष:

I. कुछ वृत्त, वर्ग हैं।

II. कुछ वृत्त, श्रृंखला हैं।

Ans

1. दोनों निष्कर्ष I और II कथनों के अनुसार हैं।
2. केवल निष्कर्ष II कथनों के अनुसार है।
3. केवल निष्कर्ष I कथनों के अनुसार है।
4. न तो निष्कर्ष I और न ही II कथनों के अनुसार है।

Question Type : **MCQ**
Question ID : **264330140421**
Option 1 ID : **264330550065**
Option 2 ID : **264330550064**
Option 3 ID : **264330550063**
Option 4 ID : **264330550066**
Status : **Answered**
Chosen Option : **2**

Join Telegram Group "HaryanaJobs.in"

Q.4 दी गई आकृति के उस सही दर्पण प्रतिबिंब को चुनिए, जो दर्पण को आकृति के दाईं ओर रखने पर बनेगा।

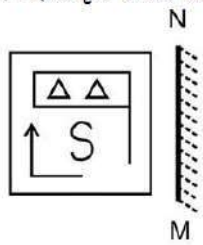

Ans

✗ 1.

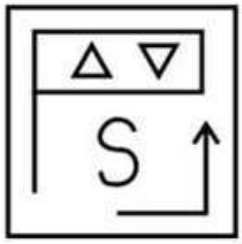

✗ 2.

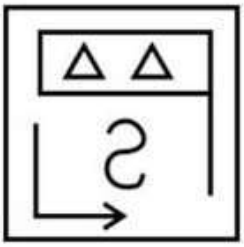

✗ 3.

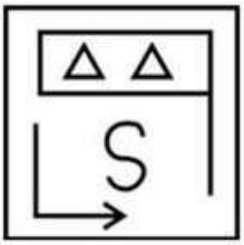

✓ 4.

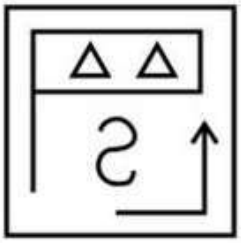

Question Type : **MCQ**
Question ID : **264330135366**
Option 1 ID : **264330530373**
Option 2 ID : **264330530372**
Option 3 ID : **264330530371**
Option 4 ID : **264330530374**
Status : **Answered**
Chosen Option : **4**

Join Telegram Group "HaryanaJobs.in"

Q.5 एक परीक्षा भवन में सात छात्र अंकित, छोटू, जितिन, केजल, नीतू, पीयूष और सक्षम एक पंक्ति में उत्तर की ओर मुख करके बैठे हैं परंतु जरूरी नहीं कि वे इसी क्रम में बैठे हों। छोटू, सक्षम के दाईं ओर से तीसरे स्थान पर बैठा है। अंकित और पीयूष, छोटू के निकटतम पड़ोसी हैं। पीयूष और सक्षम के बीच दो से अधिक छात्र बैठे हैं। जितिन, नीतू का एकमात्र पड़ोसी है। जितिन, अंकित के दाईं ओर बैठा है। केजल के सन्दर्भ में नीतू का स्थान कौन-सा है?

Ans

✔ 1. दाईं ओर से पाँचवाँ

✘ 2. दाईं ओर से तीसरा

✘ 3. बाईं ओर से पाँचवाँ

✘ 4. बाईं ओर से तीसरा

Question Type : **MCQ**
Question ID : **264330140040**
Option 1 ID : **264330548540**
Option 2 ID : **264330548539**
Option 3 ID : **264330548542**
Option 4 ID : **264330548541**
Status : **Answered**
Chosen Option : **1**

Q.6 सात छात्रों एनी, बिली, कैरी, दिशा, ईशा, फैजल और गायत्री ने अलग-अलग अंक प्राप्त किए हैं। दिशा ने फैजल से अधिक अंक प्राप्त किए हैं, जिसने द्वितीय स्थान पर सबसे अधिक अंक प्राप्त किए हैं। कैरी और फैजल के बीच तीन छात्रों ने अंक प्राप्त किए हैं। गायत्री ने कैरी से कम अंक प्राप्त किए हैं। किसने सबसे कम अंक प्राप्त किए हैं?

Ans

✘ 1. फैजल

✔ 2. गायत्री

✘ 3. एनी

✘ 4. ईशा

Question Type : **MCQ**
Question ID : **264330140020**
Option 1 ID : **264330548462**
Option 2 ID : **264330548461**
Option 3 ID : **264330548460**
Option 4 ID : **264330548459**
Status : **Answered**
Chosen Option : **2**

Q.7 उस विकल्प को चुनिए जो तीसरे पद से ठीक उसी प्रकार संबंधित है जिस प्रकार दूसरा पद पहले पद से संबंधित है और छठा पद पाँचवें पद से संबंधित है।

U39R : P118M :: F18A : ? :: G72K : B217F

Ans

✘ 1. C55V

✔ 2. A55V

✘ 3. A55W

✘ 4. B55U

Question Type : **MCQ**
Question ID : **264330139550**
Option 1 ID : **264330546615**
Option 2 ID : **264330546616**
Option 3 ID : **264330546618**
Option 4 ID : **264330546617**
Status : **Not Attempted and Marked For Review**
Chosen Option : **--**

Join Telegram Group "HaryanaJobs.in"

Q.8 एक निश्चित कूट भाषा में, 'ABOUT' को '12632' लिखा जाता है। उस भाषा में 'GRACE' को कैसे लिखा जाएगा?

Ans

✔ 1. 79135

✘ 2. 79154

✘ 3. 79153

✘ 4. 71953

Question Type : **MCQ**
Question ID : **264330140015**
Option 1 ID : **264330548440**
Option 2 ID : **264330548442**
Option 3 ID : **264330548441**
Option 4 ID : **264330548439**
Status : **Answered**
Chosen Option : **1**

Q.9 निम्नलिखित प्रश्न में कुछ कथन दिए गए हैं और उन कथनों के आधार पर कुछ निष्कर्ष दिए गए हैं। आपको यह मानना है कि दिए गए कथन सत्य हैं चाहे वे समान्यतः ज्ञात तथ्यों से अलग प्रतीत होते हों। सभी निष्कर्षों को पढ़िए और फिर निश्चय कीजिए कि दिए गए निष्कर्षों में से कौन-सा निष्कर्ष तार्किक रूप से दिए गए कथनों के अनुसार है।

कथन:

I. कोई X, S नहीं है।

II. सभी J, X हैं।

निष्कर्ष:

I. कुछ S, X नहीं हैं।

II. कुछ J, S नहीं हैं।

III. कुछ J, X नहीं हैं।

Ans

✘ 1. केवल निष्कर्ष I कथनों के अनुसार है

✘ 2. दोनों निष्कर्ष I और III कथनों के अनुसार हैं

✘ 3. कोई भी निष्कर्ष कथनों के अनुसार नहीं है

✔ 4. दोनों निष्कर्ष I और II कथनों के अनुसार हैं

Question Type : **MCQ**
Question ID : **264330139981**
Option 1 ID : **264330548304**
Option 2 ID : **264330548303**
Option 3 ID : **264330548306**
Option 4 ID : **264330548305**
Status : **Answered**
Chosen Option : **3**

Join Telegram Group "HaryanaJobs.in"

Q.10 एक निश्चित कूट भाषा में, 'WORLD' को 'VNQKC' लिखा जाता है। उस कूट भाषा में 'FAINT' को कैसे लिखा जाएगा?

Ans

✔ 1. EZHMS

✘ 2. EZMFS

✘ 3. DHBLH

✘ 4. DMOHC

Question Type : **MCQ**
Question ID : **264330135353**
Option 1 ID : **264330530322**
Option 2 ID : **264330530321**
Option 3 ID : **264330530319**
Option 4 ID : **264330530320**
Status : **Answered**
Chosen Option : **1**

Q.11 दी गई श्रृंखला में निम्नलिखित में से कौन-सा अक्षर-समूह प्रश्न चिन्ह(?) के स्थान पर आएगा?
TX, XB, BF, FJ, ?

Ans

✘ 1. KM

✔ 2. JN

✘ 3. JM

✘ 4. KN

Question Type : **MCQ**
Question ID : **264330140093**
Option 1 ID : **264330548754**
Option 2 ID : **264330548751**
Option 3 ID : **264330548752**
Option 4 ID : **264330548753**
Status : **Answered**
Chosen Option : **2**

Q.12 छः लड़कियाँ मानसी, श्वेता, मोनिका, पायल, आरती और काजल एक पंक्ति में उत्तर की ओर मुख करके बैठी हैं (परंतु जरूरी नहीं कि वे इसी क्रम में बैठी हों)। श्वेता, आरती के बाईं ओर से दूसरे स्थान पर है। पायल, काजल के दाईं ओर से दूसरे स्थान पर है। काजल, मोनिका के दाईं ओर से दूसरे स्थान पर है। काजल, श्वेता के ठीक बाईं ओर है। आरती के ठीक बाईं ओर कौन बैठा है?

Ans

✘ 1. काजल

✘ 2. मानसी

✘ 3. श्वेता

✔ 4. पायल

Question Type : **MCQ**
Question ID : **264330139534**
Option 1 ID : **264330546553**
Option 2 ID : **264330546551**
Option 3 ID : **264330546554**
Option 4 ID : **264330546552**
Status : **Answered**
Chosen Option : **4**

Join Telegram Group "HaryanaJobs.in"

Q.13 उस विकल्प को चुनिए जो तीसरी संख्या से ठीक उसी प्रकार संबंधित है जिस प्रकार दूसरी संख्या पहली संख्या से संबंधित है।
65 : 5 :: 117 : ?

Ans
1. 7 ✗
2. 9 ✓
3. 6 ✗
4. 4 ✗

Question Type : **MCQ**
Question ID : **264330140025**
Option 1 ID : **264330548479**
Option 2 ID : **264330548481**
Option 3 ID : **264330548482**
Option 4 ID : **264330548480**
Status : **Answered**
Chosen Option : **2**

Q.14 दिए गए दो चिन्हों को आपस में बदलने पर, निम्नलिखित में से कौन-सा समीकरण सही **नहीं** होगा?

÷ और +

I. 9 ÷ 6 × 4 + 2 - 5 = 16

II. 5 - 28 + 7 × 16 ÷ 4 = -103

Ans
1. न तो I और न ही II ✗
2. केवल II ✓
3. I और II दोनों ✗
4. केवल I ✗

Question Type : **MCQ**
Question ID : **264330139987**
Option 1 ID : **264330548330**
Option 2 ID : **264330548328**
Option 3 ID : **264330548329**
Option 4 ID : **264330548327**
Status : **Answered**
Chosen Option : **4**

Q.15 एक निश्चित कूट भाषा में, 'NUMBER' को 'UNBMRE' लिखा जाता है। उस कूट भाषा में 'CANCER' को कैसे लिखा जाएगा?

Ans
1. ACCNRE ✓
2. ACCNER ✗
3. ACCMRE ✗
4. BCCNRE ✗

Question Type : **MCQ**
Question ID : **264330139551**
Option 1 ID : **264330546619**
Option 2 ID : **264330546621**
Option 3 ID : **264330546620**
Option 4 ID : **264330546622**
Status : **Answered**
Chosen Option : **1**

Join Telegram Group "HaryanaJobs.in"

Q.16 उस विकल्प को चुनिए जिसमें समुच्चय की संख्याएँ वही संबंध साझा करती हैं जो दिए गए समुच्चय में संख्याओं द्वारा साझा किया जाता है। (ध्यान दें: संख्याओं को उनके घटक अंकों में अलग-अलग किए बिना, पूर्ण संख्याओं पर संक्रियाएँ की जानी चाहिए। उदा. 13 - 13 पर संक्रियाएँ जैसे 13 को जोड़ना/घटाना/गुणा करना आदि किया जा सकता है। 13 को 1 और 3 में अलग-अलग करने की और फिर 1 और 3 पर गणितीय संक्रियाएँ करने की अनुमति नहीं है)

(10, 6, 32)

(20, 8, 56)

Ans
1. (20, 16, 64)
2. (12, 14, 54)
3. (14, 18, 60)
4. (18, 12, 60)

Question Type : **MCQ**
Question ID : **264330139582**
Option 1 ID : **264330546745**
Option 2 ID : **264330546743**
Option 3 ID : **264330546744**
Option 4 ID : **264330546746**
Status : **Answered**
Chosen Option : **4**

Q.17 दी गई श्रृंखला में निम्नलिखित में से कौन-सी संख्या प्रश्न चिन्ह (?) के स्थान पर आएगी?
117, 110, 106, 99, 95, 88, 84, ?

Ans
1. 59
2. 93
3. 47
4. 77

Question Type : **MCQ**
Question ID : **264330138800**
Option 1 ID : **264330543810**
Option 2 ID : **264330543808**
Option 3 ID : **264330543809**
Option 4 ID : **264330543807**
Status : **Answered**
Chosen Option : **4**

Q.18 दी गई श्रृंखला में निम्नलिखित में से कौन-सी संख्या प्रश्न चिन्ह (?) के स्थान पर आएगी?
63, 67, 75, 87, 103, ?

Ans
1. 124
2. 121
3. 125
4. 123

Question Type : **MCQ**
Question ID : **264330140443**
Option 1 ID : **264330550153**
Option 2 ID : **264330550151**
Option 3 ID : **264330550154**
Option 4 ID : **264330550152**
Status : **Answered**
Chosen Option : **4**

Join Telegram Group "HaryanaJobs.in"

Q.19 उस विकल्प आकृति को चुनिए जिसमें दी गई आकृति (X) उसके भाग के रूप में निहित है। (घूर्णन की अनुमति नहीं है)।

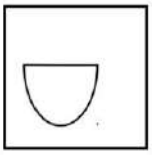

X

Ans

✗ 1.

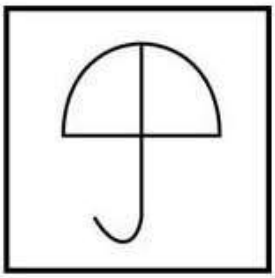

✓ 2.

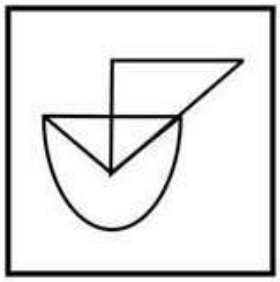

✗ 3.

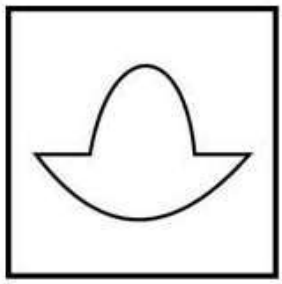

✗ 4.

Question Type : **MCQ**
Question ID : **264330135365**
Option 1 ID : **264330530368**
Option 2 ID : **264330530369**
Option 3 ID : **264330530367**
Option 4 ID : **264330530370**
Status : **Answered**
Chosen Option : **2**

Join Telegram Group "HaryanaJobs.in"

Q.20 कौन-सी उत्तर आकृति प्रश्न आकृति में दिए गए पैटर्न को पूरा करेगी?

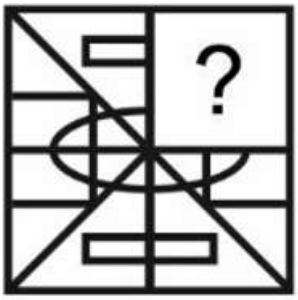

Ans

✗ 1.

✓ 2.

✗ 3.

✗ 4.

Question Type : **MCQ**
Question ID : **264330139990**
Option 1 ID : **264330548339**
Option 2 ID : **264330548340**
Option 3 ID : **264330548342**
Option 4 ID : **264330548341**
Status : **Answered**
Chosen Option : **2**

Section : **General Awareness**

Join Telegram Group "HaryanaJobs.in"

Q.1 अक्टूबर 2022 में, ब्रिटेन के पहले भारतीय मूल के प्रधानमंत्री कौन बने?

Ans
1. हैरी आनंद
2. कमला हैरिस
3. नील कश्करी
4. ऋषि सुनक

Question Type : **MCQ**
Question ID : **264330139656**
Option 1 ID : **264330547040**
Option 2 ID : **264330547039**
Option 3 ID : **264330547042**
Option 4 ID : **264330547041**
Status : **Answered**
Chosen Option : **4**

Q.2 निम्न में से कौन-सा विकल्प राष्ट्रीय आय की मापन पद्धति का हिस्सा नहीं है?

Ans
1. आय विधि (Income method)
2. उत्पाद विधि (Product method)
3. व्यय विधि (Expenditure method)
4. ऋण विधि (Credit method)

Question Type : **MCQ**
Question ID : **264330140341**
Option 1 ID : **264330549743**
Option 2 ID : **264330549744**
Option 3 ID : **264330549746**
Option 4 ID : **264330549745**
Status : **Answered**
Chosen Option : **4**

Q.3 मौर्य काल की भारत में कौन-सी गुफाओं को सबसे पुरानी जीवित रॉक-कट गुफाएँ (surviving rock - cut caves) माना जाता है?

Ans
1. बराबर और नागार्जुनी गुफाएँ (Barabar and Nagarjuni caves)
2. बाघ गुफाएँ (Bagh Caves)
3. अजंता और एलोरा की गुफाएँ (Ajanta and Ellora Caves)
4. एलीफेंटा गुफाएँ (Elephanta Caves)

Question Type : **MCQ**
Question ID : **264330140269**
Option 1 ID : **264330549456**
Option 2 ID : **264330549457**
Option 3 ID : **264330549455**
Option 4 ID : **264330549458**
Status : **Answered**
Chosen Option : **2**

Join Telegram Group "HaryanaJobs.in"

Q.4 BPL प्रारंभिक/न्यूनतम आय से संबंधित एक आर्थिक मानदण्ड है। "BPL" का पूर्णरूप क्या है?

Ans
1. बेस पोवर्टी लाइन(Base Poverty Line) ✗
2. बेस प्राइज़ लाइन(Base Price Line) ✗
3. बिलो पोवर्टी लाइन(Below Poverty Line) ✓
4. बिलो प्राइज़ लाइन(Below Price Line) ✗

Question Type : **MCQ**
Question ID : **264330140304**
Option 1 ID : **264330549598**
Option 2 ID : **264330549596**
Option 3 ID : **264330549597**
Option 4 ID : **264330549595**
Status : **Answered**
Chosen Option : **3**

Q.5 हमारे सौरमंडल का सबसे छोटा ग्रह कौन-सा है?

Ans
1. शुक्र ✗
2. पृथ्वी ✗
3. बुध ✓
4. मंगल ✗

Question Type : **MCQ**
Question ID : **264330140282**
Option 1 ID : **264330549508**
Option 2 ID : **264330549509**
Option 3 ID : **264330549507**
Option 4 ID : **264330549510**
Status : **Answered**
Chosen Option : **3**

Q.6 ज़ो-मल-लोक (Zo-Mal-Lok) लोकनृत्य किस समुदाय से संबंधित है?

Ans
1. चाईमल (Chaimal) समुदाय ✗
2. लेपचा (Lepcha) समुदाय ✓
3. लुशाई (Lushai) समुदाय ✗
4. जमातिया (Jamatia) समुदाय ✗

Question Type : **MCQ**
Question ID : **264330138971**
Option 1 ID : **264330544493**
Option 2 ID : **264330544491**
Option 3 ID : **264330544494**
Option 4 ID : **264330544492**
Status : **Answered**
Chosen Option : **1**

Join Telegram Group "HaryanaJobs.in"

Q.7 खेलों के संबंध में, WADA का अर्थ _____ है।

Ans
✔ 1. वर्ल्ड एंटी-डोपिंग एजेंसी (World Anti - Doping Agency)

✘ 2. वर्ल्ड ऑटोनॉमस - डोपिंग एजेंसी (World Autonomous - Doping Agency)

✘ 3. वर्ल्ड एंटी-डोपिंग एसोसिएशन (World Anti - Doping Association)

✘ 4. रेस्लिंग एंटी-डोपिंग एसोसिएशन (Wrestling Anti - Doping Association)

Question Type : **MCQ**
Question ID : **264330138974**
Option 1 ID : **264330544505**
Option 2 ID : **264330544506**
Option 3 ID : **264330544504**
Option 4 ID : **264330544503**
Status : **Answered**
Chosen Option : **3**

Q.8 गुग्गा (Gugga) नृत्य निम्नलिखित में से किस राज्य का पारंपरिक लोक नृत्य है?

Ans
✘ 1. केरल

✘ 2. तमिलनाडु

✘ 3. असम

✔ 4. हरियाणा

Question Type : **MCQ**
Question ID : **264330140881**
Option 1 ID : **264330551871**
Option 2 ID : **264330551874**
Option 3 ID : **264330551872**
Option 4 ID : **264330551873**
Status : **Not Answered**
Chosen Option : **--**

Q.9 जवाहरलाल नेहरू बंदरगाह कहाँ स्थित है?

Ans
✘ 1. चेन्नई

✘ 2. भुवनेश्वर

✔ 3. नवी मुंबई

✘ 4. कोलकाता

Question Type : **MCQ**
Question ID : **264330140301**
Option 1 ID : **264330549586**
Option 2 ID : **264330549584**
Option 3 ID : **264330549585**
Option 4 ID : **264330549583**
Status : **Answered**
Chosen Option : **4**

Join Telegram Group "HaryanaJobs.in"

Q.10 निम्नलिखित में से कौन-सा गुप्त शासक घटोत्कच (Ghatotkacha) का उत्तराधिकारी बना?

Ans
✔ 1. चंद्रगुप्त प्रथम
✘ 2. चंद्रगुप्त द्वितीय
✘ 3. स्कन्दगुप्त
✘ 4. कुमारगुप्त प्रथम

Question Type : **MCQ**
Question ID : **264330140355**
Option 1 ID : **264330549801**
Option 2 ID : **264330549802**
Option 3 ID : **264330549799**
Option 4 ID : **264330549800**
Status : **Answered**
Chosen Option : **3**

Q.11 तीजन बाई को वर्ष 2003 में उनकी कला के लिए पद्म भूषण से सम्मानित किया गया था। वह किस नृत्य शैली के लिए प्रख्यात हैं?

Ans
✘ 1. घूमर (Ghumar)
✘ 2. छऊ (Chhau)
✘ 3. कालबेलिया (Kalbelia)
✔ 4. पंडवानी (Pandavani)

Question Type : **MCQ**
Question ID : **264330138953**
Option 1 ID : **264330544421**
Option 2 ID : **264330544420**
Option 3 ID : **264330544422**
Option 4 ID : **264330544419**
Status : **Answered**
Chosen Option : **1**

Q.12 निम्नलिखित में से कौन-सी पुस्तक स्वामी विवेकानंद द्वारा लिखी गई थी ?

Ans
✘ 1. एंशियंट इंडिया (Ancient India)
✔ 2. द ईस्ट एंड द वेस्ट (The East and the West)
✘ 3. नो सीक्रेट्स (No secrets)
✘ 4. रिवर ऑफ स्मोक (River of Smoke)

Question Type : **MCQ**
Question ID : **264330139728**
Option 1 ID : **264330547328**
Option 2 ID : **264330547327**
Option 3 ID : **264330547329**
Option 4 ID : **264330547330**
Status : **Answered**
Chosen Option : **2**

Join Telegram Group "HaryanaJobs.in"

Q.13 निम्नलिखित में से कौन-सा भारत में मनाए जाने वाले फसल कटाई उत्सवों में से एक नहीं है?

Ans
1. बैसाखी ✗
2. लोहड़ी ✗
3. ओणम ✗
4. दिवाली ✓

Question Type : **MCQ**
Question ID : **264330139867**
Option 1 ID : **264330547847**
Option 2 ID : **264330547848**
Option 3 ID : **264330547850**
Option 4 ID : **264330547849**
Status : **Answered**
Chosen Option : **4**

Q.14 Vetti tax is the most frequently mentioned tax in the inscription of Cholas who ruled in Tamil Nadu. This tax was taken in the form of _____.

Ans
1. forced labour ✓
2. grains ✗
3. house rent ✗
4. land revenue ✗

Question Type : **MCQ**
Question ID : **264330141060**
Option 1 ID : **264330552587**
Option 2 ID : **264330552589**
Option 3 ID : **264330552590**
Option 4 ID : **264330552588**
Status : **Answered**
Chosen Option : **4**

Q.15 नवंबर 2022 तक लोकसभा के कितने आम चुनाव हो चुके हैं?

Ans
1. 17 ✓
2. 13 ✗
3. 24 ✗
4. 10 ✗

Question Type : **MCQ**
Question ID : **264330140772**
Option 1 ID : **264330551437**
Option 2 ID : **264330551436**
Option 3 ID : **264330551438**
Option 4 ID : **264330551435**
Status : **Not Answered**
Chosen Option : **--**

Join Telegram Group "HaryanaJobs.in"

Q.16 यदि सकल राजकोषीय घाटे का मूल्य निवल ब्याज दायित्व से अधिक होगा, तो सकल प्राथमिक घाटे का मूल्य _____ होगा।

Ans
1. अनंत
2. धनात्मक
3. शून्य
4. ऋणात्मक

Question Type : **MCQ**
Question ID : **264330140891**
Option 1 ID : **264330551911**
Option 2 ID : **264330551912**
Option 3 ID : **264330551914**
Option 4 ID : **264330551913**
Status : **Answered**
Chosen Option : **4**

Q.17 निम्नलिखित में से कौन-सा स्थलीय पारितंत्र (terrestrial ecosystem) का एक उदाहरण है?

Ans
1. तालाब
2. घास के मैदान
3. नदी
4. महासागर

Question Type : **MCQ**
Question ID : **264330140683**
Option 1 ID : **264330551082**
Option 2 ID : **264330551081**
Option 3 ID : **264330551080**
Option 4 ID : **264330551079**
Status : **Answered**
Chosen Option : **2**

Q.18 रणजी ट्रॉफी का संबंध निम्न में से किस खेल से है?

Ans
1. क्रिकेट
2. फ़ुटबॉल
3. बैडमिंटन
4. हॉकी

Question Type : **MCQ**
Question ID : **264330140390**
Option 1 ID : **264330549942**
Option 2 ID : **264330549939**
Option 3 ID : **264330549941**
Option 4 ID : **264330549940**
Status : **Answered**
Chosen Option : **1**

Join Telegram Group "HaryanaJobs.in"

Q.19 2011 की जनगणना के अनुसार, निम्न में से किस राज्य का लिंगानुपात सबसे अधिक है?

Ans
1. महाराष्ट्र
2. मेघालय
3. मध्यप्रदेश
4. उत्तरप्रदेश

Question Type : **MCQ**
Question ID : **264330140737**
Option 1 ID : **264330551297**
Option 2 ID : **264330551295**
Option 3 ID : **264330551298**
Option 4 ID : **264330551296**
Status : **Answered**
Chosen Option : **2**

Q.20 लॉर्ड विलियम बैंटिक (Lord William Bentinck) ने राजा राममोहन राय के सहयोग से _____ की प्रथा को समाप्त कर दिया।

Ans
1. ब्रह्मचर्य
2. धर्म
3. बहुपतित्व (Polyandry)
4. सती

Question Type : **MCQ**
Question ID : **264330140691**
Option 1 ID : **264330551112**
Option 2 ID : **264330551111**
Option 3 ID : **264330551113**
Option 4 ID : **264330551114**
Status : **Answered**
Chosen Option : **4**

Q.21 1757 के प्लासी के युद्ध के बाद, ब्रिटिश ईस्ट इंडिया कंपनी से कौन प्लासी का बैरन (Baron of Plassey) बना?

Ans
1. रॉबर्ट क्लाइव
2. वारेन हेस्टिंग्स
3. चार्ल्स नेपियर
4. जॉन लॉरेंस

Question Type : **MCQ**
Question ID : **264330140333**
Option 1 ID : **264330549712**
Option 2 ID : **264330549714**
Option 3 ID : **264330549713**
Option 4 ID : **264330549711**
Status : **Answered**
Chosen Option : **3**

Join Telegram Group "HaryanaJobs.in"

Q.22 ऐक्टिनाइड श्रेणी _____ धात्विक रासायनिक तत्वों का एक वर्ग है।

Ans
✔ 1. 15
✘ 2. 12
✘ 3. 18
✘ 4. 9

Question Type : **MCQ**
Question ID : **264330140936**
Option 1 ID : **264330552091**
Option 2 ID : **264330552092**
Option 3 ID : **264330552093**
Option 4 ID : **264330552094**
Status : **Answered**
Chosen Option : **2**

Q.23 पंचायतों से संबंधित प्रावधानों का उल्लेख भारतीय संविधान के किस भाग में किया गया है?

Ans
✔ 1. भाग IX
✘ 2. भाग V
✘ 3. भाग XII
✘ 4. भाग VII

Question Type : **MCQ**
Question ID : **264330139734**
Option 1 ID : **264330547353**
Option 2 ID : **264330547351**
Option 3 ID : **264330547354**
Option 4 ID : **264330547352**
Status : **Answered**
Chosen Option : **1**

Q.24 बुधादित्य मुखर्जी (Budhaditya Mukherjee) का संबंध निम्नलिखित में से किस वाद्ययंत्र से है?

Ans
✘ 1. सारंगी
✘ 2. वायलिन
✔ 3. सितार
✘ 4. वीणा

Question Type : **MCQ**
Question ID : **264330141064**
Option 1 ID : **264330552606**
Option 2 ID : **264330552603**
Option 3 ID : **264330552605**
Option 4 ID : **264330552604**
Status : **Answered**
Chosen Option : **3**

Join Telegram Group "HaryanaJobs.in"

Q.25 शैवाल के किस वर्ग को प्रायः हरा शैवाल कहा जाता है?

Ans
1. डेस्मिड्स (Desmids)
2. फियोफाइसी (Phaeophyceae)
3. क्लोरोफाइसी (Chlorophyceae)
4. रोडोफाइसी (Rhodophyceae)

Question Type : **MCQ**
Question ID : **264330140707**
Option 1 ID : **264330551178**
Option 2 ID : **264330551175**
Option 3 ID : **264330551177**
Option 4 ID : **264330551176**
Status : **Answered**
Chosen Option : **3**

Section : **English Language and Comprehension**

Q.1 Four words are given, out of which only one word is spelt correctly. Choose the correctly spelt word.

Ans
1. CAMOFLAGUE
2. COMPARSION
3. GUAGE
4. PRESENCE

Question Type : **MCQ**
Question ID : **264330135711**
Option 1 ID : **264330531731**
Option 2 ID : **264330531732**
Option 3 ID : **264330531733**
Option 4 ID : **264330531734**
Status : **Answered**
Chosen Option : **4**

Q.2 Identify the segment that contains a grammatical error. If there is no error, select 'No error'.
Most impressive / was record breaking / 75.6 FPS on Crysis.

Ans
1. No error
2. Most impressive
3. 75.6 FPS on Crysis.
4. was record breaking

Question Type : **MCQ**
Question ID : **264330136745**
Option 1 ID : **264330535690**
Option 2 ID : **264330535687**
Option 3 ID : **264330535689**
Option 4 ID : **264330535688**
Status : **Answered**
Chosen Option : **4**

Join Telegram Group "HaryanaJobs.in"

Q.3 Fill in the blank with the most appropriate option.

"What _____ your dad do at the Ministry of Magic, anyway?"

Ans
1. do ✗
2. is ✗
3. does ✓
4. have ✗

Question Type : **MCQ**
Question ID : **264330135748**
Option 1 ID : **264330531876**
Option 2 ID : **264330531878**
Option 3 ID : **264330531877**
Option 4 ID : **264330531875**
Status : **Answered**
Chosen Option : **1**

Q.4 Select the most appropriate word for the given group of words.

To move about from place to place aimlessly

Ans
1. Meadow ✗
2. Path ✗
3. Meander ✓
4. Stream ✗

Question Type : **MCQ**
Question ID : **264330136149**
Option 1 ID : **264330533398**
Option 2 ID : **264330533397**
Option 3 ID : **264330533396**
Option 4 ID : **264330533395**
Status : **Answered**
Chosen Option : **3**

Q.5 Select the most appropriate word for the given group of words.

Disappointed and annoyed about something

Ans
1. Contented ✗
2. Dissuade ✗
3. Disgruntled ✓
4. Surreal ✗

Question Type : **MCQ**
Question ID : **264330136202**
Option 1 ID : **264330533600**
Option 2 ID : **264330533602**
Option 3 ID : **264330533599**
Option 4 ID : **264330533601**
Status : **Answered**
Chosen Option : **2**

Join Telegram Group "HaryanaJobs.in"

Q.6 Improve the underlined part of the sentence. Choose 'No improvement' as an answer if the sentence is grammatically correct.

They will took their grandchildren to the zoo.

Ans

✗ 1. takes their

✓ 2. took their

✗ 3. taken their

✗ 4. No improvement

Question Type : **MCQ**
Question ID : **264330135155**
Option 1 ID : **264330529555**
Option 2 ID : **264330529557**
Option 3 ID : **264330529556**
Option 4 ID : **264330529558**
Status : **Answered**
Chosen Option : **2**

Q.7 Select the most appropriate option to substitute the bracketed segment in the given sentence. If there is no need to substitute it, select 'no substitution required'.

(The people of Philippines has voted) to elect a new president.

Ans

✗ 1. The people of Philippines have voted

✓ 2. The people of the Philippines have voted

✗ 3. The people of the Philippines has voted

✗ 4. No substitution required

Question Type : **MCQ**
Question ID : **264330135668**
Option 1 ID : **264330531567**
Option 2 ID : **264330531568**
Option 3 ID : **264330531569**
Option 4 ID : **264330531570**
Status : **Answered**
Chosen Option : **1**

Q.8 Choose the word that is opposite in meaning to the given word.

Curious

Ans

✗ 1. Doubtful

✗ 2. Complex

✗ 3. Passionate

✓ 4. Uninterested

Question Type : **MCQ**
Question ID : **264330135553**
Option 1 ID : **264330531113**
Option 2 ID : **264330531114**
Option 3 ID : **264330531111**
Option 4 ID : **264330531112**
Status : **Answered**
Chosen Option : **4**

Join Telegram Group "HaryanaJobs.in"

Q.9 Select the appropriate antonym for the underlined word.

The room beneath the collapsed building was empty.

Ans
✔ 1. mended
✘ 2. finished
✘ 3. choked
✘ 4. cracked

Question Type : **MCQ**
Question ID : **264330135528**
Option 1 ID : **264330531017**
Option 2 ID : **264330531015**
Option 3 ID : **264330531018**
Option 4 ID : **264330531016**
Status : **Answered**
Chosen Option : **1**

Q.10 Find the part of the given sentence that has an error in it. If there is no error, choose 'No error'.
I began with writing one a week and now I do so every day.

Ans
✘ 1. now I do so every day.
✘ 2. No error
✔ 3. one a week and
✘ 4. I began with writing

Question Type : **MCQ**
Question ID : **264330135535**
Option 1 ID : **264330531045**
Option 2 ID : **264330531046**
Option 3 ID : **264330531044**
Option 4 ID : **264330531043**
Status : **Answered**
Chosen Option : **4**

Q.11 Find the part of the given sentence that has an error in it. If there is no error, choose 'No error'.

Writing habit is a good and easily exercise for the brain.

Ans
✔ 1. good and easily exercise
✘ 2. for the brain.
✘ 3. No error
✘ 4. Writing habit is a

Question Type : **MCQ**
Question ID : **264330135638**
Option 1 ID : **264330531452**
Option 2 ID : **264330531453**
Option 3 ID : **264330531454**
Option 4 ID : **264330531451**
Status : **Answered**
Chosen Option : **1**

Join Telegram Group "HaryanaJobs.in"

Q.12 Select the most appropriate meaning of the given idiom.

For better or (for) worse

Ans
1. Extreme enthusiasm
2. To accept whatever results; good or bad
3. To be in trouble
4. Become out of control

Question Type : **MCQ**
Question ID : **264330135709**
Option 1 ID : **264330531725**
Option 2 ID : **264330531724**
Option 3 ID : **264330531726**
Option 4 ID : **264330531723**
Status : **Answered**
Chosen Option : **2**

Q.13 Select the wrongly spelt word.

Ans
1. Annul
2. Adverse
3. Anarcy
4. Adulterate

Question Type : **MCQ**
Question ID : **264330136367**
Option 1 ID : **264330534235**
Option 2 ID : **264330534238**
Option 3 ID : **264330534236**
Option 4 ID : **264330534237**
Status : **Answered**
Chosen Option : **3**

Q.14 Fill in the blank with the most appropriate option.

When we reached my room, I couldn't _____ back my smile.

Ans
1. hold
2. held
3. kept
4. squeeze

Question Type : **MCQ**
Question ID : **264330135721**
Option 1 ID : **264330531773**
Option 2 ID : **264330531771**
Option 3 ID : **264330531772**
Option 4 ID : **264330531774**
Status : **Answered**
Chosen Option : **1**

Join Telegram Group "HaryanaJobs.in"

Q.15 Select the word from the options which is similar in meaning to the bracketed word given in the sentence below.
He is interested in how our (perceptions) of death affect the way we live.

Ans

✗ 1. misconceptions

✗ 2. bewilderments

✓ 3. approaches

✗ 4. ignorance

Question Type : **MCQ**
Question ID : **264330135732**
Option 1 ID : **264330531812**
Option 2 ID : **264330531813**
Option 3 ID : **264330531811**
Option 4 ID : **264330531814**
Status : **Answered**
Chosen Option : **3**

Q.16 Improve the underlined part of the sentence. Choose 'No improvement' as an answer if the sentence is grammatically correct.

What should I doing if the power goes out?

Ans

✓ 1. should I do

✗ 2. No improvement

✗ 3. shall I does

✗ 4. should I had done

Question Type : **MCQ**
Question ID : **264330135640**
Option 1 ID : **264330531460**
Option 2 ID : **264330531462**
Option 3 ID : **264330531461**
Option 4 ID : **264330531459**
Status : **Answered**
Chosen Option : **1**

Q.17 Select the most appropriate meaning of the given idiom.

Long in the tooth

Ans

✓ 1. To be old, often too old to do something

✗ 2. The show has come to an end

✗ 3. Killing of a certain ethnic or religious group on a massive scale

✗ 4. Be optimistic, even difficult times will lead to better days

Question Type : **MCQ**
Question ID : **264330136365**
Option 1 ID : **264330534227**
Option 2 ID : **264330534228**
Option 3 ID : **264330534229**
Option 4 ID : **264330534230**
Status : **Answered**
Chosen Option : **4**

Join Telegram Group "HaryanaJobs.in"

Q.18 Select the most appropriate option to fill in the blank.

Instead of the sweet taste she expected, it was _____ - like alum

Ans
1. dulcet
2. bitter
3. tenacious
4. aromatic

Question Type : **MCQ**
Question ID : **264330135177**
Option 1 ID : **264330529642**
Option 2 ID : **264330529640**
Option 3 ID : **264330529641**
Option 4 ID : **264330529639**
Status : **Answered**
Chosen Option : **2**

Q.19 Fill in the blank with the most appropriate option.

They were _____ there when Janvi heard something large and heavy collide with the door.

Ans
1. almost
2. about
3. most
4. much

Question Type : **MCQ**
Question ID : **264330136159**
Option 1 ID : **264330533438**
Option 2 ID : **264330533435**
Option 3 ID : **264330533436**
Option 4 ID : **264330533437**
Status : **Answered**
Chosen Option : **1**

Q.20 Select the most appropriate synonym of the given word.

Advocate

Ans
1. Experience
2. Forever
3. Support
4. Justice

Question Type : **MCQ**
Question ID : **264330135861**
Option 1 ID : **264330532308**
Option 2 ID : **264330532307**
Option 3 ID : **264330532310**
Option 4 ID : **264330532309**
Status : **Answered**
Chosen Option : **4**

Join Telegram Group "HaryanaJobs.in"

Comprehension:

In the following passage some words have been deleted. Fill in the blanks with the help of the alternatives given. Select the most appropriate option for each number.

Body language (1) _____ ideas or thoughts by certain actions, either intentionally or unintentionally. A (2) _____ can be a way of flirting or indicating that the party is only joking . A (3) _____ signifies approval, while (4) _____ of the head indicates a negative reaction.
Other forms of non (5) _____ language can be found in Braille (a system of raised dots read with the fingertips), signal flags, Morse code, and smoke signals..

SubQuestion No : 21

Q.21 Select the most appropriate option to fill in blank number 1.

Ans

✔ 1. transmits

✘ 2. delimits

✘ 3. intermits

✘ 4. retransmits

Question Type : **MCQ**
Question ID : **264330136353**
Option 1 ID : **264330534180**
Option 2 ID : **264330534181**
Option 3 ID : **264330534179**
Option 4 ID : **264330534182**
Status : **Answered**
Chosen Option : **1**

Comprehension:

In the following passage some words have been deleted. Fill in the blanks with the help of the alternatives given. Select the most appropriate option for each number.

Body language (1) _____ ideas or thoughts by certain actions, either intentionally or unintentionally. A (2) _____ can be a way of flirting or indicating that the party is only joking . A (3) _____ signifies approval, while (4) _____ of the head indicates a negative reaction.
Other forms of non (5) _____ language can be found in Braille (a system of raised dots read with the fingertips), signal flags, Morse code, and smoke signals..

SubQuestion No : 22

Q.22 Select the most appropriate option to fill in blank number 2.

Ans

✘ 1. clap

✔ 2. wink

✘ 3. shake

✘ 4. nod

Question Type : **MCQ**
Question ID : **264330136354**
Option 1 ID : **264330534186**
Option 2 ID : **264330534183**
Option 3 ID : **264330534184**
Option 4 ID : **264330534185**
Status : **Answered**
Chosen Option : **2**

Join Telegram Group "HaryanaJobs.in"

Comprehension:

In the following passage some words have been deleted. Fill in the blanks with the help of the alternatives given. Select the most appropriate option for each number.

Body language (1) _____ ideas or thoughts by certain actions, either intentionally or unintentionally. A (2) _____ can be a way of flirting or indicating that the party is only joking . A (3) _____ signifies approval, while (4) _____ of the head indicates a negative reaction.
Other forms of non (5) _____ language can be found in Braille (a system of raised dots read with the fingertips), signal flags, Morse code, and smoke signals..

SubQuestion No : 23

Q.23 Select the most appropriate option to fill in blank number 3.

Ans

✗ 1. clap

✓ 2. nod

✗ 3. shake

✗ 4. wink

Question Type : **MCQ**
Question ID : **264330136355**
Option 1 ID : **264330534190**
Option 2 ID : **264330534189**
Option 3 ID : **264330534188**
Option 4 ID : **264330534187**
Status : **Answered**
Chosen Option : **3**

Comprehension:

In the following passage some words have been deleted. Fill in the blanks with the help of the alternatives given. Select the most appropriate option for each number.

Body language (1) _____ ideas or thoughts by certain actions, either intentionally or unintentionally. A (2) _____ can be a way of flirting or indicating that the party is only joking . A (3) _____ signifies approval, while (4) _____ of the head indicates a negative reaction.
Other forms of non (5) _____ language can be found in Braille (a system of raised dots read with the fingertips), signal flags, Morse code, and smoke signals..

SubQuestion No : 24

Q.24 Select the most appropriate option to fill in blank number 4.

Ans

✗ 1. nod

✓ 2. shake

✗ 3. wink

✗ 4. clap

Question Type : **MCQ**
Question ID : **264330136356**
Option 1 ID : **264330534193**
Option 2 ID : **264330534192**
Option 3 ID : **264330534191**
Option 4 ID : **264330534194**
Status : **Answered**
Chosen Option : **1**

Join Telegram Group "HaryanaJobs.in"

Comprehension:

In the following passage some words have been deleted. Fill in the blanks with the help of the alternatives given. Select the most appropriate option for each number.

Body language (1) _____ ideas or thoughts by certain actions, either intentionally or unintentionally. A (2) _____ can be a way of flirting or indicating that the party is only joking . A (3) _____ signifies approval, while (4) _____ of the head indicates a negative reaction.
Other forms of non (5) _____ language can be found in Braille (a system of raised dots read with the fingertips), signal flags, Morse code, and smoke signals..

SubQuestion No : 25

Q.25 Select the most appropriate option to fill in blank number 5.

Ans

✗ 1. holistic

✓ 2. linguistic

✗ 3. parodistic

✗ 4. logistic

Question Type : **MCQ**
Question ID : **264330136357**
Option 1 ID : **264330534198**
Option 2 ID : **264330534195**
Option 3 ID : **264330534196**
Option 4 ID : **264330534197**
Status : **Answered**
Chosen Option : **3**